DİJİTAL KÜTÜPHANE KANALI

Keyifli Okumalar Dileriz

Binlerce kategoride milyonlarca PDF e-kitap, ders kitapları, dergiler ve romanlara platformumuz üzerinden ücretsiz ulaşabilirsiniz.

RESMİ WEB SİTEMİZ

https://rantey.org

Yedek ve Duyuru Kanallarımız
Sitemize erişim engeli gelmesi veya adres değişikliği durumunda aşağıdaki kanallardan güncel giriş adresine erişebilirsiniz:

• Telegram: https://t.me/birkitapbir

• WhatsApp Kanalımız : https://whatsapp.com/channel/0029VbDHv8uE50Us4IvMoc0Y

ORTAÖĞRETİM ÖN LİSANS

2022-KPSS

5 DERS TEK KİTAP

Genel Yetenek Genel Kültür

SON ANAYASA DEĞİŞİKLİKLERİNİ KAPSAR

SORU BANKASI

AÇIKLAMALI VE ÇÖZÜMLÜ GÜNCEL SORULAR

MURAT yayınları 1983

MURAT YAYINLARI

Ücretsiz PDF Kitap Arsivi - https://rantey.org

Ücretsiz PDF Kitap Arsivi - https://rantey.org

İÇİNDEKİLER

ORTAÖĞRETİM ÖN LİSANS 5 DERS TEK KİTAP SORU BANKASI	SAYFA
TÜRKÇE	5
MATEMATİK	161
TARİH	407
TÜRKİYE COĞRAFYASI	681
TEMEL YURTTAŞLIK BİLGİSİ	821

Ücretsiz PDF Kitap Arsivi - https://rantey.org

5 DERS
TEK KİTAP
Genel Yetenek - Genel Kültür

SORU BANKASI

Türkçe

Ücretsiz PDF Kitap Arsivi - https://rantey.org

MURAT yayınları 1983
MURAT YAYINLARI

Sözcükte Anlam - I • TEST 1

1. **Aşağıdaki cümlelerin hangisinde ayraç içinde verilen açıklama, altı çizili sözcüğe uygun değildir?**

A) Zar zor da olsa duvarda bir oyuk açabildik. (delmek)

B) Eşinin ölümünden sonra bir daha girmediği bu odayı bize açtı. (tekrar görünür hâle getirmek)

C) Koltukta uyuklayınca televizyon sabaha kadar açık kalmış. (işler durumda olmak)

D) Açıkçası, o günlerde markamız pek çok kişi tarafından bilinmiyordu. (doğrusu)

E) Seri katilin olay yerinde kopan düğmesi onu açığa vurmuştu. (belli olmak)

2. **Aşağıdaki cümlelerin hangisinde** "hafif" **sözcüğü diğerlerinden farklı bir anlamda kullanılmıştır?**

A) Hafif çuvalları kamyonun ön tarafına yerleştirin.

B) Hırsız, yükte hafif pahada ağır ne varsa toplayıp götürmüş.

C) Katmanların arasına gaz basarak camların hafif olmasını sağlıyorlar.

D) Hafif hasarlı kazalarınızda raporu kendiniz de tutabilirsiniz.

E) Aynı hacimdeki kurşun, cıvadan daha hafiftir.

3. **Aşağıdaki cümlelerin hangisinde** "taşımak" **sözcüğü** "duymak, hissetmek" **anlamında kullanılmıştır?**

A) Mahalle aralarında sırtlarında küfe taşıyan insanlar görürdünüz buralarda.

B) Şeker hastası olduğundan cebinde sürekli şeker taşırdı.

C) Bir padişahta olması gereken tüm özellikleri taşıyor bu genç şehzade.

D) Köprünün tüm ağırlığını taşıyan çelik halatlara bakım yapılması lazım.

E) Hayvan sevgisi taşıyan her çocuk başkasına zarar vermez.

4. I. Bir anda etrafı kırmızıya boyayan şeyin ne olduğunu kimse anlayamadı.

II. Çocukları ilkokuldan önce anaokullarına göndermek zorunluluk oldu.

III. Oturmuş tatlı tatlı sohbet ederken birden yüzü düşünce pot kırdığımı anlamıştım.

IV. Artık yeşerecek bir dalım yok, yağmurlar yağsa da boş yağmasa da.

Yukarıdaki numaralanmış cümlelerin hangilerinde altı çizili sözcükler anlamca birbirine en yakındır?

A) I ve II B) I ve III C) II ve III D) II ve IV E) III ve IV

5. **Aşağıdaki cümlelerin hangisinde altı çizili sözcük mecaz anlamda kullanılmıştır?**

A) Gözlerini ufka dikmiş, günlerdir denizde olan babasını bekliyordu.

B) Kimseye ihtiyacı olmadığını üstüne basa basa söylemişti bize.

C) Köşedeki koltuğun arkasına saklanmasına rağmen titrediğini anlayabiliyorduk.

D) Ağacın en üstteki dalına uzanıp yavru kediye ulaştı.

E) Yıllar sonra çıkıp gelince Nevzat'ın gönlündeki aşk alevleniverdi.

6. **Aşağıdaki cümlelerin hangisinde** "üstüne" **sözcüğü bir eylemin sürekli olduğunu göstermek amacıyla kullanılmıştır?**

A) Bacak bacak üstüne atıp oturmak aslında kötü bir alışkanlıkmış.

B) "Bu olayın üstüne gitmeyi bırakmalısın." diye uyarmıştı genç polisi.

C) İşi çok iyi biliyordu ama söylenenlere kulak asmayıp hata üstüne hata yapıyor.

D) Yolun üstüne çizilmiş desenler çok gerçekçi duruyor.

E) Ev üstüne ev kurulmuş, diyerek yine laf sokmuştu annem.

Ücretsiz PDF Kitap Arsivi - https://rantey.org

MURAT YAYINLARI

7. **Aşağıdaki cümlelerin hangisinde altı çizili sözcük gerçek anlamda kullanılmıştır?**

A) Dirsekleri sürekli masaya dayadığı için nasır tutmuştu.
B) Bu çizimleri yarına yetiştiremezsem yandım demektir.
C) Eskiden botların burnuna demir parça koyarlardı.
D) Bayram yemeği için iki tencere sarma sardık.
E) Köyden kalkan tek otobüse binmek için yolun ağzında bekleyin.

8. **Aşağıdaki cümlelerin hangisinde, ikileme cümleye "önündeki engellere aldırmadan" anlamı katmıştır?**

A) Gökte parça parça bulutlar akıp gidiyordu.
B) Ara sıra her zamanki mekânda buluşuyorlarmış.
C) Kapıyı bekleyen küçük çocuk tuhaf tuhaf yüzüme baktı.
D) Dere tepe demeden günlerce av peşinde koşmuştu Osman.
E) Yavaş yavaş aklaşan saçları ona ayrı bir hava katmış.

9. İnsanlar eksiklerinin söylenmesine dayanamazlar. Bir kişiyi övüyorsanız siz o kişinin gözünde büyüksünüz, değerlisiniz. Ama onun eksiklerini dile getiriyorsanız kötüsünüz, sizin onun yanında yeriniz yoktur artık.

Bu parçada ileri sürülen düşünceyi en iyi anlatan atasözü aşağıdakilerden hangisidir?

A) Akıl akıldan üstündür.
B) Besle kargayı, oysun gözünü.
C) El yumruğunu yemeyen, kendi yumruğunu balyoz sanır.
D) Güvenme varlığa, düşersin darlığa.
E) Doğru söyleyeni dokuz köyden kovarlar.

10. İnsanların, yokluğunu çektikleri şeyler için olmayacak hayaller kurması ---- sözüyle anlatılır.

Bu cümlede boş bırakılan yere aşağıdakilerden hangisi getirilmelidir?

A) yarı aça yarı tok
B) aç susuz kalmak
C) aç tavuk kendini buğday ambarında sanır
D) yer demir gök bakır
E) ağzı açık ayran budalası

11. **Aşağıdaki cümlelerin hangisinde aynı varlığın karşıt durumları birlikte verilmiştir?**

A) İşe yeni başladığı günlerde sıkılgan olan çocuk, kabak çiçeği gibi açıldı.
B) İki lafı bir araya getiremediğinden konuşmayı tercih eder.
C) En ağır koşullarda bile çalışır, gıkını çıkarmazdı.
D) Abisi çok becerikli ama bunun elinden hiçbir iş gelmez.
E) Kocaman ormanı kese kese bitirdiler, şimdi o ağaçların yerinde yeller esiyor.

12. **Aşağıdaki cümlelerin hangisinde** "göstermek" **sözcüğü** "Söz sanatlarına yer vermeyen şiirlerin de güzel olabileceğini herkese gösterdi." **cümlesindekiyle eş anlamda kullanılmıştır?**

A) Düzyazıya yaklaştırılan bir şiirin, şiir olma niteliğini kaybedeceğini gösterdi.
B) Kitaplığındaki el yazması eski şiir kitaplarını konuklarına gösterdi.
C) Sorularda yaptığı hataları ona tek tek gösterdi.
D) Başkalarına gösterdiği ilginin birazını bana göstermesini beklerdim.
E) Arabanın motorundan gelen sesi bir ustaya göstermelisin.

13. **Aşağıdaki cümlelerin hangisinde somutlamaya örnek olabilecek bir kullanım vardır?**

A) Onun düşüncelerini öğrenmek bana da yeni görüşler verecektir.
B) Hayallerim dağcılara benziyor, sürekli dağların zirvesine tırmanmak istiyor.
C) Kar yağdığı zaman, çam ağaçları ayrı bir güzel oluyor.
D) Bazı filmler, kaliteli olanın reklama gerek duymadığını kanıtlıyor.
E) Maketlerime öyle özen gösteririm ki kimsenin dokunmasına izin vermem.

MURAT YAYINLARI

Ücretsiz PDF Kitap Arsivi - https://rantey.org

14. Aşağıdaki cümlelerden hangisinde ad aktarması vardır?

A) Birçok yazarımız, yabancı dillere çevrilmekte yabancı ülkelerde okunmaktadır.

B) Yazarlarımız toplumsal işlevlerini yerine getirmekten kaçınmıyorlar.

C) Her ozanın kendine özgü bir anlatımı vardır.

D) Bir yapıtın çağını ve toplumunu aşması özgürlüğe bağlıdır.

E) Sanatçının hemen hemen tümü "özgürlük" konusunu işlemiştir.

15. Aşağıdaki cümlelerin hangisinde doğaya özgü bir durum insana aktarılmıştır?

A) Deniz, yavrusunu kucaklamış bir anne gibi sakindi.

B) Açgözlü metro koskocaman treni sanki yutuyor.

C) Öğrenci, öğretmeni girdikten iki dakika sonra sınıfa damladı.

D) Dağların eteklerinde binlerce gelincik belirmişti.

E) Yağmurlar sığınıyordu gözyaşlarına.

16. Aşağıdaki cümlelerin hangisine "göre" sözcüğü "karşılaştırma" anlamı katmıştır?

A) Bana göre bu olayda, haksız olan Yeliz'dir.

B) Delikanlı, babasına göre daha uzun boyluydu.

C) Filmi izlemeden, eleştirilere göre değerlendirmemelisin.

D) Annen izin verdiğine göre, gidebiliriz.

E) Bu davranışının sebebi bize göre ne olabilir?

17. Aşağıdaki cümlelerin hangisinde dolaylama vardır?

A) Ormanlarımıza gereken özeni göstermek bir vatan borcudur.

B) Aşırı gürültü, işitme organlarıyla ilgili rahatsızlıklara yol açar.

C) Sevdiklerinle beraber zaman geçirmek başka güzeldir.

D) Ülkemizde kömür tüketimi her geçen yıl artmaktadır.

E) Bu yıl turizm gelirleri beklenenin altında oldu.

18. "Bakmak" sözcüğü, değişik anlamlara gelecek şekilde kullanılır. Örneğin, (I) "gözleri bir şey üzerine çevirmek" için "Sesin geldiği yöne baktı."; (II) "gözlemek", "seyretmek" anlamı için "Dürbünle karşı dağlara bakıyordu."; (III) "aramak" anlamı için "Bütün çekmecelere baktı."; (IV) "bir işi yapmakla görevli olmak" anlamı için "Gelen yazılara yanıt verme işine ben bakıyorum."; (V) "gözetmek" anlamı için "Tohumun nasıl filizlendiğine bakıyorum." deriz.

Bu parçadaki numaralanmış yerlerin hangisinde, "bakmak" sözcüğünün anlamıyla kullanımı uyuşmamaktadır?

A) I B) II C) III D) IV E) V

19. Gösteriyi izlemek için bütün apartman pencereleydi.

Bu cümledeki altı çizili sözün kullanılışından doğan anlam özelliği için, aşağıdakilerden hangisi söylenebilir?

A) Bir başka kavrama benzetilerek yan anlam kazanmıştır.

B) Terim anlamıyla kullanılmıştır.

C) Benzetme ilgisi kurulmaksızın, ilgili olduğu başka bir kavramın yerine kullanılmıştır.

D) Soyut bir kavram somutlaştırılarak mecaz anlamda kullanılmıştır.

E) Doğaya özgü bir nitelik, insana aktarılarak sözcüğe mecaz anlam kazandırılmıştır.

20. Herkes, eski yıllardan devralınan basmakalıp yargıları tekrar edip duruyor.

Bu cümledeki "basmakalıp yargılar" sözüyle anlatılmak istenen, aşağıdakilerden hangisidir?

A) Özgün olmayan, bilineni yineleyen düşünceler

B) Geçerliliğini yitirmiş düşünceler

C) Eskiden ortaya konmuş yanlış düşünceler

D) Belli kişilerin eskimiş düşünceleri

E) Yanlış olduğu için dikkate alınmaması gereken düşünceler

MURAT YAYINLARI

Ücretsiz PDF Kitap Arsivi - https://rantey.org

Açıklamalar • TEST 1

1. **B** Altı çizili sözcük cümlede "kullanılmasını sağlamak" anlamında kullanıldığından açıklamaya uygun değildir.

2. **D** "Hafif" sözcüğü A, B, C ve E seçeneklerinde gerçek anlamıyla yani "ağır" sözcüğünün zıt anlamlısı olarak kullanılmıştır. D seçeneğindeyse "çok fazla olmayan" anlamında kullanılmıştır.

3. **E** "Hayvan sevgisi taşıyan her çocuk başkasına zarar vermez." cümlesindeki "taşıyan" sözcüğü "duymak, hissetmek" anlamında kullanılmıştır.

4. **B** I ve III numaralı cümlelerdeki altı çizili sözcükleri yer değiştirdiğimizde cümlelerin anlamında herhangi bir değişiklik olmaz. Bu sebeple bu sözcükler yakın anlamlıdır.

5. **E** Altı çizili sözcükler A, B, C ve D seçeneklerinde gerçek anlamlarıyla kullanılmıştır. E seçeneğindeyse "tekrardan meydana çıkmak" anlamında mecaz anlamda kullanılmıştır.

6. **C** "İşi çok iyi biliyordu ama söylenenlere kulak asmayıp hata üstüne hata yapıyor." cümlesindeki "üstüne" sözcüğü aynı hatayı sürekli yaptığını gösterdiğinden soru kökünde istenilen anlama uygundur.

7. **A** Altı çizili sözcük B seçeneğinde mecaz, C seçeneğinde yan, D seçeneğinde yan, E seçeneğinde yan anlamda kullanılmıştır.

8. **D** Seçeneklerde "önündeki engellere aldırmadan" anlamını veren ikileme D seçeneğindeki "dere tepe" ikilemesidir.

9. **E** Parçada, bir kişinin eksik yönlerini görüp onu eleştirmenin o kişinin hoşuna gitmeyeceği anlatılmıştır. Bu durumu en iyi anlatan atasözü de E seçeneğindeki atasözüdür.

10. **C** "Aç tavuk kendini buğday ambarında sanır." atasözü "Yoksulluk çeken, varlık yüzü görmeyen kişi sürekli ihtiyaç duyduğu şeylerin hasretini çeker." anlamına geldiğinden boş bırakılan yere gelir.

11. **A** "İşe yeni başladığı günlerde sıkılgan olan çocuk, kabak çiçeği gibi açıldı." cümlesinde "sıkılgan" ve "kabak çiçeği gibi açılmak" sözleri aynı varlığın karşıt durumlarını verir.

12. **A** "Göstermek" sözcüğü öncül cümlede "kanıtlamak" anlamında kullanılmıştır. Aynı anlam da A seçeneğindeki cümlede vardır.

13. **B** "Hayallerim dağcılara benziyor, sürekli dağların zirvesine tırmanmak istiyor." cümlesinde hayaller dağcılara benzetilerek soyut bir durum somut hâle getirilmiştir.

14. **A** "Birçok yazarımız, yabancı dillere çevrilmekte yabancı ülkelerde okunmaktadır." cümlesindeki "yazar" sözcüğüyle yazdıkları eserler kastedilmiş ve ad aktarması yapılmıştır.

15. **C** C seçeneğindeki cümlede, "damladı" sözcüğüyle doğadaki bir varlığın durumu insana aktarılmıştır.

16. **B** "Delikanlı, babasına göre daha uzun boyluydu." cümlesinde "göre" sözcüğüyle babasıyla delikanlı arasında bir karşılaştırma yapılmıştır.

17. **B** B seçeneğindeki cümlede "işitme organı" sözüyle dolaylama yapılmıştır. Yani "kulak" denmemiş, "işitme organı" sözü kullanılmıştır.

18. **E** "Bakmak" sözcüğü V numaralı yerde "gözetmek" anlamında değil, "izlemek, takip etmek" anlamında kullanılmıştır.

19. **C** Öncül cümlede altı çizili sözcük ad aktarmasına uğramıştır. Buna uygun bir kullanım da C seçeneğinde açıklanmıştır.

20. **A** "Basmakalıp" sözü "var olan, bilineni tekrarlayan" anlamında kullanılmıştır.

MURAT YAYINLARI

Ücretsiz PDF Kitap Arsivi - https://rantey.org

Sözcükte Anlam - II • TEST 2

1. İyi bir prense dair en önemli umudumuz eğitimidir, özellikle buna bakılmalıdır. Bu nedenle, geleceğin prensinin henüz açık ve biçimlendirilmemiş olan zihni, beşikten itibaren faydalı fikirlerle doldurulmalıdır. Ardından onun ruhunun bakir toprağına ahlak tohumları ekilmelidir, böylece yıllar geçtikçe ve prens deneyim kazandıkça ahlakı da büyür ve tüm hayatı boyunca sağlam biçimde yerinde durur.

Bu cümledeki altı çizili sözle anlatılmak istenen aşağıdakilerden hangisidir?

A) Psikolojik destek verilmesi gerektiği
B) İlk eğitimini ailesinin vermesi gerektiği
C) Ahlaklı biri olarak yetiştirilmesi gerektiği
D) Eğitimine önem verilmesi gerektiği
E) Kişiliğinin kazandırılması gerektiği

2. Akın Ersan'ı 1950'lerde Yeni İstanbul gazetesinde çalışırken tanıdım. O sıralar Adil Soyer takma adıyla gazeteye yazılar yazıyor, çoğu zaman Türkçesi tekliyordu. Bu tekleme doğaldı çünkü Akın dışarıda büyümüş, okumuş, yetişmişti; yabancı dilleri önce, Türkçeyi sonra öğrenmişti. Böyle bir insanın gelecekte güzelim bir Türkçeyle Anadolu uygarlığına sahip çıkacağını kim söyleyebilirdi?

Bu cümledeki altı çizili sözle anlatılmak istenen aşağıdakilerden hangisidir?

A) Anadolu'ya gelerek Türkçesini düzeltmek
B) Yazılarında Anadolu uygarlığından sıkça bahsetmek ve benimsemek
C) Usta bir yazar olmak
D) Anadolu'ya yerleşip yazılarını burada yazmak
E) Anadolu'nun ününü yabancı coğrafyalara yaymak

3. "Dil sosyal bir kurumdur. Bireylerin üstünde, bütün bir toplumun malı olan ve bütün bir toplumu içine alan güçlü bir kurumdur. Toplumun en büyük dayanağı dildir. Bir toplumu ----, bir milleti millet yapan değerlerin başında dil gelir."

Bu parçada boş bırakılan yere aşağıdakilerden hangisi getirilebilir?

A) kalıcılık sağlayana
B) anlayan
C) bütünleştiren
D) ayakta tutan
E) güç veren

4. **Aşağıdaki cümlelerin hangisinde ikileme yapılışı bakımından diğerlerinden farklıdır?**

A) O yamru yumru topla futbol mu oynanır?
B) Eskiden beri bu derme çatma binada oturuyor.
C) Benimle konuşurken çıtı pıtı bir kız yanımıza geldi.
D) Abuk sabuk tavırlarınla canımı sıkıyorsun.
E) Sabahtan beri mırın kırın ettin anlat bakalım derdini.

5. Çizme gıcırtısıyla mahmuz şakırtısı erkekliğe ve savaşa dönük (yönelik) çağrışımları
I
uyandırırdı; çağ değişince, teknoloji gelişince beklenmedik (umulmadık) bir dönüşümü yaşadık.
II
Kadınlar, pantolonla birlikte (beraber) çizmeyi de
III
erkeklerden aldılar, güzel bacaklarına, ince ayaklarına geçirdiler (taktılar). Kazakların, efelerin,
IV
silahşorların, süvarilerin tarih sayfalarında kuruyup kalmaları çizmenin yazgısını (kaderini) değiştirdi.
V

Bu parçadaki numaralanmış sözlerin hangisi, ayraç içinde verilen açıklamasıyla anlamca uyuşmamaktadır?

A) I. B) II. C) III. D) IV. E) V.

6. (I) Bilgisizliğim ortaya çıkmasın diye içimdeki soruyu dışa vurmadım. (II) Oda müziğinin 18'inci yüzyılda saray salonlarında oluştuğunu biliyorum. (III) Müziği severim, ne var ki sevgi her şeye yetmiyor. (IV) Leonardo "Sevgi bilgiden doğar." demiş. (V) Bilgisiz sevgi, kimi zaman insanı boşluğa itebilir. (VI) Kim bilir, belki artık oda müziği konserleri de açık havada düzenlenir.

Bu parçadaki numaralanmış cümlelerin hangisinde insana ait bir özellik insan dışındaki bir varlığa aktarılmıştır?

A) I. B) II. C) III. D) IV. E) V.

Ücretsiz PDF Kitap Arsivi - https://rantey.org

MURAT YAYINLARI

7. "Yazar, yaşadıklarını yerinde betimlemeler ve kısa cümlelerle abartılı anlatıma bel bağlamadan aktarmayı başarmıştır."

Bu cümledeki altı çizili sözle anlatılmak istenen aşağıdakilerden hangisidir?

A) Başkalarının anlatımına yaklaşmak
B) Sözcüklerin seçiminde titiz davranmak
C) Uzun ve karmaşık cümlelerden kaçınmak
D) Sade ve yalın bir anlatımı tercih etmek
E) Cümleleri özenle kurmak

8. "Dostluklar, kişisel sınırların genişlemeye başladığı noktada yeşerir."

Bu cümlede geçen "kişisel sınırların genişlemesi" **sözüyle anlatılmak istenen, aşağıdakilerden hangisidir?**

A) Sıcakkanlı olması
B) Dikkatli olması
C) Paylaşılanların artması
D) Can alıcı noktaların yakalanması
E) İhanet etmemesi

9. "Genç bir edebiyatçı, ayaküstü yakaladığı kimselerin Ataç'la ilgili görüşlerini alıyor. Tutarsız, yüzeysel, küçültücü, çirkin bir Ataç görüntüsü veren sözler... Ama bilmiyor ki öyle ayaküstü, dilimize geliverdiği gibi ağzınızdan kaçırdığınız bir söz, geniş bir edebiyat kuşağını etkileyen Nurullah Ataç gibi bir kültür insanının defterini dürmeye yetmez."

Bu parçada geçen "defterini dürmek" **sözüyle anlatılmak istenen aşağıdakilerden hangisidir?**

A) Düşüncelerini ve hizmetlerini yok saymak
B) Onurunu kırmaya çalışmak
C) Düşüncelerini farklı bir açıdan ele almak
D) Söylediklerini çarpıtmak
E) Yazdıklarını değiştirmek

10. "Sanatçı kalıcı olabilmek, gelecek nesillere seslenmek istiyorsa farklı bir ses yakalamalıdır."

Bu parçadaki "farklı bir ses" **sözüyle anlatılmak istenen aşağıdakilerden hangisidir?**

A) Kullanılmış biçimleri uygulama
B) Uzun betimlemeler yapma
C) Günlük bir dil kullanma
D) Sıradan konulara yer verme
E) Özgün bir anlatım kullanma

11. "Bazı düşünürler edebi eseri tek başına incelemekten çok, onu ispat etmek istedikleri davanın bir parçası olarak görürler."

Bu parçadaki altı çizili sözle anlatılmak istenen aşağıdakilerden hangisidir?

A) Eserin edebi yönünü kanıtlarıyla ortaya koymak
B) Edebi eseri, devrin ortamıyla ele almak
C) Görüşlerine eserde yer vermemek
D) Edebi eseri kendi düşüncelerini açıklamada kullanmak
E) Edebi eseri sebep-sonuç ilişkisiyle açıklamak

12. "Eğer biri, seni doğru bildiğinden vazgeçirip kendi doğrularını sana dayatmaya çalışırsa o insandan ve onun düşüncelerinden kendini sakın."

Bu cümlede geçen altı çizili sözcükle yakın anlamlı olan sözcük aşağıdakilerin hangisinde kullanılmıştır?

A) Kendimi bildim bileli yalan söylemekten korkmuşumdur.
B) Korkularımızın üstüne gitmekten başka çaremiz yoktur.
C) Konuyu arkadaşlarına üstünkörü anlatmana çok şaşırdım.
D) Çocuklarımızı teknolojinin zararlarından uzak tutmalıyız.
E) Yaşamak için en çok ihtiyacımız olan şey, kendimize güvenmektir.

MURAT YAYINLARI

Ücretsiz PDF Kitap Arsivi - https://rantey.org

13. "Necip Fazıl öleli yani bizi büyük ustasız bırakalı çok zaman oldu. Bazen düşünüyorum da Necip Fazıl'ın kahramanları sayıca az da olsa hâlâ yaşıyorlar."

Bu parçada geçen "Necip Fazıl'ın kahramanları" **sözüyle anlatılmak istenen aşağıdakilerin hangisidir?**

A) Necip Fazıl'ın sevenleri
B) Onun ailesi
C) Eserlerindeki kişiler
D) Necip Fazıl gibi düşünenler
E) Onun okuyucuları

14. "Birçok şair, bir akımın veya büyük bir şairin gölgesine atmış minderini; yıllardır çoğaltıp durur, kendini."

Bu cümlede geçen "şairin gölgesine minderini atmak" **sözüyle anlatılmak istenen aşağıdakilerden hangisidir?**

A) Değişik anlatım yöntemleri bulmak
B) Hayatı anlatan şiirler bulmak
C) Eski şiirden yeniyi yaratmak
D) Özgünlükten yoksun, taklitçi olmak
E) Orijinal metinler oluşturmak

15. **Aşağıdaki cümlelerin hangisinde** "yalnız" **sözcüğü cümleye** "sadece" **anlamı katmıştır?**

A) Yalnızlığının faturasını kimselere ödetmemelisin.
B) Yalnızların hâlinden ben anlamam, diyordu.
C) Yalnız kalmak istemiyorsan sen de bizimle gel.
D) Bu sorunu yalnız Tarkan Bey çözebilir.
E) İstediklerini yaparım yalnız beni de götürecek-sin buradan.

16. **Aşağıdaki cümlelerin hangisinde** "dolaylama" **vardır?**

A) Çoğu zaman bilimsel olmanın hiçbir önemi yoktur.
B) Hayat arkadaşı ölünce dünyada yapayalnız kaldı.
C) Ağacın gövdesinde derin bir balta izi vardı.
D) Yağmur, bu toprakları çoktan unutmuştu.
E) Evi alabilmek için arabayı satmak gerekiyordu.

17. (I) Sayısı iki yüze yaklaşan romanları, çeşitli bilim dalları üzerine temellenmiştir. (II) Serüven tutkusu, denizcilik, tarih, coğrafya gibi alanlardan aldığı ögelerle beslenerek yazdıklarının çekirdeğini oluşturur. (III) Yazar, bu bilim dallarına ilişkin bilgilerini saatlerini geçirdiği gıcırtılı kütüphanelerdeki binlerce kitaba borçludur. (IV) Herhangi bir bilim dalında uzman olmadığı hâlde yaşadığı dönemdeki her türlü gelişmeyi yakından izler. (V) Böylece hem çağını çok iyi tanır hem de çağının getirdiği yenilikleri özümseyerek geleceğe yönelik öngörülerde bulunur.

Bu parçadaki numaralanmış cümlelerin hangisinde yansıma bir sözcük kullanılmıştır?

A) I. B) II. C) III. D) IV. E) V.

18. Benzetme amacı gütmeden bir sözü, başka bir söz yerine kullanmaya ad aktarması denir.

Buna göre aşağıdaki cümlelerin hangisinde ad aktarması vardır?

A) Bir elinde kahve tepsisi, bir elinde meyve tabağı vardı.
B) Anılar, insanlar için her dönem önem taşır.
C) Güneşe merhaba diyen ilk ilimizdir, Kars.
D) O, sempatik tavırlarıyla hepimizin gönlünü fethetmişti.
E) Bu sorunlar için bir çare düşünmeye başladınız mı?

19. **Aşağıdaki cümlelerin hangisinde** "-lık" **ekini alan sözcük, somut anlamlıyken soyut anlam kazanmıştır?**

A) Yeni aldığı evin bir köşesini kitaplık hâline getirmişti.
B) En çok önem vermemiz gereken şey arkadaşlıktır.
C) Ankara'ya gitmeden önce ona bir yolluk hazırlayalım.
D) Seneye alacağı yazlığın planlarını yapıyordu.
E) Okulun arkasındaki o büyük sazlık çoktan kurumuştu.

MURAT YAYINLARI
Ücretsiz PDF Kitap Arsivi - https://rantey.org

Açıklamalar • TEST 2

1. **C** Altı çizili sözcükteki "bakir toprak" sözü gerçek anlamıyla henüz işlem yapılmamış, bir şeyler ekilmemiş toprak anlamındadır. Bu ifadeyi parçaya göre yorumladığımızda henüz bir biçim almamış değer yargılarını ahlak çerçevesinde şekillendirmek, kişiliğini ahlak kuralları doğrultusunda oluşturmak anlamlarını buluruz.

2. **B** Altı çizili sözü, parçaya göre değerlendirdiğimizde bu kişinin Anadolu'yu eserlerinde sıkça kullandığı ve bunu da benimsetmeye çalıştığı şeklinde yorumlayabiliriz.

3. **D** **"Bir milleti millet yapan"** sözü, o milletin varlığını sağlayıp devamlılığını ifade etmektedir. Bu yüzden, boş bırakılan yere **"ayakta tutan"** sözü getirilmelidir.

4. **B** **"A, C, D, E"** seçeneklerindeki ikilemelerin ikisi de anlamsız sözcüklerden, **"B"** seçeneğindeki ikileme yakın anlamlı sözcüklerle kurulmuştur.

5. **D** IV numaralı yerdeki "geçirdiler" sözcüğü parçadaki anlamına göre "giymek" anlamında kullanılmıştır. Bu sebeple verilen anlama uymamaktadır.

6. **D** V. cümledeki sevginin insanı boşluğa itmesi ifadesi insana ait bir özelliği insan dışındaki varlığa aktarmadır çünkü bir şeyi itmek insana ait bir özelliktir.

7. **D** Abartılı anlatıma bel bağlamamak, sade ve yalın bir anlatımı tercih etmektir.

8. **C** Kişisel sınırlar genişledikçe insanların paylaştıkları da artar.

9. **A** Bu parçaya göre birinin defterini dürmek, düşüncelerini ve hizmetlerini yok saymak anlamındadır.

10. **E** Farklı bir ses sözüyle anlatılmak istenen, özgün bir anlatımı benimsemektir.

11. **D** "İspat etmek istedikleri davanın bir parçası saymak" sözü, edebi eseri kendi düşüncelerini açıklamak anlamında kullanılmıştır.

12. **D** Bu cümlede geçen **"sakın"** sözcüğü **"korunmak, uzak tutmak"** anlamında kullanılmıştır.

13. **C** Bu cümlede Necip Fazıl'ın kahramanlarından kasıt, onun yarattığı kişilerdir.

14. **D** Şairin gölgesine minderini atmak sözüyle taklitçi olmak, özgün olmamak anlatılmıştır.

15. **D** **"D"** seçeneğinde geçen **"yalnız"** sözcüğünün yerine **"sadece"** sözcüğünü getirdiğimizde anlamda bir bozulma olmaz.

16. **B** **"B"** seçeneğinde geçen **"hayat arkadaşı" "eş"** sözcüğünün dolaylamasıdır.

17. **C** III. cümlede geçen **"gıcırtılı"** sözcüğü yansımadan türemiş bir sözcüktür.

18. **C** **"C"** seçeneğinde geçen **"Kars"** sözcüğünden kastımız orada yaşayan insanlardır.

19. **B** **"B"** seçeneğindeki **"arkadaş"** sözcüğü somutken aldığı ekle soyut bir anlam kazanmıştır.

MURAT YAYINLARI

Ücretsiz PDF Kitap Arsivi - https://rantey.org

Sözcükte Anlam - III • TEST 3

1. "Biz natüralist yazarları ahlak kavramından yoksun olmakla suçluyorlar. Bizler, toplumsal yaraların nedenlerini araştırıyoruz. Biz, toplumda ve insanda oluşan bozuklukları açıklamak için sınıfların ve bireylerin anatomisini inceliyoruz. İşte bu nedenle çoğu kez, kokuşmuş konuları ele almak, insanın sefaletinin ve çılgınlıklarının bulunduğu uçurumun dibine kadar inmek zorunda kalıyoruz."

Bu parçada "uçurumun dibine kadar inmek" sözüyle anlatılmak istenen aşağıdakilerden hangisidir?

A) Konuları sosyal yaşamdan almak
B) Halkın önemli sorunlarını yansıtmak
C) Yazılarda özgünlüğe yönelmek
D) Toplum ve insanı tüm boyutlarıyla irdelemek
E) Sorunlara çare aramak

2. **Aşağıdaki cümlelerin hangisinde nicel anlamlı bir sözcük kullanılmıştır?**

A) Bana senden kalan sadece acı hatıralar...
B) Geçen hafta yaptığınız görüşme nasıl geçti?
C) Hüzünlerini bile keyifle geçiştiren çingenelerin en büyük kültürel mirası müzik.
D) Tapınağın öyküsü de doğrudan Troia Savaşı ile ilgili.
E) Memleketine gitmek için bu uzun yolu tüketmesi gerekiyordu.

3. "Roman için de hikâye için de aynı şey. İlkel okuyucu, romanın kaba iskeleti üzerinde dolaşır hep. Romanın dıştan görülen kalın çizgisini izler. Kız oğlanı sever. Oğlan yoksuldur. Derken kıza zengin bir adam da aşık olur... vb. Kolay gelir, ona bu."

Bu parçadaki altı çizili sözle ilkel okuyucu hakkında anlatılmak istenen aşağıdakilerden hangisidir?

A) Romanı tür olarak çok sevmediği
B) Romanı derine inmeden yüzeysel algıladığı
C) Romanı ve hikayeyi bir gördüğü
D) Romanı basit bir tür olarak değerlendirdiği
E) Romanı okurken çok önemsediği

4. "Anılarımı yazmaya çok geç başladım. Bu işi tamamlamaya ömrüm yeter mi bilmem ama mutlaka deneyeceğim. Çünkü belleksiz bir toplum olmamızı önlemek için herkesin anı yazmasını yararlı buluyorum."

Bu parçadaki "belleksiz bir toplum" sözüyle anlatılmak istenen aşağıdakilerden hangisidir?

A) Eski yaşantıları unutmayan
B) Hatıralardan ders çıkaran
C) Düşünmeyi beceremeyen
D) Geçmişte yaşananları unutan
E) Kültürel ögeleri hiçe sayan

5. "Bir tabloya, bir heykele, bir yapıya, bir şiire kanımız kaynadı mı artık onu kendi boyu bosu içinde değil, sevgimizin boyuyla ölçüyoruz."

Bu parçadaki altı çizili sözle anlatılmak istenen aşağıdakilerden hangisidir?

A) Sevginin yoğunluğuna göre değerlendirmek
B) Yapıtlara gereken değeri vermek
C) Olgulara sıcak ama nesnel yaklaşmak
D) Yapıttaki hususları, eksikleri görmezden gelmek
E) Yapıt karşısında abartılı değerlendirmeler yapmak

6. "Sürücüler uzun bir mola verebileceklerine içtenlikle inanıyorlardı. Onlar da yalnızca iki günlük bir dinlenmeyle bin iki yüz mil kat etmişlerdi. Mantık ve adalet yasalarına göre uzun bir aylaklığı hak etmişlerdi."

Bu parçada geçen "mantık ve adalet yasaları" sözüyle anlatılmak istenen aşağıdakilerden hangisidir?

A) Eşitlik ve insan hakları
B) Nesnel durumlar
C) Uygulanagelen ilkeler
D) Akla ve topluma uygunluk
E) Akıl ve duygu birliği

MURAT YAYINLARI

Ücretsiz PDF Kitap Arsivi - https://rantey.org

7. "Kendinden dışarı çıkmak, insanlıktan kaçmak çılgınlıktır; buna çaba harcayanlar melek olacaklarına büsbütün hayvanlaşır, yükselecek yerde alçalırlar. İnsan bilimlerinin en aşağılığı da bence en yukarıda dolaşanıdır."

Bu cümledeki altı çizili sözle anlatılmak istenen aşağıdakilerden hangisi olabilir?

A) Bir yerlere kaçmak
B) Var olduğunu unutmak
C) Kendini soyutlamak
D) İnsanî değerlerini yitirmek
E) Kendinden vazgeçmek

8. "Anadolu kadını, öyle güzel desenler yaratır ki bu konuda mektep, medrese görenlerimizin birçoğu onun eline su bile dökemez."

Altı çizili deyimin bu cümleye kattığı anlam aşağıdakilerin hangisinde vardır?

A) Deniz'e sen de bir şey öğretemezsin.
B) Onun, hiç kimsenin yardımına ihtiyacı yoktur.
C) Sen, onun çırağı bile olamazsın.
D) Acemiyken hiç kimse elimden tutmadı.
E) O da senin kadar bu konuda ustadır.

9. Kuşaklar arası çatışma vardır, olmalıdır da. Sanatta, edebiyatta her kuşak kendi yazarını arar bulur. Çünkü kendinden önceki yazar, kendi kuşağının değerlerini savunan, onları yazan kişidir.

Bu parçada, "her kuşağın kendi yazarını arayıp bulması" sözüyle anlatılmak istenen aşağıdakilerden hangisidir?

A) Elit konumdaki yazarları desteklemek
B) Kendi değerlerini savunup işleyen yazarı benimsemek
C) Kuşaklar arası çatışmaları konu edinen yazarları öne çıkarmak
D) Çağının sorunlarını dile getiren yazarı sevmek
E) Kalıcı olabilecek önemli yazarları yüceltmek

10. "Bu genç yazarın romanlarında memleket havasını bulabilirsiniz. Bizim kültürümüz, adetlerimiz, her şeyimiz vardır bu romanlarda."

Bu parçadaki altı çizili sözle anlatılmak istenen aşağıdakilerden hangisidir?

A) Toplumsal konuların işlenmediği
B) Vatan özleminin anlatıldığı
C) Sade, anlaşılır bir dil kullanıldığı
D) Geleneklerin, yerelliğin ele alındığı
E) İnsanı saran, içten bir anlatımın olduğu

11. Dünyaca ünlü bir düşünür: "Bir yazar, hayata ne kadar yaklaşırsa sanatı o derece muhteşemleşecektir." diyor.

Bu parçada geçen "hayata yaklaşmak" sözüyle anlatılmak istenen aşağıdakilerden hangisidir?

A) Gerçeğe farklı bir yerden yaklaşmak
B) Eserde, kendi kişiliğini gizlemek
C) Yaşamın içinden seçilmiş kişilere yer vermek
D) Okuyan herkesin kendinden bir parça bulmasını sağlamak
E) Abartılı bir anlatım kullanmak

12. "Sanatçı, yaşayacak insanlar yaratmak zorundadır; bunları yaratır ve yaşatırsa büyük sanatçı olur."

Bu cümledeki altı çizili sözle anlatılmak istenen aşağıdakilerden hangisidir?

A) Somut
B) Sıradan
C) Kalıcı
D) Başarılı
E) Özgün

13. I. Onca yolu bir başıma yürümeyi aklım kesmedi.
II. Faturayı ödemeyince elektriği kestiler.
III. Salata yaparken parmağımı kestim.
IV. Polis bugün araçların yolunu kesti.
V. Maaşlardan yüzer lira kesmişler.

Numaralanmış cümlelerde "kesmek" sözcüğü kaç farklı anlamda kullanılmıştır?

A) 1 B) 2 C) 3 D) 4 E) 5

MURAT YAYINLARI

Ücretsiz PDF Kitap Arsivi - https://rantey.org

14. **Aşağıdaki cümlelerin hangisinde ikileme anlamsal kuruluşu bakımından diğerlerinden farklıdır?**

A) İrili ufaklı taşlar toplayarak kendince oynuyordu.
B) İyi kötü bir arkadaşlıkları var, istersen bunu bozmayalım.
C) Ofise ine çıka her yerim ağrıdı.
D) Bu işi az çok ben de öğrendim.
E) Doğru dürüst bir iş bulabilmek için çok uğraştı.

15. Bu yolda yürüyüp başarı gösteren kişi bir gün kendisini gizemli bir cenaze alayının kalabalığı ortasında bulur; tabutu pahalı ama hüzünlü çiçeklerle donanır; yaşadığı sanılsa bile içinden ölmüştür o.

Bu cümledeki altı çizili sözle anlatılmak istenen aşağıdakilerden hangisidir?

A) Hayattan bir beklentisi olmamak
B) Yaşama veda etmek
C) Kendini yenilemek
D) Çok üzülmek
E) Derin düşüncelere kapılmak

16. Hikâye ve romanların maksadı insanların, içine bakacakları bir ayna tutmaktır.

Bu parçadaki altı çizili sözle anlatılmak istenen aşağıdakilerden hangisidir?

A) Gerçekleri kavrar duruma gelmek
B) İnsanların kendilerini tanımalarını sağlamak
C) Olayları farklı yönlerden görebilmek
D) Roman ve hikâyeleri özümsemek
E) Hikâyelerle insanların düşünce dünyasını zenginleştirmek

17. "Bir konu hakkında bilgi sahibi olup bir şeyler yazmak ---- bunları her yerde anlatmak veya yayımlamak anlamına gelmez."

Bu cümlede boş bırakılan yere aşağıdakilerden hangisinin getirilmesi uygun olmaz?

A) elbette B) illaki C) mutlaka
D) çünkü E) tabii ki

18. **Aşağıdaki cümlelerin hangisinde yansıma sözcük kullanılmamıştır?**

A) Radyonun cızırtısını bir türlü durduramadı.
B) Sokaktan gelen gürültüyü kim duymadı?
C) Koyunların melemesi onu az da olsa rahatlatıyordu.
D) Gözlerindeki ışıltı sönmesin diye dua ediyorum.
E) Araçlar, kapıdan vızır vızır geçiyordu.

19. **Aşağıdaki cümlelerin hangisinde sesteş bir sözcük kullanılmamıştır?**

A) Ondan kalan tüm hatıraları saç, deli gönlüm.
B) Kır zincirlerini yüreğim, bu şehir bize göre değil.
C) Aç koynunu, yalan dolu yeni bir güne.
D) Savaş ama asla unutma, kaybetmek değil hedefimiz.
E) Bahtı kara bir yolculuğa çıkmak için gelmedim.

20. Kullandığımız deyimler halk arasında derdimizi daha kolay anlatmamızı sağlar. Bu anlamda; bir işe başlamak anlamında adım atmak (I); başladığımız bir işten geri dönmek anlamında geri adım atmak (II); dedikodusunu yapmak anlamında arkasından atmak (III); biri hakkında kötü söz söyleme anlamında atıp tutmak (IV); numara yapmak, karşımızdakini kandırmak anlamında ayak atmak (V) deyimlerini kullanırız.

Numaralanmış deyimlerden hangisinin anlamı yanlış verilmiştir?

A) I. B) II. C) III. D) IV. E) V.

MURAT YAYINLARI
Ücretsiz PDF Kitap Arsivi - https://rantey.org

Açıklamalar • TEST 3

1. **D** Parçada **"uçurumun dibine kadar inmek"** sözüyle insanların içinde bulundukları her şeyi incelemek kastedilmiştir. Bu da **"D"** seçeneğinde belirtilmiştir.

2. **E** Nicel anlamlı sözcükler, sayılabilen, hesaplanabilen kavramları karşılayan sözcüklerdir. Buna göre E seçeneğindeki "uzun" sözcüğü cümleye göre nicel anlamlı bir sözcüktür çünkü yolun uzunluğu ölçülebilir.

3. **B** Parçada **"kaba iskeleti üzerinde dolaşmak"** sözüyle kastedilen derine inmemek, yüzeysel kalmaktır. Bu da **B** seçeneğinde verilmiştir.

4. **D** **"Belleksiz bir toplum"** sözüyle anlatılmak istenen **"D"** seçeneğinde verilmiştir. Bellek, geçmiş kavramıyla ilgilidir.

5. **A** Parçada **"sevgimizin boyuyla ölçmek"** sözüyle sevginin yoğunluğuna göre değerlendirmek kastedilmiştir.

6. **D** Mantık, akılla; adalet de toplumla alakalıdır. O hâlde **"mantık ve adalet yasaları"** sözünden akla ve topluma uygunluk şıkkı çıkarılabilir.

7. **D** **"Kendinden dışarı çıkmak"** sözüyle parçanın anlamı birleştiğinde insani değerlerini yitirmek anlamı çıkarılabilir.

8. **C** **"Sen, onun eline su bile dökemezsin"** cümlesinden onun yapacağı işleri yapamazsın anlamı çıkar. **"C"** seçeneğinde **"Sen onun çırağı bile olamazsın."** cümlesiyle aynı anlam verilmiştir.

9. **B** **"B"** seçeneğindeki kendi değerlerini savunup işleyen yazarı benimsemek yargısına buradan ulaşılmaktadır.

10. **D** Parçada **"memleket havasını bulmak"** sözüyle geleneklerin yerelliğin işlendiği sonucu çıkmaktadır.

11. **D** Parçadaki **"hayata yaklaşmak"** sözünde, toplumun tümüne ulaşmak anlamı vardır.

12. **C** Cümlede geçen **"yaşayacak insanlar"** sözüyle **"kalıcılık"** ifade edilmektedir.

13. **E** "Kesmek" sözcüğü I. cümlede "anlamak, kavramak", II. cümlede "akışı durdurmak", III. cümlede "yaralamak", IV. cümlede "hareketi durdurmak", V. cümlede "eksiltmek" anlamında kullanılmıştır.

14. **E** A,B,C,D seçeneklerinde kullanılan ikilemeler zıt anlamlı sözcüklerle kurulmuştur. **"E"** seçeneği sözcük tekrarıdır.

15. **A** "İçinden ölmek" ifadesi kişinin duygu anlamında yoksunluk yaşaması, yaptığı şeylerden, hayattan bir tat, bir lezzet alamaması olarak yorumlanabilir. Bu ifadeyi parçaya göre değerlendirdiğimizde A seçeneğindeki yargıyı buluruz.

16. **B** Ayna herhangi bir görüntüyü yansıtmaya yarayan bir araçtır. Bu ifadeyi cümleye göre yorumladığımızda insanın içsel bir bakış açısı kazanıp kendi ruhunda, maneviyatında olanları anlamasının sağlanacağı, böylelikle kendini daha iyi tanıyacağı yargısına ulaşırız.

17. **D** **"D"** seçeneğindeki **"çünkü"** sözcüğü açıklama yapılacağı zaman kullanılır oysa cümlede boş bırakılan yerden sonra bir açıklama yapılmamıştır.

18. **D** Yansıma doğadaki seslerden oluşur **"D"** seçeneğindeki **"ışıltı"** sözcüğü sesle ilgili değildir.

19. **D** A seçeneğinde **"saç"**, B seçeneğinde **"kır"**, C seçeneğinde **"aç"**, E seçeneğinde **"kara"** sözcükleri sesteş sözcüklerdir.

20. **E** V numaralı yerde numara yapmak, karşımızdakini kandırmak açıklaması **"ayak yapmak"** deyimiyle ilgilidir.

MURAT YAYINLARI

Ücretsiz PDF Kitap Arsivi - https://rantey.org

Cümlede Anlam - I • TEST 4

1. (I) Refik Halit Karay'ın mağrur bir adam olduğunu anladım. (II) Anladım ki ona bu gururu veren, sürgüne gitmiş olmasıdır. (III) Büyük bir adam olmasa, sürgüne gönderilir miydi? (IV) Üstelik ünü de artmıştı bu yüzden. (V) Yurda dönünce "Aydede" adlı bir de dergi çıkardı.

Bu parçada numaralandırılmış cümlelerden hangisi, "nesnel" bir yargı niteliği taşımaktadır?

A) I B) II C) III D) IV E) V

2. **Aşağıdakilerin hangisi "tanım" cümlesidir?**

A) Sanatın gelişimi, hiçbir koşulda toplum gelişiminden ayrı düşünülemez.

B) Sanatçıların çoğunun amacı, insanları etkilemektir.

C) İyi bir roman, okuyucunun hayal ve yorum gücünü zorluyorsa gerçek yerini bulur.

D) Şiir, bize her yolculukta bambaşka dünyalar sunan bir hayal gemisidir.

E) Yazar, yapıtını yaratırken, okuyucularının beklentilerini de hatırlamalıdır.

3. I. Her bildiğini söyleme, her söylediğini bil.
II. Sözü söyle alana, kulağında kalana.
III. Söyleyenden dinleyen arif gerek.
IV. İstediğini söyleyen, istemediğini işitir.
V. Söz dediğin yaş deridir, nereye çekersen oraya uzar.

Bu cümlelerin hangilerinde, "bilinçsiz konuşmanın yanlışlığıyla ilgili uyarı" vardır?

A) I ve V B) I ve III C) II ve IV D) II ve V E) I ve IV

4. (I) Artık yeni bir kitap var. (II) Bu kitabın ne tür bir kitap olduğunu ben de iyi bilmiyorum. (III) Tıpkı bir meyve sepetinde olduğu gibi, küçük hikâyelerle dopdolu. (IV) İçinde belki yüz kadar küçük hikâye var. (V) Ne tip hikâyeler olduğunu pek söyleyemiyorum ama oldukça sade yazılmışlar.

Bu parçadaki numaralanmış cümlelerden hangisinde, "üslup"tan söz edilmiştir?

A) I B) II C) III D) IV E) V

5. **Aşağıdaki cümlelerin hangisi "dolaylı anlatım"a örnek olabilir?**

A) Dostum, sanatın, sanatçı için, acı çekmek olduğunu söylerdi.

B) İnsanlar, kendileri olabildikleri sürece gerçek bir dünyada yaşarlar.

C) Kuma oturmuş kayıkları, okyanusa salıverecek dipten gelen güçlü bir dalgadır ödüller.

D) Bacon bir yazısında şöyle der: "Barışta oğullar babalarını, savaşta babalar oğullarını gömer."

E) Şiir, çok kolay tüketilen, üretimiyse oldukça zor olan bir sanat dalıdır.

6. (I) Refik Halit, sürgün yıllarında "Memleket Hikâyeleri" adlı ünlü eserini yazar. (II) Edebiyatımızda Anadolu'ya açılışın öncüsü olan bu öyküler, Anadolu'yu, bir köylünün değil, varlıklı bir şehir delikanlısının gözüyle yansıtır. (III) Bu öyküler, o zamana kadar rastlanmayan yeni bir teknikle kurulur. (IV) Yazar, olanca titizliği ile öykülerini bir kuyumcu gibi işler. (V) Konuşulan dili, yazı dili olarak edebiyata kazandırma akımı içinde inandırıcı bir örnek olur.

Bu parçanın kaçıncı cümlesinde, öykülerin içeriğine değinilmiştir?

A) I B) II C) III D) IV E) V

Ücretsiz PDF Kitap Arsivi - https://rantey.org

MURAT YAYINLARI

7. (I) Kırsal kesimde yeşeren Halk şiiri, Karacaoğlan'dan sonra gerileme dönemine girdi. (II) Bugün bu alanda sürekli bir düşüş göze çarpıyor. (III) Bu düşüşü, köylerimizin eski yapılarını yitirmelerine bağlayabilir miyiz bilmem. (IV) Topraktan kopuş, bugün daha da belirginleşen gerilemenin nedeni olabilir. (V) Nedeni ne olursa olsun, öğüt veren, doğru yolu göstermekten ileri gidemeyen halk ozanlarıyla karşı karşıyayız bugün.

Bu parçanın yazarı, numaralanan cümlelerin hangilerinde, söylediklerinden emin olmadığını sezdirmektedir?

A) I ve III B) II ve III C) III ve IV
D) IV ve V. E) I ve V

8. (I) Dergâh'ta birkaç şiirim yayımlandı. (II) Bunları yayımlamamış olmayı şimdi çok isterdim. (III) Fakat bir kere kendime karşı zayıf davranmıştım. (IV) Adımın duyulmasını istiyordum. (V) Ondan sonra da devam ettim ve her müsveddemi yayımladım.

Bu parçadaki numaralı cümlelerin hangisinden başlanarak "pişmanlık" **anlatılmaktadır?**

A) I B) II C) III D) IV E) V

9. (I) Önümüzdeki mermer masanın üzerinde, pudra ile damgalanmış, yaldızlı çerçeveli bir ayna vardı. (II) Aynanın önünde, çoban kolonyası şişeleri duruyordu. (III) Berber, uzun boylu ve zayıf bir adamdı. (IV) Uzun boynunu ikide bir sağa sola büküyor, bir şeye hayret ediyormuş gibi, daima kaşlarını kalkık tutuyordu. (V) Bu yüzden alnı hep buruşuk duruyor ve çehresi daima önemli sorunları düşünüp halleden bir devlet adamı ifadesi alıyordu.

Bu parçadaki numaralanmış cümlelerin hangilerinde "yorum" **yapılmıştır?**

A) I ve V B) II ve III C) I ve III
D) II ve IV E) IV ve V

10. **Aşağıdaki cümlelerin hangisinde** "karşılaştırma" **yapılmamıştır?**

A) Eski çağlarda bunalım, bir filozof hastalığıydı; oysa şimdi bütün insanlığı kasıp kavuran bir salgın.
B) İhtiyarlar geçmişte yaşarlar, gençler gelecekte; şimdiki zaman, orta yaşlılarındır.
C) İsmail Habip Sevük, yazılarında "Doğulu", A. Hamdi Tanpınar ise "Batılılaşmış Doğulu"dur.
D) Avrupa, Avrupa olabilmek için kaç asır beklemişti, kaç hocadan ders dinlemiş, kaç uygarlığın kapısında diz çökmüştü.
E) Batı düşüncesi, altın çağını yaşarken Doğu, yüzyıllar süren uykusuna devam ediyordu.

11. **Aşağıdakilerin hangisinde birinci yargı, ikincinin yorumu değildir?**

A) Unuttun herhalde, peynir almamışsın.
B) Günün iyi geçmedi sanırım, üzgün görünüyorsun.
C) Bugün sol yanından kalktın galiba, herkesi tersliyorsun.
D) Bir şeye canın sıkılmış sanki, yüzün gülmüyor.
E) Numaraları kontrol et, yanlış yere oturmayalım.

12. Düşüncelerinizi kabul etmiyorum; ama onları özgürce söyleme hakkınızı ölünceye kadar savunacağım.

Böyle diyen bir düşünür, aşağıdakilerden hangisini söylerse bu düşünceleriyle çelişir?

A) Bize aykırı gelen düşünceleri de dinleyebilmeliyiz.
B) Toplum kurallarına aykırı olmayan tüm düşünceler dile getirilebilmelidir.
C) Bizce "yanlış" olan bir düşünceyi, "doğru" diye savunanlar çıkabilir.
D) Düşünmek ve düşüncelerini dile getirmek, insan olmanın gereklerindendir.
E) Düşünceye yönelik baskıyı uygun görmemeliyiz.

MURAT YAYINLARI

Ücretsiz PDF Kitap Arsivi - https://rantey.org

13. (I) Uzun zamandan beri, bu yıl Nobel Edebiyat Ödülü'nün bana verileceği söyleniyor. (II) Ne yalan söyleyeyim, yazar olarak pek istemiyorum bu ödülü. (III) Beni engeller, önümü keser. (IV) Çoğunuz bana kızacaksınız ama sadece duygularımı söylüyorum. (V) Barış Ödülü olsa neyse... Onun anlamı başka. (VI) Tabii bir yandan da bu ödüle layık görülmem beni gururlandırıyor.

Bu parçadaki numaralanmış cümlelerden hangisi, bir öncekinin gerekçesidir?

A) II B) III C) IV D) V E) VI

14. (I) Su berraklığında öyküler bunlar. (II) Gözlem gücünün derinliği ve bu derinliği içimizin aynasına yansıtma biçimi de öyle. (III) Bunu yaparken sevgi denizinin kıyılarında geziniyor, insani olanla temasını diri tutuyor. (IV) Bütün bunları oyunsuz, yalın bir Türkçeyle kucaklaması da öykünün şahdamarına yakınlaşmaya çalışanlar için sayısız ipuçları veriyor. (V) Bu türden öyküler çoğalmadıkça Avrupalıların öykücülüğünü taklitten başka bir şey yapamayacağımız bir gerçektir.

Bu parçadaki numaralanmış cümlelerin hangisinde, benzetmeli ya da mecazlı bir söyleyiş yoktur?

A) I B) II C) III D) IV E) V

15. I. Teknik terimler ve kavramlar her çağda, her dilde kendine yer açmış.
II. Teknik geliştikçe, teknik terimlerin dildeki sayısı, yayılımı artmakta.
III. Günlük dil teknik terimlerle birlikte, bozulmadan tıkır tıkır işler.
IV. Tekniğin gittikçe incelmiş uzmanlıklar gerektirmesiyle teknik adlar hızla çoğalır dillerde.
V. Bazı dillerde, saatten otomobile dek çeşit çeşit makinelerden esinlenmiş söyleyişler dikkat çeker.

Bu cümlelerden hangileri, anlamca birbirine en yakındır?

A) I ve IV B) II ve III C) I ve III
D) II ve IV E) I ve V

16. Bir problemin güç olduğunu söyleme; eğer o güç olmasaydı, zaten problem olmazdı.

Bu cümlede anlatılanlar, aşağıdakilerin hangisini düşündürmez?

A) Kolay problemleri bile içinden çıkılmaz bulanlar vardır.
B) "Güçlük", problemin doğasında vardır.
C) "Problem", çözüm gerektiren sorun anlamına gelir.
D) "Problem", aşılması gereken bir engel, bir zorluk demektir.
E) Bir şeyin problem sayılması, onun aşılmasında bir zorluğun bulunmasından gelir.

MURAT YAYINLARI

Ücretsiz PDF Kitap Arsivi - https://rantey.org

17. I. üzerinde uyandırdıkları izlenimlere
II. benzemektedir ne de cama
III. haber ve görüntülerin, insanlar
IV. haber sunucularının olay yerinden geçtikleri
V. göre Galaksi gemisi, ne metale

Numaralanmış sözlerle anlamlı ve kurallı bir cümle oluşturulmak istense doğru sıralama aşağıdakilerden hangisi olur?

A) IV - V - III - I - II
B) I - III - IV - II - V
C) IV - I - III - V - II
D) I - III - V - IV - II
E) IV - III - I - V - II

18. Ayakkabıların üstünde ne kadar çok panel varsa ayağı tahriş edebilecek o kadar birleşim noktası var demektir.

Bu cümleden kesin olarak çıkarılabilecek yargı aşağıdakilerden hangisidir?

A) Ayakkabıların üstündeki panel sayısı epey fazladır.
B) Bazı ayakkabılar, ayağı tahriş eder.
C) Ayakkabının üzerindeki panel sayısı ile ayağın tahriş olması doğru orantılıdır.
D) Ayağın tahriş olması, ayakkabının cinsine bağlıdır.
E) Ayakkabıdaki panellerin ayakla hiçbir teması olmamalıdır.

19. Yanlışlıkla zehirli bir bitki toplamamak için toplanmadan önce söz konusu bitkinin kesin olarak teşhis edilmesi gerekir. Örneğin maydanozgiller ailesine ait bitkilerin arasında zehirli türler de vardır, bu yüzden çok dikkatli olmak gerekir. Bitkiler, hiçbir zaman yağmurlu, sisli ve rutubetli havalarda toplanmamalıdır. Toplama için en uygun saat ise 10 - 16 arasıdır. Bu saate kadar güneş yükselmiş ve sabah kırağısı ile nemlenmiş olan bitkileri kurutmuş olacaktır.

Bu parçanın anlatımıyla ilgili olarak aşağıda verilenlerden hangisi yanlıştır?

A) Farklı cümle türleri kullanılmıştır.
B) Cümlelerde öneri anlamı ağır basmaktadır.
C) İkilemeye yer verilmiştir.
D) Neden-sonuç ilgisiyle kurulan cümle vardır.
E) Belirtilen bir düşünce, örnekle pekiştirilmiştir.

20. (I) Belli bir estetik uzaklık uygulayımı ile oynanan oyunları kapsayan bu tiyatro, tiyatralliği sağlayacak tüm ögelerden yararlanır. (II) Bu tiyatroda, müzik, dans, ezgi, sözsüz oyun, maske, giysi önemlidir. (III) Batı tiyatrosu Japon tiyatrosundan "çiçek yolu"nu ve "döner sahneyi" almıştır. (IV) Çiçek yolu, sahneden salonun arkasına dek uzanan ve seyirci yerlerinin ortasından geçen bir oyun alanıdır. (V) Seyircinin arasında duran bir köprü gibidir.

Tiyatronun anlatıldığı bu parçadaki numaralanmış cümlelerle ilgili olarak aşağıda verilenlerden hangisi yanlıştır?

A) I. cümlede, tiyatronun faydalandığı kaynaklar sunulmuştur.
B) II. cümlede, tiyatralliği sağlayan ögeler sıralanmıştır.
C) III. cümlede, evrenselliğine dikkat çekilmiştir.
D) IV. cümlede, çiçek yolunun tanımı yapılmıştır.
E) V. cümlede, benzetme yoluna gidilmiştir.

MURAT YAYINLARI

Ücretsiz PDF Kitap Arsivi - https://rantey.org

Açıklamalar • TEST 4

1. **E** I., II., III. ve IV. cümlelerde söz söyleyenin duyguları, kişisel görüşleri de yer aldığından bu cümleler "öznel" yargı özelliği taşıyor. V. cümlede ise somut, herkesçe bilinen, kanıtlanabilir bir yargı yer alıyor. Nesnel yargı budur.

2. **D** Tanım, bir varlığı belirleyici özellikleriyle, bir kavramı anlam sınırlarıyla tanıtmadır. Soruda verilen cümleleri buna göre değerlendirirsek D'de "Şiir nedir?" sorusunun yanıtlandığını, yani şiirin tanımlandığını görürüz.

3. **E** I'de "Neyi söyleyip, neyi söylemeyeceğini iyi düşün, bildiğin her şeyi söyleme; ama söylediklerini de bilinçle söyle!" denmektedir. IV. cümlede de bu yönde bir uyarı vardır: Sen aklına geleni (ölçüp biçmeden) söylersen, karşındaki de sana hoşuna gitmeyecek şeyler söyler.

4. **E** Üslup (biçem) yazarın anlatım tarzı, dil özellikleridir. V numaralı cümledeki "sade yazmışlar" sözü de üslup özelliğini gösterir.

5. **A** A seçeneğindeki cümlede başkasına ait bir söz değiştirilerek verildiği için dolaylı anlatıma örnektir.

6. **B** II numaralı cümlede, öyküde ne anlatıldığını belirttiği için içerikle ilgili bir yargıdır.

7. **C** III numaralı cümledeki "bağlayabilir miyiz bilmem" söz öbeği, yazarın söylediklerinden emin olmadığını bize gösterir.

8. **B** II numaralı cümledeki "yayımlamamış olmayı çok isterdim" sözü, pişmanlık bildiren bir yargı olduğu için bu cümleden itibaren pişmanlık dile getirilmeye başlanmıştır.

9. **E** IV numaralı cümledeki "bir şeye hayret ediyormuş gibi" sözü ve V numaralı cümledeki "bir devlet adamı ifadesi" sözü yorum içeren yargılardır.

10. **D** A seçeneğindeki "oysa şimdi" sözü, B seçeneğindeki "ihtiyarlar, gençler" sözleri, C seçeneğindeki "A.Hamdi Tanpınar ise" sözü, E seçeneğindeki "yaşarken Doğu" sözü karşılaştırma belirten yargılardır.

11. **E** A'da belirlenen somut durum (o kişinin) peynir almamış olmasıdır. Söz söyleyen kişi bu somut durumun öncesinde bir yorum yapıyor: "Unuttun herhalde..."
Benzer durum B, C, D'de de açıkça görülüyor. "Üzgün görünme" nin, "herkesi tersleme"nin, "yüzün gülmemesi"nin yorumları yapılmış. E'de gerekçesiyle birlikte verilmiş iki yargı var.

12. **B** Bu cümlede "kabul edilmeye değer olsun olmasın, herkesin, düşüncelerini söyleme özgürlüğü bulunduğu; bunun bir hak olarak savunulması gerektiği" anlatılıyor. Öyleyse
A, C, D, E bu cümlenin iletisiyle aynı yöndedir. Birtakım kurallardan ve dolayısıyla bir "sınırlama"dan söz eden "B" ötekilerle çelişiyor.

13. **B** II numaralı cümleden sonra "çünkü" sözcüğünü getirdiğimizde III numaralı cümleyle anlamlı bir bütün oluşturduğundan III numaralı cümle, II numaralı cümlenin gerekçesi olur.

14. **E** I numaralı cümlede "su berraklığında" sözü mecazlı, II numaralı cümlede "içimizin aynasına yansıma" sözü mecazlı, III numaralı cümlede "sevgi denizinin kıyıları" sözü mecazlı, IV numaralı cümlede "şahdamarına yakınlaşmaya" sözü mecazlı söyleyiş örneğidir.

15. **D** II numaralı cümledeki "teknik terimlerin dildeki sayısı, yayılımı artmakta" sözüyle IV numaralı cümledeki "teknik adlar hızla çoğalır dillerde" sözleri anlamca birbirine yakındır.

16. **A** Öncül cümlede problemin doğasında güçlüğün olduğu, güç olmaması durumunda zaten problem olmayacağı söylenmiştir. A seçeneğinde buna ters bir anlatım vardır.

17. **E** Yüklem olmaya uygun söz II numaralı sözdür. Giriş sözü olmaya uygun söz de IV numaralı sözdür. Buna göre de doğru sıralama IV - III - I - V - II şeklindedir.

18. **C** Öncül cümleden kesin olarak çıkarılabilecek yargı panel sayısıyla tahriş olmanın doğru orantılı olmasıdır.

19. **C** "teşhis edilmesi gerekir" ve "dikkatli olmak gerekir" sözleri öneri anlamını verir. Parçada fiil ve isim cümleleri kullanılmıştır. "Örneğin maydanozgiller ailesine ait bitkilerin arasında zehirli türler de vardır, bu yüzden çok dikkatli olmak gerekir." cümlesi neden - sonuç cümlesidir ve örnekleme yapılmıştır.

20. **A** I. cümlede tiyatronun faydalandığı kaynaklar değil, tiyatronun bir yönüne ilişkin açıklama yapılmıştır.

MURAT YAYINLARI

Ücretsiz PDF Kitap Arşivi - https://rantey.org

Cümlede Anlam - II • TEST 5

1. (I) Edebiyat; insanların duygu, düşünce, hayal ve ilgilerini konu alır. (II) Bu açıdan edebiyatın diğer bilimlerle yakın bir ilişkisi vardır. (III) Diğer bilimlerde de düşünme, hayal etme, ilgi duyma gibi kavramlar söz konusudur. (IV) Edebiyat özellikle psikoloji, sosyoloji, tarih, felsefe gibi bilim dallarıyla iletişim halindedir. (V) Ancak onun ilgisi sadece bu bilimlerle de sınırlı değildir. (VI) Sınırlı kalmayacaktır da.

Numaralanmış cümlelerden hangisi II. cümlenin açıklaması durumundadır?

A) I. B) III. C) IV. D) V. E) VI.

2. Mademki ölümün önüne geçilemez, ne zaman gelirse gelsin. (I) Sokrates'e: "Otuz zalimler seni ölüme mahkûm ettiler." denildiği zaman: "Tabiat da onları!" demiş. (II) Bütün dertlerin bittiği yere gideceğiz diye dertlenmek ne budalalık! (III) Nasıl doğuşumuz bizim için her şeyin doğuşu olduysa ölümümüz de her şeyin ölümü olacaktır. (IV) Öyle ise yüz sene daha yaşamayacağız diye ağlamak, yüz sene evvel yaşamadığımıza ağlamak kadar deliliktir. (V) Ölüm başka bir hayatın kaynağıdır.

Numaralanmış cümlelerden hangisinde nesnellik söz konusudur?

A) I. B) II. C) III. D) IV. E) V

3. Gözlüklere görüntü yansıtmak ya da gözlük camını ekrana dönüştürmek ta 1900'lerin başında reflektörlerin geliştirilmesinden bu yana insanoğlunun hayallerini süslüyor ve 40 yıldır savaş uçaklarında kullanılan "baş üstü ekranlar" da bu teknolojinin öncelini oluşturuyor.

Aşağıdakilerden hangisi, bu cümleden yola çıkılarak ulaşılabilecek bir yargı değildir?

A) Gözlüklere görüntü yansıtma fikri reflektörlerin geliştirilmesiyle paralellik gösterir.

B) Reflektörlerin ortaya çıkması 1800'lü yılların sonlarındadır.

C) Gözlük camını ekran gibi kullanmak, hali hazırda başarılmış bir şey değildir.

D) "Baş üstü ekran" teknolojisi savaş uçakları haricindeki uçaklarda kullanılmamaktadır.

E) Reflektörlerin geliştirilmesi başka fikirlerin doğmasına zemin hazırlamıştır.

4. "Çoğu zaman, öykünün unutulmazlığında dil büyük bir etkendir ancak dili çok güzel olmasına rağmen unutup gittiğimiz nice öyküler vardır." **cümlesiyle aşağıdakilerden hangisine vurgu yapılmıştır?**

A) Dili yeterince önemsemeyen sanatçının öz ve biçim dengesi kuramayacağına

B) Bir öykünün gelecek nesillere kalabilmesinde tek ölçütün dil olduğuna

C) Dili, bir sarraf gibi işlemeyen sanatçının yapıtına gereken değerin verilmediğine

D) Bir öykünün kalıcı olabilmesinde sadece dil güzelliğinin yeterli olmadığına

E) Dile gereken önemi vermeyen sanatçıların bir gün unutulacağına

5. (I) Masal, insanı evrenin ortasında öyle bir yere koyar ki insan nedenleri ve sonuçları belirleyendir. (II) İnsan, hem belirleyen hem belirlenendir. (III) İnsan, evrende bilerek ya da bilmeyerek dikkat ederek ya da etmeyerek nedenler ve sonuçlar yaratır. (IV) Evrende insan; eksiksiz, edilgen, bütün nedenleri önceden kendisine verilmiş bir canlı değildir. (V) İnsan, büyük nedenleri ve sonuçları, görkemli güzellikleri ve korkunç felaketleri yaratabilir.

Parçadaki numaralanmış cümlelerden hangisi kendinden önce gelen cümlenin sonucudur?

A) I. B) II. C) III. D) IV. E) V.

MURAT YAYINLARI

Ücretsiz PDF Kitap Arsivi - https://rantey.org

6. (I) Batan adalar Maldivler, 1200 minik adacıktan oluşuyor. (II) Önümüzdeki yüzyıl, deniz seviyesinin yarım metreden fazla yükseleceği tahmin ediliyor. (III) Bu, bazı adaların suya gömüleceği anlamına geliyor. (IV) Maldivliler, gelgitlere karşı doğal bir engel oluşturan mercan kayalıklarını koruyor ve kumsal erozyonunu önlemek için ağaç dikiyorlar. (V) Yine de kaderleri, güçlü ülkelerin karbon salınımlarını azaltmalarına bağlı.

Bu parçadaki numaralanmış cümlelerle ilgili olarak aşağıda verilenlerden hangisi yanlıştır?

A) I. cümlede, Maldivlerin yerleşim özelliklerinden bahsedilmektedir.

B) II. cümlede, bilimsel bir oranlama yapılmıştır.

C) III. cümlede, kendinden önceki cümleyle ilgili bir yorum yapılmıştır.

D) IV. cümlede, Maldivlilerin aldıkları önlemler sıralanmıştır.

E) V. cümlede, karbon salınımının Maldivlerin geleceği üzerine etkisi olduğu söylenmiştir.

(I) Özgürlük, ancak bir topluluğun içinde var olan bir değerdir. (II) Dağlara ya da ıssız bir adaya çekilip tek başına yaşamaya kalkışan kişi, elbette dilediğince oturur, yatar, kalkar. (III) Yoktur karışanı, kimse engel olmaz, ona. (IV) Sadece görünüşte özgürdür o kişi. (V) Çünkü dağdaki, ıssız adadaki özgürlük geçicidir. (VI) Yalnız yaşayan bu kişi hep korku içindedir, bir dakika sonra ne olacağını bilemez.

Numaralanmış cümlelerden hangisi kendinden önceki cümlenin açıklamasıdır?

A) I. B) II. C) III. D) V. E) VI.

8. (I) Aydın Boysan, yarım yüzyıl içinde nüfusu bir milyondan on beş milyona ulaşarak bir megakente dönüşen, doğduğu, büyüdüğü şehir İstanbul üzerine düşünüyor. (II) Geçmişten günümüze, İstanbul'un tarihinde bir yolculuğa çıkıyor. (III) Mekanlarıyla, insanlarıyla, alışkanlıklarıyla, dokusuyla kentin yaşayanını kendine yabancı kılan İstanbul'un değişimini anlatıyor, bu kitabında. (IV) Bu değişim onu çok üzse de İstanbul'a aşkını dile getiriyor her seferinde. (V) Bu kitap, kartpostallar ve fotoğraflar eşliğinde mizahi bir anlayışla oluşturulmuş.

Numaralanmış cümlelerden hangisi "içerik" hangisi "üslupla" ilgilidir?

	İçerik	Üslup
A)	I.	II.
B)	II.	III.
C)	II.	IV.
D)	III.	IV.
E)	III.	V.

9. (I) Venedik, denizin içinden, kanalların ve köprülerin arasından göğe yükselen romantik bir kent. (II) Venedik, 1987 yılında restore edilmiştir. (III) Vitrinlerde sergilenen cam eşyalar gibi rengarenk tatlara, keyiflere sahip tarihi yapılarıyla denizin yüzünü örtüyor sanki. (IV) Denizin kollarında kanallar ve köprülerle sarılı bir kent Venedik. (V) Dünyanın en ilginç yerleşim yerlerinden biri olduğundan merak ve heyecan içinde gitmek istiyor insan oraya.

Numaralanmış cümlelerle ilgili aşağıdakilerden hangisi söylenemez?

A) I. cümlede, betimlemeye başvurulmuştur.

B) II. cümlede, tarihsel önemine değinilmiştir.

C) III. cümlede, yorum söz konusudur.

D) IV. cümlede, niteleyici sözcük kullanılmıştır.

E) V. cümlede, insanı çeken taraflarının olduğu belirtilmiştir.

10. "Ben arkadaşlarımı aramıyorum diye onlar da beni aramıyor."

Bu cümleyi oluşturan yargılar arasındaki anlam ilişkisi, aşağıdakilerin hangisinde vardır?

A) Hiç konuşmadan saatlerce yürümüştük.

B) Öyle yorulmuştum ki merdivenleri çıkmayı gözüm kesmedi.

C) Artık geç olmadığının farkındayım.

D) Çok yalnız hissettiğim zamanlarım da olmuyor değil.

E) Biraz daha uyumak için neler vermezdim.

MURAT YAYINLARI
Ücretsiz PDF Kitap Arsivi - https://rantey.org

11. (I) Edebiyatın belki de tüm sanatların hedefi, çocuk kalabilmektir. (II) Burada kastedilen çocukluk Bataille'in deyimiyle egemen olmak istemeyiştir. (III) Çocukluk egemen olamaz çünkü çocukluğun iktidarı olmaz. (IV) Bir de olumsuz anlamda çocuklaşmak vardır; kendine baktırmak, şımarmak bu değil kastedilen. (V) Çocukluğun hakları da yoktur, edebiyatın olmadığı gibi.

Numaralanmış cümlelerin hangisinde "tahmin" **hangisinde** "benzetme" **anlamı vardır?**

	Tahmin	Benzetme
A)	I.	II.
B)	I.	V.
C)	II.	IV.
D)	III.	IV.
E)	IV.	V.

12. "Henüz yaşanmamış anlar, yaşanan anlardan daha güzeldir." **sözünü söyleyen birisinin düşüncesini, aşağıdakilerden hangisi destekler?**

A) Her an kendimizi düşünmeliyiz.
B) Çıkarları doğrultusunda yaşayanlar hep kaybeder.
C) O, kendisi için bir şey istemedi.
D) En güzel zaman henüz yaşanmamış olandır.
E) Yarından bir şey beklemek tembelliktir.

13. "Hedefine ulaşmak uğruna insanların yanlış yollar denemesini kabul edemiyorum."

Aşağıdaki cümlelerden hangisi bu cümleyle anlamca çelişir?

A) Karşılığı ne olursa olsun dürüst davranmalıyız.
B) İyi bir işe kötü başlangıçlar yapılmamalı.
C) Dürüstlük her zaman işe yarar.
D) Her amaç, bir icraat ister.
E) Amacımızı gerçekleştirmek için her şeyi deneyebiliriz.

14. "Unutulmamalıdır ki insanoğlu söz söylemekle değil, söylediklerinin yerinde ve yararlı olmasıyla değerini yükseltir."

Aşağıdaki cümlelerden hangisi bu cümleyle anlamca aynı doğrultudadır?

A) İstediğimiz her şeyi söylemekte özgürüz.
B) İnsanlarla iletişim halindeyken mutlaka söyleyeceğimiz sözleri tartmalıyız.
C) Doğru zamanda kullanılan ve fayda sağlayan sözler insana değer katar.
D) İnsanın değeri konuşma biçimiyle doğrudan ilgilidir.
E) Sözünü esirgemeyen insanlar cesur insanlardır.

15. (I) Yayınevlerini, kitapların tanıtımında pasif kaldıkları için eleştirdiğinizde yersiz bir tepkiyle karşılaşıyorsunuz. (II) Hemen, reklamın gereksizliğinden, okuyucunun zaten okumak istediği kitaba reklamsız da ulaşabileceğinden söz ediyorlar. (III) Bu tabii ki doğru ama yalnızca nitelikli okurlar için... (IV) Ancak ülkemizde pek çok potansiyel okur, halen bir teşvik olmadan kitaplara sarılmıyor. (V) Yayınevlerinin kitabı okuyucuya ulaştırmak için gösterdikleri çabanın yetersizliği burada yine karşımıza çıkıyor.

Numaralanmış cümlelerle ilgili aşağıdakilerden hangisi söylenemez?

A) I. cümlede, yayınevlerinin bir gerçeği kabul etmediğinden söz edilmiştir.
B) II. cümlede, yayınevlerinin ürettikleri bahanelere örnek verilmiştir.
C) III. cümlede, nitelikli okurun özelliği anlatılmıştır.
D) IV. cümlede, okurların büyük bir kısmının kitap okumak için bazı eylemlere ihtiyaç duyduğu belirtilmiştir.
E) V. cümlede, olumsuz bir durumdan söz edilmiştir.

MURAT YAYINLARI

Ücretsiz PDF Kitap Arsivi - https://rantey.org

16. (I) Düzen, toplumun düzen içinde yaşamasıdır. (II) Düzen, tüm toplumların arzu ettiği bir sistem ve kavram olmasına rağmen düzensizlik hiçbir toplumun arzu etmediği bir oluşumdur. (III) Çünkü düzensizliğin devam etmesi, toplumu çözülmeye hatta yıkılmaya kadar götürebilir. (IV) Bireyler bazen kurulu düzenden memnun olmayabilirler veya kurulu düzen insanları tatmin etmeyebilir. (V) İşte bu durumda insanlar arzuladıkları sistemleri tasarladıkları için buna ütopya denir.

Bu parçadaki numaralanmış cümleler için aşağıdakilerden hangisi söylenemez?

A) I. cümlede, tanımlama yapılmıştır.
B) II. cümlede, iki durum karşılaştırılmıştır.
C) III. cümlede, kendinden önceki cümlenin gerekçesi belirtilmiştir.
D) IV. cümlede, amaç ilgisi vardır.
E) V. cümlede, neden - sonuç ilişkisi vardır.

17. **Aşağıdaki cümlelerin hangisinde "koşul" anlamı vardır?**

A) Okul masrafları her ailenin, özellikle eylül ayında, en büyük sıkıntısı hatta korkulu rüyasıdır.
B) Bir öğrencinin, okul üniforması dahil kışlık ve yazlık giysileri neredeyse asgari ücrete denktir.
C) Zaten ay sonunu getirmekte zorlanan bir aile için belki de on bir ayın büyük bölümü dokuzuncu ayı düşünmekle geçiyor.
D) Kırtasiye masraflarını da hesaba katarsak bir öğrencinin okul masrafı iki asgari ücreti de geçebilir.
E) Umarım ki, hiç zannetmem, hükümet buna bir çözüm bulur.

18. (I) İstanbul'dan ayrılmadan önce birçok yeri tekrar gezdim. (II) Daha önce gördüğüm yerleri bir kez daha görmek istedim. (III) Tarihi zenginliği, doğal güzelliği ve anılarımın şehri İstanbul'un biraz da olsa yerini kalabalığa, gürültüye bıraktığını gördüm. (IV) Burada, bu kalabalık şehirde, birçok insanla konuşup hem onları hem de İstanbul'u tanımıştım. (V) İstanbul'un her semtinde bir tanıdık bırakıp uzaklaştım bu koca şehirden.

Numaralanmış cümlelerin hangisinde İstanbul'la ilgili hem olumlu hem olumsuz durumlar bir arada verilmiştir?

A) I. B) II. C) III. D) IV. E) V.

19. (I) Deneme türündeki yazıların bence en önemli özelliği, kesinlemelere gitmeden okuru kendisiyle tartışmaya çağırmasıdır. (II) Okur, bizimle aynı görüşte olmayabilir ama yazımızı okurken bir kuşku büyümeli içinde. (III) O mu doğruyu yazıyor, yoksa ben mi en doğruyu biliyorum, diye. (IV) Bu yaklaşım okuru yalnız bırakmak anlamına gelmez, aksine okurun özgürlük alanını genişletir. (V) Okurun yazarla konuşmasına hatta tartışmasına ortam hazırlayan bu tür için "demokrasi" uygulamasının temeli de diyebiliriz.

Numaralanmış cümlelerle ilgili aşağıdakilerden hangisi söylenemez?

A) I. cümlede, kişisel görüşe yer verilmiştir.
B) II. cümlede, bir beklenti dile getirilmiştir.
C) III. cümle, doğrudan anlatım cümlesidir.
D) IV. cümlede, III. cümledeki görüş açıklanmıştır.
E) V. cümlede, nesnel bir tanımlama yapılmıştır.

20. **Aşağıdaki cümlelerin hangisinde "beklenmezlik" anlamı vardır?**

A) Edebiyata lise yıllarında ilgi duymaya başladım.
B) Elindekinin kıymetini bilmeyenler pişman olacak.
C) Bu kadar yıl sonra af dileyeceği tutmuş.
D) Gençliğimi doya doya yaşamayı isterdim.
E) Babam, bana bu yaz bir de ev alacak.

MURAT YAYINLARI

Ücretsiz PDF Kitap Arsivi - https://rantey.org

Açıklamalar • TEST 5

1. **C** "C" seçeneğinde belirtilen **"psikoloji, tarih, sosyoloji ve felsefe"** bilimleriyle ilişkide olması II. cümleyi açıklamaktadır.

2. **A** II. cümledeki "ne budalalık", III. cümledeki "her şeyin ölümü olacaktır", IV. cümledeki "ağlamak kadar deliliktir" ve V. cümlenin tamamı söyleyenin düşüncesini içerdiğinden -yani yorum olduğundan- öznel yargılardır. I. cümledeyse kanıtlanabilen bir yargı verilmiştir.

3. **B** "Reflektörlerin ortaya çıkması 1800'lü yılların sonlarındadır." cümlesinde, reflektörlerin ortaya çıkışının 1800'lü yılların sonu olduğu söylenmiş fakat parçada ortaya çıkışı değil, geliştirildiği tarihin bu zamanlar olduğu söylenmiştir. Bu sebeple parçadan böyle bir yargıya ulaşamayız.

4. **D** Cümledeki "dili çok güzel olmasına rağmen unutup gittiğimiz nice öyküler" sözünden sadece dilin yeterli olmadığı yargısı çıkarılabilir. Bu da bizi D seçeneğine götürür.

5. **C** III. cümlede söylenen "insanın nedenler ve sonuçlar yaratması", II. cümlede verilen "insanın hem belirleyen hem belirlenen olması"ndan kaynaklanmaktadır. Yani bu sebeple insan bir şeyler yaratmaktadır.

6. **A** I. cümlede Maldivler'in yerleşim özelliklerinden değil, içinde bulunan ada sayısından bahsedilmektedir. Bu da burasının oluşumuyla ilgili bir yargıdır.

7. **C** II. cümledeki **"dilediğince oturmak, kalkmak, yatmak"** eylemlerinin açıklaması olarak **"karışanın olmaması ve kimsenin engel olmaması"** sözleriyle açıklanmıştır.

8. **E** III. cümlede anlatılan şey üzerinde durulduğundan **"içerik"**; V. cümle nasıl anlattığı üzerinde durulduğundan **"üslup"**la ilgilidir.

9. **B** II. cümlede, Venedik'in tarihsel önemi değil, orayla ilgili bir olayın hangi tarihte gerçekleştiği aktarılmıştır.

10. **B** Öncül cümlede, neden-sonuç ilişkisi vardır. **B** seçeneğinde de neden-sonuç ilişkisi olduğundan cevap **B** seçeneğidir.

11. **B** I. cümlede, belki sözcüğü cümleye tahmin anlamı katmıştır. V. cümlede, gibi edatı cümleye benzetme anlamı katmıştır.

12. **D** Öncül cümlede, **"yaşanmamış anlar"** zaman anlamını vurguladığından ve yaşanmamışlık ortak yargı olduğundan cevap **D**'dir.

13. **E** Öncül cümlede, amaçlarımız uğruna yanlış yollar seçmemeliyiz anlamı vardır. **E** seçeneğindeyse bunun tam tersi savunulmuştur.

14. **C** Öncül cümlede, söylenilenlerin uygun zamanda ve uygun yerde söylenilmesi anlamı vardır. Bu sebeple **C** seçeneğiyle tam olarak uyuşur.

15. **C** III. cümlede, nitelikli okurdan değil, bir olayın kimler için geçerli olduğundan söz ediliyor.

16. **D** IV. cümlede, bir olayın bir amaç doğrultusunda yapıldığı anlamı yoktur. Bu cümlede ihtimal söz konusudur.

17. **D** **"D"** seçeneğindeki cümleye, **"Bir öğrencinin okul masrafının iki asgari ücreti geçmesinin koşulu ne?"** sorusunu sorduğumuzda "kırtasiye masraflarını da hesaba katmak" cevabını alırız. Bu yüzden cevap **D**'dir.

18. **C** III. cümlede, İstanbul'un tarihi zenginliği, doğal güzelliği olumlu duruma, yerini kalabalığa ve gürültüye bırakması olumsuz duruma örnektir.

19. **E** Nesnel tanımlama kişisel duygu ve düşünceler içermeyen, herkesçe aynı olan yargı demektir. V. cümledeyse herhangi bir tanımlama yoktur. Bu cümlede ihtimal anlamı vardır.

20. **C** A seçeneği açıklama, B seçeneği kesin yargı, D seçeneği hayıflanma, E seçeneği bunların yanında anlamlarını içermektedir.

MURAT YAYINLARI

Ücretsiz PDF Kitap Arsivi - https://rantey.org

Cümlede Anlam - III • TEST 6

1. (I) Avşa Adası'nı çepeçevre saran kumsallarda güneşlenen insanlar vardı. (II) Bu altın renkli kumsallarda güneşlenmek, Marmara'nın günümüzde az rastlanan temiz sularında yüzmek, insana ayrı bir keyif veriyor. (III) Sanırım Marmara Denizi'nin en temiz bölümü Avşa Adası kıyılarıdır. (IV) 1970'li yılların sonuna kadar İstanbul kıyılarında bile rahatlıkla yüzülebilen Marmara'nın şimdilerde çok kirlenmiş olması insanı üzüyor. (V) Yine Avşa gibi kimi adaların çevresinde denizin temiz olduğunu görmek ve buralarda yüzebilmek çok güzel!

Bu parçadaki numaralanmış cümlelerle ilgili olarak aşağıda verilenlerden hangisi yanlıştır?

A) I'incide, Avşa Adası'nın kısa bir tasviri yapılmıştır.
B) II'ncide, Avşa Adası'nın Marmara'da yer aldığı bilgisi vardır.
C) III'üncüde, karşılaştırmaya başvurulmuştur.
D) IV'üncüde Marmara'nın eskiye göre kirli olduğundan bahsedilmiştir.
E) V'incide, kendinden önceki cümle örneklendirilmiştir.

2. (I) Aslında kırmızı renk hiçbir boğayı kızdırmaz. (II) Çünkü boğalar renk körüdür ve kırmızıyı diğer renklerden ayırt edemezler. (III) Boğa güreşlerinde matador eline aldığı şapkasını ve şalını sallayarak boğayı kızdırır. (IV) Boğanın kırmızıya sinirlendiği inancı bu nedenle yanlıştır. (V) Bu yanlış inanış, matadorların kırmızı şal ve başlık kullanmaları nedeni ile yaygınlaşmıştır.

Numaralanmış cümlelerle ilgili aşağıdakilerden hangisi söylenemez?

A) I.cümlede, karşı çıkılan bir düşünce belirtilmiştir.
B) II. cümlede, I. cümledeki yargının nedeni belirtilmiştir.
C) III. cümlede, matadorun ne yaptığı açıklanmıştır.
D) IV. cümlede, matadorların özellikleri belirtilmiştir.
E) V. cümlede, yanlış bir inanışın yayılma nedeni belirtilmiştir.

3. (I) İnsan tek başına kitaplardan, resimlerden ve filmlerden bir şeyler öğrenebilir. (II) Fakat sosyal ilişki eksikliğini radyo, sinema, televizyon gibi mekanik araçlarla telafi etmesi imkansızdır. (III) Mekanik araçlar insanlarla konuşamazlar, sadece kendilerine kaydedilen şeyleri şuursuzca tekrarlar. (IV) Işığın sadece bir gözü vardır. (V) Işık görmez, gösterir. (VI) Radyo, televizyon, sinema da böyledir işte.

Bu parçada numaralanmış cümlelerden hangisinde II. cümledeki yargının gerekçesi verilmiştir?

A) I. B) III. C) IV. D) V. E) VI.

4. (I) Herkesin her şey için tutarlı olarak belirli sonuçlar üreten stratejileri vardır. (II) Çok azımız bu stratejileri bilinçli olarak kullanmasını biliriz. (III) Bu nedenle karşılaştığımız uyarıcıya bağlı olarak birçok duruma girip çıkarız. (IV) İpuçlarına bağlı olarak istediğiniz sonuçları üretebilmeniz için stratejinizin ne olduğunu bilmeniz gerekir. (V) Eğer bilmezseniz tutarlı olmazsınız.

Bu parçadaki numaralanmış cümlelerle ilgili olarak aşağıdaki verilenlerden hangisi yanlıştır?

A) I'incide, bir genelleme yapılmıştır.
B) II'ncide, öznel bir yargı vardır.
C) III'üncüde, bir değişimin gerçekleştiğinden bahsedilmiştir.
D) IV'üncüde, stratejilerin belirgin olduğu söylenmiştir.
E) V'incide, koşula bağlılık söz konusudur.

MURAT YAYINLARI
Ücretsiz PDF Kitap Arsivi - https://rantey.org

5. (I) Gelişmiş Batı ülkelerinde, bugün çok yönlü ve yüksek boyutlu ekonomik ve sosyal bir bunalım yaşanmaktadır. (II) Bunalımın yıkıcı sonuçları, başta Orta Doğu olmak üzere dünyanın en az gelişmiş ülkeleri üzerine yıkılmak isteniyor. (III) Batılı devletler bunda kararlılar. (IV) Başka çareleri yok. (V) Ekonomik ve sosyal yaptırımlardan sonra askeri güçlerini de herhangi bir uluslararası anlaşmaya bağlı kalmaksızın kullanmaya başlamalarının nedeni budur.

Parçadaki numaralanmış cümlelerin hangisinde karşılaştırma yapılmıştır?

A) I. B) II. C) III. D) IV. E) V.

6. (I) Edebiyat sözcüklerle yapılan, güzelliğin ön plana çıktığı yazınsal bir sanattır. (II) Bu niteliğiyle edebiyat, tüm güzel sanatlar içinde insanlık düşüncesine öncülük eder, olay ve durumları gerçekleşmeden önce ortaya koyar. (III) Kendi çağının düşüncelerinden hareketle gelecekte olabilecek olanları sezgi yoluyla bulur. (IV) Gelecekte neler olabileceği herkesten çok edebiyatçıların zihinlerinde olgunlaşır. (V) Bu açıdan edebiyatın güzel sanatlar içinde ayrı bir yeri ve önemi vardır.

Numaralanmış cümlelerle ilgili aşağıdakilerden hangisi söylenemez?

A) I. cümlede, öznel bir tanımlama yapılmıştır.
B) II. cümlede, edebiyatın diğer sanatlardan üstün olan bir özelliği belirtilmiştir.
C) III. cümlede, dönemindeki fikirlerden hareketle geleceği bildiğinden söz edilmiştir.
D) IV. cümlede, gelecekte olacaklar adına edebiyatçıların daha öngörülü olduğu belirtilmiştir.
E) V. cümlede, edebiyatın gelecek üzerine planlarından söz edilmiştir.

7. **Aşağıdaki cümlelerden hangisi ayraç içinde verilenlerle uyuşmamaktadır?**

A) Eskiden bir kitabın veya yazının yazar tarafından yazılmış asıl nüshası metindi. (tanımlama)
B) Üç perdeli bu oyunda yazar, erkeğin toplumdaki yerini anlatmıştır. (nesnellik)
C) Yazarın bu romanı, yatmadan önce veya uyanır uyanmaz okunmalıdır. (uyarı)
D) Çağdaşlarına göre, bu konuyu daha ayrıntılı işlemesi ona güç katmıştır. (karşılaştırma)
E) Herkesi doğum günü partine çağırmışsın da bana haber vermemişsin. (sitem)

8. (I) Talihsizlik konusundaki sözlerim aslında öfkeyle söylenmiş sözler, cesaretim azalacağına artıyor. (II) Üstelik diğer insanların aksine, Xenophon'un mantığına olmasa da emrine uyarak kötü talihi değil, iyi talihi içtenlikle destekliyorum; gözlerimi sevgiyle cennete çevirdiğimde talepkâr değil, müteşekkir olmaya çok daha yakınım. (III) Sağlığım iyi haldeyken onu geliştirmek, sağlığım bozulduğunda iyileşmeye çalışmaktan daha çok acı veriyor. (IV) Refah benim için disiplin ve eğitim demek, diğerleri ise bunu sıkıntıyla ve cezalarla elde ediyorlar. (V) Sanki iyi bir talihe sahip olanlar temiz bir vicdana sahip olamazmış gibi insanlar ancak talihleri kötü gittiğinde iyi olabiliyorlar.

Bu parçadaki numaralanmış cümlelerden hangisi tanımsal bir nitelik taşımaktadır?

A) I. B) II. C) III. D) IV. E) V.

9. "Neyi anlattığımızdan daha çok, nasıl anlattığımız önemlidir."

Bu cümleye anlamca en yakın cümle aşağıdakilerden hangisidir?

A) Üslûp bir yapıtın oluşmasındaki temel unsurdur.
B) Biçimin içerikle ilgili olma zorunluluğu yoktur.
C) Her yazının kendine özgü bir anlatımı vardır.
D) Okuyucu içeriğe göre değerlendirir eseri.
E) Üslûp içerikten daha önemlidir.

10. Sen kimseye benzeme sakın!
Hep böyle kal, aldırma insanlara!

Bu dizeleri söyleyen kişi, karşısındakinden ne istemektedir?

A) Kendisini sevmesini
B) Başkalarını önemsememesini
C) Özgün ve farklı olmasını
D) Kendine güvenmesini
E) Cesur ve dürüst olmasını

MURAT YAYINLARI

Ücretsiz PDF Kitap Arsivi - https://rantey.org

11. (I) İnsanın okuduğu şey benliğine işler; hatta insan, zekâsına ket vuran her türlü engeli, iyi seçilmiş eserler okumakla ortadan kaldırabilir. (II) Tıpkı vücudun tutulduğu hastalıkların uygun idmanlarla iyi edilebildiği gibi. (III) Mesela top oyunu, vücutta hâsıl olan taşlarla böbrek hastalarına; ok atmak, akciğerle göğse ağır yürüyüşler mideye, ata binmek baş ağrılarına iyi gelir. (IV) Bu sebeple bir kimsenin zihni dağınıksa matematikle meşgul olsun çünkü bir davayı ispat ederken biraz dalıverse davaya ta baştan başlaması lazım gelir. (V) Eğer zekâsı farkları görüp ayırmaktan acizse skolastikleri tetkik etsin. (VI) Onlar, kılı kırk yararlar.

Numaralanmış cümlelerden hangisi, kendinden önceki cümlenin gerekçesi konumundadır?

A) II. B) III. C) IV. D) V. E) VI.

12. "Dil, başka dilden gelen sözcükleri kendine mâl edebildiği ölçüde güçlüdür."

Aşağıdaki cümlelerden hangisi anlamca bu cümleye en yakındır?

A) Yabancı sözcükleri sürekli kullanmak sıkıntı yaratabilir.
B) Uluslar ana dilleriyle varlık gösterebilir.
C) Kültür, dilin etkisinde gelişir.
D) Bir dilin gücü yabancı sözcükleri itmesinde değil, hazmetmesindedir.
E) Dilin ulusal yapısı evrensel anlayışı karşılamalıdır.

13. (I) Bir yazar sadece ne yazmış diye okunmaz, nasıl yazmış diye de okunur. (II) Ancak ondan sonra yazdıklarını uzatmış mı, uzatmamış mı diye eleştirilebilir. (III) Uzun ya da kısa yazı yoktur benim için, uzatılmış ya da kısa tutulmuş yazı vardır. (IV) Gereksiz uzatılmış yazı gibi gereksiz kısa tutulmuş yazı da beni sıkar. (V) Çünkü okurken zamanımın boşa gittiğini hiç düşünmemişimdir.

Numaralanmış cümlelerin hangisinde "yeterlik" anlamı vardır?

A) I. B) II. C) III. D) IV. E) V.

14. (I) İyi yaptığıma inandığım bir işim olmazsa benim halim ne olur? (II) Ya hiç istemediğim bir işte ömür boyu çalışmak zorunda kalırsam... (III) Çok para kazanabilsem bile her gün ayaklarımın geri geri gittiği bir işimin olacağı düşüncesi beni çok korkutuyor. (IV) Bunların önünü almak için şimdiden elimden geleni yapmam gerektiğinin farkındayım. (V) Bunun için de herkesin bildiği bir tek çözüm var: Çalışmak.

Numaralanmış cümlelerden hangisi kendinden önceki cümlenin açıklamasıdır, hangisinde bir "önlem" söz konusudur?

	Açıklama	Önlem
A)	I.	II.
B)	II.	III.
C)	III.	IV.
D)	III.	V.
E)	IV.	V.

15. **Aşağıdaki cümlelerden hangisi kanıtlanabilirlik açısından farklıdır?**

A) Yazar, bir kuyumcu titizliğiyle bu romanını kaleme almış.
B) Olayları gerçekçi bir dille anlattığı hâlde başarılı olamamıştır.
C) Kendinden önceki şairlerin etkisinde kalarak kendi üslubunu yakalayamamış.
D) Üç ay sonra, şiirlerimi tek bir eserde toplamayı düşünüyorum.
E) Bu filmi çok kısa sürede oluşturmuş olmalı.

16. (I) İnsanoğlu şiirle konuştu ilk kez. (II) Şiir yazmak için yarattı tüm sözcükleri. (III) Şiirde yer almayan bir sözcük ölmüştü, yaşamadan yok olmuştu. (IV) Bu yüzden, bir toplumda ozan yoksa, yetişmemişse, yetişmiyorsa o toplum bir süre sonra tarihten de silinir. (V) Ozanı olmayan bir toplum, şiirden yoksun olan toplum yok olur gider.

Numaralanmış cümlelerden hangileri anlamca birbirine en yakındır?

A) I. ve II. B) I. ve III. C) II. ve III. D) II. ve IV. E) IV. ve V.

Ücretsiz PDF Kitap Arsivi - https://rantey.org

MURAT YAYINLARI

17. "İyi bir romancı, anlattığı insanların çevresini tanımak ve bilmek zorunda olduğu kadar onların düşüncelerini nasıl döktüklerini de kavramak zorundadır."

Aşağıdaki cümlelerden hangisi anlamca bu cümleye en yakındır?

A) Romancıyı başarılı kılan kahramanlarının kılığına bürünebilmesidir.

B) Yazarı başarılı olan eserlerde, kişiler kendi sosyal sınıflarına uygun konuşturulur.

C) Anlattığı kişilerin dil özelliklerini iyi yansıtmayan romancılar, başarısızdır.

D) Romanlarında kişilerin dil özelliklerini ve çevre koşullarını tanıyan ve tanıtan sanatçı iyi bir romancıdır.

E) Anlattıklarını inandırıcı kılmayan bir yazarın, ne anlattığının önemi yoktur.

18. (I) Bayramda tüm aile bireyleri bir araya gelmeye karar verdik. (II) Ailemle beraber olmanın sevincini ve bayramın coşkusunu yaşıyordum. (III) Akşam yemeği için mükellef bir sofra kurulmuştu. (IV) O an, dünyanın bütün güzelliklerinin benim olduğunu düşündüm. (V) En sevdiğim yemekler ve insanlar masanın her yerini doldurmuştu.

Numaralanmış cümlelerinin hangisinde abartılı bir anlatım söz konusudur?

A) I. B) II. C) III. D) IV. E) V.

19. **Aşağıdaki cümlelerden hangisi öznel bir yargı içerir?**

A) Sait Faik'in yazdıkları on altı kitapta toplandı.

B) Bunların biri şiir, ikisi roman kalanlar da hikâye ve röportaj kitabıdır.

C) Hikâye kitaplarının ilki olan "Semaver" 1936'da yayımlandı.

D) Bütün yazılarında sevimsiz bir çocuğun sabırsız ve acemi tavrı sezilir.

E) Bunların dışında kitap haline getirilmeyen yazıları da yok değil.

20. **Aşağıdaki cümlelerden hangisi, bir tanım cümlesidir?**

A) Edebiyat, Arapça 'edeb' kökünden gelmektedir.

B) Çok eski çağlarda dâvet anlamına geliyordu.

C) Edebiyatın modern bilimlerin bir dalı olarak kabul görmesi, yenidir.

D) Edebiyat, anladıklarını sözle anlatabilmektir.

E) Görsel sanatların temelinde de edebiyat vardır.

MURAT YAYINLARI

Ücretsiz PDF Kitap Arsivi - https://rantey.org

Açıklamalar • TEST 6

1. **E** V. cümlede, Avşa Adası gibi başka adalarda da temiz suların bulunduğu ve buralarda da denize girildiği anlatılmış; herhangi bir örnek verilmemiştir.

2. **D** IV. cümlede, matadora ait herhangi bir bilgi verilmemiştir.

3. **B** III. cümlede, mekanik araçların insanlar arasındaki iletişime katkıda bulunmadığını açıklamadığı için cevap **B**'dir.

4. **D** IV. cümlede "stratejilerin belirgin olduğundan" değil, bir olayın gerçekleşmesine yönelik bir amaçtan söz edilmiştir.

5. **B** II. cümledeki "en" sözcüğü cümleye karşılaştırma anlamı katmıştır, yani gelişmişlik düzeyi karşılaştırılmıştır.

6. **E** V. cümlede, edebiyatın güzel sanatlar içindeki öneminden söz edilmiştir.

7. **C** Bu cümlede, kitabın okunma vakti hakkında bir öneride bulunulmuştur.

8. **D** IV. cümledeki "Refah benim için disiplin ve eğitim demek." sözü refah sözcüğüyle ilgili öznel bir tanımlama içermektedir. Bu cümlede "Refah nedir?" sorusunun cevabını buluruz.

9. **E** Öncül cümlede önemli olanın içerik değil, anlatım tarzı (üslup) olduğu vurgulanmıştır.

10. **C** İnsanlara aldırmamak, başkasına benzememek; özgünlük ve diğerlerinden farklı olmak demektir.

11. **E** V. cümledeki "skolastikleri takip etmenin" gerekçesi VI. cümledeki "onların kılı kırk yarması"dır. Ayrıca V. cümleden sonra "çünkü" sözcüğünü getirip VI. cümleyi okuduğumuzda anlamlı bir bütün olduğunu görürüz.

12. **D** Cümlede, yabancı dillerden gelen sözcüklerin, o dil içinde eritilmesi, o dile uygun hale getirilmesi anlatıldığından cevap **D**'dir.

13. **B** II. cümlede, **"-ebil-"** bileşik eylemi cümleye yeterlilik anlamı katmıştır.

14. **D** III. cümlede, II. cümlede söylenen bir işte çalışmanın çok para kazabilmek için olduğu söyleniyor.
V. cümlede, istemediği bir işte çalışmamak için bugünden çok çalışmanın gerektiği anlatılıyor.

15. **D** A, B, C ve E seçeneklerinde yazarın kendi düşünceleri yer aldığı için cümleler öznellik gösterir yani kanıtlanamaz. **D** seçeneğindeyse kişisel düşünce yoktur, yani kanıtlanabilir.

16. **E** IV. ve V. cümlelerde bir toplumun sürekliliği için ozanın gerekliliğinden söz edilmektedir.

17. **D** Öncül cümlede, **"düşünceleri dökmek"** sözüyle anlatılmak istenen **"dil özelliklerini bilmek"** olduğundan cevap **D**'dir.

18. **D** IV numaralı cümlede geçen **"dünyanın bütün güzellikleri"** sözü cümleye abartma anlamı katmıştır.

19. **D** **D** seçeneğinde sözleri söyleyen kişinin kişisel düşünceleri vardır ama diğer seçeneklerde böyle bir durum yoktur.

20. **D** Bu seçenekte edebiyatın ne olduğu anlatıldığı için cevap **D**'dir.

MURAT YAYINLARI
Ücretsiz PDF Kitap Arsivi - https://rantey.org

Cümle Tamamlama, Kesin Yargı ve Cümle Oluşturma • TEST 7

1.-9. SORULARDA, CÜMLELERDEKİ BOŞLUKLARA GETİRİLEBİLECEK SÖZCÜK YA DA SÖZLERİ BULUNUZ.

1. **M. Şevket Esendal, Türk edebiyatında sanatını ---- hikâye ---- adamış nadir üç beş yazarımızdan biridir.**

A) tamamıyla - türüne
B) hepsini - biçimine
C) bütünüyle - anlatımına
D) bir bölümünü - ifadesine
E) bir kısmını - sevgisine

2. **---- . Ara sokaklardan caddeye doğru hızlı hızlı yürüdü. Bomboş caddeden ara sıra geçen arabalar onu düşüncelerinden sıyırıyordu. Sokak lambalarının aydınlattığı yüzünü hafif bir esinti yaladı. Ulaşmak istediğim noktaya geldim ama hala mutsuzum, diye düşündü.**

A) Birden bulunduğu yerden uzaklaşma isteği duydu.
B) Eskiden bu kadar sıkıntılı değildi.
C) Mutsuz olmasının bir sebebi daha vardı.
D) Dışarı çıktığında vakit bir hayli ilerlemişti.
E) Arkadaşını da yanına alarak dışarı çıkmayı düşündü.

3. **Çok cepheli bir ---- ve zengin bir kültürü olan A. H. Tanpınar'ı bugünün okuyucuları genellikle romanları, hikâyeleri ve mektuplarıyla ----.**

A) karakter - bilirler
B) kişilik - görürler
C) düşünce dünyası - söylerler
D) bakış açısı - anlatırlar
E) şahsiyeti - tanırlar

4. **Fildişinden kuleyi yerenler, şairlerden ve bütün sanatçılardan içinde yaşadıkları toplumun sorunlarıyla ilgilenmelerini, önceden kabul olunmuş belli düşüncelere göre o toplumun yönetimine yardım etmelerini, belli davalar için gönüllü yazılmalarını istemektedirler. İlk zamanlar bu çağrıya uyan şairler, romancılar, ressamlar oldu. Ama bugün her şey değişti ---- .**

A) gürültü ile kuru fikirler, politika ile yaşayan bir eser çıkarılmayacağı anlaşılmıştır
B) bunu gören bir aydın toplumun isteklerini yerine getiriyor
C) fildişi kuleyi terk edip topluma yön vermeyi amaçlıyor
D) bu düşünceler eskiyi hatırlatıyor şimdi
E) çünkü aydınlar ve sanatçılar milleti için hissediyor artık

5. **----. Her şeyi bir bakışta anlamak isterler. Onların, ilkeleri arama alışkanlıkları yoktur. Ötekilerse bunun tam karşıtı bir yöntemle düşünmeye alışkın olanlar, duygu düzeninden hiçbir şey anlamazlar. İlkeleri arayayım derken her şeyi bir bakışta göremezler.**

A) Duygularıyla yargıya varmaya alışkın olanlar düşünce düzeninden hiçbir şey anlamazlar
B) Duygularına kendini kaptıranlar olaylar karşısında en gerçekçi sonuçlara ulaşabilirler
C) Düşünce düzenine göre sebep-sonuç ilişkileriyle hareket edenler kendilerini duygusallığa kaptırmaz
D) Bilim adamlarının duygusal davranmak gibi bir özelliği olamaz
E) Nesnel yaklaşımları kendine prensip edinen kişiler somut verilere göre hareket ederler

MURAT YAYINLARI

Ücretsiz PDF Kitap Arsivi - https://rantey.org

6. **Gençlerin kendi yaşamlarında olumlu bulduğum bir tutum da yaşamlarının ---- üstlenmek istemeleri ve kendi kontrollerinin belirleyici olmasını ---- savunuyor olmalarıdır.**

A) hakkını - umutsuzlukla
B) sonuçlarını - isteksizlikle
C) sorumluluğunu - şiddetle
D) sebeplerini - öfkeyle
E) ağırlığını - heyecanla

7. **Medya dediğimiz unsur, ortaya çıkışındaki misyon ve vizyonunu tam olarak yerine getirebilseydi, Türk dilinin ---- kötü durumlar, hiç yaşanmayabilirdi.**

A) özündeki
B) yapısındaki
C) benimsediği
D) etkilendiği
E) düştüğü

8. **Dillerin ve kültürlerin birbirlerini hor görmeden ve ---- etkilemeleri doğaldır. Hatta bu durum, insanların ön yargılı olmasının ---- ve kültürleri zenginleştirir.**

A) bilmeden - sebebini açıklar
B) hırpalamadan - önüne geçer
C) umarsızca - derecesini artırır
D) zamanla - koşulunu sağlar
E) kibarca - yolunu açar

9. **Özellikle coğrafi ---- yeni dünyalar bulmanın yanında; güçlü devletlerin, güçsüz devletlere karşı ekonomik ve kültürel zafer kazanmasına neden olmuştur.**

A) durumlar
B) nedenler
C) keşifler
D) değişiklikler
E) özellikler

10.-19. SORULARDAN ÇIKARILABİLECEK KESİN YARGILARI BULUNUZ.

10. **Cumhuriyet Dönemi'nin önemli tarihçilerinden, eski Dışişleri ve Devlet Bakanı Ord. Prof. Dr. Fuat Köprülü ile oğlu Dr. Orhan Köprülü'nün arşivleri, İstanbul Şehir Üniversitesi Kütüphanesine bağışlandı.**

A) Cumhuriyet Dönemi'nde birçok önemli tarihçi vardır.
B) Cumhuriyet Dönemi'nde kültür ve tarihe çok önem verilmiştir.
C) Fuat Köprülü, çok yönlü bir yazardır.
D) Dr. Orhan Köprülü de babası gibi devrin önemli kişiliklerindendir.
E) İstanbul Şehir Kütüphanesi, arşivleriyle ünlü bir kurumdur.

11. **Düzenleme çalışmaları iki yılı aşkın süredir devam eden ilk uluslararası Türk Denizcilik Tarihi Kongresi, 5- 8 Kasım'da, İstanbul'da yapılacak.**

A) Uluslararası olmasa da Türkiye'de daha önce denizcilik kongreleri yapılmıştır.
B) İstanbul, kongreleriyle tanınan bir şehirdir.
C) Uluslararası Türk Denizcilik Tarihi Kongresi'nin düzenleme çalışmaları, henüz bitmemiştir.
D) Kongreye, yurt dışından büyük ilgi vardır.
E) Türk denizcilik tarihinin bilinmeyen yanları, bu kongre sayesinde gün ışığına çıkacaktır.

12. **Bugut Yazıtı, Göktürk Yazıtları'ndan daha eski dönemde yazılmış olmasına karşın genel kanı, en eski yazılı eserin Göktürk Yazıtları olduğu yönünde.**

A) Göktürk Yazıtları'ndan önce Türklerin yazılı bir eseri yoktur.
B) Bugut Yazıtı, yazılı eser özelliği göstermemektedir.
C) Yazıtların her ikisi de Göktürkler döneminde oluşturulmuştur.
D) Türkler yazıyı, birçok medeniyetten önce bulmuştur.
E) Bugut Yazıtı da bir yazılı eser olarak kabul edilmektedir.

MURAT YAYINLARI

Ücretsiz PDF Kitap Arşivi - https://rantey.org

13. **Dile dayanan bir yaratı olan şiir, gücünü dilin sınırsız olanaklarından, bugün bile tümüyle çözülmemiş sırlarından ve kişisel kullanımından alır.**

A) Şiir, kullanıldığı dilin yerel ve bölgesel unsurlarını bünyesinde barındırır.
B) Dilin sırrı, bugün bile tamamen çözülememiştir.
C) Güzel şiirler yazmak, dili güzel kullanmayı gerektirir.
D) Şiir, duyguların dil yoluyla ve estetik biçimde dışa aktarımıdır.
E) Dili iyi kullanan insanlar genelde şairlerdir.

14. **Roman, makale gibi Batı'dan alınan edebiyat türleri, Türkiye'de ilk defa Tanzimat Dönemi'nde kullanılmıştır.**

A) Tanzimat Dönemi'nden önce roman yaygın değildir.
B) Tanzimat Dönemi'nde Batı'dan birçok edebi tür alınmıştır.
C) Türkiye'de edebiyat, Batı sayesinde gelişmiştir.
D) Tanzimat Dönemi'nde geleneksel edebiyat türleri bir köşeye bırakılmıştır.
E) Türk yazar ve şairler, özgün bir edebi tür yaratamamışlardır.

15. **Gülten Akın'ın ilk şiir kitabı** "Rüzgar Saati" **1956 yılında yayımlanmış, yarım yüzyıla yakın bir süredir de okur bulmuştur.**

A) Gülten Akın, sadece şiir yazan bir sanatçıdır.
B) Gülten Akın, 1956'dan sonra yaklaşık 50 yıl daha şiir yazmayı sürdürmüştür.
C) Okurlar, Gülten Akın'ın şiirlerini severek okumaktadır.
D) Gülten Akın'ın, "Rüzgar Saati" dışında da şiir kitapları vardır.
E) Gülten Akın, güçlü bir şairdir.

16. **Milli Edebiyat Dönemi'ne, Beş Hececiler'e rağmen Cumhuriyet Edebiyatı Dönemi'nde de aruz ölçüsüyle şiirler yazmaya devam eden şairlerimiz vardır.**

A) Aruz ölçüsü, milli bir ölçü değildir.
B) Milli Edebiyat Dönemi'nde de aruz ölçüsüyle şiirler kaleme alınmıştır.
C) Aruz ölçüsü, yalnızca Cumhuriyet Edebiyatı Dönemi'nde kullanılmamıştır.
D) Hece ölçüsü, aruz ölçüsüne göre daha zorlayıcıdır.
E) Beş Hececiler, aruz ölçüsüyle hiç şiir yazmamışlardır.

17. **Şanlıurfa efsanelerinin en önemlilerinden birine göre Adem ile Havva yeryüzüne ilk kez, Harran'da ayak basmış.**

A) Şanlıurfa, efsaneleriyle nam salmış bir kenttir.
B) Adem ile Havva efsanesi, Şanlıurfa'nın en önemli efsanesidir.
C) Yeryüzünde kurulan ilk yerleşim yeri Harran'dır.
D) Şanlıurfa'da daha başka önemli efsaneler de vardır.
E) Şanlıurfa halkı, efsane anlatmayı ve dinlemeyi seven bir halktır.

18. **Cahit Külebi'nin** "Kamyonlar Kavun Taşır" **şiiri 1997'de Yaşar Kurt tarafından en güzel şekilde yorumlanmıştır.**

A) "Kamyonlar Kavun Taşır" şiiri, başka şarkıcılar tarafından da yorumlanmıştır.
B) Yaşar Kurt, Cahit Külebi'nin diğer şiirlerini de yorumlamıştır.
C) "Kamyonlar Kavun Taşır", 1997'de yazılmıştır.
D) Şiir, 1997'de yorumlandığında çok beğenilmiştir.
E) "Kamyonlar Kavun Taşır" şiirini Yaşar Kurt çok güzel yorumlamıştır.

19. **Yunus Emre'nin hiçbir şiiri, dünyayı sömürenleri övmez; hemen her şiiri, dünyayı sömürenlere karşı bir seslenmedir.**

A) Yunus Emre, evrensel bir şairdir.
B) Yunus Emre, ilahilerinde toplumsal meselelere de yer vermiştir.
C) Yunus Emre, şairlik yönü olan bir sanatçıdır.
D) Yunus Emre, şiirlerinin tamamında sömürgeci zihniyeti iğnelemiştir.
E) Yunus Emre, eski çağlarda yaşamış bir şairdir.

MURAT YAYINLARI

Ücretsiz PDF Kitap Arsivi - https://rantey.org

Açıklamalar • TEST 7

1. **A** "adamış" sözcüğü bizim için ipucudur. O halde sanatını "tamamıyla" ya da "bütünüyle" sözcüklerinden biri gelmelidir. Böylelikle ilk boşluk için B, D, E seçeneklerini eleriz. C seçeneği için "hikâye anlatımı" diye bir kavram olmadığı için doğru yanıt A seçeneği olur.

2. **D** Bu bir giriş cümlesi sorusudur. Giriş cümlesinde parçanın konusu verilir. Giriş cümlesinin içinde "ama,fakat, bundan önce, aniden, birden" gibi bağlayıcı ögeler bulunmaz. Bu sebeple en uygun seçenek D'dir.

3. **E** Bu boşluk doldurma sorusunda ikinci boşluk doğru yanıtı bulmamıza yardımcı olacak. Cümlenin içeriğine göre Tanpınar'ı bugünün okuyucuları romanları, hikâyeleri, mektuplarıyla "bilirler, görürler, söylerler, anlatırlar" ifadelerinden hiçbiri uygun düşmez. Buraya gelecek en doğru ifade "tanırlar" olmalıdır. Bu sebeple cevabımız E'dir.

4. **A** Burada "Ama bugün her şey değişti." cümlesinden hareketle sanatçının toplum için yazması gerektiği düşüncesinin aksiyle devam etmemiz gerektiğini anlıyoruz. O halde B, C, D, E seçeneklerinde sanatçının toplum için yazması fikri ağır basarken A seçeneğinde bu düşüncenin tersi ifade edildiğinden yanıtımız A'dır.

5. **A** Burada duygularıyla hareket edenlerle, düşünceleriyle hareket edenler karşılaştırılıyor. O halde paragrafın giriş cümlesi olmaya en uygun A seçeneğidir çünkü duygularıyla hareket edenler açıklanmaya devam etmektedir.

6. **C** A ve B seçeneğinde istenmeyen ama mecbur kalınan bir durumu ifade eden sözcükler kullanılmıştır oysa cümledeki "kendi kontrollerinin" ifadesi istekler yapılan bir durumu karşılar. D seçeneğindeki "öfkeyle" ifadesi de uygun değildir çünkü cümlede bir duruma sinirlenme anlamı yoktur. E seçeneğindeki "ağırlığını" sözcüğü de yaşamın ağır olduğunu karşılayacağından cümleye uygun değildir.

7. **E** Cümlede, medyanın üzerine düşen görevi yerine getirmemesine bağlı olarak Türk dilinin, içinde bulunduğu anda kötü bir duruma geldiğini yani belli bir süreçte böyle bir duruma geldiğini anlattığından boşluğa getirilecek en uygun sözcük "düştüğü" olmalıdır.

8. **B** Parçada, ilk boşluktan önceki "hor görmeden" sözünden yola çıkarak ve bu sözcüğe yakın anlamlı olan bir sözcüğü düşünerek B seçeneğindeki "hırpalamak" sözcüğünün ilk boşluğa getirilmesi gerektiğini buluruz. Ayrıca ikinci boşluktan önceki "ön yargılı" ifadesinden yola çıkarak "önüne geçmek" sözünün cümlenin anlamına uygun olacağını buluruz.

9. **C** Cümledeki "yeni dünyalar bulmak" ifadesinde yola çıkarak en uygun sözcüğün "keşifler" olduğunu görürüz çünkü yeni bir şey bulmak, keşfetmek sözcüğünü tam karşılar.

10. **A** Cümledeki "...önemli tarihçilerinde" ifadesinden yola çıkarak başka tarihçilerinde olduğunu anlıyoruz. Buna göre A seçeneğindeki yargı kesin olarak çıkan yargıdır. Çünkü kültüre ve tarihe çok önem verildiğine, Köprülü'nün çok yönlü bir yazar olduğuna, devrin önemli kişiliklerinden olduğuna, kütüphanenin ünlü bir kurum olduğuna dair bir bilgi yoktur.

MURAT YAYINLARI

Ücretsiz PDF Kitap Arsivi - https://rantey.org

11. C Cümledeki "iki yılı aşkın süredir devam eden" ifadesinden hareketle kesin yargı olarak çalışmaların henüz bitmediğini buluruz.

12. E "Bugut Yazıtı, Göktürk Yazıtlarından daha eski dönemde yazılmış olmasına karşın genel kanı en eski yazılı eserin Göktürk Yazıtları olduğu yönünde." cümlesinde Bugut Yazıtı'nın da eski dönemde yazıldığını yani yazılı bir eser olduğunu kesin olarak çıkarabiliriz. Diğer seçeneklerdeki yargıları destekleyen ifadeler yoktur.

13. B Bu cümlede şiirin gücünü dilden aldığını, dilin sırlarının da halen çözülemediği kesin olarak çıkan yargıdır. Bunun dışındakiler de yorum katılarak yani parçada verilenlerin haricinde yargılar getirilerek bulunacak ifadelerdir.

14. B "Roman, makale gibi Batı'dan alınan edebiyat türleri, Türkiye'de ilk defa Tanzimat Dönemi'nde kullanılmıştır." cümlesinden Tanzimat'tan önce romanın yaygın olmadığına, edebiyatın Batı sayesinde geliştiğine, geleneksel edebiyat türlerinin bir kenara bırakıldığına, Türk sanatçıların özgün bir tür yaratamadığına ulaşamayız. Cümledeki kesin yargı roman, makale gibi birçok edebi türün alındığıdır.

15. D Cümleye göre Gülten Akın'ın ilk şiir kitabı 1956'da yayımlandıysa demek ki başka şiir kitapları da vardır. Bu da kesin yargı olarak D seçeneğinde verilmiştir.

16. C Parçadaki "Cumhuriyet Edebiyatı Dönemi'nde de aruz ölçüsüyle şiirler yazmaya devam eden şairlerimiz" ifadesinden yola çıkarak başka dönemlerde de yani bu dönemden önce de aruz la şiir yazıldığını anlarız.

17. D Cümledeki "Şanlıurfa efsanelerinin en önemlilerinden biri" ifadesinden Şanlıurfa'da daha az önemli olan başka efsanelerin de var olduğu yargısını çıkarırız. Bu da D seçeneğindeki kesin yargıyı destekler.

18. E Cahit Külebi'nin parçada adı geçen şiiri en güzel şekilde Yaşar Kurt tarafından yorumlandıysa demek ki şiir, bu kişi tarafından çok güzel yorumlanmıştır. E seçeneğindeki ifade de neredeyse parçada verilen ifadenin aynısıdır. Bu da kesin yargı olarak karşımıza çıkar.

19. C Parçada, Yunus Emre'nin evrenselliğinden, ilahilerinden, şiirlerinin tamamında iğneleyici olduğundan, eski çağlarda yaşadığından bahsedilmemiştir. Sadece bazı aksayan yönleri şiirleriyle irdelediğinden söz edilmiştir. Buna göre C seçeneğindeki yargı kesin olarak çıkar.

MURAT YAYINLARI

Ücretsiz PDF Kitap Arsivi - https://rantey.org

Paragraf - I • TEST 8

1. Bir uygarlığın doğuşunda etkili olan ilk öge doğadır. Doğa, insan çalışmalarının yönünü belirler. Ağaç olmayan yerde ağaçla, taş olmayan yerde taşla ilgili şeyler yapılmaz. Orada, doğa, insanlara ne vermişse, neden yararlanma olanağı sağlamışsa uygarlık ona yönelir.

Bu parçada, aşağıdakilerden hangisi üzerinde durulmaktadır?

A) Doğanın insan üzerindeki etkisi
B) Uygarlığın aşamaları
C) İnsanın doğayı örnek alması
D) Doğal olanakların uygarlığı yönlendirmesi
E) Yaratıcılığın doğayla ilişkisi

3. Yazar şöyle diyor: "Değişik kıtalardaki halkların uzun dönemli tarihleri arasındaki farklar, halklar arasındaki doğuştan gelen farklardan kaynaklanmaz. Yaşadıkları çevrelerin koşulları arasındaki farklardan kaynaklanır; yani bugünkü gelişmişlik düzeylerinde belirleyici olan, insan ırkları arasındaki farklar değildir. Bugün beyaz Avrupalı, Kızılderililerin koşullarında yaşasaydı, onlarla aynı sonu paylaşırdı."

Bu parçada sözü edilen yazarın asıl söylemek istediği, aşağıdakilerden hangisidir?

A) Toplumsal kurallar insanın yaşamını yönlendirmektedir.
B) Bir toplum nasıl yaşıyorsa öyle düşünür.
C) Yaratıcılık, insanın olanaklarıyla sınırlıdır.
D) Gelişmişliğin ölçüsü toplumlara göre değişir.
E) İnsanların farklılıkları çevre koşullarından kaynaklanır.

Ücretsiz PDF Kitap Arsivi - https://rantey.org

MURAT YAYINLARI

Bir yazar için yalnızca etki altında kalmak yeterli değildir, önemli olan iyi etki altında kalmaktır; sonra da bu etkileri özümseyip onu aşmak. Bu etkileri kendi yeteneğimiz, yaratıcılığımızla yepyeni bir biçime dönüştürmek... Büyük öykücülerimiz bunu başarmış ve kendilerini bu şekilde ölümsüz kılmışlardır.

Bu parçanın ana düşüncesi, aşağıdakilerden hangisidir?

A) İyi bir yazar, dışarıdan aldığı etkileri özümleyerek özgünlüğe ve ölümsüzlüğe ulaşır.
B) Başkalarına öykünmekten kurtulamayan yazarlar unutulmaya mahkûmdur.
C) Bizim edebiyatımızın yetiştirdiği birçok özgün ve başarılı öykücü vardır.
D) Başka yazarlardan etkilenmek, büyük yazar olmak için kaçınılmazdır.
E) Tekniği sağlam yazarlardan etkilenmek, sanatçıyı başarılı kılar.

4. Bir yanlışı onaylayan parmak sayısının çokluğu, o yanlışı doğru yapmaya yetmez. Parmak sayısı (oy çokluğu), eleştirel aklın ve onun ürünü olan bilimin yeşerdiği yerde anlamlıdır. Eleştirel aklı susturmak için kalkan parmaklar (oy veren insanlar), kim ne derse desin, kitleyi susturmak, uyutmak ve cep doldurmak içindir. Böyle yerde demokrasi yoktur.

Aşağıdakilerin hangisi, bu parçada işlenen düşünceyi destekler nitelikte <u>değildir</u>?

A) Demokrasilerde doğrunun tek belirleyicisi oylamadır.
B) Oy çokluğu, her zaman görüşlerin doğruluğunu göstermez.
C) Yanlış, oyçokluğu ile "doğru"ya çevrilemez.
D) Doğruyu savunan kişilerin azlığı, doğru olanı yanlış yapmaz.
E) Demokrasi, eleştirel ve özgür düşüncenin yürürlükte olduğu yönetim biçimidir.

5. Bir zamanlar, eski şairlerin eserlerinden, doğrudan doğruya "şiir" olan ve sadece gerçek sanat zevkini doyurabilecek dizeleri toplamak istemiştim. Gördüm ki her dize, ancak yazıldığı zamana ve mekâna bağlı olarak düşünülünce yaşayabiliyor; bunlardan koparılınca ölüyor.

Bu parçaya göre, dizelerin "zamana ve mekâna bağlı yaşaması" **sözüyle anlatılmak istenen, aşağıdakilerden hangisi olabilir?**

A) Şiirin bütününden kopunca güzelliğini yitirmesi
B) Her zaman canlılığını koruyabilmesi
C) Yorum gerektiren bir içerikle yazılmış olması
D) Yazıldığı dönemin, ortamın içinde anlamlı olması
E) Dilinin, yeni kuşakların anlayamayacağı kadar eskimesi

6. (I) Okuma, tutkuların en asilidir; ekmek, nasıl bedeni beslerse o da öylece ruhu besler. (II) Alphonse Karr, okuma için "Tatlı tatlı kendinden geçme" demiştir. (III) Büyük yazarlar ömürlerinin yarısını okumakla geçirmişlerdir. (IV) Montesquieu, "Çeyrek saatlik bir okumanın gideremediği kederim olmamıştır." der. (V) Bir kitabı, okumadan köşeye atıp mahkûm edenler vardır; onlara benzememeye çalışalım. (VI) Gerçek okuyucular, hoşlarına gitmeyen kitaplardan bile ağırbaşlı bir dille bahsederler.

Bu parça, iki paragrafa ayrılmak istense ikinci paragrafın kaçıncı cümleyle başlaması uygun olur?

A) II B) III C) IV D) V E) VI

7. ---- . Sokaklarımızda gazyağı ile yanan fenerler yoktu artık. Onları yakıp söndüren sevimli bekçimiz de. Hayatımızdan onlar çıkıp gitmişti. Hava kararıktan sonra da her yer aydınlıktı. Dükkânlar gece geç saatlere kadar açıktı artık. Kapı önlerinde geceleri yaşlılarımız tavla oynuyor, gençlerimiz kıyıda geziyordu. İskele gazinosunda radyo vardı artık, sesi bizim sokağa kadar geliyordu.

Bu parçanın başına, aşağıdakilerden hangisini getirirsek parçayı en uygun biçimde başlatmış oluruz?

A) Zamanımızda her şey hızla değişiyor
B) Elektrikle birlikte çok şey değişmişti
C) Çocukluğumuzun semtleri yok artık
D) Teknik, her an yaşamı altüst ediyordu
E) Birçok geleneğimiz günden güne yok oluyordu

8. (I) Çocuklara paranın değeri, yerinde harcanması gerektiği çok iyi öğretilmelidir. (II) Annesiyle alışverişe çıkan üç dört yaşlarındaki bir çocuk bile paranın bir şeyler almaya yaradığını görür. (III) Eğer babası, sabah karanlığında yollara düşüyorsa, bu, para kazanmak içindir. (IV) Bütün yorgunluklar, didişmeler onun uğrunadır. (V) Bu, para denilen şey de çalışmadan kazanılmaz.

Bu parçanın hangi cümlesinden sonra, "İşte o yaşlardan itibaren çocuğun, paranın güç kazanılır bir şey olduğunu da anlaması gerekir." **cümlesi getirilirse parçanın anlam bütünlüğü bozulmaz?**

A) I B) II C) III D) IV E) V

9. (I) Tarih, zevk veren bir bilgi birikimidir. (II) Kronoloji hiç sevmem demeyin. (III) Kronolojiyi sevdirecek mukayeseler vardır. (IV) Keza kronolojiyi sevmek için kronoloji ezberlenmez; mutlaka bu rakamların tadına varmak için karekökünü alırsınız, çarpım cetveli ile başlarsınız. (V) Kronolojiyi sevmek için ise senkronoloji yapmak zorundasınız.

Bu parçada numaralanmış cümlelerin hangisi parçanın anlam bütünlüğünü bozmaktadır?

A) I B) II C) III D) IV E) V

MURAT YAYINLARI

Ücretsiz PDF Kitap Arsivi - https://rantey.org

10. "İş planlarında kendi fikirleriyle yetinen hatta onları zorla diğer insanlara da kabul ettirmeye çalışanlar, önemli bir dinamizmi elden kaçırdıkları gibi çevrelerinden de sürekli nefret ve soğuk davranışlar görürler." **sözüyle asıl anlatılmak istenen düşünce aşağıdakilerin hangisidir?**

A) Başlarına saygılı olmayı ve onların düşüncelerini dikkate almak gerektiği
B) Haddini bilmek, kendini tanımak gerektiği
C) Benmerkezci davranışların kişileri ötekileştirdiği
D) "Akıl, akıldan üstündür." diyerek fikir alışverişinde bulunmak gerektiği
E) Cehaletin verdiği özgüvenin insanlarla işbirliğini artırdığı

11. Eklemelerin değil kısaltmaların kaçınılmaz ve gerekli olduğu, ayrıntıların yerini çağrışımlara ve sınırsız yorumlara bıraktığı, anlık bir kavrayışın tek çırpıda anlatıldığı küçürek öyküler okuru 'bilgilerden bıkma bunaltısı, her az bilgiyle çevrili olma duygusundan kurtararak bireysel dikkati önceleyen minimalize metinlerdir.

Bu parçaya göre küçürek öykülerin amacı aşağıdakilerden hangisi olabilir?

A) Uzunca bir öykünün yoğunluğunu ayrıntıyla sağlamak yerine derinlemesine bir anlatımla yakalama çabasıdır.
B) Az ve yerinde kullanılan sözcükleri öyküden atmaktır.
C) Beklenmedik, keskin, şaşırtıcı etki yerine beklenilen sonu ortaya koymaktır.
D) İsteklerin, duygu ve düşüncelerin, çelişkilerin dile getirildiği öykü figürünü oluşturmaktır.
E) Geleneksel anlatı biçimlerinden vazgeçilerek dış dünyanın gerçekliğini olduğunu gibi vermektir.

12. İnka kültürünün ayakta kalan en önemli ürünlerinden olan Machu Picchu kaleleri yıkılma tehdidi ile karşı karşıya. Bilimciler kaleleri tehdit eden toprak kayması ihtimaline dikkat çekiyorlar. İnkalar, kaleleri 16. yy.da İspanyol işgalinden korunmak amacıyla kullanmışlardı. Saklı kent adıyla da bilinen yapı, İnkalar tarafından işgale direnmenin bir sembolü olarak kabul ediliyor.

Bu parçadan aşağıdakilerin hangisi <u>çıkarılamaz</u>?

A) İnka kültürüne ait olan bazı yapıların hala varlığını sürdürdüğü
B) İnkalara ait kalelerle ilgili bir tespit ortaya konduğu
C) Machu Picchu kalelerinin İspanyol işgalcilerden korunmak için yapıldığı
D) Kalelere ilişkin bir adlandırma olduğu
E) Kalelerin, İnkalar için bir sembol değeri taşıdığı

13. Ölçü, mantık, ustalık gibi sözler son yıllarda pek gözden düştü. Yeni sanatçılarımız bunlara boş veriyorlar; çünkü bu sayede eskilerin ölçü, mantık anlayışlarından kurtuluyoruz. Ama aslında bunlar küçümsenecek değerler midir? Yenilerin atmak istedikleri bu değerler değil, bu değerlere eskilerin giydirmiş oldukları elbiselerdir. Akıl değil, aklın çemberlerini istiyorlar.

Aşağıdaki yargıların hangisi bu paragraftan <u>çıkarılamaz</u>?

A) Ölçü, mantık ve ustalığa, yeni sanatçılar, yeni yorumlar katıyorlar.
B) Yeni sanatçılar, sanatta özgür düşünceye önem veriyorlar.
C) Yeni sanatçılar; yeni kurallar, yeni ölçüler yaratıyorlar.
D) Ölçü ve mantık yeni sanatçılarca istenmiyor değil.
E) Yeni sanatçılar, gerçek ölçü, mantık ve uğraşıyı küçümsüyorlar.

MURAT YAYINLARI

Ücretsiz PDF Kitap Arsivi - https://rantey.org

14. Biliyoruz ki dünyaya çıplak geldik ve bu dünyadan ayrılırken gene çıplak olacağız. Evrenin bize sunduklarının sadece kendimize değil tüm insanlığa ait olduğuna inanıyoruz. Bu nedenle yayınevi olarak kazancımızın bir bölümünü yardım amaçlı bir fonda toplamaya karar verdik. Bu yardım fonuna hiçbir kişi ve kuruluştan bağış kabul etmiyoruz.

Bu paragraftan aşağıdakilerin hangisi çıkarılamaz?

A) İnsan dünyaya gelirken hiçbir şeyi yanında getiremediği gibi dünyadan ayrılırken de yanın da götüremez.

B) İnsan kazancının bir bölümünü yardım amacıyla kullanmalıdır.

C) Yayınevi kazancının bir bölümünü yardıma ihtiyacı olanlara ayırmaktadır.

D) Dünyadaki güzellikler sadece bize değil tüm insanlığa aittir.

E) Sadece kendimizi değil başkalarını da gözetmeli ve düşünmeliyiz.

15. Gülmenin birçok fizyolojik faydası vardır. Gülmek, "küçük bir egzersiz" olarak kabul edilebilir. Gerçekten de gülünce boyun, göğüs, karın ve diyaframın kasları çalışır. Gülerken, bedeniniz dışarıya daha çok karbondioksit atar ve daha çok endorfin üretir, ayrıca hastalıklarla savaşmamızı sağlayan akyuvarlar artar. Gülmek en iyi ilaçtır. Fakat ne yazık ki birçok hastane gülme odalarına sahip değildir. Bu odalar aslında çok maliyetli değildir. Bu odalarda hastaları güldürmek için basit birkaç video, eğlenceli kitaplar, kasetler, veya komik oyuncaklar olabilir. Bunların hastalara kazandıracağı sağlığın maliyeti neyle ölçülebilir ki?

Bu parçaya göre "gülme" ile ilgili olarak aşağıdakilerden hangisi söylenemez?

A) Gülmek insanın kas sağlığı için faydalıdır.

B) Gülmenin fiziksel etkileri de göz ardı edilmemelidir.

C) İnsanların birbirlerinin fiziksel özelliklerine gülmeleri bile onları daha sağlıklı kılabilir.

D) Bazı hastanelerde gülme odaları kurulmuştur.

E) Gülme odası kurmak hastaların daha çabuk iyileşmesini sağlayacaktır.

16. Halk edebiyatımız üzerine birçok önemli çalışması olan bir bilgin, Yugoslavya'daki Halk edebiyatı türleri arasında destanların da önemli bir yer aldığını açıklamaktadır. Ayrıca Âşık edebiyatı örneklerine çok benzeyen sevdalinka (sevda türküleri) adında bir biçim halk aşk türkülerinin Bosna-Hersek'te bugün de yaygın olduğu bilinmektedir. Sırp-Hırvat dilinde söylenmelerine rağmen, Boşnakların bu aşk türkülerinin Osmanlı döneminde gelişen âşık edebiyatının etkisiyle ortaya çıkan bir Halk edebiyatı türü olduğuna hiç kuşku yok.

Bu parçadan aşağıdakilerden hangisi çıkarılamaz?

A) Yugoslavya'da bizdeki gibi bir âşık edebiyatı geleneği vardır.

B) Sevdalinka türküleri, Sırp-Hırvat diliyle söylenirken Türkçe söylemek de ihmal edilmemiştir.

C) Halk edebiyatımızı inceleyen kişiler, Osmanlı'nın egemenliğindeki diğer yerleri de incelemeyi ihmal etmemişlerdir.

D) Yugoslav halk edebiyatında destanlar da yer almaktadır.

E) Sevdalinka türündeki aşk türküleri Osmanlı döneminde gelişen Âşık edebiyatından etkilenmiştir.

17. Şehrin karışık yapısı, insan ruhunu hırpalar. Şehirde her an her şey olabilir. Hiç ummadığınız bir bela sizi her an, her yerde yakalayabilir. Geleneksel hayatın, nesilden nesile aktarılan devamlılığı yoktur burada. Bu durum sadece mekânda değil, zamanda da güven duygusunun yitirilmesine sebep olur. Böylece gelecek beklentisi, yerini belirsiz ve korkulu bir bekleyişe bırakır. Hayat anlamını kaybeder, sahte bir dünyaya sahte bir bilinçle uyum sağlanır.

Bu paragrafta şehirle ilgili aşağıdakilerin hangisine değinilmemiştir?

A) Şehirde geleneksel hayatın devamlılığının olmadığına

B) İnsanların umutlarını kaybetmediğinde şehrin karmaşık yapısını düzeltebileceğine

C) Şehirde gelecek beklentisinin korkulu bir bekleyişe dönüştüğüne

D) Şehirde mekân kadar zamanda da güven duygusunun yitirildiğine

E) İnsan ruhunu hırpalayanlardan birinin şehrin karışık yapısı olduğuna

MURAT YAYINLARI

Ücretsiz PDF Kitap Arsivi - https://rantey.org

18. Eski Yunanlılar dilini anlamadıklarına barbar diyorlarmış. Bense kimlere barbar diyorum biliyor musunuz? Salt konuşmanın hakkını veremeyenlere. Gevezeler öyle doğrusu; barbar onlar. Ama salt konuşmayı küçümseyenler de öyle; onlar da barbar bence.

Bu parçanın yazarı aşağıdakilerden hangisine karşı değildir?

A) Eski Yunanlıların düşüncelerine
B) Geveze olanlara
C) Konuşmayı küçümseyenlere
D) Konuşmanın hakkını veremeyenlere
E) Konuşmayı da susmayı da bilmeyenlere

19. VE 20. SORULARI AŞAĞIDAKİ PARÇAYA GÖRE CEVAPLAYINIZ.

(I) Halkın bilgi seviyesi aydınlara göre elbette çok düşüktür. (II) Fakat halkın duygu seviyesi aydınlara nispetle çok yüksektir. (III) En büyük dostluklar, en büyük düşmanlıklar onlarda görülür. Severler, kızarlar, ağlarlar, gülerler. (IV) Duygularının ardına takılıp aydın olanların bir türlü akıl edemediği işler yaparlar. (V) Shakespeare' i Türk köylüsü gibi hangi aydın yaşayabilir?

19. **Bu paragraftan aşağıdakilerden hangisi çıkarılamaz?**

A) Aydınların bilgi seviyesi halka göre daha yüksektir.
B) Abartılmış dostluk ve düşmanlıklar duygu yoğunluğunun sonuçlarıdır.
C) Halk ve aydınlar duygularını farklı şekillerde ifade ederler.
D) Duygularının ardına takılmayanlar akıl ermez işler yapamazlar.
E) Duygulara dayandırılmış bir yaşam, bilgisizliğin neticesidir.

20. **Parçada numaralandırılmış cümlelerle ilgili aşağıdakilerden hangisi yanlıştır?**

A) I. de bir saptama yapılmıştır.
B) II. de karşılaştırma yapılmıştır.
C) III. de aydın olmayanlarla ilgili olumsuz bir durumdan bahsedilmiştir.
D) IV. de sıra dışı bir durumdan bahsedilmiştir.
E) V. de Shakespeare ve Türk köylüsü arasında benzerlik kurulmuştur.

MURAT YAYINLARI

Ücretsiz PDF Kitap Arsivi - https://rantey.org

Açıklamalar • TEST 8

1. **D** Parçanın konusu daha ilk cümlede belirtilmiş; uygarlığın oluşmasında en önemli etken olan doğa. Sonraki cümleler bu konuyu geliştiren, örneklerle inandırıcı kılmaya çalışan cümlelerdir.
2. **A** Parçanın konusu, "yazarların başkalarından etkilenmesi"dir. Ancak, bu konuda birtakım koşullar, sınırlamalar getiriliyor: Etkilen, ama iyi yazardan etkilen ve bu etkiyi kendi yeteneğinle yoğur, özgünleştir, kalıcı kıl.
3. **E** Parçanın yazarı, insanlar arasında uzun vadede ortaya çıkan farkları onların kalıtsal özelliklerine değil de içinde yaşadıkları çevreye bağlıyor. Asıl söylenmek istenen bu.
4. **A** Parçada, oylamayla elde edilen sonucun yanlış bir durumu doğru yapmaya yetmeyeceği üzerinde durulmuştur. A seçeneğindeyse oylamanın her şeyi sonuçlandıracağı üzerinde durulmuş ve parçada anlatılana ters düşmüştür.
5. **D** "Zamana ve mekâna bağlı yaşaması" sözü, dizelerin yazıldığı döneme ve ortama göre değerlendirilmesi gerektiğini bize verir.
6. **D** Parçadaki I, II, III ve IV. cümlelerde okumanın ruhu beslediği, insanı türlü sorunlardan uzaklaştırdığı söylenmiş ve bu yargı örneklerle desteklenmiştir. V. cümleden itibaren kitap okumamaktan söz edilmiş böylece yeni bir paragrafa geçtiği gösterilmiştir.
7. **B** Metnin genelinde elektrik olmadığı zamanlardaki durumun, elektriğin gelmesiyle birlikte değiştiği vurgulanmıştır. Bu sebeple B seçeneğindeki cümleyle parçanın başlaması gerekir.
8. **B** II numaralı cümlede üç dört yaşındaki çocukların bile paranın bir şeyler almaya yaradığını anladığı belirtildiği için soru kökündeki cümlenin bu cümleden sonra gelmesi gerekir.
9. **A** II, III, IV ve V. cümlelerde kronolojiyle ilgili bilgi verilirken parçanın ilk cümlesinden tarihin tanımı yapılmıştır. Dolayısıyla parçanın anlam bütünlüğüne aykırıdır.
10. **C** Cümlenin tümü göz önüne alındığında sadece kendi fikirlerini önemseyen ve diğerlerine dayatan insanların hem sevilmediği bunun sonucunda da diğer insanları ötekileştirdiği yani ben ve diğerleri diye ikiye ayırdığı vurgulanmıştır.
11. **A** Parçada "eklemelerin değil kısaltmaların gerekli olduğu... , ayrıntıların yerini yeni çağrışımlara ve sınırsız yorumlara bıraktığı..." ifadelerinden anladığımız öykünün amacının, yoğunluğu ayrıntıyla değil derin bir anlatımla yakalama çabası olduğudur.
12. **C** A seçeneğine "... İnka kültürünün ayakta kalan en önemli ürünlerinden..." B seçeneğine "...Machu-Picchu kaleleri yıkılma tehdidiyle karşı karşıya... ve ... toprak kayması ihtimali ..." D seçeneğine "... Saklı kent adıyla bilinen..." E seçeneğine "... direnmenin sembolü..." söz gruplarıyla ulaşırız. Ama C seçeneğinde kaleler, İspanyol işgalinden korunmak için kullanılmıştır, bu kalelerin yapılma amacının bu olduğunu çıkaramayız.
13. **A** Parçada yeni sanatçıların eskilerin ölçü, mantık ve ustalığına boş verdiği bunları değiştirmek istediği söyleniyor ama bunlara yeni yorumlar kattıklarından bahsedilmiyor.
14. **B** Parçada yayın evinin gelirin bir kısmını bağışladığından bahsediyor ama insanlar ille de bağış yapsın denmiyor.
15. **C** "Gülmenin birçok fizyolojik faydası vardır." cümlesinden A seçeneği,
"Fakat ne yazık ki birçok hastane gülme odalarına sahip değildir." cümlesinden B ve D seçenekleri,
" Gülmek en iyi ilaçtır." cümlesinden E seçeneği söylenebilir.
İnsanların birbirlerinin fiziksel özelliklerine gülmelerinin sağlıklı olup olmadığından bahsedilmediği için cevap C olur.
16. **B** "Âşık edebiyatı örneklerine çok benzeyen sevdalinka (sevda türküleri) adında bir biçim halk aşk türkülerinin Bosna-Hersek'te bugün de yaygın olduğu bilinmektedir." yargısından A, "Sırp-Hırvat dilinde söylenmelerine rağmen, Boşnakların bu aşk türkülerinin Osmanlı döneminde gelişen âşık edebiyatının etkisiyle ortaya çıkan bir Halk edebiyatı türü olduğuna hiç kuşku yok. yargısından" C, "Yugoslavya'daki Halk edebiyatı türleri arasında destanların da önemli bir yer aldığını açıklamaktadır." yargısından D, "Ayrıca Âşık edebiyatı örneklerine çok benzeyen sevdalinka" yargısından E seçeneklerine ulaşılır.
17. **B** "Geleneksel hayatın, nesilden nesile aktarılan devamlılığı yoktur burada." yargısından A, "Böylece gelecek beklentisi, yerini belirsiz ve korkulu bir bekleyişe bırakır." yargısından C, "Bu durum sadece mekânda değil, zamanda da güven duygusunun yitirilmesine sebep olur." yargısından D, "Şehrin karışık yapısı, insan ruhunu hırpalar." yargısından E seçeneklerine ulaşılır. Cevap B'dir.
18. **A** Eski Yunanlıların dilini bilmediklerine barbar dediğinden bahsediyor ama onların düşüncesine karşı olduğu buradan çıkarılmaz.
19. **E** İlk cümleden A, "En büyük dostluklar, en büyük düşmanlıklar onlarda görülür." yargısından B, "Duygularının ardına takılıp aydın olanların bir türlü akıl edemediği işler yaparlar." yargısından C ve D seçeneklerine ulaşılır. Cevap E'dir.
20. **C** III. cümlede olumsuz bir durumdan bahsedilmemiştir. Aydın olmayanların iyi ve kötü özellikleri ortaya konmuştur.

MURAT YAYINLARI

Ücretsiz PDF Kitap Arsivi - https://rantey.org

Paragraf - II • TEST 9

1. Kitap okudukça, gezip gördükçe, sorup öğrendikçe ve doğayı gözlemleyebildikçe kendimizi geliştirebiliyoruz. Bizde var olanın üstüne katabiliyoruz. Kaybettiklerimizin, unuttuklarımızın yerine koyabiliyoruz. Bizi daha çok biz yapmaya çalışıyoruz. Bir de sessizce bir köşede oturup ya da en umulmadık kalabalık, yoğun ortamlarda kendimizle baş başa kaldığımız o anlarda içimize, aklımıza, kalbimize ve beynimize gelenler var. Bunlar çoğunlukla karmakarışık hâlde olduklarından seçmek, tertip düzen yapmak ve kelimelere dökebilmek zorluyor bizi. Kelimelere dökülmedikçe de içerdekiler birikiyor, patlama noktasına geliyor insan. Hani musluğun ucu tıkalıdır da su akmaz ya bir açılsa nasıl gürül gürül akacaksa ardındaki deryalar, biz de aynı misal musluğun ucundaki küçücük tıkanmışlıkta çok zorlanıyoruz. Ne zormuş!

Bu parçada birbirine benzetilen kavramlar aşağıdaki seçeneklerin hangisinde bir arada verilmiştir?

A) Yazma isteği - kelimelere dökmekte zorlanmak
B) Musluğun ucundaki tıkanıklık - insanın içindekileri yazıya dökememesi
C) Kitap okumak - doğayı keşfetmek
D) İnsanın zorlanması - musluğun tıkanması
E) Kendini ifade etmenin zorluğu - su

2. "Irkçılık bir dolaptır, bir düşünme kolaylığıdır." İnsanları görünüşlerine, renklerine göre değerlendirmek, ayırmak kolaylıktan, tembellikten daha kötü bir şey bence. Bu bencilliği de aşıyor; iğrenç bir duygu, bir tutku oluyor. Gerçek uygarlığa ulaşmış kişi, ilkel tutkulardan, duygulardan sıyrılmasını bilendir, diyoruz. Ama bir de bakıyoruz, uygarlığın üst seviyelerine ulaştığı sanısını veren bir ülkede insanlar derilerinin rengine göre ayırt ediliyor, eziliyor, öldürülüyor. "Gerçek uygarlık" kalplerdedir, orada yoksa başka yerde değildir.

Bu parçada yazar, hangi durumdan yakınmaktadır?

A) Irkçılığın yanlış tanımlanmasından
B) Gerçek uygarlığa ulaşmış kişilerin ilkel tutkulardan sıyrılmasından
C) Herkesin üst uygarlık düzeyine ulaşamamasından
D) Kendilerine uygar diyenlerin, insanları görünüşlerine göre ayırmalarından
E) Gerçek uygarlığa bir türlü ulaşılamamasından

3. (I) Aralık 1922... (II) 11 Ekim'de Mudanya Bırakışması imzalandı. (III) Türklerin zulüm yapacağından korkan Rum Ortodoks sivil halkı da evlerini, eşyalarını bırakarak İzmir ve İstanbul gibi liman kentlerine yığıldı. (IV) Kızılhaç'ın kiraladığı veya Amerikan - İngiliz kumpanyalarından temin edilen gemilerle Ege adalarına ve Yunanistan limanlarına gittiler. (V) Büyük çoğunluğu 9 Eylül'den sonra, 1 ay içinde yaklaşık 650 bin kişi ülkeyi terk etti.

Bu parçadaki numaralanmış yerlerin hangisine, düşüncenin akışına göre, "TBMM ordusu Yunan işgal gücünü yenilgiye uğrattıktan sonra 9 Eylül'de İzmir'e girdi." **cümlesi getirilmelidir?**

A) I. B) II. C) III. D) IV. E) V.

4. Sanatta ilerleme olacağına inanmıyorum. Özellikle de şiirde ve müzikte... Yazılabilecek en güzel şiirler çoktan yazıldı, yapılabilecek en güzel besteler çoktan yapıldı. Mesela şiirde Yunus Emre'yi, Fuzuli'yi geçen ya da geçebilecek olan var mı? Müzikte Mozart'tan Dede Efendi'den daha büyük müzisyen var mı? Diğerleri ise sadece büyük sanatçıların ardından yürüyebilirler ancak. Sadece bakış açılarını değiştirebilirler. Siz buna ilerleme diyorsanız orasını bilemem.

Bu parçada asıl anlatılmak istenen aşağıdakilerden hangisidir?

A) Mozart ve Dede Efendi'den daha büyük müzisyen yoktur.
B) Yunus Emre gibi büyük sanatçılar her çağda okunabilir.
C) Sanatta ilerleme kabul edilemez bir olgudur.
D) Müzikte, resimde, edebiyatta birikimlerden faydalanıp daha iyi işler yapmak gerekir.
E) Büyük sanatçıların yaptığı işleri kaynak edinip onları geçecek düzeyde eserler meydana getirmek gerekir.

MURAT YAYINLARI

Ücretsiz PDF Kitap Arsivi - https://rantey.org

5. Bazı şairler vardır, yazdıkları heyecanla beklenen, işte böylesine bir şairdir Hüseyin Peker. Beklenen şair Peker'in yeni şiir kitabı *Tek Vuruş*, sıcağı sıcağına okurun ilgisini çekecek tarzda. Bu kitapta yer alan şiirlerin birçoğunu dergilerde okuduğumu belirtmeliyim. Elbette okumadıklarım da var. Peker bu kitabıyla dilini her zaman olduğu gibi en iyi şekilde kullanmaya; bizi imgelerin rengiyle boyamaya devam ediyor. Şairin şiirlerindeki ayrılık teması bugün yazılan kimi şiirlerde gördüğümüz "ajitasyon" şeklinde değildir.

Bu parçaya göre, şair hakkında aşağıdakilerden hangisine ulaşamayız?

A) Dilini çok iyi kullandığına ve şiirlerinin imge yüklü olduğuna
B) Beğenilen ve beklenen bir şair olduğuna
C) Son kitabındaki bazı şiirlerin dergilerde yayımlandığına
D) Yaşadıklarını ve yaşattıklarını şiirine yansıttığına
E) Ayrılık temasını, günümüz şairlerine göre farklı işlediğine

6. Günümüz eleştirmenleri: "Dilin anlatamadığı şey şiirdir." diyor. Dil kurallarının anlamlandırabileceği duyarlıklar, genel duygular, gerçeğe uygun betimlemeler, düzyazıyla da anlatılabilecek duygu ve düşünceler şiir dışıdır artık. Demek ki şiir, ----

Düşüncenin akışına göre, bu parçanın sonuna aşağıdakilerden hangisi getirilebilir?

A) düzyazının anlatamadıklarını da anlatmaya çabalar.
B) dilin yerleşik kurallarından filizlenir.
C) değişik bakış açılarının dildeki karşılığıdır.
D) şairin özgürlüğünü kısıtlayıcı dil özellikleriyle yüklüdür.
E) kendine özgü bir dil ve içerik yaratma sürecindedir.

7. Dayanılmaz ağrılar çektiğim kırk gün boyunca bir ara: "Tamam bu iş bitti, öteki dünyaya gidiyorum." diye düşündüm. Yeterince yaşadığım için artık yok olacağıma pek üzülmüyordum. Ama bir yandan da: Şu *Bir Dinozorun Anıları*'nın beşinci bölümünü de bitirsem de sonra yok olsam!" diyordum, kendi kendime. Ağrılar dayanılır hale gelince yeniden yazmaya başladım ve beşinci bölümü bitirdim. Ömrüm vefa ederse anlatmak istediğim başka şeyler de var.

Bu parçaya göre, yazarın amacıyla ilgili özellikle aşağıdakilerden hangisi söylenebilir?

A) Toplumuna olan borcunun bitmediğini düşünmektedir.
B) Uzun yaşamanın kendisini de rahatsız ettiğini vurgulamaktadır.
C) Kitaplarının sayısını artırarak ölümsüz olmayı düşünmektedir.
D) Anlatacaklarının veya yazmak istediklerinin bitmediğini belirtmektedir.
E) Tüm eserlerinde yaşlılıktan söz etmiştir.

8. (I) Kedi için haindir, derler. (II)Yemek yerken gözlerini kapaması da kendine edilen iyiliği bilmemek içinmiş. (III) Oysa insanoğlu bu duyguyu ya da kişisel özelliği o kadar çeşitli yollarla belli etmektedir ki... (IV) Bunu sadece kedilere ait bir özellikmiş gibi topluma lanse etmek çok yanlış. (V) İnsanlarla hayvanların benzer özelliklerinin olduğu ilk kez 1756 yılında anlaşılmıştır.

Numaralanmış cümlelerden hangisi düşüncenin akışını bozmaktadır?

A) I. B) II. C) III. D) IV. E) V.

9. İnsan psikolojisinin derinlerinde gezinmek hayli hüner ister. Bence, bunu çok iyi başarmış yönetmenimiz. Bunun için de ilk filmi olmasına rağmen seyircinin ilgisini toplaması son derece doğal. Oyuncuların seçimi, mekanlar, dekor, müzik... Her biri filmi tamamlayıcı bir unsur değil de başlı başına bir izlence sanki. Ayrıca çağdaş görüntü tekniklerinin kullanılması, filmin değerine değer katmış. Her karesinin heyecanla izlenmesi bu yüzden galiba.

Bu parçadan söz konusu filmle ilgili aşağıdakilerden hangisi çıkarılamaz?

A) Yönetmenin ilk göz ağrısıdır.
B) Modern tekniklerden yararlanılmıştır.
C) Kişilerin ruh hallerini yansıtmada başarılı bir filmdir.
D) İzleyici tarafından çok beğenilmiştir.
E) Klasikler arasına girmeye hak kazanmıştır.

MURAT YAYINLARI

Ücretsiz PDF Kitap Arsivi - https://rantey.org

10. Doğrusu bunu hiç düşünmedim. Şunu söyleyebilirim ki, ben "Böyle bir şey yazayım, toplumda şöyle bir tesir uyandırayım." diye yazacağının sebebini önceden hazırlayan yazarlardan değilim. Ben ancak içimdekileri dökmek ihtiyacı duyunca oturur yazar ve hikâyelerimin uyandırdığı tesirleri, onlar yayınlandıktan çok sonra, ondan bundan ve bilhassa eleştirmenlerin yazılarından öğrenirim.

Bu parça aşağıdaki sorulardan hangisine verilmiş bir cevap olabilir?

A) Hikâyeleriniz üzerinde değişiklik yapar mısınız?
B) Hikâyelerinizi belirli bir mesaj kaygısıyla mı yazarsınız?
C) Eleştirmenlerin yazılarınızı değerlendirmesini nasıl buluyorsunuz?
D) Yazarken genelde nelerin üzerinde durursunuz?
E) Yazmak için özellikle beklediğiniz bir zaman var mı?

11. Anlamayı engelleyen temel etkenlerin başında düşünce tembelliği gelir. Bir olgunun üzerine eğilerek enine boyuna düşünme alışkanlığımızın olmadığını, yaşamımızın her alanında görüyoruz. Bu sorun bence eğitimde odaklaşır. Okullarımızda okuma, cümleler ezberletilerek öğretiliyor çocuklarımıza. Böylece çocuk, daha ilkokul çağlarından başlayan bir ezberciliğin içine itiliyor. Bu da toplumda düşünme alışkanlığının kök salmasını engelliyor.

Bu parçada asıl anlatılmak istenen aşağıdakilerden hangisidir?

A) Düşünen insanların toplumda yerinin olmadığı
B) Ezberi kuvvetli insanların daha başarılı olduğu
C) Düşünmekten ziyade ezberlemenin tercih edildiği
D) Anlamak için düşünmek gerektiği
E) Eğitim sisteminin yanlış olduğu

12. Denemeler, insanı yeryüzü kültür haritasının bir yolcusu kılar. Salah Birsel de edebiyatımıza deneme yazılarıyla ürün vermiş sanatçılarımızdan biridir. Kurduğu dil evreniyle bu türün edebiyatımızda her dem soluk alabilmesinin önünü açan bir ustadır. *Yapıştırma Bıyık* adlı eserinde bir araya getirdiği denemelerinde, yazıdan yaşama dönük gülümsetici bir bakışın yolculuğuna çıkarır, okuru. Öyle ki edebiyat dünyasına her bir denemesiyle yeni bir renk ve soluk kazandırması, onun sözcük dünyasının zenginliğini göstermektedir.

Bu parçaya göre Salah Birsel'le ilgili aşağıdakilerden hangisi söylenemez?

A) Kendine özgü bir dili vardır.
B) Denemelerini bir kitapta toplamıştır.
C) Kelime haznesi geniştir.
D) Edebiyatımıza yenilikler kazandırmıştır.
E) Topluma örnek olmayı hedeflemektedir.

13. (I) Sanatçı, kelimenin tam anlamıyla özgür olan insandır. (II) Her yeni bilgi, sezgi ile başladığından sanatçı, bilginin daima önünde yürür. (III) Sanatçının görevi; bilgiyi aşarak hayatı ve evreni aşan sırrı aramaktır. (IV) Her sanat adamı az da olsa duyguyla düşünceyi eserlerinde bir arada kullanmıştır. (V) Görmediğimizi görerek, bize göstererek; çizgilerin, renklerin, biçimlerin büyülü dilini öğretir.

Numaralanmış cümlelerden hangisi, düşüncenin akışını bozmaktadır?

A) I. B) II. C) III. D) IV. E) V.

14. Kızböcekleri kanatlarını topladı gitti; yaz aylarında kumsalı dolduran kalabalıklar da... Su kaplumbağaları güz güneşini gördüklerinde sudan çıkmış ölü ağaç gövdelerinin üzerine sevinçle tırmanıyor. Göksu'nun kıyısındaki ağaçlar sonbaharın şarkısını söylemeye başladı çoktan. Ama yine de yapraklar sararmakta direniyor. Onlara hayat veren akarsuyun, kışın da onların köklerini besleyeceğini biliyorlar çünkü.

Bu parçayla ilgili aşağıdakilerden hangisi söylenemez?

A) Kişisel görüşe yer verilmiştir.
B) Kişileştirmeye başvurulmuştur.
C) Öyküleyici bir anlatım yeğlenmiştir.
D) Betimleyici ögeler kullanılmıştır.
E) Nesnel yargılara yer verilmiştir.

MURAT YAYINLARI

Ücretsiz PDF Kitap Arsivi - https://rantey.org

15. İnsanın öz eleştiri yapması soylu bir davranıştır. Ne var ki çoğumuz yanaşmayız, daha doğrusu yanaşamayız buna. Çünkü öz eleştiri kavramı gelişmemiştir bizde. Hep başkalarını çekiştirir, başkalarının eksiklerini sayıp dökeriz de: ---- sorusunu sormayız kendimize. Bu değerlendirmeyi yaparken nesnel tutum takınıp takınmamak ayrı bir konu. Kaldı ki tam bir nesnellikten söz edilebilir mi, işin içine değerlendirme girince?

Düşüncenin akışına göre, parçada boş bırakılan yere aşağıdakilerden hangisi getirilebilir?

A) "Bu işin sonu ne olacak?"
B) "Aslında insanlar birbirini hiç mi anlamaz?"
C) "Ben nasıl davranıyorum?"
D) "Öz eleştiri doğru bir şey mi?"
E) "İnsanları kırmak ne kadar doğru?"

16. (I) Kitabın yazarı, satrancın profesyonel bir oyuncusu; bazı okulların da satranç öğretmeni. (II) Kitabın beni ilgilendiren yönü, satrancı kolay öğretmesi değil, eğitim açısından uyguladığı yöntem. (III) Bildiğiniz gibi çocuğun dünyasında masalın çok özel bir yeri vardır. (IV) Çocuk sevdiği bir masalı, güzel anlatılmışsa büyür gider yine de unutmaz. (V) Onu artık hafızasına kazır.

Bu parçadaki numaralanmış yerlerden hangisine, "Yani bu oyunu öğrenmeye çalışan çocuklara, masal anlatıyormuş gibi yaparak satrancı öğretiyor yazar." cümlesinin getirilmesi uygun olur?

A) I. B) II. C) III. D) IV. E) V.

17. (I) Herkesin, her sanat yapıtını anlayıp özümsemesi kolay bir iş değildir. (II) Sanat eserini anlayacak birikime sahip olmayanlar, bu eserlere önemsiz gözüyle bakarlar. (III) Bugün divan edebiyatını birkaç kişiden başka anlayan yoktur. (IV) Halk edebiyatında, eserler insanların anlayacağı bir dil ve üslûpla sunulmuştur, halka. (V) Halk da bunu kolay anladığı için özümseyip sahiplenmiştir.

Bu parça iki paragrafa bölünmek istense ikinci paragraf hangi cümleyle başlar?

A) I. B) II. C) III. D) IV. E) V.

18. Sürgünlüğün bir adı da gurbettir bizde. Anadolu insanının yaşamı büyük ölçüde gurbet sözüyle resmedilebilir. Şiirler, türküler, hikâyeler hep gurbet üstünedir. Gurbet, ayrılıklarla, acılarla, yoksulluklarla bir anılır ama insanımız onu yumuşatmanın, metanetle karşılamanın yollarını öğrenmiştir. Meselâ kaderin bir parçası saymıştır.

Bu parçada gurbetle ilgili olarak aşağıdakilerden hangisi söylenebilir?

A) İnsanların yaşadığı en zor durumdur.
B) Her insana büyük acılar verir.
C) Bazı amaçlar için gerçekleştirilir.
D) İnsanların ve edebiyatın vazgeçilmez ögelerindendir.
E) Güçlü olmanın ön koşuludur.

19. Önemli olan sanatçının ne söylediği değil, nasıl söylediğidir. Konuların üstün tutulduğu dönemler pek geride kaldı sanırım. En küçük konulardan bile değerli sanatçıların, ölümsüz eserler meydana getirdikleri görülmüştür. Shakespeare'in eserlerinden o güzel üslûbunu kaldırın, silin konuya ruh ve tazelik veren ayrıntıyı; Othello'da kıskançlıktan, Hamlet'te hayal ve gerçeğin çatışmasından başka ne bulursunuz?

Bu parçanın anlatımıyla ilgili olarak aşağıdakilerden hangisi söylenemez?

A) Tahmin anlamı taşıyan cümle kullanılmıştır.
B) Kişisel yargılara yer verilmiştir.
C) Örnekleme yapılmıştır.
D) Sözde soru cümlesi kullanılmıştır.
E) Koşul bildiren yargılar vardır.

20. Bu filmin senaryosu yönetmene aitti. O, öykünün geçtiği Arpacı köyünü biliyordu ve filmin ana konusunu da köydeki hayatın ritmi oluşturuyordu. Yönetmenin isteği üzerine roller için klasik bir karakter çalışması yapılmadı. Çünkü karakter çalışmalarıyla oyuncuların kafasında önceden belirlenmiş kalıplar ortaya çıkacak ve yönetmenin bunları yıkması zor olacaktı. Yönetmen, oyunculardan yalnızca rollerini ezberlemelerini istedi. Çekimler bittiğinde bunun çok doğru bir karar olduğunu hepimiz gördük.

Bu parçaya göre aşağıdakilerden hangisine ulaşılabilir?

A) Çekimlerin nasıl geçtiğine
B) Filmin nerede çekildiğine
C) Kimlerin rol aldığına
D) Temanın ne olduğuna
E) Gişe başarısına

MURAT YAYINLARI

Ücretsiz PDF Kitap Arsivi - https://rantey.org

Açıklamalar • TEST 9

1. **B** Parçada, insanın yaşadığı şeyleri bir araya getirip bunları yazıya dökmekte zorlandığı anlatılmış; parçanın son kısmında da bu tıkanmış bir musluğa benzetilmiştir.

2. **D** Parçadaki "Ama bir de bakıyoruz, uygarlığın üst seviyelerine ulaştığı sanısını veren bir ülkede insanlar derilerinin rengine göre ayırt ediliyor, eziliyor, öldürülüyor." kısmında yazar, kendilerine uygar diyenlerin insanları ırkına, dış görünüşüne göre yargılamasının yanlışlığından bahsetmiştir. Bu da bizi D seçeneğindeki yargıya götürür.

3. **B** II numaralı yerden sonraki cümlede net bir tarih verilmiştir. Ayrıca V numaralı cümlede de yine tarih verilmiş ve kronolojik bir sıralama yapılmıştır. Bu sebeple verilen cümle II numaralı yere getirilmelidir.

4. **C** Parçanın ilk cümlesinde asıl anlatılmak istenen verilmiştir. Bunu söyleyen kişi en iyi eserlerin daha önceden verildiğini diğerlerinin hep onları taklit ederek yazıldığını anlatmıştır.

5. **D** Parçada, şairin yaşadıklarını ve yaşattıklarını şiirine yansıtmasından söz edilmediği için D seçeneğindeki yargıyı çıkaramayız.

6. **E** Parçada, şiirin kendine has bir dilinin oluştuğu anlatıldığından E seçeneğindeki cümleyle tamamlanması uygun olur.

7. **D** Parçanın son cümlesine baktığımızda yazarın daha çok yazmak istediğini çıkartırız. D seçeneğindeki yargı da bunu destekler.

8. **E** V. cümlede anlatılan yargı parçada anlatılan yargıyla uyuşmadığından cümlenin akışına uygun değildir. Çünkü ilk dört cümlede kedinin bir davranışı üzerinden insana benzerliği anlatılırken son cümlede, bir çalışmanın ilk ne zaman yapıldığı söylenmektedir.

9. **E** Parçada klasiklere ait herhangi bir durumdan söz edilmediği için cevap E seçeneğidir.

10. **B** Parçada sanatçının eserlerini belli bir kaygıyla yazmadığı, mesaj verme amacı taşımadığı yargısı çıkıyor. Bu sebeple parçaya en uygun soru B seçeneğinde vardır.

11. **C** Parçaya baktığımızda parçanın bir tümevarım parçası olduğu görülür. Bu sebeple asıl anlatılmak istenen son bölümde verilmiştir. Son cümlede de düşünmenin değil, ezberciliğin öğretildiği anlatılmaktadır. Yani C seçeneğiyle örtüşmektedir.

12. **E** Metinde Salah Birsel'in topluma örnek olmasıyla ilgili herhangi bir bölüm bulunmamaktadır.

13. **D** Parçada sanatçının bilgiye ulaşmak, bilgiyi özümsemek üzerindeki özellikleri anlatılırken IV. cümlede duyguyla düşünceyi birleştirmesi anlatılarak düşüncenin akışı bozulmuştur.

14. **E** Parçanın genelinde, yazarın bir görüntü karşısındaki duyguları anlatıldığı için nesnel veriler bulunmamaktadır.

15. **C** Metinde, kişinin kendini değerlendirmesi yani öz eleştiri yapması anlatılıyor. Bu bağlamda boş bırakılan yere düşüncenin akışına göre C seçeneğini getirmek uygundur.

16. **C** Tırnak içinde verilen cümle II. cümlenin açıklayıcısıymış gibi olduğundan bu cümlenin sonuna yani III numaralı yere getirilmelidir.

17. **C** III. cümleden itibaren divan edebiyatıyla halk edebiyatını karşılaştırmaya geçildiğinden parça III numaralı yerden ikiye bölünmelidir.

18. **D** Parçada gurbetin hem insanlar hem de edebiyat için vazgeçilmeyecek önemde bir unsur olduğu anlatıldığından D seçeneği doğrudur.

19. **E** Metinde bir olayın gerçekleşmesinin bir koşula bağlandığı cümleler kullanılmamıştır.

20. **D** Metindeki **"filmin ana konusunu da"** söz öbeği, önemli olanın tema olduğunu anlatıyor. Bu sebeple cevap D' dir.

MURAT YAYINLARI

Ücretsiz PDF Kitap Arşivi - https://rantey.org

Paragraf - III • TEST 10

1. Hayata bakış açım değişti. Doğum tarihime göre 25 yaşımdayım. Ama yaşama sevincim çoktan sönüp gitti. Coşkun, neşeli olabildiğim günleri uzak bir hayal gibi hatırlıyorum. Yazarlığım da annemin hastalığından çok şey kaptı, hepsi de acı şeyler.

Böyle konuşan biri aşağıdakilerin hangisiyle nitelendirilemez?

A) Umudunu kaybeden
B) Kendini teselli edemeyen
C) Duygularını yönlendirebilen
D) Kötü olaylardan etkilenen
E) Yeni başlangıçlara inanmayan

2. Şiirlerini okuduğum birkaç şairi iyi tanırım. Bunlardan bazılarının şiirlerinde, şiir dışındaki konuşmalarına oranla çok daha az akıl ögesinin olması beni hep şaşırtmıştır. Acaba bu şairler şiirin sadece duygu işi olduğunu mu düşünüyorlar? Eğer öyle düşünüyorlarsa duyguların da düşünceler kadar yanıltıcı olabileceğini bilmeliler.

Bu parçada sözü edilen şairlerin eleştirilen yönü aşağıdakilerden hangisidir?

A) Duygularını abartarak ifade etmeleri
B) Şiirlerinde akıl ögesini geri plana itmeleri
C) Basmakalıp ifadeler kullanmaları
D) Şiire yansıtılan düşüncelerin sanatsal imgeyi yok edeceğini düşünmeleri
E) Düşüncelerini korkusuzca ifade edememeleri

3. Tiyatro, gerçeğin dış görünüşünü vermede sinemayla yarışamayacağını, yüzyılın başında anlamıştır. O nedenle, çağımızda türlü yeniliklere başvurulmuş; yalnız kendine özgü değerleri, başka sanat kolunun veremeyeceği sahne özelliklerini aramış bulmuştur. Kuşkusuz, bu buluşlardan en önemlisi tiyatronun konuşan fotoğraf olmaktan iyice kurtularak söz ve hareketin sağladığı canlı, güçlü bileşime ulaşmasıdır.

Bu parçaya göre tiyatronun etkinliğinin artmasını sağlayan asıl özelliği aşağıdakilerden hangisidir?

A) Farklılıklar araması
B) Yeni değerlere ulaşması
C) Gerçeği olduğu gibi yansıtabilmesi
D) Dekora önem vermesi
E) Anlatımının canlı olması

4. Bir sözün gözümüzün önüne gelen görüntüsü olabilecek bir şeyse o söze anlamlı, olmayacak bir şeyse anlamsız deriz. "Serhan uyandı." sözünün bir anlamı vardır çünkü Serhan uyanabilir. "Sokağın boynu büküktü." sözünün bir anlamı yoktur çünkü sokağın boynu olmaz. Bir kelime ve dolayısıyla bir görüntü sanatı olan şiirin sadece olabilecek görüntülere bağlanması istenemeyeceğinden anlama da bağlı kalması istenemez.

Bu parçada vurgulanmak istenen, aşağıdakilerden hangisidir?

A) Şiirde konu önemli değildir.
B) Şiire anlam yüklemek zor bir iştir.
C) Şiirin anlam taşımak gibi bir mecburiyeti yoktur.
D) Anlamsız sözlerle şiir yazmak boşa çabadır.
E) Anlamlı olmayan şiirler duygulara hitap etmez.

MURAT YAYINLARI

Ücretsiz PDF Kitap Arsivi - https://rantey.org

5. Türk milletinin tarihini okuyanlar, Türklerin tarih boyunca sıkıntıdan, çileden, mücadeleden kurtulup huzur içinde yaşadıkları bir dönemin olmadığını görürler. Sakaların büyük önderi Alp Er Tunga'nın öldürülmesinden Selçuklu Sultanı Alpaslan'ın Alamut Kalesi'nde hançerlenmesine, Haçlı Seferleri'nden Kurtuluş Savaşı'na kadar yüzlerce bunalım dönemi geçirmişiz. Cumhuriyet kurulduktan sonra bir huzur ve sükûnet dönemi yaşayacağımızı sanarken II. Dünya Savaşı başlamış, ülkemiz savaşa girmediği halde alınan önlemler yüzünden korkunç bir kıtlıkla karşı karşıya gelmiştir. 1946'da çok partili dönem başlamış, ardından iktidara gelen parti, ülkede bir kalkınma hamlesi gerçekleştirmiş; halkın yüzü gülmeye başlamışken 1960 darbesi ile ülkemiz yine sıkıntılı günler yaşamıştır.

Bu parçadan çıkarılabilecek en kapsamlı yargı aşağıdakilerden hangisidir?

A) Türk milletinin tarihinin çok eskilere dayandığı
B) Türk milletinin tarihte her zorluktan başı dimdik çıktığı
C) Türk milletinin her zaman sıkıntılar çektiği
D) Cumhuriyet Dönemi'nde sıkıntıların bittiği
E) Haçlı Seferleri'nin Türk milletine çok darbe vurduğu

6. Ünlü mizahçı Karl Farkas'ın evlilikle ilgili şu sözleri, konuyu çok güzel bir biçimde özetliyor: "Evlilik, iki insanın yalnız olsalardı karşılarına çıkmayacak olan sorunları çözmek için kurdukları bir müessese, yani evlenme kararı ile başlarına açtıkları problemlerle başa çıkmak için yaptıkları bir anlaşmadır."

Karl Farkas evlilikle ilgili sözleri ile aşağıdakilerden hangisini vurgulamak istemiştir?

A) Evlilik yalnızlığa karşı alınmış bir önlemdir.
B) Yalnızken sorunları olmayan insanların evlenerek başlarına dert aldıkları bir kurumdur.
C) İki insanın sorunlardan kurtulmak için kurduğu bir müessesedir.
D) Evlilik karşılıklı bir antlaşmadır.
E) Evli olmayan insanlar mutlu insanlardır.

7. Romanı 19. yüzyıl sanatı, şiiri ise ölmekte olan bir sanat gibi görenler var. Yirminci yüzyıl insanı, bilim ve teknik geliştikçe daralan dünyasında yüzlerce sayfayı okumaya zamanı olmadığını belirtiyor. Yazınla ilgilenmenin, şiiri sevmenin insanlığın çocukluk döneminden kalma bir tutku ya da bırakılması gereken bir alışkanlık olduğu kanısı geniş çevrelerde yaygın. Sözüm ona yüzlerce romanı okuyacağına, iki saat içinde filmini seyretmeliymiş insan.

Bu parçada yazar aşağıdakilerin hangisinden yakınmaktadır?

A) Son zamanlarda nitelikli eserlerin meydana getirilmediğinden
B) Şiirin romandan daha önemli bir tür olmasından
C) Edebiyatın diğer türlerden daha az ilgi görmesinden
D) Romanın uzun, şiirinse kısa bir tür olmasından
E) Görsel olanın, yazının önüne geçmesinden

8. Yazdıklarımı anlayabilmek için okuyucularım zorlanacağına, onlara anlatabilmek için ben zorlanayım. Çünkü yazdıklarımı okuyanlar, salt anlamak için değil; anladıklarını yorumlamak, asıl iletiyi algılayabilmek için zorlanmalıdır, bu yüzden okurun niteliğiyle ilgilenmem.

Bu sözler aşağıdaki soruların hangisine cevap olarak söylenmiş olabilir?

A) Eserlerinizde anlatımınızın açık ve düşündürücü olmasına özen gösterir misiniz?
B) Anlatımdan çok, içeriği önemseyen yazarların başarılı olabileceğine inanıyor musunuz?
C) Yazarken okurun eğitim düzeyini, beklentilerini önemsiyor musunuz?
D) Sizce yazarlık, yeteneğin yanı sıra sürekli bir çalışmayı da gerektirir mi?
E) Kolay ve rahat yazan bir yazar mısınız?

MURAT YAYINLARI

Ücretsiz PDF Kitap Arsivi - https://rantey.org

9. Üniversitelerin Türk dili ve edebiyatı bölümlerinde çağdaş Türk edebiyatının yeterince yer almaması, her zaman tartışılmıştır; bundan sonra da tartışılacaktır. Ancak unutmayalım ki üniversite bir alanda her şeyin öğretildiği öğretim kurumu değildir. Üniversite düşünme eğitiminin yapıldığı akademik bir kurumdur, böyle de olmalıdır. Bunu gerçekleştirdiğimiz zaman bu tür sorunlarımız da kalmayacaktır. Öğretim üyeleri de çağdaş Türk edebiyatına gereken ağırlığı verecek, bu alanda araştırma yapmak isteyenlerin önünü açmaya çalışacaktır.

Bu parçadan aşağıdakilerin hangisine ulaşılamaz?

A) Her şeyi üniversitelerden beklemek yanlıştır.
B) Üniversite, düşünme temeline dayalı bir yerdir.
C) Uzun süredir tartışılan belli bir konu vardır.
D) Çağdaş edebiyatın başlangıç noktası üniversitedir.
E) Belli şartlar gerçekleşmedikçe insanların önü açılamaz.

10. Konuşma, insanın toplum yaşayış ve düzeninde etkinliğini sürdürebilmesinin en pratik ve en geçerli yoludur. Bakınız J. Paul Sartre bu etkinliği nasıl ifade etmektedir: "Konuşurken bir şeyi değiştirdiğini bilir insan. Hiçbir şeyi değiştirmeden konuşmak mümkün değildir. Bir şey söylemeden konuşursan o başka. Bir şey söyledin mi değişiyorum ve değiştirildiğimi biliyorum demektir."

Bu parçada konuşma ile yapılan tespit aşağıdakilerden hangisiyle ilgilidir?

A) Konuşmanın insan hayatında önemli bir yeri olduğuyla
B) Konuşmanın bazen fayda etmediğiyle
C) İnsanların konuşmadan da anlaşabileceğiyle
D) Konuşmanın bir şeyleri değiştirdiğiyle
E) Konuşmanın hayatta en pratik yol olduğuyla

11. Büyük yapıtlar kendilerini hemen ele vermezler. Bu yapıtlar adeta iki katlı gibidir. Üst kat, yani yüzeydeki kat, çoğunluğun anlayacağı cinstendir. Eserin asıl büyüklüğünü, alt katın anlamını ise herkes kolay kolay kavrayamaz. Örneğin Hamlet, psikolojik bakımdan dünya edebiyatının en kompleks, en çarpık karakterlerinden biridir. Shakespeare'in bu trajedisi yoğun bir şiir ve düşünceyle yüklüdür. İncelenmesi, anlaşılması çok güç bir eserdir. Ama Hamlet dünyanın neresinde oynansa insanlar tiyatroya koşar. Çünkü Hamlet'in gizli alt katı okumuşları ne kadar sarıyorsa kolayca göz önüne serilen üst katı da en bilgisiz insanları aynı şekilde ilgilendirebiliyor.

Bu parçadan Hamlet'le ilgili olarak aşağıdakilerin hangisine ulaşılamaz?

A) Herkesi ilgilendiren bir tarafı olduğuna
B) Eserde düşünce unsurunun belirgin olduğuna
C) Anlamsal derinliği bulunduğuna
D) Başka bir yapıtla kıyaslanamayacağına
E) Kendini bir anda ele veren bir eser olmadığına

12. Bazı insanlar vardır, umut doludur. Sorun yaratıcı değil, sorun çözücüdür. Onlar parlak başarılarıyla çevrelerine hep ışık saçarlar. Başarılarının en büyük sırrı, yaşamı, asla tükenmeyen biri olarak yaşamalarıdır. Sizler de sürekli öğrenmeyi ve gelişmeyi kendinize bir hedef haline getirirseniz hiçbir zaman tükenmeyen biri olursunuz.

Paragrafa göre, "hiçbir zaman tükenmeyen biri olma"nın asıl yolu hangisidir?

A) Güler yüzlü ve umutlu olmak
B) Davranışlarıyla herkese örnek olmak
C) Başkalarının sorunlarıyla ilgilenmek
D) İş yaşamında ulaşılacak bir hedef belirlemek
E) Öğrenme ve gelişmeyi yaşam biçimi haline getirmek

MURAT YAYINLARI

Ücretsiz PDF Kitap Arsivi - https://rantey.org

13. Düşlerimin sınırlarını ve evrenini çok daha genişleterek Uyumkent'in Anadolu'da, hem de Orta Anadolu'da kurulmasını bile isterim. Çünkü en eski uygarlığın beşiği Asya ile en çağcıl uygarlığın yaratıldığı Avrupa arasında bir geçit ve en eskisinden en yenisine dek bütün uygarlıkların alt alta, üst üste, yan yana harman olduğu bir coğrafyadır Anadolu. Uyumkent'in kurulmasını önerenler, katkıda bulunacak devletlerden kimi isteklerde bulunuyorlar. Örneğin "Bütün sanat dallarının şenlikleri ve toplantıları için bir bütünsel yapı yaratılmalı ve burada yeryüzü uygarlığı müzesi kurulmalıdır."

Bu parçaya göre aşağıdakilerden hangisi <u>çıkarılamaz</u>?

A) Uyumkent'in Anadolu'nun dışında kurulmasının bir anlamı yoktur.

B) Uyumkent'in kurulması için belirlenen yer, Asya ile Avrupa'nın arasında olmalıdır.

C) Başka ülkelerden de projeye destek verilecektir.

D) Projede sanatsal gösteri ve toplantılar için bir müze yapılması önerilmektedir.

E) Uyumkent, bir toplumu evrensel kültüre taşımak için gereklidir.

14. ... Pek çok insan koyulur yola. Bu koşuyu kazanmak, belki de alkışlanmak için koşarlar. Ama koşuyu tamamlayanların sayısı çoğu kez azdır. Gerçek sanatçılardır bunlar. Yarışın sonunda kulakları alkışı duymayacak kadar sağırdır artık.

Bu parçanın giriş cümlesi, aşağıdakilerden hangisidir?

A) Yaşam, kişinin kendisiyle olan yarışıdır.

B) Sanat yaşamı, kır koşusu gibidir.

C) Gerçek sanatçı, yaşamı boyunca durmadan üretir.

D) Her insanın içinde ünlü ve başarılı olma isteği vardır.

E) İnsan, yaşamı boyunca başkalarıyla yarış içindedir.

15. Kendini beğenmişlik hastalığına yakalanmaya en yatkın kişiler arasında sanatçılar, politikacılar vardır. Bu hastalığın virüsüne en dayanıklı olanlar ise bilim insanlarıdır. Bilim insanları tüm bilgilerini, başka kitaplara yani diğer insanların bilgi birikimlerini taşıyan kitapları okumaya borçlu olduklarını bilirler.

Bu parçadan çıkarılacak en kapsamlı yargı, aşağıdakilerden hangisidir?

A) Bilim insanları, diğer insanlara göre daha alçakgönüllüdürler.

B) Sanatçılar ve politikacılar kendini beğenmişlik hastalığına kolayca yakalanırlar.

C) Bilim insanları, sadece kendilerinin değil, başkalarının düşüncelerine de önem verir.

D) Okumak, insanları basit tutkulardan uzaklaştırır.

E) Bilim insanları, sanatçı ve politikacılardan daha çok okumaya zaman ayırır.

16. (I) Fırat, Dicle'ye göre daha uzundur. (II) Boyu iki bin kilometreyi aşar. (III) Dicle daha kısadır. (IV) Bundan ötürü Fırat'ı erkek saymak ve adına "Mecnun" demek; Dicle'yi kız saymak ve onun adına da "Leyla" demek doğru olur. (V) Zaten Dicle, Fırat'a sokulup başını omzuna dayayarak yüzyılların düşlerine dalar.

Bu parçada anlatılan nehirlerle ilgili olarak aşağıda verilenlerden hangisi <u>yanlıştır</u>?

A) I. cümlede, karşılaştırma yapılıyor.

B) II. cümlede, uzunluğa değiniliyor.

C) III. cümlede, IV. cümlenin nedeni belirtiliyor.

D) IV. cümlede, öznel bir açıklama yapılıyor.

E) V. cümlede, kişileştirme yapılmıştır.

MURAT YAYINLARI

17. Argo, bulanık bilinçlerin, dağınık zihinlerin işidir. Biraz araştırıldığında deneysel bilimlerde argonun olmadığı görülür. Nerede söz ayağa düşer, insan gerçeğine, insan varlığına duyulan saygı silinirse orada argo, konuşma dilinin yerini almaya başlar.

Bu parçaya göre aşağıdakilerden hangisi söylenebilir?

A) Toplumun sağlıksızlık göstergesi olan argonun konuşma diline egemen olduğu
B) Eğitim düzeyi düşük kişiler arasında argonun yaygınlaştığı
C) Bilimsel dilde argoya yer verilmediğinin herkesçe bilindiği
D) Topluma saygılı olan insanların konuşma dillerinde argoya rastlanmadığı
E) Konuşma dilinin toplumun yaşam düzeyini yansıtan bir ayna olduğu

18. (I) Oturma odasındaki çiçekler, öbür odalardaki çiçeklere göre daha canlı ve büyüktür. (II) Çünkü oturma odasında genellikle canlı bir hava vardır. (III) İnsanlar, oradaki çiçeklerle beraber olurlar, onlarla sık sık ilgilenirler. (IV) Öbür odalardaki çiçeklerle ise boş zamanlarda ilgilenilir. (V) Bu da çiçeklerin farklı gelişmelerine neden olur. (VI) Evdeki kavgalar, gürültülü ortam, çiçekleri etkiler. (VII) Çünkü çiçekler gürültüden hoşlanmaz.

Parça iki paragrafa bölünmek istense ikinci paragraf hangi cümleyle başlar?

A) VII. B) VI. C) V. D) IV. E) III.

19. (I) Çitalar, büyük kedi olarak bilinen ve çoğunlukla Afrika'da bulunan, az sayıda da İran'da yaşayan bir hayvan türüdür. (II) Kuyrukları hariç kafa ve vücutları ile beraber 1 ile 1,5 m boyunda olan kısa pençeli hayvanlardır. (III) Kürkleri kahverengi ve sarıdır, üzerlerinde siyah noktalar bulunur. (IV) Dişi çitaların hamilelik süreleri 3 ayda sonlanır. (V) Öte yandan çitalar çok hızlı koşmalarıyla bilinirler.

Parçada numaralanmış cümlelerden hangisi anlatımın akışını bozmaktadır?

A) I. B) II. C) III. D) IV. E) V.

20. ---- İnsanlar yemek için yiyeceğe, nefes almak için oksijene ihtiyaç duyar. Üşüdüklerinde ısıya, giyeceğe, yaşamak için barınağa ihtiyaç duyar. Çevre, tüm bu ihtiyaçlara cevap verir. İnsanlar yiyecek için tarla ve denizleri kullanır. Nefes almak için oksijen barındıran atmosferi kullanır. Enerji için petrolü, ormanları ve güneşi kullanır.

Bu parçada boş bırakılan yere aşağıdakilerden hangisi getirilebilir?

A) Yüzyıllardır doğa, herkese yiyecek ve barınak sağlıyor.
B) Batı dünyası tarım ülkesinden sanayi ülkesine dönüşmüştür.
C) Kirlilik, doğanın dengesini bozmaktadır.
D) İnsanoğlu hayatta kalmak için yiyeceğe, suya ve havaya ihtiyaç duyar.
E) Endüstri, çevreyi çarçabuk değiştirir.

MURAT YAYINLARI

/muratyayincilik

Açıklamalar • TEST 10

1. **D** A ve E seçeneğini "Ama yaşama sevincim çoktan sönüp gitti." cümlesinden, B seçeneğini "Coşkun, neşeli olabildiğim günleri uzak bir hayal gibi hatırlıyorum." cümlesinden, D seçeneğini de son cümleden buluruz.

2. **B** Parçada şairlerin şiirlerini yazarken akıl ögelerini geri plana atarak sadece duygularıyla hareket etmesi anlatılmış ve bununla ilgili öznel ifadelerde bulunulmuştur.

3. **E** Metnin son cümlesindeki "...söz ve hareketin sağladığı canlı, güçlü bileşime ..." sözünden E seçeneğine ulaşırız.

4. **C** Parçanın son cümlesindeki ifadeden vurgulanmak istenen ifadeyi buluruz. Yani bu cümleden şiirin illaki anlamlı olması gibi bir zorunluluğunun olmadığını anlamlı ve anlamsız da olabileceği anlatılmıştır.

5. **C** Parçada Türklerin dünya sahnesine çıkmasından bu yana sürekli olarak bir sıkıntı yaşadığı, tarihin herhangi bir döneminde hep sorunlarla uğraştığı anlatılmış ve bunlar örneklerle desteklenmiştir.

6. **B** Karl Farkas bu sözünde evlilikle birlikte insanın daha önce karşısına çıkmayan sorunlarla karşılaşacağı ve evlendiği insanla, bu sorunları çözmeye çalışacağını vurgulamak istemiştir.

7. **E** Görsel sanatın edebiyatın önüne geçmesinden yakınmaktadır, yazar.

8. **C** Parçaya yönelik yöneltilecek soruya verilen cevabı içerdiğinden cevap C'dir.

9. **D** Çağdaş edebiyatın başlangıç noktasının üniversite olduğu yargısına ulaşamayız.

10. **D** Parçada Sartre'ın sözüyle konuşmanın ne olursa olsun bazı şeyleri değiştirdiği ve bu değişimin kaçınılmaz olduğu anlatılmaktadır.

11. **D** Parçada ulaşılamayan düşünce, başka bir yapıtla kıyaslanamayacağıdır.

12. **E** Parçaya göre hiçbir zaman tükenmeyen biri olmanın asıl yolunun, öğrenme ve gelişmeyi yaşam biçimi haline getirmekten geçtiği anlatılmaktadır.

13. **A** Parçaya göre çıkarılamayan yargı Uyumkent'in Anadolu'nun dışında kurulmasının bir anlamının olmadığıdır.

14. **B** Parçanın anlam bütünlüğünü sağlayan **"Sanat yaşamı, kır koşusu gibidir."** yargısı giriş cümlesidir.

15. **D** Parçadan çıkan en kapsamlı yargının okumanın insanları basit tutkulardan uzaklaştıracağı görüşüdür.

16. **C** III. ve IV. cümle arasında neden-sonuç ilişkisi yoktur.

17. **E** Parçaya göre söylenebilen, toplum dilinin toplumun yaşam düzeyini yansıtan bir ayna olduğudur.

18. **B** Paragrafta anlatılanları eşleştirerek ikinci paragrafı VI. cümleye bağlıyoruz.

19. **D** IV. cümlede çitaların hamilelik sürecinden söz edilmiştir.

20. **A** Paragrafın giriş cümlesi A'dır. Çünkü anlatılanlar bu cümleyi destekler, açıklar niteliktedir.

MURAT YAYINLARI

Paragraf - IV • TEST 11

1. Başarı ile başarısızlık ayrı ayrı yaşar gibi görünür ama çoğu kez iç içe geçmiştir. Gülmenin en ileri noktasında gözümüzden yaş gelmesi, ağlamanın en ileri noktasında gülme krizine girmemiz gibi, başarısızlığın dibinde başarı, başarının tepesinde başarısızlıkla karşılaşabiliriz.

Parçanın bütünü göz önüne alındığında aşağıdakilerden hangisine ulaşılabilir?

A) Başarı her zaman başarısızlıkla yan yana yürür.
B) Başarısızlığın dibinde mutlaka başarı vardır.
C) Başarı ve başarısızlık kişiye göre değişen kavramlardır.
D) Başarının tepesinde kalmak kolay değildir.
E) Başarı ancak çok çalışmakla gelir.

2. Doğanın öz kızı olduğundan ve tüm duyuların en asilini kullandığından, resmin temel sanatlar dışında tutulduğu için şikâyet etmeye elbette hakkı vardır. Ey yazarlar, onu temel sanatlara dâhil etmemek bir hataydı çünkü sadece doğanın işleriyle uğraşmakla kalmaz, doğanın asla yaratmadığı sonsuz sayıda şeye de uzanır. Yazarlar resim yapmanın ilmi hakkında hiçbir bilgiye sahip olmadıklarından ona hak ettiği yeri veya payı veremediler; üstelik resim, başarılarını kelimelerle ifade etmez; bu yüzden, cehalet nedeniyle diğer sanatların altında sınıflandırılmıştır ancak bu yüzden ilahi niteliğini kaybedecek değildir.

Bu parçanın yazarı hakkında aşağıdakilerden hangisi <u>söylenemez</u>?

A) Resmi temel sanatlardan ayrı tutmanın bir hata olduğunu düşünmektedir.
B) Resme gerekli önemin verilmediğini savunmaktadır.
C) Yazarların resim sanatı hakkında yeterli bilgiye sahip olmamalarını eleştirmektedir.
D) Resmin hak ettiği önemi görmemesinin cahil toplumlardan kaynaklandığını düşünmektedir.
E) Resim sanatının geleceği ile ilgili endişeleri vardır.

3. İşin stresi ve yoğunluğu nedeniyle düzenli beslenemiyorsunuz. Vakit bulup da spor yapamıyorsunuz. Spor şöyle dursun, yürüyüşe bile çıkamıyorsunuz. Ama "Bari birkaç saat fazla uyuyayım da zinde olayım..." diyorsunuz. İşte orada durun. Çünkü Amerika'da bilim adamlarının yaptığı araştırma, bir gerçeği ortaya çıkardı. Gece uykusunu kısa tutanlar daha çok yaşıyor. California Üniversitesi bilim adamları tarafından yapılan bu uyku araştırması, yaşları 30 ile 102 arasında değişen 1 milyon 100 bin kişi arasında yapıldı. Araştırmaya göre gece 8 saat uyuyan kişilerin ömrü, 7 saat uyuyanlara göre 6 yıl içinde yüzde 12 oranında azalıyor.

Bu parçada aşağıdakilerden hangisine <u>değinilmemiştir</u>?

A) İnsanların düzgün beslenemediğine
B) İnsanların her zaman spor yapamadığına
C) Gece uykusunu kısa tutanların daha çok yaşadığına
D) 8 saat uyuyan kişilerin 7 saat uyuyan kişilere göre ömürlerinin daha az olduğuna
E) Araştırmanın büyük bir başarı sağladığına

4. İnsanlar basit ve üstün olarak ikiye ayrılırlar. Basit olanlar, yalnızca insan cinsini üretmeye yarayanlardır; diğerleri de yeni bir şey söyleyebilmek isteğiyle doğmuş, üstün insanlardır. Toplum muhafazakârlık görevini yerine getirmek için çok kez bu insanları asıp kesiyor ya da her türlü hareket imkânından mahrum ediyor. Ama yine aynı toplum, bir nesil sonra bu astığı insanların anıtını dikip onlara tapıyor. İlk bölüm şimdinin adamıyken ikinci bölüm hep geleceğin adamıdır. Birinciler dünyayı korur ve nüfusu çoğaltırlar. İkincilerse onu hareket ettirir ve asıl amacına doğru yürütürler.

Bu parçaya göre aşağıdakilerden hangisine <u>varılamaz</u>?

A) Basit ve üstün olarak iki tip insan olduğuna
B) Üstün insanların dünyayı koruduğuna
C) Üstün insanların çok kez harcanıp yok olduğuna
D) Nüfusu arttırma misyonunun basit insanlarda olduğuna
E) Üstün insanların dünyayı asıl amacına ulaştırdığına

MURAT YAYINLARI

/muratyayincilik

5. Benim şiirim, uzun beklemelerin sonucudur. Bir şeylerin ortaya çıkması için boğazıma sarılacağı anı kollarım hep. Bu, çoğu zaman hemen ortaya çıkmaz. Beni günlerce, haftalarca tetikte tutar. Beynimden, kalbimden kalemime geleni kâğıda geçirdikten sonra bile bekletirim onu.

Bu parça, aşağıdaki sorulardan hangisine yanıt olarak verilmiştir?

A) Yazma gücünüzü, hangi kaynaklardan besliyorsunuz?
B) Şiirlerinizi yaratırken nasıl bir yol izlemektesiniz?
C) Şiir yazma serüveniniz ne zaman başladı?
D) Şiiri, günün hangi saatlerinde yazarsınız?
E) Sizce şiir yazmak, diğer türleri yazmaktan daha mı zordur?

6. Sözcüklerin güzelini, çirkinini değil de yerine cuk diye oturanlarını sevdiğimden ve şiirle argonun ortak paydaları olduğuna inandığımdan argoyu şiirlerime buyur ediyorum. Herkesi, terbiyeli masal kahramanları gibi konuşturmaya çalışan bir edebiyat ikiyüzlülüktür inancındayım. Çünkü ----

Bu parça, düşüncenin akışına göre aşağıdakilerden hangisiyle sürdürülebilir?

A) ozan olarak sorumluluklarımın farkındayım.
B) sanatçı dilde ortak kullanımın dışına çıkmak zorundadır.
C) şairin görevlerinden biri de dile çomak sokmak, onu nasırlı yerlerinden deşmektir.
D) şiirde arı bir dilin olması, onun sevilip benimsenmesini sağlar.
E) şiir yazarken okurun eğitim düzeyini önemseyen bir şairim.

7. --- Çeşitli bilim dalları yüzyıllardır bilinmekte, yeni buluşlarla güçlenip zenginleşmektedir. Ama bunların hiçbiri tek başına insanı eğitip geliştirmek için yeterli değildir. Eğitimde hedef, her yönüyle insana eğilmek, onu tanımak, yönlendirmek ve onun güzelliklerini ortaya çıkarmak olmalıdır.

Bu parçanın giriş cümlesi aşağıdakilerden hangisi olmalıdır?

A) Eğitim, yalnızca bilgi aktarmak değildir.
B) Bilim insanlarının üstlendiği çeşitli görevler vardır.
C) İnsanı eğitmek, ona yeterince bilgi aktarmakla mümkündür.
D) Bilgi, kitaplar aracılığıyla günümüze kadar ulaştırılmıştır.
E) Bilgili insan, kendi kendine yetebilecek güçtedir.

8. Birkaç gündür, anı defteri tutma konusunda hele bir düşüneyim diye bir şeycikler yazmadım. Benim gibi birinin böyle bir işe kalkışması tuhaf kaçıyor da... İlk kez anı defteri tuttuğum için değil, on beş yaşında bir kızın saçmalamalarına kimse aldırmaz diye. Hani ben de o kadar hevesli değilim. Olsun ama! Ne diye yazmayayım değil mi? Canım yazmak istiyor bir kere, üstelik içimde gömülü olan bir sürü şeyi gün ışığına çıkarmak tek arzum.

Bu parçada sözü edilen yazar aşağıdakilerden hangisiyle nitelendirilemez?

A) Bilgiçlik taslayan
B) Ne istediğinin farkında olan
C) Yazma isteğiyle dolu olan
D) Duygularını paylaşmak isteyen
E) Öz eleştiri yapan, açık sözlü

MURAT YAYINLARI

9. Eleştirmenler, aynı dönemde yaşadığı sanatçıların yapıtlarına yönelik kesin yargılardan kaçınmalıdır. Çünkü bilgisine ve beğenisine güvendiğimiz nice eleştirmenin, bir yazarla aralarında geçen çekişmeden sonra onun yapıtları üzerindeki görüşlerinden yüz seksen derecelik dönüşler yaptığına çok tanık olmuşuzdur. Ama aynı eleştirmen, geçmiş yüzyılların yazarlarına karşı daha tarafsız ve kararlı davranır. Çünkü onlarla, sanat dışı hesapları ve uzlaşmazlıkları yoktur.

Bu parçaya göre eleştirmenle ilgili olarak aşağıdakilerin hangisi söylenemez?

A) Kimi sanatçılarla kişisel sürtüşmelere girebildiği
B) Eleştirilerini bir bütün olarak ele almadan haklarında karar verilemediği
C) Çağdaş oldukları sanatçıları nesnel bir sözle değerlendiremediği
D) Aynı çağda yaşadıkları sanatçılara ilişkin düşünceleri değiştirebildiği
E) Kendilerinden önce yaşamış sanatçıları, tarafsızca değerlendirebildikleri

10. (I) Murathan Mungan'ın yeni tiyatro kitabı "Kâğıt Taş Kumaş" meraklısıyla buluştu. (II) Üç ayrı oyundan ya da üç bölümlü bir oyundan oluşan bir kitap. (III) Birinci oyun, sayfadaki gibi, yazı ve kâğıt ilişkisini anlatıyor. (IV) Yazar, kendi oyunlarının nasıl oynanması gerektiği üzerinde hem çok fazla ipucu veriyor hem de öteki oyunlarında olduğu gibi büyük bir özgürlük alanı açıyor. (V) Üçlemenin sonuncusu "Hazır Giyim" ise giysi tarihinin içine girip kumaş ve giysi üzerinden bütün hazır giyimlere, hazır hayatlara ait alışılmadık bir dünya kuruyor bize.

Bu parçadaki numaralanmış cümlelerden hangisi düşüncenin akışını bozmaktadır?

A) I. B) II. C) III. D) IV. E) V

11. Her şiirden sonra sana yüz sopa deseler varım. İki parmak ve bir gözüm kalıncaya kadar her şeyimi vermeye hazırım şiir için. İki parmak, kalemi tutmaya, bir göz okuyup yazmaya... Şiir zor bir iş. Sevgisiz olmaz. Sahtekârlığı, aldatmayı kabullenmez şiir.

Bu parçada sanatçı, kendisiyle ilgili olarak aşağıdakilerden özellikle hangisini vurgulamaktadır?

A) Şiiri bütün yazınsal türlerin üzerinde tuttuğunu
B) Şiir yazma yolunda her sıkıntıya katlanacağını
C) Çok rahat şiir yazan bir şair olmadığını
D) Şiirle birlikte hayatın giderek zorlaştığını
E) Şiirle uğraşmaktan büyük bir zevk aldığını

12. Bizde özgürlük yoktur! Ne özgürlüğü? Her düşünce sahneye çıktığı zaman ıslıklanır, hücuma uğrar, bir rahatsızlık unsurudur. Düşünce var mı ki özgürlük olsun. Gerçekten varsa kendini belli bir gruba kabul ettirir. Düşünce de yaşamak için dövüşmek zorundadır. O, belirli bir grup gerçekten varsa özgürlüğünü pençesiyle fetheder çünkü özgürlük, sınıfların varlıkları, yani gerçek güçleri ölçüsünde vardır.

Bu parçada asıl anlatılmak istenen aşağıdakilerden hangisidir?

A) Özgürlük, düşüncenin filizlendiği her yerde vardır.
B) Özgürlük, kendini belli bir zümreye kabul ettirir.
C) Özgürlüğün olmadığı yerde düşünceden de söz edilemez.
D) Özgürlük düşüncesi, çıktığı ilk anda toplumda hücuma uğrar.
E) Özgürlük, sınıfların gerçek güçleri ölçüsünde vardır.

MURAT YAYINLARI

/muratyayincilik

13. Şair, yoksullar kadar olmasa bile, zenginlerin de yaşantısından ufak kesitler sunuyor. Sözgelimi akşamleyin yorgun argın evine dönen bir işçinin iç dünyasını, veremden ölen bir başkasının serüvenini, meyve bahçesine kimseyi sokmayan cimri Abdullah Bey'in hikâyesini anlatıyor. Ayrıca, yeri geldikçe kendi yaşamından da söz açılıyor. Fakat bunu yaparken hiç de kötümserliğe kapılmıyor.

Bu parçada sözü edilen şairle ilgili olarak aşağıdakilerden hangisi söylenemez?

A) Anlattıklarına gözlemlerini de kattığı
B) Yoksul kesimin sorunlarını öncelikli işlediği
C) Genellikle toplumda yaşanılan olumsuzlukları yansıttığı
D) Anlattıklarına bireysel yaşamı katmadığı
E) İyimserliği hiçbir zaman elden bırakmadığı

15. (I) Akıl ve mantığı seviniz. (II) Eserlerinizin en büyük süs ve kıymetini ondan alınız. (III) Doğadan hiç ayrılmamalı çünkü doğa gerçektir. (IV) Gerçekten başka hiçbir şey güzel ve sevimli değildir. (V) Aklınızla bir seçim yaparak doğayı taklit ediniz ve betimleyiniz.

Numaralanmış cümlelerden hangisinden sonra "Sahte şeyler can sıkıcı ve yorucudur." cümlesi getirilirse düşüncenin akışı bozulmaz?

A) V. B) IV. C) III. D) II. E) I.

MURAT YAYINLARI

14. Bizim gençliğimizde şiir dinleti geceleri yapılırdı, şiir okumak aydın olmanın koşuluydu ama şimdi herkes şiir okuyor ya da okumaya çalışıyor. Durum böyle olunca ne ortaya "gerçek şiir" ne de gerçek okuyucu çıkıyor. Sanki dünyanın en basit işi şiir okumakmış gibi algılanıyor. Bu yüzden sizlere yılların emeğiyle yoğrulmuş, ülkemizin önemli şairlerinden Oğuz Erdem'in bir kitabını öneriyorum. "Yazların Isırdığı Sarı."

Bu parçaya göre aşağıdakilerden hangisine ulaşılamaz?

A) Eskiden şiir dinletilerinin yapıldığına
B) Şiir okuyucusunun günümüzde değiştiğine
C) Şairin yoğun bir anlatımının olduğuna
D) Gerçek şiirin günümüzde olmadığı gibi okuyucusunun da olmadığına
E) Şiir okumanın sıradan bir iş olduğu sanıldığına

16. Bütün bu pasta-pastane şenliği ortasında çocuklar, yeni yetmelik yıllarım ağır ağır geçecek. Pasta kültürü henüz büsbütün sona ermemiş hayatımızda. Bazı günler çay davetleri oluyor. Çeşitli tuzluların yanına ya rulo pasta ya yuvarlak pasta alınıyor. Yuvarlak pastalar, şeker güller, şeker yapraklarla bezenmiş. Kubbeli karton kutulara konuyor, eve getiriliyor. Demek insanların böylesi sakin zamanları varmış, çaya beklenirmiş; çay sofraları kurulurmuş, pastalar çıkarılırmış; gündüzden yollara düşülürmüş.

Bu parçada asıl anlatılmak istenen aşağıdakilerden hangisidir?

A) Pastaların, geçmişte de hayatımızın vazgeçilmezi olduğu
B) Pastanelerden alınan pastaların, ev pastalarına üstünlüğü
C) Eskiden beş çaylarının tadının farklı oluşu
D) Zamanı çok hızlı yaşamaktan duyulan üzüntü
E) Konuklara önceden daha fazla önem verildiği

17. Bugün yapılması gereken bir işi ertesi güne bırakmanın türlü sakıncaları vardır. Yarın daha önemli bir iş çıkabilir ve bugünkü işten önce onun yapılması gerekebilir. Bugünkü iş yine kalır ve yarın çıkacak başka işler bugünküne ekleneceğinden hepsini yapmaya vakit yetmez. Bir de birçok iş vardır ki günü gününe yapılmazsa önemini yitirir, daha sonra yapılması ile yapılmaması arasında fark kalmaz.

Bu parçada asıl anlatılmak istenen aşağıdakilerden hangisidir?

A) İşlerimizi biriktirirsek başarılı sonuçlar alamayız.
B) Her gün, yapılması gereken işlerle doludur.
C) Dünden kalan işin yarına faydası yoktur.
D) İşlerimizi, biriktirmeden yapmamız gerekir.
E) İşleri biriktirmek tembellik göstergesidir.

18. (I) Bir yazar, kullandığı her kelimenin dış âlemde veya insan hayatında neye karşılık geldiğini bilmelidir. (II) Bülbül ile karga ayrı kuş çeşitlerini gösterir. (III) Şefkat, merhamet ve sevgi kelimeleri arasında öyle ince farklar vardır ki sevdiklerimizin bize karşı besledikleri duyguyu sınıflandırırken bu kelimelerden birini veya ötekini kullanmak, bazen hayati bir önem kazanır. (IV) Bu anlamda yazım ve noktalama kuralları da ayrı bir önem taşır. (V) Kelimeleri, kullandığımız söz gruplarına göre de anlamlandırabiliriz.

Bu parçada aktarılan asıl düşünce kaçıncı tümcede kendini göstermektedir?

A) I. B) II. C) III. D) IV. E) V.

19. Genç yönetmen Mahmut Fazıl Coşkun'un ilk uzun metrajlı çalışması olan "Uzak İhtimal" tek bir veriyle açıklanmayacak türden bir yapım. Kuşkusuz ana karakterlerinin orijinalleri itibarıyla, ortada iki büyük dinin yakınlaşması söz konusu. Dolayısıyla bu haliyle tam da her konuda açılım yaşayan Türkiye'nin günceline uygun bir proje.

Bu parçada asıl vurgulanmak istenen aşağıdakilerden hangisidir?

A) Güncelliği yakalayan bir yapıtın başarıyı yakalayabileceği
B) Eserin karakterlerini belirleyen unsurun anlatım olduğu
C) Eserlerin kahramanları, gerçek yaşamda olursa eserin daha çok sevileceği
D) Yazarların bakış açısının eserin kalitesini belirleyen unsur olduğu
E) Dini yaşamın eserlerde konu edilmesi gerektiği

20. Fazıl Say bana göre aydın sorumluluğunu bilinçle taşıyan; ülkesine, halkına, dinleyicisine karşı duyarlı, bir sanatçı. Onun ağır çalışma koşullarına, mesafelere, inanılmaz temposuna rağmen gündemi takip edebilmesine, diğer sanat dallarından da beslenmesine, kültür ve sanat yaşamımızı günü gününe takip edebilmesine hayranlık duyuyorum. Üstelik ben bunun pek azını yapabilirken!

Bu parçada sözü edilen sanatçı için aşağıdakilerden hangisi <u>söylenemez</u>?

A) Her durumda ve koşulda sanatla iç içe bir insan olduğu
B) Tek bir sanat dalıyla ilgilenmeyip gündemi de takip edebilen bir kişi olduğu
C) Sanatçı kişiliğinden ödün vermeyen, bilinçli bir kişi olduğu
D) Çalışma koşullarının ağır oluşunun onu daha da hırslandırdığı
E) Sanatçının bazı yönlerinin takdire değer bulunduğu

MURAT YAYINLARI

/muratyayincilik

Açıklamalar • TEST 11

1. **A** Metnin ilk cümlesinde verilen "iç içe geçmiş" ifadesinden hareketle ve parçanın son kısmındaki ifadeden hareketle seçeneğindeki yargıya ulaşabiliriz.

2. **E** A seçeneğine "...onu temel sanatlara dâhil etmemek bir hataydı ..." sözünden, B seçeneğini "... ona hak ettiği yeri veya payı veremediler ..." sözünden, C seçeneğine "Yazarlar resim yapmanın ilmi hakkında hiçbir bilgiye sahip olmadıklarından ..." sözünden, D seçeneğine "... bu yüzden, cehalet nedeniyle diğer sanatların altında sınıflandırılmıştır ..." sözünden ulaşabiliriz.

3. **E** A ve B seçeneklerine "İşin stresi ve yoğunluğu nedeniyle düzenli beslenemiyorsunuz. Vakit bulup da spor yapamıyorsunuz. Spor şöyle dursun, yürüyüşe bile çıkamıyorsunuz." cümlelerinde, C seçeneğine "Gece uykusunu kısa tutanlar daha çok yaşıyor." cümlesinde, D seçeneğine "Araştırmaya göre gece 8 saat uyuyan kişilerin ömrü, 7 saat uyuyanlara göre 6 yıl içinde yüzde 12 oranında azalıyor." cümlesinde değinilmiştir. Araştırmanın başarısına yönelik herhangi bir bilgi bulunmamaktadır.

4. **B** A seçeneğine "İnsanlar basit ve üstün olarak ikiye ayrılırlar." cümlesinden, C seçeneğine "Toplum muhafazakârlık görevini yerine getirmek için çok kez bu insanları asıp kesiyor ya da her türlü hareket imkânından mahrum ediyor." cümlesinden, D seçeneğine "Basit olanlar, yalnızca insan cinsini üretmeye yarayanlardır." ve "Birinciler dünyayı korur ve nüfusu çoğaltırlar." cümlelerinden, E seçeneğine "İkincilerse onu hareket ettirir ve asıl amacına doğru yürütürler." cümlesinden ulaşırız.

5. **B** Parçada, şairin şiirlerini hangi koşullarda yazdığı anlatılıyor. Bu da şiirlerinizi yaratırken nasıl bir yol izlemektesiniz sorusunun cevabıdır.

6. **C** Parçada, yazar, şiirlerinde kullanacağı sözcükleri seçerken güzel veya çirkin ayrımından ziyade durumu tam anlamıyla ifade eden sözcükleri seçtiğini ve bunu yaparken de argodan da faydalandığını belirtiyor. Parçanın akışına göre: **"Şairin görevlerinden biri de dile çomak sokmak, onu nasırlı yerlerinden deşmektir."** cümlesi getirilmelidir.

7. **A** Parçada, eğitimin sadece bilgi vermek olmadığını, eğitimin amacının insanı her yönden ele alarak insanı tanımak ve insanın güzelliklerini ortaya çıkarmak olduğu anlatılıyor. Bundan dolayı bu parçanın başına: **"Eğitim, yalnızca bilgi aktarmak değildir."** cümlesi getirilmelidir.

8. **A** Parçada, yazarın bilgiçlik tasladığına dair herhangi bir ifade olmadığı için doğru cevap A seçeneğidir.

9. **B** Parçada, eleştirmenle ilgili; kimi sanatçılarla kişisel sürtüşmelere girdiği, çağdaşlarını nesnel değerlendirmediği, aynı çağda yaşadığı sanatçılarla ilgili düşüncelerinin değiştiğine, kendinden önce yaşamış sanatçıları tarafsızca değerlendirebildiğine değinilmiş. Ama eleştirilerini bir bütün olarak ele almadan karar verilmediğine değinilmemiştir.

MURAT YAYINLARI

10. D Parçada I, II, ve III. cümlede Murathan Mungan'ın yeni kitabından ve kitabın bölümlerinden bahsedilmiş. IV. cümlede ise yazarın oyunlarının nasıl oynanması gerektiğinden bahsedilmiş. Bu da düşüncenin akışını bozmaktadır.

11. B Parçada şairin şiir yazarken her türlü sıkıntıya katlanmaya razı olduğu vurgulanmıştır.

12. E Parçada asıl anlatılmak istenen, özgürlüğün varlığı gerçek sınıfların gücüne bağlı olduğudur. Sınıfların varlıkları ne kadar güçlüyse özgürlük de o kadar güçlüdür.

13. D Parçada, şairin yeri geldikçe kendi yaşamını da anlattığı belirtiliyor. Bundan dolayı D seçeneğindeki **"Anlattıklarına bireysel yaşamı katmadığı"** ifadesi şairle ilgili söylenemez.

14. C Parçaya göre şairin yoğun bir anlatımının olduğu sonucuna varılamaz.

15. B IV. cümleden sonra **"Sahte şeyler can sıkıcı ve yorucudur."** cümlesi getirildiğinde düşüncenin akışı bozulmaz.

16. D Parçada **"Demek insanların böylesi sakin zamanları varmış..."** ifadesiyle yazarın zamanını çok hızlı yaşamasından duyulan üzüntü anlatılıyor.

17. C Parçada **"Bir de birçok iş vardır ki günü gününe yapılmazsa önemini yitirir, daha sonra yapılması ile yapılmaması arasında fark kalmaz."** cümlesiyle asıl anlatılmak istenen "Dünden kalan işin yarına faydası yoktur."dur.

18. A Parçada yazarın asıl anlatmak istediği düşünce I. cümlede aktarılmıştır.

19. A Parçada asıl vurgulanmak istenen düşünce, güncelliği yakalayan bir yapıtın başarıyı yakalayabileceğidir.

20. D Parçada, sanatçının her durumda ve koşulda sanatla ilgilendiği, gündemi de takip ettiği, kişiliğinden ödün vermediği, bazı yönlerinin takdir edildiğine değinilmiştir. Ama çalışma koşullarının ağır oluşunun sanatçıyı daha da hırslandırdığından bahsedilmemiştir.

MURAT YAYINLARI

/muratyayincilik

Anlatım Biçimleri • TEST 12

1. Ege dağlarının en yaşlı yörüğü, dorukta tek kalan çadırının önünde karşılıyor bizi. Yörük çadırının tabanı keçe ile kaplı. Keçenin üzeri kök boyalarla süslenmiş, iç cephe kilimlerle kaplanmış, çadırın orta yerindeki ocakta odunlar tütüyor, çay demleniyor.

Bu parçada yazar, aşağıdakilerden hangisinden yararlanmıştır?

A) Benzetmelerden
B) Kişileştirmeden
C) Karşıtlıklardan
D) Görsel ögelerden
E) Dokunma duyusuyla ilgili ayrıntılardan

2. Brecht'in oyunlarında yargı sahneleri sık sık yer alır. Bu yargı sahnelerinin büyük bir bölümü gülünç ya da olağanüstüdür. Brecht, bu tür sahnelerle burjuva toplumunun adalet sistemine duyduğu kuşkuyu dile getirir. Ona göre düzen içinde yozlaşmış bireyler, kararlarında tutarlı olamazlar. "Kuralla Kural Dışı" adlı yapıtta yargıç, düzenin getirdiği koşullar içinde karar verir. "Mahagonny Kentinin Yükselişi" ve "Düşüşü"nde katil beraat ederken parası olmayan kişi ölüm cezasına çarptırılır. O, "Sezuan'ın İyi İnsanı" adlı oyununda da teknolojik düşünce sisteminin yanlışlığını vurgular.

Parçanın anlatım biçimi ve parçadaki düşünceyi geliştirme yolu aşağıdakilerden hangisidir?

A) Tartışma - tanık gösterme
B) Açıklama - örnekleme
C) Tartışma - kanıtlama
D) Öyküleme - karşılaştırma
E) Betimleme - tartışma

3. Anavarza kayalıklarının üstünde kartallar dönüyordu, kanat kanada. Gülhatmiler çiçeklerini güneşe uzatmışlardı, uzaklarda bir bulut bu yana savruluyor, gölgesi bataklık yerini yalayıp Dumlu üstüne kayıp gidiyordu. Gülhatmilerin üstüne arılar; kara, yanar döner arılar; sarıca arılar, bal arıları; boncuklu, mavi arılar konuyor, bal topluyordu.

Bu parçanın anlatımında aşağıdakilerden hangisine başvurulmuştur?

A) Bir varlığın işlevleri ve özellikleri verilerek tanımlama yapılmıştır.
B) Düşüncelerin kanıtlanması yoluna gidilmiştir.
C) Benzer ögeler, ilişki kurularak verilmiştir.
D) Betimlemede, kişileştirmeden yararlanılmıştır.
E) Olaylar zaman, yer, kişi gösterilerek anlatılmıştır.

4. Ben çocukluğumdan beri savaş düşmanıyım, bir barışseverim. Bunu bende büyütüp çiçeklendiren de Birinci Dünya Savaşı'nın içime yerleştirdiği karanlık ve korkunç savaş kompleksi olmuştur. Enver Paşa'nın, Sarıkamış fatihi olmak isterken karlı, tipili Allahuekber Dağları'nı aşırmak istediği yüz bin talihsiz Türk askerinin içinde babam Ahmet Çavuş'la ağabeyim Ali de vardı ve o korkunç tipilerde donup gittiler. Henüz beş yaşında bir çocuk olan benim için savaşın anlamı işte buydu.

Bu parçanın anlatım biçimi aşağıdakilerden hangisidir?

A) Açıklama B) Tartışma
C) Tanık gösterme D) Örnekleme
E) Betimleme

5. Hangi romana bakarsanız bakın, yazarı, istediği kadar "Ben tam bir realistim." desin; romantik duygular ve motifler, ama az ama çok, sizi karşılar. Bu, "Anna Karanina"da da "Goriot Baba"da da böyledir. Bir romanın romantizmden nasibini almaması için, insanın sinirlerinden ve duygulardan arınması gerekir.

Bu parçada başvurulan anlatımda aşağıdakilerin hangilerinden yararlanılmıştır?

A) Öyküleme - tanık gösterme
B) Açıklama - benzetme
C) Tartışma - örnekleme
D) Tartışma - karşılaştırma
E) Betimleme - tanımlama

MURAT YAYINLARI

6. Sekiz kırk beş vapuru iskeleden ayrıldıktan sonra, uzak şimşekler yakınlaşmaya başlamıştı. Anadolu sahili bir ara gözden kayboluverdi. Kanepede, üstüne başına yağmur sıçrayan bir adam, yerinden bir iskeleyi kaçırıyormuş gibi aceleyle kalktı. Projektörcünün yanına doğru ilerledi. Projektörcünün üstünde kolları sarkan eski bir muşamba vardı. Sırtı kamburlaşmıştı. Yanına sokulan adama, başını kaldırıp baktı.

Bu parçada aşağıdaki anlatım biçimlerinden hangileri kullanılmıştır?

A) Açıklama - öyküleme
B) Öyküleme - betimleme
C) Tartışma - betimleme
D) Öyküleme - tartışma
E) Betimleme - açıklama

7. Bir romancı için önemli olan, Türk insan tipini temellendirmek değildir. Romancının gerçek ödevi, insan tipini yaratmak olmalıdır. Homeros da, Tolstoy da, Balzac da, Yunan insanı, Rus insanı, Fransız insanı değil yalnızca insan tiplerini yarattıkları için ölümsüzleşmediler mi? Burada Lukacs'ın bilgelik dolu şu sözlerini anımsıyorum: "Bütün insanlığın simgelenmesi ancak tip yaratmakla olur."

Bu parçada, düşünceyi geliştirme tekniklerinden hangileri bir arada kullanılmıştır?

A) Benzetme - tanımlama
B) Benzetme - karşılaştırma
C) Örnekleme - tanık gösterme
D) Karşılaştırma - sayılama
E) Örnekleme - kişileştirme

8. Akşam; Antalya kıyılarının üstünden aşan şelaleleriyle, denize bir portakal kokusu gibi yayılır. Sararan sularında, neftileşen kıyılarında, kızaran yelkenlerinde bir portakalın ışıltısı görünür. Ay, geceleyin yarı kesik bir portakal gibi turunç bahçelerine damlar.

Bu parçanın anlatımında, aşağıdakilerden hangisi ağır basmaktadır?

A) Tartışma B) Betimleme
C) Karşılaştırma D) Açıklama
E) Örnekleme

9. Kimilerine göre, halk şiirden anlamaz. Şiir, okuyup yazma ile zevkleri incelmiş aydınlar içindir. Doğru! Halk, şiirden anlamaz. Ama bundan halk mı sorumludur? Halk okutulmuş, şiirden anlayacak düzeye getirilmiş midir? "Halkı bilgisizlikten kurtarmak şairin işi midir?" denebilir. Şüphesiz değil. Ama mademki şairin çıkarı halkın onu okumasındadır; öyleyse halkın okutulması işiyle de ilgilenecektir.

Bu parçada başvurulan anlatım yolu, aşağıdakilerden hangisidir?

A) Tartışma B) Açıklama
C) Betimleme D) Karşılaştırma
E) Öyküleme

10. "Kavağın altına..." demişti. "Beni o, yamaçtaki kavağın altına gömün." Kavak, zaten kulübesinin uzağında değildi. Sahile dik inen yamacın üstünde kokulu dağ çilekleriyle böğürtlenlerin sevinçle sarmaş dolaş oldukları yeşilliğin ortasındaydı.

Bu parçanın anlatımında aşağıdakilerin hangisinden yararlanılmamıştır?

A) Görsel ögelerden
B) Koklama duyusundan
C) Dokunma duyusundan
D) Niteleyici sözcüklerden
E) Kişileştirmeden

11. Güneş doğmak üzere, orman henüz uykuda. İnsanı saran derin bir sessizlik hâkim her yere. Tan yerinden gittikçe büyüyen bir ışık demeti fışkırıyor. Gece siyah eteklerini acele acele toplayıp tepelerden vadilere doğru çekiliyor. Ağaçları saran mavimsi bir duman hisli ürpertilerle uçup dağılıyor.

Bu parçayla ilgili olarak aşağıdakilerden hangisi söylenemez?

A) Kişileştirmelere başvurulmuştur.
B) Kimi cümleler devriktir.
C) Niteleyici sözcüklerden yararlanılmıştır.
D) Renk bildiren sıfatlar kullanılmıştır.
E) Tanımlamalara yer verilmiştir.

MURAT YAYINLARI

/muratyayincilik

12. Bir cisme baktığımızda gözümüze trilyonlarca ışık parçacığı ulaşır. Bunlar kimyasal etkileşimler oluşturur ve bunun sonucunda beyne gönderilecek bir elektrik akımı üretilir. Artık görüntünün orijinalinden eser kalmamıştır. Beyne sadece elektrik akımı gider. Bu akım saniyenin milyonda biri gibi çok kısa bir süre içinde görme merkezine ulaşır. Beyin gelen bu akımı değerlendirir ve "görme" dediğimiz olay gerçekleşir.

Bu parçanın okuyucuya yönelen amacı aşağıdakilerden hangisidir?

A) Bilgi verme
B) Olay içinde yaşatma
C) İzlenim kazandırma
D) Kanıları değiştirme
E) Karşıtlıklara dikkat çekme

13. Bir padişah, oğlunu bir bilgine vererek dedi ki: "Bu senin oğlundur, kendi çocuklarından biri gibi onu yetiştir." Bilgin kabul etti, birkaç yıl onu eğitmek için uğraştı ancak çocuk beklendiği gibi iyi bir noktaya ulaşmadı. Bilginin çocukları ise bilgi ve söz biliminde son derece iyi bir noktaya eriştiler. Bunun üzerine padişah bilgini yanına çağırdı ve sorguladı. "Sözünde durmadın." diye azarladı. Bilgin cevap verdi: "Gümüş ve altın taştan elde edilse de her taşlıkta altın ve gümüş bulunmaz."

Bu parçanın anlatımında aşağıdakilerin hangisinden yararlanılmıştır?

A) Öyküleme
B) Örnekleme
C) Tartışma
D) Betimleme
E) Açıklama

14. Duygulara daha çok güvenmek tehlikeli ve yanlışmış. Bence öyle değil. Çünkü insan karar verirken ve yaşarken duygu ve mantık olmak üzere iki temel dayanaktan faydalanır. Bunlardan birini hiç kullanmamak elbette yanlış olur ama birine daha çok başvurmak neden yanlış olsun ki? İnsan bu iki hazineye de sahipse neden ikisini de kullanmasın? Kimileri daha ileri giderek sadece mantığı kullanmayı savunuyorlar. Böyle düşünenleri anlamak mümkün değil. Çünkü böyle düşünmek "Cebimde hem bozuk para var hem de kâğıt para ama ben sadece kâğıt paraları harcayacağım." demek gibidir, bu hiç kabul edilir değildir.

Bu parçanın anlatımında ağır basan anlatım biçimi aşağıdakilerden hangisidir?

A) Karşılaştırma
B) Tanık gösterme
C) Örnekleme
D) Öyküleme
E) Tartışma

15. Bu eski evden hatırladığım şeylerden biri, arka odanın her zaman keskin bir naftalin kokusuyla dolu olmasıdır. Bir de dalları inci gibi dutlarla dolu dut ağacını anımsıyorum. Yerlere düşen dutlara bastığımda çıkan o yumuşak sesi, onları yemekten daha çok severdim. Duvarlarında hâlâ kuş yuvaları olan bu evi ne kadar sevdiğimi bugün, o parke taşlı sokaktan geçerken anladım. Hâlâ çocuktum, o parkelerde misketini arayan pasaklı çocuktum.

Bu parçanın anlatımında aşağıdakilerin hangilerinden yararlanılmıştır?

A) Öyküleme - açıklama
B) Betimleme - öyküleme
C) Tartışma - betimleme
D) Açıklama - tartışma
E) Karşılaştırma - açıklama

16. Tarihin mimarları, topraklarına sadık askerlerden kurulu ordulardır. Devletler ve devletlerin orduları dünya tarihini değiştiren sosyal oluşumlardır. Devletler; ekonomileri, teknolojileri ve ordularıyla başka milletleri alt ederler ve tarihin nehrini tersine çevirebilirler. Türklerin Anadolu'da kurduğu Selçuklu Devleti, Osmanlı İmparatorluğu ve Türkiye Cumhuriyeti; dört kıtanın tarihini de değiştirmiştir.

Bu parçanın anlatımında aşağıdakilerden hangileri ağır basmaktadır?

A) Tartışma - açıklama
B) Açıklama - örnekleme
C) Karşılaştırma - tartışma
D) Öyküleme - ilişki kurma
E) Açıklama - betimleme

MURAT YAYINLARI

17. Kitaba harcadığımız parayı, yaptığımız gereksiz harcamalarla kıyasladığımızda, yerin dibine girmemiz gerekmez mi? Kendini yığın haline getiren bir millet uzun süre yaşayamaz, mutlu olamaz. Bu düşünceyi küçümsüyoruz. Kitap sevene, kitap delisi diyoruz. Kimseye kıyafet delisi, şu delisi, bu delisi dediğimiz yok. Kitap yüzünden sefalete düşen görülmemiş. Oysa gereksiz pek çok harcama yüzünden iflas eden edene. Bir tiryakinin sigaraya verdiği para kitaba verdiği paranın kaç katı hiç düşündünüz mü? En güzel kitap, alabalık fiyatına. Alan nerede? Sanırım hepimizin bu soruyla yüzleşmesi gerekiyor.

Bu parçanın anlatımında aşağıdakilerden hangisi ağır basmaktadır?

A) Öyküleme B) Açıklama
C) Tanımlama D) Tanık gösterme
E) Tartışma

18. İtalya, yüzyıllar boyunca farklı tabakalardan insanların bir arada yaşadığı bir ülkeydi: Varlıklı, gelişmiş Kuzey ve yoksul, kırsal Güney. Bu iki bölge birbirinden çok farklıydı ve giderek bunların lehçeleri bile ayrıldı. Bir zaman sonra neredeyse birbirlerinin dillerini anlayamaz oldular. 1954 yılında İtalya Ulusal Televizyonu kuruldu ve tüm ülkeye yayına başladı. Birkaç yıl sonra insanların birbirlerinin dilini anlamama gibi bir sorunları kalmadı.

Bu parçanın anlatımıyla ilgili olarak aşağıdakilerden hangisi <u>söylenemez</u>?

A) Karşılaştırma vardır.
B) Nitelendirmelerden yararlanılmıştır.
C) III. kişili bir anlatım söz konusudur.
D) Nesnellik ağır basmaktadır.
E) Koşul belirtilmiştir.

19. Bu yol yazın yaban gülleriyle, güzün fındıklarıyla, böğürtlenleriyle coşuyordu. Şimdi bile güllerin yapraksız tomurcukları mercan gibi ışıldıyordu. Rüzgâr esse bile burada hissedilmezdi çünkü etrafta hışırdayacak tek bir yaprak bile yoktu. Ağaçlarla çalıların çırılçıplak dalları, yolun ortasına döşenmiş olan yıpranmış beyaz taşlar gibi hareketsizdi. Bu keçiyolunun iki yanında göz alabildiğine yalnız, özlemli ve bomboş tarlalar uzanıyordu.

Bu parçanın anlatımında aşağıdakilerin hangilerinden yararlanılmıştır?

A) Açıklama - karşılaştırma - tanımlama
B) Betimleme - benzetme - kişileştirme
C) Öyküleme - kişileştirme - örnekleme
D) Betimleme - tanımlama - karşılaştırma
E) Öyküleme - benzetme - tanık gösterme

20. Her geçen yıl yüzde 20 oranında kayba uğrayan ve denizlerdeki toplam sayısı iki bin olarak tahmin edilen balinaların uzunluğu 1,3 m ile 30 m arasında değişir; ağırlıkları ise 40 kg'dan 150 tona kadar çıkar. Kuyruk kısmında ince olan gövde baş kısmına doğru irileşir. Arkada, ayak benzeri uzantılar yoktur ama iç yapıda incelmiş ve işlevsiz hale gelmiş ayak kalıntılarının izine rastlanır. Yatay biçimdeki kuyruğun aşağı ve yukarı hareketi balinanın hareket etmesini sağlarken, palete benzeyen yassı uzantılar da denge için yardımcı olur. Bunların yanında, balina genel kanının aksine bir "balık" değil, denizde yaşayan bir "memeli"dir.

Bu parçanın anlatımıyla ilgili olarak aşağıdakilerden hangisi <u>söylenemez</u>?

A) İşitsel ögeler kullanılmıştır.
B) Açıklayıcı bir anlatım yolu izlenmiştir.
C) Sayısal verilerden yararlanılmıştır.
D) Betimleyici ögelere yer verilmiştir.
E) Görsel ögelerden yararlanılmıştır.

MURAT YAYINLARI

/muratyayincilik

Açıklamalar • TEST 12

1. **D** Parçanın genelinde görme duyusuna hitap eden ayrıntılara (en yaşlı yörüğü, tabanı keçe ile kaplı, iç cephe kilimlerle kaplanmış) yer verildiği için D seçeneğine ulaşırız.

2. **B** Parçada Brecht'in oyunları hakkında bilgi verildiği için açıklama, bu oyunlara örnek verildiği için örneklemeden yararlanılmıştır.

3. **D** "Gülhatmiler çiçeklerini güneşe uzatmışlardı, uzaklarda bir bulut bu yana savruluyor, gölgesi bataklık yerini yalayıp Dumlu üstüne kayıp gidiyordu." cümlesinde betimleme yapılırken varlıklar kişileştirilmiştir.

4. **B** Parçanın yazarı bir fikri kendince savunmuş, bu konuda bir tez ortaya sunmuştur. Bu sebeple tartışmadan yararlanılmıştır.

5. **C** Parçada bir fikir üzerinde durulduğu için tartışma, bu düşünceyi inandırıcı kılmak için örnek verildiği için örnekleme söz konusudur.

6. **B** Parçada bir olay anlatılmış ve tasvirlerden yararlanılmıştır. Bu sebeple öyküleme ve betimleme yapılmıştır.

7. **C** Yazar, parçanın ilk iki cümlesinde ileri sürdüğü düşünceyi haklı çıkaracak şekilde ürünler vermiş olan üç ünlü ismi örnek veriyor. Ayrıca Lukacs'tan alıntı yapıyor.

8. **B** Parçada renklerden, benzetmelerden yararlanarak sözcüklerle bir tablo çizilmek istenmiş. Bu, betimlemedir.

9. **A** "Tartışmacı üslup"ta yazar, başkalarının düşüncelerini çürütmeye, değiştirmeye; kendi düşüncelerini ise öne çıkarmaya çalışır. Bu parça "Kimilerine göre, halk şiirden anlamaz" diye başlıyor. Belli ki yazar bu görüşe katılmıyor ve karşı düşünceler ileri sürmeye hazırlanıyor. Tartışmacı üslup, ilk cümleden belli. İleriki cümleler de bizi haklı çıkarıyor.

10. **C** Parçada betimleme yapıldığı için görsel ögeler vardır. "Kokulu dağ çileği" kısmı koklamaya örnektir. Parçanın son cümlesinde de kişileştirme yapılmıştır.

11. **E** İlk cümleden A seçeneğine, "İnsanı saran derin bir sessizlik hâkim her yere." cümlesinden B seçeneğine, "Siyah, mavimsi" sözcüklerinden C ve D seçeneklerine ulaşırız.

12. **A** Parçanın genelinde görme olayıyla ilgili açıklama, öğretme amacı söz konusu olduğundan A seçeneğine ulaşırız.

13. **A** Parçada bir olaydan söz edilip hareket unsuru ön plana çıkarıldığı için öyküleme söz konusudur.

14. **E** Parçanın girişindeki "bence" sözü, bu parçada öznel olarak bir fikir üzerinde durulduğunu gösterir. Bu sebeple parçada tartışma anlatım biçimi ağır basar.

15. **B** Parçadaki "zaman keskin bir naftalin kokusu, dutlarla dolu dut ağacı, o parke taşlı sokak" gibi sözler betimleyici unsurlardır. Ayrıca geçmiş zamandaki bir olayın bugün yaşanan bir olayla anımsandığı belirtildiği için öyküleme söz konusudur.

16. **B** Metinde bazı kavramlara hakkında bilgi verilmiş ve bunlar örneklere desteklenmiştir. Buna göre de parçada açıklama ve örnekleme yapılmıştır.

17. **E** Parçada yazar, bir fikir üzerinde durmuş ve bunu savunma yoluna gitmiştir. ayrıca soru cümleleriyle anlatım desteklendiği için parçada tartışma söz konusudur.

18. **E** A ve B seçeneklerine "Varlıklı, gelişmiş Kuzey ve yoksul, kırsal Güney." kısmından, C seçeneğine fiillerin III. kişili yapılmasından, D seçeneğine yorum içermeyen yargılardan ulaşırız.

19. **B** Parçanın ilk iki cümlesinden betimlemeye, "Ağaçlarla çalıların çırılçıplak dalları, yolun ortasına döşenmiş olan yıpranmış beyaz taşlar gibi hareketsizdi." cümlesinden benzetmeye, son cümleden de kişileştirmeye ulaşırız.

20. **A** Balinalar hakkında bilgi verildiğinden açıklama yapılmıştır. "yüzde 20 oranında" sözünde sayısal verilerden yararlanma vardır. "Kuyruk kısmında ince olan gövde baş kısmına doğru irileşir. Arkada, ayak benzeri uzantılar yoktur ama iç yapıda incelmiş ve işlevsiz hale gelmiş ayak kalıntılarının izine rastlanır." cümlesinde betimleme vardır.

MURAT YAYINLARI

Dil Bilgisi - I • TEST 13

1. Bir isim, hem bir isim tamlamasında hem de bir sıfat tamlamasında tamlanan olabilir.

Aşağıdakilerin hangisinde bu açıklamaya örnek olabilecek bir tamlama kullanılmıştır?

A) Portakal bahçelerinin kokusunu özlemle ciğerlerine doldurdu.
B) Yeni elbisesinin rengi çok hoşuma gitti.
C) Rüzgârla savrulan kumlar evlerin içine kadar girdi.
D) Elleri ikide bir ceketinin yeni düğmelerine gidiyordu.
E) Yazlık evin bahçesini yeniden düzenledik.

2. İstanbul'da çok zaman yaşamış, yaşadıkça birçok semtleri sevmiş, sevdikçe onları zamanın derinliğine doğru enine boyuna öğrenmiş bir insan, yaşı ilerledikçe öğrendikleriyle dolar.

Bu cümlenin ögeleri aşağıdakilerin hangisinde sırasıyla verilmiştir?

A) Nesne - zarf tümleci - dolaylı tümleç - yüklem
B) Dolaylı tümleç - zarf tümleci - özne - yüklem
C) Özne - zarf tümleci - zarf tümleci - yüklem
D) Özne - dolaylı tümleç - zarf tümleci - yüklem
E) Nesne - zarf tümleci - zarf tümleci - yüklem

3. **Aşağıdaki cümlelerin hangisinde bağlaç yoktur?**

A) Hesapların ne şekilde düzenleneceğini yalnız o biliyordu.
B) Adamın burada beklemesini istiyordu ancak adam beklemedi.
C) Çocuğun annesi ya da babası okula gelse fena olmayacak.
D) Tuttuğu balıkları balıkçıya temizletti çünkü evde temizleyemezdi.
E) Yaz akşamları, yemekten sonra meyve ve kuruyemiş yenmez mi?

4. **Aşağıdaki cümlelerin hangisinde ek eylem farklı bir görevde kullanılmıştır?**

A) Yasemin, hayatında yeni bir heyecana yelken açmıştı.
B) Bulunduğu yer itibarıyla dikkatli olması gerekiyordu.
C) Onun asıl derdi kimselere görünmeden buradan kaçmakmış.
D) Uçak korkusu yüzünden seyahat edemiyormuş.
E) Şunları da üst üste koyarsan duvarın bir bölümü biter.

5. **Aşağıdakilerin hangisinde, ad tamlamasının tamlayanıyla tamlananı yer değiştirmiştir?**

A) Her bahar göğün kapılarında
Şarkılar okurdu tarla kuşları
B) Ben paltomun yakasını kaldırmış perondaydım
Peronda benden başka da kimseler yoktu
C) Adana'nın pamuğu dokumada
Diyarbakır, Afyon, Kütahya fabrikada
D) Düşenin dostu mu olur
Zafer nerede biz orada
E) İçini gıcıklardı bütün erkeklerin
Altın bileziklerle dolu bileklerin

6. Hepimizin içinde bir öğretmen yaşar (I), yaşam hep bu öğretmenler başlar (II) ve nerede hasretler ve özlemler (III) sona eriyorsa (IV) orada bir öğretmen vardır (V) mutlak.

Bu parçadaki numaralanmış sözcüklerden hangileri türemiş yapılı eylemdir?

A) I ve II B) I ve III C) II ve III
D) III ve IV E) IV ve V

MURAT YAYINLARI

/muratyayincilik

7. Kükürt sarısı kuşlar, kömür karası sığırcıklar konar ağaçlarıma.

Aşağıdakilerin hangisinde altı çizili söz, bu cümledeki "kükürt sarısı" sözüyle görevce özdeştir?

A) Gözlerinde akşam güneşi kızıllığı var.
B) Kuş sesleri, çığlık çığlık etrafa yayılıyordu.
C) Kadın, ince belli bardaklarla bize çay getirdi.
D) Sabahtan akşama dek, bir okul kaçkınıyla dolaştım.
E) Bizi, kül rengi bir arabayla götürdüler.

8. **Aşağıdakilerin hangisinde hem niteleme hem belirtme sıfatı kullanılmıştır?**

A) Her varlık, kendi karşıtını içinde taşıdığı için gelişebilmektedir.
B) Bu sözler bilim ile sanat arasındaki benzerliği vurguluyor.
C) Gerçek sanatçıya, şu konuları işlemelisin, diyemezsiniz.
D) Sanatçılar, sanatın belli niteliklerinin dışına taşamazlar.
E) Günlük, yaşamımızın sıradan sözleriyle avunduk hep.

9. Yıllarca süren (I) etkili (II) bir çalışmanın (III) sonunda (IV) bu yapıt okurlarla (V) buluştu.

Bu cümledeki numaralanmış sözcüklerle ilgili olarak aşağıdakilerden hangisi yanlıştır?

A) I. sözcük, fiilden türeyip sıfat olmuştur.
B) II. sözcük, türerken ünsüz benzeşmesine uğramıştır.
C) III. sözcük, fiil köklüdür.
D) IV. sözcük, hem yapım hem çekim eki almıştır.
E) V. sözcük, türemiş yapılıdır.

10. **Aşağıdaki cümlelerin hangisinde belirteç yoktur?**

A) Uyumak, şimdi; uyanmak yüzyıl sonra, sevgilim!
B) Dünyaya erken gelmişim diye kahretmedim hiçbir zaman.
C) Birdenbire açılan güneşle başlamıştı sabah.
D) İçeri giren güneş vuruyordu, bir kadının saçlarına.
E) Çocukluğunun resimli kitapları ve güneşli bahçesi kalmadı.

11. Bir bıçak saplı durur göğsünde,
Hangi su tasına uzansan boş

Bu dizelerdeki ad tamlamasının benzeri, aşağıdakilerin hangisinde vardır?

A) Dilimin ucunda bir eski arkadaşın adı
Unutulmuş şekilleri taşıyan bulutlar
B) İnsan yanınca Kerem misali yanmalı
Uykudan bile mahşer gününde uyanmalı
C) Konsa rüya dolu köşkümün
Çiçekli damına serçeler
D) Sılanın ufak tefek taşları
Ağrıdan sızıdan tutmaz elleri
E) Umut, demir kapının ardında
Karlı dallarda sallanan bir yaprak

12. **Aşağıdaki cümlelerin hangisinde edat (ilgeç) kullanılmamıştır?**

A) Sabaha karşı gelen yola çıkmaya karar vermişlerdi.
B) Bana avuç içi kadar pasta ayırsanız yeter.
C) Bundan başka sorunuz yoksa toplantıyı bitirelim.
D) Düne dek yüzümüz bakmayan o değil miydi?
E) Şiirle öykü onun vazgeçilmezleri arasındaydı.

13. **Aşağıdaki cümlelerdeki birleşik eylemlerden hangisinin kuruluşu diğerlerinden farklıdır?**

A) Uras, elindeki oyuncağı balkondan atıverdi.
B) Isırma huyu olmadığından köpeği sevebilirsiniz.
C) Bu dolabı tek başıma beşinci kata çıkaramam.
D) Çok sevdiği kedisi dün akşam bahçede kaybolmuştu.
E) Perondan ayrılan trenin ardından bakakaldı.

14. **Aşağıdakilerin hangisinde soru anlamı sıfatla sağlanmıştır?**

A) Bu dolabı odanın köşesine nasıl yerleştireceksin?
B) Hangi kazağı beğendiğimi biliyor musun?
C) Bu kitabı okumanı sana kim söyledi?
D) Kazaya sebep olan hangi araçtı?
E) Üç günden beri bu soruyla mı uğraşıyorsun?

MURAT YAYINLARI

15. Kıl çadırlardan uyandırılan çocuklar ve kadınlar, bohçası çözülmemiş bir keder gibi düştüler yola.

Aşağıdakilerin hangisinde, ögelerin sıralanışı bu cümledekiyle aynıdır?

A) Bir yangın gibi taşıyıp durduk kederi ve acıyı göğsümüzde.
B) Yalnız bir öfke ışıltısı kaldı gözlerimizin yorgun sularında.
C) Gülüşünde eski acılar taşıyan ihtiyarların ağıtlarıydı bu.
D) Yükün altında iki büklüm olmuş kadınlar, yavaşça oturdular kaldırımın kenarına.
E) Kısa pantolonlu birkaç çocuk, ellerindeki elma şekerlerini yiyerek yürüyordu.

16. Korkuları gittikçe artıyordu. Çözüm diye akıllarına gelen her olasılığı gözden geçiriyorlar ama sonuçta bunlardan hiçbirini tutarlı görmeyerek vazgeçiyorlardı. Bu çaresizliğin sürmesi, gerginliklerini daha da artırıyordu.

Bu parçayla ilgili aşağıdaki bilgilerden hangisi yanlıştır?

A) Birden çok zarf - fiil kullanılmıştır.
B) Üç eylemsi türüne de örnek vardır.
C) "Gelen" sözcüğü adlaşmış sıfat - fiildir.
D) Bir isim - fiil, isim tamlamasının tamlananı durumundadır.
E) Olumsuz anlamda zarf - fiil vardır.

17. "Yıllardır birbirinden haber alamayan iki eski dost, tanıştıkları yerde yeniden karşılaştılar." **cümlesinde görülen özne - yüklem ilişkisi aşağıdakilerin hangisinde yoktur?**

A) Silah seslerini duyanlar, can havliyle dört bir yana kaçıştılar.
B) Ağanın adamları, Zeyno ile Kamil'e Karadağ'da yetiştiler.
C) Kuşlar, baharın gelişini kutlarcasına bütün gün ötüştüler.
D) Sinemanın kapısında buluşmak üzere sözleştiler.
E) Birer çadır alabilmek için yağmurun altında saatlerce bekleştiler.

18. **Aşağıdaki cümlelerin hangisinde yüklem çekimli bir eylemdir?**

A) Sevgiyi en iyi anlatan, şairin o eşsiz dizeleriydi.
B) Tecrübe, yaşadıklarımızın toplamı olan bir olgudur.
C) O, daha çocuk yaştayken metafizik konulara kafa yorardı.
D) Toplantı salonuna gittiğimde vakit çok erkendi.
E) Fotoğraf çekmek için gittiğim yer, dağın yamacındaydı.

19. **Aşağıdaki cümlelerin hangisinde eylemin gerçekleştirilme şekli belirtilmiştir?**

A) Genç, bayramlarda onu ziyarete giderdi.
B) Yarın sabah onunla buluşacağını söyledi.
C) Çok geç kaldın, gitmek zorunda kaldım.
D) Kitaplarımı dikkatlice dolabıma yerleştirdim.
E) Daha önceleri onlardan hiç yardım almazdık.

20. Bir sıfat tamlamasında adla sıfatın yeri değiştirilip isme iyelik eki getirilerek başka bir adın sıfatı yapılır.

Aşağıdaki cümlelerin hangisinde bu açıklamaya uygun bir sıfat kullanılmıştır?

A) Çalışkan olmasa bile alnı açık bir insandı.
B) Soğuk günlerde de üstü açık yatardı.
C) Zor günlerde herkese kapısını açan yardımsever biriydi.
D) Yedi katlı apartmanın üçüncü katındaydı evleri.
E) Vurdumduymaz tavırları yüzünden bu işte de tutunamadı.

MURAT YAYINLARI

/muratyayincilik

Açıklamalar • TEST 13

1. D Soru kökünde bizden istenen tamlayanıyla tamlananı arasına sıfat girmiş ad tamlamasını bulmaktır. Böylelikle isim, hem isim tamlamasının hem de sıfat tamlamasının tamlananı olmuş olur. "ceketinin yeni düğmelerine" tamlamasındaki "düğmelerine" sözü hem isim tamlamasının hem de sıfat tamlamasının tamlananı olmuştur.

2. C İstanbul'da çok zaman yaşamış, yaşadıkça birçok semtleri sevmiş, sevdikçe onları zamanın derinliğine doğru enine boyuna öğrenmiş bir insan, / yaşı ilerledikçe
özne zarf tümleci
öğrendikleriyle / dolar.
zarf tümleci yüklem

3. A B seçeneğinde "ancak" sözcüğü, C seçeneğinde "ya da " sözcüğü, D seçeneğinde "çünkü" sözcüğü, E seçeneğinde "ve" sözcüğü bağlaçtır.

4. C Ek eylem ya ismi yüklem yapar ya da basit zamanlı eylemleri birleşik zamanlı yapar. Yani ya isme ya da fiile gelir. A, B, D, E seçeneklerinde fiile gelerek birleşik zamanlı yapmış; C seçeneğindeyse ismi yüklem yapmıştır.

5. E "İçini gıcıklardı bütün erkeklerin" dizesinde "erkeklerin" sözcüğü tamlayan, "içini" sözcüğü tamlanandır ve yer değiştirmiştir.

6. C başlar → baş - la - r
isim yapım kip
kök eki eki

özlemler → özle - m - ler
fiil yapım çoğul
kök eki eki

7. E "Kükürt sarısı" sözü belirtisiz ad tamlamasıdır ve niteleme sıfatı olarak kullanılmıştır. E seçeneğindeki cümlede "kül rengi" sözü de belirtisiz ad tamlamasıdır ve niteleme sıfatı olarak kullanılmıştır.

8. C "Gerçek sanatçıya, şu konuları işlemelisin, diyemezsiniz." cümlesinde; "gerçek" sözcüğü niteleme, "şu" sözcüğü belirtme sıfatıdır.

9. D sonunda → son - u - n - da
isim iyelik KH hâl
kök eki eki

10. E A seçeneğinde "şimdi" sözcüğü, B seçeneğinde "hiçbir zaman" sözü, C seçeneğinde "birdenbire" sözcüğü, D seçeneğinde "içeri" sözcüğü zarf görevindedir.

11. B "Su tasına" sözü belirtisiz ad tamlamasıdır. B seçeneğindeki "mahşer günü" sözü de belirtisiz ad tamlamasıdır.

MURAT YAYINLARI

12. **E** A seçeneğinde "-e karşı" sözü, B seçeneğinde "kadar" sözcüğü, C seçeneğinde "-dan başka" sözü, D seçeneğinde "dek" sözcüğü edat göreviyle kullanılmıştır.

13. **D** "atıverdi, sevebilirsiniz, çıkaramam, bakakaldı" sözcükleri kurallı birleşik eylemdir. D seçeneğindeki "kaybolmuştu" sözcüğü yardımcı eylemle yapılan birleşik eylemdir.

14. **D** Soru anlamı A seçeneğinde soru zarfıyla, B seçeneğinde soru sıfatıyla, C seçeneğinde soru zamiriyle, D seçeneğinde soru sıfatıyla, E seçeneğinde soru ekiyle sağlanmıştır.

15. **E** Kıl çadırlardan uyandırılan çocuklar ve kadınlar, bohçası çözülmemiş bir keder gibi
özne zarf tümleci
düştüler yola.

Kısa pantolonlu birkaç çocuk, ellerindeki elma
özne
şekerlerini yiyerek yürüyordu.
zarf tümleci yüklem

16. **C** "gittikçe, görmeyerek" sözcükleri zarf-fiildir. "Gelen" sözcüğü sıfat-fiil, "sürmesi" sözcüğü isim-fiildir. "Gelen" sözcüğü sıfat göreviyle kullanılmıştır. "Sürmesi" sözcüğü tamlanan göreviyle kullanılmıştır. "Görmeyerek" sözcüğü olumsuz anlamda bir zarf-fiildir.

17. **B** Soru kökündeki cümlede eylem, özne -yüklem ilişkisi yönünden işteştir. A, C, D, E seçeneklerindeki cümlelerin eylemleri de işteş özellik gösterir. B seçeneğindeki eylemde böyle bir özellik yoktur.

18. **C** "O, daha çocuk yaştayken metafizik konulara kafa yorardı." cümlesinde yüklem olarak kullanılan "kafa yorardı" deyimi çekimli bir eylemdir çünkü kip ve kişi eki almıştır. Diğer cümlelerin yüklemleri isimdir.

19. **D** Soru kökünde bizden istenen durum zarfını bulmamızdır. Bunun için de eyleme "Nasıl?" sorusunu sormamız yeterlidir. D seçeneğinde yüklem olarak kullanılan "yerleştirdim" sözcüğüne bu soruyu sorduğumuzda "dikkatlice" cevabını alırız ki bu da eylemin gerçekleştirilme şeklini bize verir.

20. **A** Öncül bilgide anlatılan sıfat kurallı birleşik sıfattır. "alnı açık bir insandı" sözünde "açık alın" şeklindeki sıfat tamlamasında adla sıfatın yeri değiştirilip isme iyelik eki getirilmiş ve başka bir adın sıfatı yapılmıştır.

MURAT YAYINLARI

/muratyayincilik

Dil Bilgisi - II • TEST 14

1. **Aşağıdaki cümlelerin hangisinde sıfat tamlaması, belirtisiz nesne göreviyle kullanılmıştır?**

A) Petrol varil fiyatları gün geçtikçe düşüyor.
B) Usta müzisyen, dinleyicilerine müthiş dakikalar yaşattı.
C) Yediden yetmişe herkes büyük bir coşkuyla fener alayını izliyordu.
D) Evden ayrılırken sadece masadaki saat gözüme çarptı.
E) Can güvenliğiniz için sarı çizgiyi geçmeyiniz.

2. Osmanlılarda zanaatkârlar kendi aralarında dayanışmayı sağlamak için lonca örgütleri kurmuşlardır.

Bu cümlede yalın halde olmayan kaç sözcük kullanılmıştır?

A) 2 B) 3 C) 4 D) 5 E) 6

3. Bilimsel bilgiler kesin olsalar bile onlara sürekli kuşku ile bakılmalıdır. Örneğin, Newton'un yasaları mutlak doğrular olmasaydı çağdaş bilim doğamaz ve bilim gelişemezdi.

Bu parçada ek eylem almış kaç sözcük vardır?

A) 1 B) 2 C) 3 D) 4 E) 5

4. Bir ülkenin ticari etkinliklerine yani başka ülkelerden aldıkları ve başka ülkelere sattıkları ürünlere bakılarak bu ülkenin gelişmişliği hakkında bilgi edinilebilir.

Bu cümleyle ilgili olarak aşağıdakilerden hangisi yanlıştır?

A) Farklı türden eylemsiler kullanılmıştır.
B) Birden çok ad tamlaması vardır.
C) Niteleme amacıyla kullanılan sözcükler vardır.
D) Birleşik yapılı eylem vardır.
E) Dönüşlü çatılı eylem vardır.

5. **Aşağıdaki cümlelerin hangisinde isim tamlamasının tamlayanı, belirtisiz ad tamlamasıdır?**

A) Balkanlar üzerinden yeni soğuk hava dalgası geliyormuş.
B) Yoğun kar yağışı sebebiyle okullar bir hafta tatil edildi.
C) Bu filmde, Çanakkale Savaşı farklı bir şekilde anlatılmış.
D) Buraya "Mordoğan" denmesi, güneşin burada mor doğmasındandır.
E) Zeytin ağaçlarının ay ışığı altındaki görüntüsü görülmeye değer bir manzaraydı.

6. **Aşağıdaki cümlelerin hangisinde, isim tamlaması vardır?**

A) Çocuk, hepimizi üzerek aramızdan ayrıldı.
B) Babası gelince tüm işleri bana yükledi.
C) Derse geç gelen öğrenci hemen uyarıldı.
D) Sinemanın çıkışında buluşmak üzere sözleştik.
E) Yolda hiçbir şey konuşmadık.

MURAT YAYINLARI

7. I. Bu adam bizleri çileden çıkardı.
II. Öteki işlerinizi lütfen yarına bırakınız.
III. Böyle bir durumda ne yapmamı bekliyorsunuz.
IV. Bazı ödevlerimizi yarım yamalak yaptık.
V. Bunu sana yapmayı hiç istemedim.

Numaralanmış cümlelerin hangisinde, işaret bildiren bir sözcük yoktur?

A) I. B) II. C) III. D) IV. E) V.

8. **Aşağıdaki cümlelerin hangisinde işi yapan belli değildir?**

A) Acı haberi duyunca yıkıldı.
B) Sonbahar gelince yapraklar da sarardı.
C) Çocuğun etrafı gizlice sarıldı.
D) Usulca yaklaşıp kediyi yakaladı.
E) Binanın dış cephesini yarın boyayacak.

9. **Aşağıdaki cümlelerin hangisinde işi yapan yaptığı işten etkilenmiştir?**

A) Hazırlanan sorular kurulca incelendi.
B) Kitaplar bir ay içinde okundu.
C) Onur, sınıfın en iyisi seçildi.
D) Sonunda kardeşim de Karadeniz'e atandı.
E) Martılar gökyüzünde iyiden iyiye süzüldü.

10. **Aşağıdaki cümlelerin hangisinde eylem durum bakımından tamamlanmamıştır?**

A) Gece yavaş yavaş çekilmişti, aklımızın ücra köşelerinden.
B) Ellerimizin arasından çırpınarak gidiyordu, umutlarımız.
C) İkimiz de bu yaradan ayrı düşünülemeyiz.
D) Şair olabilmek için değil, şiiri anlatabilmek için bu satırlar.
E) Kelimelerin arasından huysuzlanıp bakıyordu, anlamlar.

11. Anmazmışsın hiçbir yerde
Ne şarkıda ne şiirde
İki yüzlü bir şehirde
Unuttun mu sevdiğini

Bu dizelerde aşağıdakilerden hangisi yoktur?

A) İsim
B) Edat
C) Bağlaç
D) Sıfat
E) Zarf

12. **Aşağıdaki cümlelerin hangisinde "-miş" geçmiş zaman eki cümleye "farkında olmama" anlamı katmıştır?**

A) Ağaçların dallarında yapraklar açmış.
B) Filiz, dün gece yola çıkmış.
C) 1983'te Karşıyaka'da dünyaya gelmiş.
D) Uykusuzluktan, olduğum yere yığılmışım.
E) Bence tüm soruları kardeşim cevaplamış.

13. Başıboş (I) bir kayık büyük (II) derede yol alırken (III) otomatik olarak o sessiz (IV) kayığı hızlıca (V) takibe aldılar.

Altı çizili sözcüklerden hangisi nitelik belirtmemektedir?

A) I. B) II. C) III. D) IV. E) V.

14. Tarla (I) kuşlarıyla serçeler (II), ötüşe ötüşe (III) ağaçtan ağaca sıçrıyor; güneşin (IV) vurduğu yerlerden dalgalı (V) bir buğu yükseliyordu.

Altı çizili sözcüklerden hangisi bir ismi nitelemiştir?

A) I. B) II. C) III. D) IV. E) V.

MURAT YAYINLARI

/muratyayincilik

15. Aşağıdaki cümlelerin hangisinde dolaylı tümleç isim tamlaması şeklinde kurulmuştur?

A) Sahnelenen ilk tiyatro eseri, Namık Kemal'in en önemli eserlerindendir.
B) Roman, tiyatro ve eleştiri edebiyatımıza Tanzimat Dönemi'nde girmiştir.
C) Aruz vezniyle yazılan ilk eser Kutadgu Bilig'tir.
D) Sembolizm Ahmet Haşim'de etkisini göstermiştir.
E) Türk edebiyatının genelinde "sanat" ön plandadır.

16. I. Bireyin çevresiyle kurduğu sağlıklı ilişki, dilinin zenginleşmesini sağlar.
II. Çok okuyan ve gezen insan, dilini iyi kullanır.
III. Zaman, her şeyi tedavi eden bir ilaçtır.
IV. Çevresiyle iletişim kuran insan başarılı olur.
V. Dilin sözcük sayısı, bazı sözcüklerin kullanılmamasıyla azalır.

Numaralanmış cümlelerden hangileri durum bakımından tamamlanmıştır?

A) I. - II. B) II. - III. C) II. - V.
D) III. - IV. E) IV. - V.

17. Aşağıdaki cümlelerin hangisinde eylemin kısa sürede yapıldığı anlamı vardır?

A) Orhan Kemal'in bütün yapıtları içinde, ezilmişliği vurgulayan en gerçekçi eseri Murtaza'dır.
B) Birçok eleştirmen onun yazılarını Türkiye'nin içler acısı durumunun bir aynası kabul eder.
C) Bu kitap, etkileyiciliği ile okuyanın iç dünyasını kıskıvrak yakalıyor.
D) Yazar, aklına gelenleri hiç ayıklama gereği duymadan kağıda döküvermiş gibiydi.
E) Yürekten bağlı olduğu İstanbul'u her fırsatta kaleme alıyordu.

18. Aşağıdaki cümlelerden hangisi zaman anlamı taşımaz?

A) Bugünlerde beyaz ekmeği daha az yiyorum.
B) Çocuk, elindeki elmayı ısırmaya çalışıyordu.
C) İnsan çalışınca daha da güçlenir.
D) Akşama sizi de yemeğe bekliyoruz.
E) Uyanır uyanmaz bana da haber verin.

19. Aşağıdaki cümlelerin hangisinde eylemin devam etmesi söz konusudur?

A) Kimlik, insanın kendini tanımlama çabasıdır.
B) Ben kimim sorusu, belki de yaşam boyu sorulacak bir sorudur.
C) Belli bir topluluğa ulaşmak isteyenler, çok çalışmalıdır.
D) Evin eşyaları dün geceden toplanıverdi.
E) Bu konudaki araştırmalar bu hızla sürüp gider.

20. Aşağıdaki cümlelerin hangisinde küçültme eki almasına rağmen somut bir ad olmuş sözcük kullanılmıştır?

A) Sel felaketinden ötürü kasabada gölcükler oluştu.
B) Bu çocukların kimsecikleri yoktur.
C) Yavrucak, bir köşede oturmuş ağlıyor.
D) Baharın gelişi, gelinciklerin ortaya çıkmasından bellidir.
E) Anlamsız yazıcıklarla doldurmuşlar dergiyi.

MURAT YAYINLARI

Açıklamalar • TEST 14

1. **B** B seçeneğindeki "müthiş dakikalar" sözü sıfat tamlamasıdır (Nasıl dakikalar, diye sorunca müthiş cevabını alırız.). Yükleme sorulan "Ne yaşattı?" sorusunun cevabı da "müthiş dakikalar" sözüdür. Buna göre sıfat tamlaması belirtisiz nesne görevindedir.

2. **B** Yalın haldeki sözcük, ismin hal eklerinden herhangi birini almamış sözcüklerdir. Bize yalın halde olmayanı sorulduğuna göre ismin hal eklerinden birini alan sözcükleri bulmalıyız. "Osmanlılarda" ve "aralarında" sözleri bulunma hal ekini, "dayanışmayı" sözcüğü belirtme hal ekini almıştır.

3. **B** "Olmasaydı" sözcüğünde "-dı" eki ek eylem olarak (olmasa idi) ve "gelişemezdi" sözcüğünde yine "-di" eki ek eylem olarak (gelişemez idi) kullanılmıştır.

4. **E** "Aldıkları" ve "sattıkları" sözcükleri sıfat-fiil, "bakılarak" sözcüğü zarf-fiildir (A seçeneği). "Ülkenin ticari etkinlikleri" ve "ülkenin gelişmişliği" isim tamlamasıdır (B seçeneği). "ticari, aldıkları, sattıkları" sözcükleri isme sorulan "nasıl" sorusuna cevap verdikleri için ismi niteleyen sözcüklerdir (C seçeneği). "edinilebilir" sözcüğü yeterlik birleşik eylemidir. Dönüşlü eylemde özne hem işi yapan hem de yapılan işten etkilenendir. Cümlede böyle bir eylem yoktur.

5. **E** "Zeytin ağaçlarının ay ışığı altındaki görüntüsü" sözünde "zeytin ağaçlarının" tamlayan, "görüntüsü" tamlanan, "ay ışığı altındaki" kısmı da sıfattır. Tamlayan durumundaki "zeytin ağaçlarının" sözü de kendi içinde belirtisiz ad tamlamasıdır. (Zeytin, tamlayan; ağaçlarının, tamlanandır.) Bütüne bakıldığında da tamlayanıyla tamlananı arasına sıfat girmiş zincirleme ad tamlaması olduğu görülür.

6. **D** D seçeneğindeki **"sinemanın çıkışı"**nda belirtili isim tamlamasıdır.

7. **D** **"Bazı ödevlerimiz"** tamlamasında bazı sözcüğü belgisiz sıfattır. Diğer seçeneklerde bu, öteki, böyle, bunu sözcükleri işaret bildirir.

8. **C** **"İşi yapan belli değildir"** soru kökleri eylemde çatı konusunun özne-yüklem ilişkisini buldurmaya yöneliktir. Edilgen fiillerde işi yapan belli değildir (meyveler yıkandı-yıkayan belli değil), dönüşlü fiillerde özne yaptığı işten etkilenir (Hakan yıkandı-yıkanan Hakan).

   A seçeneğinde "yıkıldı" → yıkan kim → O → işi yapan

   B seçeneğinde "sarardı" → sararan ne? → yapraklar → işi yapan

   C seçeneğinde "sarıldı" → saran kim? → belli değil

   D seçeneğinde "yakaladı" → yakalayan kim → O → işi yapan

   E seçeneğinde "boyayacak" → boyayan kim → O işi yapan

MURAT YAYINLARI

/muratyayincilik

9. **E** Özne yaptığı işten etkilendiği için dönüşlü bir fiildir ve cevap "E" seçeneğidir.

10. **D** A seçeneğinde, **yavaş yavaş**
B seçeneğinde, **çırpınarak**
C seçeneğinde, **ayrı**
E seçeneğinde, **huysuzlanıp** sözcükleri yükleme sorduğumuz **"nasıl"** sorusuna cevap verdiğinden yüklemi durum bakımından tamamlamıştır.

11. **E** **"Mi"** edatı olarak adlandırılır ve her zaman ayrı yazılır.
hiçbir – sıfat / yerde – isim / ne ... ne – bağlaç
Bu parçada zarf yoktur.

12. **D** D seçeneğindeki kişi, bayılıp yığıldığının farkında değil. "Yığılmışım" ifadesinden anlamaktayız.

13. **C** A seçeneğinde **"başıboş"**, B'de **"büyük"**, D'de **"sessiz"** sıfatları ve E'de **"hızlıca"** zarfı nitelik bildirmektedir.

14. **E** **"Dalgalı bir buğu"** tamlamasında dalgalı sözcüğü sıfat görevinde kullanılmış ve buğu sözcüğünü nitelemiştir. Niteleme sıfatları nitelik bildirir, unutma!

15. **E** **"Türk edebiyatının geneli"** zincirleme bir isim tamlamasıdır ve bu cümlede yükleme **"Nerede ön plandadır?"** sorusuna cevap vererek dolaylı tümleç olduğu anlaşılır.

16. **C** Bu soru, zarfı buldurmaya yöneliktir. Eyleme "nasıl" sorusunu sorduğumuzda aldığımız cevap durum zarfıdır. II. cümlede **"iyi"**, V. cümlede **"kullanılmamasıyla"** sözcükleri zarf görevindedir.

17. **D** Eylemin kısa sürede yapıldığı anlamını tezlik eylemleri (-i vermek) vermektedir.

18. **B** Bir cümlede zaman anlamı olması için illa zaman bildiren kelimelerin olması gerekmez. Yükleme **"ne zaman"** sorusunu sorduğunuzda cevap alabiliyorsanız zaman anlamı taşıdığını görürsünüz. B seçeneğinde böyle bir durum söz konusu değildir.

19. **E** E seçeneğinde **"sürüp gider"** ifadesi geniş zaman belirttiği için eylemde devamlılık söz konusudur.

20. **D** Küçültme eki alarak bu fonksiyonunu kaybetmiş ve yeni bir anlam kazanmış tek sözcük D seçeneğindeki **"gelincik"** sözcüğüdür. Diğer seçeneklerde küçültme anlamı vardır.

MURAT YAYINLARI

Dil Bilgisi - III • TEST 15

1. **Aşağıdaki dizelerin hangisinde eylemi durum bakımından tamamlayan bir sözcük kullanılmamıştır?**

A) Arzulayıp çıktım gurbet iline
Ağlarım sızlarım kimsem yok benim

B) Düşman geldi tabur tabur dizildi
Alnımıza kara yazı yazıldı

C) Ela gözlerine kurban olduğum
Ecelim gelmeden öldürme beni

D) Yazın kışın belli olmaz
Sert eser yellerin senin

E) Üşürsün pencere kapalı olsun
Bu mevsim rüzgârlar delice eser

2. **Aşağıdaki cümlelerin hangisinde birleşik sözcük tür olarak** "Karma sınıflarda verilen eğitim pek faydalı değildi." **cümlesindeki** "karma" **sözcüğü ile özdeştir?**

A) Arkadaşlık, dostluk bilmez; kim olursa olsun ikiyüzlü davranırdı.

B) Babaannemin evi her zaman mis gibi hanımeli kokardı.

C) Bizim yüreğimizin ağzımıza geldiği anlarda o, soğukkanlılığını korurdu.

D) Kimsesizlerin yararlandığı bu yeri hayırsever vatandaşın biri yaptırmış.

E) Bu yemeği ne zaman yapsa etleri kuşbaşı doğrardı.

3. İnsanın yanlışı benimsemesi, gerçek görüneni itmesi elinde olmadığı gibi iyi görüneni de benimsemesi elinde değildir bazen bu hayatta.

Bu cümle için aşağıdakilerden hangisi söylenemez?

A) Bir sözcük türerken ünlü düşmesine uğramıştır.

B) Adıldan türeyen bir sözcük kullanmıştır.

C) Basit bir sözcükte ünsüz yumuşaması görülmektedir.

D) Basit bir sözcükte ünsüz benzeşmesi görülmektedir.

E) Birden çok sözcük büyük ünlü uyumu kuralında uymamaktadır.

4. Sözcükler; türetilirken, çekim eki alırken, birleşirken ünlü düşmesine uğrar.

Aşağıdaki cümlelerin hangisinde bu durumun tüm örnekleri görülebilir?

A) İşten ayrıldığımda şaşkınlıktan ayağım takılıp burnumun üstüne nasıl düştüm, anlatamam.

B) Sen yalnız kendini düşünürsün zaten!

C) Boynuma bir ağrı saplandı, boynumu azcık ovar mısın?

D) Anadolu'nun henüz keşfedilmeyen güzellikleri var.

E) Mahalleden gelen acı çığlık bizi gece yarısı uykumuzdan uyandırdı.

5. Her pazartesi evden çıkarken Shakespeare'in, "İnsanların yaptıkları fenalıklar arkalarında yaşar, iyilikleriyse çoğu zaman kemikleriyle gömülür." sözünü hatırlıyorum.

Bu cümlede aşağıdaki ses olaylarından hangisi yoktur?

A) Türemiş bir sözcükte ünsüz benzeşmesi

B) Bir sözcükte ünsüz değişimi

C) Basit bir sözcükte ünlü daralması

D) Birleşik bir sözcükte hece düşmesi

E) Küçük ünlü uyumuna uymayan türemiş sözcük

6. **Aşağıdaki cümlelerin hangisinde bağlaç kullanılmamıştır?**

A) O taşları sanki oraya ben attım da bağırıyorsun.

B) Meğer bunca yıldır ne kadar yanlış tanımışım seni.

C) Almanya'ya gideli iki yıl oldu, daha dönmedi.

D) İsteklerimizi söyledik ama gerçekleşmedi.

E) Belki yarın görev yerime teslim olurum.

MURAT YAYINLARI

/muratyayincilik

7. "O ve onlar" **sözcükleri hangisinde farklı bir görevde kullanılmıştır?**

A) O, bize her daim iyi davrandı.
B) Toplantıya onun da gelmesini istiyorum.
C) O, ekranların en vazgeçilmez adamıdır.
D) Onu cüzdanına koy ve burayı terk et.
E) Onların desteği olmasa bugün uyuyamazdık.

8. **Aşağıdaki cümlelerin hangisinde işi yapan belli değildir?**

A) Biz, uyuşuk değil, çalışkan insanları severiz.
B) İkram edilen suyu bir nefeste içti.
C) Duvarları çok da güzel boyamış.
D) Yeni ayakkabılar dolaba yerleştirildi.
E) Bugün okula Rabia mı gelecek?

9. **Aşağıdaki cümlelerin hangisinde kişi zamiri dolaylı tümleç görevinde kullanılmıştır?**

A) Geç de olsa yemeğe siz de katılabilirsiniz.
B) Seni buralarda görmek, beni mutlu etti.
C) Bütün bunları yalnız seninle paylaştım.
D) Her konuda ona güvenebilirim.
E) Konuyu, dersten sonra tekrar o mu anlattı.

10. (I) Bildiği şeyleri unutarak sezgiyle yazdığını söyleyen yazar, son romanıyla dilin bir araçtan, çok öte olabileceğini iyiden iyiye hissettiriyor okura. (II) Keskin, edebi, özgün ve zengin bir dil kullanıyor. (III) Artık üstüne eklenecek bir şey olmayan ama anlatıma birçok olanak kazandıran bir dil... (IV) Romanın çok katlı kurgusu içinde yazar, kahramanın kazadan önceki ve sonraki yaşamını ayrı bölümlerde anlatıyor. (V) Okuyucu, hikâyeden önce bu dille bağlanıyor bu romana.

Numaralanmış cümlelerin hangisinde niteleyici bir sözcük ya da söz kullanılmamıştır?

A) I. B) II. C) III. D) IV. E) V.

11. (I) Dünyadan aklımda kalanları, özellikle de anılarımı yazmaya çalışıyorum. (II) Gerçek şiirin orada, o anılarda olduğuna inanıyorum çünkü. (III) Şiirlerimde çok fazla tema, çok fazla sözcük de yoktur; aynı temaların etrafında benzer sözcüklerle dolanırım. (IV) Bu, okuyucu için çok sıkıcı olabilir ama başka türlüsü de elimden gelmiyor. (V) Bunun nedeni, eski defterleri hiç kapatamıyor olmamdır.

Numaralanmış cümlelerin hangisinde bağlaç kullanılmamıştır?

A) I. B) II. C) III. D) IV. E) V.

12. **Aşağıdaki cümlelerden hangisi durum bakımından tamamlanmıştır?**

A) Seni anlatabilmek seni, uçan kuşlara.
B) Yağmur yağdığında bu kente, sızlanarak bakarım ufka.
C) Bu olayı bana kim anlatacak?
D) Gözüm kesmiyor, senin yürüdüğün yollarda yürümeyi.
E) Bütün gün gelirsin diye bekledim, dar sokaklarımda.

13. **Aşağıdaki cümlelerin hangisinde bağlaç kullanılmamıştır?**

A) Gerek sen gerek ben, işe erken gitmeliyiz.
B) Toplantıya katılmadı çünkü araç bulamamış.
C) Üstelik bütün sıkıntılarımı sen de biliyordun.
D) Artakalan yalnızlığımın karamsarlığıydı ki...
E) Bu güzel çiçekleri annesiyle toplamıştı.

MURAT YAYINLARI

14. Kaç gece yalnızlığa dair şiirler yazdım
(I)
Gecenin bilmem hangi kaçında
(II)
En son bana gitmeler düştü
(III) (IV)
Sen gözlerini kırptın, ben gözlerinden düştüm
(V)

Numaralanmış sözcüklerden hangisi ismin yerini tutmuştur?

A) I. B) II. C) III. D) IV. E) V.

15. **Aşağıdaki cümlelerin hangisinde işi başkasına yaptırma anlamı vardır?**

A) Çöpleri de hizmetliye döktürdü.
B) Seni uyarmaktan inan çok sıkıldım.
C) Aşk, ne zamandır tek kişilik oldu.
D) Köşeyi dönünce bizleri tanımaz oldu.
E) Alışveriş, köşedeki marketten yapıldı.

16. **Aşağıdaki cümlelerin hangisinde işin ne zaman yapıldığı belirtilmiştir?**

A) İnsanı insan yapan değer sevgidir.
B) Aracım bozulduğu için işe yürüyerek geldim.
C) Senin anlattığın her şey güzeldir.
D) Bürodan çıkarken anahtarını unutma.
E) Çarşıdan aldıklarını zar zor taşıdı.

17. "de / da" **bağlacı aşağıdaki cümlelerin hangisine "yakınma" anlamı katmıştır?**

A) Annem de babam da bu gece İstanbul'a gidecek.
B) Bana kitaplarımı getirmeyi unutma da ödevlerimi hazırlayabileyim.
C) O, adam olacak da ben göreceğim.
D) Son günlerde çok çalışıyormuş da bana söylememiş.
E) Karşılıklı şiir okumaktan da pek zevk alırdık.

18. **Aşağıdaki cümlelerin hangisinde altı çizili sözcük niteleme amacıyla kullanılmamıştır?**

A) Mutfaktan gelen yanık kokusu bizi korkuttu.
B) Masaya bembeyaz bir örtü sermişti.
C) Sıcak havalarda sokağa çıkmazdı.
D) Küçük kız, annesine uzun bir palto almıştı.
E) Her şeyden önemlisi, bu titiz davranışın beni etkiledi.

19. **Aşağıdaki cümlelerin hangisinde aynı eylem farklı kişiler tarafından yapılmıştır?**

A) Rabia'yı aradı ve yarın için gezmeye çağırdı.
B) Sabahları kardeşim işe eşim de bürosuna gider.
C) Öğretmen örnekleri yazdı, öğrencilere sorular sordu.
D) Kütüphanenin önünde durdu, bir süre düşündü.
E) Eşyalara hem yardım etti hem de temizledi.

20. **Aşağıdaki cümlelerin hangisinde işi yapan belli değildir?**

A) Adam, karşımızda durmadan kaşınıyordu.
B) Onu yıllarca hiçbirimiz unutmadık.
C) Müzik, insanın ruhunu besler.
D) Korkudan dört bir yana kaçışmıştı, hepsi.
E) Maaş çekleri bankaya yatırıldı.

MURAT YAYINLARI

/muratyayincilik

Açıklamalar • TEST 15

1. **C** Eylemi durum bakımından tamamlayan bir sözcük denildiğinde durum zarfına bakarız. Eyleme sorulan "nasıl" sorusunun cevabını ararız. A'da "arzulayıp", B'de "tabur tabur", D'de "sert", E'de "delice" sözcükleri durum zarfıdır. C'deki "ecelim gelmeden" sözü "ne zaman" sorusunun cevabıdır. (zaman zarfı)

2. **D** Örnek cümledeki "karma" sözcüğü tür olarak sıfattır (Nasıl sınıf, sorusunun cevabı olur.). D seçeneğindeki "hayırsever" sözcüğü "vatandaş" sözcüğüne sorulan "nasıl" sorusuna cevap verdiğinden sıfattır ve örnek cümledeki sözcükle tür bakımından özdeştir. "İkiyüzlü ve kuşbaşı" sözcükleri zarf, "hanımeli ve soğukkanlılık" sözcükleri isimdir.

3. **C** Yanıl - ış → yanlış (A seçeneği)
Ben - imsemesi (B seçeneği)
Hayat - da → hayatta (D seçeneği)
İnsan, bazen (E seçeneği)

4. **A** Ayır - ıldığımda (ayrıldığımda) → türeme sırasında ünlü düşmesi
Burun - umun (burnumun) → çekim sırasında ünlü düşmesi
Ne asıl (nasıl) → birleşme sırasında ünlü düşmesi

5. **B** Yap - dık - ları → yaptıkları (A seçeneği)
Çok - u → çoğu (B seçeneği)
Pazar ertesi → pazartesi (D seçeneği)
Çıkarken → E seçeneği
Hatırlıyorum → Bu sözcükte ünlü daralması vardır ama "-la" yapım eki olduğundan türemiş sözcüktür.

6. **C** "A" seçeneğinde "da", B seçeneğinde "meğer", D seçeneğinde "ama", E seçeneğinde "belki" bağlaçları kullanılmıştır. C seçeneğinde bağlaç yoktur.

7. **D** "Onu" sözcüğü işaret zamiri olarak kullanılmıştır. A, B, C, E seçeneklerinde kişi zamiri olarak kullanılmıştır.

8. **D** A seçeneğinde → **"seven kim?"** → biz
B seçeneğinde → **"içen kim?"** → O
C seçeneğinde → **"boyayan kim"** → O
D seçeneğinde → **"yerleştiren kim"** → işi yapan belli değil
E seçeneğinde → **"gelen kim"** → Rabia

9. **D** A seçeneğinde, "siz" özne
B seçeneğinde **"seni"** belirtili nesne (işten etkilenen)
C seçeneğinde **"seninle"** zarf tümleci görevinde kullanılmıştır. E seçeneğinde **"o"** özne, **"D"** seçeneğinde **"ona"** sözcüğü kişi zamiridir ve dolaylı tümleç görevinde kullanılmıştır.

10. **E** I. cümlede, **...söyleyen**
II. cümlede, **Keskin...**
III. cümlede, **...kazandıran**
IV. cümlede, **...katlı** sözcükleri niteleme amacıyla kullanılmıştır.

MURAT YAYINLARI

11. **E** I. cümlede, **"de"**
II. cümlede, **"çünkü"**
III. cümlede, **"de"**
IV. cümlede, **"ama"** sözcükleri bağlaçtır.

12. **B** "B" seçeneğinde **"sızlanarak"** sözcüğü **"bakmak"** eylemini durum bakımından tamamlamaktadır.

13. **E** A seçeneğinde **"gerek ..... gerek"**
B seçeneğinde **"çünkü"**
C seçeneğinde **"üstelik, de"**
D seçeneğinde **"ki"** bağlaç olarak kullanılmıştır.
"E" seçeneğinde bağlaç yoktur, **"annesiyle"** sözcüğündeki **"ile"** edat olarak kullanılmıştır.

14. **E** V numaralı sözcük kişi zamiridir, ismin yerini tutmaktadır.

15. **A** "A" seçeneğinde işi başkasına yaptırma anlamı vardır.

16. **D** "D" seçeneğinde eyleme "ne zaman" sorusunu sorduğumuzda "buradan çıkarken" yanıtını alırız. (ne zaman unutma?)

17. **C** "C" seçeneğinde de/da yakınma anlamı taşımaktadır.

18. **A** "A" seçeneğinde altı çizili sözcük, isim tamlamasında tamlayan olarak kullanılmıştır. Görevi isimdir.

19. **B** "B" seçeneğinde işe ve büroya giden farklı kişilerdir.

20. **E** "E" seçeneğinde işi yapan belli değildir.

MURAT YAYINLARI

Cümle Bilgisi - I • TEST 16

1. Yan cümlesi bir ya da birkaç eylemsiden (fiilimsi) oluşan cümlelere "girişik bileşik cümle" denir.

Aşağıdakilerden hangisi "girişik bileşik cümle" değildir?

A) Öğrencilerin sorunlarının kökenine inmeliyiz.
B) Bize derdini anlatan öğrenci meğer haklıymış.
C) Yüzünde mutsuzluğu anlatan bir ifade vardı.
D) Söylediklerinizi bizce bilinen şeylerdir.
E) Yiyeceğiniz kadar almasını bilmelisiniz.

2. "Bağımlı sıralı cümlelerde özneler, tümleçler veya birden çok öge ortak olabilir."

Aşağıdaki cümlelerden hangisi bu açıklamaya bir örnektir?

A) Çocuk annesini istedi, anne gelmek istemiyordu.
B) Yağmur hemen dindi, ardından hava açıldı.
C) Camdan baktım, çocuklar evin önünde oynuyordu.
D) Konuk, kapıyı yavaşça açtı; içeri girdi.
E) Zaman, acıları unutturur; yaşam normale döner.

3. **Aşağıdakilerden hangisi sıralı cümle değildir?**

A) Yıl boyunca ders çalıştık, eğlendik, sınavlara girdik.
B) Kapının önünde durdu, sağına soluna baktı, içeri girdi.
C) Ders çalışmak için arkadaşlarıyla biraz önce kütüphaneye gitti.
D) İlkbahar gelir, havalar ısınır, göçmen kuşlar gelir.
E) Süt dökülmüş, her yer kirlenmişti.

4. **Aşağıdaki cümlelerden hangisi ögelerine yanlış ayrılmıştır?**

A) Bunca yıl sonra / onu / arkadaşımın bürosunda / gördüm.
B) Ahmet Bey / seni / yarın / yine / arayacağını / söyledi.
C) Bu tür hastalıklardan korunmak / oldukça / güçleşti.
D) Onun böyle bir tavır göstereceğini / herkes / biliyordu.
E) Sevgi ve saygı / toplumun taktığı görünmez madalyadır.

5. **Aşağıdakilerden hangisi bağımsız sıralı bir cümledir?**

A) Çiçekleri vazoya yerleştirdim, sık sık suyunu değiştirdim.
B) Aniden bir işim çıktı ama işimi hemen hallettim.
C) Sağlığın temel koşulu spordur, dengeli beslenmektir.
D) Zamanımı boşa harcadım, şimdi üzgünüm diyorum.
E) Öğrenciydim, gençtim, okulun yurdunda kalıyordum.

6. **Aşağıdaki cümlelerden hangisi, biçimce olumsuz anlamca olumlu bir cümledir?**

A) Ne çalışmasını ne de eğlenmesini biliyor.
B) Öykünüzün konusunu özgün bulmadım.
C) Son çıkan yayınları takip etmiyorum sanma.
D) Çocuk rahatsızlandığı için bugün okula gitmedi.
E) Eve ulaştığımda misafirler çoktan gelmişti.

MURAT YAYINLARI

7. "Büyük bir salonun tam ortasındaki kocaman bir koltuğun sağında duran kayından yapılmış bir piyanonun yanında, bütün haşmetiyle bana bakıyordu."

Bu cümlede geçen eylemin, yapıldığı yer aşağıdakilerden hangisidir?

A) Büyük bir salonun tam ortasında
B) kocaman bir koltuğun sağında
C) bütün haşmetiyle
D) bir piyanonun yanında
E) Büyük bir salonun tam ortasındaki kocaman bir koltuğun sağında duran kayından yapılmış bir piyanonun yanında

8. **Aşağıdaki cümlelerin hangisinde** "yan cümlecik" **temel cümlenin** "nesnesi" **görevinde kullanılmıştır?**

A) Çocuk, çok geçmeden uyandı.
B) Ellerinden geldiğince bize yardım ettiler.
C) Çalışmaktan artık iyice yorulmuştuk.
D) İnşaata bir başka bekçi tutmayı düşünüyordu.
E) Gözlerini kısarak konuşmasına devam etti.

9. **Aşağıdaki cümlelerden hangisi yapı bakımından ötekilerden farklıdır?**

A) Açlığımı giderecek bir şeyler yemem gerekiyor.
B) Televizyonu izledikten sonra işlerimi yapacağım.
C) Sabahtan beri yalnız başıma evde çalışıyorum.
D) Açtığı kalemin ucunu bitirinceye kadar yazdı.
E) Okuduğum dergileri atmayıp biriktiririm.

10. (I) Fazla sıkıştırıldığını anlayan hayvan, sırtını duvara dayadı, atlamaya hazırlandı (II) Gözlerini avcıya dikti, kocaman açılmış gözler (III) Avcı avının geldiğini anladı (IV) Hayvanın ölümle hesaplaşma anı (V) Avcı tetiğe dokundu

Yukarıdaki cümlelerden hangileri eksiltili cümledir?

A) I ve II B) I ve V C) II ve IV
D) III ve IV E) IV ve V

11. Herkesin işinde gücünde olduğu pırıl pırıl bir ilkbahar sabahında odama kapanıp kitap okumak istiyorum sadece.

Bu cümleyle ilgili olarak aşağıdakilerden hangisi söylenemez?

A) Devrik cümledir.
B) Birleşik yapılı cümledir.
C) Biçimce ve anlamca olumludur.
D) Yan cümle özne görevindedir.
E) Eylem cümlesidir.

12. **Aşağıdaki cümlelerden hangisi özne, nesne, zarf tümleci ve yüklemden oluşmuştur?**

A) Hayallerimiz, batan güneş gibi yok oldu.
B) Kadın, savaşta yaşadıklarını ağlayarak anlattı.
C) Bu tür gelişmeler, siyasileri birbirinden uzaklaştırıyor.
D) Yolcular, uçağın kalkmasını istiyordu.
E) İçedönük çocuklar, sorunlarını kimseye söyleyemezler.

13. Burası, geceleri büyük bir açık hava konserine dönüşüyor. Ağustos böceklerinin sesi bu konserde âdeta bir koro işlevi görüyor. Bu konser eşliğinde tatlı tatlı sohbet etmek ve doğanın tadını çıkarmak çok güzel bir duygudur.

Bu parçada aşağıdakilerden hangisine örnek yoktur?

A) Devrik cümle
B) Birleşik cümle
C) Fiil cümlesi
D) İsim cümlesi
E) Basit cümle

MURAT YAYINLARI

/muratyayincilik

14. **Aşağıdaki cümlelerin hangisinde ortak nesne kullanılmıştır?**

A) Evin hanımı bulaşıkları yıkadı, duruladı, kaldırdı.
B) Günlerdir uyku uyumadım, kimse halimi sormadı.
C) Sabahları erken kalkar, kahvaltımı yapar, yola çakırım.
D) Günlerce sokağa çıkmam, evde çalışırım.
E) Arabayı aldım, bir süredir onunla oyalanıyorum.

15. "Biz romantik olduktan sonra dağlar güzelleşti." **cümlesiyle öge dizilişi yönünden aynı olan cümle aşağıdakilerden hangisidir?**

A) Her şey dağınıktı zerdali yeşili gözlerinde.
B) Senden vazgeçemediğim için aklım firarda.
C) Okul yolu o kadar uzun ki sensiz.
D) Seninle yaşayamadıktan sonra hayatı neyleyim.
E) Terk ettim sana dair her şeyi.

16. (I) Kadıköy vapuru, bir lodos dalgası gibi şiddetle çarparak köprüye yanaştı. (II) Evvela, bir iki cesaretli kendisini iskeleye fırlattı. (III) Arkasından, içinden dağılan bir bohça gibi alacalı bulacalı bir kalabalık söküldü. (IV) Giyim kuşamından üniversite öğrencisi olduğu anlaşılan bir kız, İstanbul tarafına yürüdü. (V) Tam Ada İskelesi'nin yanından geçerken ayağı kaydı.

Bu parçadaki cümlelerden hangisi, yapı bakımından ötekilerden farklıdır?

A) I B) II C) III D) IV E) V

17. **Aşağıdakilerden hangisinde, adlaşmış ortaçla kurulan bir yan cümlecik, özne görevindedir?**

A) Dolanıp geleceğim dağların sağrısından.
B) Suç ortağın akan sudur, ey yolcu!
C) İçeri alınmıyor vaktinde gelmeyenler.
D) Bizimdir o beklenen güzel günler.
E) Boşa akan sularla bir servet yitiriyoruz.

18. "Film seyretmeye bayılıyor." **cümlesi, yan cümleciğin görevi yönünden aşağıdakilerden hangisiyle özdeştir?**

A) Göze batmamak istiyorum.
B) Yemek yiyince sancılanıyor.
C) Güzel görünmek için uğraşıyor.
D) Avrupa'da okumayı düşünüyor.
E) Bana böyle demesine şaştım.

19. **Aşağıdaki cümlelerin hangisi, öznesi ortak bağımlı - sıralı cümledir?**

A) Ben dağa çıktım; o, sahilde beni bekledi.
B) Demin biri geldi, seni aradığını söyledi.
C) Hava çok kapalıydı, güneş arada bir görünüyordu.
D) Televizyon yine bozulmuştu, maçı komşularda izledik.
E) Artık sigara içmiyorum, doktor yasakladı.

20. Eğer insanlar yeni bir Güneş, yeni bir gezegen bulamazsa yaşam bitecek.

Aşağıdakilerden hangisinde, bu cümle ile ilgili yanlış bilgi verilmiştir?

A) Kurallıdır, anlamca olumludur.
B) Yan cümleciği koşul bildirmektedir.
C) Özneye göre etken, nesneye göre geçişlidir.
D) Yüklemine göre eylem cümlesi, yapısına göre bileşik cümledir.
E) Yan cümleciğin yüklemi, geniş zamanın koşuluyla çekimlenmiş bileşik eylemdir.

MURAT YAYINLARI

Açıklamalar • TEST 16

1. **A** B seçeneğinde "anlatan" sözcüğü, C seçeneğinde "anlatan" sözcüğü, D seçeneğinde "söylediklerinizi" sözcüğü, E seçeneğinde "almasını" sözcüğü eylemsi olduğundan bu cümleleri yapıca girişik birleşik cümledir.

2. **D** " Konuk, kapıyı yavaşça açtı; içeri girdi." cümlesinde "konuk" sözcüğü her iki cümlenin de öznesidir.

3. **C** "Ders çalışmak için arkadaşlarıyla biraz önce kütüphaneye gitti." cümlesinde birden fazla yüklem olmadığı ve eylemsi olduğu için bu cümle girişik birleşik cümledir.

4. **B** B seçeneğindeki cümlenin ögelerine doğru ayrılmış hâli aşağıdaki gibi olmalıdır:
Ahmet Bey / seni yarın yine arayacağını / söyledi.

5. **B** "Aniden bir işim çıktı ama işimi hemen hallettim." cümlesinde herhangi bir öge ortaklığı yoktur. Bu cümlenin öge dizilişi şöyledir:

Aniden	/	bir işim	/	çıktı	ama	işimi
zarf tümleci		özne		yüklem		nesne

hemen	/	hallettim.
zarf tümleci		yüklem

6. **C** "Son çıkan yayınları takip etmiyorum sanma." cümlesinde yüklem "takip etmiyorum sanma" sözüdür ve olumsuzluk eki olduğu için biçimce olumsuz, olay gerçekleştiği için anlamca olumludur.

7. **E** İşin yapıldığı yer dolaylı tümleçtir ve yükleme sorulan "nereye, nerede, nereden" sorularıyla bulunur. Öncül cümlede de dolaylı tümleç olarak "Büyük bir salonun tam ortasındaki kocaman bir koltuğun sağında duran kayından yapılmış bir piyanonun yanında" sözü kullanılmıştır.

8. **D** Yan cümlecik, içinde eylemsi olan söz öbeğidir. "İnşaata bir başka bekçi tutmayı" sözünde "tutmayı" sözcüğü eylemsidir ve yükleme sorulan "Neyi?" sorusuna cevap verdiği için nesne görevindedir.

9. **C** A, B, D, E seçeneklerinde yüklemin dışında eylemsi olduğu için bu cümleler yapıca birleşiktir. C seçeneğinde yüklemin dışında yargı bildiren söz olmadığı için yapıca basit cümledir.

10. **C** Eksiltili cümle; yüklemi olmayan, tamamlanmamış cümlelerdir. II ve IV numaralı cümlelerde de yargı tamamlanmadığı için bu cümleler eksiltili cümledir.

11. **D** Yüklem sonda olmadığı için devrik, yüklemin dışında eylemsi olduğu için birleşik, yüklemde olumsuzluk eki olmadığı için olumlu, yüklem eylem olduğu için eylem cümlesidir.

12. **B**

Kadın,	savaşta yaşadıklarını	ağlayarak
özne	nesne	zarf tümleci

anlattı.
yüklem

13. **A** "Burası, geceleri büyük bir açık hava konserine dönüşüyor." cümlesi basit cümle ve fiil cümlesidir. Son cümle isim cümlesi ve birleşik cümledir.

14. **A** Nesneyi bulmak için yükleme "neyi, kimi, ne" sorularını sorarız. A seçeneğindeki yüklemlere "neyi" sorusunu sorduğumuzda "bulaşıkları" cevabını alırız ki bu da nesnenin ortak olduğunu gösterir.

15. **B**

Biz romantik olduktan sonra	dağlar
zarf tümleci	özne

güzelleşti.
yüklem

Senden vazgeçemediğim için	aklım	firarda.
zarf tümleci	özne	yüklem

16. **B** I, III, IV ve V numaralı cümlelerde yüklemin dışında eylemsi olduğu için bu cümleler yapıca birleşiktir. II numaralı cümlede yüklemin dışında yargı bildiren söz olmadığı için bu cümle yapıca basittir.

17. **C** "İçeri alınmıyor vaktinde gelmeyenler." cümlesinde "gelmeyenler" sözcüğü adlaşmış ortaçtır. Aynı zamanda da özne göreviyle kullanılmıştır.

18. **E** Öncül cümledeki yan cümle "film seyretmeye" kısmıdır ve cümlede dolaylı tümleç göreviyle kullanılmıştır. E seçeneğinde de "bana böyle demesine" kısmı yan cümledir ve dolaylı tümleç göreviyle kullanılmıştır.

19. **B** "Az önce biri geldi, seni aradığını söyledi." cümlesinde "biri" sözcüğü öznedir ve her iki cümle için de ortaktır.

20. **C** Yüklem sonda olduğu için kurallı, olay gerçekleştiği için anlamca olumludur. Şart birleşik cümle özelliği gösterir. Yüklem çekimli eylemdir. "bulamazsa" sözcüğü geniş zamanın koşulu şeklinde çekimlenmiştir. Nesne alma özelliği göstermediği için geçişsizdir.

MURAT YAYINLARI

/muratyayincilik

Cümle Bilgisi - II • TEST 17

1. (I) Bu eser yönetmenin elinde daha da güçlü bir havaya kavuşmuş. (II) Gösterime girmeden tüm biletler tükenmiş. (III) Son yıllarda vizyondaki filmlerin çoğu romanlardan uyarlamadır. (IV) Buradan ne kadar başarılı olduğunu da anlayabiliriz, Türk romanlarının. (V) Umarım bu tükenmez bir başarıdır, edebiyatımız ve sinemamız adına.

Numaralanmış cümlelerle ilgili aşağıdakilerden hangisi söylenemez?

A) I. cümle, basit bir cümledir.
B) II. cümle, kurallı fiil cümlesidir.
C) III. cümle, isim cümlesidir.
D) IV. cümle, devrik bir cümledir.
E) V. cümle, fiil cümlesidir.

2. **Aşağıdaki cümlelerin hangisinde, nesne cümlenin en önemli ögesidir?**

A) İyi kötü yaşayıp gidiyoruz.
B) Dün, eve gitmedin diye kızdım.
C) Sabah akşam, hiç durmadan çalıştık.
D) Eğri büğrü yoldan köye ulaştık.
E) Bu uğurda, bizi kaybettin.

3. I. Yazar, son kitabında toplum sorunlarını ele almış.
II. Nihal, yazdığı şiirleri önce arkadaşlarına okudu.
III. "Yüreğinin Götürdüğü Yere Git" kitabı oldukça ilgi gördü.
IV. Bahçedeki limon ağacı göreni büyülüyordu.
V. İlker, sonunda evine dönmüştü.

Numaralanmış cümlelerin hangileri yapısı bakımından aynıdır?

A) I. ve II. B) I. ve III. C) I. ve V.
D) II. ve III. E) IV. ve V.

4. **Aşağıdaki cümlelerden hangisi sadece yüklemden oluşmuştur?**

A) Melis, çevresinde olup bitenlere duyarlı bir insandı.
B) Çeşitli desenlerle süslenmiş, göreni etkileyen bir Bursa çinisiydi.
C) Telefonun uzun uzun çalışı onu kendine getirdi.
D) Yeşil yapraklı, geniş gövdeli bir ağaçtı, o.
E) Arabadan inerken yaşlı teyzeye yardım etti.

5. **Aşağıdaki cümlelerin hangisi bağlı bir cümledir?**

A) Sen ve ben her işin üstesinden gelebiliriz.
B) Yeni açılan kitapçıda seri imza günleri başladı.
C) Eserlerini inceledim ama pek beğenmedim.
D) Ben bu gece İstanbul'a döneceğim, dedi.
E) Şarkı söylemek için sahneye çıkmıştı.

6. I. Tarladaki altın sarısı ayçiçekleri sanki ısınmaya çalışıyordu.
II. Olaylara iyi tarafından bakmaya çalışan, etrafındakilere moral veren bir insandı.
III. Ayrıntılara önem veren, sakin ve öz güvenli bir gençti.
IV. Başını ellerinin arasına almış öylece bir kenarda oturmuştu.
V. Bu ev, büyüklerimden kalan anılarla doluydu.

Numaralanmış cümlelerden hangileri yüklemin türüne göre farklıdır?

A) I. ve II. B) I. ve III. C) I. ve IV.
D) II. ve III. E) IV. ve V.

MURAT YAYINLARI

7. **Aşağıdaki cümlelerin hangisinde miktar vurgulanmıştır?**

A) Sevmediği insanları doğum gününe çağırmadı.
B) Biraz zamanım olsaydı spor yapardım.
C) Bu adamlara bu kadar yüz vermeyin.
D) Dün gece kardeşini Alsancak'ta gördüm.
E) Seninki bugün yine erkenden gelmiş.

8. **Aşağıdaki cümlelerden hangisi sözde soru cümlesidir?**

A) Böyle hızlı hızlı nereye gidiyorsun?
B) Sokak lambaları niçin yanmıyor?
C) Aklını bu işe biraz verir misin?
D) Bilet almak için kimi bekliyorsun?
E) Olanlara hiç üzülmez miyim?

9. **Aşağıdaki cümlelerden hangisi** "nesne ve yüklemden" **oluşmuştur?**

A) Kazağındaki desenleri ben de beğendim.
B) Sapsarı saçlarını salacaksın omuzlarına.
C) Geçen senenin raporlarını unutmuşum.
D) Elindeki şişeyi balkonda unutmuş.
E) Konferansa kimler katılacak?

10. **Aşağıdaki cümlelerden hangisi biçimce olumlu, anlamca olumsuzdur?**

A) Edebiyat ürünlerinin son yıllarda sığlaşması, sanat çevrelerini tedirgin ediyor.
B) Nitelikli ve etkileyici ürünler yok denecek kadar az.
C) Kalemlerin dört duvar arasına kapatıldığı bir ülkede sanat gelişebilir mi hiç?
D) Toplumun sanata ve sanatçıya duyarsız olması anlaşılmaz bir durum.
E) Sanatçıların kendini halktan soyutlaması mümkün değil.

11. **Aşağıdakilerin hangisinde ögelere ayırmada bir yanlışlık yapılmamıştır?**

A) Hapishane yarı tımarhanedir, / hiç / şaşmayın.
B) Bana / bu mektubu veren adamı / hiç / tanımıyordum.
C) Siz / hiç lunaparka / gitmiş miydiniz?
D) Onun benim için / bir hiç olduğunu / bilmiyor muydun?
E) Üniversite tercihlerimi yaparken / bana / hiç / karışmamışlardı.

12. **Aşağıdakilerden hangisi biçimce olumlu, anlamca olumsuzdur?**

A) Ne beni aradı ne de seni.
B) Artık, o dergiyi almıyorum.
C) Köpeğimle yürüyüşe çıkmayı sevmiyor değilim.
D) Yarın akşam Canlarla sinemaya gideceğiz.
E) Ne yazık ki o seminere ben katılamıyorum.

13. **Aşağıdaki cümlelerden hangisi kurallı bir fiil cümlesidir?**

A) Az uyuyan insanlardır daha uzun ömürlü olanlar.
B) Dünyayı anlayan insan, içindeki ışığı söndürmüş demektir.
C) Sözcüklerin cümlelere dönüşmesidir, roman.
D) Bunca zaman sonra beni bir kez olsun aramalıydı.
E) Hepimiz son güne kadar beklemiştik, onları.

14. (I) Yazarımız, öykülerinde köyü, köy yaşamını, kenar mahallelerin geçim derdini ağırlıklı olarak işler. (II) Bunları anlatırken de lüks hayat çevrelerini üstü kapalı eleştirir. (III) Yazarın böyle bir yol izlemesini çocukluk ve gençlik yaşamında görmek mümkündür. (IV) İlkokul yılları köyde, diğer yaşamı ise iş bulma ümidiyle "şehirde" sıkıntılar içinde geçmiştir. (V) Bu durum öykülerine yansıyor ve öykülerini bu temalar üzerine kuruyor.

Numaralanmış cümlelerden hangisi yüklemin türüne göre farklıdır?

A) I. B) II. C) III. D) IV. E) V.

MURAT YAYINLARI

/muratyayincilik

15. Aşağıdaki cümlelerden hangisi isim cümlesidir?

A) Yağmurun eli kulağında, bulutlar kararmış.
B) TV'deki belgesel programlarını izliyorum.
C) Böyle boynu bükük olmazdı, akşamlar.
D) O, hayata ilişkin yazılar yazardı.
E) Gözlerindeki ışıltıydı beni benden alan.

16. (I) Şehir içi otobüs yolcularına dikkatlice bakınca neyi görürüz? (II) Yolculardan bazıları konuşma gereksinimi duyar. (III) Yakınında oturan yabancıya, sorunlarını açmaktan çekinmez. (IV) Kimileri yorgunluktan bitkin bir halde uyur. (V) Öğrencisi bol bir otobüse bindikçe mutlu olursunuz.

Numaralanmış cümlelerden hangisi yapıca farklıdır?

A) I. B) II. C) III. D) IV. E) V.

17. (I) Bir şiiri oluştururken bir sözcük ya da imge üzerinde çok dururdu. (II) Aklına takılan noktaları güvendiği birine sorardı. (III) Önerileri küçücük bir kâğıt parçasına not ederdi. (IV) Genellikle de pek uymazdı, bunlara. (V) Ama onların karanlıkta bir mum ışığı olduğunu da inkâr etmezdi.

Numaralanmış cümlelerden hangisi kurallı bir cümle değildir?

A) I. B) II. C) III. D) IV. E) V.

18. Aşağıdaki cümlelerden hangisi biçimce olumlu, anlamca olumsuzdur?

A) Sınava benden önce gelmişti kardeşin.
B) Son kitabı bence çok kötüydü.
C) Ne şarkılar kaldı bana ne de gözyaşları.
D) Oysa yitip giden zamanlara çok ağlamıştık.
E) Kaybettiklerimi saymakla bitiremiyor.

19. "Yol" sözcüğü aşağıdaki cümlelerin hangisinde en önemli öge durumundadır?

A) Bu yolun sonunu görmek gerçekten çok zor.
B) Yol bir yere gitmez, o bir durma biçimidir.
C) Bu çocuk yola gelince bana haber ver.
D) Sınavı kazanmak için, çalışmak en iyi yoldu.
E) Yol, gidilesi aşkların kırmızı halısıdır.

20. Aşağıdaki cümlelerin hangisinde ikileme dolaylı tümleç görevindedir?

A) Senin bu sorumsuz davranışların yüzünden konu komşuya rezil olduk.
B) Tatlı tatlı konuşurken bir anda tartışmaya başladılar.
C) Derme çatma bir binayı dernek binası olarak kullanıyorlar.
D) Herkes işini gücünü bırakıp senin ardından gelir mi?
E) Eş dost, onu uğurlamak için tren istasyonuna gelmiş.

MURAT YAYINLARI

Açıklamalar • TEST 17

1. **E** V. cümlenin yüklemi **"başarıdır"** isim olduğundan cümle de isim cümlesidir.

2. **E** Yüklem olan fiilden önceki öge nesne olduğundan cevap **"E"** seçeneğidir.

3. **C** I. ve V. cümle basit yapılı cümleler, diğerleri ise birleşik yapılı cümlelerdir.

4. **B** **"B"** seçeneği tümüyle yüklemdir.

5. **C** **"C"** seçeneğinde **"ama"** bağlacı iki yüklemi birbirine bağladığından bu cümle bağlı bir cümledir.

6. **C** I. ve IV. cümle fiil cümlesi, diğerleri isim cümlesidir.

7. **C** **"C"** seçeneğinde yükleme **"ne kadar"** sorusunu sorduğumuzda aldığımız mantıklı cevap yükleme en yakın öge olduğundan vurgulanmıştır.

8. **E** **"E"** seçeneğinde sorunun cevabı kendimizde olduğundan bu tip cümlelere sözde soru cümlesi deriz.

9. **C** **"C"** seçeneği, "Geçen senenin raporlarını (Nesne) unutmuşum." (Yüklem)

10. **C** **"C"** seçeneğinde yüklem olumlu soru cümlesi (sözde) olduğundan biçim olumlu, anlam olumsuzdur.
"... gelişebilir mi hiç?" (gelişemez)

11. **E** A seçeneği sıralı cümledir ve ilk cümle "Hapishane / yarı tımarhanedir" şeklinde sırasıyla özne ve yüklem şeklinde ayrılmalıdır. B seçeneğinde "bana bu mektubu veren adam" sıfat tamlaması olduğu için bölünemez ve tamamen nesne olmalıdır. C seçeneğinde "lunaparka" sözcüğü ayrı ve dolaylı tümleç olarak alınmalıdır. D seçeneğinde "onun benim için bir hiç olduğunu" sözü eylemsi öbeği olduğu için bölünemez ve nesne olarak alınmalıdır.

12. **A** "Ne...ne" bağlacı kullanıldığı cümleye olumsuzluk anlamı katar ve bu bağlacın olduğu cümlelerde yüklem olumsuz olmaz. "Ne beni aradı ne de seni." cümlesinde "aradı" yüklemdir ve olumsuzluk eki almadığı için cümle biçimce olumludur. Anlamsal olarak "kimseyi aramadı" anlamı olduğu için cümle anlamca olumsuzdur.

13. **D** **"D"** seçeneğinde yüklem sonda olduğundan kurallı; yüklem fiil olduğundan cümle fiil cümlesidir.

14. **C** I, II, IV, V.cümle fiil, III. cümle isim cümlesidir.

15. **E** **"E"** seçeneğindeki **"ışıltıydı"** sözcüğü isim olduğundan bu cümle isim cümlesidir.

16. **D** I, II, III, V numaralı cümleler birleşik, IV numaralı cümle basit yapılıdır.

17. **D** IV numaralı cümle yüklemi sonda olmadığından devriktir.

18. **C** **"C"** seçeneği **"ne ... ne"** bağlacıyla kurulduğundan biçimce olumlu, anlamca olumsuzdur.

19. **D** **"D"** seçeneğinde isim olan **"yol"** sözcüğü yüklemdir ve yüklemi isim olan cümlelerde vurgu yüklemin kendisinde olduğu için cevap D'dir.

20. **A** A seçeneğindeki "konu komşu" sözü ikilemedir ve yükleme sorulan "kime" sorusuna cevap vermediği için dolaylı tümleç olarak kullanılmıştır.

MURAT YAYINLARI

Ses Bilgisi - I • TEST 18

1. Ünlüyle biten bir sözcüğe, ünlüyle başlayan bir ek getirildiğinde sonda iki ünsüzden kaçınma eğilimi gereği araya bir kaynaştırma harfi girer.

Buna göre aşağıdakilerden hangisinde kaynaştırma harfi kullanılmamıştır?

A) kötüyü
B) çeşmeye
C) sallayıp
D) onayı
E) sıvayıp

2. **Aşağıdaki cümlelerde geçen sözcüklerden hangisi küçük ünlü uyumuna uymaz?**

A) Okulun ilk günü kaza geçirdim.
B) Karşı takımın oyuncuları çok sert oynadı.
C) Birinciliği kendisine hedef olarak seçmişti.
D) Meydandaki havuzda çocuklar oynuyor.
E) Önceliğimiz rahat bir yaşam tarzı oluşturmak.

3. Büyükannemi hatırlıyorum
Dolayısıyla çocukluğumu

Altı çizili sözcüklerde görülen ses olayları aşağıdakilerden hangisinde doğru olarak verilmiştir?

A) Ünlü türemesi - ünsüz yumuşaması
B) Ünlü daralması - ünsüz benzeşmesi
C) Ünsüz düşmesi - ünlü türemesi
D) Ünlü daralması - ünsüz yumuşaması
E) Ünlü düşmesi - ünsüz benzeşmesi

4. **Aşağıdaki cümlelerin hangisinde ünlü daralması söz konusudur?**

A) Yapamadığı soruları gelip bana soruyor.
B) Bu akşam son otobüsle İzmir'e gidiyor.
C) Sinirlerime hâkim olamayınca sert konuşuyorum.
D) Bu işin böyle olacağını biliyordum.
E) Adalara gitmek için vapuru bekliyoruz.

5. **Aşağıdaki cümlelerin hangisinde türeme sırasında ünlü düşmesine uğrayan bir sözcük vardır?**

A) Şehrimizde açılan ilk tiyatro buydu.
B) Artık dayanacak sabrım kalmadı, dedi.
C) Aklına ilk gelen şeyi söylemeyi huy edinmiş.
D) Burada biricik arkadaşımı bırakıp gidiyorum.
E) İlerleyen zamanlarda nelerin değişeceğini göreceğiz.

6. **Aşağıdaki cümlelerin hangisinde ünsüz değişime uymayan bir sözcük kullanılmıştır?**

A) Bildiğim soruyu yanlış cevaplandırmak beni çok üzdü.
B) Ağacın gölgesinde biraz dinlendik.
C) Daha fazla kazanmak için memurluğu bırakıp ticarete atıldı.
D) Yorgunluğunu atmak amacıyla bir süre kestirdi.
E) Sağlık sorunları yüzünden işe gidemedi.

MURAT YAYINLARI

7. **Aşağıdaki cümlelerin hangisinde bir ses olayı yoktur?**

A) Hangi kapıyı açsam karşımda onu görürüm.
B) Yılanın sevmediği ot burnunda bitermiş ya öyle bir şey.
C) Yaşamda hepimiz hoşlanmadığımız insanlarla bir arada olmuşuzdur.
D) İyi ile herkes anlaşır, önemli olan kötü ile anlaşmak.
E) Yaşça eşit olmadığım insanlarla tartışmaya girmedim.

8. **Aşağıdaki cümlelerdeki altı çizili sözcüklerden hangisi ünsüz benzeşmesine örnek gösterilemez?**

A) Bu soruyu nerede gördüğümü unuttum.
B) Onun kalbimde açtığı yara hâlâ kapanmadı.
C) Çocuğun koluna hafifçe dokunup onu uyandırdı.
D) Onun inatçı kişiliği hepimizi bezdirdi.
E) Derinlikten uzak tartışmalara girmem

9. **Aşağıdakilerin hangisinde altı çizili sözcükte ikizleşme vardır?**

A) Çocuk yattığı yerden emirler veriyor.
B) Ben hakkım olan şeyler için çabalıyorum.
C) Uzun kollu bir gömlek giymişti.
D) Sessiz sedasız aramızdan ayrıldı.
E) İki yıl önce devlette görevliydi.

10. **Aşağıdakilerin hangisinde ünsüz benzeşmesi yoktur?**

A) İçimdeki sıkıntıyı gidermek için biraz dolaştım.
B) Çiçeklerin mis gibi kokusu etrafa yayılmış.
C) Durakta beklerken bir reklam dikkatimi çekti.
D) Benim bu işten beklentim çok yüksek değil.
E) Oyunculuğa alışmak için küçük tiyatrolarda çalıştı.

11. **Aşağıdaki cümlelerin hangisinde ünsüz düşmesine örnek vardır?**

A) Bunca yolu tepip notları almaya geldim.
B) Karşıma çıkmadan önce biraz düşünmeli.
C) Üst geçide gidip arabaları izledi.
D) Küçülen giysilerini kardeşi giyer.
E) Hep böyle bir evde yaşamak isterdim.

12. Olacakları hissettim de kimseye bir şey söylemedim.

Bu cümlede altı çizili sözcükte hangi ses olayları vardır?

A) Ünsüz türemesi - ünsüz benzeşmesi
B) Ünsüz yumuşaması - ünlü türemesi
C) Ünlü düşmesi - ünsüz benzeşmesi
D) Ünlü daralması - hece düşmesi
E) Ünsüz benzeşmesi - ünsüz yumuşaması

13. **Aşağıdaki cümlelerin hangisinde ünlü düşmesinin nedeni diğerlerinden farklıdır?**

A) Onun konu ile ilgili fikrini aldım.
B) Hafta sonu bu şehri doyasıya gezeceğiz.
C) Yapılan yanlışlara rağmen onu affettik.
D) Son günlere doğru sabrım iyice tükendi.
E) Alnıma ne yazıldıysa onu çekmek zorundayım.

14. Bazı bileşik sözcüklerin oluşumu sırasında ünlü türemesi ya da düşmesi gerçekleşebilir.

Aşağıdakilerin hangisinde bu açıklamayı örnekleyen bir sözcük yoktur?

A) Yıllar sonra arkadaşını affetmiş.
B) Okumayı çok istediğim kitabı bana alıverdi.
C) Yanlış hesaplarla işimi kaybettim.
D) Bu geceki sarsıntıyı o da hissetmiş.
E) Diş ağrısına sabaha kadar zor sabrettim.

MURAT YAYINLARI

/muratyayincilik

15. Aşağıdakilerin hangisinde bir sözcükte birden çok ses olayı görülmektedir?

A) Kaybettiğim kitabı sonunda buldum.
B) Hedeflerime ulaşmak için var gücümle çalışıyorum.
C) Beklentilerimi gerçekleştiremezsem mutsuz olurum.
D) Bu fırsatı çok iyi değerlendirmeliyim.
E) Son ümidim onun bize yardım etmesi.

16. Dikenleri kanattı
Gözler o duyan delikler
Şüphe oynattı
Hızla sallanana beşikler
Bu dizelerde aşağıdaki ses olaylarından hangisi vardır?

A) Ünsüz düşmesi
B) Ünsüz benzeşmesi
C) Ünlü türemesi
D) Ünlü daralması
E) Ünsüz yumuşaması

17. Aşağıdaki cümlelerin hangisinde ses düşmesi ya da ses türemesine örnek olacak bir kullanım yoktur?

A) Suç işleyen her çocuk affedilmeyi bekler.
B) Biraz daha sabret, bence başarılı olacaksın.
C) Size çok önemli bir sırrımı söylemek istiyorum.
D) Dedem, eskiden bize masal anlatırdı.
E) Geç kaldığımız için açtı ağzını, yumdu gözünü.

18. Uçmak için kanatlanmayı bekleyen
I
Devrilmiş sütunların arasından
II
Yavru kuş gibi doğduğu kayada
III
Alnında mor salkımlar vardı
IV V
Bu dizelerdeki numaralanmış sözcüklerin hangilerinde ünlü düşmesi vardır?

A) I ve II B) II ve IV C) II ve V
D) III ve IV E) IV ve V

19. Aşağıdaki cümlelerin hangisinde ünlü daralmasına örnek yoktur?

A) Günümüzde, sanata gereken önem verilmiyor.
B) Edebiyat yapacağız diye birçok yanlışa düşüyoruz.
C) Masallarda arıyorum çok önce yitirdiğim çocukluğumu.
D) Bilmiyordum çalışmanın bu kadar zor olduğunu.
E) Hazırlıklarımız bir saat içinde bitecek.

20. Aşağıdaki dizelerin hangisinde diğerlerinden daha fazla ses olayı meydana gelmiştir?

A) İnsanın zihninde kalan detaylar zamanla kaybolur.
B) Özgür ama ölçülü, içten ama mesafeli, yaşlı ama çocuksu biridir.
C) İnanç, insanların mutlaka ihtiyaç duydukları bir histir.
D) İnsanlarla hiç de iyi ilişkiler kuramazdım.
E) Öğrencilerin çoğu uyarılarıma rağmen dersi dinlemiyor.

MURAT YAYINLARI

Açıklamalar • TEST 18

1. **D** "Kötüyü, çeşmeye, sallayıp, sıvayıp" sözcüklerinde "y" sesleri kaynaştırma harfidir. "onayı" sözcüğünün kökü "onay" olduğu için kaynaştırma harfi yoktur.

2. **D** "Havuzda" sözcüğünde "a" sesinden sonra "u" sesi gelmiştir. Bu da küçük ünlü uyumuna aykırıdır.

3. **D** "Hatırlıyorum" sözcüğünde "-la" ekindeki "a" sesi "ı" sesine dönüştüğü için ünlü daralmasına örnektir. "Çocukluğumu" sözcüğünde "-luk" ekindeki "k" sesi "ğ" sesine dönüştüğü için ünsüz yumuşamasına örnektir.

4. **E** "Bekliyoruz" sözcüğünde "-le" ekindeki "e" sesi "i" sesine dönüştüğü için ünlü daralması vardır.

5. **E** "İlerleyen" sözcüğü "ileri" isim kökünden türeyen bir sözcüktür. Sözcüğün kökündeki "i" sesi türeme esnasında düşmüş, ünlü düşmesi gerçekleşmiştir.

6. **C** "Memurluğu" sözcüğünde "-luk" ekindeki "k" sesi "ğ" sesine dönüşmüş, ünsüz değişimi(yumuşaması) olmuştur.

7. **D** A seçeneğinde "kapıyı" sözcüğünde kaynaştırma harfi kullanılmış. B seçeneğinde "sevmediği" sözcüğünde ünsüz yumuşaması, "burnunda" sözcüğünde ünlü düşmesi gerçekleşmiştir. C seçeneğinde "hoşlanmadığımız" sözcüğünde ünsüz yumuşaması gerçekleşmiştir. E seçeneğinde "yaşça" sözcüğünde ünsüz sertleşmesi, "olmadığım" sözcüğünde ünsüz yumuşaması gerçekleşmiştir.

8. **A** "Gördüğümü" sözcüğünde "-dük" ekindeki "k" sesi "ğ" sesinde dönüştüğü için ünsüz yumuşaması örneğidir.

9. **B** "Hakkım" sözcüğünün kökü "hak"tır. Bu köke ünlü ile başlayan ek geldiği için kökün sonundaki "k" sesi ikizleşmiştir.

10. **B** A seçeneğinde "dolaştım" sözcüğü, C seçeneğinde "durakta" sözcüğü, D seçeneğinde "işten" sözcüğü, E seçeneğinde "çalıştı" sözcüğünde ünsüz benzeşmesi vardır.

11. **D** "Küçülen" sözcüğünün kökü "küçük"tür. Buna gelen "-l" yapım ekinden dolayı kökteki "k" sesi düşmüş ve ünsüz düşmesine örnek olmuştur.

12. **A** "Hissettim" sözcüğü "his" ismiyle "etmek" yardımcı eyleminin birleşmesinden oluşmuştur. Bu birleşme sırasında "s" sesi türemiş ve "-di" ekindeki "d" sesi "t" sesine dönüşerek ünsüz benzeşmesine uğramıştır.

13. **C** "Fikrini, şehri, sabrım, alnıma" sözcüklerindeki ünlü düşmesi çekimlenme sırasında; "yanlışlara" sözcüğündeki ünlü düşmesi türeme sırasında gerçekleşmiştir.

14. **B** A seçeneğindeki "affetmiş" sözcüğünde ünsüz türemesi, C seçeneğindeki "kaybettim" sözcüğünde ünlü düşmesi, D seçeneğindeki "hissetmiş" sözcüğünde ünsüz türemesi, E seçeneğindeki "sabrettim" sözcüğünde ünlü düşmesi vardır.

15. **A** "Kaybettiğim" sözcüğünün kökü olan "kayıp" sözcüğünde ünlü düşmesi ve ünsüz yumuşaması, "-dik" ekindeki "k" sesi de "ğ" sesi olduğundan ünsüz yumuşaması vardır.

16. **B** "Kanattı, oynattı" sözcüklerinde "-dı" ekindeki "d" sesi "t" sesine dönüşmüş, ünsüz benzeşmesi olmuştur.

17. **D** A seçeneğinde ""affedilmeyi" sözcüğünde ünsüz türemesi, B seçeneğinde "sabret" sözcüğünde ünlü düşmesi, C seçeneğinde "sırrımı" sözcüğünde ünsüz türemesi, E seçeneğinde "ağzını" sözcüğünde ünlü düşmesi vardır.

18. **B** "Devrilmiş" sözcüğünün kökü "devir" eylemidir. Bu kökteki "i" sesi düşmüş ve ünlü düşmesi gerçekleşmiştir. "Alnında" sözcüğünün kökü "alın" sözcüğüdür. Kökteki "ı" sesi düşmüş ve ünlü düşmesi gerçekleşmiştir.

19. **E** A seçeneğinde "verilmiyor" sözcüğü, B seçeneğinde "diye" sözcüğü, C seçeneğinde "arıyorum" sözcüğü, D seçeneğinde "bilmiyordum" sözcüğü ünlü daralmasına örnektir.

20. **A** "Zihninde" sözcüğünde ünlü düşmesi (zihin - in - de), "kaybolur" sözcüğünde ünsüz yumuşaması ve ünlü düşmesi (kayıp olur) vardır.

MURAT YAYINLARI

Ses Bilgisi - II • TEST 19

1. Bir uğultu başlıyor söz dağarcığımda, sözcükler üşüşüyor zihnime; acılı, ezik, buruk, yorgun,
I II III
çekingen, kırgın, suçlayıcı, küskün...
IV V

Bu cümledeki altı çizili sözcüklerin hangisinde ünsüz benzeşmesi vardır?

A) I B) II C) III D) IV E) V

2. Verdiği her uzun aranın ardından yeni albümüyle gönlümüzü fethetmeyi başaran pop müziği sanatçısı, bu kez eski şarkılarını yeniden yorumlayarak geçmişe bugünün penceresinden bakıyor ve dinleyiciyi yine oldukça etkiliyor.

Bu cümlede aşağıdaki ses olaylarından hangisi yoktur?

A) Ünlü daralması
B) Ünlü düşmesi
C) Ünsüz yumuşaması
D) Ünsüz türemesi
E) Ünsüz benzeşmesi

3. Eskiden ülkelerin zenginliğinin ölçütü, sahip olunan toprak ve doğal kaynakların miktarıydı; zenginleşmenin yolu, daha geniş topraklara hükmetmekten geçiyordu. 20. yüzyılın ikinci yarısında bilimsel araştırmalara ağırlık verilmesiyle bu anlayış değişti, bilgi üretimi önem kazandı.

Bu parçada aşağıdaki ses olaylarından hangisi yoktur?

A) Ünlü düşmesi
B) Ünsüz yumuşaması
C) Ulama
D) Ünsüz benzeşmesi
E) Ünlü türemesi

4. Önce baygın bir iniltiydi yamaçtan duyulan, sonra bir gölge belirmişti kuş uçmaz yoldan; köylümün titreterek bağrı yanık toprağı inliyor, baktım, uzaktan görünen bir kağnı...

Bu parçada aşağıda verilen ses olaylarından hangisi yoktur?

A) Ünlü düşmesi
B) Ünsüz düşmesi
C) Sert ünsüz yumuşaması
D) Ünlü daralması
E) Ünsüz benzeşmesi

5. **Aşağıdaki cümlelerin hangisindeki altı çizili sözcük ek alırken farklı bir ses olayına uğramıştır?**

A) Susuzluktan balkondaki tüm çiçekler sararmış.
B) Yazar, bu romanında çok fazla devrik cümle kullanmış.
C) Soğuktan burnu kıpkırmızı olmuş.
D) Bu konuda senin de fikrini almak istiyorum.
E) Otobüsümüz, adını bilmediğim büyücek bir kasabadan geçti.

6. **Aşağıdaki cümlelerde altı çizili sözcüklerde meydana gelen ses olayları ikişerli gruplanırsa hangisi dışta kalır?**

A) Ağaçtaki bütün kayısıları toplamışlar.
B) Burnunu bir defa daha yaptıracakmış.
C) Yazarın bu son kitabını hiç beğenmedim.
D) Çocuğun kaç gündür karnı ağrıyormuş.
E) Derdimi kiminle paylaşacağımı bilmiyorum.

MURAT YAYINLARI

7. I. Kardeş görmüyorum ama hâlâ duyabiliyorum.
II. Geçmiş zamanlar geleceklerden parlak değil
III. Alıştım sözcüklerin devriyesi olmaya
IV. Akşam parıltısından büyük zaferler üzerine
V. Dağlar dalgalanmıştı, bayrak değil

Yukarıdaki dizelerin hangisinde "ünsüz benzeşmesi" ne örnek vardır?

A) I ve II
B) I ve III
C) II ve IV
D) III ve V
E) IV ve V

8. **Aşağıdaki cümlelerin hangisinde süreksiz sert ünsüzlerin yumuşamasına bir örnek vardır?**

A) Siyasal reklamcılık, Türkiye'nin siyasal kültürüne yeni bir boyut getirmiştir.
B) Bu araştırma, sonuçları öğrencilerin görüşlerini yansıtmaktadır.
C) Gelecek ay yayımlanacak dergimizin kapağı, öğrencilerimiz tarafından hazırlanacak.
D) Son yıllarda demokrasi, bir siyasal sistem olarak yeni anlamlar kazanmıştır.
E) Anketteki ilk soru, seçmenlerin cinsiyetiyle ilgilidir.

9. **Aşağıdaki cümlelerin hangisinde altı çizili sözcük, türetilirken bir ses olayına uğramıştır?**

A) Genç yaşına rağmen saçları ağarmış.
B) Geçen yıl dikilen bu elbise iyice daralmış.
C) Uykusuzluktan gözlerinin altı morarmış.
D) Kilo alınca yanakları iyice pembeleşmiş.
E) Saçları son aylarda çok beyazlaşmış.

10. Örttü üstüne yıldızlı yorganını gece
Bir başından bir başına göğün
Bu dizelerde aşağıdakilerden hangisi yoktur?

A) Ses düşmesi
B) Ünsüz yumuşaması
C) Kaynaştırma harfi
D) İyelik eki almış bir sözcük
E) Ünsüz benzeşmesi

11. **Aşağıdaki cümlelerin hangisinde ünsüz benzeşmesinin bir örneği vardır?**

A) Kavgayı başlatan ben değildim.
B) Çocuklarla bir süre kartopu oynadım.
C) Yoğun kar yağışı sabaha kadar sürdü.
D) Saçaklardan bıçak gibi buzlar sarkıyordu.
E) İstersen dolaptan içecek de al.

12. **Aşağıdaki cümlelerin hangisinde ünsüz değişimine uğrayan bir sözcük vardır?**

A) Ucuz şampuanlar saça zarar veriyor.
B) Bu programı uzun zamandır izliyorum.
C) Bisiklet yarışına katılıyor musun?
D) Dersin son on dakikasında sınav değerlendirildi.
E) Buraya geldiğini o da biliyor mu?

13. **Aşağıdakilerin hangisinde ses türemesi vardır?**

A) Hatalarında ısrarcı olacağını sanmıyorum.
B) Biricik dostumu elbette ki kırmak istemem.
C) Deniz, ufukta pırıl pırıl parlıyordu.
D) Yolculuk herkesi heyecanlandırmıştı.
E) Yorgunluğumuzu müzik dinleyerek attık.

MURAT YAYINLARI

/muratyayincilik

14. Aşağıdakilerin hangisinde ünlü daralmasına uğrayan bir sözcük vardır?

A) Söylediğim konuyla ilgilendiğini düşünmüyorum.
B) Orkun'un arkadaşını ben de tanıyorum.
C) Yarın akşam Marmaris'e gidiyorum.
D) Arabayı her zaman çok hızlı kullanıyorsun.
E) Haftaya Göztepe'deki evi alıyoruz.

15. Aşağıdaki cümlelerin hangisinde ünlü düşmesine uğrayan bir sözcük yoktur?

A) Orada bir türlü zihnimi toparlayamadım.
B) Bir süre sonra sizden ayrılıyorum.
C) Masanın şekli hoşuma gitmedi.
D) Daha çok halk müziği dinliyorum.
E) İsteğimi "Emriniz olur." diyerek yerine getirdi.

16. Aşağıdaki altı çizili sözcüklerin hangisinde farklı bir ses düşmesi vardır?

A) Yaramazlıklarınla sabrımı taşırıyorsun.
B) Minicik bir kelebekten korkulur mu?
C) Kimse benim fikrimi sormadı.
D) Bu kitaplar ufkumu genişletti.
E) Aklını kullansaydı bu duruma düşmezdi.

17. Cebinde akrep mi var senin!

Bu cümledeki altı çizili sözcükte görülen ses olayı aşağıdakilerin hangisinde vardır?

A) Kalıbının adamı değilmişsin.
B) Taşlar tepemize doğru yuvarlandı.
C) Fidanlar kısa sürede boyuma geldi.
D) Kitap okumaktan çok tat alıyorum.
E) Arabada iki kişilik daha yer varmış.

18. Aşağıdaki cümlelerin hangisinde ünsüz değişimine aykırı bir sözcük vardır?

A) Kuşun kanadı kırılınca ufaklık çok üzüldü.
B) Gidiyorum bütün aşklar yüreğimde.
C) Nasibinde ne varsa hayat sana onu verir.
D) Hâkimler adaleti adil olarak sağlamalıdır.
E) Uras, kaşığı tutmayı henüz beceremiyor.

19. Davulun sesi uzaktan hoş gelirmiş.

Bu cümledeki altı çizili sözcükte ses olayı aşağıdakilerin hangisinde vardır?

A) Evin arkasındaki yoldan gideceksiniz.
B) Kapının ardına kadar açık olduğunu gördüm.
C) Her şeyi en baştan düşünmeliydin.
D) Fabrikanın dumanı bir ip gibi uzuyordu.
E) Sırtında ince bir gömlek vardı.

20. Aşağıdakilerin hangisinde hem ünsüz yumuşaması hem ünsüz benzeşmesi örneği vardır?

A) Pencerelerden birini kapatalım.
B) Ağaca tırmanırken yere düştüm.
C) Çadırın ortasındaki direk çatlamış.
D) Sessizce yanımızdan uzaklaştı.
E) Yine çorabını ters giymişsin.

MURAT YAYINLARI

Açıklamalar • TEST 19

1. E "küskün" sözcüğünde ünsüz benzeşmesi vardır. "küs-" eylem köküne "-gün" fiilden isim yapım eki gelmiş ve "g" sesi, "k" sesine dönüşmüştür.

2. D etkiliyor → etkil**e**yor (ünlü daralması)
gönlümüzü → gönülümüzü (ünlü düşmesi)
verdiği → verdi**k**i (ünsüz yumuşaması)
sanatçı → sanat**c**ı (ünsüz benzeşmesi)

3. E hükmetmek → hükümetmek (ünlü düşmesi)
zenginliğinin → zenginlikinin (ünsüz yumuşaması)
eskid**e**n **ü**lkelerin → ulama
değişti → değiş**d**i (ünsüz benzeşmesi)

4. B iniltiydi → inilti **i**di (ünlü düşmesi)
toprağı → toprak**ı** (ünsüz yumuşaması)
inliyor → inl**e**yor (ünlü daralması)
yamaçtan → yamaç**d**an (ünsüz benzeşmesi)

5. E sararmış → sarıarmış (ünlü düşmesi)
devrik → dev**i**rik (ünlü düşmesi)
burnu → bur**u**nu (ünlü düşmesi)
fikrini → fik**i**rini (ünlü düşmesi)
büyücek → büyü**k**cek (ünsüz düşmesi)

6. A "burnunu" ve " karnı" sözcüklerinde ünlü düşmesi (bur**u**nunu, karının**ı**), "kitabını" ve "derdimi" sözcüklerinde ünsüz yumuşaması (kita**p**ını, der**t**imi) vardır. "Ağaçtaki" sözcüğünde ünsüz sertleşmesi vardır.

7. D alıştım → alış**d**ım (III. dize)
dalgalanmıştı → dalgalanmış**d**ı (V. dize)

8. C "kapağı" sözcüğünde "kapak" ismine iyelik eki gelmiş ve ünsüz yumuşaması gerçekleşmiştir.

9. A "ağarmış" sözcüğünün kökü "ak" sözcüğüdür ve ünsüz yumuşaması gerçekleşmiştir.

10. A göğün → gö**k**ün (ünsüz yumuşaması)
başına → baş - ı - **n** - a (kaynaştırma harfi ve iyelik eki almış sözcük)
örttü → ört**d**ü (ünsüz benzeşmesi)

11. E "İstersen dolaptan içecek de al." cümlesindeki "dolaptan" sözcüğünde "-dan" ayrılma hâl ekindeki "d" sesi "t" sesine dönüşerek ünsüz benzeşmesi olmuştur.

12. E "Buraya geldiğini o da biliyor mu?" cümlesindeki "geldiğini" sözcüğünde "dik-" ekinin "k" ünsüzü "ğ"ye dönüşmüş ve ünsüz değişimi gerçekleşmiştir.

13. B "biricik" sözcüğünde "bir" kelime köküne "-cik" eki gelmiş ve kelimenin bünyesinde bulunmayan "i" sesi kullanılmış, böyle ünlü türemesi gerçekleşmiştir.

14. A "düşünmüyorum" sözcüğündeki "me-" olumsuzluk eki "-yor" ekinden dolayı "mü-"ye dönüşmüş ve ünlü daralması olmuştur.

15. D zihnimi → zih**i**nimi (A seçeneği)
ayrılıyorum → ayırılıyorum (B seçeneği)
şekli → şek**i**li (C seçeneği)
emriniz → em**i**riniz (E seçeneği)

16. B sabrımı → sabırımı (ünlü düşmesi)
minicik → mini**k**cik (ünsüz düşmesi)
fikrimi → fik**i**rimi (ünlü düşmesi)
ufkumu → uf**u**kumu (ünlü düşmesi)
aklını → akılını (ünlü düşmesi)

17. A "cebinde" sözcüğünde ünsüz yumuşaması vardır (ce**p**inde → ce**b**inde). A seçeneğindeki "kalıbının" sözcüğünde de ünsüz yumuşaması vardır (kalı**p**ının → kalı**b**ının)

18. D "Hâkimler adaleti adil olarak sağlamalıdır." cümlesindeki "adalet" sözcüğü sert ünsüzle bitip ünlüyle başlayan bir ek almasına rağmen kelimenin sonundaki "t" ünsüzü yumuşamamıştır.

19. C "uzaktan" sözcüğünde ünsüz sertleşmesi vardır (uzak - **d**an → uzak - **t**an). "baştan" sözcüğünde de ünsüz sertleşmesi vardır (baş - **d**an → baş - **t**an).

20. B "ağaca" sözcüğünde ünsüz yumuşaması (ağaç - a → ağa**c** - a), "düştüm" sözcüğünde ünsüz benzeşmesi (düş - **d**üm → düş - **t**üm) vardır.

MURAT YAYINLARI

Yazım Kuralları - I • TEST 20

1. Aşağıdaki cümlelerin hangisinde altı çizili sözün yazımı yanlıştır?

A) El verip bu işin üstesinden gelmeyi başardık.
B) Sokakta başı boş dolaşan köpekler vardı.
C) Her gün aynı araca binerek işine gidiyordu.
D) Çocuğun odası her zamanki gibi dağınıktı.
E) Birtakım insanlar yüzünden huzuru bozulmuştu.

2. Aşağıdakilerin hangisinde bir yazım yanlışı yoktur?

A) Adam üçgünlük yoldan aç susuz gelmişti.
B) Doğduğum şehri terketmek bana çok zor geliyor.
C) Yanımızda kitap da yoktu, öylece kalakaldık.
D) Birkaç kişi uyur gezerliğin genetik olduğunu söyledi.
E) Daracık bir odada hepimiz hapis olduk.

3. Aşağıdaki cümlelerin hangisinde altı çizili sözcük yanlış yazılmıştır?

A) Üst komşumuz çok açıkgöz bir adamdı.
B) Bugünlerde denizde denizanası vardı.
C) Ünlü astrolog televizyon programına katılmıştı.
D) İçtiği çorbada ekşimtırak bir tat vardı.
E) Kaptan, bulunduğu yerin kordinatlarını verdi.

4. Aşağıdaki cümlelerin hangisinde yazım yanlışı yoktur?

A) Uzak melmeketlerden gelerek buraları yurt edinmişler.
B) Mağaraların koğuklarında her türden hayvana rastlanıyor.
C) Görünüşe bakıp da sakın aldanmayasın.
D) Çocuklar büyüyüp evden ayrılınca ana ile baba yapayanlız kaldı.
E) Asvalt yoldan iki kilometre ilerledikten sonra sola dön.

5. Aşağıdaki cümlelerin hangisinde yazım yanlışı yoktur?

A) Büyük salonda 18'nci yüzyıldan kalma giysiler sergilendi.
B) Söyliyeceğini şaşırınca izleyenler gülmeye başladı.
C) Yerdeki halının rengi yeryer solmuştu.
D) Perdeler eskimiş, koltukların yayları fırlamıştı.
E) Sen keyifine bak, işler yolunda.

6. Aşağıdakilerin hangisinde yazım yanlışı vardır?

A) Sinoplu Hamdi Bey, 1963'de yazdığım bu romanın başkişisiydi.
B) Kemal'i ben, çok sonra Ankara'da tanıdım.
C) Halkevleri de kentli gençlere, ödünç kitap veriyordu.
D) Düşüncelerimi birkaç kez, yazılı olarak bildirdim.
E) Birlikte Akçaköy'e, sonra da Ardıçlı'ya gittik.

7. Aşağıdaki cümlelerin hangisinde, yazım yanlışı yoktur?

A) İkide bir, başbaşa verip birşeyler konuşuyorlar.
B) Birinci sıraya hukuğu yazmış; bakalım kazanabilecek mi?
C) Biz de sizden söz ediyorduk, geldiğinizi farkedemedik.
D) O toplantıda Ahmet'te uyumağa başladı.
E) Dün akşam, TV'de güzel bir program vardı.

MURAT YAYINLARI

8. Ankara Devlet Konservatuvarındaki (I)
Klasik Türk Müziği (II) hocamla
Tamburi Cemil Bey'in (III) plaklarından (IV) birini
dinlerken göz yaşlarımızı (V) tutamamış ve
birbirimize (VI) bakıp şu soruyu sormuştuk: "Acaba
sanatçımız sağ olsaydı (VII) şimdi ne yapardık?"

Bu parçadaki numaralanmış yerlerden hangilerinde yazım yanlışı vardır?

A) I ve II B) II ve V C) III ve V
D) IV ve VI E) V ve VII

9. İnsanın gelişimine bakarsak bu güne bilgisayar yada uçakla gelmedi. Bilmin çok hızlı ilerlemesine karşın insanoğlu hâlâ yerel bir tohumdan küçük çiftçinin ürettiği lezzetli, sağlıklı gıdaları arıyor. Nesilden nesle devreden bu gıdaları ve yetiştirecek insanları bulmak zorlaştıkça fiyatları da doğal olarak artıyor.

Bu parçada kaç yazım yanlışı yapılmıştır?

A) 2 B) 3 C) 4 D) 5 E) 7

10. Kırklareli ilinin Demirköy ilçesinin Sarpdere Köyünün (I)
6 km güneybatısında (II) yer alır Dupnisa Mağarası. (III)
Trakya'nın turizme açılmış tek mağarası olan Dupnisa'nın toplam uzunluğu 3150 metre. On binlerce (IV)
yılda oluşmuş sarkıt ve dikidin (V) büyülü dünyası,
doğa dostlarını bekliyor.

Bu parçadaki numaralanmış sözlerden hangisinde yazım yanlışı vardır?

A) I B) II C) III D) IV E) V

11. **Aşağıdaki cümlelerin hangisinde bir yazım yanlışı vardır?**

A) Bu sınava başvuru için 20 ocak son günmüş.
B) Bu yıl da yaz tatilinde Ayvalık'a gitmeyi düşünüyor musunuz?
C) İhtiyar balıkçı, deniz kenarındaki kulübesinde her şeyden uzakta yaşıyordu.
D) Beni yalnızca sen anlayacağın için sana bunları anlatıyorum.
E) Yedikule sahilinde gün batımını seyrediyoruz.

12. Bolu Dağları'nın dorukları, karlı kıvrımları, beyazlara bürünmüş kayın ormanları, dağ evleri, uçsuz bucaksız yaylaları, gürül gürül akarsuları ve düş gücünü zorlayan manzaraları beni Kartalkaya' ya götüren otomobilin camından peşpeşe akıp gidiyor.

Bu parçadaki numaralanmış sözlerden hangisinde yazım yanlışı vardır?

A) I B) II C) III D) IV E) V

13. 1700'lerde ebru, Avrupalılar (I) tarafından özellikle
kitap ciltciliğinin (II) vazgeçilmez (III) malzemelerinden
biri hâline getirilmiştir. Hatta Fransa'da bir endüstri (IV)
kolu hâline gelmiş, ebrulu cilt kâğıdı talebine
yetişebilmek (V) için 1800'lerin başlarında yarı mekanik
bir ebru makinesi dahi yapılmıştır.

Bu parçadaki numaralanmış sözlerden hangisinde yazım yanlışı vardır?

A) I B) II C) III D) IV E) V

MURAT YAYINLARI

14. Aşağıdaki cümlelerin hangisinde bir yazım yanlışı vardır?

A) 1946 yılında Almanya macerasına katıldım.
B) Yazılarını okuyanlar ondaki ben'i hemen fark eder.
C) "Yaban"da köylü ve aydın çatışması işlenmiştir.
D) Bu sorun PTT'yide yakından ilgilendirir.
E) İngilizceyi ve İtalyancayı çok iyi biliyordu.

15. Aşağıdaki cümlelerin hangisinde yazım yanlışı yapılmamıştır?

A) Bu eski Anadolu Kentinde evler neden iç içe yapılmıştır?
B) Tut ki onunla baş başa görüştün, ona konuyu açabilir misin?
C) Ortada hiç bir neden yokken niçin okulu terk ediverdin?
D) Fırat'ı geçtinizmi çırılçıplak dağlar sizi karşılar.
E) Son zamanlar da işleri büsbütün serince işten çıkarıldı.

16. Aşağıdaki cümlelerin hangisinde bir yazım yanlışı yapılmıştır?

A) Pencereye gel, bak ne söyliyeceğim sana, Huriye Hanım!
B) Mart başlayalı kırkını geçmiş nice tanıdıklarım hastalandı.
C) Türk gazeteciliği, bu yıl içinde, yüz yılını doldurup yüz birinci yılına giriyor.
D) Tren yolcusunun, kompartımana yabancı sokmamak için çeşitli hileleri vardır.
E) Aksiyon; roman, tiyatro ve öyküde, düşünce ve betimlemenin dışında kalan çıplak olaydır.

17. Aşağıdaki cümlelerin hangisinde bir yazım yanlışı yapılmıştır?

A) Sınıftaki durumu iyi ki öğretmeni ondan şikâyetçi olmadı.
B) Böyle bir kahır kimi olsa mahfeder.
C) Her varsayım, büyük bir umuttur araştırmacı için.
D) Çiçeğe kıyan, kanaryayı yaşatmaz; insana da kasteder.
E) Çanakkale'ye gelen Çardak'a uğramalı, sonra Abide'yi görmeli.

18. Aşağıdaki cümlelerin hangisinde yazım yanlışı yapılmamıştır?

A) Dün gece İzmir Sinemasında Savaştan sonra filmini seyrettim.
B) Tarık Buğra, Milliyet Gazetesi'nde yazdığı bir yazıda bunu anlatıyor.
C) Kapıdan girince önce Nadirin kedisiyle karşılaşırdınız.
D) Cemal Nadir Sokağı sık sık gittiğimiz yerdi.
E) Bir akşam Ali beyle beni yemeğe götürdü.

19. Aşağıdaki cümlelerin hangisinde yazım yanlışı vardır?

A) Aradığın bilgiyi ansiklopedinin 6'ncı cildinde bulabilirsin.
B) Mektubuna "Sayın Başkan" diye başlayabilirsin.
C) Konser, yarın akşam saat 20.30'a ertelenmiş.
D) 1975'te liseyi, 1979'da üniversiteyi bitirmiş.
E) Bayramda 500 km.nin üstünde yol kat ettik.

20. Aşağıdaki cümlelerin hangisinde bir yazım yanlışı yapılmıştır?

A) İki yıldır Yukarı Kızılırmak'ta coğrafi araştırmalar yapıyor.
B) İstanbul Üniversitesinde yüksek lisans yapmaya başladım.
C) Kasabadaki mazlumları savunduğu için Avukat Ömer diye anılırdı, o.
D) Fakültede okurken Tanpınar'ın incelikli Türkçesi'nden çok etkilendim.
E) Antep fıstığı, lezzetinden dolayı tüm dünyada ünlü olmuştur.

MURAT YAYINLARI

Açıklamalar • TEST 20

1. **B** "Başı boş" sözcüğünde anlam değişmesi olduğu için bu sözcük bitişik yazılmalıdır.

2. **C** Seçeneklerdeki yazım yanlış olan sözcüklerin doğru yazımları şöyledir:
A seçeneği → üç günlük
B seçeneği → terk etmek
D seçeneği → uyurgezer
E seçeneği → hapsolduk

3. **E** "Kordinatlarını" sözcüğünün doğru yazımı "koordinatlarını" şeklindedir.

4. **C** Seçeneklerdeki yazım yanlış olan sözcüklerin doğru yazımları şöyledir:
A seçeneği → memleket
B seçeneği → kovuk
D seçeneği → yapayalnız
E seçeneği → asfalt

5. **D** Seçeneklerdeki yazım yanlış olan sözcüklerin doğru yazımları şöyledir:
A seçeneği → 18'inci
B seçeneği → söyleyeceğimi
C seçeneği → yer yer
E seçeneği → keyfine

6. **A** "Sinoplu Hamdi Bey, 1963'de yazdığım bu romanın başkişisiydi." cümlesinde ünsüz sertleşmesine uymamaktan kaynaklı yazım yanlışı vardır: "1963'de" değil "1963'te" olmalıdır.

7. **E** Seçeneklerdeki yazım yanlış olan sözcüklerin doğru yazımları şöyledir:
A seçeneği → baş başa / bir şey
B seçeneği → hukuku
C seçeneği → söz ediyorduk
D seçeneği → Ahmet de

8. **B** Tür adları küçük harfle başlayacağı için II numaralı yer "klasik Türk müziği" şeklinde, "gözyaşı" da bitişik yazılmalıdır.

9. **C** Parçadaki "bu güne, yada, bilmin, nesle" sözcüklerinin yazımı yanlıştır. Bunların doğru yazımı "bugüne, ya da, bilimin, nesile" şeklindedir.

10. **E** Sonu sert ünsüzle biten her sözcükte ünsüz yumuşaması görülmez. Bu sebeple "dikidin" sözcüğü "dikitin" şeklinde yazılmalıdır.

11. **A** Belirli bir günü belirten ay ve gün adları büyük harfle başlayacağı için "ocak" sözcüğü büyük harfle başlamalıdır: 20 Ocak.

12. **E** İkilemeler ayrı yazılacağı için "peş peşe" sözcüğü ayrı yazılmalıdır.

13. **B** Sert ünsüzlerle biten bir sözcükten sonra "c, d, g" ile başlayan bir ek geldiğinde bu ünsüzlerde sertleşme olur. Buna göre de "ciltçiliğin" sözcüğü "ciltçiliğin" şeklinde yazılmalıdır.

14. **D** Bağlaçlar ayrı yazılacağı için "PTT'yi de" şeklinde yazılmalıdır.

15. **B** Seçeneklerdeki yazım yanlış olan sözcüklerin doğru yazımları şöyledir:
A seçeneği → kentinde
C seçeneği → hiçbir
D seçeneği → geçtiniz mi
E seçeneği → zamanlarda

16. **A** Konuşmadaki gereksiz ünlü daralması yazıda gösterilmez. Bu sebeple "söyleyeceğim" şeklinde yazılmalıdır.

17. **B** "Mahfeder" sözcüğünün doğru yazımı "mahveder" şeklindedir.

18. **D** Seçeneklerdeki yazım yanlış olan sözcüklerin doğru yazımları şöyledir:
A seçeneği → Savaştan Sonra
B seçeneği → gazetesinde
C seçeneği → Nadir'in
E seçeneği → Bey'le

19. **E** Birimlerin kısaltmasında nokta kullanılmayacağı için "km'nin" şeklinde yazılmalıdır

20. **D** Özel isimlerden sonra gelen yapım ekleri ve bunlardan sonra gelen çekim ekleri kesme işaretiyle ayrılmaz. Buna göre "Türkçesinin" sözcüğünün doğru yazımı bu şeklidedir.

MURAT YAYINLARI

/muratyayincilik

Yazım Kuralları - II • TEST 21

1. Aşağıdaki cümlelerin hangisinde "ki"nin yazımıyla ilgili bir yanlışlık yapılmıştır?

A) Ben de sonunda anladım ki her şey boşmuş.
B) Unutki beni, ben de seni zamanla unutayım.
C) Zamanın önemini sen ki iyi bilir ve zamanını iyi değerlendirirsin.
D) Mademki benimle gelmeyecektin, seni neden bekledim?
E) Elimdeki değerlerin korunması için çok çalışacağım.

2. Aşağıdaki cümlelerin hangisinde yazım yanlışı vardır?

A) Ankara'da bile birçok tanıdığım vardı.
B) Birkaç dakika beklerseniz yanınızda olurum.
C) Bu gün kendimi hiç de iyi hissetmiyorum.
D) Bir takım oyun öncesi kendini oyuna hazırlamalı.
E) Başarmak için insanüstü gayret gösterdiğinizi biliyorum.

3. Aşağıdaki cümlelerin hangisinde yazım yanlışı yapılmıştır?

A) Büyükçe bir sepetin içine girmeye çalışıyordu, bebek.
B) Ağaçtan düşünce omuzumu incitmişim.
C) Sözlerimi dinlemeyenleri elbette eleştiririm.
D) Onlardan uzak durduğumu annesi fark etmişti.
E) Bilmiyor ki seni ne çok sevdiğimi.

4. Aşağıdaki cümlelerin hangisinde yazım yanlışı yapılmıştır?

A) Sabah saatlerinde başladığı kitabı, elinden düşüremiyordu.
B) Güneş batarken gökyüzünün renk değişimi insanı büyülüyor.
C) Suyu açık unuttuğu için su parası bu kadar çok gelmiş.
D) Otobüse binenler arka tarafa doğru ilerlemeye çalışıyordu.
E) Arabanın camından sızan Güneş, gözlerimi rahatsız ediyordu.

5. Aşağıdaki cümlelerin hangisinde yazım yanlışı yoktur?

A) Biz İslamiyet'i 10. yüz yılda kabul ettik.
B) İstanbul İli tüm hareketliliğiyle güne başlıyordu.
C) Bütün işlerle ben cebelleşmek zorun da değilim ki!
D) Siz bu yıl Tuz gölüne gidecek misiniz?
E) İtfaiye, 2012 yılında üç yüz elli kişiyi işe alacakmış.

6. Meddah halk tiyatrosunda taklide (I) dayalı bir oyun türüdür. Oyunun tek sanatçısı, (II) kişisel yeteneklerini kullanarak seyirciyi çevresinde tutmaya çalışır. Meddahda (III) basit de olsa herhangi bir sahne düzeni yoktur. Genellikle ramazan (IV) akşamlarında, kahvehane gibi kapalı yerlerde ve halkın içinde gösterilerini gerçekleştirenlerin çeşitli aksesuarları (V) vardır.

Numaralanmış sözlerden hangilerinin yazımı yanlıştır?

A) I. ve II. B) I. ve III. C) II. ve III. D) III. ve IV. E) IV. ve V.

MURAT YAYINLARI

7. Çevremdeki insanlara bakıyorum da mutlu, huzurlu, hayatından memnun insan yok gibi. Her halde insanların bu durumu çağın hızla deyişen konumundan, bireylerin bitmek bilmeyen isteklerinden kaynaklanıyor. Eski çağlardan daha rahat koşullarda ulaştığımız halde bize elimizdekiler yetmiyor.

Numaralanmış sözlerden hangilerinin yazımı yanlıştır?

A) I. ve II. B) I. ve III. C) II. ve III.
D) III. ve IV. E) IV. ve V.

8. **Aşağıdaki cümlelerin hangisinde "ki" nin yazımı yanlıştır?**

A) En güzel araba da onunkiymiş.
B) Bizimki bütün işleri bana bıraktı.
C) Kahvedeki bu tada bayılıyorum.
D) Gözlerinde ki ışığı asla unutmayacağım.
E) Ekmeğini yandakiyle paylaşır mısın?

9. Yazar, kendi yaşamöyküsüne dayalı o sarsıcı, anısal romanı, "Masalını Yitiren Dev" i yazdı. Ardından bir yenisi daha... Yazıyor, değiştiriyor yeniden kurgulamalara başvuruyordu. Sözcüklerle boğuşuyordu, gecesini gündüzüne katmıştı. Bazen bana okurken bunları, sesinin çatallaştığını duyuyordum. Belliki yaşadıklarını anlatmakla kalmıyor, yazdığını yaşıyordu da.

Numaralanmış sözlerden hangilerinin yazımı yanlıştır?

A) I. ve II. B) I. ve III. C) I. ve V.
D) III. ve IV. E) IV. ve V.

10. **Aşağıdaki cümlelerin hangisinde yazım yanlışı yapılmamıştır?**

A) DİSK'nın önünde toplanan gençler, eylem yaptı.
B) Av'ın söylediklerini duyunca ben de şaşırdım.
C) Seni Güney illerinden birine göndereceğim.
D) Her gün 14.57'de bana telefon açardı.
E) Okuldan sonra "Aşkın Şehidi"ni alırmısın bana?

11. **Aşağıdaki cümlelerin hangisinde yazım yanlışı yapılmıştır?**

A) Uykudan uyanınca suratı, çekilmez bir hal alıyordu.
B) Olacakları önceden hissediyordu.
C) Geçen gün, sinema salonunda bir kavga çıktı.
D) Akşam üstü buluşmak üzere sözleştik.
E) Son sözlerini de söyleyerek aramızdan ayrıldı.

12. **Aşağıdaki cümlelerin hangisinde bir yazım yanlışı vardır?**

A) Burcu, kitapçıya gidip yeni bir kitap aldı.
B) Okul bahçesinde, birkaç öğrenci top oynuyordu.
C) Buralar da uygarlıktan eser yok.
D) Geride kalan her şey, güzel gelir bize.
E) Saat on ikiye doğru okulda olmalıyız.

13. Ünlü bir edebiyatçımız 3 haziran 2004 tarihli köşe yazısında: "Mehmet Akif'in diliyle: Ben ezelden beri hür yaşarım. Hangi çılgın bana zincir vuracakmış şaşarım diyenlerin ülkesidir." diyor. Türkün karakterini yansıtan bu dize eksik yazılabilir mi hiç!

Numaralanmış sözlerden hangilerinin yazımı yanlıştır?

A) I. ve II. B) I. ve III. C) II. ve III.
D) III. ve IV. E) IV. ve V.

MURAT YAYINLARI

/muratyayincilik

14. Aşağıdaki cümlelerin hangisinde yazım yanlışı yapılmıştır?

A) Sabah erken kalkmayan insanlar, o gün asla başarılı olamazlar.
B) Büyüklerin ağlaması, çocuklara bir misillemedir adeta.
C) Okulların açıldığı ilk gün, içim içime sığmıyordu.
D) Bulutların ardına gizlenen güneş, bizlerden intikam alıyordu.
E) Kültürel etkinliklerde inanılmıyacak kadar büyük artış oldu.

15. Aşağıdaki cümlelerin hangisinde, bir yazım yanlışı vardır?

A) Şairin daha önce güzel diye nitelendirdiği şiirlerini ben de okudum.
B) Arkadaşlarımı gördüğümde mutluluğum bir kat daha arttı.
C) Sonunda bunun da formulü bulundu ben de rahatladım.
D) Bir makinenin değeri verimliliği ile ölçülür.
E) Fakir halkın cesaret zenginliği düşmanı ürküttü.

16. 1990, onun için <u>şanssız</u> (I) bir yıldı. Önce çok sevdiği öğretmenlerinden birini <u>trafik</u> (II) kazasında kaybetmiş; onun acısını unutmadan dayısını <u>yitirmişdi</u> (III). Çalışmalar sırasında sık sık daldığını, yalnız <u>kaldığında da</u> (IV) ağladığını biliyordum. <u>Memduh bey</u> (V) hariç, hepimiz ona karşı dikkatliydik.

Numaralanmış sözlerden hangilerinin yazımı yanlıştır?

A) I. ve II. B) I. ve III. C) II. ve III.
D) III. ve V. E) IV. ve V.

17. Aşağıdaki cümlelerin hangisinde yazım yanlışı yapılmıştır?

A) Okuldan dönerken küçük bir kaza geçirmişti.
B) Kimsenin söylediğine bakmadan her işini halletmelisin.
C) Her düşüşünde mutlaka bir şey öğrenirsin.
D) Gelirmi sandın bu saatten sonra?
E) Birtakım söz ve davranışlarla onu yaralıyordu.

18. Aşağıdaki cümlelerin hangisinde yazım yanlışı vardır?

A) Havlunun kenarına en sevdiği motifleri işlemiş.
B) Spor salonundan çıkarken ayağı kayıp yere düşmüş.
C) İzin günlerinde sinemaya gitmek için can atarmış.
D) Son gece eski günlerini hatırlayarak ağlamışlar.
E) Şiirlerini yeni aldığı defterine notediyormuş.

19. Aşağıdaki cümlelerin hangisinde yazım yanlışı vardır?

A) İki pantolonu birbirinden ayırt etmek için profesör olmaya gerek yok.
B) Çocuk, annesinin peşi sıra gitmek istiyordu.
C) Bunca şey vaat ederek hata ediyorsunuz.
D) Kardeşini suçüstü yakalayarak utandırdı.
E) Her öğünde sandeviç yemeniz iyi bir şey değil.

20. Aşağıdaki cümlelerin hangisinde yazım yanlışı vardır?

A) Elbiseyi yeni açılan mağazadan almış.
B) Bütün bardakları bir seferde getirdi.
C) Ankara'daki yoksul halka ilaç dağıtacak.
D) Seçim sonuçları halkı birhayli endişendiriyor.
E) Doğu illeri sıcak havanın etkisiyle yaşıyor.

MURAT YAYINLARI

Açıklamalar • TEST 21

1. **B** "Unut" eylem olduğuna göre "ki" ayrı yazılmalıydı.
Doğrusu: "Unut ki beni, ben de seni
eylem
zamanla unutayım.

2. **C** "Bugün" sözcüğü içinde bulunulan gün anlamındaysa bitişik yazılır. Doğrusu: "Bugün kendimi hiç de iyi hissetmiyorum."

3. **B** Sözcükte gerçekleşen ünlü düşmesi yazımda gösterilmezse yazım yanlışına sebep olur. Omuz sözcüğünde görülen ünlü düşmesi yazıda gösterilmelidir. Cümlenin doğrusu şudur: "Ağaçtan düşünce omzumu incitmişim."

4. **E** E seçeneğinde **"Güneş"** sözcüğü küçük harfle yazılmalıdır.

5. **E** A seçeneğinde **"yüz yıl"** sözcüğü bitişik, B seçeneğinde **"İli"** sözcüğü küçük harfle, C seçeneğinde **"zorun da"** sözcüğü bitişik, D seçeneğinde **"gölüne"** sözcüğü büyük harfle yazılmalıdır.

6. **D** Parçada **"Meddahta", "ramazan"** sözcüklerinin yazımı yanlıştır. Doğrusu; **"Meddahta", "Ramazan"** olmalıdır.

7. **C** Parçada **"Her halde", "deyişen"** sözcüklerinin yazımı yanlıştır. Doğrusu; **"Herhalde", "değişen"** olmalıdır.

8. **D** D seçeneğinde **"Gözlerinde ki"** sözcüğündeki **"ki"** bitiş yazılmalıdır.

9. **C** Parçada **"yaşamöyküsü", "Belliki"** sözcüklerinin yazımı yanlıştır. Doğrusu; **"yaşam öyküsü", "Belli ki"** olmalıdır.

10. **D** A seçeneği, DİSK'in
B seçeneği, Av.ın
C seçeneği, güney
E seçeneği, alır mısın şeklinde olmalıydı.

11. **D** D seçeneğinde **"Akşam üstü"** sözcüğü bitişik yazılmalıdır.

12. **C** C seçeneğinde **"Buralar da"** sözcüğündeki **"da"** bitişik yazılmalıdır.

13. **B** Parçada **"3 haziran 2004", "Türkün"** sözcüklerinin yazımı yanlıştır. Doğrusu; **"3 Haziran 2004", "Türk'ün"** olmalıdır.

14. **E** E seçeneğindeki **"inanılmıyacak"** sözcüğü **"inanılmayacak"** şeklinde yazılmalıdır.

15. **C** C seçeneğinde **"formulü"** sözcüğü **"formülü"** şeklinde yazılmalıdır.

16. **D** Parçada **"yitirmişdi", "Memduh bey"** sözcüklerinin yazımı yanlıştır. Doğrusu; **"yitirmişti", "Memduh Bey"** olmalıdır.

17. **D** D seçeneğinde **"Gelirmi"** sözcüğündeki **"mi"** ayrı yazılmalıdır.

18. **E** E seçeneğinde **"notediyormuş"** sözcüğü **"not ediyormuş"** şeklinde yazılmalıdır.

19. **E** E seçeneğinde **"sandeviç"** sözcüğü **"sandviç"** şeklinde yazılmalıdır.

20. **D** D seçeneğinde **"birhayli"** sözcüğü ayrı yazılmalıdır.

MURAT YAYINLARI

/muratyayincilik

Yazım Kuralları - III • TEST 22

1. Aşağıdakilerin hangisinde yazım yanlışı yapılmıştır?

A) Bahar aylarında Kızılırmak'dan geçemezsiniz.
B) Dostça gülümsedi yüzüme, biz geçeriz, dedi.
C) Onun bu davranışından çok etkilenmiştim.
D) En geç 16.30'da yola çıkmalıyız.
E) Biliyoruz ki uzun ve zorlu bir yolculuk bizi bekliyor.

2. Aşağıdaki cümlelerin hangisinde yazım yanlışı yapılmıştır?

A) Dün okula seninki de gelmedi.
B) Niçin bu soruları bana sor muyorsun?
C) O kadar gürültü vardı ki kendimi duyamadım.
D) Ben de sizinle gelmek istiyorum.
E) Birkaçınız, şu torbaları yukarı taşısın.

3. Aşağıdaki cümlelerin hangisinde yazım yanlışı yapılmıştır?

A) O, arabayı kullandı ben de yolu tarif ettim.
B) Burası çocukluğumuzun geçtiği mahalleydi.
C) Bu yıl yeni bir fedarasyon kurulacakmış.
D) Adamın kimi kimsesi kalmamıştı, bu köyde.
E) Ona aldığın hediye bu muydu?

4. Aşağıdakilerin hangisinde "ki"nin yazımıyla ilgili bir yanlışlık yapılmıştır?

A) Yukarıdakilerin gürültüsüne dayanmak zor.
B) Bugünkü çocuklar, dünkülerden daha farklı.
C) Bu odadaki eşyalar o kadar fazlaki...
D) Dün akşamki olay Hande'yi çok üzdü.
E) Sizinki, benim derdimin yanında dert değil.

5. Aşağıdaki cümlelerin hangisinde yazım yanlışı vardır?

A) Çoğu kez sizi telefonla aramak da istemişimdir.
B) Türkçenin çok anlamlılık ilgisini bilmeyen, çeviri yapmamalı.
C) Çokbilmiş tavırlarıyla çevresinden uzaklaşmayı göze almış görünüyor.
D) Bir çok farklı dünyanın burada toplandığını görebiliyorum.
E) Bizimle pek çok önemli olayı paylaştığınızı unutamam.

6. Aşağıdaki cümlelerden hangisinde yazım yanlışı yoktur?

A) Herkeze "Hoş geldiniz!" diyerek kenara çekildi.
B) Ali, usulende olsa "Hoş bulduk!" diyemedi, heyecandan.
C) Ali'nin heyecanını hepimiz anlayışla karşılamalıyız, değilmi?
D) Bir saat kadar hoş beş ettikten sonra büyükler asıl konuya geçtiler.
E) Ali'nin babasının hoşsohbet biri olduğunu anlayınca gecenin sonunu tahmin etmek zor olmadı.

7. 1940'larda (I) Giresun'un (II) zenginleri, yaz aylarında yaylalara çıkardı. O yaylalardan ben de (III) iki anı kalmıştı. Birinde yemyeşil (IV) bir çayırda yokuş aşağı (V) koşuyordum; öbüründe dönerken pancar çorbası içiyordum.

Numaralanmış yerlerden hangisinin yazımı yanlıştır?

A) I. B) II. C) III. D) IV. E) V.

MURAT YAYINLARI

8. **Aşağıdaki cümlelerin hangisinde yazım yanlışı vardır?**

A) Ünlü İngiliz yazarı, bu konuyu bizim için de araştıracak.

B) Bir gelişme çizgisinde ilerleyebilmek için çağın koşullarına uymalıyız.

C) Fransa'nın ilk yazılı ana yasasını tanıtan bir metin hazırladı.

D) Bilginin geçerlilik kazanabilmesi için deneye tabii tutulması gerekir.

E) Her dilin değişebileceğini kabul ederek yaşamalıyız.

9. (I) İki medeniyete başkentlik yapan, yedi tepesiyle ün salmış heybetli bir şehirdir, İstanbul. (II) Çini işlemeli eserleri, oyma taş çeşmeleri, camileri ve hamamları günümüzde Osmanlı kültürünü yansıtan önemli birer öge konumundadır. (III) Bu nedenle Kültür Bakanlığı bu tarihi eserlerle ilgili olarak restore kararı almıştır. (IV) Bunun yanında İstanbul, görkemi ve tarihi yapısıyla bir çok sanatçının eserine konu olmuştur. (V) Bir İstanbul aşığı olarak bilinen Yahya Kemal de bu şehri "Aziz İstanbul" adlı eserinde kendi yorumuyla sunmaktadır.

Numaralanmış cümlelerin hangisinde yazım yanlışı yapılmıştır?

A) I. B) II. C) III. D) IV. E) V.

10. **Aşağıdaki cümlelerin hangisinde yazım yanlışı yoktur?**

A) Çocuk bu sene 3.üncü sınıfa gidecek.

B) Bir takım insanlar ona engel oluyor.

C) Neden 3'er 3'er sıraya geçmiyorsunuz?

D) Birçoğumuz her şeyden korkarak yaşar.

E) Sen bizi yarın sabah arayacakmısın?

11. Ana dil (I) öğretimini Türkçe'nin (II) söz değerlerine da-

yandırmak gerekir. Yıldız yerine "star" diyerek bunu başaramayız. Arapça (III) sözcükler, dağarcığımızda (IV)

karmakarışık (V) durumlar yarattı.

Numaralanmış sözcüklerden hangisinin yazımı yanlıştır?

A) I. B) II. C) III. D) IV. E) V.

12. **Aşağıdaki cümlelerin hangisinde "de"nin yazımı yanlıştır?**

A) İsmail de bu tip işlerden biraz anlar.

B) Olayı anlatırken hiç de zorlanmadı.

C) 1963'te yapılan bir savaşın hikâyesi bu.

D) Bugünü bitirsemde yarına hazırlansak.

E) Sen de başını alıp gitme n'olur!

13. **Aşağıdaki cümlelerin hangisinde yazım yanlışı vardır?**

A) Faturaları yarın sabah ofisimde görmek istiyorum.

B) Ayırttığım elbiseyi almaya sen mi gideceksin?

C) Bu çocukları birbirinden hiç ayırdedemiyorum.

D) Konser alanına tüm ekipmanları beraber götürün.

E) Kitap sadece entelektüellerin işi değildir.

MURAT YAYINLARI

14. Aşağıdaki cümlelerin hangisinde "mi"nin yazımı yanlıştır?

A) Bu yaşananları bana da açıklar mısın?
B) Taze mi taze bir ekmek alıp geleceğim.
C) Uyudu mu asla uyanmayacak diye düşünürdüm.
D) Sen mi bu soruları çözeceksin?
E) Burcu, arkadaşını yoldamı görmüştü?

15. Nasıl ki (I) kullanımı bilinmeyen (II) bir silah bazen geri tepip zarara yol açabiliyorsa (III) korku da (IV) denetim altında tutulmassa (V) sonucu iyi olmaz.

Numaralanmış sözcüklerden hangisinin yazımı yanlıştır?

A) I. B) II. C) III. D) IV. E) V.

16. Aşağıdaki cümlelerin hangisinde yazım yanlışı yoktur?

A) Yatakta çırpınarak bağırmağa başladı.
B) Başka da söyliyecek sözüm kalmadı.
C) Patronla görüşdükten sonra seni ararım.
D) Bu haberi de kendisine iletirim.
E) Kendi kanburunu görmeden kulp takıyor.

17. Aşağıdakilerin hangisinde "ki"nin yazımı yanlıştır?

A) Oysa ki ben onu hiç sevmedim.
B) Sanki uzaktan bir akrabaydı.
C) Halbuki deneyimleri bizden çoktu.
D) Çok istiyorsun mademki git öyleyse.
E) Sözlerini, şöyle ki diyerek örnekledi.

18. Gazeteciliğiyle de tanınan yazarın, bir dönemi anlattığı kitabı, yayınevinin "Anılar" dizisinde (I) yayımlandı (II). Edebiyat alanına öykülerle (III) giren yazar, daha çok çocuk kitapları ile tanınıyordu. Bu anılar kitabı ise yazarın günlüklerinden ve mektuplarından yola çıkılarak (IV) hazırlanmış. Kitap, yazarın olduğu kadar yaşadığı dönemin pekçok (V) ünlü kişisinin de yaşamına ayna tutuyor.

Bu parçada numaralanmış sözlerden hangisinin yazımı yanlıştır?

A) I. B) II. C) III. D) IV. E) V.

19. İster olay öyküsü olsun isterse durum öyküsü; benim öyküm okunduktan (I) sonra belleklerden uçup gitmemeli. Kişi, öyküyü okuyup bitirdikden (II) sonra değişmeli. O öykünün insanı etkiliyen (III) bir yanı bulunmalı. Sabahattin Ali'nin (IV) "değirmen" (V) adlı öyküsü böyledir işte.

Numaralanmış sözlerden hangilerinin yazımı yanlış değildir?

A) I. - II.
B) I. - IV.
C) II. - III.
D) III. - IV.
E) IV. - V.

20. Aşağıdaki cümlelerin hangisinde bir yazım yanlışı yoktur?

A) Ahmet pazar günü gelecekmiş.
B) Onlar 2 Nisan salı günü dönecekler.
C) Çocuk her Pazartesi pikniğe gider.
D) 28 Temmuzda düğün yapacaklar.
E) Orada Mayıs ayı çok sıcak geçer.

MURAT YAYINLARI

Açıklamalar • TEST 22

1. A "f, s, t, k, ç, ş, h, p" ünsüzleriyle biten bir sözcüğe "b, c, d, g" ile başlayan bir ek getirilirse sert ünsüzlerin etkisiyle "b, c, d, g" sertleşerek "p, ç, t, k"ye döner. Buna ünsüz benzeşme-si(sertleşme) denir. Sözcükte gerçekleşen ünsüz benzeşmesi (sertleşmesi) yazıda gösterilmelidir. Doğrusu: "Bahar aylarında **Kızılırmak'tan** geçemezsiniz." olmalıdır.

2. B B seçeneğinde soru anlamını **"niçin"** sözcüğü sağladığından yüklemdeki **"mi"** soru anlamı taşımamakla beraber zaten olumsuzluk eki **"-me / -ma"** nın daralmış halidir ve bitişik yazılmalıdır.

3. C C seçeneğindeki **"fedarasyon"** sözcüğü **"federasyon"** şeklinde yazılmalıydı.

4. C C seçeneğindeki "fazlaki" sözcüğünde **"ki"** bağlaç olduğundan ayrı yazılmalıydı.

5. D Belgisizlik bildiren "birçok, biraz, herhangi..." gibi sözcükler birleşik yazılır. Doğrusu: **"Birçok** farklı dünyanın burada toplandığını görebiliyorum." olmalıdır.

6. E A seçeneği: "Herkese "Hoş geldiniz!" diyerek kenara çekildi"
B seçeneği: Bağlaç olan "de" ayrı yazılmalıdır.
Ali, usulen de olsa "Hoş bulduk!" diyemedi, heyecandan."
C seçeneği: "Ali'nin heyecanını hepimiz anlayışla karşılamalıyız, değil mi?"
D seçeneği: "Bir saat kadar hoşbeş ettikten sonra büyükler asıl konuya geçtiler."

7. C III numaralı yerde **"de"** bulunma hal eki olduğundan birleşik yazılmalıydı.

8. C C seçeneğinde geçen **"ana yasa"** sözü **"anayasa"** şeklinde yazılmalıydı.

9. D IV numaralı cümlede geçen **"bir çok"** sözcüğü **"birçok"** şeklinde yazılmalıydı.

10. D A seçeneğinde 3.
B seçeneğinde birtakım
C seçeneğinde üçer üçer
E seçeneğinde arayacak mısın? şeklinde olmalıydı.

11. B II numaralı yer **"Türkçe'nin"** değil, **"Türkçenin"** şeklinde yazılmalıydı.

12. D D seçeneğinde geçen **"bitirsemde"** sözcüğü **"bitirsem de"** şeklinde yazılmalıydı.

13. C C seçeneğinde geçen **"ayırdedemiyorum"** sözü **"ayırt edemiyorum"** şeklinde yazılmalıydı.

14. E E seçeneğinde geçen **"mı"** cümleye soru anlamı kattığından ayrı yazılmalıydı.

15. E V numaralı sözcük **"tutulmassa"** değil **"tutulmazsa"** şeklinde olmalıydı.

16. D A seçeneği bağırmaya
B seçeneği söyleyecek
C seçeneği görüştükten
E seçeneği kamburunu şeklinde olmalıydı.

17. A A seçeneğinde geçen **"oysa ki"** sözcüğü **"oysaki"** şeklinde yazılmalıydı.

18. E V numaralı sözcük **"pek çok"** şeklinde yazılmalıydı.

19. B II numaralı sözcük bitirdikten
III numaralı sözcük etkileyen
V numaralı sözcük **"Değirmen"** şeklinde olmalıydı.

20. A B seçeneğinde Salı
C seçeneğinde pazartesi
D seçeneğinde Temmuz'da
E seçeneğinde mayıs şeklinde olmalıydı.

MURAT YAYINLARI

Noktalama İşaretleri - I • TEST 23

1. Bu defteri Emine'ye teslim edip (I) tek başıma (II) yarı aç (III) yarı çıplak (IV) böğrümden kan sızarak uzaklara doğru yürüyeceğim (V)

Bu cümledeki numaralanmış yerlerden hangisine, herhangi bir noktalama işareti koymak gerekmez?

A) I B) II C) III D) IV E) V

2. Okur ile ilişki kuramayan şair ( ) ( ) Okur bana vız gelir ( ) ( ) sözünü hangi amaçla söylediğinin farkında değildir bence.

Bu parçada, parantezle belirtilen yerlere sırasıyla aşağıdaki noktalama işaretlerinden hangileri getirilmelidir?

A) (;) (") (.) (")
B) (;) (-) (!) (-)
C) (,) (") (!) (")
D) (,) (-) (.) (-)
E) (:) (") (.) (")

3. **Aşağıdaki cümlelerin hangisinde, virgül yanlış kullanılmıştır?**

A) Bu, geriye doğru yaşanan bir gelişmedir.
B) Burası Anadolu yaylasında çorak, çıplak bir bozkır köyüdür.
C) Hiç kimse onu fark etmemiş, sormamıştı.
D) Emine'yi, o çok sevdiği kadını, dört yıldır göremiyordu.
E) Güzellikleri görmezden gelen, böyle bir anlayış kabul edilemez.

4. **Aşağıdaki cümlelerin hangisinde noktalı virgül (;) yanlış kullanılmıştır?**

A) Biraz sonra kalkmam gerekiyor; çocuğu okuldan alacağım.
B) Boya işi bitti; fakat renkler istediğim gibi olmadı.
C) Bu kitabı hazırlarken iki hedefim vardı; Biri öğrencilere yardımcı olmak.
D) Evi, arabayı ve dükkânı sana; bankadaki parayı da ona bırakıyorum.
E) Herkes bir şeyler yapmak istiyordu; ama kimse öne çıkmıyordu.

5. I. Dünya Savaşı'nın sonlarıdır (I) Dünyanın yarısı ile beraber biz de çökmüşüz (II) Galipler, ülkenin her yerini bir bir işgal etmekte (III) Bütün kafalar ancak iki şey düşünebiliyor (IV) Ya bir devletin mandası olunacak ya da her yöre kendi başının çaresine bakacak (V)

Bu parçadaki numaralanmış yerlerin hangisine ötekilerden farklı bir noktalama işareti konmalıdır?

A) I B) II C) III D) IV E) V

6. Meydandan geçen insanlara bakıyorum Uzaktan ne kadar da küçük görünüyorlar ancak yine de seçiliyor yüzleri Kimdir bu meydandaki insanlar Kocaman bir sahnenin sayısız insanları figüranları sanki.

Bu parçada aşağıdaki noktalama işaretlerinden, hangisi kullanılmaz?

A) Nokta
B) Noktalı virgül
C) Soru işareti
D) Üç nokta
E) Virgül

7. Virgül; cümle içinde eş görevli sözcükler arasında, sıralı cümleleri ayırmakta, açıklayıcı söz öbeklerinin başında ve sonunda; yazıda, başkasının sözünün bittiği yerde kullanılır.

Aşağıdaki cümlelerin hangisinde virgül, yukarıda verilen görevleri dışında kullanılmıştır?

A) Ben öğretmenim, anneyim, kadınım.
B) Hemen hepsi avluda çömelirler, evlerinde olanı biteni anlatırlar.
C) Evet, ben de seninle geliyorum.
D) İşin yoksa yemeğe çıkalım, dedi.
E) En sevdiğim kadın, annem, yarın geliyor.

MURAT YAYINLARI

8. **Virgül (,), aşağıdakilerin hangisinde özneyi ayırmak (vurgulamak) amacıyla kullanılmıştır?**

A) Endişeli, güvensiz, sıkıntılı olduğumuz günlerde daha fazla yemek yeriz.

B) Süt, balık, tavuk gibi besinleri yağlı ve unlu yiyeceklere tercih etmeliyiz.

C) Un, mercimek, nohut gibi yiyecekler aralıklı tüketildiği zaman zararlı değildir.

D) Fazla yağ, kalp ve şeker hastalıklarına neden olabilir.

E) Vücuttaki fazla kilolar kalp, şeker, romatizma gibi hastalıklara yol açmaktadır.

9. **Aşağıdaki cümlelerden hangisinin sonuna üç nokta getirilmelidir?**

A) İsterseniz, evinizi baştan aşağı boyarım, dedi adam

B) Issız bir adaya düşse yanına alacağı iki şey varmış: kitap, radyo

C) Bu sergide neler yoktu: ziynetler, halılar, eski paralar

D) Amacımı daha önce belirtmiştim yazılarımda

E) Kitabın içinde iki deneme, bir de eleştiri var

10. Eyvah (I) Ehliyetimi yanıma almamışım gene (II) Ne dalgın adamım ben (III) Bu dalgınlığım yüzünden bir gün okkalı bir ceza yiyeceğim (IV) ama ne güne rastlayacak bakalım (V)

Bu parçadaki numaralanan yerlerden hangilerine, ünlem işareti (!) konması uygun olur?

A) I ile III B) II ile IV C) II ile V D) I ile IV E) II ile III

11. Sait Faik (I) bir öykücüden söz ediyordu (II) "Bırak canım (III) boş versene (IV) Öyle öykücü olmaz (V) daha balıkların adını bilmiyor." dedi.

Bu cümledeki numaralanan yerlerden hangisine, noktalı virgül (;) getirilebilir?

A) I B) II C) III D) IV E) V

12. **Aşağıdaki cümlelerin hangisinde boş bırakılan yere, noktalı virgül gelmez?**

A) En kısa sürede orada olmalıyım ( ) yapılacak çok işim var.

B) Olayda benim de yer aldığımı söylüyorlar ( ) ben o gün hiç dışarı çıkmadım ki!

C) Pazardan elma, armut, muz ( ) domates, biber ve patlıcan aldım.

D) Her şeyi söylemen gerekmez ( ) ama söylediklerin doğru olmalı.

E) Her gün ( ) kütüphaneye giderek orada ders çalışıyorum.

13. **Aşağıdaki cümlelerin hangisinde, soru işareti yanlış kullanılmıştır?**

A) Bu koşullarda çalışmak çok mu ağır geliyor?

B) Bu sözün altından nasıl kalkarım diye düşündüm?

C) Yarınki sınava herkes katılabilecek mi acaba?

D) Bizimle gelmek istemediğinden emin misin?

E) Birbirinizle neden görüşmüyorsunuz?

14. Paris, elinde altın elma (I) kayanın üzerine oturmuş, Tanrıçaları bekliyordu (II) Bir çıtırtı oldu, Hermes göründü, Paris'e seslendi: (III) Geliyorlar! Altın elmayı en güzele verirsin (IV) Ben gidiyorum! (V)

Bu parçada numaralı yerlerden hangilerine tırnak (" ") işareti getirilmelidir?

A) I ve III B) II ve IV C) III ve V D) IV ve V E) II ve V

15. **Aşağıdakilerden hangisi, noktalama yönünden doğru bir cümledir?**

A) Pazar günü teyzemlere "gerçi henüz annemden izin almadım" gitmeyi düşünüyorum.

B) İstekleri bitmek bilmiyor; su getirin, çay yapın, sofrayı kurun.

C) Ali; soğuk, esintili, az güneşli bir gün köye geldi.

D) Sınavda başarıyı engelleyen iki etken: programsız çalışma, kaygı...

E) Okura ulaşmış yapıt: artık sanatçının değildir, bir bakıma aynı yapıt da değildir.

MURAT YAYINLARI

/muratyayincilik

16. **Aşağıdaki cümlelerin hangisinde virgül, ötekilerden farklı ögeleri ayırmak amacıyla kullanılmıştır?**

A) Dostluğu, iyiliği, güzelliği sevmeliyiz her zaman.

B) Boya yaparken eli, yüzü, elbiseleri kirlenmişti.

C) Kalemi, defteri, kitabı elinden bıraktı.

D) Seni, kardeşini, arkadaşlarını yarın bize bekliyorum.

E) Çayı, kahveyi, yağlı yiyecekleri yasaklamıştı doktoru.

17. Kışın olmazsa olmazları vardır; soğuklar bastırır, günlerce ayaz olur, sonra lapa lapa kar... Bazen de çığ haberleri duyarız; tonlarca kar, dev bir kar topu halinde yuvarlanır dağların yamaçlarından.

I II III IV V

Bu parçadaki numaralanmış noktalama işaretlerinden hangisi yanlış kullanılmıştır?

A) I B) II C) III D) IV E) V

18. Romancı, yüreği bir başkası için çarpan insandır ( ) merhametin zorlamadığı, duyduğu acıların yönlendirmediği bir insan günlerce odaya kapanıp bir şeyler yazabilir mi ( ) Böyle bir insanın hissettiklerinde sıradan insanlar için engin hazineler gizlidir ( ) Onun eşsiz tespitleri hayatı daha cazip, daha renkli hâle getirmekte bulunmaz bir fırsattır bizler için ( )

Bu cümlede boş parantezle belirtilen yerlere, aşağıdaki noktalama işaretlerinden hangileri getirilmelidir?

A) (,) (?) (.) (...) B) (;) (?) (.) (.)

C) (;) (?) (...) (.) D) (:) (?) (.) (.)

E) (...) (?) (:) (!)

19. Yürüyorum. Yüzümde kıştan kalma eskimiş bir hüzün, göz kenarlarımda çoktan kurumuş yaşlar kirpiklerimi ağırlaştırıyor. Yürürken sağıma soluma bakmaz oluyorum böyle zamanlar... Sisin içinde ilerlerken ani bir rüzgâr bölüyor dağınıklığımı. Bir anda dikkatimi çeken uçuk pembe bir kar tanesi... Ama pembe kar olmaz ki!

I II III IV V

Bu parçadaki numaralanmış noktalama işaretlerinden hangisi yanlış kullanılmıştır?

A) I B) II C) III D) IV E) V

20. **Aşağıdakilerin hangisinde virgül,** "O zaman, hasta, koynundan küçük bir madalyon çıkardı." **cümlesindeki göreviyle kullanılmıştır?**

A) Geniş yüzlü, beyaz dişli, uzun burunlu bir çocuktu.

B) Hakkın bükülmez kolu, dönmez yüzü vardır.

C) Oraya vardıklarında, avcı, son nefesini vermek üzereydi.

D) Oyun oynayanlardan biri, Kerim Bey, maliyede memurdu.

E) Otomobiller, atlar, arabalar bir sel uğultusu ile geçiyordu.

MURAT YAYINLARI

Açıklamalar • TEST 23

1. **A** Zarf - fiillerden sonra herhangi bir noktalama işareti kullanılmayacağından I numaralı yere noktalama işareti gelmez.

2. **E** Aktarma cümlelerinden önce iki nokta, aktarma cümlesini belirtmek için tırnak, tamamlanmış cümlelerin sonunda nokta kullanılır.

3. **E** "Güzellikleri görmezden gelen, böyle bir anlayış kabul edilemez." cümlesindeki "gelen" sözcüğü sıfat tamlamasının sıfatıdır ve tamlamaların arasına noktalama işareti gelmez.

4. **C** Açıklama ve örnekleme cümlelerinden sonra iki nokta kullanılır. Bu sebeple C seçeneğindeki noktalı virgül yerine iki nokta gelmelidir.

5. **D** I, II, III, V numaralı cümlelerde yargı tamamlandığı için bu cümlelerin sonuna nokta konulmalıdır. IV numaralı cümleden sonra açıklama yapılacağı için iki nokta konulmalıdır.

6. **D** Meydandan geçen insanlara bakıyorum. Uzaktan, ne kadar da küçük görünüyorlar; yine de seçiliyor yüzleri. Kimdir bu meydandaki insanlar? Kocaman bir sahnenin sayısız insanları, figüranları sanki.

7. **C** Virgül A ve B seçeneklerinde sıralı cümleleri ayırmak için, D seçeneğinde başkasının sözünün bittiği yeri belirtmek için, E seçeneğinde açıklayıcı söz öbeğini belirtmek için kullanılmıştır.

8. **D** "Fazla yağ, kalp ve şeker hastalıklarına neden olabilir." cümlesinde özneyi vurgulamak için virgül kullanılmıştır.

9. **C** "Bu sergide neler yoktu: ziynetler, halılar, eski paralar" cümlesinde örnekler sıralandığı için ve bitmediği için bu cümlenin sonunda üç nokta kullanılmalıdır.

10. **A** Parçadaki I ve III numaralı yerde duygu belirtildiği için buralara ünlem işareti gelmelidir.

11. **E** Ögeleri arasında virgül olan sıralı cümlelerin arasında noktalı virgül kullanılır. Bu parçada da III ve IV numaralı yere virgül gelip V numaralı yere noktalı virgül gelmelidir.

12. **E** Cümledeki "her gün" sözü zarf tümleci olarak kullanılmış ve bu sözü vurgulamak için de virgül kullanılması gerekir.

13. **B** "Bu sözün altından nasıl kalkarım diye düşündüm?" cümlesinde yargı tamamlandığı için bu cümlenin sonunda nokta kullanılmalıdır.

14. **C** Doğrudan anlatım cümlelerinde aktarılan cümle tırnak içine alınacağından III ve IV numaralı yere tırnak konmalıdır.

15. **C** A seçeneğinde tırnak yerine kısa çizgi, B seçeneğinde noktalı virgül yerine iki nokta, D seçeneğinde üç nokta yerine nokta, E seçeneğinde iki nokta yerine virgül gelmelidir.

16. **B** Virgül A, C, D, E seçeneklerinde nesneleri ayırmak için; B seçeneğinde özneleri ayırmak için kullanılmıştır.

17. **A** Kendinden sonra açıklama ve örnekleme yapılacak cümlelerden sonra iki nokta kullanılacağı için I numaralı yere iki nokta getirilmelidir.

18. **B** Sıralı cümleleri ayırmak için noktalı virgül, soru cümlesinin sonunda soru işareti, tamamlanmış cümlelerin sonunda da nokta kullanılır.

19. **C** Tamamlanmış cümlelerin sonunda nokta kullanılacağından III numaralı yerdeki üç nokta yanlıştır.

20. **C** Virgül öncül cümlede ögeleri vurgulamak için kullanılmıştır. Buna uygun bir kullanım da C seçeneğinde vardır.

MURAT YAYINLARI

/muratyayincilik

Noktalama İşaretleri - II • TEST 24

1. Bir kültür mozaiği ( ) binlerce yıllık tarihin tanığı Antakya ( ) Bizi Antakya'ya götüren, meraktı ( ) oradaki insanlarla tanışabilmek, onların yaşam biçimlerini öğrenebilmekti.

Bu parçanın noktalama işaretleri aşağıdakilerden hangisidir?

A) (,) (...) (,)
B) (,) (!) (;)
C) (;) (,) (...)
D) (,) (?) (:)
E) (,) (:) (;)

2. Sözcükleri virgülle bağlanmış söz öbeklerini ayırmak için noktalı virgül (;) kullanılır.

Aşağıdakilerden hangisi bu açıklamayı örneklendirmektedir?

A) Kış güneşi içimizi ısıtıyordu; bahçeler, yollar insanlarla dopdoluydu.
B) Zamanın ardından boş boş bakıp kaldın; yaşadığın anın değerini bilemedin.
C) Yanımda genellikle birkaç dergi, gazete; roman, öykü bulundururum yolculuğa çıkarken.
D) Ahmet Bey; telaşla, hızla içeri girerek masaları, sandalyeleri özenle dizdi.
E) Ne söylerse söylesin; o, zamanını iyi kullanmayı öğrenmeliydi her şeyden önce!

3. Roman (I) , öykü (II) , tiyatro (III) , deneme gibi o güne dek yabancısı olduğumuz türler (IV) , edebiyatımıza bu yeni dönemle girdi. Şiirimiz bağımsız beyitler söyleyişinden bütünsel söyleyişe (V) , anlatışa yine bu dönemde geçti.

Numaralanmış yerlerin hangisinde virgülün (,) kullanılış amacı farklıdır?

A) I. B) II. C) III. D) IV. E) V.

4. Öz güven (I) , şahsiyetimizin önemli bir parçasıdır (II) . İki önemli boyutu vardır öz güvenin (III) ; Kendimizle olan iletişimimiz (IV) , hayatımız hakkındaki düşüncelerimiz (V) .

Numaralanmış noktalamalardan hangisi yanlış kullanılmıştır?

A) I. B) II. C) III. D) IV. E) V.

5. **Aşağıdaki cümlelerin hangisinde noktalama yanlışı yapılmıştır?**

A) Temiz, açık, iyi tanımlanmış kelimeler net bir düşünce oluşturur.
B) Olayların dilden dile anlatılmasına "hikâye tarzı" denir.
C) "Eylül" sözcüğünün serüvenine bakalım: Servet-i Fünun edebiyatı bu sözcüğü...
D) Sen bu saate kadar evine nasıl dönmezsin?
E) Tüm kitabı kopararak, ne elde edeceksin?

6. Cemile Adası'nda neler yok ki ( ) Orta Çağ'dan kalma yapılar ( ) mozaikleri muhteşem bir kale ve saray kalıntıları ( ) Sarnıçlar ve içinde hâlâ su bulunan kuyular da görülmeli. Adanın karşı kıyısına çıktığımızda, Karaköy'e ulaşabilirsiniz ( ) terk edilmiş olsa da evler, doğa aklımızı başımızdan alacaktır.

Bu parçada aşağıdaki noktalama işaretlerinden hangisi kullanılamaz?

A) İki nokta
B) Virgül
C) Üç nokta
D) Nokta
E) Noktalı virgül

MURAT YAYINLARI

7. **Aşağıdakilerin hangisi virgülün (,) kullanıldığı yerlerden değildir?**

A) Anlama güç katmak için tekrarlanan sözler arasına konur.
B) Hitaplardan sonra kullanılır.
C) Cümlede vurgulanmak istenen ögelerden sonra kullanılır.
D) Bazı cümlelerde anlam karışıklığını önlemek için kullanılır.
E) Bir cümle veya sözcükten sonra yapılacak açıklamalardan önce kullanılır.

8. **Aşağıdaki cümlelerin hangisinde noktalama yanlışı yapılmıştır?**

A) Ahmet Mithat Efendi halkı eğitmek istediğinden: "Sanat toplum içindir." der.
B) Türk Dil Kurumu yerbilim (jeoloji) terimlerini bir kitapta toplamış.
C) Bu savaş 1923 - 1928 yılları arasında olmuştur.
D) Aniden karşımıza çıkan yeşillik denizi...
E) Elma: armut, muz ve üzümden yararlıdır.

9. Bir edebiyat terimi olan mecaz ( ) bir sözcüğün ya da sözün asıl anlamıyla değil ( ) bir ilgi veya benzetme sonucu gerçek ( ) yani asıl anlamının dışında bir anlamda kullanılmasıdır ( )

Yukarıdaki parçada ayraçla ( ) belirtilen yere sırasıyla aşağıdaki noktalama işaretlerinden hangisi getirilmelidir?

A) (;) (,) (;) (...)
B) (,) (;) (,) (...)
C) (;) (,) (;) (.)
D) (,) (,) (;) (!)
E) (,) (;) (,) (.)

10. **Aşağıdaki cümlelerin hangisinde noktalama yanlışı yapılmıştır?**

A) Hepsini kendine alma, birazını bana ver.
B) Seni hiç sevmediğimi söylemiş miydim?
C) Bana kitabı mı sen getireceksin?
D) Onu çantana koy; gerekirse, kullanırsın.
E) Kardeşine, olanları anlatalım mı?

11. Uzayda iki cisim düşünelim (I). Bu cisimlerin kütlelerini (II) ve aralarındaki mesafeyi biliyorsak birbirlerine uyguladıkları kuvveti hesaplayabilir (III), nasıl hareket edeceklerini öngörebiliriz (IV). Şunu merak ediyorum: acaba iki yerine üç cisim olursa problemi nasıl çözeriz? (V)

Numaralanmış noktalama işaretlerinden hangisi yanlış kullanılmıştır?

A) I. B) II. C) III. D) IV. E) V.

12. Yazar ( ) Roman ( ) hayatın içine girmelidir çünkü hayatın tek gerçeğidir ( ) demişti.

Yukarıdaki parçada ayraçla ( ) belirtilen yere sırasıyla aşağıdaki noktalama işaretlerinden hangisi getirilmelidir?

A) (;) (,) (,)
B) (:) (;) (.)
C) (;) (,) (.)
D) (:) (,) (,)
E) (,) (;) (.)

13. **Aşağıdaki cümlelerin hangisinde virgülün (,) kaldırılması anlam değişikliğine yol açmaz?**

A) O, problemlerini çözmüş görünüyor.
B) O, adamı görünce çok üzüldü.
C) O, bu akşam yemeğe gelecek.
D) O, söylediklerini asla unutmayacak.
E) O, konuyu bize de anlattı.

14. **Aşağıdaki cümlelerin hangisinde noktalama yanlışı yapılmıştır?**

A) Edebiyat dünyasında dostluğa verilen değeri, yetersiz bulmaktadır.
B) Bütün eleştirmenlerin, kendisini yüceltmesini istemektedir.
C) İnsanları eleştirmekten hoşlanan, bir kişiliği vardı.
D) Dostluğun, edebiyat ve sanata karıştırılmasını doğru bulmuyorum.
E) Edebiyat eleştirilerinin; dostları, dostlukları gözeterek yapılmasını istemektedir.

MURAT YAYINLARI

/muratyayincilik

15. Aşağıdaki cümlelerden hangisi yazım ve noktalama açısından doğrudur?

A) Eyüboğlu: "Kitap, yazılı söz, söz, dile gelmiş düşünce; düşünce de insanın ta kendisidir." der.

B) Eyüboğlu; "Kitap, yazılı söz; söz, dile gelmiş düşünce; düşünce de insanın ta kendisidir." der.

C) Eyüboğlu: "Kitap, yazılı söz; söz, dile gelmiş düşünce; düşünce de insanın ta kendisidir." Der.

D) Eyüboğlu: "Kitap, yazılı söz; söz, dile gelmiş düşünce; düşünce de insanın ta kendisidir." der.

E) Eyüboğlu; "Kitap, yazılısöz; söz, dile gelmiş düşünce; düşünce de insanın ta kendisidir." der.

16. Aşağıdaki cümlelerden hangisi yazım ve noktalama açısından doğrudur?

A) Ibsen: "En yalnız insan, en güçlü insandır." derken kendiside yalnız mıydı acaba?

B) Ibsen: "En yalnız insan, en güçlü insandır." derken kendisi de yalnızmıydı acaba?

C) Ibsen: "En yalnız insan, en güçlü insandır." derken kendisi de yalnız mıydı acaba.

D) Ibsen: "En yalnız insan; en güçlü insandır." derken kendisi de yalnız mıydı acaba?

E) Ibsen: "En yalnız insan, en güçlü insandır." derken kendisi de yalnız mıydı acaba?

17. Çoğu ailede öteden beri kötü bir alışkanlık var ( ) Çocuklarını dinlememek ( ) Onlar sözlerine karışınca sen büyüklerin konuşmalarına karışma ( ) der ( )

Yukarıdaki parçada ayraçla ( ) belirtilen yere sırasıyla aşağıdaki noktalama işaretlerinden hangisi getirilmelidir?

A) (;) (,) (.) (...)

B) (:) (.) (,) (.)

C) (:) (,) (;) (.)

D) (,) (,) (,) (.)

E) (,) (;) (.) (.)

18. Halikarnas Balıkçısı (I), şiiri rengin (II), kokunun (III), sesin (IV) özün sözcüklerle anlatıldığı bir dil işçiliği olarak tanımlardı. İyi bir şiirde dizeler sözcükleri önüne katar (V) sürükler gider.

Numaralanmış virgüllerden (,) hangisi farklı bir görevde kullanılmıştır?

A) I. B) II. C) III. D) IV. E) V.

19. Bütün bilimler (I), genelgeçer gerçekleri yansıtır. (II) Toplumsal gerçekler, bazı kişilerin hoşuna gitmeyebilir; çünkü bir toplumda (III), toplumsal gerçeklerin nesnelliğine inananlar da olur (IV), inanmayanlar da ... (V)

Numaralanmış noktalamalardan hangisi yanlıştır?

A) I. B) II. C) III. D) IV. E) V.

20. (I) Son zamanlarda insanlar, hiçbir şeyden memnun olmuyor. (II) Ne çalıştıkları işten, ne maddi güçlerinin bulunmasından... (III) Yaşam, onlara verilmiş bir ceza, bir hapishane... (IV) Umarım, insanlar bu tatminsizlik duygusundan sıyrılır da yaşamın güzelliklerini görmeye başlar. (V) Çünkü yaşam, büyük mutlulukların saklandığı değerli bir sandıktır.

Numaralanmış cümlelerin hangisinde noktalama yanlışı yapılmıştır?

A) I. B) II. C) III. D) IV. E) V.

MURAT YAYINLARI

Açıklamalar • TEST 24

1. **B** Eş görevli sözcüklerin arasına virgül, aşırı duygu belirtilen cümlenin sonuna ünlem işareti, ögeleri arasına virgül kullanılmış sıralı cümleleri ayırmak için noktalı virgül kullanılır. Doğrusu: Bir kültür mozaiği (,) binlerce yıllık tarihin tanığı Antakya (!) Bizi Antakya'ya götüren, meraktı (;) oradaki insanlarla tanışabilmek, onların yaşam biçimlerini öğrenebilmekti.

2. **C** A, B, E seçeneğinde ögeleri arasına virgül kullanılmış sıralı cümleleri ayırmak için kullanılmıştır. D seçeneğinde eş görevli sözcükleri özneden ayırmak için kullanılmıştır. C seçeneğinde ise virgülle bağlanmış söz öbeklerini arasına konulmuştur.

3. **D** I, II, III. ve V. cümlede eş görevli sözcükleri birbirinden ayırmak için kullanılmıştır. IV. cümlede ise böyle bir durum söz konusu değildir. Çünkü burada özneyi ayırmak için kullanılmıştır.

4. **C** Burada açıklama yapıldığı için (:) konmalıydı. Açıklama yapılacak olan cümleye noktalı virgül gelmez.

5. **E** Zarf fiilden (bağ fiil) sonra kesinlikle virgül konmaz. Unutma!

6. **D** Bir yargıdan sonra örnekler sıralanacaksa iki nokta, eş görevli sözcüklerin arasına virgül, tamamlanmamış cümlenin sonuna üç nokta, ögeleri arasına virgül konulmuş sıralı cümleleri ayırmak için noktalı virgül kullanılır. Tamamlanmış cümlelerin sonuna ise nokta kullanılır. Bu parçada parantez içine nokta kullanımı uygun değildir.
Cemile Adası'nda neler yok ki (:) Orta Çağ'dan kalma yapılar (,) mozaikleri muhteşem bir kale ve saray kalıntıları (...) Sarnıçlar ve içinde hâlâ su bulunan kuyular da görülmeli. Adanın karşı kıyısına çıktığımızda, Karaköy'e ulaşabilirsiniz (;) terk edilmiş olsa da evler, doğa aklımızı başımızdan alacaktır.

7. **E** Bu açıklama iki noktanın açıklamaları arasında yer alır.

8. **E** Özneyi, virgülle ayrılan diğer sözcüklerden ayırt etmek için noktalı virgül koymamız gerekir.

9. **E** Özneyi ayırmak için virgül sıralı cümleyi ayırmak için noktalı virgül, açıklama için virgül, cümle tamamlandığı için nokta konur.

10. **D** Cümlede geçen "-se/-sa" ekinden sonra noktalama işareti konmaz.

11. **D** Burada açıklama yapılmamıştır. Bu yüzden iki nokta değil, virgül konmalıydı.

12. **D** Alıntı cümleden önce iki nokta, özneyi ayırmak için virgül, bağlı cümleyi belirtmek için noktalı virgül, cümle tamamlandığı için nokta konmalıdır.

13. **C** "A, B, D, E" seçeneklerinde virgül kaldırıldığında işaret zamirleri sıfat halini alır ve anlam karışıklığı olur. "C" seçeneğinde böyle bir durum söz konusu değildir.

14. **C** Tamlamaların arasına noktalama işaretleri konmaz. Burada da fiilimsi ile oluşturulan bir tamlama var. İnsanları eleştirmekten hoşlanan bir kişilik sıfat tamlamasıdır.

15. **D** Yazım ve noktalama açısından doğru olan tek seçenek "D" seçeneğidir. Aktarma cümlesinde isimden sonra iki nokta konur ve tırnak açılarak büyük harfle başlar; sıralı cümle noktalı virgülle ayrılır. Cümlenin sonuna nokta konup cümle tırnakla kapanır ve küçük harfle devam eder.

16. **E** Yazım ve noktalama bakımından tek doğru cümle "E" seçeneğidir.

17. **B** Açıklama cümlesine iki nokta konur. Bitmiş cümleye nokta ve aktarma cümleyi ayırmak için tırnak işareti yoksa virgül kullanılır.

18. **A** "A" seçeneğinde özneyi ayırdığı için diğerlerinden farklı görevde kullanılmıştır. Diğer seçeneklerde eş görevli sözcükleri ayırmak için kullanılmıştır.

19. **E** Tamamlanmış cümlenin sonuna nokta konur. Burada üç nokta konarak yanlışlık yapılmıştır.

20. **B** "Ne... ne" bağlacı arasına asla virgül konmaz. Unutma!

MURAT YAYINLARI

/muratyayincilik

Noktalama İşaretleri - III • TEST 25

1. Çocukluk bütün bunlar diye düşündü, olan bitene gülüp geçti, kimsenin aldırdığı da yoktu onun sözlerine.

Bu cümlede virgüllerin kullanılmasının amacı, aşağıdakilerden hangisidir?

A) Ara sözü belirtmek
B) Görevleri aynı olan sözcükleri ayırmak
C) Sıralı cümleleri ayırmak
D) Vurgulanmak istenen ögeyi belirtmek
E) Anlamca karışabilecek sözcükleri ayırmak

2. İnsanın herhangi bir alanda artık daha ileriye gidemeyeceğini zannedenler ( ) bilmeyerek onu hayvan seviyesine indirmek isteyenlerdir ( ) Yazar ( ) bu eserinde ( ) insanlık bilgisinin hala olgunlaşmaya muhtaç olduğunu vurgulamıştır ( )

Bu parçada ayraçla ( ) belirtilen yere sırasıyla aşağıdaki noktalama işaretlerinden hangileri getirilmelidir?

A) (;) (,) (:) (.) (.)
B) (:) (;) (,) (.) (...)
C) (,) (.) (;) (,) (.)
D) (,) (,) (;) (.) (...)
E) (,) (,) (.) (;) (.)

3. **Aşağıdaki cümlelerin hangisinde iki noktanın (:) kullanımı yanlıştır?**

A) Telefondaki kadın fısıltı biçiminde söylemişti sözünü: Bahçemde garip şeyler oluyor.
B) Tatil boyunca bitirmişti yanında götürdüğü romanları: Fırat Suyu Kan Akıyor, Nana.
C) Gençler: Size verilen görevden asla kaçmayınız.
D) Koltuktan doğrulan dedem Ali'ye seslendi: Hani, benim kahvem!
E) Nitelik anlamlı sözcükleri sıralıyordu yürürken: iyi, güzel, anlayışlı, durgun...

4. Ünlü Çin düşünürüne sorarlar ( ) ( ) Devlet başkanı olsaydınız ilk yapacağınız şey ne olurdu ( ) ( )

Bu parçada ayraçla ( ) belirtilen yere sırasıyla aşağıdaki noktalama işaretlerinden hangisi getirilmelidir?

A) (;) (") (.) (")
B) (:) (") (?) (")
C) (;) (") (,) (")
D) (:) (") (!) (")
E) (:) (") (") (?)

5. Birlikte veya yalnız yenir tahin ve pekmez ( ) Kimi, bir tahine üç pekmez karıştırır ( ) kimi, iki pekmeze beş tahin ( ) Tahin ve pekmez karışımının her damak tadına göre değişiyor olması da aşkın kimyasal cilvesiyle ( )

Bu parçanın noktalama işaretleri aşağıdakilerden hangisidir?

A) (.) (,) (,) (.)
B) (!) (,) (.) (?)
C) (.) (,) (.) (!)
D) (:) (;) (;) (...)
E) (.) (;) (.) (...)

6. **Aşağıdaki cümlelerin hangisinde noktalama yanlışlığı yapılmıştır?**

A) İnsan mutluluğu aramaya kalktı mı, onu bulmaya tutsaktır zaten.
B) Bunda şaşılacak bir şey de yoktur.
C) Mutluluk, vitrinde görüp beğeneceğiniz, satın alacağınız bir şey değildir.
D) Oysa mutluluk, her insanın istediği yegane duygudur.
E) Yaşımız kaç olursa olsun, bize huzur vermez mi mutluluk?

MURAT YAYINLARI

7. Yalnızlığı aramakla, yalnızlıktan yakınmanın kökeninde aynı neden vardır ( ) İnsanlarla bütünleşmemek.

Bu cümlede parantezle belirtilen yere aşağıdaki noktalama işaretlerinden hangisi getirilmelidir?

A) (,) B) (...) C) (;) D) (:) E) (!)

8. **Aşağıdaki cümlelerden hangisi yazım ve noktalama açısından doğrudur?**

A) Bazıları: "Boş zaman bulabilsem, kitap okuyacağım; ama bulamıyorum." demeyi alışkanlık edinmiş.

B) Bazıları; "Boş zaman bulabilsem kitap okuyacağım, ama bulamıyorum." demeyi alışkanlık edinmiş.

C) Bazıları: "Boş zaman bulabilsem kitap okuyacağım; ama bulamıyorum." Demeyi alışkanlık edinmiş.

D) Bazıları: "Boş zaman bulabilsem kitap okuyacağım; ama bulamıyorum." demeyi alışkanlık edinmiş.

E) Bazıları: "Boş zaman bulabilsem kitap okuyacağım ama bulamıyorum." demeyi alışkanlık edinmiş.

9. Bir işe başlarken ( )( ) Sonuç alamayacağım ( )( ) diye düşünen insan yoktur sanırım ( ) Ne var ki işi başarmak için yöntem yanlışsa insanın bütün çabası sonuçsuz kalır.

Parçada parantezle ( ) boş bırakılan yerlere sırasıyla aşağıdaki noktalama işaretlerinden hangileri getirilmelidir?

A) (:) (") (.) (") (.)
B) (") (;) (") (.) (.)
C) (;) (.) (") (,) (.)
D) (") (.) (") (.) (.)
E) (") (.) (") (,) (...)

10. **Aşağıdaki cümlelerden hangisinin sonuna soru işareti (?) getirilemez?**

A) Sen, onu aramayacak mıydın
B) Yemekleri yapmış mı eşin
C) Siparişlerimi hala almadın mı
D) Kızları gördü mü yüzü kızarır
E) Ödevlerini kendin mi yaptın

11. (I) Osman Cemal Kaygılı'nın romanları söz konusu olunca "Çingeneler" ilk sırayı alır. (II) Neredeyse Kaygılı'nın adıyla "Çingeneler" özdeşleşmiştir. (III) "Neden böyle düşünüyorsunuz? bu romanı başyapıt katına layık görmenizin nedeni nedir?" diye soranlara yanıtım şu: (IV) "Çingeneler" onun en güçlü, en başarılı romanıdır. (V) Nesnel değerlendirme yapıldığında "Çingeneler"in başyapıt değil, iyi bir yapıt olduğu anlaşılacaktır.

Bu parçada numaralanmış cümlelerin hangisinde bir noktalama yanlışı yapılmıştır?

A) I. B) II. C) III. D) IV. E) V.

12. **Aşağıdakilerin hangisinde üç noktanın (...) kullanımı yanlıştır?**

A) Aydınları şu kavramlar yönlendirmelidir: birey, ulus, insanlık...
B) Dışarıda kıştan kalma yağmurlu bir gün...
C) Hep aynı vaatler: Okulu bitirince, hele bir mezun ol...
D) Başarımı iki şeye borçluyum: Çalışmak, tekrar etmek...
E) En sevdiğim insanlar yanımdaydı: Kel Musa, Mustafa Ali...

MURAT YAYINLARI

/muratyayincilik

13. **Aşağıdakilerin hangisinde parantezle gösterilen yere virgül (,) getirilemez?**

A) Askerliği bitirmişti ( ) artık iyi bir iş bulması gerekiyordu.

B) Son günlerde evliliği iyi gitmiyordu ( ) böyle giderse evliliği sona erecekti.

C) Ne kadar uyardıysam da sözümü dinletemedim ( ) okulu bırakmayı kafasına koymuştu.

D) Kendini kaybetmişti ( ) gözü hiçbir şey görmüyordu.

E) Evde kimler yoktu ki ( ) amcamlar, dayımlar...

14. "Bir Batılı uzman da şöyle der ( ) ( ) Yeryüzünde pek az memleket ( ) turist çekme bakımından Türkiye ile boy ölçüşebilir ( ) ( )

Bu parçada parantezlerle belirtilen yerlere sırasıyla aşağıdaki noktalama işaretlerinden hangileri getirilmelidir?

A) (;) (-) (;) (,) (-)

B) (;) (") (.) (.) (")

C) (,) (:) (,) (:) (.)

D) (:) (") (,) (.) (")

E) (,) (") (;) (.) (")

15. **Aşağıdaki cümlelerin hangisinde virgül yanlış kullanılmıştır?**

A) Roman, öykü, deneme, söyleşi türünde önemli yapıtlar ortaya koydu.

B) Önerdiğiniz filmi izledim, çok beğendim.

C) İzmir, gönlümün başkenti, bu yazı da sıcak geçirdi.

D) Son zamanlarda başımı kaşıyacak vaktim yok, diyordu.

E) Yazları havuzun, kenarındaki asmanın altında yemek yerdik.

16. Genç Kalemler dergisinde Ali Canip ( ) makale ve manzumeleriyle ( ) Ömer Seyfettin ( ) hikâyeleriyle Türklüğün programını çizmişlerdir ( )

Bu parçada parantezlerle belirtilen yerlere sırasıyla aşağıdaki noktalama işaretlerinden hangileri getirilmelidir?

A) (,) (;) (;) (...)

B) (;) (,) (:) (.)

C) (:) (;) (,) (...)

D) (,) (;) (,) (.)

E) (,) (:) (:) (.)

17. Günümüzde büyük şair sayılanlar (I), yaşarken de aynı büyüklüğe layık görülmüş mü? (II) Örneğin: Yahya (III) Kemal ve Tevfik Fikret, öldükten sonra daha da büyümediler mi? (IV) (V)

Bu parçadaki numaralanmış noktalama işaretlerinden hangisi yerinde kullanılmamıştır?

A) I. B) II. C) III. D) IV. E) V.

18. "Tatile çıkarken yanımdan eksik etmediğim iki şey var ( ) Gözlük ve krem ( )"

Parantezle belirtilen yerlere hangi noktalama işaretleri getirilmelidir?

A) (;) (,) B) (:) (!) C) (:) (.)

D) (-) (-) E) (;) (.)

19. Karşıdaki tepelerin ardından kırmızı şafak söküyordu ( ) Kükürt sarısından süt beyazına ( ) yosun yeşilinden deniz mavisine kadar türlü türlü renkler ( ) Gökyüzünden yayılan ışık oyunları ( )

Bu parçada parantezlerle belirtilen yerlere sırasıyla aşağıdaki noktalama işaretlerinden hangileri getirilmelidir?

A) (:) (,) (:) (;)

B) (;) (.) (...) (,)

C) (.) (,) (...) (...)

D) (.) (;) (.) (...)

E) (,) (,) (...) (...)

20. **Aşağıdaki cümlelerin hangisinin sonuna nokta (.) konmalıdır?**

A) Bu işleri yarın sabaha kadar bitirebilecek misin

B) Bu nasıl bir iştir

C) Yazarın son romanını al ki

D) Unutmak istiyorum tüm yaşadıklarımı

E) Bir gün benim yanıma da uğrarsan

MURAT YAYINLARI

Açıklamalar • TEST 25

1. **C** Çocukluk bütün bunlar diye düşündü, olan (yüklem) bitene gülüp geçti, kimsenin aldırdığı da yoktu (yüklem) onun sözlerine.
Bu cümlede virgülün görevi, sıralı cümleleri ayırmaktır.

2. **C** Cümlede özneyi vurgulamak için virgül, cümle sonunda nokta, özneyi diğer ögelerden ayırmak için noktalı virgül kullanılır.

3. **C** C seçeneğinde iki nokta kullanılması yanlıştır. "Gençler" seslenmedir ve seslenmelerden sonra ünlem işareti kullanılmalıdır. Doğrusu: "Gençler! Size verilen görevden asla kaçmayınız." olmalıdır.

4. **B** Aktarma cümlelerinden önce iki nokta, aktarma cümlesinin başına ve sonuna tırnak, soru cümlelerinin sonuna soru işareti konur.

5. **E** Tamamlanmış cümlenin sonuna nokta, ögeleri arasına virgül kullanılmış sıralı cümleleri ayırmada noktalı virgül, yüklemi olmayan cümle eksiltili cümledir ve sonuna üç nokta kullanılır.
Birlikte veya yalnız yenir tahin ve pekmez (.) Kimi, bir tahine üç pekmez karıştırır (;) kimi, iki pekmeze beş tahin (.) Tahin ve pekmez karışımının her damak tadına göre değişiyor olması da aşkın kimyasal cilvesiyle (...)

6. **A** **"Mı"** soru edatı cümleye **"zaman"** anlamı kattığında "mı" edatından sonra virgül kullanılmaz.

7. **D** Bir cümleden sonra açıklama yapılacaksa veya örnekler verilecekse iki nokta kullanılır.

8. **E** Başkasına ait bir cümleden önce iki nokta, bu cümlenin başında ve sonunda tırnak, kullanılır. Ayrıca **"-se/-sa"** ekiyle biten sözcüklerden sonra virgül kullanılmaz.

9. **A** Aktarma cümlelerinden önce iki nokta, aktarma cümlesinin başına ve sonuna tırnak, cümle sonuna nokta konur.

10. **D** D seçeneğinde **"mı (mü)"** soru edatı cümleye zaman anlamı kattığından cümle sonunda soru işareti değil nokta kullanılır.

11. **C** III. cümledeki soru cümlesinde geçen ilk soru işaretinin virgül (,) olması gerekir.

12. **D** **D** seçeneğinde örnekler iki şeyle sınırlandırıldığı için cümle sonunda üç nokta değil nokta kullanılmalıdır.

13. **E** A, B, C ve D seçenekleri sıralı cümle özelliği gösterdiği için virgül kullanılır. **E** seçeneğindeyse örnekler verileceği için iki nokta kullanılmalıdır.

14. **D** Başkasına ait bir cümleden önce iki nokta, bu cümlenin başında ve sonunda tırnak, özneyi vurgulamak için virgül kullanılır.

15. **E** **E** seçeneğindeki **"havuzun kenarı"** söz öbeği isim tamlamasıdır. Tamlamaların arasında da herhangi bir noktalama işareti kullanılmaz.

16. **D** Cümlede özneyi vurgulamak için virgül, ögeleri arasında virgül olan cümleleri ayırmak için noktalı virgül kullanılmış.

17. **C** III numaralı yerde bir açıklama veya örnekleme olmadığı için iki nokta değil, virgül kullanılmalıdır.

18. **C** Bu cümlede örnekler sıralanacağı için iki nokta, verilen örnekler sınırlandırıldığı için cümle sonunda nokta kullanılır.

19. **C** Cümle tamamlandığı için nokta, eş görevli sözcüklerin arasında virgül, tamamlanmamış cümlelerin sonunda üç nokta kullanılır.

20. **D** A ve B seçenekleri soru cümlesi olduğu için sonuna soru işareti, C ve E seçenekleri tamamlanmamış cümle olduğu için sonuna üç nokta konulur.

MURAT YAYINLARI

/muratyayincilik

Anlatım Bozukluğu - I • TEST 26

1. **Aşağıdaki cümlelerin hangisinde, gereksiz sözcük kullanılmamıştır?**

A) Bu makine sanayide ilk defa ne zaman kullanılmaya başlandı?
B) Bundan sonra seninle görüşmeyeceğim artık.
C) Durmadan, aralıksız konuşmasından herkes sıkıldı.
D) Ayağım takılınca az kalsın düşeyazdım.
E) Bunlar, çoluk çocuğun yapacağı iş değil.

2. **Aşağıdaki cümlelerin hangisinden** "hepsi" **sözcüğünün çıkarılması, anlatım bozukluğuna yol açar?**

A) Her yerde renk renk çiçekler açmıştı, hepsi bize baharı müjdeliyorlardı.
B) Piyasaya yeni çıkan sanatçıların hiçbiri üretmiyor, hepsi birbirini taklit ediyordu.
C) Çocuklar yolun kenarına dizilmiş, hepsi geçen askerleri selamlıyordu.
D) Veliler dışarda sınavın bitmesini bekliyor ve hepsi çok heyecanlı görünüyordu.
E) Öğrenciler ödüllerini aldılar, hepsi birer birer izleyicileri selamladılar.

3. "Çalmak" **sözcüğü, aşağıdaki cümlelerin hangisinde yanlış anlamda kullanılmıştır?**

A) Ekmeğin üstüne yağ çaldı, torununa uzattı.
B) Bebeğin iri gözleri maviye çalıyordu.
C) Biraz ötede mızıka Gençlik Marşı'nı çalıyordu.
D) Hoca, sonra Akşehir Gölü'ne maya çalar.
E) Adamı silahla tehdit edip bütün parasını çalmışlar.

4. **Aşağıdaki cümlelerin hangisinde,** "gereksiz söz kullanımından kaynaklanan" **anlatım bozukluğu vardır?**

A) Nedense, ölüp gitmiş insanları hafızamızda yaşatır, belleğimizde saklarız.
B) Bu kitabın ilk baskısı, kısa sürede tükendi.
C) Orhun Anıtları, Türk edebiyatının ilk yazılı ürünüdür.
D) Orhan Veli'nin şiirlerini okurken kendimden geçiyorum.
E) İlimiz yöneticileri, kültür ve sanat etkinliklerine gereken desteği veriyorlardı.

5. **Aşağıdaki cümlelerin hangisinde,** "anlamca yanlış kullanılan deyim" **vardır?**

A) Çabuk şımarır, yüz verince astar ister.
B) Raporu, kılı kırk yararcasına inceledi.
C) Yaptıklarınızı duyunca ağzı açık kaldı.
D) Sevinçten ne yapacağını bilemedi, etekleri tutuştu.
E) Açtı ağzını, yumdu gözünü; içini boşalttı.

6. **Aşağıdaki cümlelerin hangisinde bir** "belirtecin", "sıfat" **gibi kullanılmasından doğan bir anlatım bozukluğu vardır?**

A) Yeni kurulan partilerin eskilerinden bir farkı olmadığı söyleniyor.
B) Yeni bağımsızlığına kavuşan ülkelere Türkiye yardım etmelidir, deniyor.
C) Anlatılan yeni konular öğrencilerin ilgisini çekmiyor.
D) Kamu kuruluşlarına alınacak yeni arabaların yerli yapım olmaları benimsendi.
E) Yeni dünyanın düzeni, çağdaş uluslar tarafından kurulacak.

7. Bu bölgede, ağaçtan elde edilen odun, kömür, kereste imalatı önemli bir geçim kaynağıdır.

Bu cümledeki anlatım bozukluğunu aşağıdaki cümlelerden hangisi açıklar?

A) "imalatı" yerine "üretimi" denmesi gerekirdi.
B) "elde edilen" sözüyle "imalatı" sözcüğü bir arada kullanılınca anlatım bozulmuştur; "elde edilen" sözü cümlede olmamalıdır.
C) "imalat", hammaddeye yeni bir biçim verme demektir; odun, "imalat" ürünü değildir. "imalatı" sözcüğü cümlede bulanmamalıdır.
D) Odun, kömür, kereste zaten "ağaçtan" elde edilir, bu cümlede "ağaçtan" sözcüğü gereksizdir.
E) "imalat" geçim kaynağı olmaz; imal edilen ürün geçim kaynağı olur.

MURAT YAYINLARI

8. **Aşağıdakilerin hangisinde virgül kullanılmaması, cümlede anlam bulanıklığına yol açmıştır?**

A) Bu kış mevsimini yaşamadığımız bir yıl oldu.
B) Bu yıl hamsilerin erken tükenmesi balıkçıları düş kırıklığına uğrattı.
C) Bu yılın ortalarında yurtdışına gitmeyi düşünüyorum.
D) Bu ayın telefon faturası oldukça yüksek geldi.
E) Bu yıl öteki yıllardan daha yorgun hissediyorum kendimi.

9. Gemi manevrası esnasında yerlerinizden kalkılmaması, can güvenliğiniz açısından önemle rica olunur.

Bu cümledeki anlatım bozukluğu aşağıdaki değişikliklerin hangisiyle giderilemez?

A) "kalkılmaması" yerine "kalkmamanız" getirilerek
B) "kalkılmaması" yerine "kalkmamanızı" getirilip cümle "rica ederiz" biçiminde bitirilerek
C) "yerlerinizden kalkılmaması" yerine "ayağa kalkmamanız" getirilerek
D) "yerlerinizden kalkılmaması" yerine "yerlerinizde oturmanız" getirilerek
E) "manevrası esnasında" yerine "manevra yaptığı sırada" getirilerek

10. **Aşağıdaki cümlelerin hangisinde anlatım bozukluğu vardır?**

A) Bu konudaki düşüncelerimi herkes biliyor.
B) Çeviri, kültürel etkileşimdeki önemli etkinliklerden biridir.
C) Bomba patlamış ama ölü kaybı olmamıştı.
D) Toroslarda su, yeryüzüne çıkar çıkmaz denizi aramaya başlar.
E) Göz alabildiğine uzayıp giden tarlalar su içindeydi.

11. **Aşağıdaki cümlelerin hangisinde anlatım bozukluğu vardır?**

A) Yer yer üç metreyi bulan kar yağışına rağmen aramalar sürüyor.
B) Günlerdir süren kar yağışı arama çalışmalarını engelliyor.
C) Kar kalınlığı kimi yerlerde üç metreyi geçmiş durumda.
D) Kar yağışı yaşamı olumsuz yönde etkiliyor.
E) Üç gündür aralıksız yağan kar, ulaşımı etkiliyor.

12. "Arkadaşlarım ve kendi adıma sizlere hoş geldiniz diyorum." **cümlesindeki anlatım bozukluğu nasıl giderilir?**

A) "sizlere" yerine "size" getirilerek
B) "diyorum" yerine "demek istiyorum" getirilerek
C) "ve" den önce "adına" sözcüğü getirilerek
D) "kendi" yerine "şahsım" getirilerek
E) "kendi adıma" yerine "ben" getirilerek

13. "Dilin kemiği yoktur ama kemiği kırar." **cümlesindeki anlatım bozukluğunun nedeni aşağıdakilerden hangisidir?**

A) Gereksiz sözcük kullanılması
B) Özne - yüklem uyuşmazlığı
C) Çelişkili yargılar içermesi
D) Özne eksikliği
E) Tamlama yanlışlığı

14. **Aşağıdaki cümlelerin hangisinde anlatım bozukluğu, ötekilerden farklı bir öğenin eksikliğinden kaynaklanmaktadır?**

A) Senin düşüncelerine çok güveniyorum ve özgürce dile getirmen için destekliyorum.
B) Şiirde biçimsel ögelerin önemli olduğuna inanıyoruz ancak geliştirmek için çaba göstermiyoruz.
C) Bu akımın sanatçıları deneye ve gözleme önem vermişler ve eserlerinde ön plana çıkarmışlardır.
D) Eserlerinde daima güncel olaylara değindi; fakat başarılı bir şekilde kurgulayamadı.
E) O günden beri çareyi içkide ve sigarada arıyordu ama hiçbir işe yaramıyordu.

MURAT YAYINLARI

/muratyayincilik

15. **Aşağıdakilerin hangisinden altı çizili sözcük çıkarılırsa, cümlenin anlamında bir daralma olmaz?**

A) Onu üzen ve etkileyen şeylerden artık uzaktı.
B) Tavandan aşağıya sarkan büyük bir avize vardı.
C) Ağaçların altındaki çimenlikte oturuyorlardı.
D) Bu sorunu sadece sen çözebilirsin.
E) Onu arayıp bulamayınca ben de eve döndüm.

16. **Aşağıdakilerin hangisinde bir sözcüğün yanlış yerde kullanılmasından kaynaklanan bir anlatım bozukluğu vardır?**

A) Mart ayı gelince hızlı bir şekilde baharı müjdeleyen çiçeklerin açtığını göreceksiniz.
B) Ülkenin her bölgesinde bahar mevsimi kendini farklı hissettirir.
C) Güney illerine bahar mevsimi erken gelirken doğu illerine geç gelmektedir.
D) Toprağın canlanması, göçmen kuşların gelmesi bahar mevsiminde gerçekleşir.
E) Ağaçların aşılanmasına ve diplerinin yabancı otlardan temizlenmesine önem verilmelidir.

17. **Aşağıdaki cümlelerin hangisinde anlatım bozukluğu vardır?**

A) İzmir'de deniz ulaşımının önemi giderek artmaktadır.
B) Arabalı vapur sayısının artırılması için yetkililer çalışmalara başlamış.
C) Bugün sisli hava yüzünden kesin vapur seferleri iptal edilecek gibi görünüyor.
D) Bakanlık, denize kıyısı olan il ve ilçelerin deniz ulaşımına önem vermeli.
E) Arabalı vapurlar yolculuğumuzun çok rahat geçmesini sağlıyor.

18. Şehrin girişine yapılan çocuk parkına çok emek harcandığı için yediden yetmişe herkesçe beğenildi.

Bu cümledeki anlatım bozukluğu aşağıdakilerin hangisinden kaynaklanmaktadır?

A) Özne eksikliğinden
B) Nesne eksikliğinden
C) Tamlayanla tamlananın uyumsuzluğundan
D) Yanlış anlamda sözcük kullanılmasından
E) Belgisiz adılın gereksiz kullanılmasından

19. **Aşağıdaki cümlelerin hangisinde anlatım bozukluğu vardır?**

A) Onlar, buradan ayrılmakla hata ettiklerini anlayacaklar.
B) Hiçbiri vazifesini ihmal etmedi, hepsi canla başla çalıştı.
C) Arabamız dağ başında arızalanınca bir kulübeye sığındık.
D) Herkes dereceye girenlerin açıklanmasını büyük bir merakla bekliyordu.
E) Hepsi, kapalı bir mekânda sigara içilmemesi gerektiğini çok iyi biliyorlardı.

20. Art arda yayımladığı romanlarıyla edebiyat dünyamızda ünlenen sanatçı, bir süre sonra sessizce çekilmiştir.

Bu cümledeki anlatım bozukluğu aşağıdakilerin hangisinden kaynaklanmaktadır?

A) Özne - yüklem uyuşmazlığından
B) Dolaylı tümleç eksikliğinden
C) Sözcüğün yanlış anlamda kullanılmasından
D) Ek yanlışlığından
E) Özne eksikliğinden

MURAT YAYINLARI

Açıklamalar • TEST 26

1. **E** A'da "ilk defa" ile "başlandı", B'de "bundan sonra" ile "artık", C'de "durmadan" ile "aralıksız", D'de "az kalsın" ile yaklaşma eyleminden (-e yazmak) çıkan anlam birbirini içeriyor (birer tanesi gereksiz).

2. **B** A, C, D, E'den "hepsi" sözcüklerini çıkarabiliriz. Çünkü bu cümlelerdeki eylemleri, özneyi oluşturan gruptakiler birlikte yapıyorlar. B'de birinci yargının öznesi "hiçbiri" belgisiz adılıdır ve cümle buna bağlı olarak olumsuz bitmiştir, oysa ikinci yargı olumludur ve birinci yargının öznesindeki elemanların "hepsi" bu olumlu eylemi (taklit etme eylemini) yapmaktadır. Burada "hepsi" kullanmak zorunludur.

3. **E** "Çalmak" sözcüğü "çokanlamlı" sözcüklerimizdendir. Bu bakımdan, "sürmek", "andırmak", "seslendirmek", "katmak, mayalamak" anlamlarını karşılamak üzere A, B, C, D'deki kullanımlar doğrudur. Ancak E'deki olay "çalmak" değil, "gasp, zorla alma"dır. Bu kullanım doğru değil.

4. **A** Gereksiz sözcük kullanımı, çoğunlukla, bir yabancı sözcükle onun Türkçe karşılığını bir arada kullanmak yüzünden ortaya çıkar. A'da hem "hafıza" hem de "bellek" var.
Bunlar eşanlamlı.

5. **D** D'de "etekleri tutuşmak" deyimi kullanılmış; ama bu cümlede etekleri tutuşturacak, yani insanı telaşlandıracak bir şey yok. Burada, sevinen bir insan var, şimdi onun "etekleri zil çalıyor."

6. **B** Belirteç görevindeki sözcüklerin, yerine göre, sıfat görevi de alabildiklerini biliyoruz: Yeni evine yeni geldi. Buna göre, sıfat belirteç B'de "yeni bağımsızlığına" kavuşan ülkelerden söz edilmiş görünse de cümlenin tümünden çıkan anlama göre "Bağımsızlığına yeni kavuşan" denmek istenmiştir.

7. **C** Cümlede, cümlenin anlamına uygun olmayan, gereksiz bir sözcük kullanılmalıdır. Bu sebeple C seçeneğindeki açıklama uygundur.

8. **A** "Bu kış mevsimini yaşamadığımız bir yıl oldu." cümlesinde "bu" söz0cüğünden sonra virgül kullanılmazsa cümlede anlam belirsizliği olur.

9. **E** "manevrası esnasında" sözüyle "manevra yaptığı sırada" sözü aynı anlama geldiğinden bu değişikliği yapmaya gerek yoktur.

10. **C** "Ölü kaybı" sözü yanlış bir kullanımdır. Doğrusu "can kaybı" olmalıdır.

11. **A** "Yer yer üç metreyi bulan kar yağışına rağmen aramalar sürüyor." cümlesinin doğru şekli "Yer yer üç metreyi bulan kara rağmen aramalar sürüyor." şeklindedir.

12. **C** Cümlede tamlanan eksikliğinden kaynaklanan bir anlatım bozukluğu vardır. Cümlenin doğrusu "Arkadaşlarım adına ve kendi adıma sizlere hoş geldiniz diyorum." şeklindedir.

13. **D** Sıralı ya da bağlı cümlelerde ortak olarak düşünülen özne cümlelerden biriyle uyuşmazsa yeni bir özen gerekir. Cümlenin doğrusu "Dilin kemiği yoktur ama dil kemiği kırar." şeklindedir.

14. **E** A, B, C, D seçeneklerinde anlatım bozukluğu nesne eksikliğinden kaynaklanmaktadır. E seçeneğindeyse özne eksikliğinden kaynaklanan anlatım bozukluğu vardır.

15. **B** A, C, D, E seçeneklerinde altı çizili sözcükler cümleden çıkarılırsa cümlenin anlamı daralır. B seçeneğindeki "aşağıya" sözcüğü cümleden çıkarıldığından daralma olmaz çünkü "sarkma" eylemi zaten "aşağıya" doğru olur.

16. **A** "Mart ayı gelince hızlı bir şekilde baharı müjdeleyen çiçeklerin açtığını göreceksiniz." cümlesinde "hızlı bir şekilde" sözü yanlış yerde kullanılmıştır. Doğrusu "Mart ayı gelince baharı müjdeleyen çiçeklerin hızlı bir şekilde açtığını göreceksiniz." olur.

17. **C** "Bugün sisli hava yüzünden kesin vapur seferleri iptal edilecek gibi görünüyor." cümlesinde anlamca çelişen sözcüklerin kullanılmasından kaynaklanan anlatım bozukluğu vardır.

18. **A** Öncül cümledeki yükleme özneyi bulmak için soru sorduğumuzda cevap alamayız. Cümlenin doğrusu "Şehrin girişine yapılan çocuk parkına çok emek harcandığı için çocuk parkı yediden yetmişe herkesçe beğenildi." şeklindedir.

19. **E** "Hepsi, kapalı bir mekânda sigara içilmemesi gerektiğini çok iyi biliyorlardı." cümlesinde özne - yüklem uyumsuzluğundan kaynaklanan anlatım bozukluğu vardır. Yüklemdeki çoğul eki olmamalıdır.

20. **B** Yan cümledeki dolaylı tümleç (edebiyat dünyamızda) temel cümleyle uyuşmamaktadır. Bu sebeple cümlenin doğrusu "Art arda yayımladığı romanlarıyla edebiyat dünyamızda ünlenen sanatçı, bir süre sonra edebiyat dünyamızdan sessizce çekilmiştir." olmalıdır.

MURAT YAYINLARI

/muratyayincilik

Anlatım Bozukluğu - II • TEST 27

1. **Aşağıdaki cümlelerin hangisinde bir anlatım bozukluğu vardır?**

A) Sanatçı, sanatını icra ederken parayı düşünmemelidir.
B) Aslında onlar Serhan'ı değil beni çekemiyorlar.
C) Sağlıklı ve mutlu olan insanlar, her zaman genç kalırlar.
D) Başarılı ve çevresiyle uyumlu olan biriydi Ercan.
E) Bu durumda kimin mutlu kimin mutlu olmadığını ancak işler bittikten sonra anlarız.

2. Bu yapıt, keyifle okunabilecek bir geminin seyir defteri gibi kaleme alınmış.

Bu cümledeki anlatım bozukluğu aşağıdaki değişikliklerden hangisiyle giderilebilir?

A) "keyifle" sözcüğünün yerine "sıkılmadan" getirilerek
B) "keyifle okunabilecek" sözü "geminin" sözcüğünden sonra getirilerek
C) "gibi" sözcüğü cümleden çıkarılarak
D) "kaleme alınmış" sözü yerine "yazılmış" getirilerek
E) "bu yapıt" sözü cümleden çıkarılarak

3. Aniden irkilmesi beni ve arkadaşlarımı çok şaşırttı.

Bu cümledeki anlatım bozukluğunun nedeni aşağıdakilerden hangisidir?

A) Ek eylem eksikliği
B) Zarf tümleci eksikliği
C) Özne - yüklem uyumsuzluğu
D) Gereksiz sözcük kullanımı
E) Sözcüğün yanlış yerde kullanımı

4. **Aşağıdaki cümlelerin hangisinde anlatım bozukluğu vardır?**

A) Şiirlerinde öncelik her zaman doğaya aittir.
B) Bu güzellikleri gören nadir insanlardan biriyim, ben.
C) İnsan da doğa gibi kendine yön veren, yenileyen bir varlıktır.
D) Türkiye'nin her yerinde resim sergileri açtı.
E) Büyük hedefler, çalışkan insanlar içindir.

5. **Aşağıdaki cümlelerin hangisinde anlatım bozukluğu vardır?**

A) Zaman içinde sanatçının sanat anlayışı değişir.
B) Doğup büyüdüğü topraklardan uzaklaştırılan sanatçının yaratıcılığı zayıflar.
C) Bir eserdeki farklılıkları belirlemek ön yargılı olmamayı gerektirir.
D) Eser, sanatçının içinde yaşadığı toplumun yapısına göre şekillenir.
E) Toplumun beğenilerini sanatçıların sanata bakışını etkiler.

6. **Aşağıdaki cümlelerin hangisinde anlatım bozukluğu vardır?**

A) Şairler kendilerini tanıtırken özel anlamlı sözcükler seçer.
B) Tanıtım yazıları yazarların eserlerine yönelik olmalıdır.
C) Sanatçılarla ilgili yazılar, sanatçıyı her yönüyle kaplamalıdır.
D) Bir yazarı tanımanın en iyi yolu onu okumaktır.
E) Yazarlar kendi yazılarını daha iyi ve tarafsız anlatır.

MURAT YAYINLARI

7. **Aşağıdaki cümlelerin hangisinde anlatım bozukluğu yoktur?**

A) Yaşamı anlamlı kılmak hedefi için insanlar birlikte çalışmalıdır.
B) İnsanı insan yapan farklı, değişik değerler vardır.
C) Yaşam anlamını bilmek ve insanlara zarar vermemek, sevgiyi tanımaktan geçer.
D) Sevgi, toplumdan topluma farklı kılıklarda görünür.
E) Sevgiler, hayatın içinde her zaman olmalıdırlar.

8. (I) Röportajlar genellikle yayınlandıkları yerin niteliğine göre biçimlenir. (II) Kısa bir giriş, sorular ve verilen cevaplardır, işin özü. (III) Bir sanatçıyla yapılan röportaj, onunla okur arasında duygusal bir köprü olur. (IV) Okuyucuya yansıyan, gerçekte orada olan değil, formel bilgidir. (V) Gazeteci ya da yazar büyük bir titizlikle yapar, işini.

Numaralanmış cümlelerin hangisinde anlatım bozukluğu vardır?

A) I. B) II. C) III. D) IV. E) V.

9. **Aşağıdaki cümlelerin hangisinde anlatım bozukluğu vardır?**

A) Kötü bir şiirin iyi olduğuna kendini inandıran biri, hiçbir zaman iyi bir şiir yazamaz.
B) İyi bir sanatçı olmak için hiçbir şiirinde belli bir düzeyin altına düşmemek gerekir.
C) Her sanatçı yazdığı tüm şiirlerde aynı başarıyı yakalayamamıştır.
D) Birkaç dize yazdı diye bir sanatçıyı başarılı saymak doğru olmaz.
E) Başarılı sayılmak için edebiyatın her dalında yapıt vermek gerekir.

10. "Yazarın çok sağlam bir roman tekniği olmakla beraber, roman kahramanlarını canlandırmada da başarılıdır."

Bu cümledeki anlatım bozukluğunun nedeni aşağıdakilerden hangisidir?

A) Özne eksikliği
B) Nesne eksikliği
C) Tamlama hatası
D) Çatı uyuşmazlığı
E) Gereksiz sözcük kullanımı

11. **Aşağıdaki cümlelerin hangisinde anlatım bozukluğu vardır?**

A) Sorumluluğunun bilincinde olan yazarlar, mutlaka başarılı olur.
B) Olayların nedenlerini araştırmak için sonucunu iyi anlamamız gerekir.
C) Siyasi içerikli metinler oluşturmaktan hiç vazgeçmedi.
D) Romanlarının hepsi politikti ama asla ders vermeye kalkmadı.
E) Okurla iletişim sağlamakta da zorlanmıyordu, bu yazarımız.

12. **Aşağıdaki cümlelerin hangisinde anlatım bozukluğu vardır?**

A) Kendi olanaklarıyla kitap basanlara hayranlık duyuyorum.
B) Genç kuşaklardan bazı okurlarımı ofisime çağırdım.
C) Ticaretten anlamadığını söyleyip bıraktığını açıkladı.
D) Değişik konularda fikir sahibi olman çok şaşırtıcı.
E) Bilinen tarihin gerçek yüzüydü, bu anlattıkların.

13. Resim çalışmalarıyla öğrencilerin (I) kafasında önceden (II) belirlenmiş kalıplar ortaya (III) çıkacak ve öğretmenin bunları (IV) yıkması zor (V) olacaktır.

Bu cümledeki altı çizili sözcüklerden hangisi atılırsa anlamda daralma ya da bozulma olmaz?

A) I. B) II. C) III. D) IV. E) V.

MURAT YAYINLARI

14. Aşağıdaki cümlelerin hangisinde anlatım bozukluğu vardır?

A) Sade dil kullanan şair, etkili ve güzel şiirler yazar.
B) Başarılı olamayacağım kaygısı insana zarar verir.
C) Yazarlar duyarlı insanlardır; insandan, sanattan bekledikleri fazladır.
D) Bir romancı ağaca bakınca meyvenin kalitesini görmez.
E) Her renkten insanla bazen burada karşılaşabilirsiniz.

15. Aşağıdaki cümlelerin hangisinde anlatım bozukluğu vardır?

A) Seyyar satıcıların etrafı rahatsız edecek kadar bağırması çok yanlış.
B) Romancı her şeyi gördüğü gibi anlatmayı sever.
C) İnsanların kötümserlikle ilgili görüşleri mutlaka değişmelidir.
D) Toplumsal sorunları bir yazar gibi değil, bir bilim adamı gibi irdelenmelidir.
E) Halay çeken insanlar yorulmak nedir bilmiyordu.

16. Aşağıdaki cümlelerin hangisinde anlatım bozukluğu vardır?

A) Koşucu başka bir klasmanda da en iyi üçüncü dereceye sahipmiş.
B) Son yarışında dünya rekorunu kırmıştı.
C) En iyiler mutlaka kazanır.
D) Her zaman 100 metrenin yarışlarında daha başarılıdır.
E) Bu yarışı da kazanması gerektiğini biliyor.

17. Aşağıdaki cümlelerin hangisinde anlatım bozukluğu vardır?

A) Tüm tiyatro izleyicilerinin ortak bir zevki paylaşması beklenemez.
B) Tiyatro oyunları, izleyicilerden alınan tepkilerle yerini bulur.
C) İlk kitap için çok emek harcadınız.
D) Bazı sanatçılar, ne kadar iyi olsalar da anlaşılmamıştır.
E) Oyun yazarları halktan beslenmelidir.

18. Aşağıdaki cümlelerin hangisinde anlatım bozukluğu yapılmamıştır?

A) Yazarın şiirlerindeki abartılı söyleyiş sınırlandırılıp tekrar basıldı.
B) Çiçeklere gereken önemi vermiyoruz, zamanla yok oluyor.
C) Seneye hiç kimse bu hatayı tekrarlamaz, doğru dürüst çalışır.
D) Seçim sonuçlarına hiç şaşırmadım ama buna çok kızdım.
E) Buralarda sensiz yaşamak çok zor ve anlamsız.

19. Aşağıdaki cümlelerin hangisinde anlatım bozukluğu vardır?

A) Yetiştiremediği ödevlerini bu gece tamamlayacağını söyledi.
B) Kardeşi aramızdan gidince hepimiz kahrolduk.
C) Akşam erken olur, hüzün dolu günlerde.
D) Saçlarını boyatıp yeni elbiseler almış.
E) Ne ben ne de Deniz dikkatsiz davrandı.

20. Aşağıdaki cümlelerin hangisinde anlatım bozukluğu vardır?

A) Güncel konular üzerine konuşmaktan her zaman kaçınmıştır.
B) Onu hiç tahmin edemeyeceğiniz bir yerde buldum.
C) Günlerce çalışmasına rağmen başarılı olamadı.
D) Ödevime şöyle bir göz attı, onaylayıp bana verdi.
E) Gerçeklerin ortaya çıkması için elinden geleni yapıyordu.

MURAT YAYINLARI

Açıklamalar • TEST 27

1. **E** Cümlenin doğrusu "Bu durumda kimin mutlu olduğunu kimin mutlu olmadığını ancak işler bittikten sonra anlarız." şeklinde olmalıdır. (Eylemsi eksikliği)

2. **B** Cümle bu haliyle düşünüldüğünde keyifle okunabilecek olan şey gemiymiş gibi bir anlam çıkmakta ve anlam belirsizliği olmaktadır. Bu sebeple B seçeneğindeki değişiklik yapılmalıdır.

3. **D** "İrkilmek" eyleminde anlam olarak "aniden" olma anlamı söz konusudur. Bu sebeple "aniden" sözcüğü gereksiz kullanılmıştır.

4. **C** Nesne eksikliğinden kaynaklanan bir anlatım bozukluğu vardır. Cümle "İnsan da doğa gibi kendine yön veren, [kendini] yenileyen bir varlıktır." şeklinde olmalıydı.

5. **E** Gereksiz ek kullanımından kaynaklanan anlatım bozukluğu vardır. Cümle "Toplumun beğenileri sanatçıların sanata bakışını etkiler." şeklinde olmalıydı.

6. **C** Burada yanlış sözcük kullanımıyla alakalı bir anlatım bozukluğu söz konusudur. "Kaplamalıdır" sözcüğü "kapsamalıdır" olmalıdır.

7. **D** A'da gereksiz sözcük kullanımı **[hedefi]**, B'de gereksiz sözcük kullanımı **[değişik]**, C'de tamlayan eksikliği **[yaşamın]**, E'de özne yüklem uyumsuzluğu **[sevgiler,... olmalıdırlar]** vardır.

8. **A** Burada sözcüğün yanlış kullanımından kaynaklanan bir anlatım bozukluğu vardır. Yayın sözcüğü fiil olarak kullanılmaz, bu fiilin yerine "yayımla-" eylemini kullanmak daha doğru olur.

9. **B** Gereksiz ek kullanımından kaynaklanan bir anlatım bozukluğu vardır. Cümle "İyi bir sanatçı olmak için hiçbir şiirde belli bir düzeyin altına düşmemek gerekir." olmalıydı.

10. **A** Özne eksikliğinden kaynaklanan anlatım bozukluğu vardır. Cümle, "...[yazar] roman kahramanlarını canlandırmada da başarılıdır." şeklinde olmalıdır.

11. **D** Dolaylı tümleç eksikliğinden kaynaklanan anlatım bozukluğu vardır. Cümle, "Romanlarının hepsi politikti ama [romanlarında] asla ders vermeye kalkmadı." şeklinde olmalıdır.

12. **C** Nesne eksikliğinden kaynaklanan bir anlatım bozukluğu vardır. Cümle "Ticaretten anlamadığını söyleyip [ticareti] bıraktığını açıkladı." olmalıdır.

13. **B** Burada "belirlenmiş kalıplar" zaten "önceden" vurgusunu ve anlamını vermektedir. Bu kelimeyi cümleden atmak anlatım bozukluğuna yol açmaz.

14. **C** Cümlede tamlayan eksikliği vardır. Doğrusu "... [yazarların] insandan..." şeklinde olmalıdır.

15. **D** Gereksiz ek kullanımı ya da çatı uyuşmazlığından kaynaklanan bir anlatım bozukluğu vardır. Cümle "Toplumsal sorunlar...." şeklinde başlamalıydı.

16. **D** Burada tamlama yanlışlığı çok bariz görülmektedir. Aslında sıfat tamlaması olmalıydı. "100 metrenin yarışlarında" değil "100 metre yarışlarında" olmalıydı.

17. **A** Tiyatro izleyicileri derken zaten bir genelleme yapıldığı için "tüm" sözcüğü gereksiz kullanılmıştır.

18. **E** A'da özne eksikliği **[kitap tekrar basıldı]**, B'de özne eksikliği **[çiçekler zamanla yok oluyor]**, C'de özne eksikliği **[herkes doğru dürüst çalışır]**, D'de gereksiz tümleç ya da tümleç artıklığı **[ama çok kızdım]** şeklinde düzeltilmeliydi.

19. **E** Yüklem eksikliğinden kaynaklanan bu anlatım bozukluğu "Ne ben [dikkatsiz davrandım] ne de Deniz dikkatsiz davrandık." şeklinde düzeltilebilir.

20. **D** Bu cümlede nesne eksikliğinden kaynaklanan bir anlatım bozukluğu vardır. Cümle "Ödevime şöyle bir göz attı, [ödevimi] onaylayıp bana verdi." şeklinde düzeltilebilir.

MURAT YAYINLARI

Genel Test - I • TEST 28

1. (I) Bugüne kadar hep gurbeti suçladılar. (II) Sanki ayrılıkların sebebiymiş gibi fakat hiç te öyle değil. (III) Tam tersine gurbet garip kuşa yuva, gurbetçiye de ana kucağıdır. (IV) Gurbet öğretir insana insan olmayı. (V) Kimseye bağlı kalmadan yaşamayı...

Bu parçada numaralanmış cümlelerin hangisinde bir yazım yanlışı yapılmıştır?

A) I. B) II. C) III. D) IV. E) V.

2. (I) Yaşlandıkca anlayışımın artacağını düşünürdüm. (II) Anladımki yanılmışım. (III) Gerçi düşünmeyen gençlere kızgınmı kızgınım. (IV) Oysa ki alçakgönüllülük benim işim, düşünmek onların ki... (V) Tabi düşünen, çalışan, üreten zehir gibi gençler de var.

Bu parçada numaralanmış cümlelerin hangisinde yazım yanlışı yoktur?

A) I. B) II. C) III. D) IV. E) V.

3. (I) Edebiyat, insanlık onurunu koruyan en değerli şeydir. (II) Zedelenmiş bir onuru ne yasalar ne töreler ne de örf ve adetler koruyabilir yeteri kadar. (III) Edebiyat, bu bakımdan sığınılacak tek yerdir. (IV) Çünkü yazmak ve okumak, insanlık değerlerinin korunmasının sırlarını ve işaretlerinin ipuçlarını sunar okura. (V) Bu, onurun korunmasında güven yaratan bir durumdur.

Bu parçadaki numaralanmış cümlelerle ilgili olarak aşağıda verilenlerden hangisi yanlıştır?

A) I. cümlede, edebiyatın işlevinden bahsedilmektedir.

B) II. cümlede, çeşitli olguların edebiyatla ortak yönleri aktarılmaktadır.

C) III. cümlede, sınırlama anlamı vardır.

D) IV. cümlede, iki kavramın faydasından söz edilmektedir.

E) V. cümlede, bir durumun sonucu aktarılmaktadır.

4. Aslına bakılırsa Batılılaşma tarihimiz, bir "evden kaçış" tarihidir ya da evden kaçış yolları arayan yeni hevesler peşindeki çocukların iki yüz yıllık macerasıdır. Yahya Kemal de bu kaçaklardan biriydi. Fakat evde kalanları zelzeleyle baş başa bırakma bilinçsizliğinden tez uyandı ve "eve döndü". Artık evin şiirini yazacaktı. Biliyordu ki ev, ancak içinde yaşayanlarla evdir.

Bu parçanın bütünü göz önünde bulundurulursa "Yahya Kemal'in eve dönmesi" **ifadesiyle anlatılmak istenen hangisidir?**

A) Şiirde teknik açıdan ve içerik açısından ulusal kaynaklara yönelmesi

B) Şiirde kendi yaratısı olan yenilikleri çağdaşlarına benimsetmesi

C) Batı şiir tekniğini ve gerçeğini sonunda kavraması

D) Eski yanlışlarından kurtulup Batı şiir tekniğine dönmesi

E) İç dünyasını şiirlerine yansıtmaya başlaması

5. **Aşağıdaki cümlelerin hangisinde karşıt durumlar bir arada verilmiştir?**

A) Ağaçların arasındaki bu karanlık yolda merdivenleri bulmak için koşturuyordum.

B) Şahsına yönelik çıkan yazıları gazetedeki köşesinde yanıtlıyordu.

C) Daha dün kalabalıktan hareket edilemeyen bu cadde şimdi oldukça tenha.

D) Çok konuşan insanları anlamak da dinlemek de beni yoruyor.

E) Dostlarıyla vakit geçirmek için yaşadığı kenti terk etti.

MURAT YAYINLARI

6. (I) İznik, üç yüz yıl boyunca çinicilik sanatının merkezi olmuştur. (II) Yaklaşık üç yüz fırında üretilen çiniler, Osmanlı İmparatorluğu'nun dört bir yanındaki eserleri süslemiştir. (III) 18. yüzyılın ortalarında Kütahya'da yapılan daha kaliteli çiniler, İznik çiniciliğinin inişe geçmesine neden olmuştur. (IV) Her ne kadar inişe geçse de İznik çinileri, birçok eserde yerini almaya devam etmiştir. (V) Bugün bu çinilerin dünya sanatında da yerini aldığını görüyoruz.

İznik çinilerinin anlatıldığı bu parçadaki numaralanmış cümlelerle ilgili olarak aşağıda verilenlerden hangisi yanlıştır?

A) I. cümlede, çiniciliğin nerede doğduğu belirtilmiştir.
B) II. cümlede, nerede kullanıldığı söylenmiştir.
C) III. cümlede, karşılaştırma yapılmıştır.
D) IV. cümlede, hem olumlu hem olumsuz durumlar aktarılmıştır.
E) V. cümlede, geniş coğrafyalarda kullanıldığı söylenmiştir.

7. "Metinler arası ilişkide en önemli unsur, gerçeği göz ardı etmeden olduğu gibi yansıtmaktır."

Bu cümle için aşağıdakilerden hangisi söylenemez?

A) Belirtili isim tamlaması vardır.
B) Üç tane eylemsi vardır.
C) Deyim kullanılmıştır.
D) İsim cümlesidir.
E) İyelik eki kullanılmıştır.

8. **Aşağıdaki cümlelerin hangisinde virgülün (,) görevi farklıdır?**

A) Kitaplar, defterler odanın dört bir yanına yayılmıştı.
B) Tüllerle, dantellerle doluydu ev.
C) Büyük, kara gözleriyle süzüyordu etrafı.
D) Tatlı dilli, güler yüzlü bir çocuktu Onur
E) Gülenay, özenle dinliyordu hocasının anlattıklarını.

9. (I) Ağrı Dağı'nda konser vermek istiyorum. (II) Herkesin yere oturduğu, naturel doğal bir "salon" düşünüyorum bunun için. (III) Örneğin, bunun yanında bir de Ramazan konseri vermek istiyorum. (IV) Bir arkadaşım, Saraybosna Flarmoni Orkestrası'nın bir konserini izledi. (V) Bana da böyle bir şeyi önerdi.

Bu parçada numaralanmış cümlelerin hangilerinde anlatım bozukluğu vardır?

A) I. ve II. B) I. ve III. C) II. ve III.
D) III. ve IV. E) IV. ve V.

10. **Aşağıdaki dizelerin hangisinde yargı, gerekçesiyle birlikte verilmemiştir?**

A) Dünyada biricik sevdiğim sensin
Güzelsin, incesin, tatlısın, şensin
B) Nasıl başkasını, gönlüm beğensin
Güzelsin, incesin, tatlısın, şensin
C) Görüp de sevmemek ne mümkün seni
Güzelsin, incesin, tatlısın, şensin
D) Arıyor gözlerim bütün gün seni
Güzelsin, incesin, tatlısın, şensin
E) Gördüm geçiyorken yine dün seni
Güzelsin, incesin, tatlısın, şensin

11. İki katlı hayli eski bir evin kapısını hikayecimiz açtı ( ) Her haliyle son derece samimi ( ) cana yakın ( ) kırk yaşlarında ( ) zayıfça bir insan ( )

Parçada parantezle gösterilen yere aşağıdaki noktalama işaretlerinden hangileri getirilmelidir?

A) (:) (,) (,) (,) (...)
B) (.) (,) (;) (,) (...)
C) (,) (,) (,) (,) (...)
D) (;) (,) (;) (,) (...)
E) (.) (,) (,) (;) (...)

MURAT YAYINLARI

12. (I) Yüzlerce değerli kitap duruyor kütüphanemde. (II) Kitaplarımı ihtiyaç duyulunca "Ben buradayım." diyebilecek bir güzellikte yerleştirdim. (III) Kimilerinin tozlanmış olması, onlara uzun zaman el sürülmemesinden kaynaklanıyor. (IV) Biliyorum; onlar da içlerinde nice güzel hayalleri, duyguları, düşünceleri yaşatıyorlar. (V) Sıraları gelince onlar da önümde derya gibi açılacaklar.

Bu parçada numaralanmış cümlelerden hangisinde kişiden kişiye değişmeyen bir yargı vardır?

A) I. B) II. C) III. D) IV. E) V.

13. **Aşağıdaki cümlelerden hangisi bir doğrudan anlatım cümlesidir?**

A) Son günlerde hepimizden ayrı bir dünya kuruyordu kendine.
B) Bütün işlerini bize göre ayarlayacağını söylemişti.
C) Kitaplarını toplayarak kürsüye geçip konuyu anlatacağını söyledi.
D) Kâmile, yeni bir ev almak istiyorum, diyerek gitti.
E) Bu konudaki görüşlerinizi açıklar mısınız?

14. **Aşağıdakilerin hangisinde yan cümle temel cümlenin farklı bir ögesidir?**

A) Anlattıklarımı kimseye söylemeyeceksin!
B) Törene gelenleri, arka kapıdan içeri al.
C) Ders çalışmayı hiç sevmiyor bu çocuk.
D) Onlarla bir daha konuşmayı deneyeceğim.
E) Söyledikleri bir hayli ilgimi çekmişti.

15. Deyimler anlatımı somutlaştıran ve zenginleştiren sözcük kalıplarıdır. Derdini kimseye söyleyememek anlamında içine atmak, bir yerin ıssız ve sessiz olması anlamında in cin top oynamak, birini kandırarak zarara sokmak anlamında kazık atmak, güç bir işi yaparken çok zorlanmak anlamında göbeği çatlamak, kötü işler düşünene yardım etmek anlamında sepet havası çalmak deyimleri kullanılır.

Bu numaralanmış deyimlerden hangisi yanlış açıklanmıştır?

A) I. B) II. C) III. D) IV. E) V.

16. Yaşamak, bir direnişin hikâyesidir
Aşk gibi...
Aşkta direnmessen yaşamak gibi
Yok olursun
Benim gibi...

Bu dizeler için aşağıdakilerden hangisi söylenemez?

A) Edat vardır.
B) Yazım yanlışı yapılmıştır.
C) Fiil cümlesi vardır.
D) İsim tamlaması vardır.
E) Niteleyici sözcük kullanılmamıştır.

MURAT YAYINLARI

17. (I) Kitabımı yazarken gerçeği hiçe sayan sanat anlayışlarına, düşünce oyunlarına kapılmamaya çalıştım. (II) Bu nedenle yazın ürünlerini sürekli göz önünde bulundurdum. (III) Vardığım yargıları şiir örnekleriyle doğrulamak yerine, şiir örneklerine dayanarak yargılar vermek yolunu seçtim. (IV) Kitabımın ön sözünde de belirttiğim gibi, şiirin ne olduğunu değil, ne olmadığını göstermek istedim. (V) Kitabıma gösterilen yoğun ilgiden anlıyorum ki bu uğraşım boşa gitmemiş.

Bu parçada numaralanmış cümlelerin hangisinde yazar amacını belirtmiştir?

A) I. B) II. C) III. D) IV. E) V.

18. "Üstü toprak ve çamurla kaplanmış dar kapısından başka girecek hiçbir yeri olmayan karanlık evinde, tek başına, durup dinlenmek bilmeden çalışan Deli Mustafa, tıpkı kafese konmuş terbiyeli bir aslanı andırıyordu."

Bu cümlenin öznesi aşağıdakilerden hangisidir?

A) Deli Mustafa
B) Çalışan Deli Mustafa
C) Durup dinlenmek bilmeden çalışan Deli Mustafa
D) Tek başına durup dinlenmek bilmeden çalışan Deli Mustafa
E) Başka girecek hiçbir yeri olmayan karanlık evinde, tek başına, durup dinlenmek bilmeden çalışan Deli Mustafa

19. **Aşağıdakilerin hangisinde soru başka bir ögeyi buldurmaya yöneliktir?**

A) Bu tavsiyeyi sizden mi aldı benim ablam?
B) Her gün işe bu yoldan mı gidiyorsun?
C) Bu aklı sen ondan mı aldın?
D) Neden bu kadar umursamazsın?
E) Bu cesareti kimden alıyorsun?

20. **Aşağıdakilerden hangisinde kısa çizginin (-) görevi farklıdır?**

A) İstanbul - Ankara arası yol yapım çalışmaları devam ediyor.
B) Türkiye - İsrail ilişkileri her gün daha da geriliyor.
C) Galatasaray - Fenerbahçe mücadelesi merakla bekleniyor.
D) Özne - yüklem uyuşmazlığı bir anlatım bozukluğudur.
E) Yılmaz Hoca - Türkçe öğretmeni - bugün dershaneye gelmemiş.

MURAT YAYINLARI

/muratyayincilik

Açıklamalar • TEST 28

1. **B** Ayrı yazılan "de" bağlaçtır. Bağlaç olan "de"nin "te/ta" biçimi olmaz. Doğrusu "hiç de" olmalıdır.

2. **E** **A seçeneği:** Gerçekleşen ünsüz benzeşmesi yazıya aktarılmazsa yazım yanlışı olur. Sözcüğüm doğrusu "yaşlandıkça" olmalıdır.
B seçeneği: Eylemlerden sonra gelen "ki" bağlaçtır ve sözcükten ayrı yazılır. Doğrusu "Anladım ki" olmalıdır.
C seçeneği: "mi" soru edatı pekiştirme anlamı katsa dahi ayrı yazılır. Doğrusu "kızgın mı kızgın" olmalıdır.
D seçeneği: Kalıplaşmış "ki"ler bitişik yazılır. Doğrusu "oysaki" olmalıdır.
* E seçeneğinde herhangi bir yazım yanlışı yoktur.

3. **B** II.cümlede olguların edebiyatla ilişkisinden değil, bazı olaylarda bu olguların da yetersiz kalacağı anlatılmıştır.

4. **A** Parçada yanlış Batılılaşma ve bunun sonucunda kendine yabancılaşma anlatılıyor. Buna bağlı olarak da "eve dönüş" sözü kendi kaynaklarına, kendi kültürüne dönmeyi ifade eder.

5. **C** C seçeneğindeki "kalabalık" ve "tenha" sözcükleri birbirine karşıt sözcüklerdir.

6. **A** I. cümlede, İznik'in çinicilikte bir merkez olduğu anlatılıyor. Böyle bir yargıdan da çiniciliğin doğduğu yer olması çıkmayacağından cevap A' dır.

7. **A** "Etmeden(bağ fiil), olduğu(sıfat fiil), yansıtmak(isim fiil)" sözcükleri eylemsidir. "Göz ardı etmek" deyimdir. "Yansıtmak" tür olarak isim olduğu için cümle isim cümlesidir. "Metinler arası" sözcüğündeki "-sı" eki iyelik ekidir. Cümlede belirtili ad tamlaması kullanılmamıştır.

8. **E** Virgül; A, B, C ve D seçeneklerinde eş görevli sözcükleri ayırmak için kullanılmıştır. E seçeneğindeyse yüklemden uzak özneyi vurgulamak için kullanılmıştır.

9. **C** II. cümlede "naturel"; III. cümlede "bunun yanında" sözcükleri gereksiz kullanılmıştır.

10. **E** C seçeneğinde "Gördüm geçiyorken yine dün seni" mısrasında sevgiliyi görmesinin gerekçesi belirtilmemiştir.

11. **B** Cümle tamamlandığı için nokta, örnekleri ayırmak için virgül, gruplamaları ayırmak için noktalı virgül, yüklemi olmayan cümlelerin sonunda üç nokta kullanılır.

12. **C** Kişiden kişiye değişmeyen yargı demekle anlatılmak istenen nesnel bir yargıdır. III. cümlede de böyle bir yargı vardır çünkü uzun süre ellenmeyen her şey toz tutar. Bu da nesnel bir ifadedir.

MURAT YAYINLARI

13. D Doğrudan anlatım, başkasının sözünü hiç değiştirmeden aktarmaktır. Buna bağlı olarak D seçeneğinde de böyle bir kullanımın olduğu görülür.

14. E

A seçeneği:
Söylemeyen **KİM**? → sen → gizli özne
Sen **NEYİ** söylemeyeceksin? → anlattıklarımı → belirtili nesne
* Yan cümle (anlattıklarımı-sıfat fiil) temel cümlenin nesnesidir.

B seçeneği:
Alan **KİM**? → sen → özne
Sen **KİMİ** al? → Törene gelenleri → belirtili Nesne
* Yan cümle(törene gelenleri- sıfat fiil) temel cümlenin nesnesidir.

C seçeneği:
Sevmeyen **KİM**? → bu çocuk → özne
Bu çocuk **NEYİ** sevmiyor? → ders çalışmayı → belirtili nesne
* Yan cümle (ders çalış**may**ı – isim fiil) temel cümlenin **nesnesidir**.

D seçeneği:
Deneyen **KİM**? → ben → özne
Ben **NEYİ** deneyeceğim? → onlarla bir daha konuşmayı → Belirtili Nesne
* Yan cümle (onlarla bir daha konuşmayı- isim fiil) temel cümlenin nesnesidir.

E seçeneği:
İlgimi çeken **NE**? → söyledikleri → özne
* Yan cümle (söyledikleri- sıfat fiil) temel cümlenin öznesidir.

15. E "Sepet havası çalmak" yanından uzaklaştırmak, gitmesini sağlamak anlamında kullanıldığından cümlenin anlamına uygun değildir.

16. E **"Gibi"** edattır. **"Direnmessen"** bu şekilde değil "direnmezsen" seklinde yazılır. **"Yok olmak"** fiil cümlesidir. **"Direnişin hikâyesi"** isim tamlamasıdır. Dizelerde niteleyici bir sözcük yoktur.

17. D IV. cümledeki "şiirin ne olduğunu değil, ne olmadığını göstermek istedim." kısmı yazarın amacını bildirdiğinden cevap D' dir.

18. D Andıran KİM? → tek başına, durup dinlenmek bilmeden çalışan Deli Mustafa → özne

19. D Bu sorula0ra yanıt verdiğimizde (sizden aldı, bu yoldan gidiyorum, ondan aldım, birilerinden alıyorum) A, B,C,E seçeneklerinde dolaylı tümleç bulurken D seçeneğinde zarf tümlecini buldurur.

20. E Kısa çizgi A, B, C ve D seçeneklerinde iki sözcük arasında "ve, ile" sözcüklerinin yerine kullanılmış; E seçeneğindeyse ara sözü ayırmak için kullanılmıştır.

MURAT YAYINLARI

/muratyayincilik

Genel Test - II • TEST 29

1. Aşağıdaki cümlelerin hangisinde noktalama yanlışlığı yapılmıştır?

A) Anlatayım mı, anlatmayayım mı, bir türlü karar veremedim.
B) Az yiyen, tazı; çok yiyen, kuzu olur.
C) İhtiyar, adama doğru öfkeyle bağırdı.
D) "Av Mevsimi" sinemamızın ruhunu yansıtan bir film olmuş.
E) Eren, son bir hamleyle rakibinin önünü kesti.

2. (I) Ataç, otuzbeş yıl didiklemeye parçalamaya hazır bir şahindi. (II) Düşünme duymamıza ulaşamadığı hiç bir yer kalmayana kadar hep av peşinde koştu. (III) Ne kadar edebiyatcı, düşünür varsa hepsini heran kendi gibi tetikte tuttu. (IV) Eline kalemi alan her gerçek sanatçı yada yazar, onun vereceği yargıyı göz önünde tutuyordu. (V) Hayırlı bir korkuydu bu...

Bu parçada numaralanmış cümlelerin hangisinde bir yazım yanlışı yapılmamıştır?

A) I. B) II. C) III. D) IV. E) V.

3. Anadolu'yu anlatmaktan vazgeçmeyen bu yazar bir röportajında şöyle der: " Biz edebiyatçılar olarak taklit dönemini bitirdik ve üretmeye başladık."

Bu cümlede geçen altı çizili sözle anlatılmak istenen aşağıdakilerden hangisidir?

A) Yerel söyleyişe yer vermek
B) Özenmeyi bırakıp özgün olmak
C) Değişik bir pencereden bakmak
D) İnsanı konu almak
E) Geçmişe tutunmak

4. Aşağıdaki cümlelerin hangisinde, yargı gerekçesiyle birlikte verilmiştir?

A) Kitap okumak bizim insanımız için gereksiz bir iş, angarya gibi geliyor.
B) Gençler içinde, kitap okumanın boş bir uğraş olduğunu söyleyenler bile var.
C) Okuyanların, bu ülkede hakkıyla itibar görmemesi gençleri kitaptan uzaklaştırıyor.
D) Ne yapıp edip gençlerle kitapları buluşturmak gerekiyor.
E) Aksi durumda geleceğimiz pek de aydınlık olmayacak gibi.

5. Aşağıdaki cümlelerin hangisinde ara söz tamlama olup belirtili nesne görevinde kullanılmıştır?

A) Mahallesine, çocukluğunun geçtiği yere, geri dönmüştü.
B) Serhan'ı, en sevdiği arkadaşını, bir türlü unutamıyordu.
C) Bu olaydan sonra, siz de bir hatırlayın, her şey değişti.
D) Defteri, kalemi, kalem kutusunu çantaya koyup okula koşardı.
E) Önce üstünü giyindi sonra da vakur bakışlarla aynaya baktı.

6. Aşağıdaki cümlelerin hangisi yapısına göre diğerlerinden farklıdır?

A) Bozacının sesini her duyduğumda aklıma Zehra gelir.
B) Bir zamanlar çok şey kendisinden umulan bu deha, artık bunama denen illetin peşindeydi.
C) Askerler savaşa sevdiklerini geride bırakarak gidiyordu.
D) Her şey, yıllar önce o evin bahçesinin önündeki incir ağacının altında başlamıştı.
E) Dertler içimi sardığında okyanus mavisi gözlerin gelir aklıma.

MURAT YAYINLARI

7. **Aşağıdaki altı çizili eklerden hangisi farklı bir görevdedir?**

A) Kardeşinle didişip durmayın!
B) Bu çocuğa verilecekler önceden ayarlandı.
C) Bütün gün durmadan pencerenin kenarında oturup bakışıyorduk.
D) Beni evimize doğduğum yere götürün.
E) Bu bilmiş tavırları öldürüyor beni.

8. Şimdi ölüm bile yetmiyor
I
acılarımızı tartmaya, dostlar alıngan bir sahili
II III IV
pinekliyor, bir "merhaba"yı bıçaklar gibi artık
V
selamlaşmalar

Numaralanmış sözcüklerden hangisi yapıca farklıdır?

A) I. B) II. C) III. D) IV. E) V.

9. **Aşağıdaki cümlelerin hangisinde edat (ilgeç) kullanılmıştır?**

A) En zor şartlarda azminden bir şey kaybetmezdi.
B) Toplantıda alınan kararları sana söyleyeceğim.
C) Bu son olsun diye bir sigara daha yaktım.
D) Bununla beraber nedense bu yalnızlık hissine kapılmıştı.
E) Masada oturan ihtiyardan haberi yoktu.

10. **Aşağıdaki cümlelerin hangisinde yüklemin kökü diğerlerinden farklı bir türdedir?**

A) Kış geldiğinde hava erken kararır.
B) Ağaçlar ilkbaharda yeniden filizlenir.
C) Her sabah kalkıp hiç üşenmeden bahçeyi sulardı.
D) Biricik evlatları öğrenci yurduna yerleştirdiler.
E) En iyi arkadaşımın bu davranışına kırıldım.

11. (I) Oraya gitme planını kışın yapmıştık. (II) Eğlenmek ve şehrin gerginliğinden uzaklaşmak istiyorduk. (III) Giderlerimiz için epeyce de para biriktirmiştik. (IV) Çocuklarımızdan biri, bir sabah aniden rahatsızlandı. (V) Biriktirdiğimiz para hastaneye gidince biz de evde oturmak zorunda kaldık.

Bu parçadaki numaralanmış cümlelerle ilgili olarak aşağıda verilenlerden hangisi yanlıştır?

A) I.cümlede, bir tasarı anlamı vardır.
B) II. cümlede, amaçlanan bir durumdan söz edilmektedir.
C) III. cümlede, cümle nedeniyle verilmiştir.
D) IV. cümlede, beklenilmeyen bir olaydan bahsedilmiştir.
E) V. cümlede, var olan durumu kabullenmeme anlamı vardır.

12. **Aşağıdaki cümlelerin hangisinde eylemin daha önce yapıldığı anlamı yoktur?**

A) Sana bunu daha kaç kere söylemem lazım!
B) Söylediklerini başka bir yerden duymuş gibiyim.
C) Siz yavaş yavaş yürüyün, ben bir daha arayayım.
D) Bir film her izlendiğinde de ağlatmaz ki!
E) Kazanmak istiyorsan sınavda da aynı hataları yapmamaya özen göster.

MURAT YAYINLARI

/muratyayincilik

13. (I) İçi boş ya da içi dolu; yumuşacık ya da sert, biçimden biçime girebilen, gerçeğini andıran... (II) Çocuğun hayal dünyasını zenginleştiren, hayallerini gerçek boyuta taşıyan çeşitli biçimlerde yapılabilen nesnelerdir, oyuncaklar. (III) Oyuncaklar tasarımcılar tarafından geliştirilmiş ya da anne tarafından bezden dikilmiş olabilir. (IV) Oyuncak, her yaştaki insana masumiyeti, dertsizliği, inancı, umudu, çocukluğu hatırlatır. (V) Yavru köpeğin uyandırdığı şefkati duyurur. (VI) Oynama, hayal kurma, hayali gerçekleştirebilme isteği uyandırır.

Bu parça iki paragrafa bölünmek istense ikinci paragraf hangi cümleyle başlar?

A) II. B) III. C) IV. D) V. E) VI.

14. **Aşağıdaki cümlelerin hangisinde deyim açıklamasıyla verilmiştir?**

A) Sana bu konuyu anlatayım diye dilimde tüy bitti.
B) Mahalleden ayağını kesmiş, çok uzaklarda yaşamaya başlamıştı.
C) Eve geç geldiğimi öğrenince küplere bindi.
D) Onun gözüne girmek için günlerdir bu projeyle uğraşıyordu.
E) Her şeyi en ince ayrıntısına kadar düşünüyor, kılı kırk yarıyordu.

15. **Aşağıdaki cümlelerden hangisinde tamlayanla tamlanan arasına sözcük girmiştir?**

A) Derste konuşulanların konuyla ilgisi yoktu.
B) Rüzgârın kulakları sağır eden sesi herkesi korkutuyordu.
C) Büyülü gecenin sonuna yetişmeyi başardık.
D) Emir erini yanına çağırdı Ahmet Albay.
E) Çalışanların tavrı müdürü duygulandırmıştı.

16. I. Kendini savunan insanın, eleştirilecek yanlarının olduğu kaçınılmazdır.
II. Kendini tanıyan insan, kendini savunur ancak çoğu zaman insan kendini tanıdığında iş işten geçmiş olur.
III. Sorunlarla başa çıkabilmek için önce kendimize güvenmeliyiz.
IV. Her şeye rağmen kendini tanımak insanı sorunların karşısında güçlü kılar.
V. Kendi eksiklerimizi ve üstünlüklerimizi algılayıp kendimizi savunmakta gecikmemeliyiz.

Numaralanmış cümlelerden hangileri anlamca birbirine en yakındır?

A) I. ve II. B) I. ve III. C) II. ve III. D) II. ve V. E) IV. ve V.

17. **Aşağıdaki cümlelerin hangisinde virgül (,) diğerlerinden farklı bir amaçla kullanılmıştır?**

A) Bütün kış orayı, yazlık evini, çok özlemişti.
B) Öğrenciler Cansu'yu, yeni asistanı, epey sevdiler.
C) Son derece gösterişsiz, gözü yormayan bir kıyafetle geldi.
D) Aklınızdan geçenleri, söylemek istediklerinizi, asla ertelemeyin.
E) Her zaman yanında taşıdığı uğurunu, küçük bilyesini, bu kez unutmuştu.

18. **Aşağıdaki cümlelerin hangisinde yazım yanlışı yapılmıştır?**

A) İZSU'nun çalışmaları nedeniyle trafik sıkışıyordu.
B) Bu ayın sonuna doğru Ege'nin kıyıları canlanacak.
C) Mahallemizin berberi herkesin sevdiği biriydi.
D) Zamanında çok tehlikeli olan sarı humma hastalığı artık görülmüyor.
E) Bütün olanları ona da mı anlattın?

MURAT YAYINLARI

19. **Aşağıdakilerin hangisinde, ikinci cümle birincinin açıklaması değildir?**

A) Gerçek sanat, haklarına ve özelliklerine toz kondurmayı kabul etmez. Kabul ettiği an, kendisi de yok olmuş demektir.

B) Bilimsel yapıtların temel amacı bilgi iletimidir. Yazınsal yapıtlar ise yaşamı güzelleştirmek için yaratılır.

C) Batı'yı seçmenin yetmediğini açıkça söylemek gerekiyor. Benliğimizi korumak için Batı'yı seçerken de seçim yapmalıyız.

D) Deneylerden gereken dersi alamıyoruz. Bunca görüp geçirdiklerimizden sonra, hala eski yanlışlara kolayca düşüyoruz.

E) Sanat anlayışında "en büyük şair" nitelemesi yoktur. Böyle bir nitelemeyi, sanatla bilimi aynı düzlemde görenler yapabilir.

20. I. Deniz mavisi gözlerin, gökyüzünü andırıyordu, usul usul.

II. Aklımın firar zamanlarında yoldan çıkıyordu, düşlerim.

Bu cümleler için aşağıdakilerden hangisi söylenemez?

A) I. cümlede, ikileme ve niteleyici sözcük kullanılmıştır.

B) II. cümlede, kişileştirme ve deyim vardır.

C) I. cümle durum, II. cümle zaman bakımından tamamlanmıştır.

D) I. cümlede benzetme, II. cümlede soyut sözcük vardır.

E) İki cümle de üç ögelidir.

21. (I) Sorularımı acı bir gülümsemeyle yanıtladı. (II) Ne diye sormuştum bunları? (III) Her şeyin değişmez bir karara bağlandığını anlamıştım. (IV) Fakat ben de taştım artık. (V) Kalbimin duracakmış gibi yavaş yavaş attığı bile fark edilmiyordu.

Bu parçadaki numaralanmış cümlelerden hangisinde eylemi yapan belli değildir?

A) I. B) II. C) III. D) IV. E) V.

22. "Sanatçı, bu yapıtında ..... yöntem izleyerek bireylerin gündelik yaşamdaki çatışmalarını anlatmaktan kaçınıyor."

Bu cümlede boş bırakılan yere aşağıdakilerden hangisinin getirilmesi en uygundur?

A) herkesin merak ettiği bir

B) dili anlaşılır bir

C) öteki yapıtlarından değişik bir

D) eleştirileri göze alan bir

E) her eserindeki gibi bir

23. "Geçmişteki hatalarından ders almayanlara geleceğin kapısı açılmaz."

Bu cümlede anlatılmak istenen aşağıdakilerden hangisidir?

A) Hatalar yeni bir doğruyu ortaya çıkartır.

B) Yanlış yapmaktan korkanlar başarıyı yakalayamaz.

C) Yaşadığımız anlar geçmişten bağımsızdır.

D) Hatalarından ders çıkaranların önü açıktır.

E) Geçmiş ve gelecek birbirinden ayrı düşünülemez.

24. "Hele şu sınavı bir kazan..." cümlesindeki üç nokta, aşağıdakilerin hangisiyle aynı işlevdedir?

A) ... ülkesinden göç etmişler.

B) Şair birçok konu işlemiş: aşk, ayrılık, ölüm...

C) Çocuğa ... herif diye bağırdı.

D) Evde eş dost, akraba... herkes vardı.

E) Yağmur o kadar güzel yağıyor ki...

25. **Aşağıdaki cümlelerin hangisinde altı çizili söz farklı bir görevde kullanılmıştır?**

A) Dağ gibi adam, karşımda eridi.

B) Buz gibi hava bizi etkiledi.

C) Kardeşi adam gibi bir kadındı.

D) Yılan gibi gözleri vardı.

E) Çocuk, topu fırlattığı gibi kaçtı.

MURAT YAYINLARI

/muratyayincilik

Açıklamalar • TEST 29

1. **A** "Anlatayım mı, anlatmayayım mı" söz grubunda ilk virgül eş görevli sözcükleri ayırmak için kullanılmıştır fakat "anlamayayım mı" dan sonra virgül kullanılmaz.

2. **E** A seçeneğinde sayıların her basamağı ayrı yazıldığından sözcüğün doğru yazımı **"otuz beş"** olmalıdır. B seçeneğinde sözcüğün doğru yazımı **"hiçbir yer"** şeklinde olmalıydı C seçeneğinde ünsüz benzeşmesi kuralının yazıda gösterilmesi gerektiğinden sözcüğün doğru yazımı **"edebiyatçı"** ve **"her an"** sözcüğü ayrı yazılmalıdır. D seçeneğinde **"ya da"** sözcüğü ayrı yazılmalıydı.

3. **B** Parçadaki altı çizili sözde kullanılan "taklit dönemini bitirmek" kısmı, "başkasına benzemeyen, özgün yapıtlar vermek" anlamındadır.

4. **C** C seçeneğindeki cümleye "Gençleri kitaptan neden uzaklaştırıyor?" diye sorduğumuzda "okuyanların bu ülkede yeterince itibar görmemesinden" kısmını buluruz.

5. **B** Cümleden çıkarıldığında cümlenin anlamını bozmayan ve iki kısa çizgi ya da virgül arasına alınan söz grupları ara sözlerdir.

A seçeneği:
Nereye dönmüştü? → dolaylı tümleç
çocukluğunun geçtiği — yere → sıfat tam.
sıfat — ad

B seçeneği:
kimi unutamıyordu? → belirtili nesne
en sevdiği — arkadaşını → sıfat tam.
sıfat — ad

C seçeneği:
"siz de bir hatırlayın" ara söz değil ara cümledir.
D ve E seçeneğinde ara söz kullanılmamıştır.

6. **D** A seçeneğinde "duy**duğumda**" zarf fiil, B seçeneğinde "umulan" sıfat fiil, C seçeneğinde "sev**dik**lerini, bırak**arak**" sıfat ve zarf fiil, E seçeneğinde "sar**dığında**" zarf fiil olduğundan yapısına göre birleşik cümlelerdir fakat D seçeneğinde hiçbir fiilimsi bulunmadığından tek yargılıdır ve basit cümledir.

7. **C** **A seçeneği:**
didiş — - ip → **zarf -fiil**
fiil kökü — fiilden isim yapan yapım eki

B seçeneği:
ver — -il — -ecek → **sıfat- fiil**
fiil kökü — fiilden fiil — fiilden isim y. e
y.e

C seçeneği:
bak — -ış → **fiil**
fiil kökü — fiilden fiil yapan yapım eki

D seçeneği:
doğ — -duğum → **sıfat-fiil**
fiil kökü — fiilden isim yapan yapım eki

E seçeneği:
bil — -miş → **sıfat fiil**
fiil kökü — fiilden isim yapan yapım eki

8. **D** I, II, III ve V numaralı altı çizili sözcükler türemiş; IV numaralı sözcük basit yapılıdır.

9. **D** D seçeneğindeki "Bununla" sözcüğündeki "ile" edattır.

MURAT YAYINLARI

10. E

A seçeneği: kara → isim kökü
B seçeneği: filiz → isim kökü
C seçeneği: su → isim kökü
D seçeneği: yer → isim kökü
E seçeneği: kır → fiil kökü

11. E V. cümlede var olan bir durumu kabullenmeme değil, tam tersine içinde bulunulan durumu kabullenme anlamı vardır.

12. B A seçeneğinde "daha", C seçeneğinde "bir daha", D seçeneğinde "her izlendiğinde de", E seçeneğinde "sınavda da" sözcükleri eylemin daha önce de yapıldığını gösterir.

13. C IV. cümleden itibaren başka bir bakış açısına geçildiğinden parça IV. cümleden ikiye bölünebilir.

14. E "Kılı kırk yarmak" her durumda olayları en ince ayrıntısına kadar incelemek anlamındadır. Bu bağlamda cümlede açıklaması yapılmıştır.

15. B B seçeneğinde "Rüzgârın sesi" bir isim tamlamasıdır. "Kulakları sağır eden" sözü de sıfat olarak isim tamlamasında tamlayanla tamlanan arasına girmiştir.

16. D II. ve V. cümlede insanın kendini tanımada geç kalmaması anlatılmaktadır. Yani iki cümle de savunulan düşünce açısından aynıdır.

17. C Virgül; A, B, D ve E seçeneklerinde ara sözü ayırmak için, C seçeneğindeyse eş görevli sözcükleri ayırmak için kullanılmıştır.

18. D D seçeneğindeki ayrı yazılan "sarı humma" sözcüğü "sarıhumma" şeklinde birleşik yazılmalıdır.

19. B B seçeneğinde bilimsel yapıtlarla yazınsal yapıtlar karşılaştırılmıştır. İkinci yargı bir açıklama değildir.

20. E I. cümle, andırıyordu (yüklem), deniz mavisi gözlerin (özne), gökyüzünü (nesne), usul usul (zarf tümleci) şeklinde dört ögeli olduğundan cevap E seçeneğidir.

21. E İşi yapanın belli olmaması edilgen eylemlerde vardır. E seçeneğinde de "Fark edilmeyen ne?" sorusunu sorduğumuzda "kalbimin duracakmış gibi yavaş yavaş attığı bile" cevabını yani özneyi buluruz fakat yine de işi yapan belli değildir. "Fark etmeyen kim/ne?" sorusunun cevabı yoktur.

22. C Parçada "bu yapıtında" dendiği için boş bırakılan yere "öteki yapıtlarından değişik bir" söz öbeğinin getirtilmesi en uygundur. Çünkü parçada yapıtları arasında karşılaştırma yapılmaktadır.

23. D Parçada hatalarından ders çıkaranların gelecekte daha rahat olacakları anlatılmaktadır. Böyle bir kullanım da D seçeneğinde bulunmaktadır.

24. E Örnek cümlede üç nokta tamamlanmamış cümlenin sonunda kullanılmıştır. E seçeneği de tamamlanmamış bir cümle olduğundan kullanış amacı aynıdır.

25. E A seçeneğinde "dağ gibi", B seçeneğinde "buz gibi", C seçeneğinde "adam gibi", D seçeneğinde "yılan gibi" edat öbekleri sıfat göreviyle kullanılmıştır. E seçeneğindeki "fırlattığı gibi" edat öbeği eylemi durum yönünden belirtip zarf olarak kullanılmıştır.

MURAT YAYINLARI

/muratyayincilik

Karma Test • TEST 30

1. I. görür
II. hayatın güzel olmaktan çok
III. hüzünlü ümit vermekten çok
IV. kötü neşeli olmaktan çok
V. ümitsizlendirici taraflarını

Yukarıdaki sözler anlamlı ve kurallı bir cümle oluşturulacak bir biçimde sıralandığında hangisi baştan üçüncü olur?

A) I. B) II. C) III. D) IV. E) V.

2. I. fakat ne yazık ki pek çoğumuz
II. eskilerde var olan Türkçe
III. okulda dil eğitimi verilmektedir
IV. kültüründen yoksunuz
V. bugün ülkemizde her seviyeden

Yukarıdaki sözler anlamlı ve kurallı bir cümle oluşturulacak bir biçimde sıralandığında hangisi baştan dördüncü olur?

A) I. B) II. C) III. D) IV. E) V.

3. I. o halka mal olmuş sade
II. dostluklarında hayatın
III. bir insandır ve
IV. anlamını bulur
V. gösterişten kaçar, insanların sıcak

Yukarıdaki sözler anlamlı ve kurallı bir cümle oluşturulacak bir biçimde sıralandığında hangisi ilk sırada yer alır?

A) I. B) II. C) III. D) IV. E) V.

4. I. kişiler olmalıdır
II. karakterler ve
III. başından geçenler yönünden
IV. birbirine hiç benzemeyen
V. hikâyede kişiler

Yukarıdaki sözler anlamlı ve kurallı bir cümle oluşturulacak bir biçimde sıralandığında hangisi baştan ikinci olur?

A) I. B) II. C) III. D) IV. E) V.

MURAT YAYINLARI

5. - 10. SORULARDA NUMARALANMIŞ SÖZ VE CÜMLELERİN ANLAMLI VE KURALLI BİR BÜTÜN OLUŞTURCAK BİÇİMDE SIRALANIŞINI BULUNUZ.

5. I. yaşamı ve insanı tüm zenginlikleriyle ele
II. alma insanı üyesi olduğu toplumun
III. edebiyat insanın insanı insana
IV. anlatması bunun için de
V. bilincine vardırma diye de özetlenebilir

A) III - IV - I - II - V
B) II - V - IV - III - I
C) V - I - III - IV - II
D) III - V - I - II - IV
E) II - I - III - V - IV

6. I. başlangıcı sanarak
II. dalları üzerinde sıralanmış
III. hayvanat bahçesindeki bu masum
IV. uyumaya hazırlanıyorlar
V. yaratıklar bulutlu havayı bir akşam

A) III - IV - II - I - V
B) III - V - I - II - IV
C) III - V - I - IV - II
D) III - I - II - V - IV
E) III - II - V - I - IV

7. I. tarih yazarı ve
II. öteki nazım yazdığı için
III. ayrılmazlar
IV. birbirinden
V. şair biri düzyazı

A) I - V - II - IV - III
B) I - V - III - II - IV
C) I - IV - III - II -V
D) III - I - II - V - IV
E) III - II - V - I - IV

8. I. etmemeye imkân
II. doğduğunu kabul
III. şiir havasının her şeyden
IV. yoktur
V. önce kelimelerin seslerinden

A) III - V - II - I - IV
B) III - V - I - II - IV
C) III - II - I - V - IV
D) III - I - II - V - IV
E) III - II - V - I - IV

9. I. dildir dilin
II. edebiyat olanla
III. kullanılış biçimidir
IV. ayırmada ana ölçüt
V. edebiyat olmayanı

A) II - IV - III - I - V
B) I - V - III - II - IV
C) IV - V - I - II - III
D) II - I - III - V - IV
E) II - V - IV - I - III

10. I. Romanlarına çekicilik veren, olayları sıralayışındaki ustalık ve canlı anlatımıdır
II. Sanatçı, özellikle psikolojik tahlilli romanlarıyla kendini tanıtmıştır.
III. Bu kişiler daha çok bedence ve ruhça basit ve karamsar olan kişilerdir.
IV. Eserlerinde kişilerin dış yapılarından çok iç yapılarına önem vermiştir.
V. Ama bazı yapıtları yapaylıktan kurtulamıyor ve inandırıcılığını yitiriyor.

A) III - IV - II - I - V
B) III - IV - I - II - V
C) III - V - II - I - IV
D) III - I - II - IV - V
E) II - III - V - I - IV

MURAT YAYINLARI

/muratyayincilik

11. VE 12. SORULARI AŞAĞIDAKİ PARÇAYA GÖRE CEVAPLAYINIZ.

Sesinden tanıyorum kadınların mutsuzluğunu. Sanki seslerin özel bir kokusu var. Kıyılmış tütün kıvamında, yanık gül yaprağı gibi kokuyor sesleri. Daha ilk notasından alıyorsunuz kokusunu, bezgin, mesafeli biraz da düşmanca bir ses çıkarıyorlar. Bir köpeğin bütün kokuları birbirinden ayırt edip insanların duygularını kokularından anlamaları gibi kadınların sesini tanırım, her tonunu bilir, tüm benliğimle onları duyarım. Sesler değişse bile duyguların seslere kattığı tonlamalar değişmez, ne kadar saklamak isteseler de seslerini saklayamazlar. Yüzlerini, bakışlarını, sözlerini hatta seslerini bile değiştirebilirler ama o seslerin içindeki küçücük vurgulamalarını değiştiremezler.

11. Bu parçadan aşağıdaki genellemelerden hangisine ulaşılamaz?

A) Kişilerin içinde bulundukları duygu durumunu ortaya koyan en önemli unsur sesin tonudur.

B) İnsanlar duygularını gizlemeye çalışsa da kendilerini ifade etme biçimleri onları ele verir.

C) Kişilerin konuşma tarzı, kişilerin kendinden ne kadar emin olduğu hakkında bilgi verir.

D) Duyarlı kişiler, insanların içinde bulundukları duygu durumunu anlayabilmek için daha dikkatli olurlar.

E) İnsanlar, bazı durumlar karşısında duygularını gizleme ihtiyacı duyabilir.

12. Bu parçanın anlatımıyla ilgili olarak aşağıdakilerden hangisi söylenemez?

A) Öznellik ağır basmaktadır.

B) Niteleyici sözcükler kullanılmıştır.

C) Birden fazla devrik cümle kullanılmıştır.

D) Benzetme söz konusudur.

E) Alıntılar yapılmıştır.

MURAT YAYINLARI

13. VE 14. SORULARI AŞAĞIDAKİ PARÇAYA GÖRE CEVAPLAYINIZ.

Ünlü Fransız felsefeci Michel Foucault "Hapisanenin Doğuşu"nu anlattığı kitabında modernleşmeyle birlikte mahkûmların tıklım tıkış doldurulduğu, o eski geniş cezaevlerinin terk edildiğini ve mimari olarak yeni bir cezaevi anlayışına ulaşıldığını söyler. Bu yeni düzenlemede göz göz hücrelerden oluşmuş halka şeklinde bir cezaevi binası vardır. Binanın dışa bakan geniş pencereleri güçlü bir ışıkla aydınlatılır. Halkanın merkezinde ise bir gözetleme kulesi bulunur. O merkezi kuleden bakan herhangi biri hücrelerin içindeki küçük silüetleri izleyerek her hareketi kontrol eder. Böylece tek tek hücrelerinde sürekli görülme tehdidi altında yaşayan mahkûmlar bir süre sonra disiplin altına girerler. Öyle ki artık gözetleme kulesinde hiç kimse olmasa bile mahkûm kendini izleniyormuş gibi hisseder. Demir parmaklığa, zincire, prangaya gerek kalmamıştır. Çünkü zindan, artık beyinlerdedir. Siz de farkında mısınız, günümüzde hayatı nasıl beynimizde devasa prangalarla yaşadığımızın? Örgütsüz, savruk ve yalnız yakalandığımız yaman bir tufanda, tek tek hapsedildiğimiz hücrelerimiz içinde nasıl gönüllü bir esarete mahkûm edildiğimizin farkında mısınız?

13. Bu parçada aşağıdakilerin hangisine değinilmemiştir?

A) Modernleşmeyle birlikte hapishane anlayışının değiştiğine

B) Yeni cezaevi tasarımının, mahkûmların davranışlarının takip edilebilmesine olanak sağladığına

C) Sürekli olarak izlendiği düşüncesine kapılan mahkûmların otoriteye uygun olarak davranışlarını değiştirdiğine

D) Günümüz insanlarının da bu mahkûmlar gibi sınırlı yaşadığına

E) Beynimizdeki zincirleri kırmanın tek yolunun iyi bir okuyucu olmaktan geçtiğine

14. Yukarıdaki parçada geçen "gönüllü esaret" sözüyle asıl anlatılmak istenen nedir?

A) Esaretin insanları disipline soktuğu

B) Sistemin doğru ve sağlıklı işleyebilmesi için düzene uyma çabasındaki insanın fedakârlığı

C) Esaretinin farkında olan insanın bu durum karşısındaki tavrı

D) Hayatın güçlükleri karşısında yalnız kalan bireyin topluma uyan, sıradan davranışı

E) İnsanların düşünme eyleminden yoksunlaştırılma çabası

15. VE 16. SORULARI AŞAĞIDAKİ PARÇAYA GÖRE CEVAPLAYINIZ.

"İnsanların birbirini tanıması için en iyi zaman, ayrılmalarına en yakın zamandır.", der Dostoyevski. (I) Veda acısı, kabuğunu soyar insanın, yıldızını kazıyıp çırılçıplak ortaya serer, birlikteliğin örttüğü tüm kusurları ayrılık sergiler. (II) "Ölene kadar" diye söz verilmiştir ama "ölüm yolunda" başka tercihler belirmiştir. (III) Kararsız prensesin vicdanı azap çekerken 7 cücelerin somurtkanı "aklını başına al" diye fısıldar kulağına, haytası ise "kalbinin sesini dinle" diye çekiştirir eteğinden. (IV) Hep hayran bakan gözlere, hatalar takılmaya başlar. (V) "Ama"yla biter alelade iltifat cümleleri: "Sen iyi bir insansın, ama arkadaşların kötü", "Seni seviyorum, ama bu ilişkide mutlu değilim", "Ben başka türlü bir beraberlik düşlemiştim" vs.. vs.. (VI) Sonra gelsin uykusuz geceler, bir türlü karar verememeler, ruhen gidip gelmeler... (VII) Birlikteymiş gibi yaparken, sevecek başka yüzler, yüzecek başka denizler kollamalar... (VIII) Aslında bütün bunlar bizim iyiliğimiz için diyerek kendini kandırmalar.

15. Yukarıdaki parçadan "ayrılık" durumuna yönelik olarak aşağıdakilerden hangisine ulaşılamaz?

A) Ayrılık vakti yaklaştığında kişilerin başka arayışlar içine girmelerinin onların acısını hafifleteceğine
B) Ayrılık acısının insanı çaresizleştirdiğine
C) Ayrılmak isteyen kişilerin, diğerini kırmayacak bir bahaneler uydurduğuna
D) Sevgi azaldığında kusurların artacağına
E) Ayrılmaya kararlaştıran kişilerin verdikleri eski sözleri unuttuğuna

16. Bu parçadaki numaralanmış cümlelerle ilgili olarak aşağıdakilerden hangisi söylenemez?

A) I. cümlede, birden fazla yargı bildirilmektedir.
B) II. cümlede, " ama" bağlacı olumsuzluk katmıştır.
C) III. cümle dolaylı anlatım cümlesidir.
D) V. cümlede, örneklendirme kullanılmıştır.
E) VI. cümle, eksiltilidir.

17. VE 18. SORULARI AŞAĞIDAKİ PARÇAYA GÖRE CEVAPLAYINIZ.

IBM'in kurucusu Tom Watson, IBM'i kurduğu ilk yıllarda, "başarılı çalışmalara imza atmak için yapılan hata oranını ikiye katlamak gerektiğini" söylemişti. Watson'nun kendisine bağlı bir yöneticisinin, on milyon dolara mal olan bir hatası karşısında "Hata yapan yöneticimi işten atacak kadar zengin değilim. Her hata bir tecrübedir. Biz de bu kez on milyon dolarlık bir ders aldık." demesi kurumsal dünyada kulaktan kulağa yayılmış bir efsanedir. Bugün dünya şirketleri, hata yapanları cezalandırmıyor. Tam tersine, hata yapmayanları bünyelerinde barındırmıyor. Hata yapmamanın iki nedeni olabilir: Birincisi, iş yapmayanlar hiç hata yapmaz. İkincisi, risk almaktan çekinenler hata yapmaz. Hata yapma pahasına risk alma kültürü, bugünün iş dünyasında hızla yaygınlaşıyor. Hatalar böyle kabul edildikleri takdirde sürprizlerle ve deneyimlerle dolular. Peki ya yanlış yapmak? O başka. Hata masumdur. İyi ve faydalı olsun diye çalışılırken yapılır. Hatada kasıt yoktur. Yanlışta ise kasıt vardır. Bile bile ve art niyetle yapılır; içinde hile, düzenbazlık vardır. İşte bu, hatayla – yanlışı ayıran en önemli özelliktir. Hata iyi huyludur, yanlış ise kötü.

17. Yukarıdaki parçaya göre hata ile yanlışı ayıran en temel fark aşağıdakilerden hangisidir?

A) Hatanın kasıtlı, yanlışın ise dikkatsizlik sonucu olması
B) Yanlışın kasıtlı ve art niyetli bir plana yönelik olması
C) Hata yapan kişilerin geleceğe yönelik tecrübe kazanması ve bu hatalarından ders çıkarması mümkünken diğerlerinin başarıya yönelik amaç taşımaması
D) Hata yapmaktan korkan kişinin hiçbir şey öğrenemeyeceği ama yanlış yapan kişinin işini önemsemediği
E) Risk almaktan korkmayan ama tedbirsiz kişilerin hata yapacağı ama tedbirli ve tecrübeli kişilerin yanlışa düşmeyeceği

MURAT YAYINLARI

/muratyayincilik

18. Yukarıdaki parçada şirket politikasına yönelik olarak asıl anlatılmak istenen nedir?

A) Firmaların bakış açılarını değiştirerek çalışanlarına yenilikçi fırsatlar sunması firmayı geliştirecektir.

B) Dünyanın ileri gelen şirketlerinin çalışanlarına hata yapma fırsatı tanımasının gelişmekte olan şirketleri etkilemektedir.

C) Gelişme, sadece çalışanlarına hata yapma fırsatı tanıyan ve çalışanlarını her konuda cesaretlendiren şirketlerin ulaşacağı bir sondur.

D) Hata yapmaktan korkan kişi, öğrenmekten utanır.

E) Yöneticiler, yaptığı işe saygı duymayan çalışanlara tahammül göstermezler.

19. VE 20. SORULARI AŞAĞIDAKİ PARÇAYA GÖRE YANITLAYINIZ.

Yenilikleri küçümseyen, kendi değer ölçülerini aşamayan yaşlılar her yerde, her zaman bulunur. Ama böylelerinin bütün bir toplumun edebiyat zevkini yönlendirdikleri az görülür. Son yıllarda edebiyatımızın başına gelen budur. Sürümlü gazete ve dergilere sözünü geçirebilenler hep eski ünlülerdir. Bunların söyledikleri, söylettikleri aşağı yukarı şudur: "Toplumumuzda artık sanatçı yetişmiyor. Böyle dil, böyle edebiyat, böyle sanat olmaz; olmuyor da işte! ---- Biz de genç olduk canım, biz de yenilik yaptık."

19. Bu parçada boş bırakılan yere düşüncenin akışına göre aşağıdakilerden hangisi getirilebilir?

A) Biraz yeniliklere açık olsalar neyse, o da yok.

B) Gençlik iyidir, güzeldir ama böylesi değil.

C) Ülkemiz sanatı ne yazık ki istenen noktada değil.

D) Gelenekçi olmak yerine kendi kalıplarını yıkmayı denemeliler.

E) Gazete ve dergilerde yer almayı en çok da onlar hak ediyor.

20. Bu parçadan aşağıdakilerin hangisi çıkarılamaz?

A) Eski ünlüler, yazılı basında söz sahibidir.

B) Toplumda yenilikleri hazmedemeyen yaşlılar hep vardır.

C) Edebiyat ve sanat zevkini yönlendiren çoğunlukla genç sanatçılardır.

D) Eski sanatçıların genç sanatçıları çekememesi söz konusudur.

E) Sanat ve edebiyatta toplumu yönlendiren eski ve usta sanatçılardır.

MURAT YAYINLARI

Açıklamalar • TEST 30

1. **C** Doğru sıralama "2-4-3-5-1" şeklinde olmalıdır.

2. **B** Doğru sıralama "5-3-1-2-4" şeklinde olmalıdır.

3. **A** Doğru sıralama "1-3-5-2-4" şeklinde olmalıdır.

4. **B** Doğru sıralama "5-2-3-4-1" şeklinde olmalıdır.

5. **A** Doğru sıralama "III - IV - I - II - V" şeklinde olmalıdır.

6. **B** Doğru sıralama "III- V- I- II-IV" şeklinde olmalıdır.

7. **A** Doğru sıralama "I- V- II- IV- III" şeklinde olmalıdır.

8. **A** Doğru sıralama "III - V - II - I - IV" şeklinde olmalıdır.

9. **E** Doğru sıralama "II- V- IV- I- III" şeklinde olmalıdır.

10. **A** Doğru sıralama "III- IV- II- I- V" şeklinde olmalıdır.

11. **C** "Sesler değişse bile duyguların seslere kattığı tonlamalar değişmez" cümlesinden A seçeneğine, "...ne kadar saklamak isteseler de seslerini saklayamazlar." cümlesinden B ve E seçeneğine, "... kadınların sesini tanırım, her tonunu bilir, tüm benliğimle onları duyarım." cümlesinden D seçeneğine ulaşılabilir ama C seçeneğine dair bir ifade kullanılmamıştır.

12. **E** Parçanın bütününde yazarın kişisel görüşleri olduğundan öznellik ağır basmaktadır. "özel bir kokusu, yanık gül yaprağı, kıyılmış tütün..." gibi ifadelerle niteleyici sözcüklere yer verilmiştir. "Sesinden **tanıyorum** kadınların mutsuzluğunu." "Kıyılmış tütün kıvamında, yanık gül yaprağı gibi **kokuyor** sesleri." devrik cümledir. "yanık gül yaprağı gibi, anlamaları gibi" benzetmelere yer verilmiştir. Ama alıntı cümle bulunmamaktadır.

13. **E** " ... terk edildiğini ve mimari olarak yeni bir cezaevi anlayışına ulaşıldığını söyler." cümlesinden A seçeneğine, "... hücrelerin içindeki küçük siluetleri izleyerek her hareketi kontrol eder." cümlesinden B seçeneğine, "... sürekli görülme tehdidi altında yaşayan mahkûmlar bir süre sonra disiplin altına girerler." cümlesinden C seçeneğine, "Siz de farkında mısınız, günümüzde hayatı nasıl beynimizde devasa prangalarla yaşadığımızın?" cümlesinden D seçeneğine erişiriz. Ama E seçeneğine ait bir ifade paragrafımızda yoktur.

14. **D** Parçanın genelinden hareketle bireyin davranışlarının topluma uyma zorunluluğu kastedilmiştir.

15. **A** "Sonra gelsin uykusuz geceler, bir türlü karar verememeler, ruhen gidip gelmeler.." cümlesinden B seçeneğine, "Sen iyi bir insansın, ama arkadaşların kötü", "Seni seviyorum, ama bu ilişkide mutlu değilim..." cümlelerinden C seçeneğine, "... tüm kusurları ayrılık sergiler." cümlesinden D seçeneğine, Ölene kadar" diye söz verilmiştir ama "ölüm yolunda" başka tercihler belirmiştir." cümlesinden E seçeneğine ulaşırız ama A seçeneğiyle ilgili bir ifade parçada bulunmamaktadır.

16. **C** "...fısıldar kulağına, haytası ise "kalbinin sesini dinle" **diye**..." Sözü hiçbir değişikliğe uğratmadan aktarım, doğrudan aktarımdır ve cümlede "de-" eylemiyle biter. Dolayısıyla bu cümle dolaylı değil doğrudan aktarım cümlesidir.

17. **C** "Hata masumdur. İyi ve faydalı olsun diye çalışılırken yapılır. Hatada kasıt yoktur. Yanlışta ise kasıt vardır. Bile bile ve art niyetle yapılır; içinde hile, düzenbazlık vardır." cümlelerinden hareketle C seçeneğine ulaşırız.

18. **C** Parçanın bütününü dikkate alırsak hata yapan insanın gelişime ve değişime açık insan olduğu hata sayesinde ilerlemenin mümkün olacağı fikri ağır basacaktır. O halde C seçeneği bu düşünceye en yakın şıktır.

19. **B** Parçanın girişindeki **"Yenilikleri küçümseyen, kendi değer ölçülerini aşamayan yaşlılar her yerde, her zaman bulunur."** ifadesi seçeneklerin çoğunu eler aslında. Böyle insanlar gelenekçi, yeniliklere kapalı ve kıskanç insanlardır. O halde A, D ve E seçeneklerindeki cümleyi kurmalarına imkan yok. C seçeneği ise boş bırakılan yere uygun bir cümle değil çünkü parça gençlik üzerine bir anlamsal akışla tamamlanıyor. Bu sebepten en uygun seçenek B'dir.

20. **E** Son seçenekteki ifadeyle parçada anlatılanlar arasında anlam olarak karşıtlık vardır. Parçada eskilerin (yaşlılar) tutumuna yönelik bir eleştiri varken E seçeneğindeki cümle yanlıştır, çıkarılamaz.

MURAT YAYINLARI

Sözel Mantık - I • TEST 31

1. - 3. SORULARI AŞAĞIDAKİ BİLGİLERE GÖRE BİRBİRİNDEN BAĞIMSIZ OLARAK CEVAPLAYINIZ.

Ali, Billur, Cihan, Derya, Elif, Fahriye isimli öğrenciler KPSS'ye hazırlanmaktadır. Bu öğrenciler tarih, coğrafya, matematik, Türkçe soru bankası almak için bir kitabevine gitmişlerdir. Aldıkları kitaplarla ilgili olarak şunlar bilinmektedir:

- Coğrafya kitabını iki kişi almıştır.
- Billur, Türkçe kitabını almıştır.
- Elif, tarih ya da coğrafya kitabını almıştır.
- Ali ve Derya aynı kitapları almıştır.
- Matematik kitabını alanlardan biri erkek öğrencidir.
- Cihan ve Elif aynı kitabı almamıştır.

1. Buna göre aşağıdakilerden hangisi kesin olarak doğrudur?

A) Derya, matematik kitabını almıştır.
B) Tarih kitabını iki kişi almıştır.
C) Fahriye, coğrafya kitabını almıştır.
D) Ali, matematik kitabını almıştır.
E) Elif ve Derya aynı kitabı almamıştır.

2. Derya'nın coğrafya kitabı aldığı biliniyorsa aşağıdakilerden hangisi kesin olarak yanlıştır?

A) Coğrafya kitabını, Cihan almıştır.
B) Ali, coğrafya kitabı almıştır.
C) Tarih kitabını, Elif almıştır.
D) Fahriye, Matematik kitabını almıştır.
E) Türkçe kitabını, Billur almıştır.

3. Türkçe kitabını Fahriye'nin almadığı biliniyorsa aşağıdakilerden hangisi kesin olarak yanlıştır?

A) Tarih kitabını yalnızca bir kişi almıştır.
B) Cihan matematik kitabını almıştır.
C) Ali, matematik kitabını almıştır.
D) Cihan'ın aldığı kitabı iki kişi almıştır.
E) Coğrafya kitabını iki kişi almıştır.

4. - 7. SORULARI AŞAĞIDAKİ PARÇAYA GÖRE CEVAPLAYINIZ.

Bir iş yerine başvuran on kişiden ikisi sekreter, dördü şoför, üçü çaycı, biri de güvenlik görevlisi olmak için mülakata girmeye hak kazanmışlardır. Bu kişilerle ilgili olarak şunlar bilinmektedir:

- Şoför olarak başvuranların hiçbiri arka arkaya mülakata girmeyeceklerdir.
- Sekreter olarak başvuranlar arka arkaya mülakata gireceklerdir.
- Mülakata giren üçüncü kişi çaycı adaylarından bir olacaktır.
- En son mülakata giren şoför değildir.

4. Buna göre sekreter olmak için başvuran aday kaçıncı sırada mülakata girmiş olamaz?

A) 4. B) 5. C) 6. D) 7. E) 9.

5. Mülakata birinci sırada şoför adayının katıldığı biliniyorsa aşağıdakilerden hangisi doğru olamaz?

A) 4. sırada mülakata giren şofördür.
B) 5. sırada mülakata giren çaycıdır.
C) 9. sırada mülakata giren şofördür.
D) 2. sırada mülakata giren sekreterdir.
E) 10. sırada mülakata giren güvenliktir.

6. 10. sırada mülakata girenin sekreter olduğu biliniyorsa aşağıdakilerin hangisi çaycıların mülakata giriş sırası olabilir?

A) 1-3-4 B) 3-5-7 C) 2-6-9
D) 3-6-7 E) 1-3-8

7. 2, 4, 9. sırada şoförlerin mülakata girdiği biliniyorsa hangisi güvenliğin mülakata giriş sırası olamaz?

A) 1. B) 5. C) 6. D) 8. E) 10.

MURAT YAYINLARI

8. - 11. SORULARI AŞAĞIDAKİ BİLGİLERE GÖRE BİRBİRİNDEN BAĞIMSIZ OLARAK YANITLAYINIZ.

Yeni açılan bir alışveriş mağazası kasap, tezgahtar, yönetici, kasiyer, temizlikçi, balıkçı ve bürocu olmak üzere mağazaya 7 iş bölümünden ikişer çalışan alacaktır. İşe başvuranlar ise şu kişilerdir: Jale, Kudret, Leman, Mehmet, Nergis, Ömer, Pınar, Recep, Sevinç, Tamer, Ülkü, Veysel, Yağız, Zerrin. Bu kişilerin hangi iş bölümü için başvurduklarına ilişkin şunlar bilinmektedir:

- Mehmet kasiyer, Tamer yönetici, Veysel bürocu olarak başvurmuştur.
- Jale ve Nergis'in başvurduğu iş bölümü aynıdır.
- Pınar ve Sevinç'in başvurduğu iş bölümü aynıdır.
- Kudret ve Ülkü kasap ya da tezgahtarlık için başvurmuştur ama ikisinin başvurduğu iş bölümleri birbirinden farklıdır.

8. Verilen bilgilere göre aşağıdaki ifadelerden hangisi kesinlikle doğrudur?

A) Nergis, kasaplık için başvurmuştur.
B) Pınar temizlikçilik için başvurmuştur.
C) Recep, kasiyerlik için başvurmuştur.
D) Ülkü ile Ömer, aynı iş bölümü için başvurmuştur.
E) Leman ve Yağız farklı iş bölümleri için başvurmuştur.

9. Bu bilgilere göre aşağıdaki ifadelerden hangisi kesinlikle yanlıştır?

A) Jale, kasiyerlik için başvurmuştur.
B) Yağız, yöneticilik için başvurmuştur.
C) Sevinç, balıkçılık için başvurmuştur.
D) Recep ve Zerrin, aynı iş bölümü için başvurmuştur.
E) Pınar ve Ülkü, farklı iş bölümleri için başvurmuşlardır.

10. Ömer'in büroculuk için başvurduğu biliniyorsa Recep hangi iş bölümü için kesinlikle başvurmuş olamaz?

A) Kasaplık
B) Balıkçılık
C) Tezgahtarlık
D) Kasiyerlik
E) Yöneticilik

11. Verilen bilgilere göre aşağıdakilerden hangisi yöneticilik için başvurmuş olamaz?

A) Nergis
B) Leman
C) Ömer
D) Recep
E) Zerrin

MURAT YAYINLARI

/muratyayincilik

12.- 15. SORULARI AŞAĞIDAKİ BİLGİLERE GÖRE BİRBİRİNDEN BAĞIMSIZ OLARAK YANITLAYINIZ.

Güzin, Helin, İlkin, Jülide, Kongar ve Lütfi farklı günlerde bir cast ajansında çalışmaktadır. Bu kişilerle ilgili bilinenler şunlardır:

- Pazar günü kimse çalışmamaktadır.
- Jülide, cuma günü çalışmaktadır.
- Güzin, İlkin'den bir gün sonra işe gelmektedir.
- Kongar'ın çalıştığı gün, Helin'den bir gün öncedir.

12. Bu bilgilere göre aşağıdakilerden hangisi kesin olarak yanlıştır?

A) İlkin, pazartesi günü çalışmaktadır.
B) Lütfi, cumartesi günü çalışmaktadır.
C) Helin, çarşamba günü çalışmaktadır.
D) Helin, İlkin'den sonraki bir günde çalışmaktadır.
E) Güzin, Helin'den önceki bir günde çalışmaktadır.

13. Bu bilgilere göre aşağıdakilerden hangisi kesin olarak doğrudur?

A) Güzin, pazartesi günü çalışmaktadır.
B) İlkin, çarşamba günü çalışmaktadır.
C) Lütfi, salı günü çalışmaktadır.
D) Kongar işe, İlkin'den önceki bir günde gelmektedir.
E) Lütfi işe, Helin'den sonraki bir günde gelmektedir.

14. Bu bilgilere göre çalıştığı günün perşembe olma olasılığı olanlar kimlerdir?

A) Güzin – İlkin
B) Helin – Güzin
C) İlkin – Kongar
D) Helin – Kongar - Lütfi
E) Helin – İlkin – Lütfi

15. Bu bilgilere göre aşağıdakilerden hangisinin ajansa gittiği gün kesin olarak bilinmektedir?

A) Lütfi
B) Helin
C) İlkin
D) Kongar
E) Güzin

MURAT YAYINLARI

16. - 19. SORULARI AŞAĞIDAKİ BİLGİLERE GÖRE BİRBİRİNDEN BAĞIMSIZ OLARAK YANITLAYINIZ.

Kampa çıkmak üzere anlaşmış olan Osman, Gökçe, Selvi, Alp ve Çetin; yanlarına 1 çakı, 2 sinek kovucu, 3 fotoğraf makinesi ve 4 tane de uyku tulumu almıştır. Yanlarına aldıkları eşyalarla ilgili bilinenler şunlardır:

- Her eşyadan yalnızca bir tane almak üzere herkes yanına ikişer tane eşya almıştır.
- Selvi, uyku tulumu almamıştır.
- Fotoğraf makinesi alan herkes, uyku tulumu da almıştır.
- Osman ve Alp, aynı eşyalardan almıştır.

16. Bu bilgilere göre, aşağıdakilerden hangisi kesin olarak yanlıştır?

A) Osman yanına uyku tulumu almıştır.
B) Gökçe yanına sinek kovucu almıştır.
C) Alp yanına sinek kovucu almıştır.
D) Selvi yanına çakı almıştır.
E) Çetin yanına fotoğraf makinesi almıştır.

17. Bu bilgilere göre, aşağıdakilerden hangisi kesin olarak doğrudur?

A) Gökçe, yanına fotoğraf makinesi almıştır.
B) Alp, yanına çakı almıştır.
C) Çetin, yanına sinek konucu almıştır.
D) Yanına sinek kovucu alan herkes uyku tulumu da almıştır.
E) Çakı alan kişi, yanına sinek kovucu da almıştır.

18. Bu bilgilere göre, yanlarına aldıkları eşyaların neler olduğu kesin olarak bilinenler kimlerdir?

A) Osman ve Gökçe
B) Gökçe ve Selvi
C) Selvi ve Çetin
D) Osman, Selvi ve Alp
E) Gökçe, Alp ve Çetin

19. I. Çakı
II. Uyku tulumu
III. Fotoğraf makinesi
IV. Uyku tulumu

Yukarıdaki eşyalardan hangilerinin tamamının kimler tarafından alındığı kesin olarak bilinmektedir?

A) I. ve II.
B) II. ve III.
C) III. ve IV.
D) I. ve IV.
E) I. ve III.

MURAT YAYINLARI

/muratyayincilik

Açıklamalar • TEST 31

1. - 3. SORULAR İÇİN

1. olasılık:

Tarih → Cihan
Coğrafya → Elif, Fahriye
Matematik → Ali, Derya
Türkçe → Billur

- Şunu unutmamak gerekir ki Ali, Derya coğrafya kitabını almış olabilir veya Cihan, Fahriye matematik kitabını almış olabilir.

2. olasılık:

Tarih → Cihan, Filiz
Coğrafya → Elif
Matematik → Ali, Derya
Türkçe → Billur

- Yine dikkat etmemiz gereken yer, Cihan/Fahriye matematik kitabı, Ali/Dilek tarih kitabı alabilir. Buna göre cevaplar şu şekilde olmalıdır:

1. E

2. A

3. B

4. - 7. SORULAR İÇİN

4. **A** 4. ve 5. sıralarda sekreter mülakata girerse şoförler arka arkaya gelmez kuralı bozulur. Bu nedenle 4. sırada mülakata giren sekreter olamaz.

5. **D** Mülakata 2. sırada giren sekreter olamaz çünkü bu durumda 2. ve 3. sıralarda da sekreter mülakata girmek zorundadır. O halde 3. sırada mülakata giren çaycıdır.

6. **B** Buna 3-5-7 sırada çaycı mülakata girebilir.

7. **C**

1	2	3	4	5	6	7	8	9	10
	Ş	Ç	Ş		G	S	S	Ş	

6. sırada güvenlik mülakata girerse kural bozulur ve şoförler yan yana gelir. Bu nedenle yanıt C olmalıdır.

MURAT YAYINLARI

8. - 11. SORULAR İÇİN

Biraz karışık görünse de kolay bir soru tarzıyla karşı karşıyayız. Verilenleri bir değerlendirelim:

Mehmet: Kasiyerlik,

Tamer: Yöneticilik,

Veysel: Büroculuk

Jale = Nergis / Pınar = Sevinç

Kudret ≠ Ülkü: Kasaplık, Tezgahtarlık

1. Olasılık:

Kasap	Tezgahtar	Yönetici	Temizlikçi
Kudret ya da ülkü	Kudret ya da ülkü	Kudret ya da ülkü	Jale
?	?	?	Nergis

Kasiyer	Balıkçı	Bürocu
Mehmet	Pınar	Veysel
?	Sevinç	?

2. Olasılık:

Kasap	Tezgahtar	Yönetici	Temizlikçi
Kudret ya da Ülkü	Kudret ya da Ülkü	Tamer	Pınar
?	?	?	Sevinç

Kasiyer	Balıkçı	Bürocu
Mehmet	Jale	Veysel
?	Nergis	?

Geriye kalan: *Leman, Ömer, Recep, Yağız ve Zerrin*'**in ise hangi iş bölümü için başvuru yaptığını bilmesek de bu kişilerin,**

- Temizlikçilik ve balıkçılık **için başvuru yapmadıklarını, her birinin faklı bir iş bölümü için başvurduğunu bilebiliriz.**

Buna göre,

8. E
9. D
10. B
11. A

12. - 15. SORULAR İÇİN

Kolay bir sıralama sorusuyla karşı karşıyayız. Yapmamız gereken çok basit: sıralamayı doğru belirlemek.

1. Olasılık

Pzt.	Salı	Çarş.	Perş.	Cuma	Cts.
İlkin	Güzin	Kongar	Helin	Jülide	Lütfi

2. Olasılık

Pzt.	Salı	Çarş.	Perş.	Cuma	Cts.
Kongar	Helin	İlkin	Güzin	Jülide	Lütfi

Buna göre,

12. C, 13. E, 14. B ve 15. A'dır.

16. - 19. SORULAR İÇİN

Öncüllerden yola çıkarak birkaç çıkarım yapalım önce:

Selvi ≠ uyku tulumu

Fotoğraf mak. = uyku tulumu

Selvi, uyku tulumu almamışsa ve fotoğraf makinesi alan herkes yanına uyku tulumu almışsa: Selvi = çakı + sinek kovucu

Osman = Alp **ise bu kişiler yanlarına uyku** tulumu ve fotoğraf makinesi **almışlardır. Çünkü aynı eşyalardan almışlar.**

Bize verilenleri değerlendirdiğimizde karşımıza şöyle bir tablo çıkar:

Çakı (1)	Sinek kov. (2)	Fotoğraf mak. (3)	Uyku tul. (4)
Selvi	Selvi Gökçe veya Çetin	Osman Alp Gökçe veya Çetin	Osman Alp Gökçe Çetin

Buna göre,

16. C
17. E
18. D
19. D

MURAT YAYINLARI

/muratyayincilik

Sözel Mantık - II • TEST 32

1. - 4. SORULARI AŞAĞIDAKİ BİLGİLERE GÖRE CEVAPLAYINIZ.

Bir yarışma sonucunda Hülya, Murat, Arkın, Sibel, Ziya, Esma adlı altı kişi ödül almıştır. Bu kişilerin ödül alma sırasıyla ilgili şu bilgiler verilmiştir:

- Hülya, Arkın'dan önce ödül almıştır.
- Hülya ile Arkın arasında bir kişi ödül almıştır ve bu kişi bayan değildir.
- Sibel'den hemen sonra bir bayan ödül almıştır.
- Murat, Esma'dan hemen sonra ödül almıştır.

1. Bu kişiler kaç farklı sırada ödül almış olabilir?

A) 1
B) 2
C) 3
D) 4
E) 5

2. Ödül alma sırasıyla ilgili olarak aşağıdakilerden hangisi kesinlikle doğrudur?

A) En son ödül alan Murat'tır.
B) Ziya, Sibel'den sonra ödül almıştır.
C) Esma, üçüncü sırada ödül almıştır.
D) Hülya, birinci sırada ödül almıştır.
E) Ziya, Hülya'nın arkasından ödül almıştır.

3. Altıncı sırada ödül alan Arkın olursa aşağıdakilerden hangisi kesinlikle doğrudur?

A) Hülya, dördüncü sırada ödül almıştır.
B) Esma, Sibel'den sonra ödül almıştır.
C) Sibel, dördüncü sırada ödül almıştır.
D) Murat, Sibel'den sonra ödül almıştır.
E) Ziya, ikinci olarak ödül almıştır.

4. Birinci sırada Hülya ödül almışsa dördüncü sırada ödül alan kimdir?

A) Esma
B) Murat
C) Sibel
D) Ziya
E) Arkın

5. Bir kuaförde sıra bekleyen üç kadının soyadları "Uzun, Esmer, Sarışın"dır. Biri uzun boylu, biri esmer biri de sarışın olan bu kadınların hiçbiri kendi soyadlarıyla aynı özelliğe sahip değildir. Bayan Sarışın ile Bayan Esmer yan yana oturmaktadır. Bayan Esmer, kadınlardan sarışın olanın şefidir.

Bu kadınlarla ilgili:

I. Bayan Esmer ortada oturmaktadır.
II. Bayan Uzun, sarışındır.
III. Şef olan kadın, uzun boyludur.

yargılarından hangisi/ hangileri kesinlikle doğrudur?

A) Yalnız I
B) Yalnız II
C) I ve III
D) I ve II
E) II ve III

MURAT YAYINLARI

6. - 9. SORULARI AŞAĞIDAKİ BİLGİLERE GÖRE CEVAPLAYINIZ.

Bir tatlıcıda tezgâhın üzerinde 10 tepsi bulunmaktadır. Bu tepsilerden ikisi bakır, üçü çelik, beşi pirinçtir. Bu tepsilerin dördünde şöbiyet, dördünde tulumba, ikisinde fıstıklı baklava sergilenmektedir.

- Pirinç tepsilerin en az birinde şöbiyet sergilenmektedir.
- Çelik tepsilerin her birinde farklı tatlı sergilenmektedir.
- Bakır tepsilerde tulumba tatlısı sergilenmemektedir.

6. Aşağıdakilerden hangisi kesinlikle yanlıştır?

A) Bakır tepsilerin birinde fıstıklı baklava sergilenmektedir.

B) Pirinç tepsilerin üçünde tulumba tatlısı sergilenmektedir.

C) Bakır tepsilerin ikisinde şöbiyet sergilenmektedir.

D) Pirinç tepsilerin birinde fıstıklı baklava sergilenmektedir.

E) Bakır tepsilerin ikisinde fıstıklı baklava sergilenmektedir.

7. Bakır tepsilerin birinde fıstıklı baklava sergileniyorsa aşağıdakilerden hangisi kesinlikle doğrudur?

A) Pirinç tepsilerin sadece birinde şöbiyet sergilenmektedir.

B) Pirinç tepsilerin ikisinde şöbiyet sergilenmektedir.

C) Pirinç tepsilerin üçünde şöbiyet sergilenmektedir.

D) Pirinç tepsilerin ikisinde fıstıklı baklava sergilenmektedir.

E) Pirinç tepsilerin sadece birinde fıstıklı baklava sergilenmektedir.

8. Pirinç tepsilerin birinde fıstıklı baklava sergileniyorsa aşağıdakilerden hangisi kesinlikle doğrudur?

A) Pirinç tepsilerin ikisinde tulumba tatlısı sergilenmektedir.

B) Bakır tepsilerin birinde fıstıklı baklava sergilenmektedir.

C) Bakır tepsilerin ikisinde fıstıklı baklava sergilenmektedir.

D) Bakır tepsilerin ikisinde şöbiyet sergilenmektedir.

E) Pirinç tepsilerin ikisinde şöbiyet sergilenmektedir.

9. Aşağıdakilerden hangisi kesinlikle yanlıştır?

A) Çelik tepsilerin birinde fıstıklı baklava sergilenmektedir.

B) Bakır tepsilerin birinde fıstıklı baklava sergilenmektedir.

C) Pirinç tepsilerin en az birinde tulumba tatlısı sergilenmektedir.

D) Çelik tepsilerin birinde tulumba tatlısı sergilenmektedir.

E) Pirinç tepsilerin ikisinde fıstıklı baklava sergilenmektedir.

MURAT YAYINLARI

/muratyayincilik

10. - 12. SORULARI AŞAĞIDAKİ BİLGİLERE GÖRE CEVAPLAYINIZ.

Adile, Türkan, Filiz, Hulusi, Münir ve Şener bir tiyatro oyununda anne, baba, babaanne ve üç çocuktan oluşan bir aile rolü oynayacaklardır. Rol dağılımı yaş, cinsiyet ve yetenek göz önünde bulundurularak yapılmıştır. Rol dağılımı için gereken özellikler ve oynayacak kişilerle ilgili şu bilgiler verilmektedir:

- Çocuklardan ikisi ikizdir.
- Üçüncü çocuk ikizlerden küçüktür.
- Oyunda babaanne ve ikizler gitar çalmaktadır.
- Türkân hiçbir müzik aleti çalmamaktadır.
- Oyuncuların en yaşlısı Şener; en genci Münir'dir.

10. Oyunda gitar çalan oyunculardan ikisi aşağıdaki seçeneklerin hangisinde doğru verilmiştir?

A) Şener ve Adile
B) Adile ve Filiz
C) Filiz ve Şener
D) Filiz ve Münir
E) Adile ve Münir

11. Çocuk rolündeki oyunculardan hangisi aşağıda verilenlerden biri olamaz?

A) Münir
B) Hulusi
C) Filiz
D) Türkân
E) Adile

12. Aşağıdaki sorulardan hangisini yanıtlamak için verilen bilgiler yeterli değildir?

A) İkizlerin cinsiyeti nedir?
B) Çocukların kaçı erkektir?
C) Babaanneyi oynayan kimdir?
D) Küçük çocuğu kim oynamıştır?
E) Babayı oynayan kimdir?

13. - 16. SORULARI AŞAĞIDAKİ BİLGİLERE GÖRE CEVAPLAYINIZ.

Yavuzhan, Bold Pilot, Ekinoks, Abbas, Odin, Kafkaslı adlı yarış atları start parkında yan yana dizilmişlerdir. Park yerleri soldan sağa doğru 1, 2, 3, 4, 5, 6 şeklinde numaralanmıştır. Bu yarış atlarının park yerleriyle ilgili aşağıdaki bilgiler verilmiştir.

- Ekinoks'un park yeri, 4 numaralı yerdir.
- Abbas ve Odin'in park yerleri yan yanadır.
- Yavuzhan ve Kafkaslı'nın park yerleri yan yanadır.
- Bold Pilot ve Kafkaslı'nın park yerleri yan yana değildir.

13. Aşağıdakilerden hangisi kesinlikle yanlıştır?

A) Bold Pilot'un yeri 1 numaralı park yeridir.
B) Abbas'ın yeri 6 numaralı park yeridir.
C) Odin'in yeri 1 numaralı park yeridir.
D) Bold Pilot ve Yavuzhan'ın yerleri yan yanadır.
E) Kafkaslı ve Abbas'ın yerleri yan yanadır.

14. Bold pilot'un yerinin 3 numaralı park yeri olması durumunda aşağıdakilerden hangisi kesinlikle yanlış olur?

A) Yavuzhan'ın yeri, 1 numaralı park yeridir.
B) Abbas'ın yeri, 1 numaralı park yeridir.
C) Odin' in yeri, 1 numaralı park yeridir.
D) Kafkaslı'nın yeri, 5 numaralı park yeridir.
E) Kafkaslı'nın yeri, 6 numaralı park yeridir.

15. I. Bold Pilot
II. Abbas
III. Kafkaslı

Odin'in yeri 3 numaralı park yeri olması durumunda yukarıdaki yarış atlarından hangilerinin park yeri numarası kesinlikle bilinmektedir?

A) Yalnız I B) Yalnız II C) I. ve II.
D) II. ve III. E) I, II ve III.

16. Odin'in yerinin 5 numaralı park yeri olması durumunda aşağıdakilerden hangisi kesinlikle yanlıştır?

A) Ekinoks ve Abbas'ın yerleri arasında bir atın yeri vardır.
B) Yavuzhan'ın yeri, 3 numaralı park yeridir.
C) Bold Pilot'un yeri, 1 numaralı park yeridir.
D) Bold Pilot ve Yavuzhan'ın yerleri yan yanadır.
E) Kafkaslı ve Ekinoks'un yerleri yan yanadır.

MURAT YAYINLARI

17. - 20. SORULARI AŞAĞIDAKİ BİLGİLERE GÖRE CEVAPLAYINIZ.

Geleneksel olarak düzenlenen çuval yarışına beş ilçeden takımlar katılmıştır. Yarışmayla ilgili bilgiler şunlardır:

- Yarışmaya İzmir'den Balçova, Urla, Güzelbahçe olmak üzere üç ilçe takımı katılmıştır.
- Aydın'dan Germencik ve Karacasu katılmıştır.
- Germencik, yarışmayı Urla'dan hemen önce tamamlamıştır.
- Balçova takımından hemen sonra yarışı tamamlayan bir İzmir takımıdır.
- Karacasu takımı yarışı Güzelbahçe'den hemen sonra tamamlamıştır.

17. Bu bilgilere göre aşağıdakilerden hangisine kesin olarak ulaşılabilir?

A) Yarışı Balçova'dan sonra hangi takımın tamamladığı
B) Yarışı birinci bitiren takımın hangisi olduğu
C) Güzelbahçe'nin yarışı kaçıncı olarak tamamladığı
D) Yarışı beşinci olarak bitiren ilçenin hangisi olduğu
E) Urla'nın yarışı kaçıncı sırada tamamladığı

18. Germencik yarışı birinci olarak tamamladıysa aşağıdakilerden hangisi yanlıştır?

A) Güzelbahçe takımı yarışı dördüncü tamamlamıştır.
B) Balçova takımı yarışta üçüncü olmuştur.
C) Yarışmayı beşinci bitiren takım, Karacasu takımıdır.
D) Balçova, yarışmayı Urla'dan önde tamamlamıştır.
E) Urla, yarışı Güzelbahçe'den önce tamamlamıştır.

19. Balçova yarışı birinci olarak bitirdiyse diğer yarışmacıların yarışı bitirme sırası (soldan sağa doğru) aşağıdakilerden hangisinde doğru olarak verilmiştir?

A) Germencik-Urla-Karacasu-Güzelbahçe
B) Karacasu -Güzelbahçe-Urla-Germencik
C) Urla-Germencik-Güzelbahçe-Karacasu
D) Güzelbahçe-Germencik-Urla-Karacasu
E) Güzelbahçe- Karacasu -Germencik-Urla

20. Turnuvayı bir Aydın takımı birinci olarak tamamladıysa aşağıdakilerden hangisi doğru olur?

A) Germencik takımı, yarışmayı beşinci tamamlamıştır.
B) Beşinci olan bir Aydın takımıdır.
C) Beşinci olan bir İzmir takımıdır.
D) Karacasu takımı, yarışı üçüncü tamamlamıştır.
E) Urla takımı, beşinci olmuştur.

MURAT YAYINLARI

/muratyayincilik

Açıklamalar • TEST 32

1. - 4. SORULAR İÇİN

Parçada verilen bilgilere göre sıralama yaptığımızda karşımıza çıkan olasılıklar şunlardır:

1. olasılık:
Hülya-Ziya-Arkın-Sibel-Esma-Murat
2. olasılık:
Sibel-Esma-Murat-Hülya-Ziya-Arkın
3. olasılık:
Sibel-Hülya-Ziya-Arkın-Esma-Murat
4. olasılık:
Esma-Murat-Sibel-Hülya-Ziya-Arkın

1. **D** Buna göre bu kişiler dört farklı şekilde sıralanabilir.

2. **E** Yukarıdaki dört olasılığa da baktığımızda Ziya'nın her şekilde Hülya'dan sonra ödül aldığını görürüz.

3. **A** Arkın'ın dördüncü sırada ödül alması durumunda sıralama ya 2.olasılıktaki gibi ya da 4. olasılıktaki gibi olmak zorunda. Buna göre de Hülya'nın dördüncü sırada ödül alması kesinlikle doğrudur.

4. **C** Hülya'nın birinci sırada ödül alması durumunda sıralama 1. olasılıktaki gibi olacağından dördüncü sırada ödül alan Sibel'dir.

5. **E** Soruda verilen açıklamalara göre aşağıdaki gibi bir çıkarım yapabiliriz:
   - Bayan Uzun, özellik olarak ya esmer ya sarışın,
   - Bayan Esmer, özellik olarak ya uzun ya sarışın,
   - Bayan Sarışın, özellik olarak ya esmer ya uzun olabilir. Fakat Bayan Esmer, özellik olarak sarışın olanın şefiyse Bayan Esmer özellik olarak uzun olmak zorundadır. Buna göre de Bayan Sarışın esmer, Bayan Uzun da sarışın olmak zorundadır. Yani;
   Bayan Uzun, sarışın
   Bayan Esmer, uzun
   Bayan Sarışın, esmer
   olur.
   Yukarıdaki bilgilere göre de II. ve III. özellik kesin olarak doğrudur.

6. - 9. SORULAR İÇİN

Öncülde verilen bilgilere göre tepsilerdeki tatlı dağılımları şöyledir:

- Çelik tepsilerin hepsinde farklı tatlı olduğuna göre tulumba, şöbiyet ve fıstıklı baklava vardır.
- Bakır tepsilerde tulumba olmadığına göre ve çelik tepsi kalmadığına göre geri kalan üç tulumba tatlısı pirinç tepsilerde sergilenmek zorundadır.
- Bunlara göre bakır tepsilerin ikisinde de şöbiyet varsa çelik tepsiye fıstıklı baklava kalır, bakır tepsilerin birinde şöbiyet birinde fıstıklı baklava varsa çelik tepsiye şöbiyet kalır.

6. **E** Yukarıdaki bilgilere göre bakır tepsilerin ikisinde de fıstıklı baklava sergilenemez çünkü iki fıstıklı baklava olup biri de çelik tepsideyse bakır tepside fıstıklı baklava kesinlikle olamaz.

7. **B** Bakır tepsilerin birinde fıstıklı baklava sergileniyorsa geriye iki şöbiyet kalır o da pirinç tepsilerde sergilenir.

8. **D** Pirinç tepsilerin birinde fıstıklı baklava sergileniyorsa geriye iki şöbiyet kalır. Boş tepsi de bakır tepsi olduğuna göre bakır tepsilerin ikisinde şöbiyet sergilenmektedir.

9. **E** Fıstıklı baklava toplam iki tanedir ve biri çelik tepside olduğundan pirinç tepsilerin ikisinde fıstıklı baklava sergilenemez.

MURAT YAYINLARI

10. - 12. SORULAR İÇİN

Rol dağılımı yaş, cinsiyet ve yetenek göz önünde bulundurularak yapıldığından bize verilen özelliklere göre Şener baba rolünde, Münir en küçük çocuk yani üçüncü çocuk rolündedir. Türkan hiçbir müzik aleti çalmadığından ikizlerden biri ve babaanne olamaz çünkü ikizler ve babaanne gitar çalmaktadır. Buna göre Türkan anne olmak zorundadır. Hulusi de babaanne olamayacağından ikizlerden biridir.

10. B Yukarıdaki bilgilerden hareketle seçeneklere baktığımızda B seçeneğindeki Adile ve Filiz gitar çalan kişilerdir. Zaten bu kişiler ya babaanne olabilir ya da ikizlerden biri olabilir ki gitar çalanlar da bunlardır.

11. D Verilen bilgilerden Türkan'ın anne olduğunu kesin olarak biliyoruz. Bu durumda Türkan çocuk rolünde olamaz.

12. C Küçük çocuğu oynayan Münir, babayı oynayan Şener'dir. Hulusi babaanne olmadığından ikizlerden biri erkek diğeri kadındır. Hulusi ve Münir çocuktur ve ikiz çocuklardan biri de kadın olmak zorunda olduğundan çocukların ikisinin erkek olduğunu buluruz. Babaanneyi oynayan ya Adile ya Filiz olacağından bu rolü oynayanın kim olduğu kesin olarak söylenemez.

13. - 16. SORULAR İÇİN

Verilen bilgileri tablo şeklinde açıklarsak daha anlaşılır olacaktır. Tablo aşağıdaki gibidir.

Abbas : A
Odin : O
Ekinoks : E
Yavuzhan : Y
Kafkaslı : K
Bold Pilot : B.P. ile gösterilmiştir.

1	2	3	4	5	6
			E		
A O	O A O A	 A O		A O	O A
K B.P.	Y Y	B.P. K		Y K	K Y

13. E Tabloya baktığımızda her olasılıkta da Kafkaslı ve Abbas'ın park yerlerinin yan yana olamayacağını görürüz.

14. A Bold Pilot'un park yeri 3 numaralı yer olduğunda 1 numaralı park yerinde Kafkaslı olur çünkü Kafkaslı ile Bold Pilot yan yana olamaz.

15. C Odin'in park yeri 3 numaralı yer olduğunda Bold Pilot ve Abbas'ın park yerleri kesin olarak bilinebilir.

16. B Odin'in park yeri 5 numaralı yer olması durumunda Yavuzhan'ın park yeri kesinlikle 2 numaralı park yeri olur. 3 numaralı park yerinde ya Bold Pilot ya Kafkaslı vardır.

17. - 20. SORULAR İÇİN

Öncülde verilen bilgilere göre sıralama yaptığımızda diziliş şu şekilde olur:
Urla→→→Germencik
Karacasu→→→Güzelbahçe→→→Balçova

Bu sıralama sondan başa doğru;

1. olasılık:
Urla→Germencik→Karacasu→Güzelbahçe→–Balçova

ya da

2. olasılık:
Karacasu→Güzelbahçe→Balçova→Urla→Germencik
şeklinde olabilir.

17. A Verilen bilgilere ve çıkan olasılıklara göre değerlendirdiğimizde seçenekler arasında sadece A seçeneğine kesin olarak ulaşılabilir.

18. D Germencik'in yarışı birinci olarak tamamlaması durumunda sıralama 2. olasılıktaki gibi olacaktır. Buna göre de Balçova, yarışmayı Urla'dan önce değil Urla'dan sonra tamamlamış olur.

19. E Balçova yarışı birinci olarak bitirdiyse sıralama 1. olasılıktaki gibi olacaktır. soldan sağa doğru dediği için sıralama Güzelbahçe- Karacasu -Germencik-Urla şeklinde olur.

20. B Turnuvayı bir Aydın takımı birinci olarak tamamladıysa 2. olasılık geçerli olur. Buna göre de beşinci olan yine Aydın takımıdır.

MURAT YAYINLARI

5 DERS
TEK KİTAP

Genel Yetenek - Genel Kültür

SORU BANKASI

Matematik

MURAT yayınları 1983

MURAT YAYINLARI

Temel Kavramlar • TEST 1

1. **x, y, z sıfırdan ve birbirinden farklı birer rakamdır.**

$-3x + 5y + 2z$

ifadesinin alabileceği en küçük değer kaçtır?

A) -25 B) -18 C) -16 D) -14 E) -11

2. x ve y birer pozitif tam sayıdır.

$x + y = 11$

olduğuna göre, x·y çarpımının alabileceği en büyük değer kaçtır?

A) 10 B) 20 C) 25 D) 30 E) 35

3. x ve y birer pozitif tam sayıdır.

$x \cdot y = 18$

olduğuna göre, x + y toplamının alabileceği en küçük değer kaçtır?

A) 6 B) 8 C) 9 D) 11 E) 19

4. x, y ve z birer tam sayıdır.

$x \cdot y = 18$

$x \cdot z = 24$

olduğuna göre, x + y + z toplamının alabileceği en küçük değer kaçtır?

A) 43 B) 13 C) 10 D) -13 E) -43

5. **a pozitif çift tam sayı olduğuna göre, aşağıdakilerden hangisi tek sayıdır?**

A) $3a + 5$ B) $a^2 + 2$ C) $4a^3 + 6$ D) $a^2 + 3a - 4$ E) $(a + 2)^2$

6. **Aşağıdakilerden hangisi tek sayıdır?**

A) $(2021)^4$ B) $0! + 5^8$ C) $(15)^0 \cdot 8$ D) $5! \cdot 25$ E) $1! + 4^0$

MURAT YAYINLARI

7. **a pozitif tam sayı olduğuna göre, aşağıdakilerden hangisi daima çift sayıdır?**

A) $a^2 + 7$ B) $a^3 - 8$
C) $a^2 + a$ D) $a^2 + a + 3$
E) $5(3a + 1)$

8. a ve b pozitif tam sayılardır. $a^2 + 2b$ ifadesi çift sayıdır.

Buna göre,

I. $a + b$
II. $a \cdot b$
III. $2a + b$

ifadelerinden hangileri kesinlikle çift sayıdır?

A) Yalnız I B) Yalnız II
C) I ve II D) I ve III
E) I, II ve III

9. $c > a > 0 > b$

olduğuna göre, aşağıdakilerden hangisinin sonucu negatiftir?

A) $\frac{b-a}{b}$ B) $\frac{b-a}{a-c}$ C) $\frac{a-c}{c-b}$
D) $\frac{c-b}{a-b}$ E) $\frac{a}{c} - b$

10. a, b ve c tam sayıları için

$a^3 \cdot b^2 \cdot c > 0$

$b^3 \cdot c^2 < 0$

$\frac{a^2 \cdot b^2}{c^3} > 0$

olduğuna göre, a, b, c sayılarının işaretleri sırasıyla aşağıdakilerden hangisidir?

A) −, −, − B) +, +, +
C) −, +, + D) +, +, −
E) +, −, +

11. **5 tane ardışık tam sayının toplamı 85 olduğuna göre, bu sayıların en büyüğü kaçtır?**

A) 16 B) 17 C) 18 D) 19 E) 20

12. **4 tane ardışık tek tam sayının toplamı 96 olduğuna göre, bu sayıların en büyüğü kaçtır?**

A) 23 B) 25 C) 27 D) 29 E) 31

MURAT YAYINLARI

/muratyayincilik

13. a ve b ardışık tam sayılardır.

$a < b$ olmak üzere,

$$\left(1-\frac{1}{a}\right)\cdot\left(1-\frac{1}{b}\right)=\frac{9}{10}$$

olduğuna göre, a + b toplamı kaçtır?

A) 40 B) 39 C) 38 D) 37 E) 36

14. (5n) ve (4n + 1) sayıları ardışık tek tam sayılardır.

Buna göre, n'nin alabileceği değerlerin çarpımı kaçtır?

A) 3 B) –1 C) –3 D) –5 E) –7

15. $5 + 8 + 11 + \ldots + 65$

işleminin sonucu kaçtır?

A) 695 B) 715 C) 725 D) 735 E) 755

16. $x = 7 + 12 + 17 + \ldots + 67$

olduğuna göre, x sayısının her bir terimi 2 artırılırsa, x sayısı toplamda kaç artar?

A) 36 B) 34 C) 32 D) 30 E) 26

17. $\dfrac{11! - 10!}{9! + 8!}$

işleminin sonucu kaçtır?

A) 90 B) 85 C) 80 D) 75 E) 70

18. $\dfrac{(n+1)!}{n!} + 3n = 13$

olduğuna göre, n değeri kaçtır?

A) 1 B) 2 C) 3 D) 4 E) 5

19. **35! sayısının sondan kaç basamağı sıfırdır?**

A) 5 B) 6 C) 7 D) 8 E) 9

20. a ve b pozitif tam sayılardır.

$32! = 2^a \cdot b$

olduğuna göre, a'nın alabileceği en büyük değer kaçtır?

A) 27 B) 28 C) 29 D) 30 E) 31

MURAT YAYINLARI

Açıklamalar • TEST 1

1. B

$$-3x + 5y + 2z$$
$$= -3(9) + 5(1) + 2(2)$$
$$= -27 + 5 + 4$$
$$= -18$$

2. D

$x + y = 11$	$x \cdot y = ?$
$1 + 10$	$1 \cdot 10 = 10$
⋮	⋮
$5 + 6$	$5 \cdot 6 = (30)$ en büyük

3. C

$x \cdot y = 18$	$x + y = ?$
$1 \cdot 18$	$1 + 18 = 19$
$2 \cdot 9$	$2 + 9 = 11$
$3 \cdot 6$	$3 + 6 = (9)$ en küçük

4. E

$x \cdot y = 18$
$x \cdot z = 24$

x	y	z	
1	18	24	
2	9	12	
3	6	8	
6	3	4	
-1	-18	-24	$\Rightarrow (-1) + (-18) + (-24) = (-43)$ en küçük
-2	-9	-12	
-3	-6	-8	
-6	-3	-4	

5. A

		a çift 2 alalım
A)	$3a + 5$	$3 \cdot 2 + 5 = (11) \rightarrow$ tek
B)	$a^2 + 2$	$2^2 + 2 = 6$
C)	$4a^3 + 6$	$4 \cdot 2^3 + 6 = 38$
D)	$a^2 + 3a - 4$	$2^2 + 3 \cdot 2 - 4 = 6$
E)	$(a + 2)^2$	$(2 + 2)^2 = 16$

6. A

A) $(2021)^4 \longrightarrow (T)^4 = (T) \rightarrow$ tek

B) $0! + 5^8 \longrightarrow 1 + (T)^8 = T + T = Ç$
C) $(15)^0 \cdot 8 \longrightarrow 1 \cdot Ç = Ç$
D) $5! \cdot 25 \longrightarrow Ç \cdot T = Ç$
E) $1! + 4^0 \longrightarrow T + T = Ç$

7. C

		a tek	a çift
A)	$a^2 + 7$	T+T = Ç	Ç+T = T
B)	$a^3 - 8$	T−Ç = T	Ç−Ç = Ç
C)	$a^2 + a$	T+T = Ç	Ç+Ç = Ç
D)	$a^2 + a + 3$	T+T+T = T	Ç+Ç+T = T
E)	$5(3a+1)$	T(T·T+T) = Ç	T(T·Ç+T) = T

8. B

$a^2 + 2b$ çift

a		b
Ç	⟶	T
Ç	⟶	Ç ihtimalleri vardır.

a	b	a+b	a·b	2a+b
Ç	T	Ç+T = T	Ç·T = Ç	Ç·Ç+T = T
Ç	Ç	Ç+Ç = Ç	Ç·Ç = Ç	Ç·Ç+Ç = Ç

Yalnız II kesinlikle çift sayıdır.

MURAT YAYINLARI

/muratyayincilik

9. C

$c > a > 0 > b$

A) $\frac{b-a}{b} \Rightarrow \frac{(-)-(+)}{(-)} = \frac{(-)}{(-)} = +$

B) $\frac{b-a}{a-c} \Rightarrow \frac{(-)-(+)}{(+)-(+)} = \frac{(-)}{(-)} = +$

C) $\frac{a-c}{c-b} \Rightarrow \frac{(+)-(+)}{(+)-(-)} = \frac{(-)}{(+)} = -$

D) $\frac{c-b}{a-b} = \frac{(+)-(-)}{(+)-(-)} = \frac{(+)}{(+)} = +$

E) $\frac{a}{c} - b = \frac{(+)}{(+)} - (-) = +$

10. E

$a^3 \cdot b^2 \cdot c > 0$

$b^3 \cdot c^2 < 0$

$\frac{a^2 \cdot b^2}{c^3} > 0$

Çift dereceli elemanlar tamamen silinir. Tek dereceli elemanların sadece dereceleri silinir.

$a \cdot c > 0 \Rightarrow a \cdot (+) > 0 \Rightarrow a \rightarrow +$

$b < 0 \Rightarrow b \rightarrow -$

$\frac{1}{c} > 0 \Rightarrow c \rightarrow +$

a, b, c → +, −, +

11. D

I. Yol

I. II. III. IV. V.

$\frac{85}{5} = 17$ $17 + 2 = 19$

II. Yol

$x + (x+1) + (x+2) + (x+3) + (x+4) = 5x + 10$

$5x + 10 = 85$

$5x = 75$

$x = 15$

$x + 4 \Rightarrow 15 + 4 = 19$

12. C

$x + (x+2) + (x+4) + (x+6) = 4x + 12$

$4x + 12 = 96$

$4x = 84$

$x = 21$

$x + 6 \Rightarrow 21 + 6 = 27$

13. B

$a < b \qquad a < a + 1$

$\left(1 - \frac{1}{a}\right) \cdot \left(1 - \frac{1}{b}\right) = \frac{9}{10}$

$\frac{a-1}{a} \cdot \frac{b-1}{b} = \frac{9}{10}$

$\frac{a-1}{a} \cdot \frac{a+1-1}{a+1} = \frac{9}{10}$

$\frac{a-1}{\cancel{a}} \cdot \frac{\cancel{a}}{a+1} = \frac{9}{10}$

$\frac{a-1}{a+1} = \frac{9}{10}$

$10a - 10 = 9a + 9$

$a = 19$

$b = 20$

$a + b = 19 + 20 = 39$

14. C

$(5n) - (4n + 1) = 2$

$5n - 4n - 1 = 2$

$\boxed{n = 3}$

$(4n + 1) - (5n) = 2$

$4n + 1 - 5n = 2$

$\boxed{-1 = n}$

$(3) \cdot (-1) = -3$

MURAT YAYINLARI

15. D

$5 + 8 + 11 + \ldots + 65$

$T.S = \frac{65 - 5}{3} + 1 = 21$

$T.T = \frac{65 + 5}{2} \cdot 21 = 735$

16. E

$x = \underset{+2}{7} + \underset{+2}{12} + \underset{+2}{17} + \ldots + \underset{+2}{67}$

$T.S = \frac{67 - 7}{5} + 1 = 13$

$13 \cdot 2 = 26$

17. A

$$\frac{11! - 10!}{9! + 8!} = \frac{11 \cdot 10! - 10!}{9 \cdot 8! + 8!}$$

$$\Rightarrow \frac{10!(11 - 1)}{8!(9 + 1)} = \frac{10 \cdot 9 \cdot \cancel{8!} \cdot \cancel{10}}{\cancel{8!} \cdot \cancel{10}}$$

$= 90$

18. C

$$\frac{(n + 1)!}{n!} + 3n = 13$$

$$\frac{(n + 1) \cdot \cancel{n!}}{\cancel{n!}} + 3n = 13$$

$$n + 1 + 3n = 13$$

$$4n = 12$$

$$n = 3$$

19. D

$35 \mid 5$

$(7) \mid 5$

(1)

$7 + 1 = 8$

20. E

$32! = 2^{a} \cdot b$

$32 \mid 2$

$(16) \mid 2$

$(8) \mid 2$

$(4) \mid 2$

$(2) \mid 2$

(1)

$16 + 8 + 4 + 2 + 1 = 31$

MURAT YAYINLARI

Temel Kavramlar - II • TEST 2

1. x ve y pozitif tam sayılar olmak üzere,

$x - x \cdot y$

ifadesi tek sayıdır.

Buna göre,

I. $x^2 + y^2$

II. $y + x \cdot y$

III. $x^2 - x \cdot y - y^2$

ifadelerinden hangileri çift sayıdır?

A) Yalnız I B) Yalnız II C) Yalnız III

D) I ve II E) I ve III

2. $a \cdot b - 4 \cdot c = 5$

olduğuna göre, aşağıdakilerden hangisi kesinlikle doğrudur?

A) a tek, b çift sayıdır.

B) a çift, b tek sayıdır.

C) c tek sayıdır.

D) c çift sayıdır.

E) a ve b tek sayılardır.

3. x ve y sayma sayıları olmak üzere,

$\frac{6x - 5}{5y + 4} = 7$

olduğuna göre, aşağıdakilerden hangisi kesinlikle doğrudur?

A) x çift sayıdır.

B) x tek sayıdır.

C) y çift sayıdır.

D) y tek sayıdır.

E) x tek sayı ise y çift sayıdır.

4. **$x < y < 0 < z$ olduğuna göre, aşağıdaki ifadelerden hangisinin sonucu negatiftir?**

A) $\frac{x \cdot z}{x - y}$ B) $\frac{x \cdot y}{z - x}$ C) $\frac{x + y}{x \cdot y}$

D) $\frac{y - x}{z - x}$ E) $\frac{y - x}{z - y}$

5. x, y ve z pozitif tam sayılar olmak üzere,

- $\frac{x}{y} = z$
- $x + y = 10$

olduğuna göre, z'nin alabileceği değerler toplamı kaçtır?

A) 10 B) 12 C) 13 D) 14 E) 15

6. a, b, c ardışık tam sayılar ve $a < b < c$ olmak üzere,

$\frac{bc + c^2}{ab + a}$

ifadesinin b türünden eşiti aşağıdakilerden hangisidir?

A) $2b + 1$ B) $2 + \frac{3}{b - 1}$ C) $\frac{b - 1}{3}$

D) $b^2 + 1$ E) $\frac{b + 1}{b - 1}$

MURAT YAYINLARI

7. $x - 6 = y + 2 = z + 1$ olduğuna göre,

$(x - z) \cdot (x - y) \cdot (z - y)$ çarpımının sonucu kaçtır?

A) −60 B) −56 C) 15 D) 56 E) 60

8. Ardışık üç tane pozitif tek tam sayının çarpımı, bu sayıların en küçüğünün 143 katına eşittir.

Buna göre, bu sayıların en büyüğünün rakamları toplamı kaçtır?

A) 3 B) 4 C) 5 D) 6 E) 7

9. Ardışık 10 tane tek doğal sayı yan yana yazılarak 17 basamaklı bir sayı elde ediliyor.

Buna göre, bu sayıların en büyüğü kaçtır?

A) 25 B) 23 C) 21 D) 19 E) 17

10. x, y ve z pozitif tam sayılar olmak üzere,
$x < y < z$ dir.

$x + y + z = 39$ olduğuna göre, x'in alabileceği en büyük değer kaçtır?

A) 10 B) 11 C) 12 D) 13 E) 14

11. Ardışık üç pozitif tek sayıdan en küçüğü x, en büyüğü y'dir.

$x \cdot y - 5(x + y) = 7$

olduğuna göre, $x \cdot y$ çarpımı kaçtır?

A) 117 B) 108 C) 99 D) 90 E) 81

12. $\dfrac{8! - 2.7!}{6! + 5! + 4!}$

işleminin sonucu kaçtır?

A) 50 B) 45 C) 40 D) 38 E) 35

MURAT YAYINLARI

13. $\dfrac{n!}{(n-5)!} + (5 - n)!$

işleminin sonucu kaçtır?

A) 110 B) 121 C) 140 D) 152 E) 163

14. **40! − 3 sayısının son 3 basamağındaki rakamların toplamı kaçtır?**

A) 23 B) 24 C) 25 D) 26 E) 27

/muratyayincilik

15. x, bir doğal sayıdır.

$\frac{10!}{2^x}$

ifadesinin sonucu pozitif tam sayı olduğuna göre, x'in alabileceği değerlerin toplamı kaçtır?

A) 27 B) 30 C) 33 D) 36 E) 40

16. n pozitif bir doğal sayı ve

$\frac{n.(n-2)!}{(n+1)!} = \frac{1}{8}$

olduğuna göre, n kaçtır?

A) 3 B) 4 C) 5 D) 6 E) 7

17. **Hem 3 hem de 5 ile bölündüğünde 2 kalanını veren iki basamaklı doğal sayıların toplamı kaçtır?**

A) 285 B) 292 C) 300

D) 310 E) 327

18. $T = 1 . 2 + 2 . 3 + 3 . 4 + ... + 20 . 21$

toplamında her bir terimin ikinci çarpanı 10 artırılırsa T sayısı kaç artar?

A) 1800 B) 1900 C) 2100

D) 2200 E) 2300

19. $x = 5 + 6 + 7 + ... + 153$

$y = 7 + 8 + 9 + ... + 154$

olduğuna göre, x'in y türünden değeri aşağıdakilerden hangisidir?

A) $y + 143$ B) $y + 43$ C) $y + 15$

D) $y - 43$ E) $y - 143$

20. 5 tane ardışık tam sayının toplamı A'dır.

Bu sayılardan en büyüğünün A türünden eşiti aşağıdakilerden hangisidir?

A) $\frac{A+12}{5}$ B) $\frac{A+10}{5}$ C) $\frac{A+5}{5}$

D) $\frac{A-5}{5}$ E) $\frac{A-10}{5}$

MURAT YAYINLARI

Açıklamalar • TEST 2

1. B

$x - x \cdot y = x \cdot (1 - y) \rightarrow$ Tek

T Ç olmalı

I. $x^2 + y^2 = T^2 + Ç^2 = T$

II. $y + x \cdot y = Ç + T \cdot C = Ç$

III. $x^2 - x \cdot y - y^2 = T^2 - T \cdot Ç - Ç^2 = T$

Yalnız II çift sayıdır.

2. E

$a \cdot b - 4 \cdot c = 5$

$a \cdot b = 5 + 4c$

$a \cdot b = T + Ç \cdot ?$

$a \cdot b = T + Ç$

$a \cdot b = T$

T T olmalı

3. D

$\frac{6x - 5}{5y + 4} = 7$

$6x - 5 = 35y + 28$

$6x = 35y + 33$

Ç? T T T

$Ç = Ç$

y tek sayıdır.

4. C

$x < y < 0 < z$

C) $\frac{\overset{(-)}{x} + \overset{(-)}{y}}{\underset{(-)}{x} \cdot \underset{(-)}{y}} = \frac{(-)}{(+)} = (-)$ olur.

Diğer seçenekler incelendiğinde pozitif çıktığını görebiliriz.

5. D

$x + y = 10$

9 1

8 2

5 5

$\frac{x}{y} = z$

9

4

1

+ 14

6. B

$\frac{bc + c^2}{ab + a} = \frac{c(b + c)}{a(b + 1)}$ $\boxed{\begin{matrix} c = b + 1 \\ a = b - 1 \end{matrix}}$

$\frac{(b+1)(b + b + 1)}{(b - 1)(b+1)} = \frac{2b + 1}{b - 1}$

$\begin{array}{r|l} 2b + 1 & b - 1 \\ \hline -\ 2b - 2 & 2 \\ \hline +3 & \end{array}$ $\Rightarrow 2 + \frac{3}{b - 1}$ olur.

7. D

$x - 6 = y + 2 = z + 1$

$x - 6 = z + 1$ $x - 6 = y + 2$ $z + 1 = y + 2$

$x - z = 7$ $x - y = 8$ $z - y = 1$

$(x - z) \cdot (x - y) \cdot (z - y) = 7 \cdot 8 \cdot 1$

$= 56$

MURAT YAYINLARI

/muratyayincilik

8. B

x, x + 2, x + 4 olsun.

$x \cdot \underbrace{(x+2)}_{11} \cdot \underbrace{(x+4)}_{13} = 143 \cdot x$

x = 9 olur.

$x + 4 = 9 + 4$ $\quad 1 + 3 = 4$

$= 13$

9. B

Koşullara uygun sayı için 5'ten başlamalıyız.

$\underbrace{5,7,9,11,13,15,17,19,21,23}_{17\text{ basamak}}$ 10 sayı

En büyük sayı 23 olur.

10. C

$x < y < z$

39 | 3
13 Ortalama

$x + y + z = 39$

$12 + 13 + 14 = 39$

x en büyük 12 olur.

11. A

Ardışık üç tane pozitif tek sayı $x < a < y$ olsun

$x < x + 2 < x + 4$ alınır.

$x \cdot (x + 4) - 5(x + x + 4) = 7$

$x \cdot y - 5(x + y) = 7$

$x^2 + 4x - 5(2x + 4) = 7$

$x^2 + 4x - 10x - 20 = 7$

$x^2 - 6x - 27 = 0$

$(x - 9)(x + 3) = 0$

$x - 9 = 0$ $\quad x + 3 = 0$

$x = 9$ $\quad x = -3$ alınmaz.

$x = 9$ ve $y = 13$

$x \cdot y = 9 \cdot 13$

$= 117$

12. E

$$\frac{8! - 2.7!}{6! + 5! + 4!} = \frac{8.7! - 2.7!}{6.5.4! + 5.4! + 4!}$$

$$\frac{7!(8-2)}{4!(30+5+1)} = \frac{7.\cancel{6}.5.\cancel{4!}.\cancel{6}}{\cancel{4!}.\cancel{36}}$$

$= 35$

13. B

$(n - 5)!$, $(5 - n)!$ ve $n!$

tanımlı olabilmesi için parantez içleri en az 0 olmalı.

Bu koşulu sağlayan tek değer 5 olur.

$$\frac{5!}{(5-5)!} + (5-5)! = \frac{5!}{0!} + 0!$$

$$\frac{120}{1} + 1 = 120 + 1$$

$= 121$

14. C

40 | 5
8 | 5
1

8 + 1 = 9 sondan 9 basamak sıfırdır.

$$\begin{array}{r} \ldots000000000 \\ - \qquad\qquad 3 \\ \hline \ldots999999\underbrace{997}\end{array}$$

9 + 9 + 7 = 25

MURAT YAYINLARI

15. D

$10 = 2 \cdot 5$, $5 = 2 \cdot 2 + 1$

5 + 2 + 1 = 8 x'in en büyük değeri olur.

$$0 + 1 + 2 + 3 + ... + 8 = \frac{8 \cdot 9}{2}$$

$$= 36$$

16. A

$$\frac{n \cdot (n-2)!}{(n+1)!} = \frac{1}{8}$$

$$\frac{\cancel{n} \cdot \cancel{(n-2)!}}{(n+1) \cdot \cancel{n} \cdot (n-1) \cdot \cancel{(n-2)!}} = \frac{1}{8}$$

$$\frac{1}{n^2 - 1} = \frac{1}{8}$$

$$n^2 - 1 = 8$$

$$n^2 = 9$$

$$n = 3 \text{ olur.}$$

17. E

3 ve 5'e bölünebilen sayı 15'in katları olmalıdır. 2 kalanı olduğuna göre 15'in katlarına 2 eklenmelidir.

17, 32, 47, 62, 77, 92

17 + 32 + 47 + 62 + 77 + 92 = 327

18. C

$$T = 1 \cdot 2 + 2 \cdot 3 + 3 \cdot 4 + ... + 20 \cdot 21$$

(+10) (+10) (+10) (+10)

$$Y = 1 \cdot 12 + 2 \cdot 13 + 3 \cdot 14 + ... + 20 \cdot 31$$

$$Y - T = 1 \cdot 10 + 2 \cdot 10 + 3 \cdot 10 + ... + 20 \cdot 10$$

$$Y - T = 10 \cdot (1 + 2 + 3 + ... + 20)$$

$$Y - T = 10 \cdot \frac{\cancel{20} \cdot 21}{\cancel{2}}$$

$$Y - T = 2100 \text{ artar.}$$

19. E

$$x = 5 + 6 + \overbrace{7 + ... 153}^{a}$$

$$y = \underbrace{7 + 8 + 9 + ... 153}_{a} + 154$$

$x = 11 + a \Rightarrow a = x - 11$

$y = a + 154 \Rightarrow a = y - 154$

$x - 11 = y - 154$

$x = y - 143$

20. B

1. 2. 3. (+1) 4. (+1) 5.

3. : $\frac{A}{5}$

4. : $\frac{A}{5} + 2$

5. : $\frac{A + 10}{5}$

MURAT YAYINLARI

/muratyayincilik

Çözümleme • TEST 3

1. A, B, C ve D birer rakamdır.

$$\begin{array}{r} ABC \\ -\ CBA \\ \hline 4XY \end{array}$$

olduğuna göre, X + Y toplamı kaçtır?

A) 15 B) 14 C) 13 D) 12 E) 11

2. A, B ve C birbirinden farklı rakamlardır.

$$\begin{array}{r} A8 \\ +\ 6B \\ \hline 1C4 \end{array}$$

Yukarıdaki toplama işlemine göre, A + B + C toplamının alabileceği en büyük değer kaçtır?

A) 13 B) 15 C) 17 D) 19 E) 21

3. A, B, C, D ve her nokta birer rakam olmak üzere,

$$\begin{array}{r} \ldots \\ \times\ \ 24 \\ \hline 4\ldots \\ +\ .14 \\ \hline ABCD \end{array}$$

Yukarıda verilen çarpma işleminde A + B + C + D toplamı kaçtır?

A) 19 B) 20 C) 21 D) 22 E) 23

4. A, B ve C birer rakamdır.

$$\begin{array}{r} A3C \\ -\ BA6 \\ \hline C76 \end{array}$$

Yukarıda verilen çıkarma işlemine göre, A + B + C toplamı kaçtır?

A) 13 B) 12 C) 11 D) 10 E) 9

5. A, B ve her bir nokta birer rakam olmak üzere,

$$\begin{array}{rl} & AB \\ \times & 37 \\ \hline & \ldots \longrightarrow \text{I. çarpım} \\ + & \ldots \longrightarrow \text{II. çarpım} \\ \hline & 250 \end{array}$$

Yukarıdaki çarpma işleminde yanlışlıkla II. çarpım bir basamak sağa kaydırılarak hatalı işlem yapılmıştır.

Buna göre, A . B çarpımı kaçtır?

A) 10 B) 12 C) 14 D) 15 E) 16

6. **Rakamları toplamının 4 katına eşit olan iki basamaklı doğal sayıların en büyüğü ile en küçüğünün toplamı kaçtır?**

A) 40 B) 50 C) 55 D) 60 E) 70

MURAT YAYINLARI

7. Üç basamaklı ABC doğal sayısı için,
- Rakamları birbirinden farklıdır.
- Rakamları tek asal sayıdır.

koşulları veriliyor.

Buna göre, en büyük ABC sayısı ile en küçük ABC sayısının toplamı kaçtır?

A) 1111 B) 1110 C) 1010 D) 1000 E) 999

8. Rakamları arasında

A = B + 2

B = C + 1

ilişkisi olan kaç tane üç basamaklı ABC doğal sayısı vardır?

A) 5 B) 6 C) 7 D) 8 E) 9

9. Dört arkadaş 1350 lirayı paylaşmak istiyor.

Herkesin aldığı miktar farklı birer tam sayı olmak koşuluyla en az alan kişi en çok kaç lira almış olabilir?

A) 335 B) 336 C) 337 D) 338 E) 339

10. **İki tanesi 52'den büyük iki basamaklı 5 farklı doğal sayının toplamı 159 olduğuna göre, bu sayıların en büyüğü en çok kaçtır?**

A) 59 B) 60 C) 65 D) 70 E) 73

11. Rakamları farklı üç basamaklı 4 tane farklı doğal sayının toplamı 3213'tür.

Buna göre, bu sayıların en küçüğü en az kaçtır?

A) 253 B) 254 C) 256 D) 257 E) 258

12. İrem bir A sayısını 58 ile çarpmak istiyor. Çarpma sırasında A sayısının birler ve onlar basamağındaki rakamların yerlerini değiştirerek hatalı sonuç buluyor.

Hatalı sonuç doğru sonuçtan 1566 fazla olduğuna göre, A sayısı çarpma işlemi yapılan yanlış sayıdan kaç eksiktir?

A) 27 B) 33 C) 43 D) 45 E) 52

13. Üç basamaklı bir A doğal sayısının sağına 3 yazıldığında elde edilen dört basamaklı doğal sayı B, soluna 3 yazıldığında elde edilen dört basamaklı doğal sayı C oluyor.

C – B = 522 olduğuna göre, A sayısının rakamları toplamı kaçtır?

A) 11 B) 12 C) 13 D) 14 E) 15

14. Birbirinden farklı iki basamaklı 3 doğal sayının toplamı a'dır.

Buna göre, a kaç farklı değer alır?

A) 262 B) 263 C) 264 D) 270 E) 275

MURAT YAYINLARI

15. Beril 1, 2, 3, 4 rakamlarını kullanarak doğal sayılar yazmak istiyor. Bu sayıya ait bilgiler şöyledir.

- Sayı dört basamaklı ABCD doğal sayısıdır.
- Sayının rakamları birbirinden farklıdır.
- A + B = C + D eşitliği sağlanmalıdır.

Buna göre, Beril kaç farklı ABCD doğal sayısı yazabilir?

A) 16 B) 14 C) 12 D) 10 E) 8

16. **İki basamaklı ab doğal sayısı ile iki basamaklı ba doğal sayısının farkı yine bir doğal sayının karesine eşit oluyorsa, bu koşulu sağlayan kaç farklı ab sayısı yazılabilir?**

A) 23 B) 22 C) 19 D) 17 E) 13

17. Rakamları farklı dört basamaklı bir doğal sayının rakamları kullanılarak yeni bir dört basamaklı rakamları farklı doğal sayı yazılıyor.

Buna göre, bu iki sayı arasındaki fark en fazla kaç olabilir?

A) 8985 B) 8915 C) 8721 D) 8712 E) 8659

18. **Rakamlarının sayı değerlerinin çarpımı 20 olan kaç tane üç basamaklı doğal sayı yazılabilir?**

A) 14 B) 12 C) 10 D) 9 E) 8

19. x, y sıfırdan ve birbirinden farklı birer rakamdır.

xx0, xy0, yx0 üç basamaklı doğal sayılar ve $\frac{xy0 + yx0}{xx0} = 6$ **olduğuna göre, x + y toplamı kaçtır?**

A) 9 B) 8 C) 7 D) 6 E) 5

20. a, b, c sıfırdan ve birbirinden farklı birer rakamdır.

a + b + c = 14

2a + b = 17

olduğuna göre, üç basamaklı sayılar için

aaa + baa + cbb toplamı kaçtır?

A) 1615 B) 1587 C) 1487 D) 1477 E) 1347

MURAT YAYINLARI

Açıklamalar • TEST 3

1. B

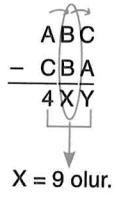

A rakamı C rakamından büyük olduğu için onluk alma işlemi gerekir.

4 + Y = 9 olmalı

Y = 5

X + Y = 9 + 5

=14

X = 9 olur.

2. D

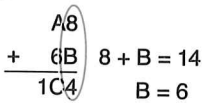

8 + B = 14

B = 6

A	B	C	
3	6	0	
4	6	1	
5	6	2	
6	6	3	olmaz
7	6	4	
8	6	5	→ 8 + 6 + 5 = 19 olur.
9	6	6	olmaz

3. C

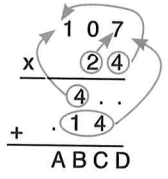

$$\begin{array}{r} 107 \\ \times \quad 24 \\ \hline 428 \\ + \quad 214 \\ \hline 2568 \end{array}$$

2 + 5 + 6 + 8 = 21

4. E

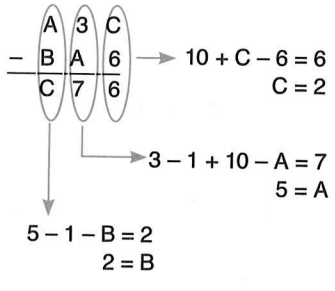

10 + C − 6 = 6

C = 2

3 − 1 + 10 − A = 7

5 = A

5 − 1 − B = 2

2 = B

A + B + C = 5 + 2 + 2 = 9

5. A

$$\begin{array}{r} AB \\ \times \quad 37 \\ \hline \cdots \rightarrow \quad 7 \,.\, AB \\ + \quad \cdots \rightarrow + \quad 3 \,.\, AB \\ \hline 250 \quad = \quad 10 \,.\, AB \end{array}$$

25 = AB

A . B = 2 . 5

= 10

A = 2 ve B = 5

6. D

ab = (a + b) . 4

10a + b = 4a + 4b

6a = 3b

2a = b

1	2	12 en küçük
2	4	24
3	6	36
4	8	48 en büyük

12 + 48 =60

7. B

Koşullara uygun kullanılabilecek rakamlar 3, 5, 7 olur.

$$\begin{array}{lr} \text{En büyük} & 753 \\ \text{En küçük} & + \quad 357 \\ \hline & 1110 \end{array}$$

8. C

A = B + 2

B = C + 1

A	B	C	ABC
3	1	0	310
4	2	1	421
5	3	2	532
6	4	3	643
7	5	4	754
8	6	5	865
9	7	6	976

7 tane ABC doğal sayısı vardır.

MURAT YAYINLARI

/muratyayincilik

9. B

1350 | 4
− 12 | 337 → Ortalama kişi başı
15
− 12
30
− 28
2 → Birer lira 2 kişiye dağıtılacak

1.	2.	3.	4.
337	337	338	338 koşulu sağlamaz.
−1			+1
336	337	338	339 koşulu sağlar.

en az alan

10. E

1. 53
2. 10
3. 11 } 86
4. 12
5. x

\+ → 73 olur.
159

11. C

1. 987
2. 986 } 2958
3. 985
4. x

\+ → 255 koşulu sağlamaz
3213

255 + 1 = 256 olur.

12. A

A sayısı = ab Yanlış sayı = ba

ba . 58 − ab . 58 = 1566

58(ba − ab) = 1566

ba − ab = 27

13. D

A = abc olsun

B = abc3

C = 3abc

C − B = 3abc − abc3

522 = 3000 + abc −(10 . abc + 3)

522 = 3000 + abc − 10 . abc − 3

522 = −9 . abc + 2997

9 . abc = 2475

abc = 275

a + b + c = 2 + 7 + 5 = 14 olur.

14. A

10 + 11 + 12 = 33

10 + 11 + 13 = 34

.
.
.

97 + 98 + 99 = 294

$$\text{Terim Sayısı} = \frac{\text{Son Terim} - \text{İlk Terim}}{\text{Artış Miktarı}} + 1$$

$$= \frac{294 - 33}{1} + 1$$

= 262

15. E

{1, 2, 3, 4}

A	+	B	=	C	+	D (ABCD)
1		4		2		3
1		4		3		2
4		1		2		3
4		1		3		2
2		3		1		4
2		3		4		1
3		2		1		4
3		2		4		1

8 farklı sayı

MURAT YAYINLARI

16. B

$$ab - ba = x^2$$
$$10a + b - (10b + a) = x^2$$
$$10a + b - 10b - a = x^2$$
$$\underbrace{9(a-b)}_{\substack{0\\1\\4}} = x^2$$

$a - b = 0$ için {11, 22, 33, 44, 55, 66, 77, 88, 99}
9 tane
$a - b = 1$ için {21, 32, 43, 54, 65, 76, 87, 98}
8 tane
$a - b = 4$ için {51, 62, 73, 84, 95}
5 tane
$9 + 8 + 5 = 22$ tane olur.

17. C

$$\begin{array}{r} 9810 \\ -\ 1089 \\ \hline 8721 \end{array}$$ olur

18. D

abc 3 basamaklı doğal sayı

1 . 4 . 5 → 145, 154, 415, 451, 514, 541 } 6 tane = 3!

2 . 2 . 5 → 225, 252, 522 } 3 tane = $\frac{3!}{2!}$

$6 + 3 = 9$ tane yazılabilir.

19. D

$$\frac{xy0 + yx0}{xx0} = 6$$
$$\frac{10(xy + yx)}{10 \cdot xx} = 6$$
$$\frac{xy + yx}{xx} = 6$$
$$\frac{10x + y + 10y + x}{10x + x} = 6$$
$$\frac{11(x + y)}{11x} = 6$$
$$\frac{x + y}{x} = 6$$
$$x + y = 6x$$
$$\underset{5}{y} = \underset{1}{5x}$$

$x + y = 1 + 5 = 6$

20. B

$a + b + c = 14$
$2a + b = 17$

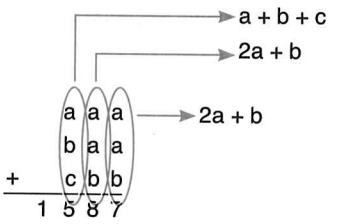

MURAT YAYINLARI

/muratyayincilik

Bölme ve Bölünebilme • TEST 4

1. Toplamları 93 olan iki doğal sayıdan büyüğü küçüğüne bölündüğünde bölüm 5 ve kalan 3 oluyor.

Buna göre, küçük sayının rakamları toplamı kaçtır?

A) 11 B) 10 C) 8 D) 6 E) 5

2. Pozitif tam sayılarla yapılan bir bölme işleminde bölüm bölenin 2 katından 3 eksiktir.

Bu bölme işleminde kalan 7 olduğuna göre, bölünen sayı en az kaç olabilir?

A) 135 B) 127 C) 120 D) 115 E) 112

3. a ve b birer pozitif tam sayı olmak üzere,

$$\begin{array}{r|l} a & b-1 \\ \hline - & b \\ \hline 3 & \end{array}$$

olduğuna göre, a sayısının alabileceği en küçük değerin rakamları toplamı kaçtır?

A) 3 B) 4 C) 5 D) 8 E) 10

4. İki basamaklı AB doğal sayısı kendisinin rakamları toplamına bölündüğünde elde edilen bölüm 5 ve kalan 11 oluyor.

Buna göre, A + B toplamının alabileceği en küçük değer kaçtır?

A) 8 B) 7 C) 6 D) 5 E) 4

5. x, y, z sıfırdan ve birbirinden farklı birer rakam olmak üzere,

$$\frac{xyzxyz}{xyz} + \frac{xxx}{x} - \frac{yzyz}{yz}$$

işleminin sonucu kaçtır?

A) 1011 B) 1010 C) 1001 D) 111 E) 110

6. Zeynep, x tane kalemi 7 arkadaşına eşit sayıda paylaştırınca 5 tane kalemi artıyor.

Zeynep'in başlangıçtaki kalem sayısı aşağıdakilerden hangisi olursa 7 arkadaşına eşit sayıda kalem dağıttığında hiç kalemi artmaz?

A) $x^2 - 2$ B) $2x + 3$ C) $x^2 + 3$ D) $3x - 2$ E) $x + 8$

MURAT YAYINLARI

7. Dört basamaklı 4A2B doğal sayısının 19 ile bölümünden kalan 10'dur.

Buna göre, dört basamaklı 5A3B doğal sayısının 19 ile bölümünden kalan kaçtır?

A) 12 B) 13 C) 14 D) 15 E) 16

8. **8^{30} sayısının $2^{88} - 3$ sayısına bölümünden kalan kaçtır?**

A) 16 B) 15 C) 14 D) 13 E) 12

9. 2020 = A olmak üzere,

$A^2 + 2A - 1$ sayısının 9 ile bölümünden kalan kaçtır?

A) 7 B) 6 C) 5 D) 4 E) 3

10. a ve b doğal sayıdır.

$$\begin{array}{r|l} a & b^3 \\ \hline - & b+1 \\ \hline (b+1)! & \end{array}$$

Yukarıdaki bölme işleminde a sayısının alabileceği en büyük değerin rakamları toplamı kaçtır?

A) 6 B) 7 C) 8 D) 9 E) 10

11. Rakamları farklı beş basamaklı 82a9b doğal sayısının 9 ile bölümünden kalan 7 ve 5 ile bölümünden kalan 1'dir.

a sıfırdan farklı bir rakam olduğuna göre, a – b farkı kaçtır?

A) 7 B) 6 C) 5 D) 4 E) 3

12. Üç basmaklı 4ab doğal sayısının 5 ile bölümünden kalan 3'tür.

a < b olmak üzere 4ab doğal sayısının 4 ile tam bölünebilmesi için a'nın alabileceği kaç farklı değer vardır?

A) 5 B) 4 C) 3 D) 2 E) 1

13. **Beş basamaklı, rakamları farklı 41a7b doğal sayısı 12 ile tam bölünebildiğine göre, a'nın alabileceği değerler toplamı kaçtır?**

A) 12 B) 13 C) 14 D) 15 E) 16

14. Bir doğal sayının 9 ile bölümünden kalan 8'dir.

Bu sayının tüm rakamları 7 olduğuna göre, bu sayı en az kaç basamaklıdır?

A) 2 B) 3 C) 4 D) 5 E) 6

MURAT YAYINLARI

15. x, y ve z birer pozitif tam sayıdır.

$$\begin{array}{r|l} y & z \\ \hline - & 4 \\ \hline 5 & \end{array} \qquad \begin{array}{r|l} x & y \\ \hline - & 3 \\ \hline 4 & \end{array}$$

olduğuna göre, x'in z türünden eşiti aşağıdakilerden hangisidir?

A) $12 \cdot z + 19$ B) $4 \cdot z + 19$
C) $3 \cdot z + 19$ D) $12 \cdot z + 5$
E) $6 \cdot z + 5$

16. **3, 4 ve 5 ile tam bölünebilen dört basamaklı kaç farklı 4xyz doğal sayısı vardır?**

A) 15 B) 16 C) 17 D) 18 E) 19

17. 85 ile 220 arasında 6 ve 9'a tam bölünebilen kaç farklı tam sayı vardır?

A) 7 B) 8 C) 9 D) 10 E) 11

18. **0! + 1! + 2! + ... + 10! toplamının 15 ile bölümünden kalan kaçtır?**

A) 1 B) 2 C) 3 D) 4 E) 5

19. **Altı basamaklı 7ab5ab doğal sayısının 11 ile bölümünden kalan kaçtır?**

A) 2 B) 3 C) 5 D) 7 E) 9

20. Dört basamaklı, rakamları farklı a72b doğal sayısının 15 ile bölümünden kalan 8'dir.

Buna göre, a'nın alabileceği kaç farklı değer vardır?

A) 5 B) 6 C) 7 D) 8 E) 9

MURAT YAYINLARI

Açıklamalar • TEST 4

1. D

Büyük sayı: x
Küçük sayı: y

x	y
–	5
3	

$x + y = 93$
$5y + 3 + y = 93$
$6y = 90$
$y = 15$
$1 + 5 = 6$ olur.

2. B

A	x
–	2x – 3
7	

$x > 7$ olmalı
A en az için
$x = 8$ seçilir.

A	8
–	15
7	

$A = 8 . 15 + 7$
$A = 127$ olur.

3. C

a	b – 1
–	b
3	

$b - 1 > 3$
$b > 4$ olmalı
a en küçük için
$b = 5$ seçilir.

a	4
–	5
3	

$a = 4 . 5 + 3$
$a = 23$
$2 + 3 = 5$ olur.

4. E

AB	A + B
–	5
11	

$AB = 5 . (A + B) + 11$
$10A + B = 5A + 5B + 11$
$5A = 4B + 11$
$3 \quad 1$
$7 \quad 6$

$A + B = 3 + 1 = 4$ en küçük olur.

5. A

$$\frac{xyzxyz}{xyz} + \frac{xxx}{x} - \frac{yzyz}{yz}$$

xyzxyz	xyz
– xyz	1001
0xyz	
– 0xyz	
0	

xxx	x
– x	111
0x	
– 0x	
00	
– 0x	
00	

yzyz	yz
– yz	101
0yz	
– 0yz	
0	

$1001 + 111 - 101 = 1011$

6. C

x	7
–	a
5	

$x = 7a + 5$

$a = 0$ için $x = 5$ seçilebilir.

A) $x^2 - 2 = 5^2 - 2 = 23$ — 7'nin katı değil
B) $2x + 3 = 2 . 5 + 3 = 13$ — 7'nin katı değil
C) $x^2 + 3 = 5^2 + 3 = 28$ — 7'nin katı olur
D) $3x - 2 = 3 . 5 - 2 = 13$ — 7'nin katı değil
E) $x + 8 = 5 + 8 = 13$ — 7'nin katı değil

O hâlde $x^2 + 3$ tane kalem olur.

7. B

5A3B = 4A2B + 1010

4A2B	19
	10

4A2B + 1010	19
– ↓ ↓	
10 + 3	
13	

8. E

$8^{30} = (2^3)^{30} = 2^{90}$

2^{90}	$2^{88} - 3$
$-\ 2^{90} - 12$	2^2
12 → kalan 12 olur.	

MURAT YAYINLARI

/muratyayincilik

9. C

A = 2020

2 + 0 + 2 + 0 = 4

A sayısının 9 ile bölümünden kalan 4'tür.

$$\begin{array}{r|l} A^2 + 2A - 1 & 9 \\ - \downarrow & \\ \hline \underbrace{4^2 + 2.4 - 1}_{23} & \\ \downarrow & \\ 5 & \end{array}$$

10. A

$$\begin{array}{r|l} a & b^3 \\ - & b + 1 \\ \hline (b+1)! & \end{array}$$

$b^3 > (b + 1)!$

b = 1 $\quad 1 > 2! = 2$ olmaz

b = 2 $\quad 8 > 3! = 6$ olabilir

b = 3 $\quad 27 > 4! = 24$ olabilir

b = 4 $\quad 64 > 5! = 120$ olmaz

$$\begin{array}{r|l} a & 3^3 \\ - & 4 \\ \hline 4! & \end{array} \qquad \begin{array}{r|l} a & 27 \\ - & 4 \\ \hline 24 & \end{array}$$

a = 27 . 4 + 24

a = 132

1 + 3 + 2 = 6

11. D

• 5'e bölünebilme

82a9b

↓

0 + 1 = 1

5 + 1 = 6

82a91 ve 82a96

• 9 ile bölünebilme

82a91

8 + 2 + a + 9 + 1 = 9k + 7

a + 13 = 9k

↓

5

82a96

8 + 2 + a + 9 + 6 = 9k + 7

a + 18 = 9k

↓

0 olmaz

9 olmaz

a – b = 5 – 1

= 4

12. B

4ab

↓

0 + 3 = 3

5 + 3 = 8

4a3 ve 4a8

↓ ↓

Yok 0 ✓

2 ✓

4 ✓

6 ✓

8 olmaz

Koşullara uygun 4 farklı değer vardır.

13. A

12 → 3, 4

• 4 ile bölünebilme

41a7b

↓

2

6

41a72 ve 41a76

• 3 ile bölünebilme

41a72

4+1+a+7+2=3k

14 + a = 3k

↓

1 olmaz

4 olmaz

7 olmaz

41a76

4+1+a+7+6=3k

18 + a = 3k

↓

0

3

6 olmaz

9

0 + 3 + 9 = 12

MURAT YAYINLARI

14. D

$\underbrace{777...7}_{x\text{ tane}}$ x basamaklı

rakamları toplamı = 7x olur.

$7x = 9k + 8$

$7x - 8 = 9k$

↓

5 en az

15. A

$$\begin{array}{r|l} y & z \\ \hline - & 4 \\ \hline 5 & \end{array} \qquad \begin{array}{r|l} x & y \\ \hline - & 3 \\ \hline 4 & \end{array}$$

$y = 4 . z + 5$

$x = 3 . y + 4$

$x = 3(4z + 5) + 4$

$x = 12 . z + 19$

16. C

• 5 ile bölünebilme

4xyz

↓

0

5

• 4 ile bölünebilme için z = 5 olmaz

4xyz

↓

00 için

20

40

60

80

•3 ile bölünebilme

4x00	4x20	4x40	4x60	4x80
↓	↓	↓	↓	↓
2	0	1	2	0
5	3	4	5	3
8	6	7	8	6
	9			9
3 tane	4 tane	3 tane	3 tane	4 tane

3 + 4 + 3 + 3 + 4 = 17 tane

17. B

6 ve 9 için 18'in katı aranır.

~~85~~, 90, 108, 126, ..., 216, ~~220~~

$$\text{Terim Sayısı} = \frac{216 - 90}{18} + 1$$

$$= \frac{126}{18} + 1$$

$$= 8$$

18. D

15 için 3 ve 5 çarpanı aranır. Bu çarpanlar ilk kez 5! içinde ve sonraki tüm değerlerde de olur. Dolayısıyla 15'e tam bölünür. Bu nedenle biz 0! + 1! + 2! + 3! + 4! toplamının 15 ile bölümünden kalanına bakmalıyız.

1 + 1 + 2 + 6 + 24 = 34

$$\begin{array}{r|l} 34 & 15 \\ \hline - \ 30 & 2 \\ \hline 4 & \end{array} \longrightarrow \text{kalan}$$

19. E

7ab5ab

−+−+−+

(a + 5 + b) − (7 + b + a)

=a + 5 + b − 7 − b − a

=−2 için kalan −2 + 11 = 9 olur.

20. A

15 → 3, 5 kalan 8 için

$$\begin{array}{r|l} 8 & 3 \\ \hline - \ 6 & 2 \\ \hline 2 & \end{array} \qquad \begin{array}{r|l} 8 & 5 \\ \hline - \ 5 & 1 \\ \hline 3 & \end{array}$$

3 ile bölümünden kalan 2, 5 ile bölümünden kalan 3 olmalı.

• 5 ile bölünebilme

a72b

↓

0 + 3 = 3

5 + 3 = 8

a723 ve a728

• 3 ile bölünebilme

a723	a728
a+7+2+3=3k+2	a+7+2+8=3k+2
a+10=3k	a+15=3k
↓	↓
2 olmaz	0 olmaz
5	3
8	6
2 tane	9
	3 tane

2 + 3 = 5 tane

MURAT YAYINLARI

/muratyayincilik

Asal Çarpan - EBOB - EKOK • TEST 5

1. **200 sayısının negatif tam bölen sayısı kaçtır?**

A) 10 B) 12 C) 14 D) 16 E) 18

2. **İki basamaklı bir doğal sayının asal olmayan tam bölenlerinin toplamı –9 olduğuna göre, bu sayı en fazla kaç olabilir?**

A) 86 B) 88 C) 90 D) 92 E) 98

3. **x pozitif bir tam sayı olmak üzere, $2^{x-1} \cdot 3^x$ sayısının 24 tane tam böleni olduğuna göre, x kaçtır?**

A) 1 B) 2 C) 3 D) 4 E) 5

4. a ve b pozitif tam sayılardır.

$a^3 = 16 \cdot 9 \cdot b$

olduğuna göre, a + b toplamı en az kaç olur?

A) 24 B) 32 C) 40 D) 44 E) 48

5. x ve y birer pozitif tam sayıdır.

$x \cdot y = 56 + 5y$

olduğuna göre, x kaç farklı değer alır?

A) 4 B) 6 C) 7 D) 8 E) 10

6. $A = 16\underbrace{000\ldots0}_{\text{n tane sıfır}}$

A sayısının pozitif tam bölenlerinin sayısı 140 olduğuna göre, n kaçtır?

A) 7 B) 8 C) 9 D) 10 E) 11

7. x ve y doğal sayılardır.

$(x - 2y) \cdot (5x + 2y) = 17$

olduğuna göre, x + y toplamı kaçtır?

A) 8 B) 7 C) 6 D) 5 E) 4

8. x ve y tam sayılar olup (x – 1) ile (2y + 3) sayıları aralarında asal sayılardır.

(x – 1) . 88 = (2y + 3) . 56 olduğuna göre, x + y toplamı kaçtır?

A) 10 B) 11 C) 12 D) 13 E) 14

9. x ve y doğal sayıları için

- EBOB(x,y) = 15
- EKOK(x,y) = 225

olduğuna göre, x + y toplamı en az kaçtır?

A) 120 B) 130 C) 140 D) 150 E) 160

10. a ve b pozitif tam sayıları aralarında asaldır.

Buna göre,

I. Ebob(a,b) . Ekok(a,b) = a . b

II. Ebob(a,b) = a + b

III. Ekok(a,b) = a . b

ifadelerinden hangileri daima doğrudur?

A) Yalnız I B) Yalnız II C) Yalnız III D) I ve II E) I ve III

MURAT YAYINLARI

11. $A = 14! + 13!$

$B = 15! - 14!$

olduğuna göre, $\frac{EKOK(A,B)}{EBOB(A,B)}$ **oranı kaçtır?**

A) $13 \cdot 14^2$ B) $13 \cdot 14 \cdot 15$ C) $15 \cdot 14$

D) $15 \cdot 14^2$ E) 14^2

12. Dikdörtgen şeklindeki bir arsanın kısa kenarı 110 metre uzun kenarı 165 metredir. Bu arsa en büyük alana sahip özdeş kare parsellere ayrılmak isteniyor.

Buna göre, kare parsellerden birinin alanı kaç m^2 olur?

A) 3100 B) 3025 C) 3000

D) 2725 E) 2650

13. Aynı özelliğe sahip üç tahta çubuğun boyları 96 cm, 84 cm ve 60 cm'dir. Bu tahta çubuklar eşit uzunluklarda parçalara ayrılmak isteniyor.

Bu kesme işlemi için ücret 2 TL olup aynı anda birden fazla çubuk kesilememektedir.

Buna göre, bu iş için en az kaç TL ödenir?

A) 34 B) 36 C) 38 D) 40 E) 42

14. **Ağırlıkları 28 kg, 35 kg ve x kg olan üç farklı çuvaldaki mercimekler birbirine karıştırılmadan eşit ağırlıklarla paketlenmek istendiğinde toplam en az 16 paket gerektiğine göre, x kaçtır?**

A) 42 B) 49 C) 56 D) 63 E) 70

15. Gömlek satılan bir mağazada gömlek fiyatları sabit ve tam sayıdır. Bu mağazada 1. gün 2530 liralık, 2. gün 2090 liralık satış yapılmıştır.

Buna göre, bu mağazada iki günde toplam en az kaç gömlek satılmış olabilir?

A) 60 B) 56 C) 52 D) 48 E) 42

16. **325 kişinin bulunduğu bir topluluktan en az kaç kişi ayrılmalı ki kalan kişiler 12'li veya 15'li gruplara ayrılabilsin?**

A) 10 B) 15 C) 25 D) 30 E) 35

17. Ömer'in elindeki özdeş fayansların eni 28 cm, boyu 42 cm'dir. Ömer, en küçük alanlı kare şeklindeki düz bir yüzeyi bu fayanslarla kaplamak istiyor.

Ömer fayansların yönünü değiştirmeden bu işi yapacağına göre, en az kaç fayansa ihtiyacı vardır?

A) 12 B) 10 C) 8 D) 6 E) 5

18. A, x, y ve z pozitif tam sayılardır.

$A = 4x + 1 = 5y + 3 = 6z - 1$

olduğuna göre, 450'den küçük A'nın alabileceği en büyük değerin rakamları toplamı kaçtır?

A) 10 B) 9 C) 8 D) 7 E) 6

19. Üç zil sırasıyla $\frac{3}{4}$, $\frac{2}{5}$, $\frac{1}{3}$ saat arayla çalmaktadır.

Bu üç zil aynı anda çaldıktan en az kaç saat sonra tekrar birlikte aynı anda çalar?

A) 8 B) 6 C) 5 D) 4 E) 3

20. **a pozitif bir tam sayı olduğuna göre, aşağıdakilerden hangisi yanlıştır?**

A) EBOB(5a,4a) = a

B) EBOB(a,a + 1) = 1

C) EKOK(a,a + 1) = $a^2 + a$

D) EKOK(3a,4a) = 12 a

E) EKOK(a^2,a^3) = a^5

MURAT YAYINLARI

Açıklamalar • TEST 5

1. B

200	2
100	2
50	2
25	5
5	5
1	

$200 = 2^3 \cdot 5^2$

nbs = (3 + 1) . (2 + 1)
= 4 . 3
= 12

2. E

Bir doğal sayının tam bölenlerinin toplamı daima "0" olur.
Asal olmayan tam bölenlerinin toplamı
0 – (2 + 7) = –9 olacağı için
$2^x \cdot 7^y$ asal çarpanları için
$2^1 \cdot 7^2 = 98$ en fazla olur.

3. C

Tam bölen sayısı = 24
Pozitif tam bölen sayısı = 12
$2^{x-1} \cdot 3^x$ için

12 = (x – 1 + 1) . (x + 1)
12 = x . (x + 1)
x = 3 olur.

4. A

$a^3 = 16 \cdot 9 \cdot b$
$a^3 = 4^2 \cdot 3^2 \cdot b$
4 . 3 ⇒ $\boxed{b = 12}$
$a^3 = 4^3 \cdot 3^3$
$a^3 = 12^3$
$\boxed{a = 12}$
a + b = 12 + 12 = 24

5. D

$x \cdot y = 56 + 5y$

$x = \frac{56 + 5y}{y}$

$x = \frac{56}{y} + \frac{5y}{y}$

$x = \frac{56}{y} + 5$

56	2
28	2
14	2
7	7
1	

$56 = 2^3 \cdot 7$
pbs = (3 + 1) . (1 + 1)
= 4 . 2
= 8 farklı değer

6. C

$\underbrace{16000...0}_{n \text{ tane}} = 16 \cdot 10^n$
$= 2^4 \cdot 2^n \cdot 5^n$
$= 2^{4+n} \cdot 5^n$

pbs = (4 + n + 1) . (n + 1)
140 = (5 + n) . (n + 1)
9 = n

7. E

$\underbrace{(x - 2y)}_{1} \cdot \underbrace{(5x + 2y)}_{17} = \underbrace{17}_{\text{asal sayı}}$

$x - 2y = 1$
$+ \ 5x + 2y = 17$
$6x = 18$
$\boxed{x = 3}$

$5x + 2y = 17$
$5 \cdot 3 + 2y = 17$
$15 + 2y = 17$
$2y = 2$
$\boxed{y = 1}$

x + y = 3 + 1 = 4

MURAT YAYINLARI

8. C

$(x-1).88 = (2y+3).56$

$\frac{x-1}{2y+3} = \frac{56^{7}}{88_{11}}$

$\frac{x-1}{2y+3} = \frac{7}{11}$

$x - 1 = 7$ → $\boxed{x = 8}$

$2y + 3 = 11$

$2y = 8$

$\boxed{y = 4}$

$x + y = 8 + 4$

$= 12$

9. A

EBOB(x,y) . EKOK(x,y) = x . y

15 . 225 = x . y

Çarpımları bilinen iki pozitif tam sayının toplamlarının en az olabilmesi için sayılar birbirine en yakın seçilmelidir.

15 . 225 = x . y

15 . 15 . 15 = x . y

15 . 15 . 3 . 5 = x . y

45 . 75 = x . y

$x + y = 45 + 75$

$= 120$

10. E

Aralarında asal iki pozitif tam sayı için

Ebob(a,b) = 1

Ekok(a,b) = a . b olur.

İki pozitif tam sayı için

Ebob(a,b) . Ekok(a,b) = a . b olur.

Buna göre, I ve III daima doğrudur.

11. D

$A = 14! + 13! = 14 . 13! + 13! = 13! . 15$

$B = 15! - 14! = 15 . 14! - 14! = 14! . 14$

$13! \cdot 15$	$14! . 14$	$13!$ ✓
15	$14 . 14$	15
1	14^2	14^2
	1	

EBOB(A,B) = 13!

$EKOK(A,B) = 13! . 15 . 14^2$

$\frac{EKOK(A,B)}{EBOB(A,B)} = \frac{13! . 15 . 14^2}{13!}$

$= 15 . 14^2$

12. B

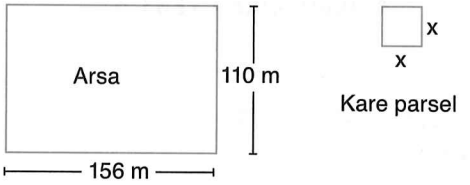

110	165	11✓
10	15	5✓
2	3	

Ebob(110,165) = 11 . 5 = 55 m

55 / 55

Alan = 55 . 55

$= 3025\ m^2$

13. A

60	84	96	12
5	7	8	

EBOB(60,84,96) = 12 cm parça uzunluğu

$\frac{60}{12}$ = 5 parça adedi — 4 kesme işlemi

$\frac{84}{12}$ = 7 parça adedi — 6 kesme işlemi

$\frac{96}{12}$ = 8 parça adedi — +7 kesme işlemi

17 kesme işlemi

17 . 2 = 34 TL ödenir.

14. B

28	35	x	7✓
7	5	$\frac{x}{7}$	

Ebob(28,35,x) = 7 kg

$4 + 5 + \frac{x}{7} = 16$

$\frac{x}{7} = 7$

$x = 49$ kg

MURAT YAYINLARI

/muratyayincilik

15. E

2530	2090	10✓
253	209	11✓
23	19	

Ebob(2530,2090) = 10 . 11 = 110 TL

$\frac{2530}{110}$ = 23 tane gömlek

$\frac{2090}{110}$ = + 19 tane gömlek

42 tane gömlek en az

16. C

12	15	3
4	5	4
1	5	5
	1	

Ekok(12,15) = 3 . 4 . 5 = 60

325 | 60

− 300 | 5

(25) → ayrılması gereken kişi sayısı

17. D

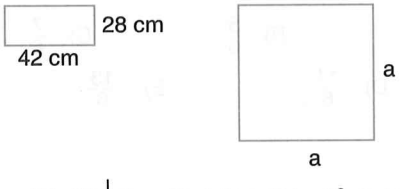

42	28	7
6	4	2
3	2	2
3	1	3
1		

Ekok(42,28) = 2^2 . 3 . 7 = 84

a = 84 cm

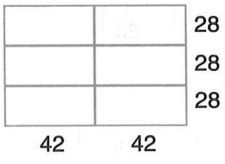

$\frac{84}{28}$ = 3 sıra

$\frac{84}{42}$ = 2 sıra

3 . 2 = 6 tane fayans

18. C

A = 4x + 1 = 5y + 3 = 6z − 1

A + 7 = 4x + 1 + 7 = 5y + 3 + 7 = 6z − 1 + 7

A + 7 = 4x + 8 = 5y + 10 = 6z + 6

A + 7 = 4(x + 2) = 5(y + 2) = 6(z + 1)

4	5	6	2
2	5	3	2
1	5	3	3
	5	1	5
	1		

Ekok(4,5,6) = 2^2 . 3 . 5

= 60

60 . 7 = 420

A + 7 = 420

A = 413

4 + 1 + 3 = 8

19. B

$Ekok\left(\frac{3}{4},\frac{2}{5},\frac{1}{3}\right) = \frac{Ekok(3,2,1)}{Ebob(4,5,3)}$

$= \frac{6}{1}$

= 6 saat

20. E

E) EKOK(a^2,a^3) = a^5

a^2	a^3	a^2
1	a	a
	1	

EKOK(a^2,a^3) = a^2 . a

= a^3

MURAT YAYINLARI

Rasyonel Sayılar • TEST 6

1. $\frac{1}{9}-\left(\frac{1}{9}-\frac{1}{4}\right)+\frac{1}{4}-\left(\frac{1}{9}+\frac{1}{2}\right)$

işleminin sonucu kaçtır?

A) $-\frac{1}{2}$ B) $-\frac{1}{4}$ C) $-\frac{1}{9}$ D) $\frac{1}{9}$ E) $\frac{1}{4}$

2. $\frac{2}{3}\cdot\left[\frac{1}{2}:\left(\frac{2}{5}-\frac{1}{3}\right)\right]$

işleminin sonucu kaçtır?

A) 5 B) 4 C) 3 D) 2 E) 1

3. $\frac{\left(\frac{1}{3}+2\right).\frac{3}{7}}{\left(\frac{7}{3}-2\right).\frac{3}{5}}$

işleminin sonucu kaçtır?

A) 2 B) 3 C) 4 D) 5 E) 6

4. $\frac{\frac{1}{2}}{3}+\frac{5}{6}$

işleminin sonucu kaçtır?

A) 5 B) 4 C) 3 D) 2 E) 1

5. $1-\frac{2}{3-\frac{4}{5}}$

işleminin sonucu kaçtır?

A) $\frac{1}{12}$ B) $\frac{1}{11}$ C) $\frac{1}{10}$ D) $\frac{1}{9}$ E) $\frac{1}{8}$

6. $\frac{3\frac{1}{2}+2\frac{3}{2}}{\frac{5}{2}-(1:2)}$

işleminin sonucu kaçtır?

A) 2 B) $\frac{5}{2}$ C) 3 D) $\frac{7}{2}$ E) 4

7. $2020\frac{1}{2}-2019\frac{1}{3}$

işleminin sonucu kaçtır?

A) $\frac{1}{6}$ B) $\frac{5}{6}$ C) $\frac{7}{6}$ D) $\frac{11}{6}$ E) $\frac{13}{6}$

8. $\left(1-\frac{1}{5}\right).\left(1-\frac{1}{6}\right).\left(1-\frac{1}{7}\right)...\left(1-\frac{1}{20}\right)$

işleminin sonucu kaçtır?

A) $\frac{1}{6}$ B) $\frac{1}{5}$ C) $\frac{1}{4}$ D) $\frac{1}{3}$ E) $\frac{1}{2}$

MURAT YAYINLARI

/muratyayincilik

9. $\frac{1}{2}-\frac{1}{3}+\frac{1}{2}-\frac{1}{3}+...-\frac{1}{3}+\frac{1}{2}=A$

21 terimden oluşan A sayısı kaçtır?

A) $\frac{1}{3}$ B) 1 C) $\frac{5}{3}$ D) 2 E) $\frac{13}{6}$

10. $x=\frac{2}{11}+\frac{3}{7}$ olduğuna göre,

$\frac{1}{11}-\frac{1}{7}$ ifadesinin x türünden eşiti aşağıdakilerden hangisidir?

A) $5-3x$ B) $5x-3$ C) $3x-5$ D) $x-3$ E) $3-5x$

11. $\frac{2x-3y}{3x-12}=0$

olduğuna göre, x aşağıdakilerden hangisi olamaz?

A) 1 B) 2 C) 3 D) 4 E) 5

12. $\frac{2}{3}$ **sayısı** $2\frac{3}{5}$ **sayısının kaç katıdır?**

A) $\frac{2}{25}$ B) $\frac{1}{15}$ C) $\frac{2}{39}$ D) $\frac{1}{20}$ E) $\frac{2}{45}$

13. $\frac{2x+1}{3}-\frac{x-2}{2}=6$

olduğuna göre, x kaçtır?

A) 28 B) 22 C) 20 D) 18 E) 14

14. $2-\frac{3}{x-\frac{7}{4}}=-10$

olduğuna göre, x kaçtır?

A) 5 B) 4 C) 3 D) 2 E) 1

15. $\frac{4x+18}{x+3}$ **kesrini tam sayı yapan kaç farklı x tam sayı değeri vardır?**

A) 4 B) 5 C) 6 D) 7 E) 8

16. **Sayı doğrusu üzerinde $\frac{1}{8}$ ile $\frac{1}{6}$ sayılarına eşit uzaklıkta bulunan sayı kaçtır?**

A) $\frac{7}{24}$ B) $\frac{1}{3}$ C) $\frac{7}{48}$ D) $\frac{1}{7}$ E) $\frac{2}{15}$

MURAT YAYINLARI

17. $\frac{2x+8}{x-3} = a$ ve $\frac{x-3}{2x+8} = b$

eşitliklerinde a ve b tam sayı olduğuna göre, x'in alabileceği değerler toplamı kaçtır?

A) $-\frac{38}{3}$ B) -12 C) $-\frac{31}{3}$

D) -10 E) $-\frac{26}{3}$

18. $x = \frac{333}{100}, y = \frac{33}{10}, z = \frac{3333}{1000}$

olduğuna göre, aşağıdaki sıralamalardan hangisi doğrudur?

A) $x < y < z$ B) $x < z < y$

C) $y < z < x$ D) $z < x < y$

E) $y < x < z$

19. $x = -\frac{47}{49}, y = -\frac{85}{87}, z = -\frac{71}{73}$

olduğuna göre, aşağıdaki sıralamalardan hangisi doğrudur?

A) $y < z < x$ B) $x < y < z$

C) $x < z < y$ D) $z < y < x$

E) $y < x < z$

20. $x + y = \frac{15}{11}$

$x + z = \frac{35}{31}$

$y + z = \frac{25}{21}$

olduğuna göre, aşağıdaki sıralamalardan hangisi doğrudur?

A) $x < y < z$ B) $z < x < y$

C) $x < z < y$ D) $z < y < x$

E) $y < x < z$

MURAT YAYINLARI

/muratyayincilik

Açıklamalar • TEST 6

1. C

$$\frac{1}{9}-\left(\frac{1}{9}-\frac{1}{4}\right)+\frac{1}{4}-\left(\frac{1}{9}+\frac{1}{2}\right)$$
$$=\frac{1}{\cancel{9}}-\frac{1}{\cancel{9}}+\frac{1}{4}+\frac{1}{4}-\frac{1}{9}-\frac{1}{2}$$
$$=\frac{2}{4}-\frac{1}{9}-\frac{1}{2}$$
$$=\frac{1}{\cancel{2}}-\frac{1}{9}-\frac{1}{\cancel{2}}$$
$$=-\frac{1}{9}$$

2. A

$$\frac{2}{3}\cdot\left[\frac{1}{2}:\left(\underset{(3)}{\frac{2}{5}}-\underset{(5)}{\frac{1}{3}}\right)\right]$$
$$=\frac{2}{3}\cdot\left[\frac{1}{2}:\left(\frac{6-5}{15}\right)\right]$$
$$=\frac{2}{3}\cdot\left[\frac{1}{2}:\frac{1}{15}\right]$$
$$=\frac{2}{3}\cdot\left[\frac{1}{2}\cdot\frac{15}{1}\right]$$
$$=\frac{\cancel{12}}{1\cancel{3}}\cdot\frac{5\cancel{15}}{1\cancel{2}}$$
$$=5$$

3. D

$$\frac{\left(\frac{1}{3}+2\right)\cdot\frac{3}{7}}{\left(\frac{7}{3}-2\right)\cdot\frac{3}{5}}=\frac{\left(\frac{1+6}{3}\right)\cdot\frac{3}{7}}{\left(\frac{7-6}{3}\right)\cdot\frac{3}{5}}$$
$$\frac{\frac{\cancel{7}}{\cancel{3}}\cdot\frac{\cancel{3}}{\cancel{7}}}{\frac{1}{\cancel{3}}\cdot\frac{\cancel{3}}{5}}=\frac{1}{\frac{1}{5}}$$
$$1.\frac{5}{1}=5$$

4. E

$$\frac{1}{\underset{(3)}{2}}+\frac{5}{6}=\frac{1}{2}\cdot\frac{1}{3}+\frac{5}{6}$$
$$\frac{1}{6}+\frac{5}{6}=\frac{6}{6}$$
$$=1$$

5. B

$$1-\frac{2}{3-\frac{4}{5}}=1-\frac{2}{\frac{15-4}{5}}$$
$$1-\frac{2}{\frac{11}{5}}=1-2\cdot\frac{5}{11}$$
$$1-\frac{10}{11}=\frac{11-10}{11}$$
$$=\frac{1}{11}$$

6. D

$$\frac{3\frac{1}{2}+2\frac{3}{2}}{\frac{5}{2}-(1:2)}=\frac{\frac{7}{2}+\frac{7}{2}}{\frac{5}{2}-\frac{1}{2}}$$
$$\frac{\frac{14}{2}}{\frac{4}{2}}=\frac{7}{2}$$

7. C

$$2020\frac{1}{2}-2019\frac{1}{3}$$
$$=2020+\frac{1}{2}-\left(2019+\frac{1}{3}\right)$$
$$=2020+\frac{1}{2}-2019-\frac{1}{3}$$
$$=\underset{(6)}{\frac{1}{1}}+\underset{(3)}{\frac{1}{2}}-\underset{(2)}{\frac{1}{3}}$$
$$=\frac{6+3-2}{6}$$
$$=\frac{7}{6}$$

8. B

$$\left(1-\frac{1}{5}\right)\cdot\left(1-\frac{1}{6}\right)\cdot\left(1-\frac{1}{7}\right)\cdots\left(1-\frac{1}{20}\right)$$
$$=\frac{4}{5}\cdot\frac{\cancel{5}}{\cancel{6}}\cdot\frac{\cancel{6}}{7}\cdots\frac{\cancel{19}}{20}$$
$$=\frac{4}{20}$$
$$=\frac{1}{5}$$

MURAT YAYINLARI

9. E

$$\frac{1}{2}-\frac{1}{3}+\frac{1}{2}-\frac{1}{3}+\ldots-\frac{1}{3}+\frac{1}{2}=A$$

21 terimin, 11 terimi $\frac{1}{2}$ ve 10 terimi $-\frac{1}{3}$ olur.

$$11.\frac{1}{2}+10.\left(-\frac{1}{3}\right)$$
$$=\underset{(3)}{\frac{11}{2}}-\underset{(2)}{\frac{10}{3}}$$
$$=\frac{33-20}{6}$$
$$=\frac{13}{6}$$

10. E

$$5./x=\frac{2}{11}+\frac{3}{7}$$
$$y=\frac{1}{11}-\frac{1}{7}$$
$$5x=\frac{10}{11}+\frac{15}{7}$$
$$+\quad y=\frac{1}{11}-\frac{1}{7}$$
$$5x+y=\frac{11}{11}+\frac{14}{7}$$
$$5x+y=1+2$$
$$y=3-5x$$

11. D

Payda "0" olamaz.

$$\frac{2x-3y}{3x-12}=0$$
$$3x-12=0$$
$$3x=12$$
$$x=4 \text{ olamaz.}$$

12. C

$$\frac{\frac{2}{3}}{5}=\frac{2}{3}\cdot\frac{1}{5}=\frac{2}{15}$$
$$2\frac{3}{5}=\frac{13}{5}$$
$$\frac{2}{15}:\frac{13}{5}=\frac{2}{3\cancel{15}}\cdot\frac{\cancel{5}^{1}}{13}=\frac{2}{39}$$

MURAT YAYINLARI

13. A

$$\underset{(2)}{\frac{2x+1}{3}}-\underset{(3)}{\frac{x-2}{2}}=6$$
$$\frac{4x+2}{6}-\frac{3x-6}{6}=6$$
$$\frac{4x+2-3x+6}{6}=6$$
$$x+8=36$$
$$x=28$$

14. D

$$2-\frac{3}{x-\frac{7}{4}}=-10$$
$$2-\frac{3}{\frac{4x-7}{4}}=-10$$
$$2-3.\frac{4}{4x-7}=-10$$
$$2-\frac{12}{4x-7}=-10$$
$$\frac{8x-14-12}{4x-7}=-10$$
$$8x-26=-40x+70$$
$$48x=96$$
$$x=2$$

/muratyayincilik

15. E

$$\begin{array}{r|l} 4x+18 & x+3 \\ -\ 4x+12 & 4 \\ \hline 6 & \end{array}$$

$$4+\frac{6}{x+3}$$

$\downarrow$

$3, 0, -1, -2, -4, -5, -6, -9$ } 8 tane

16. C

$$\frac{\frac{1}{6_{(4)}}+\frac{1}{8_{(3)}}}{2}=\frac{\frac{4+3}{24}}{2}$$

$$\frac{\frac{7}{24}}{2}=\frac{7}{24}\cdot\frac{1}{2}$$

$$=\frac{7}{48}$$

17. A

$\frac{2x+8}{x-3}=a$ ve $\frac{x-3}{2x+8}=b$

a ve b tam sayı ise

$2x+8=x-3$ ve $2x+8=-(x-3)$

$x=-11$ $2x+8=-x+3$

$3x=-5$

$x=-\frac{5}{3}$

$$(-11)+\left(-\frac{5}{3}\right)=-\frac{38}{3}$$

18. E

$$x=\frac{333}{100}\cdot\frac{10}{10}=\frac{3330}{1000}$$

$$y=\frac{33}{10}\cdot\frac{100}{100}=\frac{3300}{1000}$$

$$z=\frac{3333}{1000}$$

Paydalar eşitse payı büyük olan daha büyük sayıdır.

$z > x > y$ veya $y < x < z$

19. A

$$x=-\frac{47}{49}, y=-\frac{85}{87}, z=-\frac{71}{73}$$

Sayıları pozitif gibi düşünürsek pay ve payda arasındaki fark eşitse basit kesirlerde payı büyük olan daha büyük sayıdır.

$y > z > x$ (+) için

Negatif sayılar için ters sıralama yaparız.

$y < z < x$ (–) için

20. B

Bileşik kesirlerde pay ve payda arasındaki fark eşitse paydası küçük olan daha büyük sayıdır.

$x+y=\frac{15}{11}\rightarrow$ En Büyük — en küçük z

$x+z=\frac{35}{31}\rightarrow$ En Küçük — en büyük y

$y+z=\frac{25}{21}$ — orta x

olmayanları yaz

$z < x < y$

MURAT YAYINLARI

Ondalık Sayılar • TEST 7

1. $\frac{2,019 - 2,02 + 0,002}{0,02}$

işleminin sonucu kaçtır?

A) 5 B) 0,8 C) 0,5 D) 0,08 E) 0,05

2. $(1,77 - 0,17) \cdot (0,2)$

işleminin sonucu kaçtır?

A) 0,48 B) 0,32 C) 0,28 D) 0,24 E) 0,18

3. $\frac{3}{0,03} - \frac{3}{0,3}$

işleminin sonucu kaçtır?

A) 20 B) 30 C) 50 D) 90 E) 100

4. $\frac{198,3}{19,83} - \frac{0,1983}{1,983}$

işleminin sonucu kaçtır?

A) 8,9 B) 9 C) 9,9 D) 10 E) 10,1

5. $\frac{0,06}{0,03} - \frac{0,08}{0,002} + \frac{0,03}{0,006}$

işleminin sonucu kaçtır?

A) −33 B) −10 C) −3 D) 3 E) 10

6. $\frac{0,25 - 0,05}{0,025 - 0,005}$

işleminin sonucu kaçtır?

A) 0,1 B) 1,5 C) 5 D) 10 E) 15

7. $0,02 + \frac{0,06}{0,8 - \frac{1}{2}}$

işleminin sonucu kaçtır?

A) 0,0022 B) 0,022 C) 0,22 D) 2,2 E) 22

8. $\frac{1,1\overline{2} - 1,\overline{1}}{0,9}$

işleminin sonucu kaçtır?

A) $\frac{1}{90}$ B) $\frac{1}{81}$ C) $\frac{1}{60}$ D) $\frac{1}{15}$ E) $\frac{1}{10}$

9. $\frac{5,\overline{9} + 3,\overline{9}}{0,\overline{9}}$

işleminin sonucu kaçtır?

A) 2 B) 4 C) 8 D) 10 E) 15

10. $(x + 0,2) \cdot (1,2) = 0,6$

olduğuna göre, x kaçtır?

A) 0,3 B) 0,4 C) 0,5 D) 0,6 E) 0,7

MURAT YAYINLARI

/muratyayincilik

11. $\frac{x-0,2}{1,2}=\frac{7}{6}$

olduğuna göre, x kaçtır?

A) 1,1 B) 1,2 C) 1,3 D) 1,4 E) 1,6

12. a pozitif ondalık bir sayıdır.

$a+\frac{9}{20}$

ifadesi bir tam sayı olduğuna göre, a sayısının ondalık kısmı aşağıdakilerden hangisidir?

A) ...,50 B) ...,55 C) ...,60
D) ...,65 E) ...,70

13. a sıfırdan farklı bir rakam olmak üzere,

$\frac{0,00a+0,0a+0,a}{0,aaa}$

işleminin sonucu kaçtır?

A) 1 B) 2 C) 3 D) 4 E) 5

14. **Aşağıdaki sayılardan hangisi 0,75 ile 0,85 sayıları arasındadır?**

A) $0,\overline{7}$ B) $0,\overline{74}$ C) $0,\overline{75}$
D) $0,\overline{85}$ E) $0,\overline{9}$

15. **0,056 sayısı 0,0004 sayısının kaç katıdır?**

A) 4 B) 14 C) 50
D) 100 E) 140

16. **Bir sayıyı 0,2'ye bölmek aynı sayıyı kaç ile çarpmaktır?**

A) 1 B) 2 C) 4 D) 5 E) 10

17. $\frac{(1,5)^2-(0,5)^2}{2}$

işleminin sonucu kaçtır?

A) 1 B) 1,5 C) 2 D) 2,5 E) 3

18. $\frac{1}{4}+\frac{0,\overline{9}-0,5}{2}$

işleminin sonucu kaçtır?

A) 0,1 B) 0,25 C) 0,4
D) 0,5 E) 0,75

19. $0,\overline{1}+0,\overline{2}+0,\overline{3}+...+0,\overline{8}$

işleminin sonucu kaçtır?

A) 1 B) 2 C) 3 D) 4 E) 5

20. $x=(0,2).a$
$y=\frac{3}{5}.a$
$z=(0,2\overline{9}).a$

a < 0 olmak üzere x, y ve z sayılarının küçükten büyüğe doğru sıralanışı aşağıdakilerden hangisidir?

A) $x<y<z$ B) $x<z<y$
C) $y<z<x$ D) $z<x<y$
E) $y<x<z$

MURAT YAYINLARI

Açıklamalar • TEST 7

1. E

$$\frac{2,019-2,02+0,002}{0,02}=\frac{0,001}{0,02}=\frac{1}{20}$$
$$=0,05$$

$$\begin{array}{r} 2,019 \\ +\ 0,002 \\ \hline 2,021 \end{array} \qquad \begin{array}{r} 2,021 \\ -\ 2,02 \\ \hline 0,001 \end{array}$$

2. B

$$(1,77-0,17)\,.\,(0,2)=(1,6)\,.\,(0,2)$$
$$=0,32$$

$$\begin{array}{r} 1,77 \\ -\ 0,17 \\ \hline 1,60 \end{array} \qquad \begin{array}{r} 1,6 \\ \times\ 0,2 \\ \hline 32 \\ +\ 00 \\ \hline 0,32 \end{array}$$

3. D

$$\frac{3}{0,03}-\frac{3}{0,3}=\frac{300}{3}-\frac{30}{3}$$

$$100-10=90$$

4. C

$$\frac{198,3}{19,83}-\frac{0,1983}{1,983}=\frac{19830}{1983}-\frac{1983}{19830}$$
$$10-\frac{1}{10}=\frac{99}{10}$$
$$=9,9$$

5. A

$$\frac{0,06}{0,03}-\frac{0,08}{0,002}+\frac{0,03}{0,006}$$
$$=\frac{6}{3}-\frac{80}{2}+\frac{30}{6}$$
$$=2-40+5$$
$$=-33$$

6. D

$$\frac{0,25-0,05}{0,025-0,005}=\frac{0,2}{0,02}$$
$$\frac{20}{2}=10$$

7. C

$$0,02+\frac{0,06}{0,8-\frac{1}{2}}=0,02+\frac{0,06}{0,8-0,5}$$
$$0,02+\frac{0,06}{0,3}=0,02+\frac{6}{30}$$
$$0,02+\frac{1}{5}=0,02+0,2$$
$$=0,22$$

8. B

$$\frac{1,1\overline{2}-1,\overline{1}}{0,9}=\frac{\frac{112-11}{90}-\frac{11-1}{9}}{0,9}$$
$$\frac{\frac{101}{90}-\frac{10}{9(10)}}{0,9}=\frac{\frac{101-100}{90}}{0,9}$$
$$\frac{\frac{1}{90}}{\frac{9}{10}}=\frac{1}{\cancel{90}_{9}}\cdot\frac{\cancel{10}}{9}$$
$$=\frac{1}{81}$$

9. D

$$\frac{5,\overline{9}+3,\overline{9}}{0,\overline{9}}=\frac{6+4}{1}$$
$$=10$$

10. A

$$(x+0,2)\,.\,(1,2)=0,6$$
$$x+0,2=\frac{0,6}{1,2}$$
$$x+0,2=\frac{6}{12}$$
$$x+0,2=0,5$$
$$x=0,5-0,2$$
$$x=0,3$$

MURAT YAYINLARI

/muratyayincilik

11. E

$$\frac{x-0,2}{1,2}=\frac{7}{6}$$
$$6x-1,2=8,4$$
$$6x=9,6$$
$$x=\frac{9,6}{6}$$
$$x=1,6$$

12. B

$$a+\frac{9}{20}=1$$
$$a=1-\frac{9}{20}$$
$$a=\frac{11}{20}$$
$$a=\frac{11}{20}\cdot\frac{5}{5}$$
$$a=\frac{55}{100}$$
$$a=0,55$$

13. A

$$\frac{0,00a+0,0a+0,a}{0,aaa}$$
$$=\frac{0,aaa}{0,aaa}$$
$$=1$$

14. C

$0,\overline{75}=0,757575...$

$0,75=0,750000...$

$0,85=0,850000...$

$0,75<0,\overline{75}<0,85$

15. E

$$\frac{0,056}{0,0004}=\frac{560}{4}$$
$$=140$$

16. D

$$\frac{x}{0,2}=x.k$$
$$\frac{1}{0,2}=k$$
$$\frac{1}{\frac{2}{10}}=k$$
$$\frac{10}{2}=k$$
$$5=k$$

17. A

$$\frac{(1,5)^2-(0,5)^2}{2}=\frac{(1,5+0,5).(1,5-0,5)}{2}$$
$$\frac{2.1}{2}=1$$

18. D

$$\frac{1}{4}+\frac{0,\overline{9}-0,5}{2}=\frac{1}{4}+\frac{1-0,5}{2}$$
$$=\frac{1}{4}+\frac{0,5}{2}$$
$$=\frac{25}{100}+\frac{0,50}{2}=0,25+0,25$$
$$=0,5$$

19. D

$$0,\overline{1}+0,\overline{2}+0,\overline{3}+...0,\overline{8}$$
$$=\frac{1}{9}+\frac{2}{9}+\frac{3}{9}+...+\frac{8}{9}$$
$$=\frac{\frac{8.9}{2}}{9}=\frac{36}{9}$$
$$=4$$

20. C

$x=(0,2).a=(0,2).a$

$y=\frac{3}{5}.a=(0,6).a$

$z=(0,2\overline{9}).a=(0,3).a$

$a>0$ için sıralama

$y>z>x$ olur.

$a<0$ için sıralama

$y<z<x$ olur.

MURAT YAYINLARI

Üslü Sayılar • TEST 8

1. $\left(\frac{7}{6}\right)^3 . \left(\frac{49}{36}\right)^{-1}$

işleminin sonucu kaçtır?

A) $\frac{1}{7}$ B) $\frac{6}{7}$ C) $\frac{7}{6}$ D) $\frac{13}{6}$ E) $\frac{17}{6}$

2. $\frac{256^2 - 16.64}{4^5}$

işleminin sonucu kaçtır?

A) 15 B) 48 C) 53 D) 63 E) 83

3. $(5^{-2} + 5)^{-1} . \frac{252}{25}$

işleminin sonucu kaçtır?

A) 1 B) 2 C) 3 D) 4 E) 5

4. $(0,36)^{-1} . \left(\frac{5}{9}\right)^{-2}$

işleminin sonucu kaçtır?

A) 1 B) 3 C) 5 D) 6 E) 9

5. $\frac{3^{10} + 3^{10} + 3^{10} + 3^{10}}{9^5}$

işleminin sonucu kaçtır?

A) 4 B) 5 C) 6 D) 8 E) 9

6. $\frac{3^6 + 3^5 + 3^4 + 3^3}{6^3}$

işleminin sonucu kaçtır?

A) 6 B) 5 C) 4 D) 3 E) 2

7. $\frac{5.10^{-5} + 4.10^{-4}}{9.10^{-5}}$

işleminin sonucu kaçtır?

A) 9 B) 8 C) 7 D) 6 E) 5

8. $\frac{0,09.10^{-6} + 0,6.10^{-7}}{15.10^{-7}}$

işleminin sonucu kaçtır?

A) 0,1 B) 0,2 C) 0,3 D) 0,4 E) 0,5

9. $\frac{(0,5)^4 . (0,25)^2}{(0,125)^2}$

işleminin sonucu kaçtır?

A) 1 B) 0,5 C) 0,25 D) 0,125 E) 0,1

10. $27^{\frac{1}{2}} . 9^{\frac{1}{4}}$

işleminin sonucu kaçtır?

A) 1 B) 3 C) 6 D) 9 E) 18

MURAT YAYINLARI

/muratyayincilik

11. $(-a)^{-4} \cdot (a)^3 \cdot (-a)^2$
işleminin sonucu aşağıdakilerden hangisidir?

A) a B) a^2 C) $-a$
D) $-a^2$ E) $-a^3$

12. $5^{x+1} - 20 \cdot 5^{x-1} = 125$
olduğuna göre, x kaçtır?

A) 1 B) 2 C) 3 D) 4 E) 5

13. $\frac{5}{125^{-x-1}} = \frac{1}{5^{-x}}$
olduğuna göre, x kaçtır?

A) –5 B) –4 C) –3 D) –2 E) –1

14. $\frac{3}{2^{x-2}} + \frac{4}{2^{x+1}} + \frac{5}{2^{x-1}} = 3$
olduğuna göre, x kaçtır?

A) 4 B) 3 C) 2 D) 1 E) 0

15. $\frac{5^{7x} + 5^{5x} + 5^{3x}}{5^{5x} + 5^{3x} + 5^{x}} = \left(\frac{1}{5}\right)^{-2}$
olduğuna göre, x kaçtır?

A) 1 B) 2 C) 3 D) 4 E) 5

16. $5^a = x$ **olduğuna göre,** 125^{a+1} **ifadesinin x türünden eşiti aşağıdakilerden hangisidir?**

A) $5x^2$ B) $5x^3$ C) $25x^2$
D) $25x^3$ E) $125x^3$

17. $2^{x+y} = 64$
$3^{y-x} = 81$
olduğuna göre, x . y çarpmı kaçtır?

A) 2 B) 3 C) 4 D) 5 E) 6

18. $\left(\frac{2}{5}\right)^{-3}$ sayısı $5 \cdot 16^{-1}$ sayısının kaç katıdır?

A) 5 B) 25 C) 50
D) 75 E) 100

19. $27 \cdot 10^3 \cdot 8^2 \cdot 5^4 = A$
olduğuna göre, A sayısı kaç basamaklıdır?

A) 11 B) 10 C) 9 D) 8 E) 7

20. $x = 2^{102}$
$y = 5^{34}$
$z = 3^{51}$
olduğuna göre, aşağıdaki sıralamalardan hangisi doğrudur?

A) $z < y < x$ B) $y < x < z$
C) $y < z < x$ D) $x < z < y$
E) $x < y < z$

MURAT YAYINLARI

Açıklamalar • TEST 8

1. C

$$\left(\frac{7}{6}\right)^3 \cdot \left(\frac{49}{36}\right)^{-1} = \left(\frac{7}{6}\right)^3 \cdot \left(\frac{36}{49}\right)^1$$

$$\left(\frac{7}{6}\right)^3 \cdot \left(\frac{6}{7}\right)^2 = \frac{7^3}{6^3} \cdot \frac{6^2}{7^2}$$

$$= \frac{7}{6}$$

2. D

$$\frac{256^2 - 16.64}{4^5} = \frac{(4^4)^2 - 4^2.4^3}{4^5}$$

$$\frac{4^8 - 4^5}{4^5} = \frac{4^5(4^3 - 1)}{4^5}$$

$$64 - 1 = 63$$

3. B

$$(5^{-2} + 5)^{-1} \cdot \frac{252}{25} = \left(\frac{1}{5^2} + 5\right)^{-1} \cdot \frac{252}{25}$$

$$\left(\frac{1}{25} + 5\right)^{-1} \cdot \frac{252}{25} = \left(\frac{126}{25}\right)^{-1} \cdot \frac{252}{25}$$

$$\frac{\cancel{25}}{\cancel{126}} \cdot \frac{\cancel{252}^2}{\cancel{25}} = 2$$

4. E

$$(0,36)^{-1} \cdot \left(\frac{5}{9}\right)^{-2} = \left(\frac{36}{100}\right)^{-1} \cdot \left(\frac{9}{5}\right)^2$$

$$\left(\frac{100}{36}\right) \cdot \frac{9^2}{5^2} = \frac{\cancel{25}}{\cancel{9}} \cdot \frac{\cancel{81}^9}{\cancel{25}}$$

$$= 9$$

5. A

$$\frac{3^{10} + 3^{10} + 3^{10} + 3^{10}}{9^5} = \frac{4.3^{10}}{(3^2)^5}$$

$$\frac{4.3^{10}}{3^{10}} = 4$$

6. B

$$\frac{3^6 + 3^5 + 3^4 + 3^3}{6^3} = \frac{3^3(3^3 + 3^2 + 3^1 + 1)}{3^3.2^3}$$

$$\frac{\cancel{3^3}.40}{\cancel{3^3}.8} = 5$$

7. E

$$\frac{5.10^{-5} + 4.10^{-4}}{9.10^{-5}} = \frac{\cancel{10^{-5}}(5 + 4.10)}{9.\cancel{10^{-5}}}$$

$$\frac{5 + 40}{9} = \frac{45}{9}$$

$$= 5$$

8. A

$$\frac{0,09.10^{-6} + 0,6.10^{-7}}{15.10^{-7}}$$

$$= \frac{9.10^{-2}.10^{-6} + 6.10^{-1}.10^{-7}}{15.10^{-7}}$$

$$= \frac{9.10^{-8} + 6.10^{-8}}{15.10^{-7}}$$

$$= \frac{\cancel{15}.10^{-8}}{\cancel{15}.10^{-7}}$$

$$= 10^{-1} = \frac{1}{10}$$

$$= 0,1$$

9. C

$$\frac{(0,5)^4.(0,25)^2}{(0,125)^2} = \frac{(0,5)^4.((0,5)^2)^2}{((0,5)^3)^2}$$

$$\frac{(0,5)^4.(0,5)^4}{(0,5)^6} = \frac{(0,5)^8}{(0,5)^6}$$

$$(0,5)^2 = 0,25$$

MURAT YAYINLARI

/muratyayincilik

10. D

$$27^{\frac{1}{2}} \cdot 9^{\frac{1}{4}} = (3^3)^{\frac{1}{2}} \cdot (3^2)^{\frac{1}{4}}$$
$$3^{\frac{3}{2}} \cdot 3^{\frac{2}{4}} = 3^{\frac{3}{2}} \cdot 3^{\frac{1}{2}}$$
$$3^2 = 9$$

11. A

$$\underbrace{(-a)^{-4}}_{+} \cdot \underbrace{(a)^3}_{+} \cdot \underbrace{(-a)^2}_{+} = a^{-4} \cdot a^3 \cdot a^2$$
$$a^{-4+3+2} = a$$

12. C

$$5^{x+1} - 20 \cdot 5^{x-1} = 125$$
$$5^{x-1} \cdot (5^2 - 20) = 5^3$$
$$5^{x-1} \cdot (25 - 20) = 5^3$$
$$5^{x-1} \cdot 5 = 5^3$$
$$5^{x-1+1} = 5^3$$
$$5^x = 5^3$$
$$x = 3$$

13. D

$$\frac{5}{125^{-x-1}} = \frac{1}{5^{-x}}$$
$$\frac{5}{(5^3)^{-x-1}} = \frac{1}{5^{-x}}$$
$$\frac{5}{5^{-3x-3}} = \frac{1}{5^{-x}}$$
$$5 \cdot 5^{-x} = 5^{-3x-3}$$
$$5^{-x+1} = 5^{-3x-3}$$
$$-x + 1 = -3x - 3$$
$$2x = -4$$
$$x = -2$$

14. B

$$\frac{3}{2^{x-2}} + \frac{4}{2^{x+1}} + \frac{5}{2^{x-1}} = 3$$
$$\frac{3}{2^x \cdot 2^{-2}} + \frac{4}{2^x \cdot 2} + \frac{5}{2^x \cdot 2^{-1}} = 3$$
$$\frac{3 \cdot 2^2}{2^x} + \frac{2}{2^x} + \frac{5 \cdot 2}{2^x} = 3$$
$$\frac{24}{2^x} = 3$$
$$\frac{24}{3} = 2^x$$
$$8 = 2^x$$
$$2^3 = 2^x$$
$$3 = x$$

15. A

$$\frac{5^{7x} + 5^{5x} + 5^{3x}}{5^{5x} + 5^{3x} + 5^x} = \left(\frac{1}{5}\right)^{-2}$$
$$\frac{5^{3x}(5^{4x} + 5^{2x} + 1)}{5^x(5^{4x} + 5^{2x} + 1)} = 5^2$$
$$5^{2x} = 5^2$$
$$2x = 2$$
$$x = 1$$

16. E

$5^a = x$

$$125^{a+1} = (5^3)^{a+1}$$
$$= 5^{3a+3}$$
$$= 5^{3a} \cdot 5^3$$
$$= (5^a)^3 \cdot 125$$
$$= x^3 \cdot 125$$
$$= 125 \cdot x^3$$

MURAT YAYINLARI

17. D

$2^{x+y} = 64$
$3^{y-x} = 81$

$2^{x+y} = 2^6$
$3^{y-x} = 3^4$

$$\begin{array}{r} x + y = 6 \\ +\ y - x = 4 \\ \hline 2y = 10 \end{array}$$

$y = 5$

$x + y = 6$
$x + 5 = 6$
$x = 1$

$x \cdot y = 1 \cdot 5$
$= 5$

18. C

$$\frac{\left(\frac{2}{5}\right)^{-3}}{5.16^{-1}} = \frac{\left(\frac{5}{2}\right)^{3}}{\frac{5}{16}}$$

$$\frac{\cancel{125}^{25}}{\cancel{8}} \cdot \frac{\cancel{16}^{2}}{\cancel{5}} = 50$$

19. B

$27 \cdot 10^3 \cdot 8^2 \cdot 5^4 = A$
$27 \cdot 10^3 \cdot (2^3)^2 \cdot 5^4 = A$
$27 \cdot 10^3 \cdot 2^6 \cdot 5^4 = A$
$27 \cdot 10^3 \cdot 2^2 \cdot 2^4 \cdot 5^4 = A$
$27 \cdot 10^3 \cdot 2^2 \cdot 10^4 = A$
$27 \cdot 10^7 \cdot 4 = A$
$108 \cdot 10^7 = A$

$3 + 7$
10 basamaklı

20. C

$x = 2^{102} = (2^6)^{17} = 64^{17}$
$y = 5^{34} = (5^2)^{17} = 25^{17}$
$z = 3^{51} = (3^3)^{17} = 27^{17}$
Üsler aynı ise tabanı büyük olan daha büyük sayıdır.
$25^{17} < 27^{17} < 64^{17}$
$y < z < x$ olur.

MURAT YAYINLARI

/muratyayincilik

Köklü Sayılar • TEST 9

1. $\sqrt{(-4)^2}+(-3^2)+\sqrt[3]{-8}$
işleminin sonucu kaçtır?

A) –3 B) –5 C) –7 D) –9 E) –11

2. $\sqrt[4]{14+\sqrt{1+\sqrt[3]{27}}}$
işleminin sonucu kaçtır?

A) 1 B) 2 C) 3 D) 4 E) 5

3. $\dfrac{\sqrt{108}+\sqrt{75}}{\sqrt{27}-\sqrt{12}}$
işleminin sonucu kaçtır?

A) 5 B) 7 C) 9 D) 11 E) 12

4. $\dfrac{\sqrt{63}+\sqrt{7}}{\sqrt{50}+\sqrt{18}}\cdot\sqrt{\dfrac{2}{7}}$
işleminin sonucu kaçtır?

A) $\frac{1}{2}$ B) 1 C) $\frac{3}{2}$ D) 2 E) $\frac{5}{2}$

5. $\sqrt{2+\frac{1}{4}}+\sqrt{1+\frac{16}{9}}$
işleminin sonucu kaçtır?

A) $\frac{10}{9}$ B) $\frac{11}{9}$ C) $\frac{13}{8}$ D) $\frac{15}{7}$ E) $\frac{19}{6}$

6. $\sqrt{1,96}-\sqrt[3]{0,008}+\sqrt{1,21}$
işleminin sonucu kaçtır?

A) 1,8 B) 1,9 C) 2,1 D) 2,3 E) 2,5

7. $\dfrac{5}{\sqrt{6}-1}-\dfrac{3}{\sqrt{6}+\sqrt{3}}-1$
işleminin sonucu kaçtır?

A) 1 B) $\sqrt{2}$ C) $\sqrt{3}$ D) 2 E) $\sqrt{5}$

8. $\sqrt{4-\sqrt{7}}.\sqrt{4+\sqrt{7}}-2$
işleminin sonucu kaçtır?

A) 1 B) $\sqrt{2}$ C) 2 D) $\sqrt{5}$ E) 3

9. $\dfrac{\sqrt{21^3.2^6}}{\sqrt{14^3}}$
işleminin sonucu kaçtır?

A) $5\sqrt{6}$ B) $6\sqrt{6}$ C) $6\sqrt{10}$ D) $8\sqrt{6}$ E) $10\sqrt{6}$

10. $\dfrac{\sqrt[4]{\sqrt[3]{2^{24}}}}{\sqrt{2}}$
işleminin sonucu kaçtır?

A) $\sqrt{2}$ B) $\sqrt{3}$ C) $\sqrt{5}$ D) $\sqrt{6}$ E) $2\sqrt{2}$

MURAT YAYINLARI

11. $\sqrt{x\sqrt{x}}$ sayısı $\sqrt[3]{x\sqrt{x}}$ sayısının kaç katıdır?

A) $\sqrt{x}$ B) $\sqrt[3]{x}$ C) $\sqrt[4]{x}$ D) $\sqrt[5]{x}$ E) $\sqrt[6]{x}$

12. $\sqrt{3^x + 3^x + 3^x} = 3$

olduğuna göre, x kaçtır?

A) 1 B) 2 C) 3 D) 4 E) 5

13. $\sqrt{x} \cdot \sqrt[3]{0,125} = 1$

olduğuna göre, x kaçtır?

A) 1 B) 2 C) 3 D) 4 E) 5

14. $\frac{2+\sqrt{2}}{\sqrt{2}+1} = \frac{x-2}{\sqrt{2}}$

olduğuna göre, x kaçtır?

A) 5 B) 4 C) 3 D) 2 E) 1

15. $\sqrt{8+2\sqrt{7}} - \sqrt{7}$

işleminin sonucu kaçtır?

A) 3 B) $\sqrt{7}$ C) 2 D) $\sqrt{2}$ E) 1

16. $\sqrt[4]{x+6} + \sqrt{10-x} = A$

A bir reel sayı olduğuna göre, x'in alabileceği kaç farklı tam sayı değeri vardır?

A) 14 B) 15 C) 16 D) 17 E) 18

17. $a = \sqrt{2}$, $b = \sqrt{3}$, $c = \sqrt{7}$

olduğuna göre, $\sqrt{10,5}$ sayısının a, b ve c türünden eşiti aşağıdakilerden hangisidir?

A) a . b . c B) $\frac{b.c}{a}$ C) $\frac{a.b}{c}$ D) $\frac{a^2.b}{c}$ E) $\frac{a}{b.c}$

18. $\sqrt{\frac{9}{16} + \frac{3}{5} + \frac{4}{25}}$

işleminin sonucu kaçtır?

A) $\frac{23}{20}$ B) $\frac{19}{16}$ C) $\frac{17}{15}$ D) $\frac{15}{13}$ E) $\frac{13}{11}$

19. $x = (1-\sqrt{2})^2$

olduğuna göre, $(x-3).(x+2\sqrt{2})$ işleminin sonucu kaçtır?

A) $6\sqrt{2}$ B) $3\sqrt{2}$ C) $2\sqrt{2}$ D) $-3\sqrt{2}$ E) $-6\sqrt{2}$

20. $x = 2\sqrt{2}$, $y = \sqrt[6]{5}$, $z = \sqrt[12]{40}$

olduğuna göre, aşağıdaki sıralamalardan hangisi doğrudur?

A) $x < z < y$ B) $x < y < z$ C) $y < z < x$ D) $z < y < x$ E) $y < x < z$

MURAT YAYINLARI

/muratyayincilik

Açıklamalar • TEST 9

1. C

$\sqrt{(-4)^2}+(-3^2)+\sqrt[3]{-8}$
$=|-4|+(-9)+\sqrt[3]{(-2)^3}$
$=4-9+(-2)$
$=4-9-2$
$=-7$

2. B

$\sqrt[4]{14+\sqrt{1+\sqrt[3]{27}}}=\sqrt[4]{14+\sqrt{1+3}}$
$\sqrt[4]{14+\sqrt{4}}=\sqrt[4]{14+2}$
$\sqrt[4]{16}=2$

3. D

$$\frac{\sqrt{108}+\sqrt{75}}{\sqrt{27}-\sqrt{12}}=\frac{6\sqrt{3}+5\sqrt{3}}{3\sqrt{3}-2\sqrt{3}}$$
$$\frac{11\sqrt{3}}{\sqrt{3}}=11$$

4. A

$$\frac{\sqrt{63}+\sqrt{7}}{\sqrt{50}+\sqrt{18}}\cdot\sqrt{\frac{2}{7}}$$
$$=\frac{3\sqrt{7}+\sqrt{7}}{5\sqrt{2}+3\sqrt{2}}\cdot\frac{\sqrt{2}}{\sqrt{7}}$$
$$=\frac{4\cancel{\sqrt{7}}}{8\cancel{\sqrt{2}}}\cdot\frac{\cancel{\sqrt{2}}}{\cancel{\sqrt{7}}}$$
$$=\frac{1}{2}$$

5. E

$$\sqrt{2+\frac{1}{4}}+\sqrt{1+\frac{16}{9}}=\sqrt{\frac{9}{4}}+\sqrt{\frac{25}{9}}$$
$$\underset{(3)}{\frac{3}{2}}+\underset{(2)}{\frac{5}{3}}=\frac{9+10}{6}$$
$$=\frac{19}{6}$$

6. D

$\sqrt{1,96}-\sqrt[3]{0,008}+\sqrt{1,21}$
$=1,4-0,2+1,1$
$=2,3$

7. C

$$\underset{(\sqrt{6}+1)}{\frac{5}{\sqrt{6}-1}}-\underset{(\sqrt{6}-\sqrt{3})}{\frac{3}{\sqrt{6}+\sqrt{3}}}-1$$
$$=\frac{5(\sqrt{6}+1)}{6-1}-\frac{3(\sqrt{6}-\sqrt{3})}{6-3}-1$$
$$=\frac{\cancel{5}(\sqrt{6}+1)}{\cancel{5}}-\frac{\cancel{3}(\sqrt{6}-\sqrt{3})}{\cancel{3}}-1$$
$=\sqrt{6}+1-(\sqrt{6}-\sqrt{3})-1$
$=\sqrt{6}+1-\sqrt{6}+\sqrt{3}-1$
$=\sqrt{3}$

8. A

$\sqrt{4-\sqrt{7}}\,.\sqrt{4+\sqrt{7}}-2$
$=\sqrt{(4-\sqrt{7})(4+\sqrt{7})}-2$
$=\sqrt{16-7}-2$
$=\sqrt{9}-2$
$=3-2$
$=1$

MURAT YAYINLARI

9. B

$$\frac{\sqrt{21^3 . 2^6}}{\sqrt{14^3}} = \sqrt{\frac{7^3 . 3^3 . 2^6}{7^3 . 2^3}}$$

$$\sqrt{3^3 . 2^3} = \sqrt{6^3}$$

$$= 6\sqrt{6}$$

10. E

$$\frac{\sqrt[4]{\sqrt[3]{2^{24}}}}{\sqrt{2}} = \frac{\sqrt[12]{2^{24}}}{\sqrt{2}}$$

$$\frac{2^{\frac{24}{12}}}{\sqrt{2}} = \frac{2^2}{\sqrt{2}}$$

$$\frac{4}{\sqrt{2}} = \frac{4\sqrt{2}}{2}$$

$(\sqrt{2})$

$$= 2\sqrt{2}$$

11. C

$$\frac{\sqrt{x\sqrt{x}}}{\sqrt[3]{x\sqrt{x}}} = \frac{\sqrt{\sqrt{x^2 . x}}}{\sqrt[3]{\sqrt{x^2 . x}}}$$

$$\frac{\sqrt[4]{x^3}}{\sqrt[6]{x^3}} = \frac{\sqrt[12]{x^9}}{\sqrt[12]{x^6}}$$

$$\sqrt[12]{x^3} = \sqrt[4]{x}$$

12. A

$$\sqrt{3^x + 3^x + 3^x} = 3$$

$$\sqrt{3 . 3^x} = 3$$

$$\sqrt{3^{x+1}} = 3$$

$$(\sqrt{3^{x+1}})^2 = 3^2$$

$$3^{x+1} = 3^2$$

$$x + 1 = 2$$

$$x = 1$$

13. D

$$\sqrt{x} . \sqrt[3]{0,125} = 1$$

$$\sqrt{x} . (0,5) = 1$$

$$\sqrt{x} = \frac{1}{0,5}$$

$$\sqrt{x} = 2$$

$$(\sqrt{x})^2 = (2)^2$$

$$x = 4$$

14. B

$$\frac{2 + \sqrt{2}}{\sqrt{2} + 1} = \frac{x - 2}{\sqrt{2}}$$

$$\frac{\sqrt{2}(\sqrt{2} + 1)}{\sqrt{2} + 1} = \frac{x - 2}{\sqrt{2}}$$

$$2 = x - 2$$

$$4 = x$$

15. E

$$\sqrt{8 + 2\sqrt{7}} - \sqrt{7}$$

$7+1 \quad 7.1$

$$= (\sqrt{7} + 1) - \sqrt{7}$$

$$= 1$$

16. D

$$\sqrt[4]{x + 6} + \sqrt{10 - x} = A$$

$x + 6 \geq 0 \qquad 10 - x \geq 0$

$x \geq -6 \qquad 10 \geq x$

$-6 \leq x \leq 10$

$\{-6, -5, -4, \ldots -1, 0, 1, \ldots, 10\}$

$$\text{Terim Sayısı} = \frac{10 - (-6)}{1} + 1$$

$$= 17$$

MURAT YAYINLARI

/muratyayincilik

17. B

$a = \sqrt{2},\ b = \sqrt{3},\ c = \sqrt{7}$

$$\sqrt{10,5} = \sqrt{\frac{105}{10}}$$
$$\sqrt{\frac{21}{2}} = \sqrt{\frac{3.7}{2}}$$
$$\frac{\sqrt{3}.\sqrt{7}}{\sqrt{2}} = \frac{b.c}{a}$$

18. A

$$\sqrt{\frac{9}{16} + \frac{3}{5} + \frac{4}{25}}$$
$$\sqrt{\left(\frac{3}{4}\right)^2 + 2.\frac{3}{4}.\frac{2}{5} + \left(\frac{2}{5}\right)^2}$$
$$= \sqrt{\left(\frac{3}{4} + \frac{2}{5}\right)^2}$$
$$= \left|\frac{3}{4} + \frac{2}{5}\right|$$
$$\begin{matrix}(5) & (4)\end{matrix}$$
$$= \left|\frac{15 + 8}{20}\right|$$
$$= \frac{23}{20}$$

19. E

$$x = (1 - \sqrt{2})^2 = 1^2 - 2.1.\sqrt{2} + (-\sqrt{2})^2$$
$$= 1 - 2\sqrt{2} + 2$$
$$= 3 - 2\sqrt{2}$$

$$(x - 3).(x + 2\sqrt{2})$$
$$= (3 - 2\sqrt{2} - 3).(3 - 2\sqrt{2} + 2\sqrt{2})$$
$$= (-2\sqrt{2}).3$$
$$= -6\sqrt{2}$$

20. C

$$x = 2\sqrt{2} = \sqrt{8} = \sqrt[12]{8^6}$$
$$y = \sqrt[6]{5} = \sqrt[6]{5} = \sqrt[12]{5^2}$$
$$z = \sqrt[12]{40} = \sqrt[12]{40} = \sqrt[12]{40}$$

Kök dereceleri eşitse içi büyük olan daha büyük sayıdır.

$y < z < x$

MURAT YAYINLARI

Sıralama • TEST 10

1. $x = \frac{35}{32}$, $y = \frac{25}{22}$, $z = \frac{65}{62}$

sayılarının küçükten büyüğe doğru sıralaması aşağıdakilerden hangisidir?

A) $z < y < x$ B) $z < x < y$ C) $x < y < z$

D) $y < z < x$ E) $x < z < y$

2. $a < 0$ olduğuna göre,

$\frac{a}{8}$, $\frac{a}{15}$, $\frac{a}{21}$ **sayılarının küçükten büyüğe doğru sıralaması aşağıdakilerden hangisidir?**

A) $\frac{a}{21} < \frac{a}{15} < \frac{a}{8}$ B) $\frac{a}{15} < \frac{a}{21} < \frac{a}{8}$

C) $\frac{a}{8} < \frac{a}{15} < \frac{a}{21}$ D) $\frac{a}{15} < \frac{a}{8} < \frac{a}{21}$

E) $\frac{a}{8} < \frac{a}{21} < \frac{a}{15}$

3. $x = \frac{2015}{2017}$, $y = \frac{1077}{1079}$, $z = \frac{1453}{1455}$

sayılarının küçükten büyüğe doğru sıralaması aşağıdakilerden hangisidir?

A) $y < x < z$ B) $x < z < y$ C) $x < y < z$

D) $z < y < x$ E) $y < z < x$

4. $x = -\frac{5}{11}$, $y = -\frac{5}{8}$, $z = -\frac{7}{13}$

sayılarının küçükten büyüğe doğru sıralaması aşağıdakilerden hangisidir?

A) $x < y < z$ B) $x < z < y$ C) $z < y < x$

D) $y < z < x$ E) $y < x < z$

5. $a + b = 2\frac{5}{7}$

$b + c = \frac{24}{7}$

$a + c = 3\frac{1}{7}$

olduğuna göre, aşağıdaki sıralamalardan hangisi doğrudur?

A) $a < c < b$ B) $a < b < c$ C) $b < c < a$

D) $c < b < a$ E) $b < a < c$

6. $a = 2018 \cdot 2018$

$b = 2016 \cdot 2020$

$c = 2017 \cdot 2019$

olduğuna göre, aşağıdaki sıralamalardan hangisi doğrudur?

A) $b < c < a$ B) $c < b < a$ C) $a < b < c$

D) $c < a < b$ E) $b < a < c$

MURAT YAYINLARI

/muratyayincilik

7. $a > 0$ olmak üzere

$13a = 19b = 17c$

olduğuna göre, aşağıdaki sıralamalardan hangisi doğrudur?

A) $c < b < a$ B) $c < a < b$ C) $a < b < c$

D) $b < a < c$ E) $b < c < a$

8. x, y, z negatif tam sayılardır.

$x = \frac{y}{2}$ ve $3y = \frac{2z}{3}$

olduğuna göre, aşağıdaki sıralamalardan hangisi doğrudur?

A) $x < y < z$ B) $x < z < y$ C) $y < z < x$

D) $z < y < x$ E) $z < x < y$

9. $x < 0$ olmak üzere

$\frac{x}{77} = \frac{y}{105} = \frac{z}{83}$

olduğuna göre, aşağıdaki sıralamalardan hangisi doğrudur?

A) $x < z < y$ B) $z < y < x$ C) $x < y < z$

D) $y < x < z$ E) $y < z < x$

10. $x = 20{,}013$

$y = 20{,}13$

$z = 20{,}103$

olduğuna göre, aşağıdaki sıralamalardan hangisi doğrudur?

A) $x < y < z$ B) $x < z < y$ C) $y < z < x$

D) $z < y < x$ E) $z < x < y$

11. $x = 1{,}9\overline{82}$

$y = 1{,}98\overline{2}$

$z = 1{,}\overline{982}$

olduğuna göre, aşağıdakilerden hangisi doğrudur?

A) $y < z < x$ B) $x < y < z$ C) $y < x < z$

D) $z < y < x$ E) $x < z < y$

12. $x = 5^{51}$

$y = 3^{68}$

$z = 2^{119}$

olduğuna göre, aşağıdaki sıralamalardan hangisi doğrudur?

A) $y < x < z$ B) $y < z < x$ C) $z < y < x$

D) $x < y < z$ E) $x < z < y$

MURAT YAYINLARI

13. $2^x = 117$
$3^y = 118$
$7^z = 119$

olduğuna göre, aşağıdaki sıralamalardan hangisi doğrudur?

A) $x < y < z$ B) $x < z < y$ C) $y < z < x$
D) $z < y < x$ E) $z < x < y$

14. $x = 3^{\frac{1}{2}}$
$y = 2^{\frac{1}{3}}$
$z = 5^{\frac{1}{6}}$

olduğuna göre, aşağıdaki sıralamalardan hangisi doğrudur?

A) $z < y < x$ B) $y < x < z$ C) $x < y < z$
D) $x < z < y$ E) $y < z < x$

15. $x = 2^{-4}$, $y = 3^{-2}$, $z = 6^{-1}$

olduğuna göre, aşağıdaki sıralamalardan hangisi doğrudur?

A) $x < y < z$ B) $y < z < x$ C) $z < y < x$
D) $x < z < y$ E) $z < x < y$

16. $x = \sqrt[3]{5}$
$y = \sqrt{2}$
$z = \sqrt[12]{325}$

olduğuna göre, aşağıdaki sıralamalardan hangisi doğrudur?

A) $z < y < x$ B) $y < z < x$ C) $x < y < z$
D) $y < x < z$ E) $z < x < y$

17. $x + y = 5\sqrt{2}$
$y + z = 2\sqrt{13}$
$x + z = 3\sqrt{6}$

olduğuna göre, aşağıdaki sıralamalardan hangisi doğrudur?

A) $z < y < x$ B) $z < x < y$ C) $y < x < z$
D) $x < y < z$ E) $y < z < x$

18. $a = \sqrt{3} + \sqrt{20}$
$b = \sqrt{10} + \sqrt{6}$
$c = \sqrt{2} + \sqrt{30}$

olduğuna göre, aşağıdaki sıralamalardan hangisi doğrudur?

A) $c < b < a$ B) $b < a < c$ C) $b < c < a$
D) $a < c < b$ E) $a < b < c$

19. $a \cdot b^3 < 0$
$|b| > b$
$b \cdot c = 0$

olduğuna göre, aşağıdaki sıralamalardan hangisi doğrudur?

A) $a < b < c$ B) $a < c < b$ C) $c < b < a$
D) $b < a < c$ E) $b < c < a$

20. $x \cdot (y - z) < 0$
$x^5 \cdot z^3 < 0$
$x^3 \cdot y^8 < 0$

olduğuna göre, aşağıdaki sıralamalardan hangisi doğrudur?

A) $x < y < z$ B) $z < y < x$ C) $z < x < y$
D) $x < z < y$ E) $y < x < z$

MURAT YAYINLARI

/muratyayincilik

Açıklamalar • TEST 10

1. B

$x = \frac{35}{32},\ y = \frac{25}{22},\ z = \frac{65}{62}$

Bileşik kesirlerde pay ve payda arasındaki fark eşitse payı küçük olan kesir en büyük sayı olur. Buna göre, $z < x < y$ sıralaması oluşur.

2. C

$a < 0$

$\frac{a}{8},\ \frac{a}{15},\ \frac{a}{21}$

Paylar eşitse paydası küçük olan kesir en büyük sayıdır.

$\frac{a}{8} > \frac{a}{15} > \frac{a}{21}$

Ancak $a < 0$ için sıralama tam tersi alınır.

$\frac{a}{8} < \frac{a}{15} < \frac{a}{21}$ olur.

3. E

$x = \frac{2015}{2017},\ y = \frac{1077}{1079},\ z = \frac{1453}{1455}$

Basit kesirlerde pay ve payda arasındaki fark eşitse paydası büyük olan en büyük sayıdır.

Buna göre,

$y < z < x$ sıralaması oluşur.

4. D

$x = -\frac{5}{11},\ y = -\frac{5}{8} = -\frac{10}{16},\ z = -\frac{7}{13}$

Basit kesirlerde pay ve payda arasındaki fark eşitse, payı büyük olan en büyük sayıdır.

$y > z > x$

Ancak sayılar negatif olduğundan sıralama tam tersi alınır.

$y < z < x$ olur.

5. B

$a + b = 2\frac{5}{7} = \frac{19}{7}$ E.K | enb c

$b + c = \frac{24}{7} = \frac{24}{7}$ E.B | enk a

$a + c = 3\frac{1}{7} = \frac{22}{7}$ | orta b

olmayanı yaz

$a < b < c$ sıralaması oluşur.

6. A

$a = 2018 \cdot 2018$

$b = 2016 \cdot 2020$

$c = 2017 \cdot 2019$

Toplamları eşit olan sayıların çarpımları verilmiş.

Birbirine en yakın olan en büyüktür.

$b < c < a$

7. E

$a > 0$

$13a = 19b = 17c$

E.K enb — E.B enk — orta

$b < c < a$

MURAT YAYINLARI

8. D

x, y, z negatif tam sayılar

$x = \frac{y}{2}$ ve $3y = \frac{2z}{3}$

9/ $2x = y$ ve $9y = 2z$

$18x = 9y = 2z$

E.B: enk, orta, E.K: enb

$z > y > x$ pozitif için sıralama

$z < y < x$ negatif için sıralama

9. E

$x < 0$

$\frac{x}{77} = \frac{y}{105} = \frac{z}{83}$

$x = -77$

$y = -105$

$z = -83$ alınırsa

$y < z < x$ sıralaması oluşur.

10. B

$x = 20{,}013$

$y = 20{,}130$

$z = 20{,}103$

$x < z < y$ sıralaması oluşur.

11. C

$x = 1{,}9\overline{82} \Rightarrow x = 1{,}982\,|\,⑧282\ldots$

$y = 1{,}98\overline{2} \Rightarrow y = 1{,}982\,|\,②222\ldots$

$z = 1{,}\overline{982} \Rightarrow z = 1{,}982\,|\,⑨82\ldots$

$y < x < z$ sıralaması oluşur.

12. A

$x = 5^{51} = (5^3)^{17} = (125)^{17}$

$y = 3^{68} = (3^4)^{17} = (81)^{17}$

$z = 2^{119} = (2^7)^{17} = (128)^{17}$

Üslü ifadelerde üsler eşitse tabanı büyük olan en büyük sayıdır. Buna göre,

$y < x < z$ sıralaması oluşur.

13. D

$2^x = 117 \Rightarrow 2^6 < 117 < 2^7 \Rightarrow 6 < x < 7$

$3^y = 118 \Rightarrow 3^4 < 118 < 3^5 \Rightarrow 4 < y < 5$

$7^z = 119 \Rightarrow 7^2 < 119 < 7^3 \Rightarrow 2 < z < 3$

Buna göre,

$z < y < x$ sıralaması oluşur.

14. E

$x = \left(3^{\frac{1}{2}}\right)^6 = 3^3 = 27$

$y = \left(2^{\frac{1}{3}}\right)^6 = 2^2 = 4$

$z = \left(5^{\frac{1}{6}}\right)^6 = 5$

Buna göre,

$y < z < x$ sıralaması oluşur.

15. A

$x = 2^{-4} = \frac{1}{2^4} = \frac{1}{16}$

$y = 3^{-2} = \frac{1}{3^2} = \frac{1}{9}$

$z = 6^{-1} = \frac{1}{6}$

Buna göre,

$x < y < z$ sıralaması oluşur.

MURAT YAYINLARI

/muratyayincilik

16. B

$x = \sqrt[3]{5} = \sqrt[12]{5^4} = \sqrt[12]{625}$ (4)

$y = \sqrt{2} = \sqrt[12]{2^6} = \sqrt[12]{64}$ (6)

$z = \sqrt[12]{325}$

Köklü sayılarda kök derecesi eşitse kök içi büyük olan en büyük sayıdır.

Buna göre,

$y < z < x$ sıralaması oluşur.

17. C

$x + y = 5\sqrt{2} = \sqrt{50} \rightarrow$ E.K | enb z

$y + z = 2\sqrt{13} = \sqrt{52}$ | orta x

$x + z = 3\sqrt{6} = \sqrt{54} \rightarrow$ E.B | enk y

olmayanı yaz

$y < x < z$ sıralaması oluşur.

18. B

$(a)^2 = (\sqrt{3} + \sqrt{20})^2 \Rightarrow a^2 = (\sqrt{3})^2 + 2\sqrt{3} \cdot \sqrt{20} + (\sqrt{20})^2$

$(b)^2 = (\sqrt{10} + \sqrt{6})^2 \Rightarrow b^2 = (\sqrt{10})^2 + 2 \cdot \sqrt{10} \cdot \sqrt{6} + (\sqrt{6})^2$

$(c)^2 = (\sqrt{2} + \sqrt{30})^2 \Rightarrow c^2 = (\sqrt{2})^2 + 2 \cdot \sqrt{2} \cdot \sqrt{30} + (\sqrt{30})^2$

olduğuna göre,

$a^2 = 23 + 2\sqrt{60}$

$b^2 = 16 + 2\sqrt{60}$

$c^2 = 32 + 2\sqrt{60}$

olur.

$b < a < c$ sıralaması oluşur.

19. E

$a \cdot b^3 < 0 \Rightarrow a \cdot (-) < 0 \Rightarrow a > 0$

$|b| > b \Rightarrow b < 0$ olur.

$b \cdot c = 0 \Rightarrow (-) \cdot c = 0 \Rightarrow c = 0$

Buna göre,

$b < c < a$ sıralaması oluşur.

20. D

$x \cdot (y - z) < 0$

$x^5 \cdot y^3 < 0$

$\underset{-}{x^3} \cdot \underset{+}{y^8} < 0$ için

$x < 0$ olur.

$\underset{-}{x^5} \cdot \underset{+}{y^3} < 0$ için

$y > 0$ olur.

$\underset{-}{x} \cdot \underset{+}{(y - z)} < 0$ için

$y - z > 0$

$y > z$ olur.

Buna göre,

$x < z < y$ sıralaması oluşur.

MURAT YAYINLARI

Çarpanlara Ayırma • TEST 11

1. $(3{,}8)^2 + (3{,}8) \cdot (2{,}4) + (1{,}2)^2$

işleminin sonucu kaçtır?

A) 9 B) 16 C) 20 D) 25 E) 36

2. $\dfrac{\left(\frac{11}{23}\right)^2 - \left(\frac{12}{23}\right)^2}{\frac{2}{23}}$

işleminin sonucu kaçtır?

A) $-\frac{1}{2}$ B) $-\frac{1}{3}$ C) $-\frac{1}{4}$ D) $\frac{1}{4}$ E) $\frac{1}{2}$

3. $\dfrac{12^3 - 8^3}{4} + 12.8$

işleminin sonucu kaçtır?

A) 280 B) 296 C) 324 D) 350 E) 400

4. $\sqrt{\frac{9}{49} + \frac{49}{16} + \frac{3}{2}}$

işleminin sonucu kaçtır?

A) $\frac{63}{28}$ B) $\frac{61}{28}$ C) $\frac{63}{49}$ D) $\frac{61}{49}$ E) $\frac{55}{49}$

5. $\sqrt{15.16.17.18 + 1}$

işleminin sonucu kaçtır?

A) 269 B) 270 C) 271 D) 272 E) 273

6. $\dfrac{x}{(x+1)^2} \cdot \left(1 + \frac{2}{x} + \frac{1}{x^2}\right)$

ifadesinin sadeleştirilmiş biçimi aşağıdakilerden hangisidir?

A) $\frac{1}{x^3}$ B) $\frac{1}{x^2}$ C) $\frac{1}{x}$ D) x E) x^2

7. $\dfrac{x^2 - y^2}{x - y} \cdot \left(\frac{x+y}{y}\right)^{-1}$

ifadesinin sadeleştirilmiş biçimi aşağıdakilerden hangisidir?

A) x B) x . y C) $\frac{x}{y}$ D) y E) x + y

8. $\dfrac{a^3 - 3^3}{a^2 - 3^2} : \dfrac{a^2 + 3a + 9}{a + 3}$

ifadesinin sadeleştirilmiş biçimi aşağıdakilerden hangisidir?

A) 3 – a B) a + 3 C) 1 D) a – 3 E) a^2

9. $x^2 + xz - xy - yz - x + y$

ifadesinin çarpanlarından biri x – y olduğuna göre, diğeri aşağıdakilerden hangisidir?

A) x – y + 1 B) x – z C) x – z + 1 D) y – z + 1 E) x + z – 1

10. $a + b = 1$

$a \cdot b = -3$

olduğuna göre, $a^3 + b^3$ ifadesinin değeri kaçtır?

A) 12 B) 10 C) 8 D) 6 E) 4

MURAT YAYINLARI

/muratyayincilik

11. $\frac{a^3+1}{(a^2-a+1)(a^2-1)}=\frac{3}{4}$

olduğuna göre, a kaçtır?

A) 1 B) $\frac{5}{3}$ C) 2 D) $\frac{7}{3}$ E) 3

12. $\frac{ax^2-bx+3}{x^2-1}$ kesrinin sadeleştirilmiş biçimi $\frac{x-3}{x+1}$ olduğuna göre, a . b çarpımı kaçtır?

A) 4 B) 5 C) 6 D) 8 E) 10

13. $a\sqrt{b}+b\sqrt{a}=14$
$\sqrt{a}+\sqrt{b}=2$

olduğuna göre, a . b çarpımı kaçtır?

A) 50 B) 49 C) 48 D) 45 E) 42

14. $a-\frac{1}{a}=7$

olduğuna göre, $a^2+\frac{1}{a^2}$ ifadesinin eşiti kaçtır?

A) 47 B) 49 C) 51 D) 53 E) 55

15. $x^2+4x+7=0$

olduğuna göre, $x^2+\frac{49}{x^2}$ ifadesinin değeri kaçtır?

A) 1 B) 2 C) 3 D) 4 E) 5

16. $(a^2+5a)^2-5(a^2+5a)-6$

ifadesinin çarpanlarından biri aşağıdakilerden hangisidir?

A) a^2+5a+6 B) a^2+5a-1
C) a^2-5a+1 D) a^2+5a+1
E) a^2-5a-1

17. $\frac{A}{a-1}+\frac{B}{a-2}=\frac{-3a+5}{a^2-3a+2}$

olduğuna göre, A – B farkı kaçtır?

A) –5 B) –4 C) –3 D) –2 E) –1

18. a bir reel sayı olmak üzere
$a^2+10a+22$
ifadesinin alabileceği en küçük değer kaçtır?

A) –3 B) –2 C) –1 D) 1 E) 3

19. a ve b birbirinden farklı gerçel sayılar olmak üzere,
$2a^2=6b+13$
$2b^2=6a+13$
olduğuna göre, a^2+b^2 toplamı kaçtır?

A) –1 B) 1 C) 2 D) 3 E) 4

20. $4^{2x}-20\,.\,4^x+64=0$

denklemini sağlayan x reel sayılarının toplamı kaçtır?

A) 1 B) 2 C) 3 D) 4 E) 5

MURAT YAYINLARI

Açıklamalar • TEST 11

1. D

$(3{,}8)^2 + (3{,}8) \cdot (2{,}4) + (1{,}2)^2$
$= (3{,}8)^2 + 2(3{,}8) \cdot (1{,}2) + (1{,}2)^2$
$= (3{,}8 + 1{,}2)^2$
$= 5^2$
$= 25$

2. A

$$\frac{\left(\frac{11}{23}\right)^2 - \left(\frac{12}{23}\right)^2}{\frac{2}{23}} = \frac{\left(\frac{11}{23} - \frac{12}{23}\right) \cdot \left(\frac{11}{23} + \frac{12}{23}\right)}{\frac{2}{23}}$$

$$\frac{\left(-\frac{1}{23}\right) \cdot 1}{\frac{2}{23}} = -\frac{1}{23} \cdot \frac{23}{2}$$

$$= -\frac{1}{2}$$

3. E

$$\frac{12^3 - 8^3}{4} + 12.8$$
$$= \frac{(12-8)(12^2 + 12.8 + 8^2)}{4} + 12.8$$
$$= \frac{\cancel{4} \cdot (12^2 + 12.8 + 8^2)}{\cancel{4}} + 12.8$$
$$= 12^2 + 12.8 + 12.8 + 8^2$$
$$= 12^2 + 2.12.8 + 8^2$$
$$= (12+8)^2$$
$$= 20^2$$
$$= 400$$

4. B

$$\sqrt{\frac{9}{49} + \frac{49}{16} + \frac{3}{2}}$$
$$= \sqrt{\left(\frac{3}{7}\right)^2 + 2 \cdot \frac{3}{7} \cdot \frac{7}{4} + \left(\frac{7}{4}\right)^2}$$
$$= \sqrt{\left(\frac{3}{7} + \frac{7}{4}\right)^2}$$
$$= \left|\underset{(4)}{\frac{3}{7}} + \underset{(7)}{\frac{7}{4}}\right|$$
$$= \frac{61}{28}$$

5. C

$$\sqrt{\underbrace{15 \cdot 16 \cdot 17 \cdot 18}_{a} + 1}$$
$$= \sqrt{270 \cdot 272 + 1} \quad a = 270 \text{ ise}$$
$$= \sqrt{a.(a+2) + 1}$$
$$= \sqrt{a^2 + 2a + 1}$$
$$= \sqrt{(a+1)^2}$$
$$= a + 1$$
$$= 270 + 1$$
$$= 271$$

6. C

$$\frac{x}{(x+1)^2} \cdot \left(1 + \frac{2}{x} + \frac{1}{x^2}\right)$$
$$= \frac{x}{(x+1)^2} \cdot \left(\underset{(x)}{\frac{x+2}{x}} + \underset{(1)}{\frac{1}{x^2}}\right)$$
$$= \frac{x}{(x+1)^2} \cdot \left(\frac{x^2 + 2x + 1}{x^2}\right)$$
$$= \frac{\cancel{x}}{\cancel{(x+1)^2}} \cdot \frac{\cancel{(x+1)^2}}{\cancel{x^2}\,x}$$
$$= \frac{1}{x}$$

7. D

$$\frac{x^2 - y^2}{x - y} \cdot \left(\frac{x+y}{y}\right)^{-1} = \frac{\cancel{(x-y)} \cdot \cancel{(x+y)}}{\cancel{x-y}} \cdot \frac{y}{\cancel{x+y}}$$
$$= y$$

8. C

$$\frac{a^3 - 3^3}{a^2 - 3^2} : \frac{a^2 + 3a + 9}{a + 3}$$
$$= \frac{\cancel{(a-3)}(a^2 + 3a + 9)}{\cancel{(a-3)}(a+3)} \cdot \frac{\cancel{a+3}}{\cancel{a^2 + 3a + 9}}$$
$$= 1$$

MURAT YAYINLARI

/muratyayincilik

9. E

$x^2 + \overline{xz - xy} - yz - x + y$
$= x(x-y) + z(x-y) - (x-y)$
$= (x-y)(x+z-1)$

10. B

$a + b = 1 \mid (a+b)^2 = 1$
$a.b = -3 \mid a^2 + 2ab + b^2 = 1 \qquad a^2 + b^2 = 7$

$a^3 + b^3 = (a+b)(a^2 - ab + b^2)$
$= (a+b)(a^2 + b^2 - ab)$
$= 1.(7 - (-3))$
$= 1.(7+3)$
$= 10$

11. D

$$\frac{a^3+1}{(a^2-a+1)(a^2-1)} = \frac{3}{4}$$
$$\frac{\cancel{(a+1)}\cancel{(a^2-a+1)}}{\cancel{(a^2-a+1)}(a-1)\cancel{(a+1)}} = \frac{3}{4}$$
$$3a - 3 = 4$$
$$3a = 7$$
$$a = \frac{7}{3}$$

12. A

$$\frac{ax^2 - bx + 3}{x^2 - 1} = \frac{x-3}{x+1}$$
$$\frac{ax^2 - bx + 3}{(x-1)\cancel{(x+1)}} = \frac{x-3}{\cancel{x+1}}$$
$$ax^2 - bx + 3 = (x-3)(x-1)$$
$$ax^2 - bx + 3 = x^2 - 4x + 3$$

$a = 1$ ve $b = 4$ olur
$a.b = 1.4$
$= 4$

13. B

$$a\sqrt{b} + b\sqrt{a} = 14$$
$$\sqrt{a} + \sqrt{b} = 2$$

$$(a\sqrt{b} + b\sqrt{a})^2 = (14)^2$$
$$(\sqrt{a} + \sqrt{b})^2 = (2)^2$$

$$a^2b + 2ab\sqrt{ab} + b^2a = 196$$
$$a + 2\sqrt{ab} + b = 4$$

$$ab(a + 2\sqrt{ab} + b) = 196$$
$$a.b.4 = 196$$
$$a.b = 49$$

14. C

$$a - \frac{1}{a} = 7$$
$$\left(a - \frac{1}{a}\right)^2 = (7)^2$$
$$a^2 - 2.\cancel{a}.\frac{1}{\cancel{a}} + \frac{1}{a^2} = 49$$
$$a^2 + \frac{1}{a^2} = 49 + 2$$
$$a^2 + \frac{1}{a^2} = 51$$

15. B

$$x^2 + 4x + 7 = 0$$
$$x^2 + 7 = -4x$$
$$\frac{x^2+7}{x} = -\frac{4x}{x}$$
$$x + \frac{7}{x} = -4$$
$$\left(x + \frac{7}{x}\right)^2 = (-4)^2$$
$$x^2 + 2.\cancel{x}.\frac{7}{\cancel{x}} + \frac{49}{x^2} = 16$$
$$x^2 + \frac{49}{x^2} = 16 - 14$$
$$x^2 + \frac{49}{x^2} = 2$$

MURAT YAYINLARI

16. D

$(a^2 + 5a)^2 - 5(a^2 + 5a) - 6$

$a^2 + 5a = t$ olsun

$= t^2 - 5t - 6$

$= (t - 6)(t + 1)$

$= (a^2 + 5a - 6)(a^2 + 5a + 1)$

17. E

$$\frac{A}{\underset{(a-2)}{a-1}} + \frac{B}{\underset{(a-1)}{a-2}} = \frac{-3a+5}{a^2-3a+2}$$

$$\frac{Aa - 2A + Ba - B}{\cancel{a^2 - 3a + 2}} = \frac{-3a+5}{\cancel{a^2 - 3a + 2}}$$

$$(A + B)a - (2A + B) = -3a + 5$$

$$-1/A + B = -3$$

$$2A + B = -5$$

$$-A - B = 3$$

$$+ \quad 2A + B = -5$$

$$A = -2$$

$A = -2$ ise $B = -1$

$A - B = -2 - (-1)$

$= -2 + 1$

$= -1$

18. A

$a^2 + 10a + 22$

$\longrightarrow \frac{10}{2} = 5$

$= (a + 5)^2 - 3$

$= a^2 + 10a + \overbrace{25 - 3}^{22}$

En küçük değer –3 olur.

19. E

$$2a^2 = 6b + 13$$

$$+ \quad 2b^2 = 6a + 13$$

$$2(a^2 + b^2) = 2(3(a + b) + 13)$$

$$\boxed{a^2 + b^2 = 3(a + b) + 13}$$

$$2a^2 = 6b + 13$$

$$+ \quad -2b^2 = -6a - 13$$

$$2(a^2 - b^2) = 6(b - a)$$

$$2(\cancel{a - b})(a + b) = 6(\underset{-1}{\cancel{b - a}})$$

$$\boxed{a + b = -3}$$

$a^2 + b^2 = 3(-3) + 13$

$a^2 + b^2 = -9 + 13$

$a^2 + b^2 = 4$

20. C

$4^{2x} - 20 \cdot 4^x + 64 = 0$

$(4^x)^2 - 20 \cdot 4^x + 64 = 0 \qquad 4^x = t$

$t^2 - 20 \cdot t + 64 = 0$

$(t - 4)(t - 16) = 0$

$t - 4 = 0$	$t - 16 = 0$
$t = 4$	$t = 16$
$4^x = 4$	$4^x = 4^2$
$x = 1$	$x = 2$

$1 + 2 = 3$ olur.

MURAT YAYINLARI

/muratyayincilik

Basit Eşitsizlik • TEST 12

1. $\frac{x+1}{2} - \frac{1-x}{3} < \frac{x-2}{4} + \frac{x}{2}$

eşitsizliğini sağlayan en büyük tam sayı değeri kaçtır?

A) −10 B) −9 C) −8 D) −7 E) −6

2. $x \cdot y > 0$
$\frac{z}{x} < 0$
$z > 0$

olduğuna göre, aşağıdakilerden hangisi kesinlikle doğrudur?

A) $x + z > 0$ B) $y + z > 0$ C) $x + y > 0$ D) $x \cdot z > 0$ E) $z - x > 0$

3. $x > 0 > y > z$

olduğuna göre, aşağıdakilerden hangisi negatif olabilir?

A) $x \cdot y \cdot z$ B) $(y-x)^2 \cdot z^4$ C) $2y + z + 3x$ D) $\frac{x-y}{-z}$ E) $y - 2z + x$

4. $\frac{1}{6} < \frac{x}{5} < \frac{1}{2}$

eşitsizliğini sağlayan x tam sayı değerleri toplamı kaçtır?

A) 2 B) 3 C) 5 D) 8 E) 11

5. $3x - 8 < 2x + 3 < 4x + 9$

olduğuna göre, eşitsizliği sağlayan kaç tane x tam sayı değeri vardır?

A) 13 B) 12 C) 11 D) 10 E) 9

6. $-7 < \frac{3-2x}{5} \leq 3$

olduğuna göre, aşağıdakilerden hangisi daima doğrudur?

A) $-6 < x \leq 19$ B) $-6 < x < 19$ C) $-8 \leq x < 15$ D) $-8 < x \leq 15$ E) $-6 \leq x < 19$

7. $x < y < 0$
$\frac{a}{x} < \frac{b}{x}$
$a \cdot b < 0$

olduğuna göre,

I. $(x + b) \cdot y < 0$
II. $(y - x) \cdot a > 0$
III. $(a - b) \cdot y < 0$

ifadelerinden hangileri doğrudur?

A) Yalnız I B) Yalnız II C) I ve II D) II ve III E) I, II ve III

MURAT YAYINLARI

8. a ve b gerçel sayılar olmak üzere

$a + b < a - b$

$a \cdot b < 0$

eşitsizlikleri veriliyor.

Buna göre,

I. $a^2 + b^2 > 0$

II. $a + b > 0$

III. $2a - b < 0$

ifadelerinden hangileri her zaman doğrudur?

A) Yalnız I B) Yalnız II C) Yalnız III

D) I ve II E) I ve III

9. $4 < x < 16$

$2x + y = 8$

olduğuna göre, y için aşağıdakilerden hangisi doğrudur?

A) $0 < y < 12$ B) $-12 < y < 0$

C) $-24 < y < 0$ D) $0 < y < 24$

E) $8 < y < 32$

10. $x > x^2$

olduğuna göre, aşağıdakilerden hangisi kesinlikle doğrudur?

A) $x < 0$ B) $-1 < x < 0$

C) $x < 1$ D) $x > -1$

E) $0 < x < 1$

11. $-3 < x < 5$

$-6 < y < 7$

olduğuna göre, 2x – 3y ifadesinin alabileceği en büyük tam sayı değeri kaçtır?

A) 27 B) 26 C) 25 D) 24 E) 22

12. x ve y tam sayılardır.

$-5 < x < 8$

$-3 < y < 4$

olduğuna göre, 4x – 2y ifadesinin alabileceği en küçük tam sayı değeri kaçtır?

A) –22 B) –23 C) –24

D) –26 E) –27

13. x ve y tam sayılardır.

$-4 < x < 4$

$-2 < y < 3$

olduğuna göre, x^y ifadesinin alabileceği en büyük tam sayı değeri kaçtır?

A) 1 B) 4 C) 8 D) 9 E) 16

14. $-5 \leq x < 6$

$-4 < y \leq 5$

olduğuna göre, x·y aralığı aşağıdakilerden hangisidir?

A) (20, 30) B) [20, 30] C) [–25, 30)

D) (–25, 30) E) [–25, 30]

MURAT YAYINLARI

15. $-5 < x \leq -2$
$-3 < y < 5$
$4 \leq z < 7$
$-4 < t < 1$
olduğuna göre, $x^2 + y^2 + z^2 + t^2$ aralığı aşağıdakilerden hangisidir?

A) (20, 115) B) [20, 115) C) (66, 79)
D) [66, 79] E) (0, 75)

16. $\frac{x^2 - x - 6}{x - 5} \leq 0$

eşitsizliğinin çözüm kümesi aşağıdakilerden hangisidir?

A) [–2, 3] B) [3, 5]
C) (–2, 5) D) $[-2, 3] \cup [5, \infty)$
E) $(-\infty, -2] \cup [3, 5)$

17. $\frac{2}{3x + 6} > 1$

eşitsizliğinin çözüm kümesi aşağıdakilerden hangisidir?

A) $\left(-\infty, -\frac{4}{3}\right)$ B) $\left(0, \frac{4}{3}\right)$
C) $\left(-2, -\frac{4}{3}\right)$ D) $\left(-\frac{4}{3}, \infty\right)$
E) (0, 2)

18. $\left(\frac{25}{4}\right)^{x+1} > \left(\frac{5}{2}\right)^{x-1}$

olduğuna göre, x'in alabileceği negatif tam sayı değerleri toplamı kaçtır?

A) –4 B) –3 C) –2
D) –1 E) 0

19. $\left(\frac{2}{3}\right)^{2x-1} > \left(\frac{2}{3}\right)^{x+1}$

olduğuna göre, x'in alabileceği doğal sayı değerleri kaç tanedir?

A) 5 B) 4 C) 3 D) 2 E) 1

20. $\frac{2}{9} < \frac{2}{x} < \frac{2}{3}$

olduğuna göre, x'in alabileceği kaç farklı tam sayı değeri vardır?

A) 5 B) 4 C) 3 D) 2 E) 1

MURAT YAYINLARI

Açıklamalar • TEST 12

1. B

$$\underset{(6)}{\frac{x+1}{2}} - \underset{(4)}{\frac{1-x}{3}} < \underset{(3)}{\frac{x-2}{4}} + \underset{(6)}{\frac{x}{2}}$$

$$\frac{6x+6-4+4x}{12} < \frac{3x-6+6x}{12}$$

$$10x+2 < 9x-6$$

$$x < -8$$

x en büyük –9 olur.

2. E

$x \cdot y > 0 \Rightarrow - \cdot y > 0 \Rightarrow y < 0$

$\frac{z}{x} < 0 \Rightarrow \frac{+}{x} < 0 \Rightarrow x < 0$

$z > 0$

Yukarıdaki bilgilere göre seçenekler incelendiğinde E seçeneği kesinlikle doğrudur.

$z - x > 0$

$z > x$

3. C

$x > 0 > y > z$ koşuluyla

A) $x \cdot y \cdot z$

$+ \cdot - \cdot - = +$

B) $(y-x)^2 \cdot z^4 = (-)^2 \cdot (-)^4 = + \cdot + = +$

C) $2y + z + 3x = 2\cdot(-) + (-) + 3\cdot(+) = +$

$= -$

D) $\frac{x-y}{-z} = \frac{+}{-(-)} = \frac{+}{+} = +$

E) $\underbrace{y-2z}_{\substack{y>z \\ +}} + x = (+) + (+) = +$

C seçeneği negatif olabilir.

4. B

$$\underset{(5)}{\frac{1}{6}} < \underset{(6)}{\frac{x}{5}} < \underset{(15)}{\frac{1}{2}}$$

$$\frac{5}{30} < \frac{6x}{30} < \frac{15}{30}$$

$$5 < 6x < 15$$

$1 + 2 = 3$

5. A

$$3x - 8 < 2x + 3 < 4x + 9$$

$3x - 8 < 2x + 3$ ve $2x + 3 < 4x + 9$

$x < 11$ ve $-6 < 2x$

$-3 < x$

$-3 < x < 11$

{–2, –1, 0, 1, 2, 3, 4, 5, 6, 7, 8, 9, 10}

13 tane x tam sayı değeri vardır.

6. E

$$-7 < \frac{3-2x}{5} \le 3$$

$$-35 < 3 - 2x \le 15$$

$$-38 < -2x \le 12$$

$$19 > x \ge -6$$

$$-6 \le x < 19$$

MURAT YAYINLARI

/muratyayincilik

7. D

$x < y < 0$

$\frac{a}{x} < \frac{b}{x} \Rightarrow a > b$ olur.

$a \cdot b < 0 \Rightarrow a > 0$ ve $b < 0$

İnceleme yaparken

$x < y < 0$ ve $b < 0 < a$

koşullarına dikkat etmeliyiz.

I. $\underbrace{(x+b)}_{-} \cdot \underbrace{y}_{-} < 0$

$- \cdot - = +$ yanlış

II. $\underbrace{(y-x)}_{+} \cdot \underbrace{a}_{+} > 0$

$+ \cdot + = +$ doğru

III. $\underbrace{(a-b)}_{+} \cdot \underbrace{y}_{-} < 0$

$+ \cdot - = -$ doğru

II ve III doğrudur.

8. A

$a + b < a - b \quad a \cdot b < 0$

$2b < 0 \quad + \; -$

$b < 0$

$b < 0 < a$

I. $a^2 + b^2 > 0$

$+ \quad +$

$+ > 0$ doğru

II. $a + b > 0$

$5 + (-3) > 0 \qquad 2 + (-3) < 0$

$2 > 0 \qquad -1 < 0$

III. $2a - b < 0$

$+ \quad -$

$+ < 0$ yanlış

Yalnız I her zaman doğrudur.

9. C

$4 < x < 16$

$2x + y = 8 \Rightarrow x = \frac{8-y}{2}$

$4 < \frac{8-y}{2} < 16$

$8 < 8 - y < 32$

$0 < -y < 24$

$0 > y > -24$

$-24 < y < 0$

10. E

$x > x^2$ ise

$0 < x < 1$ olur.

11. A

$-3 < x < 5$

$-6 < y < 7$

$-6 < 2x < 10$

$+ \; -21 < -3y < 18$

$-27 < 2x - 3y < 28$

Reel sayılarda aralık oluşturulur.

27

12. A

$-5 < x < 8$ Tam sayılarda

$-3 < y < 4$ değer seçilir.

$4x - 2y \rightarrow$ en küçük

enk enb

$= 4(-4) - 2(3)$

$= -16 - 6$

$= -22$

13. D

$-4 < x < 4$ Tam sayılarda

$-2 < y < 3$ değer seçilir.

$x^y \rightarrow$ En büyük için

x ve y en büyük seçilir.

$3^2 = 9$

14. C

$-5 \le x < 6$

$-4 < y \le 5$

$(-5)\cdot(-4) \quad (6)\cdot(5) \quad (-5)\cdot(5) \quad (-4)\cdot(6)$

$20 \quad 30 \quad -25 \quad -24$

$< \quad < \quad \le \quad <$

$-25 \le x \cdot y < 30$

$[-25, 30)$

MURAT YAYINLARI

15. B

$$\begin{array}{r} -5 < x \le -2 \\ -3 < y < 5 \\ 4 \le z < 7 \\ -4 < t < 1 \\ \hline 4 \le x^2 < 25 \\ 0 \le y^2 < 25 \\ 16 \le z^2 < 49 \\ + \quad 0 \le t^2 < 16 \\ \hline 20 \le x^2 + y^2 + z^2 + t^2 < 115 \end{array}$$

$[20, 115)$

16. E

$$\frac{x^2 - x - 6}{x - 5} \le 0$$

$$\frac{(x-3)(x+2)}{x-5} \le 0$$

negatif bölge

$x - 3 = 0 \quad x + 2 = 0 \quad x - 5 = 0$

$x = 3 \quad x = -2 \quad x = 5$

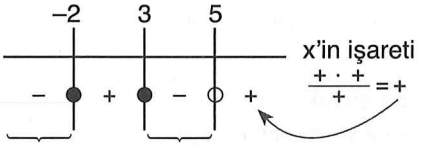

$(-\infty, -2] \cup [3, 5)$

17. C

$$\frac{2}{3x+6} > 1$$

$$\frac{2}{3x+6} - 1 > 0$$

$$\frac{2 - 3x - 6}{3x+6} > 0$$

$$\frac{-3x-4}{3x+6} > 0$$

pozitif bölge

$-3x - 4 = 0 \quad 3x + 6 = 0$

$x = -\frac{4}{3} \quad x = -2$

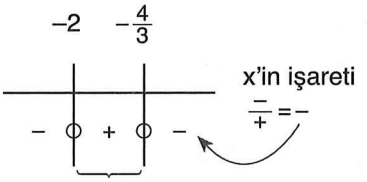

$\left(-2, -\frac{4}{3}\right)$

18. B

$$\left(\frac{25}{4}\right)^{x+1} > \left(\frac{5}{2}\right)^{x-1}$$

$$\underset{\text{bileşik kesir}}{\left(\frac{5}{2}\right)^{2x+2}} > \left(\frac{5}{2}\right)^{x-1}$$

$2x + 2 > x - 1$

$x > -3$

$\{-2, -1\} \quad (-2) + (-1) = -3$

19. D

$$\underset{\text{basit kesir}}{\left(\frac{2}{3}\right)^{2x-1}} > \left(\frac{2}{3}\right)^{x+1}$$

$2x - 1 < x + 1$

$x < 2$

$\{0, 1\}$ 2 tane

20. A

$$\frac{2}{9} < \frac{2}{x} < \frac{2}{3}$$

$9 < x < 3$

$\{8, 7, 6, 5, 4\}$ 5 tane

MURAT YAYINLARI

/muratyayincilik

Mutlak Değer • TEST 13

1. $x < y < z$ olmak üzere
$|x-z| - |y-x| + |z-y|$
ifadesinin eşiti aşağıdakilerden hangisidir?

A) $2z-y$ B) $2y-2x$ C) $x-y$
D) $z-y$ E) $2z-2y$

2. $|2-\sqrt{3}|+|\sqrt{3}-1|+|1-\sqrt{5}|$

işleminin sonucu kaçtır?

A) 1 B) $\sqrt{3}$ C) 2
D) $\sqrt{5}$ E) 3

3. $x < 0 < y$ olduğuna göre,
$|x-y|+|y|-|x|$

ifadesinin eşiti aşağıdakilerden hangisidir?

A) x B) y C) $2y$
D) $y-x$ E) 0

4. $x < y < 0$ olduğuna göre,
$\frac{|x-y|+|-y|}{x}$

ifadesinin eşiti aşağıdakilerden hangisidir?

A) -1 B) 1 C) x
D) y E) $x-y$

5. $0 < x < y$ olduğuna göre,
$\sqrt{x^2-2xy+y^2}-|-x|$

ifadesinin eşiti aşağıdakilerden hangisidir?

A) y B) x C) $x-y$
D) $y-x$ E) $y-2x$

6. $|3x+7| = 11$
eşitliğini sağlayan x değerleri çarpımı kaçtır?

A) 8 B) 4 C) -4
D) -8 E) -12

7. a ve b gerçel sayıları için
$a^3 . b^4 < 0$
$a^7 . b > 0$
olduğuna göre, $|a+b|-|b|-|-2a|$ ifadesinin eşiti aşağıdakilerden hangisidir?

A) a B) b C) $a+b$
D) $a-b$ E) $2a$

8. $|x+5| = |3x-2|$
eşitliğini sağlayan x değerleri toplamı kaçtır?

A) 3 B) $\frac{11}{4}$ C) 2
D) $\frac{9}{5}$ E) 1

9. $||2x+6|+8| = 14$
eşitliğini sağlayan x değerleri toplamı kaçtır?

A) 6 B) 0 C) -6
D) -8 E) -10

10. $|3x-9| + |6-2x| = 30$
eşitliğini sağlayan x değerleri çarpımı kaçtır?

A) -30 B) -27 C) -15
D) 15 E) 27

MURAT YAYINLARI

11. $3|x+1| = |x+1| \cdot |x-3|$
eşitliğini sağlayan x değerleri toplamı kaçtır?

A) 2 B) 3 C) 4 D) 5 E) 6

12. $|2x+8| + |3y-6| = 0$
olduğuna göre, x + y toplamı kaçtır?

A) 2 B) 1 C) 0 D) –1 E) –2

13. $A = |x+5| + |2x-6|$
olduğuna göre, A'nın alacağı en küçük değer kaçtır?

A) 8 B) 10 C) 12 D) 14 E) 16

14. $|4x-10| < 14$
eşitsizliğinin çözüm kümesi aşağıdakilerden hangisidir?

A) (–1, 5] B) [0, 5] C) (–1, 6) D) [0, 6) E) (2, 7)

15. $|2x-8| \geq 20$
eşitsizliğinin çözüm kümesi aşağıdakilerden hangisidir?

A) (0, 20) B) $(-\infty, -6] \cup [14, +\infty)$
C) $(-\infty, -6)$ D) $(-\infty, 4) \cup [6, +\infty)$
E) (–6, 14)

16. $20 < |2x-4| < 36$
eşitsizliğini sağlayan x tam sayıları kaç tanedir?

A) 7 B) 10 C) 13 D) 14 E) 15

17. $|x-5| + |x+6| = 11$
denklemini sağlayan x değeri kaç tanedir?

A) 8 B) 10 C) 12 D) 14 E) 16

18. $|2x+4| + |x-5| = 10$
denklemini sağlayan x değerleri toplamı kaçtır?

A) –2 B) –1 C) 0 D) 1 E) 2

19. $|x-2| + |x+3| = 7$
denklemini sağlayan x değerleri çarpımı kaçtır?

A) 8 B) 4 C) –6 D) –12 E) –14

20. a ve b gerçel sayıları için,

$\sqrt{(a-b)^2} = b - a$

$a \cdot b < 0$

ifadeleri veriliyor.

Buna göre,

I. $a + b > 0$
II. $a - b < 0$
III. $a^2 - b^2 > 0$

ifadelerinden hangileri daima doğrudur?

A) Yalnız I B) Yalnız II C) Yalnız III D) I ve II E) I ve III

MURAT YAYINLARI

Açıklamalar • TEST 13

1. E

$x < y < z$

$\underbrace{|x-z|}_{-} - \underbrace{|y-x|}_{+} + \underbrace{|z-y|}_{+}$

$= (z-x) - (y-x) + (z-y)$

$= z - x - y + x + z - y$

$= 2z - 2y$

2. D

$\underbrace{|2-\sqrt{3}|}_{+} + \underbrace{|\sqrt{3}-1|}_{+} + \underbrace{|1-\sqrt{5}|}_{-}$

$= (2-\sqrt{3}) + (\sqrt{3}-1) + (\sqrt{5}-1)$

$= 2 - \sqrt{3} + \sqrt{3} - 1 + \sqrt{5} - 1$

$= \sqrt{5}$

3. C

$x < 0 < y$

$\underbrace{|x-y|}_{-} + \underbrace{|y|}_{+} - \underbrace{|x|}_{-}$

$= (y-x) + (y) - (-x)$

$= y - x + y + x$

$= 2y$

4. A

$x < y < 0$

$$\frac{\overbrace{|x-y|}^{-} + \overbrace{|-y|}^{+}}{x} = \frac{(y-x)+(-y)}{x}$$

$$\frac{y-x-y}{x} = \frac{-x}{x}$$

$$= -1$$

5. E

$0 < x < y$

$\sqrt{x^2 - 2xy + y^2} - |-x| = \sqrt{(x-y)^2} - |-x|$

$\underbrace{|x-y|}_{-} - \underbrace{|-x|}_{-} = (y-x) - (x)$

$= y - 2x$

6. D

$|3x + 7| = 11$

$3x + 7 = 11$ $\quad$ $3x + 7 = -11$

$3x = 4$ $\quad$ $3x = -18$

$x = \frac{4}{3}$ $\quad$ $x = -6$

$Ç.K = \left\{-6, \frac{4}{3}\right\}$

$(-6) \cdot \left(\frac{4}{3}\right) = -8$

7. A

$a^3 \cdot \overbrace{b^4}^{+} < 0 \quad \Rightarrow a < 0$

$\overbrace{a^7}^{-} \cdot b > 0 \quad \Rightarrow b < 0$

$\underbrace{|a+b|}_{-} - \underbrace{|b|}_{-} - \underbrace{|-2a|}_{+}$

$= -(a+b) - (-b) - (-2a)$

$= -a - b + b + 2a$

$= a$

8. B

$|x + 5| = |3x - 2|$

$x + 5 = 3x - 2$ $\quad$ $x + 5 = -(3x - 2)$

$7 = 2x$ $\quad$ $x + 5 = -3x + 2$

$\frac{7}{2} = x$ $\quad$ $4x = -3$

$x = -\frac{3}{4}$

$Ç.K = \left\{-\frac{3}{4}, \frac{7}{2}\right\}$

$\underset{(1)}{\left(-\frac{3}{4}\right)} + \underset{(2)}{\left(\frac{7}{2}\right)} = \frac{-3+14}{4}$

$= \frac{11}{4}$

MURAT YAYINLARI

9. C

$$||2x+6|+8|=14$$

$|2x+6|+8=-14$ $\quad$ $|2x+6|+8=14$

$|2x+6|=-22$ $\quad$ $|2x+6|=6$

$\downarrow$ $\quad$ $2x+6=6$ $\quad$ $2x+6=-6$

$\emptyset$ $\quad$ $2x=0$ $\quad$ $2x=-12$

$x=0$ $\quad$ $x=-6$

$Ç.K=\{-6, 0\}$

$(-6)+(0)=-6$

10. B

$$|3x-9|+|6-2x|=30$$
$$|3(x-3)|+|2(3-x)|=30$$
$$3|x-3|+2|3-x|=30$$
$$5|x-3|=30$$
$$|x-3|=6$$

$x-3=6$ $\quad$ $x-3=-6$

$x=9$ $\quad$ $x=-3$

$Ç.K=\{-3, 9\}$

$(-3)\cdot(9)=-27$

11. D

$$3|x+1|=|x+1|\cdot|x-3|$$
$$3|x+1|-|x+1|\cdot|x-3|=0$$
$$|x+1|\cdot(3-|x-3|)=0$$

$|x+1|=0$ $\quad$ $3-|x-3|=0$

$\downarrow$ $\quad$ $3=|x-3|$

$x+1=0$ $\quad$ $3=x-3$ $\quad$ $-3=x-3$

$x=-1$ $\quad$ $6=x$ $\quad$ $0=x$

$Ç.K=\{-1, 0, 6\}$

$(-1)+(0)+(6)=5$

12. E

$$|2x+8|+|3y-6|=0$$

$2x+8=0$ $\quad$ $3y-6=0$

$2x=-8$ $\quad$ $3y=6$

$x=-4$ $\quad$ $y=2$

$(-4)+(2)=-2$

13. A

$$A=|x+5|+|2x-6|$$

$x+5=0$ için $\quad$ $2x-6=0$ için

$x=-5$ için $\quad$ $x=3$ için

$A=|-5+5|+|2(-5)-6|$ $\quad$ $A=|3+5|+|2\cdot3-6|$

$A=|0|+|-16|$ $\quad$ $A=|8|+|0|$

$A=16$ $\quad$ $A=8$

A'nın alacağı en küçük değer 8'dir.

14. C

$$|4x-10|<14$$
$$-14<4x-10<14$$
$$-4<4x<24$$
$$-1<x<6$$
$Ç.K=(-1, 6)$

15. B

$$|2x-8|\geq 20$$

$-20\geq 2x-8$ $\quad$ $2x-8\geq 20$

$-12\geq 2x$ $\quad$ $2x\geq 28$

$-6\geq x$ $\quad$ $x\geq 14$

$Ç.K=(-\infty, -6]\cup[14, +\infty)$

MURAT YAYINLARI

16. D

$$20 < |2x - 4| < 36$$

$20 < 2x - 4 < 36$ $\quad$ $20 < -2x + 4 < 36$

$24 < 2x < 40$ $\quad$ $16 < -2x < 32$

$12 < x < 20$ $\quad$ $-16 < x < -8$

$\{13, 14, 15, 16, 17, 18, 19\}$ $\quad$ $\{-15, -14, -13, -12, -11, -10, -9\}$

7 tane $\quad$ 7 tane

14 tane

17. C

$|x - 5| + |x + 6| = 11$

$x - 5 = 0$ $\quad$ $x + 6 = 0$

$x = 5$ $\quad$ $x = -6$

-6		5
$-x+5-x-6=11$	$-x+5+x+6=11$	$x-5+x+6=11$
$-12=2x$	$0=0$	$2x=10$
$-6=x$		$x=5$
	Tümü	

Ç.K = {–6, –5, –4, –3, –2, –1, 0, 1, 2, 3, 4, 5}

12 tane

18. A

$|2x + 4| + |x - 5| = 10$

$2x + 4 = 0$ $\quad$ $x - 5 = 0$

$x = -2$ $\quad$ $x = 5$

-2		5
$-2x-4-x+5=10$	$2x+4-x+5=10$	$2x+4+x-5=10$
$-9=3x$	$x=1$	$3x=11$
$-3=x$		$x=\frac{11}{3}$
		sağlamaz

Ç.K = {–3, 1}

(–3) + (1) = –2

19. D

$|x - 2| + |x + 3| = 7$

$x - 2 = 0$ $\quad$ $x + 3 = 0$

$x = 2$ $\quad$ $x = -3$

-3		2
$-x+2-x-3=7$	$-x+2+x+3=7$	$x-2+x+3=7$
$-8=2x$	$0=2$	$2x=6$
$-4=x$	Ø	$x=3$

Ç.K = {–4, 3}

(–4)·(3) = –12

20. B

$\sqrt{(a-b)^2} = b - a$ $\quad$ $a \cdot b < 0$ (a: $-$, b: $+$)

$|a - b| = b - a$ ($a - b$: $-$)

$a < 0 < b$

I. $a + b > 0$

$(-5) + (2)$ $\quad$ $(-3) + (7)$

$(-3) > 0$ $\quad$ $4 > 0$

yanlış $\quad$ doğru

II. $a - b < 0$

$a < b$ $\quad$ doğru

III. $a^2 - b^2 > 0$

$a^2 > b^2$

$(-5)^2 > (2)^2$ $\quad$ $(-3)^2 > (7)^2$

$25 > 4$ $\quad$ $9 > 49$

doğru $\quad$ yanlış

Yalnız II doğru

MURAT YAYINLARI

Oran - Orantı • TEST 14

1. $\frac{x}{y} = \frac{3}{5}$

olduğuna göre, $\frac{2x + y}{x + 2y}$ ifadesinin eşiti kaçtır?

A) $\frac{11}{15}$ B) $\frac{11}{13}$ C) 1

D) $\frac{13}{11}$ E) $\frac{15}{11}$

2. $\frac{x}{0,03} = \frac{y}{0,04}$

olduğuna göre, $\frac{3x - y}{x + y}$ ifadesinin eşiti kaçtır?

A) $\frac{1}{2}$ B) $\frac{2}{3}$ C) $\frac{4}{5}$

D) $\frac{5}{7}$ E) $\frac{6}{5}$

3. $\frac{x + 3y}{2x - y} = 4$

olduğuna göre, $\frac{x}{y}$ oranı kaçtır?

A) 3 B) 2 C) 1

D) –1 E) –2

4. $\frac{x}{3} = \frac{y}{4} = \frac{z}{5}$

olduğuna göre, $\frac{2x + 5y}{3z}$ ifadesinin eşiti kaçtır?

A) $\frac{9}{4}$ B) $\frac{11}{8}$ C) $\frac{15}{11}$

D) $\frac{18}{13}$ E) $\frac{26}{15}$

5. $\frac{2}{y} + x = 5$

$y + \frac{2}{x} = 7$

olduğuna göre, $\frac{3x}{2y}$ ifadesinin eşiti kaçtır?

A) $\frac{15}{14}$ B) $\frac{13}{11}$ C) $\frac{9}{8}$

D) $\frac{9}{7}$ E) $\frac{8}{5}$

6. $\frac{a}{2} = \frac{b}{3} = \frac{c}{5}$ ve $2c + 2a - 3b = 75$

olduğuna göre, a – c – b ifadesinin eşiti kaçtır?

A) –110 B) –100 C) –90

D) –60 E) –50

MURAT YAYINLARI

/muratyayincilik

7. Üç kardeş 153 lirayı sırasıyla 2, 3 ve 4 sayılarıyla orantılı olarak paylaşıyorlar.

Buna göre, en fazla para alanla en az para alan arasındaki fark kaç liradır?

A) 10 B) 15 C) 17 D) 29 E) 34

8. $2x = 3y = 5z$ ve $x + y + z = 465$

olduğuna göre, $x + y - z$ ifadesinin eşiti kaçtır?

A) 265 B) 285 C) 305 D) 325 E) 345

9. 589 tane bilyeyi üç arkadaş sırasıyla 2, 4 ve 5 sayılarıyla ters orantılı şekilde paylaşıyor.

Buna göre, en az bilye alan kişi kaç bilye almıştır?

A) 310 B) 195 C) 155 D) 124 E) 62

10. x sayısı, y sayısı ile doğru ve $(z - 1)$ sayısı ile ters orantılıdır.

$x = 4$, $y = 8$ iken $z = 9$ olduğuna göre, $x = 2$ ve $y = 6$ iken z kaç olur?

A) 9 B) 10 C) 11 D) 12 E) 13

11. **$(a + 50)$ kg pamuk 25 lira, $(a - 10)$ kg pamuk 5 lira olduğuna göre, 1,5 ton pamuk kaç liradır?**

A) 500 B) 450 C) 400 D) 350 E) 300

12. Bir araç A kentinden B kentine saatte sabit bir hızla 20 dakikada varıyor.

Bu araç saatteki hızını %20 azaltırsa aynı yolu kaç dakikada alır?

A) 16 B) 18 C) 22 D) 24 E) 25

13. X, Y ve Z maddelerinden oluşan bir karışımda $2X = 3Y$ ve $4Y = 5Z$ ilişkisi vardır.

Bu karışımın toplam ağırlığı 726 gram olduğuna göre, Y maddesinin miktarı kaç gramdır?

A) 160 B) 176 C) 200 D) 220 E) 330

14. Aynı kapasitede 3 işçi günde üçer saat çalışarak 150 m^2 duvarı 8 günde örebiliyor.

100 m^2 duvarı aynı kapasitede 6 işçi günde dörder saat çalışarak kaç günde örebilir?

A) 1 B) 2 C) 3 D) 4 E) 5

MURAT YAYINLARI

15. Aynı kapasitede 3 işçi bir işi günde beşer saat çalışarak 4 günde bitiriyor.

Aynı işin günde ikişer saat çalışarak 6 günde bitebilmesi için aynı kapasitede işçilerden kaç tane daha gereklidir?

A) 5 B) 4 C) 3 D) 2 E) 1

16. x tane işçi y birim işi 12 saatte bitiriyor.

İşçi sayısı 3 katına çıkarılıp iş miktarı 3 kat artırılırsa iş kaç günde biter?

A) 12 B) 14 C) 16 D) 18 E) 20

17. Aynı kapasitede 6 usta günde sekizer saat çalışarak 3 günde 16 çift ayakkabı yapabiliyor.

Bu ustaların yerine %25 daha az kapasiteyle çalışan 4 çırak getirilip günde ikişer saat çalıştırılırsa 3 günde kaç çift ayakkabı yaparlar?

A) 2 B) 4 C) 6 D) 8 E) 10

18. 8 tane sayının aritmetik ortalaması 40'tır. Bu sayılara toplamları 80 olan 2 sayı ekleniyor.

Buna göre, yeni aritmetik ortalama kaçtır?

A) 38 B) 40 C) 42 D) 44 E) 46

19. a sayısı ile b sayısının geometrik ortalaması 7, aritmetik ortalaması 6'dır.

Buna göre, $a^2 + b^2$ toplamı kaçtır?

A) 44 B) 45 C) 46 D) 47 E) 48

20. Toplam 32 seyircinin bulunduğu bir sinemada seyircilerin bir kısmı boş olan A salonuna, geriye kalanlar ise boş olan B salonuna giriyor. Bu durumda A salonunda bulunan seyircilerin yaşlarının ortalaması 30, B salonundaki seyircilerin yaşlarının ortalaması 20 oluyor. Daha sonra A salonundan 1 seyirci, B salonundan 4 seyirci dışarı çıkıyor. A salonundan çıkanlar B salonuna, B salonundan çıkanlar A salonuna giriyor. Son durumda A ve B salonundaki seyircilerin yaşlarının ortalaması sırasıyla 33 ve 14 oluyor.

Buna göre, başlangıçta A salonuna kaç seyirci girmiştir?

A) 12 B) 13 C) 14 D) 15 E) 16

MURAT YAYINLARI

/muratyayincilik

Açıklamalar • TEST 14

1. B

$\frac{x}{y} = \frac{3}{5}$ $\quad x = 3k$, $y = 5k$

$$\frac{2x+y}{x+2y} = \frac{2\cdot 3k + 5k}{3k + 2\cdot 5k} = \frac{11k}{13k} = \frac{11}{13}$$

2. D

$\frac{x}{0,03} = \frac{y}{0,04}$ $\quad x = 3k$, $y = 4k$

$$\frac{3x-y}{x+y} = \frac{3\cdot 3k - 4k}{3k + 4k} = \frac{5k}{7k} = \frac{5}{7}$$

3. C

$$\frac{x+3y}{2x-y} = 4$$
$$x + 3y = 8x - 4y$$
$$7y = 7x$$
$$y = x$$
$$\frac{x}{y} = 1$$

4. E

$\frac{x}{3} = \frac{y}{4} = \frac{z}{5} = k$ $\quad x = 3k$, $y = 4k$, $z = 5k$

$$\frac{2x+5y}{3z} = \frac{2\cdot 3k + 5\cdot 4k}{3\cdot 5k} = \frac{26k}{15k} = \frac{26}{15}$$

5. A

$\frac{2}{y} + x = 5 \Rightarrow 2 + xy = 5y$

$y + \frac{2}{x} = 7 \Rightarrow 2 + xy = 7x$

$5y = 7x$ ($y \downarrow 7k$, $x \downarrow 5k$)

$$\frac{3x}{2y} = \frac{3\cdot 5k}{2\cdot 7k} = \frac{15k}{14k} = \frac{15}{14}$$

6. C

$\frac{a}{2} = \frac{b}{3} = \frac{c}{5} = k$

$a = 2k$, $b = 3k$, $c = 5k$

$$2c + 2a - 3b = 75$$
$$2\cdot 5k + 2\cdot 2k - 3\cdot 3k = 75$$
$$10k + 4k - 9k = 75$$
$$5k = 75$$
$$k = 15$$

$a = 2k \Rightarrow a = 2\cdot 15 \Rightarrow a = 30$

$b = 3k \Rightarrow b = 3\cdot 15 \Rightarrow b = 45$

$c = 5k \Rightarrow c = 5\cdot 15 \Rightarrow c = 75$

$$a - c - b = 30 - 75 - 45 = -90$$

MURAT YAYINLARI

7. E

$\frac{x}{2} = \frac{y}{3} = \frac{z}{4} = k$

$x = 2k$
$y = 3k$
$+ \quad z = 4k$
$x + y + z = 9k$
$153 = 9k$
$17 = k$

$x = 2k \Rightarrow x = 2 \cdot 17 \Rightarrow x = 34$
$y = 3k \Rightarrow y = 3 \cdot 17 \Rightarrow y = 51$
$z = 4k \Rightarrow z = 4 \cdot 17 \Rightarrow z = 68$
$68 - 34 = 34$ lira

8. B

$2x = 3y = 5z = 30k$
$\downarrow 15k \quad \downarrow 10k \quad \downarrow 6k$

$x + y + z = 465$
$15k + 10k + 6k = 465$
$31k = 465$
$k = 15$

$x = 15k \Rightarrow x = 15 \cdot 15 \Rightarrow x = 225$
$y = 10k \Rightarrow y = 10 \cdot 15 \Rightarrow y = 150$
$z = 6k \Rightarrow z = 6 \cdot 15 \Rightarrow z = 90$

$x + y - z = 225 + 150 - 90$
$= 285$

9. D

$2x = 4y = 5z = 20k$
$\downarrow 10k \quad \downarrow 5k \quad \downarrow 4k$

$x = 10k$
$y = 5k$
$+ \quad z = 4k$
$x + y + z = 19k$
$589 = 19k$
$31 = k$

$x = 10k \Rightarrow x = 10 \cdot 31 \Rightarrow x = 310$
$y = 5k \Rightarrow y = 5 \cdot 31 \Rightarrow y = 155$
$z = 4k \Rightarrow z = 4 \cdot 31 \Rightarrow z = 124$

En az alan 124 bilye alır.

10. E

$\frac{x}{y} \cdot (z - 1) = k$
$\frac{4}{8} \cdot (9 - 1) = k$
$\frac{4}{8} \cdot 8 = k$
$\boxed{4 = k}$

$\frac{2}{6} \cdot (z - 1) = 4$
$\frac{1}{3} \cdot (z - 1) = 4$
$z - 1 = 12$
$\boxed{z = 13}$

11. A

$a + 50$ kg	25
$a - 10$ kg	5

D.O $\quad \cancel{5} \cdot (a + 50) = \cancel{25}^{5} \cdot (a - 10)$
$a + 50 = 5a - 50$
$100 = 4a$
$25 = a$

$25 - 10 = 15$ kg $\quad 5$ lira
1,5 ton = 1500 kg

15 kg	5 lira
1500 kg	x

D.O $\quad x = \frac{\cancel{1500}^{100} \cdot 5}{\cancel{15}}$
$x = 500$ lira

12. E

100V hız	20 dakika
80V hız	x

T.O $\quad \cancel{100V}^{5} \cdot \cancel{20}^{5} = \cancel{80V}^{4^1} \cdot x$
$25 = x$

MURAT YAYINLARI

/muratyayincilik

13. D

$2X = 3Y$ ve $4Y = 5Z$

4 ile genişletelim 3 ile genişletelim

$8X = 12Y = 15Z$

$15k \quad 10k \quad 8k$

$15k + 10k + 8k = 726$

$33k = 726$

$k = 22$

$Y = 10k \longrightarrow Y = 10 \cdot 22 \longrightarrow Y = 220$ gram

14. B

$$\frac{\cancel{150}^{3^1}}{\cancel{3}_1 \cdot \cancel{3}_1 \cdot \cancel{6}_2} = \frac{\cancel{100}^{2^1}}{\cancel{6}_3 \cdot \cancel{4}_1 \cdot x}$$

$2 = x$

15. D

$$\frac{1}{\cancel{3} \cdot 5 \cdot \cancel{4}} = \frac{1}{(3+x) \cdot \cancel{2} \cdot \cancel{6}}$$

$5 = 3 + x$

$2 = x$

16. C

$$\frac{\cancel{y}}{x \cdot \underset{4}{\cancel{12}}} = \frac{4\cancel{y}}{\underset{1}{\cancel{3}}x \cdot ?}$$

$? = 16$ gün

17. A

$$\frac{\overset{2}{\cancel{16}}}{\underset{1}{\overset{4}{\cancel{100}}} \cdot \underset{1}{\overset{3}{\cancel{6}}} \cdot \cancel{8} \cdot \cancel{3}} = \frac{x}{\underset{1}{\cancel{75}} \cdot \cancel{4} \cdot \cancel{2} \cdot \cancel{3}}$$

$2 = x$

18. B

$$A.O = \frac{\text{Toplam}}{\text{Adet}}$$

$$40 = \frac{\text{Toplam}}{8}$$

$320 = \text{Toplam}$

$320 + 80 = 400$ yeni toplam

$8 + 2 = 10$ yeni sayı adedi

$$A.O = \frac{400}{10}$$

$= 40$

19. C

$$A.O = \frac{\text{Toplam}}{\text{Adet}}$$

$$G.O = \sqrt[\text{Adet}]{\text{Sayıların çarpımı}}$$

$$\frac{a+b}{2} = 6 \Rightarrow a + b = 12$$

$$\sqrt{a \cdot b} = 7 \Rightarrow a \cdot b = 49$$

$(a+b)^2 = (12)^2$

$a^2 + 2ab + b^2 = 144$

$a^2 + 2 \cdot 49 + b^2 = 144$

$a^2 + b^2 + 98 = 144$

$a^2 + b^2 = 46$

20. D

	A	B
Başlangıç	x kişi 30 ortalama 30x toplam	32–x kişi 20 ortalama 20(32–x) toplam
Sonra	x–1+4 = x+3 kişi 33 ortalama 33(x+3) toplam	32–x–4+1=29–x kişi 14 ortalama 14(29–x) toplam

$30x + 20(32 - x) = 33(x + 3) + 14(29 - x)$

$30x + 640 - 20x = 33x + 99 + 406 - 14x$

$135 = 9x$

$15 = x$

MURAT YAYINLARI

Denklemler • TEST 15

1. $5 - 2x - 3(x - 1) = 7x$

olduğuna göre, x kaçtır?

A) $\frac{3}{2}$ B) 1 C) $\frac{2}{3}$ D) $\frac{1}{3}$ E) 0

2. $(3 - 5)(4 - x) = 3 + x$

olduğuna göre, x kaçtır?

A) 7 B) 8 C) 9 D) 10 E) 11

3. $\frac{x-1}{2} - \frac{2-x}{3} = x + 1$

olduğuna göre, x kaçtır?

A) –14 B) –13 C) –11 D) –9 E) –7

4. $\frac{2x-1}{4} - \frac{x+1}{3} = \frac{x+2}{5}$

olduğuna göre, x kaçtır?

A) $-\frac{51}{2}$ B) –27 C) $-\frac{55}{2}$ D) $-\frac{59}{2}$ E) –30

5. $\frac{4x+2}{2} - 1 : \frac{2}{x} = 3$

olduğuna göre, x kaçtır?

A) $\frac{5}{3}$ B) $\frac{4}{3}$ C) 1 D) $\frac{2}{3}$ E) $\frac{1}{3}$

6. $2kx + 3k + 5 = 2x - 7$

denklemini sağlayan x değeri –1 olduğuna göre, k değeri kaçtır?

A) –1 B) –5 C) –14 D) –15 E) –21

7. $\frac{2}{x-k} + \frac{2}{x+3} = 1$

denklemini sağlayan x değeri 1 olduğuna göre, k değeri kaçtır?

A) –3 B) –2 C) –1 D) 1 E) 3

8. $3kx + x + 5 = 4kx - 2x + 7$

denkleminin çözüm kümesi boş küme olduğuna göre, k değeri kaçtır?

A) –3 B) –1 C) 1 D) 3 E) 4

9. $\frac{12}{4 - \frac{4}{x}} = 6$

eşitliğini sağlayan x değeri kaçtır?

A) 1 B) 2 C) 4 D) 8 E) 12

10. $\frac{0,2}{0,25} = \frac{2x}{0,5}$

eşitliğini sağlayan x değeri kaçtır?

A) 0,5 B) 0,4 C) 0,3 D) 0,2 E) 0,1

MURAT YAYINLARI

/muratyayincilik

11. $\frac{3(x-4)}{15} = \frac{5}{x-4}$

olduğuna göre, x'in alabileceği değerler çarpımı kaçtır?

A) 9 B) 5 C) –1 D) –5 E) –9

12. $\frac{4}{2-x} + \frac{x^2}{x-2} = 0$

denkleminin çözüm kümesi aşağıdakilerden hangisidir?

A) {–2, 2} B) Ø C) {–2} D) {2} E) R

13. $2(x-3) + 7 = 1 + 2x$

denkleminin çözüm kümesi aşağıdakilerden hangisidir?

A) {1} B) {1, 2} C) {2} D) Ø E) R

14. $5 - 2(x-1) = 3 - (1 + 2x)$

denkleminin çözüm kümesi aşağıdakilerden hangisidir?

A) {–1} B) {0} C) {5} D) Ø E) R

15. $3x + 2y = 8$

$2x - y = 3$

denklem sisteminin çözüm kümesi aşağıdakilerden hangisidir?

A) {(2, 1)} B) {2, 1} C) {(1, 2)} D) {(5, 1)} E) {1, 2}

16. $a - 2b = 4$

$2a - 3b = 7$

olduğuna göre, a·b çarpımı kaçtır?

A) 2 B) –1 C) –2 D) –3 E) –4

17. $2a + 3b - 4c = 7$

$a - b + 3c = 6$

olduğuna göre, a + b – c ifadesinin eşiti kaçtır?

A) 1 B) 2 C) 3 D) 4 E) 5

18. $a + b = 7$

$a + c = 8$

$b + c = 9$

olduğuna göre, a·b·c çarpımı kaçtır?

A) 40 B) 50 C) 60 D) 70 E) 80

19. $a \cdot b = 5\sqrt{2}$

$b \cdot c = 8\sqrt{6}$

$a \cdot c = 15\sqrt{3}$

olduğuna göre, a · b · c çarpımı kaçtır?

A) 40 B) 45 C) 50 D) 55 E) 60

20. $a \cdot b \cdot c = 6$ olduğuna göre,

$\left(a - \frac{3}{b \cdot c}\right) \cdot \left(b - \frac{2}{a \cdot c}\right) \cdot \left(c + \frac{3}{a \cdot b}\right)$

ifadesinin eşiti kaçtır?

A) $\frac{3}{2}$ B) 2 C) $\frac{5}{2}$ D) 3 E) $\frac{7}{2}$

MURAT YAYINLARI

Açıklamalar • TEST 15

1. C

$$5-2x-3(x-1)=7x$$
$$5-2x-3x+3=7x$$
$$8=7x+5x$$
$$8=12x$$
$$\frac{8}{12}=x$$
$$\frac{2}{3}=x$$

2. E

$$(3-5)(4-x)=3+x$$
$$(-2)(4-x)=3+x$$
$$-8+2x=3+x$$
$$x=11$$

3. B

$$\underset{(3)}{\frac{x-1}{2}}-\underset{(2)}{\frac{2-x}{3}}=x+1$$
$$\frac{3x-3}{6}-\frac{4-2x}{6}=x+1$$
$$\frac{3x-3-4+2x}{6}=x+1$$
$$5x-7=6x+6$$
$$-13=x$$

4. D

$$\underset{(3)}{\frac{2x-1}{4}}-\underset{(4)}{\frac{x+1}{3}}=\frac{x+2}{5}$$
$$\frac{6x-3}{12}-\frac{4x+4}{12}=\frac{x+2}{5}$$
$$\frac{6x-3-4x-4}{12}=\frac{x+2}{5}$$
$$\frac{2x-7}{12}=\frac{x+2}{5}$$
$$10x-35=12x+24$$
$$-59=2x$$
$$-\frac{59}{2}=x$$

5. B

$$\frac{4x+2}{2}-1:\frac{2}{x}=3$$
$$\frac{2(2x+1)}{2}-1\cdot\frac{x}{2}=3$$
$$2x+1-\frac{x}{2}=3$$
$$\underset{(2)}{\frac{2x}{1}}-\underset{(1)}{\frac{x}{2}}=3-1$$
$$\frac{4x-x}{2}=2$$
$$3x=4$$
$$x=\frac{4}{3}$$

6. C

$$2kx+3k+5=2x-7$$
$$2k(-1)+3k+5=2(-1)-7$$
$$-2k+3k+5=-2-7$$
$$k=-9-5$$
$$k=-14$$

7. A

$$\frac{2}{x-k}+\frac{2}{x+3}=1$$
$$\frac{2}{1-k}+\frac{2}{1+3}=1$$
$$\frac{2}{1-k}+\frac{2}{4}=1$$
$$\frac{2}{1-k}+\frac{1}{2}=1$$
$$\frac{2}{1-k}=1-\frac{1}{2}$$
$$\frac{2}{1-k}=\frac{1}{2}$$
$$4=1-k$$
$$k=1-4$$
$$k=-3$$

MURAT YAYINLARI

/muratyayincilik

8. D

$$3kx + x + 5 = 4kx - 2x + 7$$
$$3kx + x - 4kx + 2x = 7 - 5$$
$$\underbrace{3x - kx}_{0} = 2$$
$$3x - kx = 0$$
$$3x = kx$$
$$3 = k$$

9. B

$$\frac{12}{\left(4 - \frac{4}{x}\right)_{\to 2}} = 6$$
$$4 - \left(\frac{4}{x}\right)_{\to 2} = 2$$
$$\frac{4}{(x)_{\to 2}} = 2$$
$$x = 2$$

10. D

$$\frac{0,2}{0,25} = \frac{2x}{0,50}$$
$$0,2 = x$$

11. E

$$\frac{3(x-4)}{15} = \frac{5}{x-4}$$
$$(x-4)^2 = 5^2$$
$$x - 4 = 5 \qquad x - 4 = -5$$
$$x = 9 \qquad x = -1$$
$$(9)\cdot(-1) = -9$$

12. C

$$\frac{4}{2-x} + \frac{x^2}{x-2} = 0$$
$$-\frac{4}{x-2} + \frac{x^2}{x-2} = 0$$
$$\frac{x^2-4}{x-2} = 0$$
$$\frac{(x-2)(x+2)}{x-2} = 0$$
$$x + 2 = 0$$
$$x = -2$$
$$Ç.K = \{-2\}$$

13. E

$$2(x-3) + 7 = 1 + 2x$$
$$2x - 6 + 7 = 1 + 2x$$
$$0 = 0$$
$$Ç.K = R$$

14. D

$$5 - 2(x-1) = 3 - (1 + 2x)$$
$$5 - 2x + 2 = 3 - 1 - 2x$$
$$5 = 0$$
$$Ç.K = \emptyset$$

15. A

$$3x + 2y = 8$$
$$2./\ 2x - y = 3$$
$$3x + 2y = 8$$
$$+\quad 4x - 2y = 6$$
$$7x = 14$$
$$\boxed{x = 2}$$

$$3\cdot(2) + 2y = 8$$
$$6 + 2y = 8$$
$$2y = 2$$
$$\boxed{y = 1}$$
$$Ç.K = \{(2, 1)\}$$

MURAT YAYINLARI

16. C

$$\begin{array}{rr} & -2\cdot /\ a-2b=4 \\ & 2a-3b=7 \\ \hline & -2a+4b=-8 \\ + & 2a-3b=7 \\ \hline & \boxed{b=-1} \end{array}$$

$$a-2(-1)=4$$
$$a+2=4$$
$$\boxed{a=2}$$
$$a\cdot b=(2)\cdot(-1)$$
$$=-2$$

17. D

$$\begin{array}{rr} & 2./\ 2a+3b-4c=7 \\ & a-b+3c=6 \\ \hline & 4a+6b-8c=14 \\ + & a-b+3c=6 \\ \hline & 5a+5b-5c=20 \end{array}$$
$$5(a+b-c)=20$$
$$a+b-c=4$$

18. C

$$\begin{array}{rr} & a+b=7 \\ & a+c=8 \\ & -1/\ b+c=9 \\ \hline & a+b=7 \\ & a+c=8 \\ + & -b-c=-9 \\ \hline & 2a=6 \end{array}$$
$$\boxed{a=3}$$

$$a+b=7$$
$$3+b=7$$
$$\boxed{b=4}$$
$$a+c=8$$
$$3+c=8$$
$$\boxed{c=5}$$
$$a\cdot b\cdot c=3\cdot 4\cdot 5$$
$$=60$$

19. E

$$\begin{array}{rr} & a\cdot b=5\sqrt{2} \\ & b\cdot c=8\sqrt{6} \\ x & a\cdot c=15\sqrt{3} \\ \hline & a^2\cdot b^2\cdot c^2=5\cdot 8\cdot 15\sqrt{2\cdot 6\cdot 3} \end{array}$$
$$=5\cdot 8\cdot 15\cdot 6$$
$$=5^2\cdot 4^2\cdot 3^2$$
$$a\cdot b\cdot c=5\cdot 4\cdot 3$$
$$=60$$

20. D

$$a\cdot b\cdot c=6$$
$$\left(a-\frac{3}{b\cdot c}\right)\cdot\left(b-\frac{2}{a\cdot c}\right)\cdot\left(c+\frac{3}{a\cdot b}\right)$$
$$=\frac{a\cdot b\cdot c-3}{b\cdot c}\cdot\frac{a\cdot b\cdot c-2}{a\cdot c}\cdot\frac{a\cdot b\cdot c+3}{a\cdot b}$$
$$=\frac{6-3}{b\cdot c}\cdot\frac{6-2}{a\cdot c}\cdot\frac{6+3}{a\cdot b}$$
$$=\frac{3}{b\cdot c}\cdot\frac{4}{a\cdot c}\cdot\frac{9}{a\cdot b}$$
$$=\frac{3\cdot 4\cdot 9}{a^2\cdot b^2\cdot c^2}$$
$$=\frac{3\cdot 4\cdot 9}{(a\cdot b\cdot c)^2}$$
$$=\frac{3\cdot 36}{6^2}$$
$$=\frac{3\cdot 36}{36}$$
$$=3$$

MURAT YAYINLARI

/muratyayincilik

Sayı Problemleri - I • TEST 16

1. **Hangi sayının 7 katının 4 eksiği, 5 fazlasının 4 katına eşittir?**

A) 8 B) 9 C) 10 D) 12 E) 13

2. **6 katının 18 eksiğinin yarısı, kendisinin 5 fazlasına eşit olan sayı kaçtır?**

A) 10 B) 9 C) 8 D) 7 E) 6

3. Toplamları 74 olan üç sayıdan birincisi ikincisinden 7 fazla, ikincisi üçüncüsünden 10 eksiktir.

Buna göre, üçüncü sayı kaçtır?

A) 26 B) 28 C) 29 D) 30 E) 31

4. Serhat'ın parası, İlhan'ın parasının 7 katıdır. Serhat, İlhan'a 20 lira verirse; Serhat'ın parası, İlhan'ın parasının 3 katı oluyor.

Buna göre, Serhat'ın parası İlhan'ın parasından kaç lira fazladır?

A) 60 B) 80 C) 90 D) 100 E) 120

5. Merve bir merdivenin basamaklarını ikişer ikişer çıkıp üçer üçer iniyor.

İnerken attığı adım sayısı, çıkarken attığı adım sayısından 9 eksik olduğuna göre, merdiven kaç basamaklıdır?

A) 52 B) 54 C) 56 D) 60 E) 63

6. Bir sınıftaki öğrenciler sıralara üçerli oturduğunda 9 öğrenci ayakta kalıyor, dörderli oturduğunda 1 öğrenci ayakta kalıyor.

Buna göre, bu sınıfta kaç öğrenci vardır?

A) 31 B) 33 C) 35 D) 37 E) 39

7. Bir sınıftaki öğrenciler sıralara ikişerli oturduğunda 7 kişi ayakta kalırken, üçerli oturduğunda 2 sıra boş kalıyor.

Buna göre, bu sınıfta kaç öğrenci vardır?

A) 29 B) 31 C) 33 D) 37 E) 39

8. Bir döviz bürosuna giden Sema Hanım 5 euronun 6 dolara, 7 liranın 2 dolara eşit olduğunu görüyor.

Buna göre Sema Hanım 210 lirasıyla kaç euro alabilir?

A) 40 B) 45 C) 50 D) 55 E) 60

MURAT YAYINLARI

9.

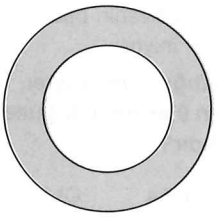

Şekildeki dart oyununa ait tahtada taralı bölgeye yapılan her isabetli atış 5 puan, beyaz bölgeye yapılan her isabetli atış 10 puandır.

Tahtaya isabet etmeyen her atış için 2 puan silinmektedir.

Anıl, 17 atış yaptığı bu oyundan 4 puanı silinerek 106 puan aldığına göre, beyaz bölgeye kaç isabetli atış yapmıştır?

A) 7 B) 8 C) 9 D) 10 E) 12

10. Bir otomobil 2 litre benzin ile şehir dışında 30 km, şehir içinde 3 litre benzinle 36 km yol alıyor.

Bu otomobil 16 litre benzinle 201 km yol aldığına göre, şehir içinde kaç km yol almıştır?

A) 12 B) 13 C) 14 D) 15 E) 16

11. Bir baba üç çocuğu için belli bir miktar bilye almıştır. Çocukların her birine ilk önce yirmişer bilye vermiştir. Kalan bilyelerin yarısını tekrar birinci çocuğa verirken, kalan bilyeleri ise diğer iki kardeşe eşit olarak paylaştırmıştır.

İkinci çocuk toplam 50 bilye aldığına göre, birinci çocuk toplam kaç bilye almıştır?

A) 50 B) 60 C) 70 D) 80 E) 90

12. Faruk bir bilet kuyruğunda baştan (3n + 4). sırada, sondan (n + 5). sıradadır.

Kuyrukta 40 kişi olduğuna göre, Faruk baştan kaçıncı sıradadır?

A) 28 B) 29 C) 30 D) 31 E) 32

13. Bir salonda 45 erkek ve 9 kadın vardır.

Bu salonu kaç evli çift gelirse erkek sayısı, kadın sayısının 4 katı olur?

A) 1 B) 2 C) 3 D) 4 E) 5

14. Melih belli bir yolun tamamını eşit adımlarla 40 adımda alıyor. Melih, her bir adımını 21 cm kısaltınca aynı yolu 60 adımda alıyor.

Buna göre, yolun tamamı kaç cm'dir?

A) 2360 B) 2420 C) 2450 D) 2480 E) 2520

MURAT YAYINLARI

/muratyayincilik

15. 60 soruluk bir sınava giren bir öğrenciye, doğru cevapladığı her soru için 5 puan verilirken yanlış cevapladığı her soru için 2 puanı siliniyor.

Bu öğrenci bütün soruları cevaplayarak 209 puan aldığına göre, kaç soruya yanlış cevap vermiştir?

A) 9 B) 10 C) 11 D) 12 E) 13

16. Bir kumbaraya 36 tane madeni para atılıyor. Bu paraların bir bölümü 50 kuruş, gerisi de 1 liradır.

Kumbaraya toplam 20 lira tutarında para atıldığına göre, bu paralardan kaç tanesi 1 liradır?

A) 1 B) 2 C) 3 D) 4 E) 5

17. Kitaplığında roman, şiir ve bilimsel kitapları bulunan İlber'e "Kitaplığında kaç tane kitap vardır?" diye sorulduğunda İlber "Romanları saymazsanız 64, şiir kitaplarını saymazsanız 36, bilimsel kitapları saymazsanız 40 tane kitap var." cevabını veriyor.

Buna göre, İlber'in kitaplığında toplam kaç kitap vardır?

A) 70 B) 72 C) 75 D) 78 E) 80

18. Eşit bölmeli homojen çubuk 15 eşit parçaya bölünmüştür. Her bir parçanın boyu 6 cm daha uzun olsaydı çubuk 12 eşit parçaya bölünebilecekti.

Buna göre, çubuk kaç cm'dir?

A) 320 B) 330 C) 350 D) 360 E) 400

19. İki arkadaşın birlikte yaptığı bir kahvaltıda Burak, Esra'dan 2 bardak fazla çay içmiş ve bu iki arkadaş çaylarına toplam 21 şeker atmıştır.

Her bir bardağa Burak 3 şeker, Esra ise 2 şeker attığına göre, Burak kaç bardak çay içmiştir?

A) 3 B) 4 C) 5 D) 6 E) 7

20. **a tane kalemin fiyatı b lira ve 2a tane silginin fiyatı b liradır. 3 tane kalem ve 3 tane silgi alan biri 1 tane silginin fiyatının kaç katını ödemiş olur?**

A) 6 B) 8 C) 9 D) 10 E) 12

MURAT YAYINLARI

Açıklamalar • TEST 16

1. A

Sayıya x dersek

$7x - 4 = (x + 5) \cdot 4$

$7x - 4 = 4x + 20$

$7x - 4x = 20 + 4$

$3x = 24$

$x = 8$

2. D

Sayıya a dersek

$\frac{6a-18}{2} = a + 5$

$6a - 18 = 2a + 10$

$6a - 2a = 10 + 18$

$4a = 28$

$a = 7$

3. C

II. sayı x ise I. sayı x + 7, III. sayı x + 10'dur.

$x + (x + 7) + (x + 10) = 74$

$3x + 17 = 74$

$3x = 74 - 17$

$3x = 57$

$x = 19$

III. sayı $19 + 10 = 29$ olur.

4. E

İlhan	Serhat
x	7x
x + 20	7x – 20

$7x - 20 = (x + 20) \cdot 3$

$7x - 20 = 3x + 60$

$7x - 3x = 60 + 20$

$4x = 80$

$x = 20$

Serhat'ın parası, İlhan'dan

$7 \cdot 20 - 20 = 120$ lira fazladır.

5. B

Merdivendeki basamak sayısı M ise

$\underset{(3)}{\frac{M}{2}} - \underset{(2)}{\frac{M}{3}} = 9$

$\frac{3M-2M}{6} = 9$

$M = 6 \cdot 9 = 54$

6. B

Sınıfta x tane sıra varsa

Sınıf $= 3x + 9 = 4x + 1$

$4x - 3x = 9 - 1$

$x = 8$

Sınıf $= 3 \cdot 8 + 9 = 33$

7. C

Sınıfta x tane sıra varsa

Sınıf $= 2x + 7 = 3.(x-2)$

$2x + 7 = 3x - 6$

$7 + 6 = 3x - 2x$

$x = 13$

Sınıf $= 2 \cdot 13 + 7 = 33$

8. C

2 dolar 7 lira ise 1 dolar 3,5 liradır.

1 euro x lira ise

$5 \cdot x = 6.3,5$

$5x = 21$

$x = 4,2$ lira

210 liraya $\frac{210}{4,2} = 50$ euro alabilir.

9. A

4 puanı silindiyse 2 atışı isabet etmemiştir.

Geri kalan 15 atışın x tanesi beyaz bölgeye,

15 – x tanesi taralı bölgeye isabet etmiştir.

$10 \cdot x + 5(15 - x) - 4 = 106$

$10x + 75 - 5x - 4 = 106$

$5x + 71 = 106$

$5x = 106 - 71$

$5x = 35$

$x = 7$

10. B

Şehir dışında 1 litre benzinle 15 km, şehir içinde 1 litre benzinle 12 km yol alır. Şehir içinde x litre benzin tüketiyorsa, şehir dışında 16 – x litre benzin tüketir.

$12 \cdot x + 15 \cdot (16 - x) = 201$

$12x + 240 - 15x = 201$

$240 - 3x = 201$

$3x = 39$

$x = 13$

MURAT YAYINLARI

/muratyayincilik

11. D

I	II	III
20	20	20
+ 2x	+ x	+ x
20 + 2x	20 + x	20 + x

20 + x = 50 ise x = 30 olur.
I. çocuk 20 + 2 · 30 = 80 bilye alır.

12. A

$$(3n + 4) + (n + 5) - 1 = 40$$
$$3n + 4 + n + 5 - 1 = 40$$
$$4n = 32$$
$$n = 8$$

Baştan 3 · 8 + 4 = 28 sıradadır.

13. C

x tane çift gelirse; erkek sayısı 45 + x, kadın sayısı 9 + x olur.

$$45 + x = 4.(9 + x)$$
$$45 + x = 36 + 4x$$
$$45 - 36 = 4x - x$$
$$9 = 3x$$
$$3 = x$$

14. E

Yol x cm ise

$$\frac{x}{40}_{(3)} - \frac{x}{60}_{(2)} = 21$$

$$\frac{3x-2x}{120} = 21$$

$$x = 21 \cdot 120 = 2520 \text{ cm}$$

15. E

x soruya yanlış cevap verdiyse 60 – x soruya doğru cevap vermiştir.

$$5 \cdot (60 - x) - 2 \cdot x = 209$$
$$300 - 5x - 2x = 209$$
$$300 - 7x = 209$$
$$300 - 209 = 7x$$
$$91 = 7x$$
$$13 = x$$

16. D

x tane 1 lira varsa 36 – x tane 50 kuruş vardır.

$$x \cdot 1 + (36 - x) \cdot 0,5 = 20$$
$$x + 18 - 0,5x = 20$$
$$0,5x = 20 - 18$$
$$0,5x = 2$$
$$x = 4$$

17. A

$$Ş + B = 64$$
$$R + B = 36$$
$$+ \quad R + Ş = 40$$
$$2 \cdot Ş + 2 \cdot R + 2 \cdot B = 140$$
$$2 \cdot (Ş + R + B) = 140$$
$$Ş + R + B = 70$$

Kitaplıkta toplam 70 kitap vardır.

18. D

Çubuğun boyu A cm ise

$$\frac{A}{12}_{(5)} - \frac{A}{15}_{(4)} = 6$$

$$\frac{5A-4A}{60} = 6$$

$$A = 6 \cdot 60 = 360 \text{ cm}$$

19. C

Burak x bardak çay içtiyse Esra x – 2 bardak çay içmiştir.

$$3x + 2 \cdot (x - 2) = 21$$
$$3x + 2x - 4 = 21$$
$$5x = 21 + 4$$
$$5x = 25$$
$$x = 5$$

20. C

a tane kalem b lira ise 1 tane kalem $\frac{b}{a}$ lira olur.

2a tane silgi b lira ise 1 tane silgi $\frac{b}{2a}$ lira olur.

$$3 \cdot \frac{b}{a}_{(2)} + 3 \cdot \frac{b}{2a} = k \cdot \frac{b}{2a}$$

$$\frac{6b + 3b}{2a} = k \cdot \frac{b}{2a}$$

$$9b = k \cdot b$$
$$k = 9$$

9 katı kadar para ödemiş olur.

MURAT YAYINLARI

Sayı Problemleri - II • TEST 17

1. **İki sayıdan biri diğerinin 3 katının 4 eksiğidir. Bu iki sayının toplamının farkına oranı 3 olduğuna göre, küçük sayı kaçtır?**

A) 4 B) 5 C) 6 D) 7 E) 8

2. **Her gün bir önceki günün 2 katı kadar para harcayan Metin dördüncü gün, ikinci günden 54 lira fazla harcadığına göre beşinci gün kaç lira harcar?**

A) 108 B) 112 C) 120 D) 144 E) 160

3. Babası, Celal'e matematiği sevdirmek için bir oyun bulmuş ve oyunun kuralını anlatmıştır. 23 gün boyunca Celal'e her gün bir matematik sorusu soracağını ve Celal'e çözdüğü her soru için 1 lira, çözemediği her soru için 50 kuruş vereceğini söylemiştir.

Babası, Celal'e 23 gün sonunda toplam 18 lira verdiğine göre, Celal kaç soruyu çözebilmiştir?

A) 11 B) 12 C) 13 D) 14 E) 15

4. Bir bahçede bulunan erikler, makineyle 12 saatte, elle 60 saatte toplanabilmektedir. Bu bahçede ilk olarak makine ile 8 saat toplama işlemi yapılmış ve 8 saatin sonunda makine bozulunca geri kalan erikler elle toplamıştır.

Buna göre, bu bahçede elle kaç saat toplama işlemi yapılmıştır?

A) 12 B) 14 C) 16 D) 18 E) 20

5. Bir takı tasarımcısının elinde 56 siyah, 46 kırmızı, 38 yeşil boncuk vardır. Bu kişi elindeki boncukları 3 siyah, 2 kırmızı, 1 yeşil olmak üzere sırasıyla dizmektedir.

Elindeki boncuklardan herhangi biri bitince dizme işlemi biteceğine göre, dizim bittiğinde tasarımcının elinde kaç boncuk kalır?

A) 34 B) 32 C) 30 D) 28 E) 26

6. Bir tören alanında 4'lü ve 8'li sıralanmış iki grup asker bulunmaktadır. 8'li sıradakilerin tamamı 4'lü olarak sıralanırsa toplam sıra sayısı 8 artıyor.

İlk durumda 4'lü sıra sayısı, 8'li sıra sayısının 3 katı olduğuna göre, tören alanında toplam kaç asker vardır?

A) 160 B) 156 C) 152 D) 148 E) 144

MURAT YAYINLARI

/muratyayincilik

7. Bir fabrikanın imalat ve paketleme birimlerinde çalışan kadın ve erkek sayılarıyla ilgili aşağıdaki bilgiler verilmiştir.

- Fabrika çalışan kadın ve erkek sayıları eşittir.
- İmalat biriminde çalışan kadın sayısı, imalat biriminde çalışan erkek sayısının 3 katıdır.
- Paketleme biriminde çalışan erkek sayısı, imalat biriminde çalışan erkek sayısının 4 katıdır.

Bu fabrikada imalat veya paketleme biriminde çalışan toplam 60 kişi olduğu bilindiğine göre, imalat biriminde çalışan toplam kaç kişi vardır?

A) 15 B) 18 C) 21 D) 24 E) 30

8. Üç arkadaştan ikincisi; birinciye 2 lira, üçüncüye 4 lira verirse birinci, ikinci ve üçüncünün paraları sırasıyla 3,5 ve 9 sayıları ile orantılı olacaktır.

Bu arkadaşların paraları toplamı 102 lira olduğuna göre, başlangıçta üçüncünün kaç lirası vardır?

A) 42 B) 44 C) 48 D) 50 E) 56

9. Bir bilet kuyruğunda Emre önden 15. sırada, Levent ise sondan 16. sıradadır.

Emre ile Levent arasında 6 kişi olup Levent, Emre'den önde olduğuna göre, bu kuyrukta kaç kişi vardır?

A) 21 B) 22 C) 23 D) 24 E) 25

10. Bir bilgi yarışmasında yarışmacılara 40 adet soru soruluyor. Yarışmacıların her doğru cevabı için 5 puan verilip her yanlış cevabı için 3 puanı siliniyor. Yarışmayı tamamlayan Gül'ün 4 boşu olup 124 puan almıştır.

Buna göre, Gül kaç soruyu doğru cevaplamıştır?

A) 29 B) 28 C) 27 D) 26 E) 24

11. **Hindi sürüsüne sahip bir köylü, 4 hindiye karşılık 1 keçi takas ederek 40 tane keçi alıyor. Bu durumda sürüdeki hayvanların toplam değeri 4000 lira artıyor. 1 hindinin piyasa değeri 100 lira olduğuna göre 1 keçinin fiyatı kaç liradır?**

A) 400 B) 450 C) 500 D) 600 E) 640

12. Bir havayolu şirketi, yolcularına içecek veya yemek ikram etmektedir. Her içeceğin servisi 45 saniye, her yemeğin servisi 4,5 dakika sürmektedir.

Bu havayolu şirketi ile seyahat eden 50 yolcuya yapılan servis 60 dakika sürdüğüne göre, yolcuların kaçına yemek servisi yapılmıştır?

A) 5 B) 6 C) 7 D) 8 E) 9

MURAT YAYINLARI

13. Bir iş yerinde çalışanlar,

A) Aylık 2000 TL

B) Aylık 1350 TL ve buna ek olarak her bir birim mal satışından 19 TL olmak üzere, iki tip ücret seçeneğinden birini seçmektedirler. Aynı tarihte işe başlayan Aykut A seçeneğini, Bekir ise B seçeneğini tercih etmiştir.

İlk ayın sonunda Aykut, Bekir'den daha az ücret aldığına göre, Bekir en az kaç birim mal satmıştır?

A) 16 B) 17 C) 33 D) 35 E) 40

14. Bir kargo şirketi, anlaşmalı olduğu firmanın her bir paketini belirli bir ağırlığa kadar ücretsiz, sonraki her 50 gram için ise belli bir ücret almaktadır.

- 600 gramlık bir paket için 7 lira alınmıştır.
- Toplamda 600 gram olan ve belirlenmiş olan ağırlığı geçen iki paket için 2 lira alınmıştır.

Buna göre, kargo şirketinin belirlemiş olduğu kargo ağırlığı kaç gramdır?

A) 100 B) 150 C) 200 D) 250 E) 300

15. 4 turdan oluşan bir bayrak yarışında her turun sonunda birer koşucu beklemekte ve her koşucu turu tamamladıktan sonra bayrağı bir sonraki koşucuya vermektedir. 4. koşucu kendi turunu tamamlayınca yarış sona ermektedir.

Her koşucu kendi turunu kendinden önceki koşucudan 2 saniye daha kısa sürede tamamlamıştır.

Bayrak yarışı 400 saniye sürdüğüne göre, ilk koşucu parkuru kaç saniyede tamamlamıştır?

A) 103 B) 102 C) 101 D) 100 E) 99

16. 4 yanlışın 1 doğruyu götürdüğü bir sınavda her net için 6 puan verilmektedir.

60 soru işaretleyen bir öğrenci 300 puan aldığına göre, kaç tane doğru sorusu vardır?

A) 48 B) 49 C) 50 D) 51 E) 52

MURAT YAYINLARI

/muratyayincilik

17. **Uzunlukları aynı olan iki mum aynı anda yanmaya başladıklarında biri 4 saatte, diğeri 6 saatte tamamıyla yanarak bitmektedir. Bu iki mum aynı anda yakıldıktan kaç saat sonra birinin boyu diğerinin boyunun 4 katı olur?**

A) 3 B) 3,2 C) 3,6 D) 4 E) 4,2

18. Bir kutuda bulunan bir miktar bilyeyi Erhan ve Gökhan adlı iki çocuk aşağıdaki bilgilere göre alıyor.

- Bilye alma işlemi Erhan'ın 1 bilye alması ile başlıyor.
- Sırası gelen çocuk, kutuda yeterince bilye kalmışsa bir önceki seferde diğer çocuğun aldığı bilyelerin bir fazlası kadar bilye alıyor.
- Kutuda yeteri kadar bilye kalmamışsa sırası gelen çocuk kutudaki bütün bilyeleri alıyor.

Gökhan toplamda 219 bilye aldığına göre, başlangıçta kutuda kaç bilye vardır?

A) 455 B) 453 C) 451 D) 444 E) 443

19. Bir sokağın her iki yanına evler inşa edilmiştir. Sokağın bir tarafındaki evler ardışık tek doğal sayılar ile karşı tarafındaki evler ardışık çift doğal sayılar ile numaralandırılmıştır.

- Buse'nin evi tek numaralı taraftadır.
- Melis'in evi çift numaralı taraftadır.
- Buse'nin ev numarası ile Melis'in ev numarası arasındaki fark 35'tir.
- Melis'in ev numarasından küçük olan evlerin numaralarının toplamı 325'tir.

Buna göre, Buse kaç numaralı evde oturuyordur?

A) 60 B) 61 C) 62 D) 63 E) 64

20. A şantiyesindeki işçi sayısı, B şantiyesindeki işçi sayısının 3 katıdır. A'dan 2 işçi işten ayrılırken 6 işçi de B şantiyesine geçerse A ve B şantiyelerinde eşit sayıda işçi oluyor.

Buna göre, başlangıçta A şantiyesindeki işçi sayısı kaçtır?

A) 33 B) 30 C) 27 D) 24 E) 21

MURAT YAYINLARI

Açıklamalar • TEST 17

1. A

Küçük sayı x ise, büyük sayı 3x – 4 olur.

$$\frac{3x-4+x}{3x-4-x} = 3$$

$$\frac{4x-4}{2x-4} \not= 3$$

$4x - 4 = 6x - 12$

$12 - 4 = 6x - 4x$

$8 = 2x$

$4 = x$

2. D

I. Gün ⇒ x lira

II. Gün ⇒ 2x lira

III. Gün ⇒ 4x lira

IV. Gün ⇒ 8x lira

V. Gün ⇒ 16x lira

$8x - 2x = 54$

$6x = 54$

$x = 9$

Beşinci gün $16 \cdot 9 = 144$ lira harcar.

3. C

Çözebildiği soru sayısı x ise çözemediğin soru sayısı 23 – x tir.

$x \cdot 1 + (23 - x) \cdot 0{,}5 = 18$

$x + 11{,}5 - 0{,}5x = 18$

$0{,}5x = 18 - 11{,}5$

$0{,}5x = 6{,}5$

$x = 13$

4. E

Bahçede 60x erik olsun.

Makineyle 1 saatte: 5x tane elma

Elle 1 saatte: x tane elma toplanır.

Makine ile 8 saat çalışılınca $8 \cdot 5x = 40x$ elma toplanır.

Geriye kalan 60x–40x=20x elma makineyle $\frac{20x}{x} = 20$

saatte toplanır.

5. B

x tane yeşil, 2x tane kırmızı, 3x tane siyah kullanılır.

56 tane siyah boncuk var ama kullanılan boncuk sayısı 3'ün katı olacağından 54 tane siyah boncuk kullanılır.

$3x = 54$

$x = 18$

Toplamda $3 \cdot 18 = 54$ tane siyah, $2 \cdot 18 = 36$ tane kırmızı, 18 tane yeşil boncuk kullanılmış olur.

Kalan boncuk sayısı;

$(56 - 54) + (46 - 36) + (38 - 18) = 2 + 10 + 20$

$= 32$'dir.

6. A

	4'lü	8'li	
Sıra sayısı	3a	a	8'li askerler 4'erli sıra olursa sıra sayısı 2a olur.
Asker sayısı	12a	8a	2a–a=8 ⇒ a=8

Toplam asker $12a + 8a = 20\,a$

$= 20.8$

$= 160$ olur.

7. D

	İmalat	Paketleme
Kadın	3x	2x
Erkek	x	4x

$3x + 2x + x + 4x = 60$

$10x = 60$

$x = 6$

Üretim biriminde $4x = 4 \cdot 6 = 24$ kişi çalışmaktadır.

MURAT YAYINLARI

/muratyayincilik

8. D

	I	II	III
Son durum	3x	5x	9x
İlk durum	3x – 2	5x + 6	9x – 4

$3x - 2 + 5x + 6 + 9x - 4 = 102$

$17x = 102$

$x = 6$

Başlangıçta üçüncünün $9 \cdot 6 - 4 = 50$ lirası vardır.

9. C

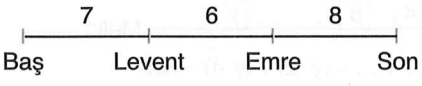

Toplam kişi sayısı = 7 + 1 + 6 + 1 + 8 = 23

10. A

x soruya doğru cevap verdiyse 36 – x soruya yanlış cevap vermiştir.

$5 \cdot x - 3 \cdot (36 - x) = 124$

$5x - 108 + 3x = 124$

$8x = 124 + 108$

$8x = 232$

$x = 29$

11. C

4 hindi = 1 keçi ⇒ 40 keçi = 160 hindi

160 hindi $160 \cdot 100 = 16000$ liradır.

40 keçi = 16000 + 4000 = 20000 lira ise

1 keçi = 500 liradır.

12. B

x tane yemek servisi yapıldıysa 50 – x tane içecek servisi yapılmıştır.

4,5 dakika = 270 saniye

60 dakika = 3600 saniye

$270 \cdot x + 45 \cdot (50 - x) = 3600$

$270 \cdot x + 2250 - 45x = 3600$

$225x = 3600 - 2250$

$225x = 1350$

$x = 6$

13. D

$2000 < 1350 + 19 \cdot x$

$650 < 19 \cdot x$

$\frac{650}{19} < x$

Bekir en az 35 birim mal satmıştır.

MURAT YAYINLARI

14. D

Belirlenmiş sınır x gram ise

600 – x gramlık fazlalık için 7 TL

600 – 2x gramlık fazlalık için 2 TL

$$(600 - x) \cdot 2 = (600 - 2x) \cdot 7$$
$$1200 - 2x = 4200 - 14x$$
$$14x - 2x = 4200 - 1200$$
$$12x = 3000$$
$$x = 250 \text{ gram}$$

15. A

I. Tur	II. Tur	III. Tur	IV. Tur
x sn	x – 2 sn	x – 4 sn	x – 6 sn

$$x + x - 2 + x - 4 + x - 6 = 400$$
$$4x - 12 = 400$$
$$4x = 412$$
$$x = 103 \text{ saniye}$$

16. E

$$\left(\text{Doğru} - \frac{\text{Yanlış}}{4}\right) \cdot \begin{pmatrix}\text{Her net başına}\\ \text{puan}\end{pmatrix} = \begin{pmatrix}\text{Toplam}\\ \text{Puan}\end{pmatrix}$$

$$\left(\frac{x}{\underset{(4)}{1}} - \frac{60-x}{4}\right) \cdot 5 = \cancel{300}^{50}$$

$$\frac{4x - 60 + x}{4} = 50$$

$$5x - 60 = 200$$
$$5x = 260 \Rightarrow x = 52$$

17. C

Mumların uzunlukları 12 cm olsun.

I. mum, 1 saatte 3 cm yanar.

II. mum, 1 saatte 2 cm yanar.

x saat sonra;

$$(12 - 3x) \cdot 4 = 12 - 2x$$
$$48 - 12x = 12 - 2x$$
$$48 - 12 = 12x - 2x$$
$$36 = 10x$$
$$x = 3{,}6$$

18. D

Erhan	Gökhan
1	2
3	4
5	6
	⋮
2n – 1	2n
2n + 1	+ m
	219

$$2 + 4 + 6 + \ldots + 2n + m = 219$$
$$n \cdot (n+1) + m = 219$$
$$\downarrow \qquad \downarrow$$
$$14 \qquad 9$$

O halde kutudaki toplam bilye sayısı;

1 + 2 + 3 + ... + 29 + 9 = 444'tür.

19. B

Buse: 1 3 5 _ _ _ _ x

Melis: 2 4 6 _ _ _ _ y

$$1 + 2 + \ldots + (y-2) + (y-1) = 325$$
$$\frac{y \cdot (y-1)}{2} = 325$$
$$y = 26$$

Melis 26. sıradadır.

Buse ise 26 + 35 = 61. sıradadır.

20. E

	A	B
Başlangıç →	3x	x
A'dan 2 işçi ayrılınca →	3x – 2	x
A'dan B'ye 6 işçi geçerse	3x – 8	x + 6

$$3x - 8 = x + 6$$
$$3x - x = 8 + 6$$
$$2x = 14$$
$$x = 7$$

Başlangıçta A şantiyesinde 7 · 3 = 21 işçi çalışmaktadır.

MURAT YAYINLARI

/muratyayincilik

Kesir Problemleri • TEST 18

1. $\frac{8}{3}$ **kesrinin pay ve paydasına hangi sayı eklenirse bu kesrin yarısı elde edilir?**

A) 12 B) 9 C) 6 D) 4 E) 3

2. Değeri $\frac{2}{5}$ olan bir kesrin payına ve paydasına 4 eklenirse elde edilen bu yeni kesrin değeri $\frac{1}{2}$ oluyor.

Buna göre, elde edilen son kesrin payı kaçtır?

A) 8 B) 10 C) 12 D) 14 E) 16

3. Bir sınıftaki öğrencilerin $\frac{2}{3}$'ü erkektir. Bu sınıfa 3 erkek öğrenci katılıp sınıftan 2 kız öğrenci ayrıldığında erkek öğrencilerin sayısı, kız öğrencilerin sayısının 3 katına eşit oluyor.

Buna göre, başlangıçta sınıfta kaç kız öğrenci vardır?

A) 8 B) 9 C) 10 D) 12 E) 14

4. **Bir miktar paranın $\frac{1}{3}$'ü harcanıyor. Geriye kalan paranın $\frac{1}{6}$'sı 80 lira olduğuna göre, başlangıçtaki para kaç liradır?**

A) 500 B) 560 C) 600 D) 640 E) 720

5. **Bir sınavdaki soruların $\frac{1}{4}$'ü Türkçe, $\frac{2}{3}$'ü matematik, geri kalanı da tarih sorusudur. Bu sınavdaki Türkçe sorularının sayısı, tarih sorularının sayısından 10 fazla olduğuna göre, bu sınavda toplam kaç soru sorulmuştur?**

A) 90 B) 80 C) 70 D) 60 E) 50

6. Bir sınıftaki öğrencilerin $\frac{3}{7}$'sinin 3 fazlası erkek öğrencidir.

Sınıfta 13 kız öğrenci olduğuna göre, erkek öğrenci sayısı kaçtır?

A) 9 B) 12 C) 15 D) 18 E) 21

7. Bir kitabın $\frac{1}{6}$'sını okuyan bir öğrenci 28 sayfa daha okursa kitabın $\frac{3}{4}$'ünü okumuş olacaktır.

Buna göre, kitabın tamamı kaç sayfadır?

A) 42 B) 48 C) 60 D) 72 E) 84

8. **Rıdvan cebindeki paranın $\frac{2}{5}$'i ile ayakkabı, $\frac{1}{4}$'ü ile gömlek alıyor. Rıdvan'ın cebinde 105 lirası kaldığına göre, bütün parası kaç liradır?**

A) 480 B) 400 C) 360 D) 320 E) 300

MURAT YAYINLARI

9. Bir deponun $\frac{3}{8}$'i su ile doludur. Bu suyun $\frac{1}{4}$'ü kullanırsa deponun dolması için 46 litre daha suya ihtiyaç duyulmaktadır.

Buna göre, bu deponun tamamı kaç litre su alır?

A) 64 B) 72 C) 80 D) 84 E) 96

10. Parasının $\frac{2}{9}$'unu harcadıktan sonra kalan parasının $\frac{5}{8}$'ini arkadaşına veren Yasin'in geriye 105 lirası kalmıştır.

Buna göre, Yasin'in başlangıçtaki parası kaç liradır?

A) 450 B) 420 C) 390 D) 360 E) 300

11. **Bir kitaplıktaki kitapların $\frac{2}{5}$'i roman, $\frac{1}{3}$'ü şiir kitabı, geriye kalanı da ansiklopedidir. Romanların sayısı, şiir kitaplarının sayısından 4 fazla olduğuna göre, bu kitaplıkta kaç tane ansiklopedi vardır?**

A) 15 B) 16 C) 18 D) 20 E) 21

12. **Bir derneğin üyelerinin $\frac{1}{4}$'ü işçi, $\frac{1}{8}$'i esnaf ve bu iki grubun farkından 4 fazlası mühendistir. Geriye kalan 12 kişi de doktor olduğuna göre, bu derneğin kaç üyesi vardır?**

A) 60 B) 56 C) 48 D) 40 E) 32

13. **Her ay sonunda kalan borcunun $\frac{1}{3}$'ünü ödeyen bir kimsenin 3 ay sonunda 400 lira borcu kalıyor. Bu kimsenin başlangıçta kaç lira borcu vardır?**

A) 1000 B) 1200 C) 1350 D) 1500 E) 1800

14. **$\frac{4}{9}$'u erkek olan bir sınıftan kız öğrencilerin $\frac{1}{10}$'u, erkeklerin $\frac{1}{4}$'ü ayrılıyor. Kalan kız öğrencilerin, kalan erkek öğrencilere oranı kaçtır?**

A) $\frac{4}{3}$ B) $\frac{3}{2}$ C) 1 D) $\frac{3}{4}$ E) $\frac{2}{3}$

15. **Bir yolun $\frac{3}{5}$'ini giden bir araç 30 km daha yol alırsa kalan yol, gitmiş olduğu yolun $\frac{1}{2}$'si oluyor. Buna göre, yolun tamamı kaç km'dir?**

A) 650 B) 600 C) 550 D) 500 E) 450

16. **Belirli bir yükseklikten bırakılan top, yere her vuruşundan sonra bir önceki yüksekliğinin $\frac{3}{4}$'ü kadar yükselmektedir. Top 3. defa yere vuruşundan sonra 81 cm yükseldiğine göre, topun başlangıçtaki yüksekliği kaç cm'dir?**

A) 192 B) 180 C) 172 D) 160 E) 144

MURAT YAYINLARI

17. Bir parça telin ucundan $\frac{2}{9}$'u kesildiğinde telin orta noktası eski durumuna göre 6 cm kayıyor.

Buna göre, bu telin tamamı kaç cm'dir?

A) 80 B) 72 C) 63 D) 54 E) 45

18. Su ile dolu bir kabın ağırlığı 4 kg gelmektedir. Suyun $\frac{1}{5}$'i döküldükten sonra kabın ağırlığı 3,3 kg oluyor.

Buna göre, boş kabın ağırlığı kaç kg'dır?

A) 0,3 B) 0,4 C) 0,5 D) 0,6 E) 0,7

MURAT YAYINLARI

19. Bir miktar para 12 kişi arasında şu şekilde paylaştırılmıştır: İlk iki kişinin her biri tüm paranın $\frac{1}{7}$'sini alıyor, geriye kalan para 10 kişiye eşit olarak paylaştırılıyor.

Buna göre, en çok para alan kişi, en az para alan kişinin kaç katı kadar para almıştır?

A) 1,5 B) 2 C) 2,5 D) 3 E) 4

20. Bir şirkette çalışan personellerin $\frac{1}{5}$'i A servisine, $\frac{1}{2}$'si B servisine, $\frac{3}{20}$'si C servisine gönderilince geriye 9 personel kalıyor.

Buna göre, bu şirkette A servisine giden kaç personel vardır?

A) 18 B) 16 C) 14 D) 12 E) 10

Açıklamalar • TEST 18

1. A

$\frac{8+x}{3+x} \times \frac{4}{3}$

$3 \cdot (8+x) = 4 \cdot (3+x)$

$24 + 3x = 12 + 4x$

$24 - 12 = 4x - 3x$

$12 = x$

2. C

$\frac{2k+4}{5k+4} \times \frac{1}{2}$

$2 \cdot (2k+4) = 5k+4$

$4k + 8 = 5k + 4$

$8 - 4 = 5k - 4k$

$k = 4$

Son kesrin payı $2 \cdot 4 + 4 = 12$'dir.

3. B

Sınıf $3x$ kişiyse $2x$'i erkek, x'i kızdır. 3 erkek gelir, 2 kız ayrılırsa

$2x + 3 = (x-2) \cdot 3$

$2x + 3 = 3x - 6$

$6 + 3 = 3x - 2x$

$x = 9$

Başlangıçta 9 kız öğrenci vardır.

4. E

Paranın tamamı $18x$ ise $18x \cdot \frac{1}{3} = 6x$'i harcanıyor.

Kalan $12x$'in $\frac{1}{6}$'sı $12x \cdot \frac{1}{6} = 2x$ olur.

$2x = 80$

$x = 40$

Başlangıçtaki para $18 \cdot 40 = 720$ liradır.

5. D

Sınavda $12x$ tane soru varsa

Türkçe $= 12x \cdot \frac{1}{4} = 3x$

Matematik $= 12x \cdot \frac{2}{3} = 8x$

Tarih $= 12x - 3x - 8x = x$

$3x - x = 10$

$2x = 10$

$x = 5$

Sınavda toplam $12 \cdot 5 = 60$ soru vardır.

6. C

Sınıf $= 7x$

Erkek $= 7x \cdot \frac{3}{7} + 3 = 3x + 3$

Kız $= 13$

$7x = 3x + 3 + 13$

$7x - 3x = 16$

$4x = 16$

$x = 4$

Sınıftaki erkek sayısı $3 \cdot 4 + 3 = 15$'tir.

7. B

Kitap x sayfa ise

$\frac{x}{6} + 28 = \frac{3x}{4}$

$\underset{(3)}{\frac{3x}{4}} - \underset{(2)}{\frac{x}{6}} = 28$

$\frac{9x-2x}{12} \times 28$

$7x = \cancel{28}^{4} \cdot 12$

$x = 48$

MURAT YAYINLARI

/muratyayincilik

8. E

Cebinde 20x lirası varsa

Ayakkabı = $20x \cdot \frac{2}{5} = 8x$

Gömlek = $20x \cdot \frac{1}{4} = 5x$

$20x = 8x + 5x + 105$

$20x = 13x + 105$

$7x = 105$

$x = 15$

Paranın tamamı $20 \cdot 15 = 300$ liradır.

9. A

Dolu depo 32x su alıyorsa

I. Durum = $32x \cdot \frac{3}{8} = 12x$

Kullanılan = $12x \cdot \frac{1}{4} = 3x$

Kalan = $12x - 3x = 9x$

$32x = 9x + 46$

$32x - 9x = 46$

$23x = 46$

$x = 2$

Dolu depoda $32 \cdot 2 = 64$ litre su alır.

10. D

Yasin'in başlangıçta 72x lirası varsa

Harcama = $72x \cdot \frac{2}{9} = 16x$

Kalan = $72x - 16x = 56x$

Arkadaşa = $56x \cdot \frac{5}{8} = 35x$

Kalan = $56x - 35x = 21x$

$21x = 105$

$x = 5$

Başlangıçta $72 \cdot 5 = 360$ lira vardır.

11. B

Kitaplıkta 15a tane kitap varsa

Roman = $15a \cdot \frac{2}{5} = 6a$

Şiir = $15a \cdot \frac{1}{3} = 5a$

Ansiklopedi = $15a - 6a - 5a = 4a$

$6a - 5a = 4$

$a = 4$

Ansiklopedi sayısı $4 \cdot 4 = 16$'dır.

12. E

Dernekte 8k tane üye varsa

İşçi = $8k \cdot \frac{1}{4} = 2k$

Esnaf = $8k \cdot \frac{1}{8} = k$

Mühendis = $2k - k + 4 = k + 4$

Doktor = 12

$8k = 2k + k + k + 4 + 12$

$8k = 4k + 16$

$4k = 16$

$k = 4$

Dernekte $8 \cdot 4 = 32$ üye vardır.

13. C

Borcun tamamı 27x lira ise

I. Ay ödenen = $27x \cdot \frac{1}{3} = 9x$

Kalan = $27x - 9x = 18x$

II. Ay ödenen = $18x \cdot \frac{1}{3} = 6x$

Kalan = $18x - 6x = 12x$

III. Ay ödenen = $12x \cdot \frac{1}{3} = 4x$

Kalan = $12x - 4x = 8x = 400$

$x = 50$

Borcun tamamı $27 \cdot 50 = 1350$ liradır.

MURAT YAYINLARI

14. B

Sınıfta 18x öğrenci varsa

Erkek sayısı = $18x \cdot \frac{4}{9} = 8x$

Ayrılan erkek sayısı = $8x \cdot \frac{1}{4} = 2x$

Kalan erkek sayısı = $8x - 2x = 6x$

Kız sayısı = $18x - 8x = 10x$

Ayrılan kız sayısı = $10x \cdot \frac{1}{10} = x$

Kalan kız sayısı = $10x - x = 9x$

$$\frac{\text{Kalan kız öğrenci sayısı}}{\text{Kalan erkek öğrenci sayısı}} = \frac{9x}{6x} = \frac{3}{2}$$

15. E

Yolun tamamı 5x ise

	Gidilen yol	Kalan yol
I. Durum	3x	2x
II. Durum	3x + 30	2x –30

$2x - 30 = (3x + 30) \cdot \frac{1}{2}$

$2 \cdot (2x - 30) = 3x + 30$

$4x - 60 = 3x + 30$

$4x - 3x = 60 + 30$

$x = 90$

Yolun tamamı $5 \cdot 90 = 450$ km'dir.

16. A

İlk yükseklik 64x ise

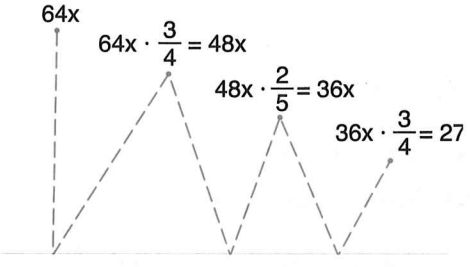

$27x = 81$

$x = 3$

İlk yükseklik $64 \cdot 3 = 192$ cm olur.

17. D

$$\text{Telin İlk Boyu} = \frac{\text{Orta Noktanın Kayma Miktarı}}{\text{Telin Kesim Oranı}} \cdot 2$$

$$= \frac{6}{\frac{2}{9}} \cdot 2$$

$$= 6 \cdot \frac{9}{2} \cdot 2$$

$= 54$ cm

18. C

İçindeki suyun $\frac{1}{5}$'i 4 – 3,3 = 0,7 kg olduğundan;

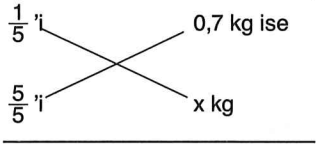

$\frac{1}{5} \cdot x = 0,7 \cdot \frac{5}{5}$

$= 3,5$ kg

Dolu kabın içinde 3,5 kg su varsa boş kap 4 – 3,5 = 0,5 kg'dır.

19. B

Paranın tamamı 70x lira ise I. ve II. kişinin her biri $70x \cdot \frac{1}{7} = 10x$ lira alır.

Diğerleri kalan 50x'i paylaşınca kişi başına $\frac{50x}{10} = 5x$ lira düşer.

En çok para alan, en az para alanın $\frac{10x}{5x} = 2$ katı kadar para almıştır.

20. D

Şirkette 20k tane personel varsa

A servisi = $20k \cdot \frac{1}{5} = 4k$

B servisi = $20k \cdot \frac{1}{2} = 10k$

C servisi = $20k \cdot \frac{3}{20} = 3k$

$20k = 4k + 10k + 3k + 9$

$20k = 17k + 9$

$3k = 9$

$k = 3$

A servisine $4 \cdot 3 = 12$ kişi gitmiştir.

MURAT YAYINLARI

Yaş Problemleri • TEST 19

1. Mert doğduğunda, Sedat 6 yaşında ve Aslı, Sedat'tan 2 yaş küçüktür.

Buna göre, Mert 12 yaşındayken Aslı kaç yaşında olur?

A) 14 B) 16 C) 18 D) 20 E) 22

2. 8 yıl önce Buse'nin babasının yaşı, Buse'nin yaşının 4 katından 7 eksik iken bugün 3 katının 12 eksiğidir.

Buna göre, Buse'nin babasının bugünkü yaşı kaçtır?

A) 39 B) 40 C) 42 D) 45 E) 48

3. **Yaşları birbirinden farklı iki kardeşin yaşları toplamı ile yaşları farkının farkı 10 olduğuna göre büyük kardeşin yaşı aşağıdakilerden hangisi olamaz?**

A) 5 B) 6 C) 7 D) 8 E) 10

4. Erkan'ın 1985 yılındaki yaşı ile 2003 yılındaki yaşının toplamı 48'dir.

Buna göre, Erkan kaç yılında doğmuştur?

A) 1968 B) 1970 C) 1972 D) 1975 E) 1978

5. Efe ile Mine'nin bugünkü yaşları toplam 32'dir. Efe, Mine'nin yaşındayken Mine'nin doğmasına daha 8 yıl vardı.

Buna göre, Mine'nin bugünkü yaşı kaçtır?

A) 6 B) 7 C) 8 D) 9 E) 10

6. Her biri ikişer yıl arayla doğmuş 5 kardeşten en büyük kardeşin yaşı, en küçük kardeşin yaşının 3 katına eşittir.

Buna göre, ortanca kardeşin yaşı kaçtır?

A) 12 B) 11 C) 10 D) 9 E) 8

7. Bir anne, kızına "Ben senin yaşındayken sene 1967 idi. Sen benim yaşıma geldiğinde ise 2019 olacak." diyor.

Buna göre, bu konuşma hangi yıl gerçekleşmiştir?

A) 1991 B) 1992 C) 1993 D) 1994 E) 1995

8. **Kenan'ın yaşı, 7 yıl önce kardeşinin yaşının 3 katıydı. 6 yıl sonra yaşları toplamı 66 olacağına göre, Kenan bugün kaç yaşındadır?**

A) 37 B) 36 C) 35 D) 34 E) 33

9. Buğra ile Özkan'ın bugünkü yaşları oranı $\frac{4}{7}$'dir. Buğra, Özkan'ın yaşına geldiğinde ikisinin yaşları toplamı 68 olacaktır.

Buna göre, Özkan bugün kaç yaşındadır?

A) 24 B) 28 C) 32 D) 35 E) 36

10. **Çetin'in yaşı; Nihat'ın yaşının 3 katı, Demir'in yaşının 4 katıdır. Demir, Çetin'in yaşına geldiğinde üçünün yaşları toplamı 92 olacağına göre, Nihat bugün kaç yaşındadır?**

A) 5 B) 6 C) 7 D) 8 E) 9

MURAT YAYINLARI

11. Tarık'ın yaşı, Ahmet'in yaşının 2 katıdır. Tarık 6 yaşındayken Ahmet'in doğmasına 2 yıl vardı.

Buna göre, Tarık'ın 3 yıl önceki yaşı kaçtır?

A) 12 B) 13 C) 14 D) 15 E) 16

12. Emre'nin yaşının İbrahim'in yaşına oranı $\frac{3}{4}$'tür. Emre'nin 4 yıl sonraki yaşı, İbrahim'in 2 yıl önceki yaşına eşittir.

Buna göre, Emre bugün kaç yaşındadır?

A) 12 B) 15 C) 18 D) 21 E) 24

13. Veli a yılının b ayında, Ayten a + 3 yılının b ayında doğmuştur.

Veli'nin bugünkü yaşı 8 olduğuna göre, Ayten'in bugünkü yaşı kaçtır?

A) 11 B) 10 C) 8 D) 5 E) 3

14. 5 kişilik bir ailenin yaş ortalaması 28'dir. Ailenin 4 yıl sonra üçüz çocukları oluyor.

Buna göre, üçüzler doğduktan 4 yıl sonra bu ailenin yaş ortalaması kaç olur?

A) 32 B) 30 C) 28 D) 26 E) 24

15.

Yaş	Kişi sayısı
22	18
25	21
26	17

Tablo bir fabrikada çalışanların sayısını ve yaşlarını göstermektedir.

Bu iş yerinden seçilen 40 kişinin yaş ortalaması 25 olduğuna göre, 22 yaşında en az kaç kişi seçilmiştir?

A) 5 B) 10 C) 15 D) 20 E) 25

16. Bir iş yerinde çalışan kadınların yaş ortalaması 26, erkeklerin yaş ortalaması 32'dir. Erkeklerin sayısı, kadınların sayısından 5 fazladır.

Erkeklerin yaşları toplamı, kadınların yaşları toplamından 220 fazla olduğuna göre, erkeklerin sayısı kaçtır?

A) 10 B) 12 C) 15 D) 18 E) 20

17. Serkan'ın yaşı iki basamaklı ab sayısıdır. Serkan'ın üç çocuğunun yaşları toplamı iki basamaklı ba sayısıdır.

5 yıl sonra Serkan'ın yaşı çocuklarının yaşları toplamının 2 katından 20 eksik olacağına göre, a + b toplamı kaçtır?

A) 3 B) 4 C) 5 D) 6 E) 7

18. Pınar'ın yaşı; Seda'nın yaşının 3 katına, Yavuz'un yaşının 4 katına eşittir. Pınar'ın yaşı, Seda'nın yaşının 2 katı olduğunda Yavuz'un yaşı 14 olacaktır.

Buna göre, Seda'nın bugünkü yaşı kaçtır?

A) 12 B) 10 C) 9 D) 8 E) 7

19. 2'si ikiz olan toplam dört kardeşten her biri kardeşlerinin yaşlarını topluyor ve 39, 43, 46 ve 46 sayılarını buluyorlar.

Buna göre, ikizlerin yaşı kaçtır?

A) 12 B) 14 C) 15 D) 17 E) 19

20. Ceyda 2 yıl sonra doğmuş olsaydı, annesinin bugünkü yaşı Ceyda'nın bugünkü yaşının 3 katı olacaktı.

Ceyda doğduğu zaman annesi 26 yaşında olduğuna göre, Ceyda'nın bugünkü yaşı kaçtır?

A) 12 B) 13 C) 14 D) 15 E) 16

MURAT YAYINLARI

Açıklamalar • TEST 19

1. B

Mert	Sedat	Aslı
0	6	4
x	x+6	x + 4

Mert 12 yaşındayken Aslı 12 + 4 = 16 yaşında olur.

2. D

	Buse	Babası
Bugün	x	3x – 12
8 yıl önce	x – 8	3x – 20

$4 \cdot (x - 8) - 7 = 3x - 20$

$4x - 32 - 7 = 3x - 20$

$4x - 39 = 3x - 20$

$4x - 3x = 39 - 20$

$x = 19$

Babasının yaşı $3 \cdot 19 - 12 = 45$'tir.

3. A

$x + y - (x - y) = 10$

$x + y - x + y = 10$

$2y = 10$

$y = 5$

Küçük kardeş 5 yaşındadır. Büyük kardeş 5 yaşından büyük olmalı yani 5 olamaz.

4. B

Erkan 1985 yılında x yaşındaysa 2003 yılında x + 18 yaşındadır.

$x + x + 18 = 48$

$2x + 18 = 48$

$2x = 30$

$x = 15$

Erkan'ın doğum yılı 1985 – 15 = 1970'tir.

5. C

Efe	Mine
32 – x	x
x	–8

$32 - x - x = x - (-8)$

$32 - 2x = x + 8$

$32 - 8 = 2x + x$

$24 = 3x$

$x = 8$

6. E

I	II	III	IV	V
x	x – 2	x – 4	x – 6	x – 8

$x = (x - 8) \cdot 3$

$x = 3x - 24$

$24 = 3x - x$

$24 = 2x$

$x = 12$ $\quad x - 4 = 12 - 4$

$= 8$ olur.

7. C

Konuşulan yıl x olsun.

Anne kızının yaşındayken aralarındaki yaş farkı kadar geriye, kızı annesinin yaşında iken aralarındaki yaş farkı kadar ileriye gider.

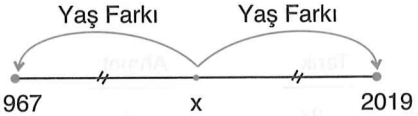

$x = \frac{1967 + 2019}{2}$

$x = 1993$

MURAT YAYINLARI

8. A

	Kenan	Kardeşi
7 yıl önce	3x	x
Şimdi	3x + 7	x + 7
6 yıl sonra	3x + 13	x + 13

$3x + 13 + x + 13 = 66$

$4x + 26 = 66$

$4x = 40$

$x = 10$

Kenan'ın bugünkü yaşı = $3 \cdot 10 + 7 = 37$'dir.

9. B

	Buğra	Özkan
Bugün	4x	7x
	7x	10x (3x yıl sonra)

$7x + 10x = 68$

$17x = 68$

$x = 4$

Özkan'ın bugünkü yaşı $7 \cdot 4 = 28$'dir.

10. D

Çetin	Nihat	Demir
12x	4x	3x
21x	13x	12x

$21x + 13x + 12x = 92$

$46x = 92$

$x = 2$

Nihat'ın bugünkü yaşı $4 \cdot 2 = 8$'dir.

11. B

	Tarık	Ahmet
Şimdi	2x	x
	6	–2

$2x - x = 6 - (-2)$

$x = 8$

Tarık'ın 3 yıl önceki yaşı $2 \cdot 8 - 3 = 13$'tür.

12. C

Emre 3x yaşındaysa İbrahim 4x yaşındadır.

Emre'nin 4 yıl sonraki yaşı 3x + 4, İbrahim'in 2 yıl önceki yaşı 4x – 2'dir.

$3x + 4 = 4x - 2$

$4 + 2 = 4x - 3x$

$x = 6$

Emre'nin bugünkü yaşı $3 \cdot 6 = 18$'dir.

13. D

Ayten, Veli'den 3 yıl daha sonra doğduğu için Ayten'in şimdiki yaşı 8 – 3 = 5 yaşındadır.

14. E

Üçüzler doğduktan sonra 4 yıl sonra ilk 5 kişinin yaş ortalaması 28 + 4 + 4 = 36 olur.

Ailenin yaş ortalaması ise;

$$\frac{36 \cdot 5 + 4 \cdot 3}{8} = \frac{192}{8}$$

= 24 olur.

15. A

25 yaşındaki 20 kişi, 22 yaşındaki 5 kişi, 26 yaşındaki 15 kişi seçilirse yaş ortalaması

$$\frac{25 \cdot 20 + 22 \cdot 5 + 26 \cdot 15}{40} = \frac{1000}{40}$$

= 25 olur.

22 yaşında en az 5 kişi seçilmelidir.

16. C

Erkeklerin sayısı x ise kadınların sayısı x – 5'tir.

$32 \cdot x = 26 \cdot (x - 5) + 220$

$32x = 26x - 130 + 220$

$32x - 26x = 90$

$6x = 90$

$x = 15$

MURAT YAYINLARI

/muratyayincilik

17. B

	Serkan	Üç çocuğun yaşları toplamı
Şimdi	ab	ba
5 yıl sonra	ab + 5	ba + 15

$ab + 5 = 2(ba + 15) - 20$

$10a + b + 5 = 20b + 2a + 30 - 20$

$10a - 2a + b - 20b = 10 - 5$

$8a + 19b = 5$

$a = 3$ ise $b = 1$ olur.

$a + b = 3 + 1$

$= 4$ olur.

18. D

	Pınar	Seda	Yavuz
	12x	4x	3x
k yıl sonra	12x+k	4x+k	3x+k

$12x + k = 2 \cdot (4x + k)$

$12x + k = 8k + 2k$

$12x - 8x = 2k - k$

$4x = k$

Yavuz 4x yıl sonra 14 yaşındaysa

$3x + 4x = 14$

$7x = 14$

$x = 2$

Seda'nın bugünkü yaşı $4 \cdot 2 = 8$ olur.

19. A

Kardeşlerin yaşları a, a, b ve c olsun.

$a + a + b = 39$

$a + a + c = 43$

$a + b + c = 46$

$3a + a + b + c = 82$

$3a + 46 = 82$

$3a = 36$

$a = 12$

20. E

Ceyda, 2 yıl sonra doğmuş olsaydı yaşı x ise annesinin yaşı 3x olur. Bu durumda Ceyda'nın şimdiki yaşı x + 2 olur.

Ceyda doğduğunda annesi 26 yaşındaysa

$3x - (x + 2) = 26$

$3x - x - 2 = 26$

$2x = 28$

$x = 14$

Ceyda'nın şimdiki yaşı 14 + 2 = 16'dır.

MURAT YAYINLARI

İşçi - Havuz Problemleri • TEST 20

1. **Canan bir işi k günde, Kenan 2k günde, Nazan 3k günde bitirebilmektedir. Canan ile Kenan'ın birlikte 4 günde bitirebildiği bu işi Nazan tek başına kaç günde bitirir?**

A) 20 B) 18 C) 15 D) 12 E) 10

2. Bir işi Sena tek başına 30 saat çalıştıktan sonra kalan işi Tuğrul tek başına 20 saatte bitirebiliyor. Tuğrul işin tamamını ise tek başına yaparsa 28 saatte bitirebiliyor.

Buna göre, Sena bu işin tamamını tek başına kaç saatte bitirebilir?

A) 75 B) 80 C) 100 D) 105 E) 120

3. Bir işi Banu tek başına 8 saatte, Melek ise tek başına 16 saatte bitiriyor. Melek yalnız başına 4 saat çalıştıktan sonra işin kalan kısmını Banu ile birlikte bitiriyor.

Buna göre, işin tamamı kaç saatte bitmiştir?

A) 6 B) 8 C) 10 D) 12 E) 14

4. Bir işi Berna 24 günde, Burcu ise 48 günde bitirmektedir. Burcu tek başına 6 gün çalıştıktan sonra işi bırakıyor. Kalan işi Berna çalışma hızını 2 kat artırarak bitiriyor.

Buna göre, işin tamamı kaç günde bitmiştir?

A) 9 B) 10 C) 11 D) 12 E) 13

5. Cem bir işi tek başına 12 günde, Buse aynı işi tek başına 20 günde bitirebilmektedir. Cem işe tek başına başladıktan 4 gün sonra Buse de ona katılıyor ve birlikte işi bitiriyorlar.

Buna göre, bu işin tamamı kaç günde bitmiştir?

A) 9 B) 10 C) 12 D) 15 E) 18

6. Aynı güçte çalışan 4 işçi bir işin $\frac{1}{3}$'ünü 8 günde tamamlayabiliyor.

İşçilerden ikisi işe 8 gün geç başlarsa işin tamamı kaç günde biter?

A) 20 B) 24 C) 25 D) 28 E) 30

7. Eşit güçteki 4 işçi bir işin $\frac{2}{9}$'unu 12 günde yapıyor.

Buna göre, işin tamamının 12 günde bitmesi için aynı güçte kaç işçiye daha ihtiyaç vardır?

A) 12 B) 14 C) 16 D) 18 E) 20

8. Eş güçteki 12 işçi bir işe başlıyor. İşin yarısı bittikten sonra 6 işçi, kalan işin yarısı bittikten sonra 4 işçi daha işten ayrılıyor.

Kalan işçiler kalan işi 6 günde bitirebildiğine göre, işin tamamı kaç günde bitmiştir?

A) 8 B) 9 C) 10 D) 12 E) 14

MURAT YAYINLARI

/muratyayincilik

9. 5 kalfanın 6 saatte yaptığı bir işi, 3 kalfa ve 1 usta 5 saatte yapıyor.

Buna göre, 2 usta aynı işi kaç saatte yapar?

A) 2 B) 3 C) 4 D) 5 E) 6

10. I. işçi bir saatte 4 tane x ürünü, 6 tane y ürünü üretebilirken II. işçi bir saatte 2 tane x ürünü, 10 tane y ürünü üretebilir.

Bu iki işçi birlikte çalışarak 72 tane x ürünü imal ettikleri sürede kaç tane y ürünü üretebilir?

A) 152 B) 160 C) 168 D) 180 E) 192

11. **Bir havuzu A ve B muslukları birlikte 24 saatte, A ve C muslukları birlikte 16 saatte, B ve C muslukları birlikte 12 saatte doldurabildiğine göre, B musluğu bu havuzu tek başına kaç günde doldurabilir?**

A) 32 B) 35 C) 36 D) 40 E) 48

12. Üç musluk bir havuzu ayrı ayrı sırasıyla a, b, c saatte; üçü birlikte ise 6 saatte doldurabilmektedir.

a, b, c arasında $3a = 5b = 2c$ bağıntısı olduğuna göre, a kaçtır?

A) 25 B) 20 C) 18 D) 16 E) 12

13. Bir havuzu dolduran iki musluktan I. musluk havuzun $\frac{2}{3}$'ünü 4 saatte, II. musluk havuzun $\frac{3}{4}$'ünü 9 saatte doldurmaktadır..

Buna göre, iki musluk birlikte boş olan bu havuzu kaç saatte doldurabilir?

A) 2 B) 3 C) 4 D) 5 E) 6

14. Bir havuzu K ve M muslukları beraber 9 saatte doldurabiliyor. Tabanda bulunan N musluğu ise dolu havuzu 36 saatte boşaltabiliyor.

Buna göre K, M ve N muslukları üçü birlikte bu havuzu kaç saatte doldurur?

A) 20 B) 18 C) 15 D) 12 E) 10

15.

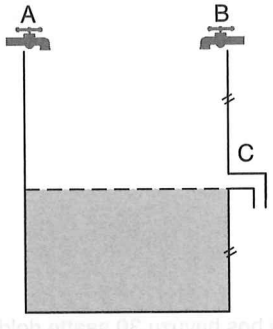

Yukarıdaki havuzu A musluğu 36 saatte, B musluğu 18 saatte dolduruyor. Havuzun tamamını 24 saatte boşaltan bir musluk havuzun yarısında bulunan C noktasına takılıyor.

Buna göre, üç musluk birlikte açılırsa havuz kaç saatte dolar?

A) 14 B) 16 C) 18 D) 20 E) 21

MURAT YAYINLARI

16. **Bir musluk hacmi 2v litre olan boş bir havuza bir dakikada x litre su akıtmaktadır. Havuz boşken 6 dakika açık bırakılırsa havuzun dolan kısmının hacmi kaç litre olur?**

A) $\frac{12v}{x}$ B) $\frac{3x}{v}$ C) $\frac{x}{3v}$ D) $\frac{12x}{v}$ E) $\frac{x}{6v}$

17. Özdeş 6 musluk bir havuzu 10 saatte dolduruyor.

Buna göre, musluklar birer saat arayla açılırsa boş havuz kaç saatte dolar?

A) $\frac{23}{2}$ B) 12 C) $\frac{25}{2}$ D) 13 E) $\frac{27}{2}$

18. Her biri boş havuzu 30 saatte doldurabilen 5 musluktan biri saat 14.00'te açılıyor. Bundan sonra her saat başı bir musluk daha açılarak saat 20.00'de musluklar kapatılıyor

Buna göre, havuzun kaçta kaçı dolmuş olur?

A) $\frac{8}{9}$ B) $\frac{5}{6}$ C) $\frac{4}{5}$ D) $\frac{3}{4}$ E) $\frac{2}{3}$

19. Özdeş dört musluk ikişer saat arayla açılırsa boş bir havuz 12 saatte dolmaktadır.

Eğer aynı musluklardan üç tanesi 2 saat arayla açılırsa boş havuz kaç saatte dolar?

A) 18 B) 16 C) 15 D) 14 E) 12

20. Eşit kapasiteli üç musluk bir havuzu birlikte 60 saatte dolduruyorlar.

I. musluk kapasitesini 3 katına çıkarıp,
II. musluk kapasitesini %40 azaltıp,
III. musluk kapasitesini %20 artırırsa

bu üç musluk boş havuzu kaç saatte doldurur?

A) 37,5 B) 40 C) 42,5 D) 45 E) 50

MURAT YAYINLARI

/muratyayincilik

Açıklamalar • TEST 20

1. B

$$\underset{(2)}{\frac{1}{k}} + \frac{1}{2k} = \frac{1}{4}$$

$$\frac{2+1}{2k} = \frac{1}{\cancel{4}_{2}}$$

$$k = 3 \cdot 2 = 6$$

Nazan tek başına $3 \cdot 6 = 18$ günde bitirir.

2. D

Sena tek başına x saatte yaparsa

$$30 \cdot \frac{1}{x} + \overset{5}{\cancel{20}} \cdot \frac{1}{\underset{7}{\cancel{28}}} = 1$$

$$\frac{30}{x} = 1 - \frac{5}{7}$$

$$\frac{\overset{15}{\cancel{30}}}{x} = \frac{\overset{1}{2}}{7}$$

$$x = 7 \cdot 15$$
$$= 105$$

Sena işi tek başına 105 saatte bitirir.

3. C

$$\overset{2}{\cancel{4}} \cdot \frac{1}{\underset{8}{\cancel{16}}} + t \cdot \frac{1}{8} = 1$$

$$\frac{t+2}{8} = 1$$

$$t + 2 = 8$$
$$t = 6$$

İşin tamamı $4 + 6 = 10$ saatte biter.

4. E

Berna çalışma hızını 2 kat artırırsa çalışması $\frac{1}{3}$'üne iner. Yani işin tamamı $24 \cdot \frac{1}{3} = 8$ günde bitirir.

$$\underset{8}{\cancel{8}} \cdot \frac{1}{\cancel{48}} + t \cdot \frac{1}{8} = 1$$

$$\frac{t+1}{8} = 1$$

$$t + 1 = 8$$
$$t = 7$$

İşin tamamı $7 + 6 = 13$ biter.

5. A

$$4 \cdot \underset{(5)}{\frac{1}{12}} + t\left(\underset{(5)}{\frac{1}{12}} + \underset{(3)}{\frac{1}{20}}\right) = 1$$

$$\frac{20}{60} + \frac{8t}{60} = 1$$

$$20 + 8t = 60$$
$$8t = 40$$
$$t = 5$$

İşin tamamı $4 + 5 = 9$ günde biter.

6. D

4 işçi işin $\frac{1}{3}$'ünü 8 günde yapıyorsa tamamını 24 günde yapar.

4 işçi ⟶ 24 günde yaparsa
1 işçi ⟶ x günde yapar.

$$4 \cdot 24 = x \cdot 1$$
$$x = 96$$

$$8\left(2 \cdot \frac{1}{96}\right) + t \cdot 4 \cdot \frac{1}{96} = 1$$

$$\frac{16 + 4t}{96} = 1$$

$$4t + 16 = 96$$
$$4t = 80$$
$$t = 20 \text{ gün}$$

İşin tamamı $20 + 8 = 28$ günde biter.

7. B

4 işçi işin $\frac{2}{9}$'unu 12 günde yapıyorsa tamamını $12 \cdot \frac{9}{2} = 54$ günde yapar.

4 işçi ⟶ 54 günde
x + 4 işçi ⟶ 12 günde

$$\underset{2}{\cancel{4}} \cdot \underset{9}{\cancel{54}} = \cancel{12} \cdot (x + 4)$$

$$18 = x + 4$$
$$x = 14$$

14 işçiye daha ihtiyaç vardır.

MURAT YAYINLARI

8. C

I. grup (12 işçi) işin $\frac{1}{2}$'sini, II. grup (6 işçi) işin $\frac{1}{4}$'ünü, III. grup (2 kişi) işin $\frac{1}{4}$'ünü yapar.

İşin $\frac{1}{4}$'ünü 2 işçi ⟶ 6 günde (III. grup)

6 işçi ⟶ x günde

$2 \cdot 6 = 6 \cdot x$

$x = 2$ gün (II. grup)

6 işçi işin $\frac{1}{4}$'ünü 2 günde yapıyorsa, $\frac{1}{2}$'sini 4 günde yapar. Buna göre

6 işçi ⟶ 4 günde

12 işçi ⟶ y günde

$6 \cdot \frac{4}{2} = y \cdot \frac{12}{2}$

$y = 2$ gün (I. grup)

işin tamamı toplam $6 + 2 + 2 = 10$ günde biter.

9. D

$$\underbrace{5 \cdot \frac{1}{k} \cdot 6 = \left(3 \cdot \frac{1}{k} + \frac{1}{u}\right) \cdot 5}_{} = 2 \cdot \frac{1}{u} \cdot t$$

$$\frac{30}{k} = \frac{15}{k} + \frac{5}{u}$$

$$\frac{15}{k} \times \frac{5}{u}$$

$3u = k$

$$5 \cdot \frac{1}{k} \cdot 6 = 2 \cdot \frac{1}{u} \cdot t$$

$$\frac{30}{3u} = \frac{2t}{u}$$

$2t = 10$

$t = 5$

10. E

1 saatte $4 + 2 = 6$ tane x, $6 + 10 = 16$ tane y imal eder. Buna göre

6 tane x ⟶ 16 tane y

72 tane x ⟶ k tane y

$6.k = \frac{72}{12} \cdot 16$

$k = 192$

11. A

$$\frac{1}{A} + \frac{1}{B} = \frac{1}{24}$$

$$-/\frac{1}{A} + \frac{1}{C} = \frac{1}{16}$$

$$+\frac{1}{B} + \frac{1}{C} = \frac{1}{12}$$

$$\frac{2}{B} = \underset{(2)}{\frac{1}{24}} + \underset{(4)}{\frac{1}{12}} - \underset{(3)}{\frac{1}{16}}$$

$$\frac{2}{B} = \frac{2 + 4 - 3}{48}$$

$$\frac{2}{B} \neq \frac{3}{\underset{16}{48}}$$

$B = 16 \cdot 2 = 32$

12. B

$3a = 5b = 2c = k$ ise

$a = \frac{k}{3}$, $b = \frac{k}{5}$, $c = \frac{k}{2}$ olur.

$$\frac{1}{a} + \frac{1}{b} + \frac{1}{c} = \frac{1}{6}$$

$$\frac{3}{k} + \frac{5}{k} + \frac{2}{k} = \frac{1}{6}$$

$$\frac{10}{k} = \frac{1}{6} \Rightarrow k = 60$$

$$a = \frac{k}{3} = \frac{60}{3} = 20$$

13. C

Havuzun tamamını I. musluk x saatte, II. musluk y saatte doldurur.

$$x \cdot \frac{2}{3} = 4 \Rightarrow x = 6$$

$$y \cdot \frac{3}{4} = 9 \Rightarrow y = 12$$

$$\underset{(2)}{\frac{1}{6}} + \frac{1}{12} = \frac{1}{t} \Rightarrow \frac{2+1}{12} = \frac{1}{t}$$

$$\Rightarrow \frac{3}{\underset{4}{12}} = \frac{1}{t}$$

$\Rightarrow t = 4$

MURAT YAYINLARI

/muratyayincilik

14. D

$$\frac{1}{K}+\frac{1}{M}-\frac{1}{N}=\frac{1}{t}$$

$$\frac{1}{\underset{(4)}{9}}-\frac{1}{36}=\frac{1}{t}$$

$$\frac{4-1}{36}=\frac{1}{t}$$

$$3t=36$$

$$t=12$$

15. A

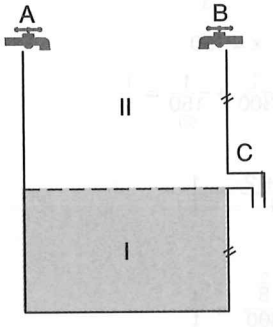

I. bölgeyi A musluğu 18 saatte, B musluğu 9 saatte doldururken C'den su akmaz.

$$\frac{1}{18}+\frac{1}{\underset{(2)}{9}}=\frac{1}{t_1}$$

$$\frac{1+2}{18}=\frac{1}{t_1}$$

$$\frac{\cancel{3}}{\cancel{18}}=\frac{1}{t_1}\Rightarrow t_1=6 \text{ saat}$$

II. bölgeyi A musluğu 18 saatte, B musluğu 9 saatte doldururken C musluğu 24 saatte boşaltır.

$$\frac{1}{\underset{(4)}{18}}+\frac{1}{\underset{(8)}{9}}-\frac{1}{\underset{(3)}{24}}=\frac{1}{t_2}$$

$$\frac{4+8-3}{72}=\frac{1}{t_2}$$

$$\frac{\overset{1}{\cancel{9}}}{\underset{8}{\cancel{72}}}=\frac{1}{t_2}\Rightarrow t_2=8 \text{ saat}$$

Havuzun tamamı 6 + 8 = 14 saatte dolar.

16. B

Her dakika havuzun $\frac{x}{2v}$'si dolar. 6 dakikada

$\overset{3}{\cancel{6}}\cdot\frac{x}{\cancel{2}v}=\frac{3x}{v}$'si dolar.

17. C

6 musluk ⟶ 10 saatte
1 musluk ⟶ x saatte

$$6\cdot 10=x\cdot 1$$

$$x=60$$

$$1=t\cdot\frac{1}{60}+(t-1)\cdot\frac{1}{60}+(t-2)\cdot\frac{1}{60}$$

$$+(t-3)\cdot\frac{1}{60}+(t-4)\cdot\frac{1}{60}+(t-5)\cdot\frac{1}{60}$$

$$\frac{t+t-1+t-2+t-3+t-4+t-5}{60}\times 1$$

$$6t-15=60$$

$$\overset{2}{\cancel{6}}t=\overset{25}{\cancel{75}}$$

$$t=\frac{25}{2}$$

18. E

$$6\cdot\frac{1}{30}+5\cdot\frac{1}{30}+4\cdot\frac{1}{30}+3\cdot\frac{1}{30}+2\cdot\frac{1}{30}$$

$$=\frac{20}{30}=\frac{2}{3}$$

20.00'de $\frac{2}{3}$'ü dolar.

MURAT YAYINLARI

19. D

$$12 \cdot \frac{1}{t} + 10 \cdot \frac{1}{t} + 8 \cdot \frac{1}{t} + 6 \cdot \frac{1}{t} = 1$$

$$\frac{36}{t} = 1 \Rightarrow t = 36$$

$$n \cdot \frac{1}{36} + (n-2)\frac{1}{36} + (n-4) \cdot \frac{1}{36} = 1$$

$$\frac{3n-6}{36} = 1$$

$$3n - 6 = 36$$

$$3n = 42$$

$$n = 14$$

20. A

3 musluk 60 saatte doldurursa 1 musluk 180 saatte doldurur.

I. musluk kapasitesi 3 katına çıkarılırsa $\frac{180}{3} = 60$ saatte doldurur.

II. musluk kapasitesini %40 azaltırsa;

%100 kapasiteyle ⟶ 180 saat
%60 kapasiteyle ⟶ x saat

$$60 \cdot x = \frac{180}{3} \cdot 100$$

$$x = 300 \text{ saat}$$

III. musluk kapasitesini %20 artırırsa;

%100 kapasiteyle ⟶ 180 saat
%120 kapasiteyle ⟶ x saat

$$120 \cdot x = \frac{180}{3} \cdot 100$$

$$x = 150$$

$$\underset{(5)}{\frac{1}{60}} + \frac{1}{300} + \underset{(2)}{\frac{1}{150}} = \frac{1}{t}$$

$$\frac{5+1+2}{300} = \frac{1}{t}$$

$$\frac{\overset{2}{8}}{\underset{75}{300}} = \frac{1}{t}$$

$$t = \frac{75}{2} = 37{,}5$$

MURAT YAYINLARI

/muratyayincilik

Hareket Problemleri • TEST 21

1.



B şehrinde bulunan iki araçtan saatteki hızı 12 km olan kuzeydeki A şehrine 5 saatte, saatteki hızı 15 km olan ise doğudaki C şehrine 3 saatte varıyor.

Buna göre, A ve C şehirleri arasındaki en kısa mesafe kaç km'dir?

A) 80 B) 75 C) 72 D) 70 E) 68

2. Bir otomobil A kentinden B kentine saatte 60 km hızla gidip saatte 90 km hızla geri dönüyor.

Otomobilin gidiş-dönüşü toplam 12,5 saat olduğuna göre, A ve B kentleri arası kaç km'dir?

A) 600 B) 540 C) 500 D) 480 E) 450

3. Bir araç A'dan B'ye 9 saatte gidiyor. Bu araç saatteki hızını 6 km azaltırsa A'dan B'ye 2 saat daha geç varıyor.

Buna göre, A ile B arası kaç km'dir?

A) 198 B) 297 C) 396 D) 495 E) 594

4.



Şekilde |AC| = 3 · |AB|'dir. A'dan sabit hızla hareket eden bir araç 3 saat sonra B'ye varıyor.

Araç bu noktadan sonra hızını yarıya düşürerek devam ederse ilk hareketinden kaç saat sonra C'de olur?

A) 15 B) 16 C) 18 D) 20 E) 21

5.

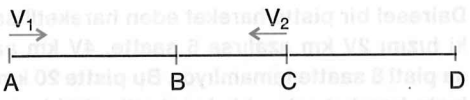

|AB| = |CD| = 2 · |BC| olmak üzere şekildeki gibi yönleri verilen iki araç A ve D noktaları arasında durmadan gidip gelmektedirler.

Aynı anda hareket ettiklerinde ikinci karşılaşmaları C noktasında olduğuna göre, hızlarının oranı $\frac{V_1}{V_2}$ kaçtır?

A) $\frac{8}{7}$ B) $\frac{7}{6}$ C) $\frac{6}{5}$ D) $\frac{5}{6}$ E) $\frac{6}{7}$

6. **Bir araç gideceği yolun yarısını saatte 90 km hızla, kalan kısmını saatte 120 km hızla tamamlıyor. Yolun ikinci yarısını 2 saat daha kısa zamanda aldığına göre, bu araç saatte 72 km hızla gitseydi yolun tamamını kaç saatte alırdı?**

A) 35 B) 30 C) 24 D) 20 E) 18

7. Bir araç belli bir yolu 2V hızıyla 9 saatte alıyor.

Eğer yolun yarısını 3V, geriye kalan yolu da $\frac{V}{6}$ hızıyla giderse aynı yolu kaç saatte alır?

A) 50 B) 54 C) 57 D) 60 E) 63

8. Saat 8.40'ta İzmir'den hareket eden bir otobüs 5 yerde on beşer dakika mola vererek gideceği yere 20.55'te varıyor.

Otobüsün saatteki ortalama hızı 75 km ise otobüsün aldığı toplam yol kaç km'dir?

A) 825 B) 750 C) 675 D) 600 E) 525

MURAT YAYINLARI

9. **Dairesel bir pistte hareket eden hareketli saatteki hızını 2V km azalırsa 5 saatte, 4V km azaltırsa pisti 8 saatte tamamlıyor. Bu pistte 20 km/saat hızla hareket eden bir hareketli, pisti kaç saate tamamlar?**

A) V B) 2V C) 3V D) 4V E) 5V

10. Hızı saatte 120 km olan bir otomobil ile hızı saatte 100 km olan minibüs aynı anda Ankara'dan hareket etmeye başlıyor. Yolculuk esnasında arızalanan otomobil durmak zorunda kalıyor. Daha sonra yola devam ettiğinde 6 saattir durmadan hareket eden minibüse Isparta'da yetişiyor.

Buna göre, otomobil yolculuğuna kaç saat ara vermek zorunda kalmıştır?

A) 1 B) 1,5 C) 2 D) 2,5 E) 3

11. A ——— B

A şehri ile B şehri arasındaki yolun $\frac{5}{6}$'sını saatte $\frac{2V}{3}$ km hızla $\frac{15t}{2}$ saatte alan bir araç aynı yolun tamamını saatte 2V km hızla kaç saatte alır?

A) t B) 2t C) 3t D) 4t E) 5t

12. Dairesel bir pistin bir noktasından aynı anda ve ters yönde hareket eden araçlar, 30 saniye sonra karşılaşıyorlar.

Araçlardan biri 42 saniyede bir turu tamamlayabiliyorsa diğer araç bir turu kaç saniyede tamamlar?

A) 45 B) 60 C) 75 D) 90 E) 105

13. Aralarında 650 km uzaklık bulunan saatteki hızları 80 km ve 110 km olan iki araç aynı anda birbirlerine doğru hareket ediyorlar. Hızlı olan araç K gibi bir noktaya geldiğinde yavaş olan aracın K'ye gelmesine 1 saat vardır.

Buna göre, hızlı olan araç K noktasına geldiğinde kaç km yol almıştır?

A) 300 B) 330 C) 440 D) 550 E) 660

14. Erol evden okula sabit bir hızla ilerlerken okula 120 m kala durup arkadaşıyla 60 saniye konuşuyor.

Yola tekrar devam ettiğinde kaybettiği zamanı telafi etmek için hızını dakikada 10 metre artıran Erol'un ilk hızı dakikada kaç metredir?

A) 20 B) 30 C) 40 D) 50 E) 60

15. A ve B kentleri arasındaki bir demir yolunun uzunluğu 300 km'dir.

Hızını her 100 km'de bir yarıya indiren bir tren A ile B arasındaki yolu 14 saatte aldığına göre, başlangıçtaki hızı saatte kaç km'dir?

A) 25 B) 40 C) 50 D) 60 E) 75

16. **A ile B kentleri arasındaki yolun $\frac{3}{7}$'lik bölümünde yol yapım çalışması vardır. A'dan yola çıkan bir araç, yolun çalışma yapılan kısmında saatte 50 km, diğer bölümünde saatte 80 km hızla giderek B'ye 11 saatte ulaştığına göre, yolun tamamı kaç km'dir?**

A) 350 B) 490 C) 630 D) 700 E) 770

MURAT YAYINLARI

/muratyayincilik

17. Hızları oranı $\frac{3}{5}$ olan iki araç A kentinden B kentine doğru aynı anda hareket ediyorlar. Hızlı olan B'ye varıp hiç durmadan geri dönüyor ve diğer araçla A ile B kenti arasındaki bir C noktasında karşılaşıyorlar.

Buna göre, B ile C arasındaki yol 150 km ise, A ile C arasındaki yol kaç km'dir?

A) 800 B)750 C) 600 D) 500 E) 450

18.

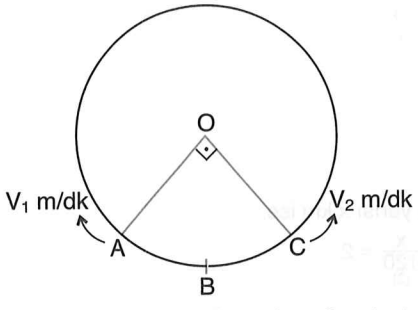

Yukarıdaki dairesel pistte A ve C noktalarından aynı anda, şekildeki yönlerde birbirlerine doğru hareket eden iki araç 4 dakika sonra karşılaşıyorlar.

Buna göre, aynı araçlar ABC yayı üzerinde birbirlerine doğru hareket etselerdi kaç saniye sonra karşılaşırlardı?

A) $\frac{4}{3}$ B) $\frac{5}{4}$ C) 1 D) $\frac{4}{5}$ E) $\frac{3}{4}$

19.

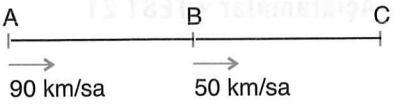

IABI = 160 km

IBCI = 140 km

Aynı anda aynı yöne hareket eden iki aracın hızları ve aralarındaki uzaklıklar yukarıda verilmiştir.

Buna göre, A'dan yola çıkan araç, B'den yola çıkan aracı C'den kaç km uzaklıkta yakalar?

A) 50 B) 60 C) 70 D) 80 E) 90

20. Bir araç A kentinden B kentine doğru saatte 80 km hızla t saat hareket ettiğinde B kentine varması için 40 km yol kalıyor. Eğer A kentinden B kentine doğru saatte 100 km hızla t saat giderse B kentini 120 km geçiyor.

Buna göre, aynı araç A ve B kentleri arasını saatte 40 km hızla kaç saatte alır?

A) 20 B) 19 C) 18 D) 17 E) 16

MURAT YAYINLARI

Açıklamalar • TEST 21

1. B

$x = V \cdot t$

$|AB| = 12 \cdot 5 = 60$ km

$|BC| = 15 \cdot 3 = 45$ km

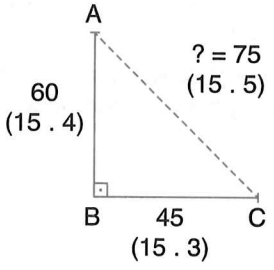

$|AC| = \sqrt{60^2 + 45^2}$ (3 – 4 – 5 üçgeni)

$|AC| = 75$ km

2. E

A ile B arası x km ise

$\frac{x}{60}_{(3)} + \frac{x}{90}_{(2)} = 12,5$

$\frac{3x + 2x}{180} = 12,5$

$\frac{5x}{180}_{36} \times 12,5$

$x = 36 \cdot 12,5$

$x = 450$ km

3. B

A ile B arası x km olsun.

$\frac{x}{9}_{(11)} - \frac{x}{11}_{(9)} = 6$

$\frac{11x - 9x}{99} \times 6$

$2x = {}^{3}\!\not{6} \cdot 99$

$x = 297$ km

4. A

$|AB| = x$ km, $|BC| = 2x$ km'dir.

$|AB|$ yolunu V hızıyla gidince 3 saatte geçiyorsa;

$\frac{x}{V} = 3$ olur.

$|BC|$ yolunu $\frac{V}{2}$ hızıyla giderse

$\frac{\frac{2x}{V}}{2} = 2x \cdot \frac{2}{V} = 4 \cdot \frac{x}{V} = 4 \cdot 3 = 12$ saat olur.

Yolun tamamını 3 + 12 = 15 saatte alır.

5. B

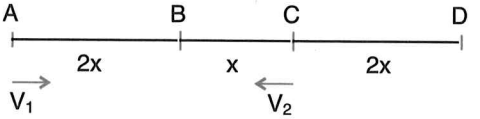

V_1 hızlı araç D'ye gidip C'ye dönene kadar 7x yol alır.

V_2 hızlı araç A'ya gidip C'ye dönene kadar 6x yol alır.

$\frac{V_1}{V_2} = \frac{7x}{6x} = \frac{7}{6}$ olur.

6. D

Yolun yarısı x km ise,

$\frac{x}{90}_{(4)} - \frac{x}{120}_{(3)} = 2$

$\frac{4x - 3x}{360} \times 2$

$x = 2 \cdot 360$

$= 720$

Yolun tamamı $720 \cdot 2 = 1440$ km olur.

72 km/sa hızlı yolun tamamını;

$\frac{1440}{72} = 20$ saatte alır.

MURAT YAYINLARI

/muratyayincilik

7. C

Yolun tamamı $9 \cdot 2V = 18\ V$'dir.

Yolun yarısını 3V, geriye kalan yolu da $\frac{V}{6}$ hızıyla gi-

derse;

$$\frac{9 \cdot V}{3 \cdot V} + \frac{9V}{\frac{V}{6}}$$

$$= 3 + 9 \cdot \not{V} \cdot \frac{6}{\not{V}}$$

= 57 saatte gider.

8. A

Yolculuk 21.55 – 8.40 = 12.15 saat yani

$12 \cdot 60 + 15 = 735$ dakika sürer. 5 defa 15 dakikalık mola verdiğinden 735 – 75 = 660 dakika yani 11 saat hareket eder.

Otobüsün aldığı toplam yol $75 \cdot 11 = 825$ km olur.

9. D

Aracın olacağı mesafe x ise 5 saatte varması için gittiği hız, 8 saatte varması için gittiği hızdan 6V fazladır.

$$\underset{(8)}{\frac{x}{5}} - \underset{(5)}{\frac{x}{8}} = 6V$$

$$\frac{8x-5x}{40} = 6V$$

$$\frac{\not{3}x}{40} = \frac{2}{\not{6}}V$$

$x = 80V$ km olur.

Araç 20 km/sa hızla giderse;

$\frac{80V}{20} = 4V$ saatte varır.

10. A

Minibüsün 6 saatte aldığı yolu otomobil t saatte alıyorsa;

$6 \cdot 100 = t \cdot 120$

$t = 5$ olur.

Bu durumda otomobil 6 – 5 = 1 saat ara vermiştir.

11. C



$\rightarrow$ $\frac{15t}{2}$

$\frac{2V}{3}$

$5x = \frac{2V}{3} \cdot \frac{15t}{2}$

$x = Vt$

$6x = 6Vt$

$6Vt = 2V \cdot ?$

$3t = ?$

12. E

Bir turu 42 saniyede tamamlayan araç 30 saniyede pistin $\frac{30}{42} = \frac{5}{7}$'sini giderken diğer araç 30 saniyede

pistin geri kalan $\frac{2}{7}$'sini gider.

$\frac{2}{7}$'si — 30 saniye

$\frac{7}{7}$'si — t saniye

$$\frac{2}{\not{7}} \cdot t = \frac{\overset{15}{\not{30}}}{\not{1}} \cdot \frac{7}{\not{1}}$$

t = 105 saniye

13. B

Hızlı olan araç x km giderse diğer araç 650 – x km gider.

$$\underset{(11)}{\frac{650-x}{80}} - \underset{(8)}{\frac{x}{110}} = 1$$

$$\frac{7150-11x-8x}{880} = 1$$

$7150 - 19x = 880$

$19x = 6270$

$x = 330$ km

MURAT YAYINLARI

14. B

$$\frac{120}{\underset{(t)}{t-1}} - \frac{120}{\underset{(t-1)}{t}} = 10$$

$$\frac{120t - 120t + 120}{t^2 - t} = 10$$

$$12\cancel{0} = 1\cancel{0} \cdot (t^2 - t)$$

$$t^2 - t - 12 = 0$$

$$t = 4 \text{ olur.}$$

Aracın ilk hızı $\frac{120}{4} = 30$ m/dk'dır.

15. C

Hızını her 100 km'de yarıya indiğinden ilk 100 km t saat, ikinci 100 km 2t, saat, son 100 km 4t saat sürer.

$$t = 2t + 4t = 14$$

$$7t = 14$$

$$t = 2 \text{ saat}$$

Başlangıçtaki hızı $\frac{100}{2} = 50$ km/saat olur.

16. D

Yolun tamamı 7x ise yol yapım çalışması 3x'lik kısımda vardır.

$$\frac{3x}{\underset{(8)}{50}} + \frac{4x}{\underset{(5)}{80}} = 11$$

$$\frac{24x + 20x}{400} = 11$$

$$\cancel{44}x = \cancel{11} \cdot \overset{100}{\cancel{400}}$$

$$x = 100 \text{ km}$$

Yolun tamamı $7 \cdot 100 = 700$ km'dir.

17. E

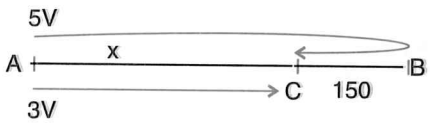

$$\frac{x + 150 + 150}{5\cancel{V}} = \frac{x}{3\cancel{V}}$$

$$(x+300) \cdot 3 = x \cdot 5$$

$$3x + 900 = 5x$$

$$900 = 2x$$

$$x = 450 \text{ km}$$

18. A

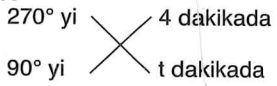

$$\cancel{270}_{3}t = 4 \cdot \cancel{90}$$

$$t = \frac{4}{3} \text{ dk}$$

19. B

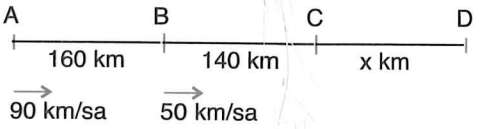

Araçlar C'den x km uzaktaki D noktasında yan yana geliyorsa;

$$\frac{160 + 140 + x}{9\cancel{0}} = \frac{140 + x}{5\cancel{0}}$$

$$(300 + x) \cdot 5 = 9 \cdot (140 + x)$$

$$1500 + 5x = 1260 + 9x$$

$$4x = 240$$

$$x = 60 \text{ km}$$

20. D

$$|AB| = 80 \cdot t + 40 = 100 \cdot t - 120$$

$$40 + 120 = 100t - 80t$$

$$160 = 20t$$

$$t = 8$$

$$|AB| = 80 \cdot 8 + 40 = 680 \text{ km}$$

Araç 40 km/sa hızla giderse yolu,

$\frac{680}{40} = 17$ saatte alır.

MURAT YAYINLARI

/muratyayincilik

Yüzde - Kâr - Zarar - Faiz Problemleri • TEST 22

1. **Bir dikdörtgenin kısa kenarları %30 artırılırken uzun kenarları %20 azaltılırsa oluşan yeni dikdörtgenin alanı nasıl değişir?**

A) %4 artar B) %2 artar C) Değişmez D) %2 azalır E) %4 azalır

2. **x sayısı, y sayısının karesiyle doğru orantılıdır. y sayısının değeri %30 artırıldığında x sayısının artış yüzdesi kaç olur?**

A) 36 B) 44 C) 49 D) 64 E) 69

3. Bir sınıftaki kız öğrenci sayısı, erkek öğrencilerin sayısının %68'idir.

Buna göre, bu sınıfta en az kaç öğrenci vardır?

A) 40 B) 42 C) 46 D) 48 E) 50

4. Bir fabrikada üretilen A ve B ürünlerinin sırasıyla %4'ü ve %6'sı bozuktur.

Bu fabrikada üretilen toplam 2000 adet A ve B ürünlerinin 96'sı bozuk olduğuna göre, bozuk ürünlerin kaçı A ürünüdür?

A) 40 B) 45 C) 48 D) 50 E) 54

5. Bir işçi, maaşının %30'unu ev kirası olarak veriyor. İşçinin maaşı arttığı halde ev kirası değişmiyor.

Bu işçi, yeni maaşının %25'ini ev kirası olarak verdiğine göre, maaşı % kaç artmıştır?

A) 35 B) 30 C) 25 D) 20 E) 15

6. Bir satıcı, elindeki malın önce %40'ını daha sonra da kalan malın %25'ini satmıştır.

Malın geriye kalan kısmı toplam malın % kaçıdır?

A) 50 B) 45 C) 40 D) 35 E) 30

7. Bir traktör bir tarlayı 28 saatte sürebiliyor.

Traktörün çalışma kapasitesi %30 azaltılırsa, aynı tarlayı kaç saatte sürer?

A) 40 B) 39 C) 36 D) 35 E) 32

8. **58 liraya satıldığında %16 kâr elde edilen bir ürün, %18 zararla satılsaydı kaç liraya satılırdı?**

A) 40 B) 41 C) 42 D) 43 E) 44

MURAT YAYINLARI

9. **Bir okuldaki öğrencilerin %60'ı erkek, diğerleri kızdır. Kızların %40'ı, erkeklerin %35'i gözlüklü olduğuna göre, bu okuldaki gözlüklü öğrenciler tüm öğrencilerin yüzde kaçıdır?**

A) 40 B) 39 C) 38 D) 37 E) 36

10. Bir satıcı, alış fiyatına %80 ekleyerek satış fiyatını belirlediği ürünü, daha sonra satış fiyatı üzerinden %40 indirim uygulayarak 162 liraya satıyor.

Satıcının bu ürünün satışından %14 kâr elde etmesi için ürünü kaç liraya satması gerekir?

A) 164 B) 168 C) 171 D) 175 E) 182

11. Bir manav 1 kilosu 3 lira olan kirazlardan bir miktar alıyor ancak %25'i çürük çıkıyor.

Manav, sağlam kirazları kaç liraya satarsa %25 kâr eder?

A) 4 B) 4,2 C) 4,5 D) 4,8 E) 5

12. Bir satıcı birim maliyetleri a lira ve b lira olan iki maldan birincisini %30 kârla, ikincisini %25 zararla satıyor.

Satıcı bu mallardan birer tane sattığı zaman zarar ettiğine göre, a ve b arasında aşağıdaki bağıntılardan hangisi kesinlikle sağlanır?

A) $5b > 6a$ B) $4b > 5a$ C) $a = b$

D) $5a > 4b$ E) $6a > 5b$

13. Bir bakkal tanesi 4 liradan bir miktar K ürünü, tanesi 6 liradan bir miktar M ürünü olarak 240 lira ödüyor. K ürününün tümünü %25 kârla, M ürününün tümünü %15 kârla satıyor.

Bakkal bu satıştan %20 kâr elde ettiğine göre, kaç tane M ürünü almıştır?

A) 18 B) 20 C) 24 D) 25 E) 30

14. Maliyeti 5x lira olan bir saat %40 kârla 6x + 20 liraya satılmıştır.

Buna göre, bu satıştan kaç lira kâr elde edilir?

A) 120 B) 130 C) 140 D) 150 E) 160

15. Bir X marka arabanın vergiler hariç liste fiyatı, KDV oranı ve ÖTV oranı aşağıdaki tabloda verilmiştir.

Vergiler Hariç Liste Fiyatı	KDV Oranı	ÖTV Oranı
60.000	%8	%25

Firma önce liste fiyatına KDV oranını ekliyor, daha sonra eklenmiş fiyatı üzerinden ÖTV oranı dahil edilip satış fiyatını belirliyor.

Buna göre, bu aracın satış fiyatı kaç liradır?

A) 83.000 B) 81.000
C) 80.000 D) 78.000
E) 75.000

MURAT YAYINLARI

16. Bir manav aldığı bir miktar muzun kilosunu 5 liradan sattığında 80 lira zarar, 10 liradan sattığında 320 lira kâr elde ediyor.

Buna göre, bu manav muzun 1 kilogramını kaç liradan almıştır?

A) 8 B) 7,2 C) 6,4 D) 6 E) 5,6

17. Bir market A ürününün satış fiyatında %20 indirim yapınca bu ürünün satış adedi %20 artıyor.

Buna göre, marketin bu ürün için elde ettiği gelirde nasıl bir değişim olmuştur?

A) %8 azalır B) %4 azalır
C) Değişmez D) %4 artar
E) %8 artar

18. Bir kırtasiyede 1 kalem, 1 defterden 60 kuruş pahalıdır. Kaleme %20, deftere %40 zam yapıldığında 1 kalem, 1 defterden 24 kuruş ucuz oluyor.

Buna göre, bu kırtasiyede 1 defterin zamdan önceki fiyatı kaç liradır?

A) 5,6 B) 5,4 C) 5,2 D) 5 E) 4,8

19. Maliyet fiyatı üzerinden %20 kârla satılan kumaşın fiyatı 35 lira fazla olsaydı maliyet fiyatı üzerinden %30 kârla elde edilirdi.

Buna göre, bu kumaş kaç liraya satılmaktadır?

A) 400 B) 360 C) 350 D) 320 E) 300

20. x liranın yıllık %a basit faiz oranıyla 4 yılda getirdiği faiz getirisi ile y liranın yıllık %6 basit faiz oranıyla 6 yılda getirdiği faiz getirisi eşittir.

x = 2y, b = a + 10 ve 1 yıllık toplam faiz getirisi 24.000 lira olduğuna göre, x+y toplamı kaçtır?

A) 56000 B) 60000
C) 64000 D) 72000
E) 80000

MURAT YAYINLARI

Açıklamalar • TEST 22

1. A

Uzun kenarı 10a, kısa kenarı 10b ise alanı 10a.10b = 100 · ab olur.

Kısa kenarı %30 artırılırsa 13b, uzun kenarı %20 azaltılırsa 8a olur. Yeni dikdörtgenin alanı 13b.8a = 104 · ab olur. Bu durumda alanı %4 artar.

2. E

x = 10a y = 10b olsun.

$$\frac{x}{y^2} = k \Rightarrow \frac{10a}{(10b)^2} = k \Rightarrow \frac{a}{10b^2} = k$$

y sayısı %30 artırılırsa y = 13b olur.

$$\frac{x}{y^2} = k \Rightarrow \frac{x}{(13b)^2} = \frac{a}{10b^2}$$

$$\Rightarrow x = \frac{a \cdot 169\cancel{b^2}}{10\cancel{b^2}}$$

$$\Rightarrow \text{10a iken } x = \frac{169a}{10}$$

olduğunda %69 artar.

3. B

$$\frac{\text{Kız}}{\text{Erkek}} = \frac{68}{100} = \frac{34}{50} = \frac{17}{25}$$

Sınıfta en az 17 kız, 25 erkek vardır. Bu durumda sınıfta 17 + 25 = 42 öğrenci vardır.

4. C

$-1/\ A + B = 2000$

$25/\ A \cdot \frac{4}{100} + B \cdot \frac{6}{100} = 96$

$$-A - B = -2000$$

$$+\quad A + \frac{3B}{2} = 2400$$

$$\frac{B}{2} = 400 \Rightarrow B = 800$$

A + 800 = 2000 ⇒ A = 1200

Bozuk olan A ürünlerinin sayısı;

$1200 \cdot \frac{4}{100} = 48$'dir.

5. D

İşçinin maaşı 100 lira ise ev kirası 30 lira olur.

Yeni maaş x lira ise

$$x \cdot \frac{\cancel{25}}{\cancel{100}_4} = 30$$

x = 120 lira

Maaş 100 lira iken 120 lira olursa %20 artar.

6. B

100 tane mal varsa;

I. Satışta $100 \cdot \frac{40}{100} = 40$ tane satılır.

Kalan 100 – 40 = 60'tır.

II. Satışta $60 \cdot \frac{25}{100} = 15$ tane satılır.

Kalan 60 – 15 = 45'tir.

Bu durumda %45'i kalır.

7. A

%100 kapasiteyle ⟶ 28 saatte

%70 kapasiteyle ⟶ x saatte

$$10\cancel{0} \cdot \cancel{28}_4 = 7\cancel{0} \cdot x$$

x = 40 saat

8. B

Malın maliyet fiyatı x lira ise;

$$x \cdot \frac{\overset{2}{\cancel{116}}}{\cancel{100}} = \cancel{58}$$

2x = 100

x = 50

%18 zararla satılırsa;

$50 \cdot \frac{82}{100} = 41$ lira olur.

9. D

Okulda 100 öğrenci varsa 60 erkek, 40 kız vardır.

Okuldaki toplam gözlük sayısı;

$60 \cdot \frac{35}{100} + 40 \cdot \frac{40}{100} = 21 + 16 = 37$ olur.

Okulun %37'si gözlüklüdür.

MURAT YAYINLARI

/muratyayincilik

10. C

Malın alış fiyatı 100x ise

I. Satış fiyatı = $100x \cdot \frac{180}{100} = 180x$

II. Satış fiyatı = $180x \cdot \frac{60}{100} = 108x$

$108x = 162$

$x = 1{,}5$

Malın alış fiyatı $100 \cdot 1{,}5 = 150$ liradır.

%14 kâr etmesi için malın satış fiyatı;

$150 \cdot \frac{114}{100} = 171$ lira olur.

11. E

100 kg kiraz varsa bu malın maliyeti;

$100 \cdot 3 = 300$ lira olur.

%25'i çürük ise geriye 75 kg kalır.

$\cancel{75} \cdot x = \overset{4}{\cancel{300}} \cdot \frac{\overset{5}{\cancel{125}}}{\underset{4}{\cancel{100}}}$

$x = 5$ lira

Kirazın 1 kg fiyatı 5 lira olmalıdır.

12. A

Zarar ettiğine göre;

$b \cdot \frac{\overset{5}{\cancel{25}}}{\cancel{100}} > a \cdot \frac{\overset{6}{\cancel{30}}}{\cancel{100}}$

$5b > 6a$ olur.

13. B

$4 \cdot K + 6 \cdot M = 240$

$K \cdot 4 \cdot \frac{\overset{25}{\cancel{125}}}{\cancel{100}} + M \cdot 6 \cdot \frac{\overset{23}{\cancel{115}}}{\cancel{100}} = 240 \cdot \frac{\overset{24}{\cancel{120}}}{\cancel{100}}$

$25/\ 4K + 6M = 240$

$-/\ 100K + 138M = 5760$

$100K + 150M = 6000$

$+\quad -100K - 138M = -5760$

$12M = 240$

$M = 20$

20 tane M ürünü almıştır.

14. C

$\cancel{5}x \cdot \frac{\overset{7}{\cancel{140}}}{\underset{\cancel{5}}{\cancel{100}}} = 6x + 20$

$7 \cdot x = 6x + 20$

$x = 20$

Bu durumda satış fiyatı $6 \cdot 20 + 20 = 140$ lira olur.

15. B

KDV'li fiyat = $60000 \cdot \frac{108}{100} = 64.800$ lira

ÖTV'li fiyat = $64.800 \cdot \frac{125}{100} = 81000$ lira

KDV ve ÖTV dahil fiyatı 81.000 lira olur.

16. D

x kg muz varsa;

Maliyet = $5x + 80 = 10x - 320$

$10x - 5x = 320 + 80$

$5x = 400$

$x = 80$

Maliyet = $5 \cdot 80 + 80 = 480$ liradır.

80 kg muzun maliyeti 480 lira ise 1 kilogramının alış fiyatı $\frac{480}{80} = 6$ liradır.

MURAT YAYINLARI

17. B

Market, tanesi 10 liradan 10 tane A ürünü satarsa $10 \cdot 10 = 100$ lira gelir elde eder.

%20 indirim yaparsa 8 liradan, 12 tane A ürünü satar ve $8 \cdot 12 = 96$ lira gelir elde eder.

Bu durumda toplam gelirde %4 azalma görülür.

18. E

$K = D + 60$

$$K \cdot \frac{120}{100} = D \cdot \frac{140}{100} - \frac{24}{\frac{1}{(100)}}$$

$(D + 60) \cdot 120 = 140 \cdot D - 2400$

$120D + 7200 = 140 \cdot D - 2400$

$9600 = 20 \cdot D$

$D = 480$ kuruş

1 defter 480 kuruş yani 4,8 ₺'dir.

19. A

Kumaşın maliyet fiyatı 100x ise

$$100x \cdot \frac{20}{100} + 35 = 100x \cdot \frac{30}{100}$$

$20x + 35 = 30x$

$10x = 35$

$x = 3{,}5$

Kumaşın satış fiyatı $100 \cdot 3{,}5 \cdot \frac{120}{100} = 400$ lira olur.

20. D

$$x \cdot \frac{a}{100} \cdot 4 = y \cdot \frac{b}{100} \cdot 6$$

$$2\cancel{y} \cdot \frac{a}{\cancel{100}} \cdot 4 = \cancel{y} \cdot \frac{a+10}{\cancel{100}} \cdot 6$$

$8a = 6a + 60$

$2a = 60$

$a = 30$

$b = 40$

$$x \cdot \frac{30}{100} + y \cdot \frac{40}{100} = 24.000$$

$$2y \cdot \frac{30}{100} + \frac{y \cdot 40}{100} = 24000$$

$$\frac{\cancel{100}y}{\cancel{100}} = 24000$$

$y = 24000$

$x = 2 \cdot 24000 = 48000$

$x + y = 24.000 + 48000 = 72000$ lira

MURAT YAYINLARI

/muratyayincilik

Karışım Problemleri • TEST 23

1. **Ağırlıkça şeker oranı %35 olan 80 kg şekerli suya 20 kg su eklenirse elde edilen karışımdaki şeker oranı yüzde kaç olur?**

A) 27 B) 28 C) 29 D) 30 E) 31

2. **200 gramlık bir karışımın %34'ü tuzdur. Tuz oranını %40'a yükseltmek için bu karışıma kaç gram tuz eklenmelidir?**

A) 20 B) 30 C) 40 D) 50 E) 60

3. **Tuz oranı %20 olan 60 gram tuzlu suya kaç gram saf su katılmalı ki karışımın tuz oranı %16 olsun?**

A) 24 B) 20 C) 18 D) 15 E) 12

4. **Ağırlıkça alkol oranı %30 olan 800 gramlık alkol-su karışımına kaç gram alkol eklenirse alkol oranı 2 katına çıkar?**

A) 400 B) 500 C) 600 D) 800 E) 1000

5. A, B, C gibi üç ayrı kapta bulunan aynı miktardaki maddelerin tuz yüzdeleri sırasıyla %10, %20 ve %60'tır.

A, B ve C kaplarındaki tuzlu su karışımları başka bir kapta karıştırıldığında oluşan yeni karışımın tuz oranı % kaç olur?

A) 20 B) 24 C) 25 D) 28 E) 30

6. **%40'ı şeker olan 15 gram şekerli suya 7,5 gram su ve kaç gram şeker eklenirse oluşan yeni karışımın şeker oranı %50 olur?**

A) 10 B) 10,5 C) 12 D) 12,5 E) 13,5

7. **Tuz oranı %25 olan 300 gram tuzlu sudan kaç gram su buharlaştırılırsa kalan karışımın tuz oranı %30 olur?**

A) 120 B) 100 C) 80 D) 60 E) 50

8. Ağırlıkça tuz oranı %40 olan tuz-su karışımına içinde bulunan tuz miktarının yarısı kadar su, su miktarının da yarısı kadar tuz ilave ediliyor.

Buna göre oluşan yeni karışımın tuz oranı yüzde kaç olur?

A) 25 B) 30 C) $\frac{100}{3}$ D) 40 E) $\frac{140}{3}$

9. Ağırlıkça tuz oranı %50 olan a gram un-tuz karışımı ile ağırlıkça tuz oranı %60 olan b gram un-tuz karışımı karıştırılıyor.

Oluşan yeni karışımın tuz oranı %56 olduğuna göre, $\frac{a}{b}$ oranı kaçtır?

A) $\frac{1}{2}$ B) $\frac{3}{4}$ C) $\frac{2}{3}$ D) $\frac{4}{3}$ E) $\frac{3}{2}$

MURAT YAYINLARI

10. Tuz oranı %30 olan 40 litre tuzlu suyun, tuz oranını %50'ye çıkarmak için karışma,

I. 10 litre tuz ilave edilir.

II. Karışımın %40'ı kadar tuz ilave edilir.

III. 16 litre su buharlaştırılır.

işlemlerinden hangileri tek başına uygulanabilir?

A) Yalnız I
B) Yalnız II
C) Yalnız III
D) I ve II
E) II ve III

11. Şeker oranı %50 olan 80 gram şekerli suyun 20 gramı dökülüyor ve yerine 6 gram şeker ve 14 gram su konuyor.

Buna göre, son karışımın şeker oranı yüzde kaçtır?

A) 40 B) 45 C) 50 D) 55 E) 60

12. Şeker oranı %2x olan 50 gram şekerli su ile şeker oranı %5x olan 30 gram şekerli su karıştırılıyor.

Oluşan yeni karışımın şeker oranı %25 olduğuna göre, x kaçtır?

A) 12 B) 10 C) 9 D) 8 E) 6

13. Bir havuza; %35 şekerli su akıtan bir musluk tek başına boş havuzu 4 saatte, %65 şekerli su akıtan başka bir musluk ise tek başına boş havuzu 6 saatte doldurmaktadır.

Buna göre, havuz boşken iki musluk aynı anda açılarak havuz doldurulduğunda, havuzdaki şeker oranı yüzde kaç olur?

A) 47 B) 48 C) 49 D) 50 E) 51

14. Özdeş A, B, C musluklarından sırasıyla sıcak su, kahve ve süt tozu akmaktadır.

A musluğu açıldıktan 4 saniye sonra B musluğu, B musluğu açıldıktan 2 saniye sonra C musluğu açılıyor ve C musluğu açıldıktan 4 saniye sonra üç muslukta kapatılıyor.

Buna göre, kapta oluşan kahvenin süt tozu oranı yüzde kaçtır?

A) 10 B) 16 C) 20 D) 25 E) 30

15. Ağırlıkça şeker oranı %x olan 60 gram şekerli su karışımına 20 gram şeker ekleniyor.

Elde edilen yeni karışımın şeker oranı %40 olduğuna göre, x kaçtır?

A) 15 B) 20 C) 25 D) 30 E) 35

16.

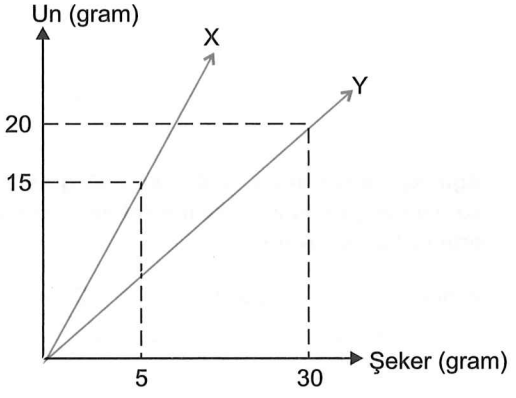

Yukarıdaki grafikte X ve Y karışımlarındaki un ve şeker miktarları verilmiştir.

Her iki karışımdan belli miktarlar alınarak 300 gramlık yeni bir karışım oluşturuluyor. Bu karışımın şeker oranı %32 olduğuna göre, X karışımından kaç gram alınmıştır?

A) 270 B) 260 C) 250 D) 240 E) 210

MURAT YAYINLARI

/muratyayincilik

17. Tuz oranı %62 olan 40 litre tuzlu suyun $\frac{1}{4}$'ü dökülüp yerine başlangıçtaki karışımın $\frac{1}{5}$'i kadar tuz ekleniyor.

Buna göre, elde edilen yeni karışımın tuz oranı yüzde kaçtır?

A) 66 B) 67 C) 68 D) 69 E) 70

18. 600 gramlık bir karışımın %45'i şekerdir. Bu karışımın yarısı alınarak yerine 65 gram şeker ve 135 gram su konuyor.

Buna göre, yeni karışımın şeker oranı yüzde kaç olur?

A) 36 B) 38 C) 40 D) 42 E) 45

19. A kabında şeker oranı %32 olan 120 gram şeker-su karışımı, B kabında şeker oranı %16 olan 60 gram şeker-su karışımı, C kabında şeker oranı %8 olan 60 gram şeker-su karışımı vardır.

A kabındaki karışımın yarısı B kabına döküldükten sonra B kabındaki karışımın da yarısı C kabına dökülüyor.

Buna göre, C kabında oluşan karışımın şeker oranı yüzde kaçtır?

A) 16 B) 18 C) 20 D) 24 E) 25

20. Bir öğrenci fen ve teknoloji dersinde tasarladığı çözelti makinesinin çalışma prensibini arkadaşlarına bir deneyle anlatmıştır.

Makinenin A haznesine %16'sı şeker olan şekerli su, B haznesine %40'ı şeker olan şekerli su konmuş ve muslukları özdeş olan A haznesinin musluğunu 3 dakika, B haznesinin musluğunu 5 dakika açık tutarak büyük kapta bir karışım oluşturmuştur.

Buna göre, deney sonucunda elde edilen karışımın şeker yüzdesi kaç olur?

A) 31 B) 32 C) 33 D) 34 E) 35

MURAT YAYINLARI

Açıklamalar • TEST 23

1. B

$$80 \cdot 35 + 20 \cdot 0 = (80 + 20) \cdot x$$
$$2800 = 100x$$
$$x = 28$$

2. A

$$200 \cdot 34 + x \cdot 100 = (200 + x) \cdot 40$$
$$6800 + 100x = 8000 + 40x$$
$$100x - 40x = 8000 - 6800$$
$$60x = 1200$$
$$x = 20$$

3. D

$$60 \cdot 20 + x \cdot 0 = (60 + x) \cdot 16$$
$$1200 = 960 + 16x$$
$$1200 - 960 = 16x$$
$$240 = 16x$$
$$x = 15$$

4. C

$$800 \cdot 30 + x \cdot 100 = (800 + x) \cdot 60$$
$$24000 + 100x = 48000 + 60x$$
$$100x - 60x = 48000 - 24000$$
$$40x = 24000$$
$$x = 600$$

5. E

Karışım miktarları eşitse oluşan yeni karışımın tuz yüzdesi eklenen karışımların tuz yüzdelerinin ortalaması kadardır.

$\frac{10 + 20 + 60}{3}$ = %30 olur.

6. B

$$15 \cdot 40 + 7{,}5 \cdot 0 + x \cdot 100 = (15 + 7{,}5 + x) \cdot 50$$
$$600 + 100x = 1125 + 50x$$
$$100x - 50x = 1125 - 600$$
$$50x = 525$$
$$x = 10{,}5 \text{ gram}$$

7. E

$$300 \cdot 25 - x \cdot 0 = (300 - x) \cdot 30$$
$$7500 = 9000 - 30x$$
$$30x = 9000 - 7500$$
$$30x = 1500$$
$$x = 50$$

8. E

Karışım 100 gram ise karışımın %40'ı tuz olduğundan 40 gram tuz, 60 gram su vardır.

$$\frac{40 + 30}{100 + 30 + 20} = \frac{x}{100}$$

$$70 \cdot \frac{\cancel{100}^{2}}{} = \frac{\cancel{150}^{3}}{} x$$

$$x = \frac{140}{3}$$

9. C

$$a \cdot 50 + b \cdot 60 = (a + b) \cdot 56$$
$$50a + 60b = 56a + 56b$$
$$60b - 56b = 56a - 50a$$
$$4b = 6a$$
$$\frac{a}{b} = \frac{2}{3}$$

MURAT YAYINLARI

/muratyayincilik

10. E

10 litre tuz ilave edilirse

$40 \cdot 30 + 10 \cdot 100 = 50 \cdot x$

$1200 + 1000 = 50x$

$2200 = 50x$

$x = 44$ (I. Öncül yanlış)

Karışımın %40'ı kadar yani $40 \cdot \frac{40}{100} = 16$ litre

tuz ilave edilirse

$40 \cdot 30 + 16 \cdot 100 = 56 \cdot x$

$1200 + 1600 = 56x$

$2800 = 56x$

$x = 50$ (II. öncül doğru)

II ve III doğrudur.

11. B

$80 \cdot 50 - 20 \cdot 50 + 6 \cdot 100 + 14 \cdot 0$

$= (80 - 20+6+14) \cdot x$

$4000 - 1000 + 600 = 80x$

$3600 = 80x$

$x = 45$

12. D

$50 \cdot 2x + 30 \cdot 5x = 80 \cdot 25$

$100x + 150x = 2000$

$250x = 2000$

$x = 8$

13. A

I. musluk 4 saatte, II. musluk 6 saatte havuzu doldurabiliyorsa I. musluk saatte 6 birim, II. musluk saatte 4 birim su doldurur.

$6 \cdot 35 + 4 \cdot 65 = (6+4) \cdot x$

$210 + 260 = 10x$

$470 = 10x$

$x = 47$

14. C

C musluğu 4 saniye, B musluğu 4 + 2 = 6 saniye, A musluğu 4 + 2 + 4 = 10 saniye açık kaldığından oluşan kahvenin 4 birimi süt tozu, 6 birimi kahve, 10 birimi sıcak sudur.

$\frac{4}{4+6+10} \times \frac{x}{100}$

$4 \cdot \frac{\cancel{100}}{5} = \cancel{20}x$

$x = 20$

%20'si süt tozudur.

15. B

$60 \cdot x + 20 \cdot 100 = 80 \cdot 40$

$60 \cdot x + 2000 = 3200$

$60x = 3200 - 2000$

$60x = 1200$

$x = 20$

16. D

X karışımının şeker oranı

$\frac{5}{15+5} = \frac{a}{100}$

$\frac{5}{\cancel{20}} \times \frac{a}{\frac{\cancel{100}}{5}}$

$a = 25$'tir.

Y karışımının şeker oranı

$\frac{30}{30+20} \times \frac{a}{100}$

$30 \cdot \frac{\cancel{100}}{2} = \cancel{50} \cdot a$

$a = 60$'tır.

$X \cdot 25 + (300 - X) \cdot 60 = 300 \cdot 32$

$25X + 18000 - 60X = 9600$

$18000 - 9600 = 60X - 25X$

$8400 = 35X$

$X = 240$

MURAT YAYINLARI

17. E

$$40 \cdot 62 - \left(\cancel{40}^{10} \cdot \frac{1}{4}\right) \cdot 62 + \left(\cancel{40}^{8} \cdot \frac{1}{\cancel{5}}\right) \cdot 100$$

$$= (40 - 10 + 8) \cdot x$$

$$2480 - 620 + 800 = 38x$$

$$2660 = 38x$$

$$x = 70$$

18. C

$$600 \cdot 45 - 300 \cdot 45 + 65 \cdot 100 + 135 \cdot 0$$

$$= (600 - 300 + 65 + 135) \cdot x$$

$$27000 - 13500 + 6500 = 500x$$

$$20000 = 500x$$

$$x = 40$$

19. A

A'nın yarısı B'ye aktarılırsa;

$$60 \cdot 32 + 60 \cdot 16 = 120 \cdot x$$

$$1920 + 960 = 120x$$

$$2880 = 120x$$

$$x = 24$$

Oluşan karışımın şeker oranı %24 olur.

B'nin yarısı C'ye aktarılırsa;

$$60 \cdot 24 + 60 \cdot 8 = 120 \cdot x$$

$$1440 + 480 = 120 \cdot x$$

$$1920 = 120x$$

$$x = 16$$

Oluşan son karışımın şeker oranı %16 olur.

20. A

A musluğu 3 dakika, B musluğu 5 dakika açık tutulursa A karışımından 3 birim, B karışımından 5 birim konulur.

$$3 \cdot 16 + 5 \cdot 40 = 8 \cdot x$$

$$48 + 200 = 8x$$

$$248 = 8x$$

$$x = 31$$

MURAT YAYINLARI

/muratyayincilik

Kümeler • TEST 24

1. $A = \{a, b, c\}$

$A \setminus B = \{a, c\}$

$B \setminus A = \{d, e\}$

olduğuna göre, $A \cup B$ kümesinin eleman sayısı kaçtır?

A) 2 B) 3 C) 4 D) 5 E) 6

2. A ve B kümeleri boş kümeden farklıdır.

$s(A \setminus B) = 8$

$s(B \setminus A) = 2$

$s(A) = 3 \cdot s(B)$

olduğuna göre, $A \cup B$ kümesinin eleman sayısı kaçtır?

A) 12 B) 11 C) 10 D) 9 E) 8

3. $A = \{a, b\}$, $B' = \{c, d\}$

kümeleri veriliyor.

Buna göre, $(A' \cap B)'$ aşağıdakilerden hangisidir?

A) $\emptyset$ B) $\{a, d\}$

C) $\{a, b, c, d\}$ D) $\{a, b, c\}$

E) $\{b\}$

4. $s(B) = 10$, $s(A - B) = 3$ **olduğuna göre, $A \cup B$ kümesinin eleman sayısı kaçtır?**

A) 9 B) 10 C) 11 D) 12 E) 13

5. $A = \{x : x = 4k, x \leq 280, k \in N\}$

$B = \{x : x = 4k, 94 < x, k \in N\}$

olduğuna göre, $s(A \cap B)$ kaçtır?

A) 47 B) 46 C) 45 D) 44 E) 43

6.

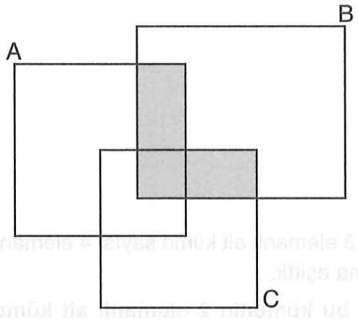

Yukarıdaki Venn şemasına göre, boyalı bölge aşağıdakilerden hangisidir?

A) $(A \cap B) \cap C$ B) $(A \cap C) \cup B$

C) $(A \cup B) \cap C$ D) $(A \cup C) \cap B$

E) $(A \setminus B) \cap C$

MURAT YAYINLARI

7. 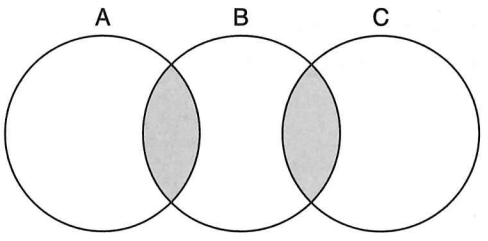

Yukarıdaki venn şemasına göre, boyalı bölge aşağıdakilerden hangisidir?

A) (A∪C)∩B B) (A∪B)\B
C) B\(A∪C) D) (B\A)∩(B\C)
E) (A∩B)∪(B∩C)

8. A ve B kümeleri için
s(B\A) = 5
S(A\B) = 7
ve A∩B kümesinin alt küme sayısı 16 olduğuna göre, s(A∪B) kaçtır?

A) 14 B) 15 C) 16 D) 17 E) 18

9. Bir kümenin 3 elemanlı alt küme sayısı 4 elemanlı alt küme sayısına eşittir.
Buna göre, bu kümenin 2 elemanlı alt kümeleri kaç tanedir?

A) 25 B) 24 C) 23 D) 22 E) 21

10. **A = {a, b, c, d, e, f} kümesine ait alt kümelerin kaç tanesinde "b" eleman olarak bulunur?**

A) 64 B) 32 C) 16 D) 18 E) 4

11. **A = {a, b, c, d, e, f, g} kümesine ait alt kümelerin kaç tanesinde "b" eleman olarak bulunurken "d" eleman olarak bulunmaz?**

A) 4 B) 8 C) 16 D) 32 E) 64

12. **A = {a, b, c, d, e, f} kümesinin 3 elemanlı alt kümelerinin kaç tanesinde "c" eleman olarak bulunurken, "d" eleman olarak bulunmaz?**

A) 6 B) 7 C) 8 D) 9 E) 10

MURAT YAYINLARI

/muratyayincilik

13. **38 kişilik bir sınıfta herkes futbol ve voleybol oyunlarından en az birini oynamaktadır. Futbol ve voleybol oynayanlar 4 kişidir. Voleybol oynayanların sayısı, futbol oynayanların sayısının 2 katı olduğuna göre, yalnız voleybol oynayanlar kaç kişidir?**

A) 28 B) 24 C) 23 D) 21 E) 18

14. **40 kişilik bir grupta futbol ve basketbol oyunlarından futbolu seven 22 kişi, basketbolu seven 19 kişidir. Bu iki oyunu da sevmeyen 6 kişi olduğuna göre, yalnız bir oyunu seven kaç kişi vardır?**

A) 23 B) 24 C) 25 D) 26 E) 27

15. Bir sınıftaki öğrencilerin 13'ünde şemsiye yoktur. 18'inde bot yoktur. 6'sında ise ne şemsiye ne de bot vardır.

Buna göre, şemsiye veya bottan en çok birine sahip olmayan kaç öğrenci vardır?

A) 19 B) 20 C) 21 D) 22 E) 23

16. **Bir sınıfın %75'i İngilizce kursuna, %45'i Almanca kursuna gitmektedir. 11 öğrenci yalnız İngilizce kursuna gittiğine göre, yalnız Almanca kursuna giden öğrenci sayısı kaçtır?**

A) 5 B) 6 C) 7 D) 8 E) 9

17. Bir grupta Fransızca ve İspanyolca yabancı dillerini bilen ve bilmeyenler bulunmaktadır. En çok bir yabancı dil bilen 21, en az bir yabancı dil bilen 18 kişi vardır. Hiç yabancı dil bilmeyen kişi sayısı iki yabancı dil bilenlerin sayısının 2 katıdır.

Buna göre, grupta kaç kişi vardır?

A) 26 B) 25 C) 24 D) 23 E) 22

18. Bir sınıfta fizik ve kimya derslerinin en az birinden geçenlerin sayısı 28'dir. Fizik dersinden geçenlerin sayısı, kimya dersinden geçenlerin sayısının 2 katıdır.

Her iki dersten geçen 8 kişi olduğuna göre, yalnız fizik dersinden geçen öğrenci sayısı kaçtır?

A) 10 B) 12 C) 14 D) 16 E) 18

19. $A = \{a, b, c, \{a, e\}\}$

olduğuna göre, aşağıdakilerden hangisi yanlıştır?

A) $s(A) = 4$ B) $a \cong A$

C) $\{a, e\} \cong A$ D) $\{c, \{a, e\}\} \subset A$

E) $\{a, e\} \subset A$

20. **Bir sınıftaki erkeklerin sayısı 11'dir. Bu sınıfta gözlüksüz erkeklerin sayısı, gözlüksüz kızların sayısının 2 katıdır. 20 kişilik bu sınıfta gözlüksüz erkeklerin sayısı gözlüklü kızların sayısına eşit olduğuna göre, gözlüklü erkek sayısı kaçtır?**

A) 4 B) 5 C) 6 D) 7 E) 8

MURAT YAYINLARI

Açıklamalar • TEST 24

1. D

A = {a, b, c}
A\B = {a, c}
B\A = {d, e}

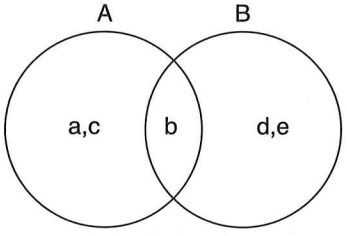

A∪B = {a, b, c, d, e}
s(A∪B) = 5 olur.

2. B

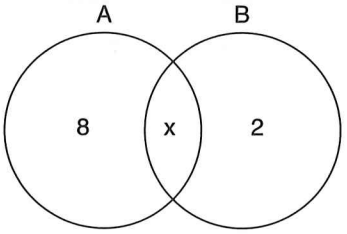

$8 + x = 3 \cdot (x + 2)$
$8 + x = 3x + 6$
$2 = 2x$
$1 = x$
s(A∪B) = 8 + 1 + 2
= 11 olur.

3. C

A = {a, b}
B′ = {c, d}
(A′∩B)′ = (A′)′∪B′ = A∪B′
= {a, b, c, d}

4. E

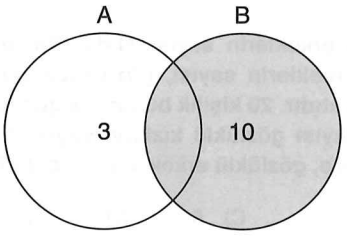

s(A∪B) = 3 + 10 = 13 olur.

5. A

A = {x : 4k, x ≤ 280, k∈N}
A = {0, 4, 8, 12, ..., 280}
B = {x : 4k, 94 < x, k∈N}
B = {96, 100, 104, ...}
s(A∩B) = {96, 100, 104, ..., 280}

$$T \cdot S = \frac{280-96}{4} + 1$$

$$= \frac{184}{4} + 1$$

$$= 47$$

s(A∩B) = 47 olur.

6. D

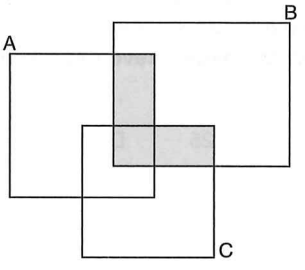

(A∪C)∩B

7. E

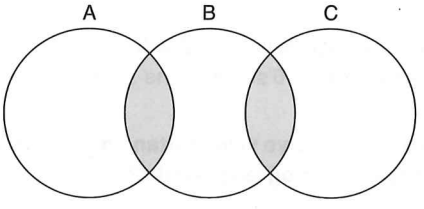

(A∩B)∪(B∩C)

8. C

Alt küme sayısı = 2^n
$2^n = 16$
$2^n = 2^4$
$n = 4 \Rightarrow s(A \cap B) = 4$

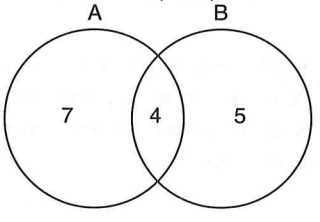

s(A∪B) = 7 + 4 + 5 = 16 olur.

MURAT YAYINLARI

/muratyayincilik

9. E

$$\binom{n}{3}=\binom{n}{4} \Rightarrow n=3+4$$

$$n=7$$

$$\binom{7}{2}=\frac{7!}{2!\cdot 5!}=\frac{7\cdot \overset{3}{\cancel{6}}\cdot \cancel{5!}}{\cancel{2}\cdot 1\cdot \cancel{5!}}=21$$

10. B

A = {a, ~~b~~, c, d, e, f}

Geriye 5 eleman kalır.

$2^5 = 32$ olur.

11. D

A = {a, ~~b~~, c, ~~d~~, e, f, g}

Geriye 5 eleman kalır.

$2^5 = 32$ olur.

12. A

A = {~~a~~, b, ~~c~~, ~~d~~, e, f}

c d

$$\binom{4}{2}=\frac{4!}{2!\cdot 2!}=\frac{4\cdot 3\cdot \cancel{2!}}{2\cdot 1\cdot \cancel{2!}}=6$$

13. B

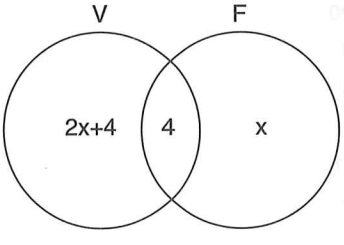

4 + x Futbol oynayanlar

$(4 + x) \cdot 2 = 8 + 2x$ Voleybol oynayanlar

$2x + 4 + 4 + x = 38$

$3x = 30$

$x = 10$

$2x + 4 = 2 \cdot 10 + 4$

= 24 yalnız voleybol oynayanlar

14. E

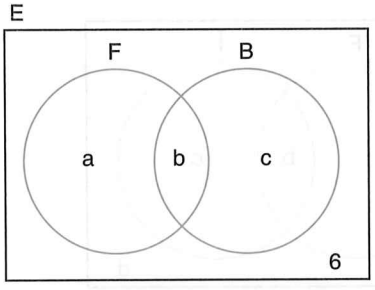

$a + b + c + 6 = 40 \Rightarrow a + b + c = 34$

$a + b = 22 \Rightarrow 22 + c = 34$

$\boxed{c = 12}$

$b + c = 19 \Rightarrow b + 12 = 19$

$\boxed{b = 7}$

$a + b + c = 34$

$a + 7 + 12 = 34$

$\boxed{a = 15}$

$a + c = 15 + 12$

= 27 olur.

15. A

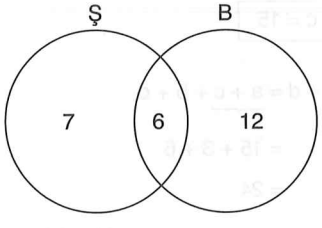

7 + 12 = 19

16. A

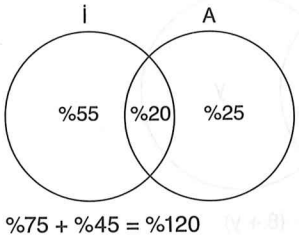

%75 + %45 = %120

%120 –%100 = %20 Her iki kurs

%75 – %20 = %55 Yalnız İngilizce

%45 – %20 = %25 Yalnız Almanca

%55	11
%25	?

$$?=\frac{25\cdot \overset{1}{\cancel{11}}}{\underset{5}{\cancel{55}}}=5$$

MURAT YAYINLARI

17. C

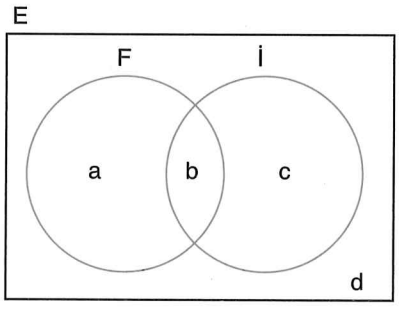

$a + c + d = 21$

$a + b + c = 18$

$d = 2b$

$a + c + 2b = 21$

$+ \quad -1/ \quad a + b + c = 18$

$\boxed{b = 3}$

$d = 2 \cdot 3$

$\boxed{d = 6}$

$a + c + 6 = 21$

$\boxed{a + c = 15}$

$a + b + c + d = \underbrace{a + c} + b + d$

$= 15 + 3 + 6$

$= 24$

18. D

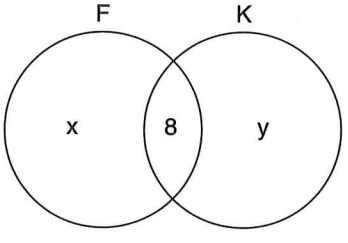

$x + 8 = 2 \cdot (8 + y)$

$x + 8 = 16 + 2y$

$x = 8 + 2y$

$x + 8 + y = 28$

$8 + 2y + 8 + y = 28$

$3y = 12$

$y = 4$

$x = 8 + 2 \cdot 4$

$x = 16$

19. E

$A = \{a, b, c, \{a, e\}\}$

A) $s(A) = 4$ doğru

B) $a \in A$ doğru

C) $\{a, e\} \in A$ doğru

D) $\{c, \{a, e\}\} \subset A$ doğru

E) $\{a, e\} \subset A$ yanlış

20. B

	Gözlüklü	Gözlüksüz	Toplam
Erkek	?	2x	11
Kız	2x	x	3x
Toplam			20

$11 + 3x = 20$

$3x = 9$

$x = 3$

$? + 2x = 11$

$? + 2 \cdot 3 = 11$

$? = 5$

MURAT YAYINLARI

/muratyayincilik

Fonksiyon • TEST 25

1. Gerçel sayılar kümesinde tanımlı f fonksiyonu
$f(x) = x^2 - 3$
olduğuna göre, f(1) . f(–2) ifadesinin sonucu kaçtır?

A) 2 B) 1 C) –1 D) –2 E) –3

2. Reel sayılarda tanımlı f fonksiyonu
$f(3x + 1) = 4 - x$
olduğuna göre, f(–5) kaçtır?

A) –4 B) –2 C) 2 D) 4 E) 6

3. $f(x) = \frac{x^2 + 2x + 6}{2}$

fonksiyonu için f(2) – 3 · f(4) değeri kaçtır?

A) –8 B) –13 C) –26 D) –38 E) –40

4. Gerçel sayılar kümesinde tanımlı f fonksiyonu
$f(x) = |x + 5| - |x - 2|$
olduğuna göre, f(–2) + f(1) değeri kaçtır?

A) 4 B) 3 C) 2 D) 1 E) 0

5. $f\left(\frac{x+2}{x}\right) = x^2 + 2x - 1$

olduğuna göre, f(3) değeri kaçtır?

A) 6 B) 5 C) 4 D) 3 E) 2

6. $f(x + 2) = ax^2 + 2x - 5$
$f(1) = -4$
olduğuna göre, a kaçtır?

A) 0 B) 1 C) 2 D) 3 E) 4

7. $f(x) = 3x + 12$
$f(n) = n$
olduğuna göre, n kaçtır?

A) –6 B) –4 C) –2 D) 2 E) 4

8. Reel sayılar kümesinde tanımlı f fonksiyonu
$f\left(\frac{x+3}{2}\right) = 3x - 6$

için f(a) = a eşitliğini sağlayan a değeri kaçtır?

A) 2 B) 3 C) 4 D) 5 E) 6

9. İki basamaklı AB doğal sayısı için f fonksiyonu
$f(AB) = A + B + A \cdot B$
biçiminde tanımlanıyor.
Buna göre, f(35) + f(77) toplamı kaçtır?

A) 78 B) 80 C) 86 D) 92 E) 98

MURAT YAYINLARI

10. Pozitif gerçel sayılar kümesi üzerinde f ve g fonksiyonları

$f(x) = 5^{2x}$

$g(x) = \frac{x^2}{2}$

biçiminde tanımlanıyor.

Buna göre,

$f(k) + g(2k) = 25 + 2k^2$

eşitliğini sağlayan k değeri kaçtır?

A) 1 B) 2 C) 3 D) 4 E) 5

11. Gerçel sayılar kümesi üzerinde tanımlı f fonksiyonu

$f(x) = 2x + 3$

olduğuna göre, (fof)(1) değeri kaçtır?

A) 9 B) 10 C) 11 D) 12 E) 13

12. **Gerçel sayılar kümesi üzerinde tanımlı $f(x) = 4x + 2$ fonksiyonu için $f(f(a)) = -6$ olduğuna göre, a kaçtır?**

A) –2 B) –1 C) 0 D) 1 E) 2

13. $f(x) = 3x^2 - 4$

$g(x) = 2x + 3$

olduğuna göre, f(g(1)) kaçtır?

A) 49 B) 51 C) 60 D) 65 E) 71

14. f fonksiyonu $f(x) = ax + b$ biçiminde tanımlanıyor.

$f(2) = 7$

$f(f(2) = 17$

olduğuna göre, a + b toplamı kaçtır?

A) 3 B) 4 C) 5 D) 6 E) 7

15. $f(x) = 5x - 7$

$g(x) = 3x + 5$

olduğuna göre, (fog)(x) fonksiyonu aşağıdakilerden hangisidir?

A) 15x + 7 B) 15x + 18 C) 21x – 5 D) 21x + 8 E) 2x – 2

16. $f(x) = \begin{cases} 5x + 2, & x \le 1 \\ 3x + 4, & x > 1 \end{cases}$

olduğuna göre, f(–2) + f(3) kaçtır?

A) 5 B) 6 C) 7 D) 8 E) 9

17. **$f(x) = 2x - 5$ olduğuna göre $f^{-1}(x)$ aşağıdakilerden hangisidir?**

A) $\frac{x-2}{5}$ B) $\frac{x+2}{5}$ C) $\frac{x-5}{2}$ D) $\frac{x+5}{2}$ E) 5x – 2

18. $f(x) = ax + 7$ ve $f^{-1}(-3) = -2$

olduğuna göre, f(1) kaçtır?

A) 8 B) 9 C) 10 D) 11 E) 12

19. $f(x) = 5x + 3$

$g(x) = 8$

olduğuna göre, f(1) + g(3) toplamı kaçtır?

A) 12 B) 14 C) 16 D) 18 E) 20

20. $f(x,y) = 5x - 2y + 3$

olduğuna göre, f(1,5) kaçtır?

A) –3 B) –2 C) 0 D) 2 E) 3

MURAT YAYINLARI

/muratyayincilik

Açıklamalar • TEST 25

1. D

$f(x) = x^2 - 3$

$f(1) = (1)^2 - 3 = 1 - 3 = -2$

$f(-2) = (-2)^2 - 3 = 4 - 3 = 1$

$f(1) \cdot f(-2) = (-2) \cdot (1) = -2$

2. E

$f(3x + 1) = 4 - x$

$3x + 1 = -5$

$3x = -6$

$x = -2$

$f(3 \cdot (-2) + 1) = 4 - (-2)$

$f(-5) = 6$

3. D

$f(x) = \frac{x^2 + 2x + 6}{2}$

$f(2) = \frac{(2)^2 + 2 \cdot (2) + 6}{2}$

$f(2) = \frac{4 + 4 + 6}{2}$

$f(2) = \frac{14}{2}$

$f(2) = 7$

$f(4) = \frac{(4)^2 + 2 \cdot (4) + 6}{2}$

$f(4) = \frac{30}{2}$

$f(4) = 15$

$f(2) - 3 \cdot f(4) = 7 - 3 \cdot (15)$

$= 7 - 45$

$= -38$

4. A

$f(x) = |x + 5| - |x - 2|$

$f(-2) = |(-2) + 5| - |(-2) - 2|$

$= |3| - |-4|$

$= 3 - (4)$

$= -1$

$f(1) = |(1) + 5| - |(1) - 2|$

$= |6| - |-1|$

$= 6 - (1)$

$= 5$

$f(-2) + f(1) = -1 + 5$

$= 4$

5. E

$f\left(\frac{x+2}{x}\right) = x^2 + 2x - 1$

$\frac{x+2}{x} = 3$

$x + 2 = 3x$

$2 = 2x$

$1 = x$

$f\left(\frac{1+2}{1}\right) = 1^2 + 2 \cdot 1 - 1$

$f(3) = 1 + 2 - 1$

$f(3) = 2$

6. D

$f(x + 2) = ax^2 + 2x - 5$

$x + 2 = 1$

$x = -1$

$f((-1) + 2) = a \cdot (-1)^2 + 2 \cdot (-1) - 5$

$f(1) = a - 2 - 5$

$-4 = a - 7$

$3 = a$

MURAT YAYINLARI

7. A

$f(x) = 3x + 12$

$f(n) = n$

$n = 3n + 12$

$-12 = 2n$

$-6 = n$

8. B

$f\left(\frac{x+3}{2}\right) = 3x - 6$

$f(a) = a$

$\frac{x+3}{2} = a$

$x + 3 = 2a$

$x = 2a - 3$

$f\left(\frac{2a-3+3}{2}\right) = 3(2a - 3) - 6$

$f(a) = 6a - 15$

$a = 6a - 15$

$15 = 5a$

$3 = a$

9. C

$f(AB) = A + B + A \cdot B$

$f(35) = 3 + 5 + 3 \cdot 5$

$f(35) = 3 + 5 + 15$

$f(35) = 23$

$f(77) = 7 + 7 + 7 \cdot 7$

$f(77) = 7 + 7 + 49$

$f(77) = 63$

$f(35) + f(77) = 23 + 63$

$= 86$

10. A

$f(x) = 5^{2x}$

$g(x) = \frac{x^2}{2}$

$f(k) = 5^{2k}$

$g(2k) = \frac{(2k)^2}{2} = 2k^2$

$f(k) + g(2k) = 25 + 2k^2$

$5^{2k} + 2k^2 = 25 + 2k^2$

$5^{2k} = 25$

$5^{2k} = 5^2$

$2k = 2$

$k = 1$

11. E

$f(x) = 2x + 3$

$(fof)(1) = f(f(1))$

$= f(2 \cdot 1 + 3)$

$= f(5)$

$= 2 \cdot 5 + 3$

$= 13$

12. B

$f(x) = 4x + 2$

$f(f(a)) = -6$

$f(4a + 2) = -6$

$4(4a + 2) + 2 = -6$

$16a + 10 = -6$

$16a = -16$

$a = -1$

13. E

$f(x) = 3x^2 - 4$

$g(x) = 2x + 3$

$f(g(1)) = f(2 \cdot 1 + 3)$

$= f(5)$

$= 3 \cdot 5^2 - 4$

$= 71$

MURAT YAYINLARI

/muratyayincilik

14. C

$f(x) = ax + b$

$f(2) = 7$

$f(f(2)) = 17$

$f(7) = 17$

$f(2) = 2a + b$

$\boxed{7 = 2a + b}$

$f(7) = 7a + b$

$\boxed{17 = 7a + b}$

$7a + b = 17$

$-1/\quad 2a + b = 7$

$+$

$5a = 10$

$\boxed{a = 2}$

$2 \cdot 2 + b = 7$

$4 + b = 7$

$\boxed{b = 3}$

$a + b = 2 + 3$

$= 5$

15. B

$f(x) = 5x - 7$

$g(x) = 3x + 5$

$(fog(x)) = f(g(x))$

$= f(3x + 5)$

$= 5(3x + 5) - 7$

$= 15x + 18$

16. A

$$f(x) = \begin{cases} 5x + 2, & x \le 1 \\ 3x + 4, & x > 1 \end{cases}$$

$f(-2) + f(3)$

$= [5(-2) + 2] + [3(3) + 4]$

$= [-10 + 2] + [9 + 4]$

$= (-8) + (13)$

$= 5$

17. D

$f(x) = 2x - 5$

$y = 2x - 5$

$x = 2y - 5$

$x + 5 = 2y$

$\frac{x + 5}{2} = y$

$f^{-1}(x) = \frac{x + 5}{2}$

18. E

$f(x) = ax + 7$ ve $f^{-1}(-3) = -2$

$f^{-1}(-3) = -2 \Rightarrow f(-2) = -3$

$f(-2) = a \cdot (-2) + 7$

$-3 = -2a + 7$

$2a = 10$

$a = 5$

$f(x) = 5x + 7$

$f(1) = 5 \cdot (1) + 7$

$f(1) = 12$

19. C

$f(x) = 5x + 3$

$g(x) = 8$

$f(1) = 5 \cdot (1) + 3$

$f(1) = 8$

$g(3) = 8$

$f(1) + g(3) = 8 + 8$

$= 16$

20. B

$f(x, y) = 5x - 2y + 3$

$f(1,5) = 5 \cdot (1) - 2 \cdot (5) + 3$

$= 5 - 10 + 3$

$= -2$

MURAT YAYINLARI

İşlem • TEST 26

1. Reel sayılar kümesi üzerinde "■" işlemi
$x \blacksquare y = (x-y)^2 + 1$
biçiminde tanımlanıyor.
Buna göre, 2020 ■ 2018 işleminin sonucu kaçtır?

A) 1 B) 2 C) 3 D) 4 E) 5

2. Reel sayılar kümesi üzerinde "⊗" işlemi
$a \otimes b = a^b + a \cdot b$
biçiminde tanımlanıyor.
Buna göre, (–2) ⊗ 4 işleminin sonucu kaçtır?

A) 16 B) 14 C) 12 D) 10 E) 8

3. Tam sayılar kümesi üzerinde "★" işlemi
$a \star b = 2a + b - 5$
biçiminde tanımlanıyor.
5 ★ x = 4 olduğuna göre, x kaçtır?

A) –3 B) –2 C) –1 D) 1 E) 2

4. Reel sayılar kümesi üzerinde "⊕" işlemi
$\frac{1}{x} \oplus \frac{1}{y} = \frac{x}{y} + 1$
biçiminde tanımlanıyor.
Buna göre, $8 \oplus \frac{1}{2}$ işleminin sonucu kaçtır?

A) 17 B) $\frac{5}{4}$ C) $\frac{17}{16}$ D) 1 E) $\frac{1}{16}$

5. Reel sayılar kümesi üzerinde "▲" işlemi $x > y$ için
$x \blacktriangle y = \frac{(x+1)!}{(y-1)!}$
biçiminde tanımlanıyor.
Buna göre, 5 ▲ 4 işleminin sonucu kaçtır?

A) 6! B) 5! C) 4! D) 3! E) 2!

6. Reel sayılar kümesi üzerinde "o" işlemi
$\frac{4}{xoy} = \frac{1}{x} + \frac{1}{y}$
biçiminde tanımlanıyor.
Buna göre, 8o2 işleminin sonucu kaçtır?

A) 7 B) $\frac{32}{5}$ C) 6 D) $\frac{27}{5}$ E) 5

7. Reel sayılar kümesi üzerinde "Δ" ve "□" işlemleri
$a \Delta b = a + b$
$a \square b = a - b$
biçiminde tanımlanıyor.
Buna göre, $(5 \Delta 3)^{4 \square 2}$ işleminin sonucu kaçtır?

A) 64 B) 48 C) 36 D) 25 E) 16

8. Reel sayılar kümesi üzerinde "Δ" işlemi
$a \Delta b = a^2 + b^2 + 2ab - 1$
biçiminde tanımlanıyor.
Buna göre, (2,5) Δ (5,5) işleminin sonucu kaçtır?

A) 27 B) 35 C) 49 D) 63 E) 65

MURAT YAYINLARI

/muratyayincilik

9. Doğal sayılar kümesi üzerinde " □ " işlemi

$x \square y = \{x + y$ toplamının 9'a bölümünden kalan$\}$

biçiminde tanımlanıyor.

Buna göre, (583 □ 2317) □ 136 işleminin sonucu kaçtır?

A) 3 B) 4 C) 5 D) 6 E) 7

10. Pozitif gerçel sayılar kümesi üzerinde " ★" işlemi

$a \star b = 3(a + b) + a \cdot b$

biçiminde tanımlanıyor.

Buna göre,

$(x + 3) \star x = 31$

eşitliğini sağlayan x değeri kaçtır?

A) 1 B) 2 C) 3 D) 4 E) 5

11. Reel sayılar kümesi üzerinde "Δ" işlemi

$$x \Delta y = \begin{cases} 2x - y & ; \ x < y \\ x + y & ; \ x \geq y \end{cases}$$

biçiminde tanımlanıyor.

Buna göre, (4Δ5)Δ2 işleminin sonucu kaçtır?

A) 7 B) 6 C) 5 D) 4 E) 3

12. Reel sayılar kümesi üzerinde

" $\oplus$ " ve "$\otimes$" işlemleri

$$x \oplus y = \begin{cases} 2x - 1, & x \geq y \\ 3y + 2, & x < y \end{cases}$$

$x \otimes y = |x \cdot y - 1|$

biçiminde tanımlanıyor.

Buna göre,

$(a \otimes 4) \oplus (0 \oplus 1) = 13$

eşitliğini sağlayan a değerleri çarpımı kaçtır?

A) 0 B) –1 C) –2 D) –3 E) –4

13. Reel sayılarda " □ " işlemi

$(x \square y) = 3x - y + 2 \cdot (y \square x)$ biçiminde tanımlanıyor.

Buna göre, (3 □ 2) işleminin sonucu kaçtır?

A) $\frac{13}{3}$ B) $\frac{13}{6}$ C) $-\frac{13}{6}$ D) $-\frac{13}{3}$ E) $-\frac{13}{2}$

14. Reel sayılarda " ★" işlemi

$x \star y = x + 3y - 12$

biçiminde tanımlanıyor.

Buna göre, ★ işleminin birim (etkisiz) elemanı kaçtır?

A) 1 B) 2 C) 3 D) 4 E) 5

15. Reel sayılarda "★" işlemi

$x \star y = x - 2y + 6$

biçiminde tanımlanıyor.

Buna göre, "★" işleminde 5'in tersi kaçtır?

A) 5 B) 4 C) 3 D) 2 E) 1

16. Reel sayılarda "Δ" işlemi

$x \Delta y = x + y - 5$

biçiminde tanımlanıyor.

Buna göre, "Δ" işleminde tersi kendisine eşit olan eleman kaçtır?

A) 1 B) 2 C) 3 D) 4 E) 5

MURAT YAYINLARI

17. ve 18. soruları aşağıdaki bilgilere göre cevaplayınız.

A = {S, I, N, A, V} kümesi üzerinde "Δ" işlemi aşağıdaki gibi tanımlanmıştır.

Δ	S	I	N	A	V
S	N	A	V	S	I
I	A	V	S	I	N
N	V	S	I	N	A
A	S	I	N	A	V
V	I	N	A	V	S

17. Buna göre, (NΔV) Δ(AΔI) işleminin sonucu aşağıdakilerden hangisidir?

A) S B) I C) N D) A E) V

18. $(I^{-1} \Delta V^{-1})^{-1} \Delta S^{-1}$ işleminin sonucu aşağıdakilerden hangisidir?

A) S B) I C) N D) A E) V

19. ve 20. soruları aşağıdaki bilgilere göre cevaplayınız.

A = {a, b, c, d, e} kümesi üzerinde "●" işlemi;

●	a	b	c	d	e
a	d	e	a	b	c
b	e	a	b	c	d
c	a	b	c	d	e
d	b	c	d	e	a
e	c	d	e	a	b

biçiminde tanımlanıyor.

19. Buna göre, e^{13} ifadesi aşağıdakilerden hangisine eşittir?

A) a B) b C) c D) d E) e

20. Buna göre, $(d \bullet a^2) \bullet (b \bullet e^{-1})$ işleminin sonucu aşağıdakilerden hangisidir?

A) a B) b C) c D) d E) e

MURAT YAYINLARI

/muratyayincilik

Açıklamalar • TEST 26

1. E

$x \blacksquare y = (x-y)^2 + 1$

$2020 \blacksquare 2018 = (2020-2018)^2 + 1$

$= (2)^2 + 1$

$= 4 + 1$

$= 5$

2. E

$a \otimes b = a^b + a \cdot b$

$(-2) \otimes 4 = (-2)^4 + (-2) \cdot 4$

$= 16 - 8$

$= 8$

3. C

$a \bigstar b = 2a + b - 5$

$5 \bigstar x = 4$

$2 \cdot (5) + x - 5 = 4$

$10 + x - 5 = 4$

$x = -1$

4. C

$\frac{1}{x} \oplus \frac{1}{y} = \frac{x}{y} + 1$

$\frac{1}{x} = 8$ $\qquad$ $\frac{1}{y} = \frac{1}{2}$

$\frac{1}{8} = x$ $\qquad$ $y = 2$

$8 \oplus \frac{1}{2} = \frac{\frac{1}{8}}{\frac{1}{2}} + 1$

$= \frac{1}{8} \cdot \frac{1}{2} + 1$

$= \frac{1}{16} + 1$

$= \frac{17}{16}$

5. B

$x \blacktriangle y = \frac{(x+1)!}{(y-1)!}$

$5 \blacktriangle 4 = \frac{(5+1)!}{(4-1)!}$

$= \frac{6!}{3!}$

$= \frac{6.5!}{3.2.1}$

$= 5!$

6. B

$\frac{4}{xoy} = \frac{1}{x} + \frac{1}{y}$

$\frac{4}{8o2} = \underset{(1)}{\frac{1}{8}} + \underset{(4)}{\frac{1}{2}}$

$\frac{4}{8o2} = \frac{5}{8}$

$\frac{32}{5} = 8o2$

7. A

$a \Delta b = a + b$

$a \square b = a - b$

$(5 \Delta 3)^{4 \square 2} = (5+3)^{4-2}$

$= (8)^2$

$= 64$

8. D

$a \Delta b = a^2 + b^2 + 2ab - 1$

$= (a+b)^2 - 1$

$(2,5) \Delta (5,5) = (2,5 + 5,5)^2 - 1$

$= 8^2 - 1$

$= 63$

MURAT YAYINLARI

9. A

$(583 \square 2317) \square 136$

$583 + 2317 = 2900$

$$\begin{array}{r|l} 2900 & 9 \\ \hline - & \\ \hline 2 & \end{array}$$

$2 \square 136$

$2 + 136 = 138$

$$\begin{array}{r|l} 138 & 9 \\ \hline - & \\ \hline 3 & \end{array}$$

olur.

10. B

$a \star b = 3(a + b) + a \cdot b$

$(x + 3) \star x = 3(x + 3 + x) + (x + 3) \cdot x$

$31 = 6x + 9 + x^2 + 3x$

$0 = x^2 + 9x - 22$

$0 = (x + 11) \cdot (x - 2)$

$x + 11 = 0$ $\quad$ $x - 2 = 0$

$x = -11$ $\quad$ $\boxed{x = 2}$

alınmaz. $\quad$ alınır.

11. C

$$x \Delta y = \begin{cases} 2x - y \ ; & x < y \\ x + y \ ; & x \geq y \end{cases}$$

$(4 \Delta 5) \Delta 2 = (2 \cdot 4 - 5) \Delta 2$

$= 3 \Delta 2$

$= 3 + 2$

$= 5$

12. D

$$x \oplus y = \begin{cases} 2x - 1 \ , & x \geq y \\ 3y + 2 \ , & x < y \end{cases}$$

$x \otimes y = |x \cdot y - 1|$

$(a \otimes 4) \oplus (0 \oplus 1) = 13$

$|a \cdot 4 - 1| \oplus (3 \cdot 1 + 2) = 13$

$|4a - 1| \oplus 5 = 13$

$|4a - 1| \geq 5$ ise

$2|4a - 1| - 1 = 13$

$2|4a - 1| = 14$

$|4a - 1| = 7$

$4a - 1 = 7$

$4a = 8$

$a = 2$

$4a - 1 = -7$

$4a = -6$

$4a = -6$

$a = -\frac{3}{2}$

$|4a - 1| < 5$ ise

$3 \cdot 5 + 2 \neq 13$

$17 \neq 13$

$2 \cdot \left(-\frac{3}{2}\right) = -3$

13. D

$x \square y = 3x - y + 2 \cdot (y \square x)$

$3 \square 2 = 3 \cdot 3 - 2 + 2 \cdot (2 \square 3)$

$3 \square 2 = 9 - 2 + 2 \cdot [3 \cdot 2 - 3 + 2 \cdot (3 \square 2)]$

$3 \square 2 = 7 + 2 \cdot [6 - 3 + 2 \cdot (3 \square 2)]$

$3 \square 2 = 7 + 2 \cdot [3 + 2 \cdot (3 \square 2)]$

$3 \square 2 = 7 + 6 + 4 \cdot (3 \square 2)$

$-13 = 3 \cdot (3 \square 2)$

$-\frac{13}{3} = 3 \square 2$

14. D

Etkisiz eleman için

$\boxed{a \star e = a}$ koşulu sağlamalı.

$x \star y = x + 3y - 12$

$x \star e = x + 3e - 12$

$x = x + 3e - 12$

$12 = 3e$

$4 = e$

MURAT YAYINLARI

/muratyayincilik

15. B

Etkisiz eleman için

$\boxed{a \star e = a}$

Ters eleman için

$\boxed{a \star a^{-1} = e}$ koşulları sağlamalı.

$x \star y = x - 2y + 6$ etkisiz eleman

$x \star e = x - 2e + 6$

$x = x - 2e + 6$

$2e = 6$

$\boxed{e = 3}$

$x \star y = x - 2y + 6$ ters eleman

$x \star x^{-1} = x - 2x^{-1} + 6$ $\quad x = 5,\ x^{-1} = 5$'in tersi

$5 \star x^{-1} = 5 - 2x^{-1} + 6$

$3 = 11 - 2x^{-1}$

$2x^{-1} = 8$

$x^{-1} = 4$

16. E

Tersi kendisine eşit olan eleman birim (etkisiz) elemandır.

$\boxed{x \Delta e = x}$

$x \Delta y = x + y - 5$

$x \Delta e = x + e - 5$

$x = x + e - 5$

$5 = e$

17. B

$(N \Delta V) \Delta (A \Delta I)$

$= A \Delta I$

$= I$

18. A

$(I^{-1} \Delta V^{-1})^{-1} \Delta S^{-1}$

$= (S \Delta N)^{-1} \Delta I$

$= V^{-1} \Delta I$

$= N \Delta I$

$= S$

19. D

$e^1 = e$

$e^2 = e \bullet e = b$

$e^3 = e^2 \bullet e = d$

$e^4 = e^3 \bullet e = a$

$e^5 = e^4 \bullet e = c$

$\vdots$

$e^1 = e^6 = e^{11} = \ldots = e$

$e^2 = e^7 = e^{12} = \ldots = b$

$e^3 = e^8 = e^{13} = \ldots = d$

20. B

$(d \bullet a^2) \bullet (b \bullet e^{-1})$

$= (d \bullet d) \bullet (b \bullet a)$

$= e \bullet e$

$= b$

MURAT YAYINLARI

Permütasyon - Kombinasyon • TEST 27

1. Zeynep'in 3 farklı renkte ayakkabısı ve 4 farklı renkte pantolonu vardır.

   Buna göre, Zeynep ayakkabı ve pantolonlarını aynı anda kaç farklı şekilde kullanabilir?

   A) 6 B) 8 C) 10 D) 12 E) 15

2. **A kentinden B kentine 3 farklı yol, B kentinden C kentine 5 farklı yol vardır. A kentinden C kentine gidip yeniden A kentine dönmek isteyen Gülru, B kentine uğramak koşuluyla kaç farklı şekilde yolculuk yapabilir?**

   A) 15 B) 80 C) 100 D) 120 E) 225

3. **A = {1, 2, 3, 4, 6, 7} kümesinin elemanları kullanılarak üç basamaklı rakamları farklı kaç farklı doğal sayı yazılabilir?**

   A) 210 B) 120 C) 90 D) 80 E) 60

4. **A = {0, 1, 3, 4, 6} kümesinin elemanları kullanılarak dört basamaklı kaç farklı doğal sayı yazılabilir?**

   A) 500 B) 450 C) 400 D) 350 E) 300

5. **A = {0, 1, 2, 4} kümesinin elemanları kullanılarak iki basamaklı rakamları farklı kaç farklı doğal sayı yazılabilir?**

   A) 5 B) 6 C) 7 D) 9 E) 10

6. **A = {0, 1, 2, 3, 4, 5} kümesinin elemanları kullanılarak üç basamaklı 300'den büyük kaç farklı doğal sayı yazılabilir?**

   A) 110 B) 109 C) 108 D) 107 E) 106

7. **Özdeş olmayan 4 tane bardak ve özdeş olmayan 3 tane fincan yan yana olmak koşuluyla düz bir rafa kaç farklı şekilde sıralanabilir?**

   A) $3! \cdot 4!$ B) $5! \cdot 2!$ C) $6!$ D) $6! \cdot 2!$ E) $7!$

8. **4 tane farklı hikâye kitabı ve 3 tane farklı roman bir rafa hikâye kitapları yan yana olmak koşuluyla kaç farklı şekilde sıralanabilir?**

   A) 610 B) 576 C) 560 D) 525 E) 500

9. **3 erkek ve 2 kız yan yana sıralanmak isteniyor. Erkekler kendi aralarında yan yana, kızlar kendi aralarında yan yana olmak koşuluyla kaç farklı sıralama gerçekleşir?**

   A) 15 B) 18 C) 20 D) 24 E) 28

10. **6 farklı renkte boya kullanılarak 3 tane kapı birbirinden farklı renkte olmak koşuluyla kaç farklı şekilde boyanabilir?**

    A) 90 B) 105 C) 120 D) 180 E) 216

MURAT YAYINLARI

/muratyayincilik

11. 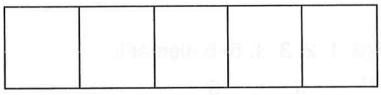

Yukarıda verilen 5 tane birim kare yan yana olanlar farklı renkte olmak koşuluyla 4 farklı renk kullanılarak kaç farklı şekilde boyanabilir?

A) 420 B) 364 C) 324 D) 300 E) 284

12. **İSTATİSTİK kelimesindeki harfler kullanılarak anlamlı ya da anlamsız 10 harfli kelimeler yazılmak isteniyor. Buna göre, İ ile başlayıp S ile bilen kaç farklı kelime yazılabilir?**

A) $\frac{10!}{3!\cdot 3!}$ B) $\frac{8!}{2!\cdot 3!}$ C) $\frac{10!}{5!}$ D) $\frac{8!}{3!\cdot 3!}$ E) $\frac{8!}{5!}$

13. **Anne, baba ve yaşları farklı 3 çocuktan oluşan bir aile yuvarlak masa etrafına çocuklar yan yana olmak koşuluyla kaç farklı şekilde sıralanabilir?**

A) 6 B) 8 C) 10 D) 12 E) 24

14. **5 tane şoför ve 6 tane işçi arasından 1 şoför ve 3 tane işçiden oluşacak ekip kaç farklı şekilde seçilebilir?**

A) 100 B) 90 C) 80 D) 70 E) 60

15. **4 kız ve 3 erkek arasından en az 2 tanesi kız olan 3 kişilik ekip kaç farklı şekilde seçilebilir?**

A) 32 B) 30 C) 28 D) 26 E) 22

16. **5 elemanlı bir kümenin 3 elemanlı alt kümeleri sayısı kaç tanedir?**

A) 12 B) 10 C) 9 D) 8 E) 6

17. **Şeyda ve Şebnem'in bulunduğu 7 kişi arasından Şeyda'nın olup Şebnem'in olmadığı 4 kişilik ekip kaç farklı şekilde oluşturulabilir?**

A) 20 B) 18 C) 14 D) 12 E) 10

18. 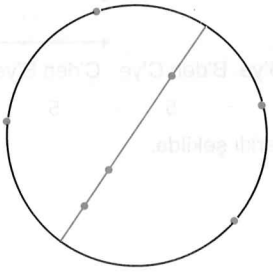

Yukarıda verilen çember üzerinde 4 nokta ve çap üzerinde 3 nokta vardır. Köşeleri bu noktalar üzerinde olan kaç farklı üçgen çizilebilir?

A) 45 B) 40 C) 34 D) 30 E) 24

19. **7 kişi arasından 3 kişilik bir ekip ve bu ekip içinden bir sözcü kaç farklı şekilde seçilebilir?**

A) 125 B) 105 C) 95 D) 80 E) 75

20. 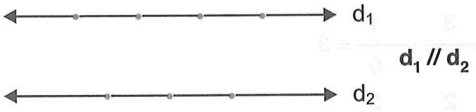

Yukarıda verilen d_1 ve d_2 doğruları üzerindeki toplam 7 noktadan seçilmek üzere kaç faklı dörtgen çizilebilir?

A) 18 B) 20 C) 22 D) 24 E) 26

MURAT YAYINLARI

Açıklamalar • TEST 27

1. D

Saymanın çarpım kuralı ile bulabiliriz.

$3 \cdot 4 = 12$ farklı şekilde kullanabilir.

2. E

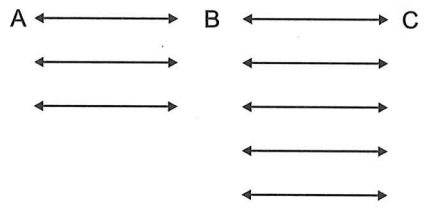

A'dan B'ye B'den C'ye C'den B'ye B'den A'ya

$3 \cdot 5 \cdot 5 \cdot 3$

= 225 farklı şekilde.

3. B

A = {1, 2, 3, 4, 6, 7} 6 elemanlı

$\underline{6} \cdot \underline{5} \cdot \underline{4} = 120$ tane

4. A

A = {0, 1, 3, 4, 6} 5 elemanlı

$\underset{0 \text{ hariç}}{\underline{4}} \cdot \underline{5} \cdot \underline{5} \cdot \underline{5} = 500$ tane

5. D

A = {0, 1, 2, 4} 4 elemanlı

$\underline{3} \cdot \underset{0}{\underline{1}} = 3$

$\underline{2} \cdot \underset{1,2,4}{\underline{3}} = 6$

3 + 6 = 9 tane

6. D

A = {0, 1, 2, 3, 4, 5} 6 elemanlı

$\underset{3, 4, 5}{\underline{3}} \cdot \underline{6} \cdot \underline{6} = 108$

Bu 108 tane sayıdan 300 sayısı koşulu sağlamadığı için çıkarılmalı.

108 – 1 = 107 tane

7. E

4 tane bardak

3 tane fincan

\+

7

7! tane sıralama olur.

8. B

4 tane hikâye kitabı

3 tane roman

Hikâye kitapları yan yana olacaksa

1 tane sayılır.

1 + 3 = 4 kitap varmış gibi düşünülüp hikâye kitapları kendi arasında yer değiştirilir.

$4! \cdot 4! = 24 \cdot 24$

$= 576$

9. D

3 erkek yan yana 1 sayılır.

2 kız yan yana 1 sayılır.

1 + 1 = 2 kişi gibi düşünülür. Sonra kızlar kendi arasında, erkekler kendi arasında yer değiştirir.

$2! \cdot 3! \cdot 2! = 2 \cdot 6 \cdot 2$

$= 24$

10. C

1. kapı — 2. kapı — 3. kapı

$6 \cdot 5 \cdot 4 = 120$

farklı boyama yapılabilir.

MURAT YAYINLARI

/muratyayincilik

11. C

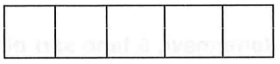

$4 \cdot 3 \cdot 3 \cdot 3 \cdot 3 = 324$ farklı boyama

12. B

Tekrarlı permütasyon

$\underbrace{\text{İ} \cdots \text{S}}$

$\dfrac{8!}{2! \cdot 3!}$

13. D

Dairesel permütasyon

$(n-1)!$

3 çocuk yan yana olacağı için 1 kişi gibi sayılıp sonra kendi arasında yer değiştirilir.

Anne + baba + çocuklar = 3 kişi

$(3-1)! \cdot 3! = 2! \cdot 3!$

$= 2 \cdot 6$

$= 12$

14. A

$$\binom{5}{1} \cdot \binom{6}{3} = \frac{5!}{1! \cdot 4!} \cdot \frac{6!}{3! \cdot 3!}$$

$$= \frac{5 \cdot \cancel{4!}}{\cancel{4!}} \cdot \frac{\cancel{6} \cdot 5 \cdot 4 \cdot \cancel{3!}}{\cancel{3} \cdot \cancel{2} \cdot 1 \cdot \cancel{3!}}$$

$= 5 \cdot 20$

$= 100$

15. E

$$\binom{4}{2} \cdot \binom{3}{1} + \binom{4}{3} \cdot \binom{3}{0}$$

$$= \frac{4!}{2! \cdot 2!} \cdot \frac{3!}{1! \cdot 2!} + \frac{4!}{3! \cdot 1!} \cdot \frac{3!}{0! \cdot 3!}$$

$= 6 \cdot 3 + 4 \cdot 1$

$= 18 + 4$

$= 22$

16. B

$$\binom{5}{3} = \frac{5!}{3! \cdot 2!}$$

$$= \frac{5 \cdot \overset{2}{\cancel{4}} \cdot \cancel{3!}}{3! \cdot \cancel{2} \cdot 1}$$

$= 10$

17. E

Şeyda Şebnem dışarıda

$\underbrace{\_\_\_\_ \ \_\_\_\_ \ \_\_\_\_ \ \_\_\_\_}$

$$\binom{5}{3} = \frac{5!}{3! \cdot 2!}$$

$= 10$

18. C

$$\binom{7}{3} - \binom{3}{3} = \frac{7!}{3! \cdot 4!} - \frac{\cancel{3!}}{\cancel{3!} \cdot 0!}$$

$$= \frac{7 \cdot \cancel{6} \cdot 5 \cdot \cancel{4!}}{\cancel{3} \cdot \cancel{2} \cdot 1 \cdot \cancel{4!}} - 1$$

$= 35 - 1$

$= 34$

19. B

$$\binom{7}{3} \cdot \binom{3}{1} = \frac{7!}{3! \cdot 4!} \cdot \frac{3!}{1! \cdot 2!}$$

$= 35 \cdot 3$

$= 105$

20. A

$$\binom{4}{2} \cdot \binom{3}{2} = \frac{4!}{2! \cdot 2!} \cdot \frac{3!}{2! \cdot 1!}$$

$= 6 \cdot 3$

$= 18$

MURAT YAYINLARI

Olasılık • TEST 28

1. 5 erkek, 3 kız arasından rastgele seçilen 2 kişiden birinin erkek diğerinin kız olma olasılığı kaçtır?

A) $\frac{7}{28}$ B) $\frac{15}{28}$ C) $\frac{17}{28}$ D) $\frac{15}{56}$ E) $\frac{17}{56}$

2. 4 kırmızı, 3 sarı top arasından rastgele seçilen 2 toptan ikincisinin kırmızı olması olasılığı kaçtır?

A) $\frac{13}{42}$ B) $\frac{11}{24}$ C) $\frac{3}{7}$ D) $\frac{4}{7}$ E) $\frac{1}{2}$

3. Bir torbada bulunan 3 tane kırmızı, 4 tane mavi ve 6 tane sarı toptan art arda rastgele 2 top çekiliyor. Her iki topunda aynı renkte olması olasılığı kaçtır?

A) $\frac{2}{13}$ B) $\frac{3}{13}$ C) $\frac{4}{13}$ D) $\frac{5}{11}$ E) $\frac{6}{11}$

4. Bir torbada 1'den 5'e kadar numaralandırılmış 5 tane top bulunmaktadır. Bu torbadan geri bırakılmaksızın art arda rastgele 2 top çekiliyor. Çekilen topların toplamının çift sayı olması olasılığı kaçtır?

A) $\frac{7}{10}$ B) $\frac{3}{10}$ C) $\frac{4}{5}$ D) $\frac{3}{5}$ E) $\frac{2}{5}$

5. Bir torbada 5 tane kırmızı, 7 tane yeşil top bulunmaktadır. Bu torbadan geri bırakılmaksızın rastgele 3 top art arda çekiliyor. Çekilen toplardan ilk ikisinin kırmızı, üçüncüsünün yeşil olma olasılığı kaçtır?

A) $\frac{7}{66}$ B) $\frac{4}{55}$ C) $\frac{3}{44}$ D) $\frac{2}{33}$ E) $\frac{1}{11}$

6. Bir torbada 4 tane mavi, 6 tane sarı bilye bulunmaktadır. Bu torbadan geri bırakılmaksızın rastgele 3 bilye art arda çekiliyor. Çekilen bilyelerin ikisinin mavi, birinin sarı olma olasılığı kaçtır?

A) $\frac{7}{10}$ B) $\frac{3}{10}$ C) $\frac{1}{10}$ D) $\frac{2}{5}$ E) $\frac{1}{5}$

7. Bir torbada 3 tane kırmızı, 4 tane beyaz, 5 tane siyah bilye vardır. Bu torbadan iadesiz olarak art arda rastgele 3 bilye seçiliyor. Seçilen bilyelerin her birinin farklı renkte olma olasılığı kaçtır?

A) $\frac{1}{11}$ B) $\frac{2}{11}$ C) $\frac{3}{11}$ D) $\frac{4}{11}$ E) $\frac{5}{11}$

8. Bir torbada 4 tane kırmızı, 6 tane sarı top bulunmaktadır. Bu torbadan iadeli olarak rastgele 2 top çekiliyor. Çekilen topların farklı renkte olma olasılığı kaçtır?

A) $\frac{1}{5}$ B) $\frac{2}{5}$ C) $\frac{11}{25}$ D) $\frac{12}{25}$ E) $\frac{13}{25}$

9. Üzerinde 2'den 6'ya kadar numaralandırılmış 5 top birinci torbaya, üzerinde 0'dan 3'e kadar numaralandırılmış 4 top ikinci torbaya atılıyor. Bu torbalardan rastgele birer top çekiliyor. Çekilen topların üzerinde yazılı olan sayıların çarpımının tek sayı olması olasılığı kaçtır?

A) $\frac{2}{9}$ B) $\frac{1}{9}$ C) $\frac{3}{5}$ D) $\frac{2}{5}$ E) $\frac{1}{5}$

10. Hilesiz bir zar atılıyor. Üste gelen sayının en az 3 olması olasılığı kaçtır?

A) $\frac{1}{3}$ B) $\frac{2}{3}$ C) $\frac{1}{6}$ D) $\frac{5}{6}$ E) $\frac{1}{2}$

MURAT YAYINLARI

/muratyayincilik

11. **Hilesiz iki zar atılıyor. Üste gelen yüzeydeki sayıların toplamının en az 10 olması olasılığı kaçtır?**

A) $\frac{1}{2}$ B) $\frac{3}{4}$ C) $\frac{5}{6}$ D) $\frac{1}{6}$ E) $\frac{3}{5}$

12. **Hilesiz iki zarın aynı anda atılması deneyinde üste gelen sayıların toplamının 10 olduğu bilindiğine göre, bu zarlardan birinin 6 olması olasılığı kaçtır?**

A) $\frac{5}{36}$ B) $\frac{1}{36}$ C) $\frac{1}{2}$ D) $\frac{1}{3}$ E) $\frac{2}{3}$

13. **Hilesiz üç zarın aynı anda atılması deneyinde üste gelen sayıların toplamının 17 olması olasılığı kaçtır?**

A) $\frac{1}{36}$ B) $\frac{5}{36}$ C) $\frac{1}{72}$ D) $\frac{5}{72}$ E) $\frac{1}{216}$

14. **Hilesiz bir paranın art arda 3 kez atılması deneyinde üste gelen yüzeylerden en fazla iki tanesinin tura olması olasılığı kaçtır?**

A) $\frac{1}{2}$ B) $\frac{3}{4}$ C) $\frac{5}{6}$ D) $\frac{7}{8}$ E) $\frac{1}{4}$

15. **Hilesiz bir zar ve bir para aynı anda atılıyor. Zarın 2'den büyük paranın yazı olması olasılığı kaçtır?**

A) $\frac{1}{6}$ B) $\frac{1}{5}$ C) $\frac{1}{4}$ D) $\frac{1}{3}$ E) $\frac{1}{2}$

16. **Bir doktorun yapacağı bir ameliyatta başarılı olma olasılığı %90'dır. Bu doktorun yapacağı 3 ameliyatın 3'ünde de başarısız olma olasılığı kaçtır?**

A) 0,001 B) 0,01 C) 0,1 D) 0,5 E) 0,9

17.

	Kız	Erkek	Toplam
Gözlüklü	15	25	40
Gözlüksüz	30	45	75
Toplam	45	70	115

Yukarıdaki tabloda bir topluluktaki kız ve erkeklerin gözlük kullanıp kullanmama durumları gösterilmiştir.

Buna göre, bu topluluktan rastgele seçilen bir kişinin kız veya gözlük kullanmayan olması olasılığı kaçtır?

A) $\frac{21}{25}$ B) $\frac{17}{25}$ C) $\frac{18}{23}$ D) $\frac{17}{23}$ E) $\frac{17}{21}$

18. **5 kız ve 3 erkek yan yana oturduğunda tüm kızların yan yana oturma olasılığı kaçtır?**

A) $\frac{11}{4}$ B) $\frac{9}{14}$ C) $\frac{5}{14}$ D) $\frac{3}{14}$ E) $\frac{1}{14}$

19. **4 evli çift arasından rastgele seçilen iki kişinin birbiriyle evli olması olasılığı kaçtır?**

A) $\frac{1}{7}$ B) $\frac{1}{8}$ C) $\frac{1}{9}$ D) $\frac{1}{10}$ E) $\frac{1}{11}$

20. **Metin, Hakan ve Nasip'in kullanacakları birer penaltıda gol atma olasılıkları sırasıyla $\frac{3}{4}$, $\frac{2}{3}$, $\frac{1}{6}$ olduğuna göre, üçü birer penaltı kullandığında üçününde gol atması olasılığı kaçtır?**

A) $\frac{1}{8}$ B) $\frac{1}{9}$ C) $\frac{1}{10}$ D) $\frac{1}{11}$ E) $\frac{1}{12}$

MURAT YAYINLARI

Açıklamalar • TEST 28

1. B

5 erkek, 3 kız

1. 2.

E K → $\frac{5}{8} \cdot \frac{3}{7} = \frac{15}{56}$

K E → $\frac{3}{8} \cdot \frac{5}{7} = \frac{15}{56}$

$\frac{15}{56} + \frac{15}{56} = \frac{30}{56}$

$= \frac{15}{28}$

2. D

4 kırmızı, 3 sarı

1. 2.

K K → $\frac{4}{7} \cdot \frac{3}{6} = \frac{12}{42}$

S K → $\frac{3}{7} \cdot \frac{4}{6} = \frac{12}{42}$

$\frac{12}{42} + \frac{12}{42} = \frac{24}{42}$

$= \frac{4}{7}$

3. C

3 kırmızı, 4 mavi, 6 sarı

1. 2.

K K → $\frac{3}{13} \cdot \frac{2}{12} = \frac{6}{156}$

M M → $\frac{4}{13} \cdot \frac{3}{12} = \frac{12}{156}$

S S → $\frac{6}{13} \cdot \frac{5}{12} = \frac{30}{156}$

$\frac{6}{156} + \frac{12}{156} + \frac{30}{156} = \frac{48}{156}$

$= \frac{4}{13}$

4. E

{1, 2, 3, 4, 5}

{1, 3, 5} tekler

{2, 4} çiftler

1. 2.

T T → $\frac{3}{5} \cdot \frac{2}{4} = \frac{6}{20}$

Ç Ç → $\frac{2}{5} \cdot \frac{1}{4} = \frac{2}{20}$

$\frac{6}{20} + \frac{2}{20} = \frac{8}{20}$

$= \frac{2}{5}$

5. A

5 kırmızı, 7 yeşil

1. 2. 3.

K K Y → $\frac{\cancel{5}^{1}}{\cancel{12}_{3}} \cdot \frac{\cancel{4}^{1}}{11} \cdot \frac{7}{\cancel{10}_{2}}$

$= \frac{7}{66}$

6. B

4 mavi, 6 sarı

1. 2. 3.

M M S → $\frac{\cancel{4}^{1}}{10} \cdot \frac{\cancel{3}^{1}}{\cancel{9}_{3}} \cdot \frac{\cancel{6}^{1}}{\cancel{8}_{2}} = \frac{1}{10}$

M S M → $\frac{4}{10} \cdot \frac{6}{9} \cdot \frac{3}{8} = \frac{1}{10}$

S M M → $\frac{6}{10} \cdot \frac{4}{9} \cdot \frac{3}{8} = \frac{1}{10}$

$\frac{1}{10} + \frac{1}{10} + \frac{1}{10} = \frac{3}{10}$

MURAT YAYINLARI

/muratyayincilik

7. C

3 kırmızı, 4 beyaz, 5 siyah

1.	2.	3.
K	B	S
K	S	B
B	S	K
B	K	S
S	K	B
S	B	K

$\cancel{6} \cdot \frac{3}{\cancel{12}} \cdot \frac{\cancel{4}}{11} \cdot \frac{\overset{1}{\cancel{5}}}{\underset{2}{\cancel{10}}} = \frac{3}{11}$

8. D

4 kırmızı, 6 sarı

1.	2.	
K	S	$\rightarrow \frac{4}{10} \cdot \frac{6}{10} = \frac{24}{100}$
S	K	$\rightarrow \frac{6}{10} \cdot \frac{4}{10} = \frac{24}{100}$

$\frac{24}{100} + \frac{24}{100} = \frac{48}{100}$

$= \frac{12}{25}$

9. E



I. Torba II. Torba

Sayılar çarpımının tek sayı olabilmesi için her iki topun da tek sayı olması gerekir.

1.	2.	
Tek	Tek	
$\frac{2}{5}$	$\frac{2}{4}$	$= \frac{1}{5}$

10. B

{1, 2, 3, 4, 5, 6} tüm durumlar

{3, 4, 5, 6} istenen durumlar

Olasılık = $\frac{\text{istenen durumlar}}{\text{tüm durumlar}}$

$= \frac{4}{6}$

$= \frac{2}{3}$

11. D

$6 \cdot 6 = 36$ tüm durumlar

{(4,6), (5,5), (5,6), (6,4), (6,5), (6,6)}

olasılık = $\frac{6}{36}$

$= \frac{1}{6}$

12. E

{(4,6), (5,5), (6,4)} tüm durumlar

{(4,6), (6,4)} istenen durumlar

olasılık = $\frac{2}{3}$

13. C

$6 \cdot 6 \cdot 6 = 216$ tüm durumlar

{(6,6,5),(6,5,6),(5,6,6)} istenen durumlar

olasılık = $\frac{3}{216}$

$= \frac{1}{72}$

14. A

$2 \cdot 2 \cdot 2 = 8$ tüm durumlar

YYY

YYT, YTY, TYY

YTT, TYT, TTY
TTT
istenen durumlar

Olasılık = $\frac{4}{8}$

$= \frac{1}{2}$

MURAT YAYINLARI

15. D

Zar Para

$\frac{4}{6} \cdot \frac{1}{2} = \frac{1}{3}$

16. A

Başarılı = 0,90

Başarısız = 0,10

1. 2. 3.

0,10 · 0,10 · 0,10 = 0,001

17. C

	Kız	Erkek	Toplam
Gözlüklü	15	25	40
Gözlüksüz	30	45	75
Toplam	45	70	115

$\text{Olasılık} = \frac{45}{115} + \frac{75}{115} - \frac{30}{115}$

$= \frac{90}{115}$

$= \frac{18}{23}$

18. E

5 kız, 3 erkek

1 + 3 = 4 kişi gibi sayılır.

4! · 5! → istenen durumlar

8! → tüm durumlar

$\text{Olasılık} = \frac{4! \cdot 5!}{8!}$

$= \frac{4 \cdot 3 \cdot 2 \cdot 1 \cdot 5!}{8 \cdot 7 \cdot 6 \cdot 5!}$

$= \frac{1}{14}$

19. A

$\text{Olasılık} = \frac{\binom{4}{1}}{\binom{8}{2}}$

$= \frac{\frac{4!}{3! \cdot 1!}}{\frac{8!}{2! \cdot 6!}}$

$= \frac{\frac{4 \cdot 3!}{3! \cdot 1!}}{\frac{8 \cdot 7 \cdot 6!}{2 \cdot 1 \cdot 6!}}$

$= \frac{4}{28}$

$= \frac{1}{7}$

20. E

$\text{Olasılık} = \frac{3}{4} \cdot \frac{2}{3} \cdot \frac{1}{6}$

$= \frac{1}{12}$

MURAT YAYINLARI

/muratyayincilik

Tablo - Grafik - I • TEST 29

1. ve 2. soruları aşağıdaki bilgilere göre cevaplayınız.

Aşağıdaki tablo, beş farklı türdeki yarışmaya 2019 ve 2020 yıllarında katılan kişi sayılarını göstermektedir.

Yarışma	Katılan kişi sayısı	
	2019 yılı	2020 yılı
Resim	300	450
Bilgi	250	300
Fotoğraf	100	200
Yemek	350	250
Karikatür	200	100

1. 2019 yılında resim yarışmasına katılan kişi sayısı aynı yılda tüm yarışmalara katılanların yüzde kaçıdır?

A) 20 B) 25 C) 30 D) 35 E) 40

2. 2020 yılında hangi yarışmaya katılan kişi sayısı 2019 yılına göre %20 artmıştır?

A) Fotoğraf B) Karikatür
C) Resim D) Yemek
E) Bilgi

3. – 5. soruları aşağıdaki bilgilere göre cevaplayınız.

Aşağıdaki grafik bir fabrikanın ocak, şubat, mart, nisan ve mayıs aylarında ürettiği ürün sayılarını göstermektedir.



3. Buna göre, fabrikanın mart ayında ürettiği ürün sayısı, şubat ayına göre yüzde kaç artmıştır?

A) 15 B) 20 C) 25 D) 30 E) 40

4. Fabrikanın ürettiği toplam ürün sayıları bir daire grafiğiyle gösterilmek istenirse ocak ayında üretilen ürün sayısını gösteren daire diliminin merkez açısı kaç derece olur?

A) 37,5 B) 45 C) 50
D) 60 E) 72,5

5. Fabrikanın nisan ve mayıs aylarında ürettiği toplam ürün sayısı beş ayda ürettiği toplam ürün sayısının yüzde kaçıdır?

A) 60 B) 50 C) 40 D) 30 E) 25

6. – 8. soruları aşağıdaki tabloya göre cevaplayınız.

Gün	Nisan	Mayıs	Haziran	Temmuz	Ağustos
$	50	80	100	75	160
₺	70	120	109	90	200

Yukarıdaki tablo aylara göre ₺ – $ kurunu göstermektedir.

6. 1000 $ parası olan bir kişi en kârlı çıkmak için parasını hangi ay bozdurmalıdır?

A) Nisan B) Mayıs
C) Haziran D) Temmuz
E) Ağustos

7. 100 dolarını nisan ayında Türk Lirasına çevirmeyip haziran ayında çeviren bir kişi kaç ₺ daha az alır?

A) 31 B) 30 C) 29 D) 27 E) 21

8. 1500 $ ve 7630 ₺'si olan bir kişi aşağıdaki çeviri işlemlerinden hangisini yaparsa en kârlı olur?

	1500 $ → ₺'ye	₺7630 → $'a
A)	Mayıs	Haziran
B)	Nisan	Mayıs
C)	Haziran	Ağustos
D)	Temmuz	Mayıs
E)	Nisan	Haziran

MURAT YAYINLARI

9. 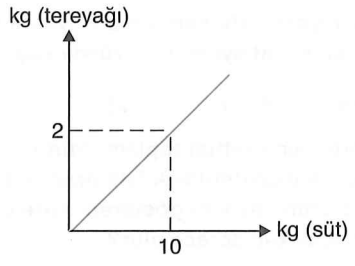

Yukarıdaki grafiğe göre 15 kg tereyağı elde etmek için kaç kg süt kullanılmalıdır?

A) 30 B) 40 C) 50 D) 60 E) 75

10. – 12. soruları aşağıdaki bilgilere göre cevaplayınız.

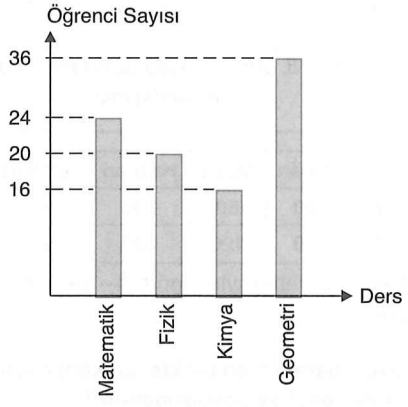

Yukarıdaki grafik sayısal dersleri kaç öğrencinin aldığını göstermektedir.

10. **Sayısal dersleri ortalama kaç öğrenci almaktadır?**

A) 20 B) 22 C) 22,5 D) 24 E) 25

11. Okula bu dersleri almaya x kişi gelip bu dersleri alan x kişi okuldan ayrılınca her dersi alan öğrenci sayısı birbirine eşit oluyor.

Buna göre, x <u>en az</u> kaçtır?

A) 8 B) 10 C) 12 D) 14 E) 16

12. **Kimya dersini alan öğrencilerin yarısı matematik, kalanı fizik dersini alırsa matematik dersini alan öğrenci sayısının fizik dersi alan öğrenci sayısına oranı kaç olur?**

A) $\frac{6}{5}$ B) $\frac{7}{6}$ C) $\frac{8}{7}$ D) $\frac{9}{8}$ E) $\frac{10}{9}$

13. - 15. soruları aşağıdaki bilgilere göre cevaplayınız.

Meyve	Üretildiği Alan (m^2)	Üretilen Miktar (ton)
Karpuz	100	125
Vişne	80	100
Kayısı	75	75
Şeftali	80	100
Kavun	160	200

Yukarıdaki tablo meyvelerin üretildiği alanı ve o alanda üretilen meyve miktarını göstermektedir.

13. **1 m^2 alanda üretilen karpuz miktarı kaç tondur?**

A) 1,45 B) 1,25 C) 1 D) 0,8 E) 0,75

14. **Bu tablo üretilen meyve miktarlarına göre daire grafik ile gösterilirse, üretilen kavun miktarını gösteren daire diliminin merkez açısı kaç derece olur?**

A) 140 B) 120 C) 100 D) 80 E) 60

15. **Vişne üretilen alanda da kayısı üretilseydi toplam kaç ton kayısı üretilirdi?**

A) 175 B) 165 C) 155 D) 145 E) 135

MURAT YAYINLARI

16.

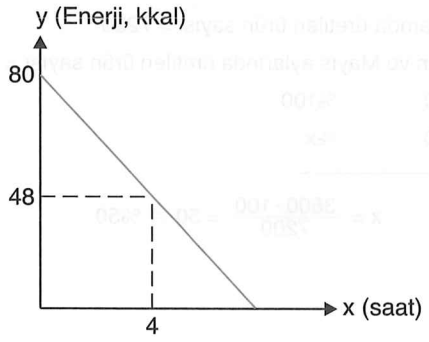

Yukarıdaki grafik Yusuf'un enerjisinin zamana göre değişimini göstermektedir.

Yusuf'un enerjisi kaçıncı saatte sıfır olur?

A) 16 B) 14 C) 12 D) 11 E) 10

17. - 19. soruları aşağıdaki bilgilere göre cevaplayınız.

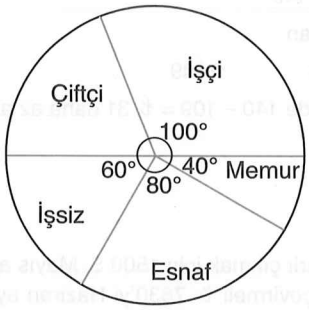

Yukarıdaki grafik bir ilçedeki iş durumunun dağılımını göstermektedir.

17. **Esnaf sayısı tüm çalışanların yüzde kaçıdır?**

A) $\frac{25}{3}$ B) $\frac{40}{3}$ C) 20 D) $\frac{200}{9}$ E) 35

18. **Çiftçi sayısı esnaf sayısının yüzde kaçıdır?**

A) 1 B) 40 C) 60 D) 80 E) 100

19. **2000 memurun çalıştığı bu ilçede işsiz sayısı kaçtır?**

A) 6000 B) 5000 C) 4500 D) 4000 E) 3000

20. yol (m)

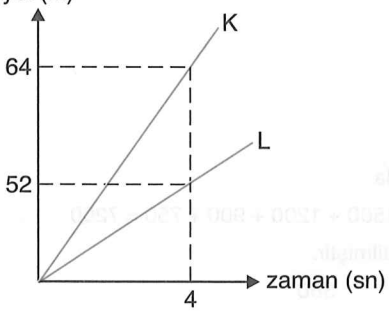

Yukarıdaki grafik K-L araçlarının aldığı yolun zamana göre değişimini göstermektedir. Buna göre, 10. saniye sonunda aralarındaki mesafe kaç m olur?

A) 45 B) 39 C) 36 D) 33 E) 30

MURAT YAYINLARI

Açıklamalar • TEST 29

1. B

2019 yılında toplam katılım:

300 + 250 + 100 + 350 + 200 = 1200

2019 yılında resim = 300

1200	%100
300	%x

$$x = 25 \Rightarrow \%25$$

2. E

%20 = $\frac{1}{5}$'tir. Bilgi yarışmasında 50 kişilik artış olmuş.

$$\frac{50}{250} = \frac{1}{5}$$

3. C

1500 – 1200 = 300 artış.

1200'de — 300 artarsa

100'de — x artar

$$x = \frac{100 \cdot 300}{1200} = 25 \Rightarrow \%25$$

4. B

Toplamda

2850 + 1500 + 1200 + 900 + 750 = 7200

ürün üretilmiştir.

7200	360°
900	x

$$x = \frac{900 \cdot 300}{200} = 45°$$

5. B

Toplamda üretilen ürün sayısı = 7200

Nisan ve Mayıs aylarında üretilen ürün sayısı = 3600

7200	%100
3600	%x

$$x = \frac{3600 \cdot 100}{7200} = 50 \Rightarrow \%50$$

6. B

	Nisan	Mayıs	Haziran	Temmuz	Ağustos
1000 $	1400	1500	1090	1200	1250

7. A

Nisan

50 $	70
100 $	x

x = ₺140

Haziran

100 $ ₺109

O halde 140 – 109 = ₺ 31 daha az alır.

8. A

En kârlı çıkmak için 1500 $, Mayıs ayında Türk Lirasına çevirmeli ₺ 7630'yi Haziran ayında dolara çevirmelidir.

9. E

2 kg tereyağı için	10 kg süt
15 kg tereyağı	x

$$x = \frac{15 \cdot 10}{2} \Rightarrow x = 75 \text{ kg süt}$$

MURAT YAYINLARI

/muratyayincilik

10. D

$$\frac{16 + 20 + 24 + 36}{4} = \frac{96}{4} = 24$$

11. C

Matematik	Fizik	Kimya	Geometri
24	20	16	36
0	+4	+8	−12
24	24	24	24

ortalama 24 olduğundan

12 kişi geldi

12 kişi gitti → x = 12

12. C

Kimya
16

Matematik	Fizik
24	20
+8	+8
32	28

$\Rightarrow \frac{32}{28} = \frac{8}{7}$

13. B

100 m^2	125 ton
1 m^2	x

$x = \frac{125}{100} = 1{,}25$ ton/m^2

14. B

600 ton	360° ise
200 ton	x

x = 120°

15. C

75 m^2 alanda	75 ton
80 m^2 alanda	x

x = 80 ton

75 + 80 = 155 ton kayısı üretilir.

16. E

4 saatte 80 − 48 = 32 kkal enerji harcanır.

4 saatte	32 kkal harcanırsa
x	80 kkal

$x = \frac{80 \cdot 4}{32} \Rightarrow x = 10$ saat

17. D

Çiftçinin merkez açısı:

360° − 80° − 60° − 40° − 100° = 80°'dir.

360°	80°
100	x

$x = \frac{200}{9}$

18. E

Çiftçi → 80°, Esnaf → 80°

$80° = 80 \cdot \frac{x}{100} \Rightarrow x = 100$, %100'dür.

19. E

2000 memur	40°
x	60°

$x = \frac{2000 \cdot 60}{40} \Rightarrow x = 3000$ işsiz

20. E

K		L	
4 sn	64 m	4 sn	52
10 sn	x	10 sn	y
x = 160 m		y = 130 m	

160 − 130 = 30 m

MURAT YAYINLARI

Tablo - Grafik - II • TEST 30

1. - 4. soruları aşağıdaki bilgilere göre cevaplayınız.

Market Adı	Günler		
	Pazartesi	Salı	Çarşamba
A	100	150	80
B	90	120	80
C	120	100	100
D	170	195	145
E	80	100	80

Yukarıdaki tablo aynı ürüne ait A, B, C D, E marketlerinde günlere göre satış adetlerini göstermektedir.

1. **A marketinde salı günü satılan ürün sayısı, pazartesi gününe göre yüzde kaç artmıştır?**

A) 150 B) 100 C) 50 D) 25 E) 20

2. **B marketinde satılan üç günlük ürün sayısı ortalaması kaçtır?**

A) 150 B) 120 C) 100 D) $\frac{290}{3}$ E) $\frac{280}{3}$

3. **D marketinde satılan ürünlerin sayısının günlere göre dağılımı daire grafik ile gösterilirse pazartesi gününü gösteren daire diliminin merkez açısı kaç derece olur?**

A) 120 B) 125 C) 130 D) 140 E) 150

4. Aşağıda, tüm marketlerde satılan ürünlerin toplam sayısı gösterilmiştir.

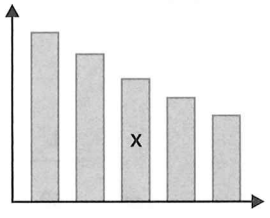

Grafiğe göre X ile gösterilen market aşağıdakilerden hangisidir?

A) A B) B C) C D) D E) E

5. - 8. soruları aşağıdaki tabloya göre cevaplayınız.

Aşağıdaki tabloda K, L, M iş yerlerinde 2019 ve 2020 yıllarında çalışan sayılarının bazıları ile bu iş yerlerinde 2020 yılında çalışan sayısının 2019'a göre değişim oranlarının bazıları verilmiştir.

İş yeri	2019	2020	Değişim oranı
K		465	%7 azalma
L	600		%30 artış
M	400	492	

5. **K iş yerinde 2019 yılında çalışan sayısı kaçtır?**

A) 500 B) 507 C) 514 D) 600 E) 603

6. **L iş yerinde 2020 yılında çalışan sayısı kaçtır?**

A) 760 B) 770 C) 780 D) 800 E) 810

7. **M iş yerinde 2020 yılında çalışan sayısı yüzde kaç artmıştır?**

A) 17 B) 23 C) 29 D) 33 E) 37

8. **2019 yılında bu üç iş yerinde çalışanlar bir daire grafiğiyle gösterilirse K iş yerinde çalışanları gösteren daire diliminin merkez açısı kaç derecedir?**

A) 100 B) 110 C) 115 D) 120 E) 150

MURAT YAYINLARI

/muratyayincilik

9. - 13. soruları aşağıdaki bilgilere göre cevaplayınız.

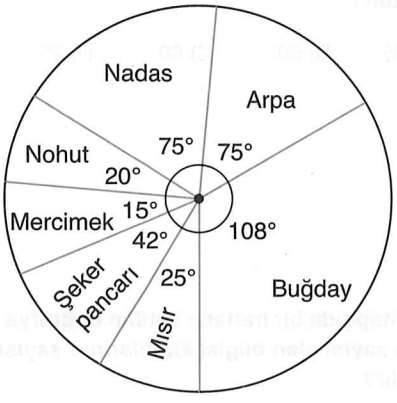

Yetiştirilen Ürün	Elde Edilen Gelir Miktarı (x1000 ₺)
Buğday	120
Arpa	90
Şeker Pancarı	100
Mısır	50
Nohut	60
Mercimek	30

Yukarıda dairesel grafik bir köydeki nadasa bırakılan ve ürünlere ayrılan alanların dağılımını, tablo ise bu alanlarda yetiştirilen ürünlerden elde edilen gelir miktarını göstermektedir.

9. Arpadan elde edilen gelir, tüm ürünlerden elde edilen toplam gelirin yüzde kaçıdır?

A) 45 B) 40 C) 30 D) 20 E) 15

10. Birim alan başına en fazla gelir hangi üründen alınmıştır?

A) Nohut B) Şeker pancarı
C) Mısır D) Mercimek
E) Buğday

11. Nadasa bırakılan ve mercimek ekilen alanların toplamı, toplam tarım alanının yüzde kaçıdır?

A) 30 B) 25 C) 22,5 D) 20 E) 15

12. Elde edilen gelir miktarı en çok olan ürün, toplam tarım alanının yüzde kaçına ekilmiştir?

A) 10 B) 15 C) 25 D) 30 E) 45

13. Belirlenen koşulların değişmediği düşünüldüğünde nadasa bırakılan alanda da mısır üretimi yapılsaydı toplam gelir kaç bin ₺ olurdu?

A) 475 B) 500 C) 600 D) 625 E) 650

14. - 16. soruları aşağıdaki tabloya göre cevaplayınız.

Aşağıdaki tabloda Murat Eğitim Kurumları'na 2019 ve 2020 yıllarının ilk altı ayında kayıt yaptıran öğrenci sayıları verilmiştir.

Aylar	2019	2020
Ocak	900	950
Şubat	630	850
Mart	400	680
Nisan	500	720
Mayıs	300	500
Haziran	100	300

14. 2019 yılının Şubat ayındaki kayıt sayısı Ocak ayındaki kayıt sayısına göre yüzde kaç azalmıştır?

A) 20 B) 25 C) 30 D) 65 E) 70

MURAT YAYINLARI

15. Aşağıdaki daire grafik 2019 yılının A, B ve C aylarındaki kayıt sayılarının bu üç aydaki toplam kayıt sayısı içindeki paylarını göstermektedir.

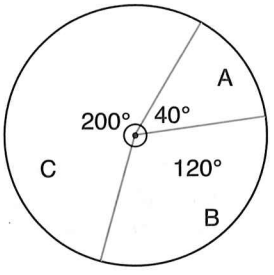

Grafikte A harfiyle gösterilen ay haziran ayı ise B ve C harfiyle gösterilen aylar sırasıyla hangileridir?

A) Ocak - Nisan
B) Mayıs - Nisan
C) Nisan - Mayıs
D) Şubat - Mart
E) Mart - Şubat

16. **2020 yılının hangi ayındaki kayıt sayısı 2020 yılının ilk altı ayındaki toplam kayıt sayısının %12,5'idir?**

A) Şubat B) Mart C) Nisan
D) Mayıs E) Haziran

17. - 20. soruları aşağıdaki bilgilere göre cevaplayınız.

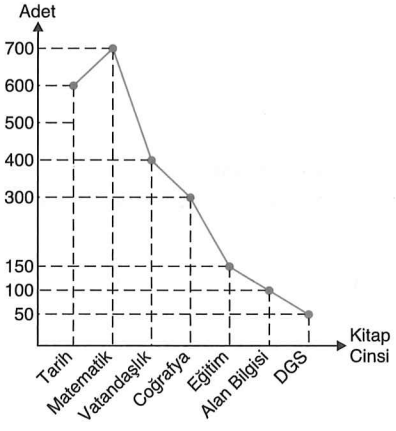

Yukarıdaki grafik bir kitapçıda bir hafta içerisinde satılan kitapların cinslerine göre adetlerini göstermektedir.

17. **Bu kitapçıda bir haftada satılan tarih kitaplarının sayısı, eğitim kitaplarının sayısından yüzde kaç fazladır?**

A) 45 B) 50 C) 60 D) 75 E) 100

18. **Bu kitapçıda bir haftada satılan coğrafya kitaplarının sayısı alan bilgisi kitaplarının sayısının kaç katıdır?**

A) 2,5 B) 3 C) 3,5 D) 4 E) 4,5

19. **Bu kitapçıda bir haftada satılan kitaplar bir daire grafiği ile gösterilirse coğrafya, matematik ve eğitim kitaplarının sayısını gösteren daire dilimlerinin merkez açılarının toplamı kaç derecedir?**

A) 60 B) 75 C) 90 D) 120 E) 180

20. **Bir tane tarih kitabından elde edilen kâr 5 ₺ olup sırasıyla diğer kitaplar kendisinden bir önce gelen kitabın kârından 1 ₺ daha fazladır. Buna göre bu kitapçıda bir haftada satılan kitaplardan elde edilen en fazla kâr hangi kitap cinsinden elde edilmiştir?**

A) Eğitim
B) Matematik
C) Vatandaşlık
D) Coğrafya
E) Tarih

MURAT YAYINLARI

Açıklamalar • TEST 30

1. C

A marketi salı günü → 150
A marketi pazartesi günü → 100
50 artmış. %50 artmıştır.

2. D

$$\text{Ortalama} = \frac{90 + 120 + 80}{3} = \frac{290}{3}$$

3. A

360° — 510 tane ise
x — 170 tane

$$x = \frac{360 \cdot 170}{510} \Rightarrow x = 120°$$

4. C

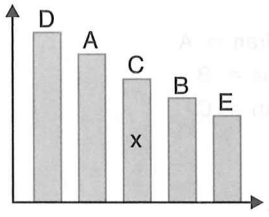

A → 100 + 150 + 80 = 330
B → 90 + 120 + 80 = 290
C → 120 + 100 + 100 = 320
D → 170 + 195 + 145 = 510
E → 80 + 100 + 80 = 260

5. A

K iş yerinde 2019'da 100x işçi çalışsın.
2020'de çalışan sayısı
$100x - 7x = 93x \Rightarrow 93x = 465 \Rightarrow x = 5$
$\Rightarrow 100x = 100 \cdot 5 = 500$

6. C

$$600 \cdot \frac{30}{100} = 180 \text{ artış}$$

600 + 180 = 780

7. B

492 – 400 = 92 artış

400'de — 92 artarsa
100'de — x artar

x = 23 ⇒ %23

8. D

500 + 600 + 400 = 1500 kişi

1500 kişi — 360°
500 kişi — x°

x = 120°

9. D

Toplam Gelir = 120 + 90 + 100 + 50 + 60 + 30
= 450 bin ₺

450 bin ₺ — 90 bin ₺
100 — ?

$$? = \frac{100 \cdot 90}{450} = 20$$

%20 arpa

MURAT YAYINLARI

10. A

Buğday = $\frac{120}{108} = 1\frac{12}{108}$

Arpa = $\frac{90}{75} = 1\frac{15}{75}$

Şeker pancarı = $\frac{100}{42} = 2\frac{16}{42}$

Mısır = $\frac{50}{25} = 2$

Nohut = $\frac{60}{20} = 3 \Rightarrow$ en fazla gelir.

Mercimek = $\frac{30}{15} = 2$

11. B

$75° + 15° = 90°$

360°	90°
100	?

$? = \frac{100 \cdot 90}{360} = 25$

%25 olur.

12. D

En fazla gelir buğdaydan elde edilmiştir.

360°	108°
100	?

$? = \frac{100 \cdot 108}{360} = 30$

%30 olur.

13. C

25°	50 bin ₺
75°	?

$? = \frac{75 \cdot 50}{25} = 150$ bin ₺ fazla olur.

450 + 150 = 600 bin ₺ olurdu.

14. C

900 – 630 = 270 azalmış.

900	270
100	?

$? = \frac{100 \cdot 270}{900} = 30$

%30 azalmıştır.

15. B

40° ⇒ 100 ⇒ Haziran ⇒ A
120° ⇒ 300 ⇒ Mayıs ⇒ B
200° ⇒ 500 ⇒ Nisan ⇒ C

16. D

2020 toplam kayıt:
950 + 850 + 680 + 720 + 500 + 300 = 4000

$4000 \cdot \frac{12,5}{100} = 500$

Mayıs ayı olur.

MURAT YAYINLARI

/muratyayincilik

17. D

Tarih = 600
Matematik = 700
Vatandaşlık = 400
Coğrafya = 300
Eğitim = 150
Alan Bilgisi = 100
DGS = 50

\+

2300

600 – 150 = 450 fazla

600	450
100	?

$$? = \frac{100 \cdot \overset{3}{\cancel{450}}}{\underset{4}{\cancel{600}}} = 75$$

%75 fazladır.

18. B

$300 = 100 \cdot x$

$3 = x$

19. E

Toplam = 2300

Matematik + Coğrafya + Eğitim = 1150

2300	360°
1150	?

$$? = \frac{\overset{1}{\cancel{1150}} \cdot 360}{\underset{2}{\cancel{2300}}} = 180°$$

20. B

T = 5 · 600 = 3000
M = 6 · 700 = 4200 →en fazla
V = 7 · 400 = 2800
C = 8 · 300 = 2400
E = 9 · 150 = 1350
A = 10 · 100 = 1000
D = 11 · 50 = 550

MURAT YAYINLARI

Sayısal Akıl Yürütme • TEST 31

1. - 3. soruları aşağıdaki bilgilere göre cevaplayınız.

Her birinin üzerinde 1'den 12'ye kadar sayılardan biri yazılı olan on iki kart rastgele bir biçimde, her kutuda altışar kart bulunacak şekilde iki kutuya konuyor. Kutulardan birindeki kartların üzerindeki sayılar toplanarak A toplamı, diğerindeki kartların üzerindeki sayılar toplanarak da B toplamı bulunuyor. Sonra kartlar kutulardan alınarak tekrar iki kutuya rastgele atılıyor. Bu şekilde, her denemede kutulara atılan kartlar değiştirilerek farklı A ve B çiftleri bulunuyor.

1. Aşağıdakilerden hangisi A ya da B'nin alabileceği bir değer olamaz?

A) 21 B) 27 C) 33 D) 49 E) 58

2. Bir denemede elde edilen A ve B çifti aşağıdakilerin hangisinde verilen değerler olamaz?

	A	B
A)	22	56
B)	39	39
C)	26	52
D)	42	36
E)	49	26

3. Bir denemede elde edilen A ve B değerlerinin çarpımının alabileceği en büyük değer kaçtır?

A) 1521 B) 1520 C) 1517
D) 1512 E) 1505

4. ve 5. soruları aşağıdaki bilgilere göre cevaplayınız.

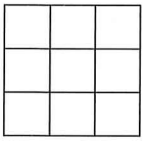

Yukarıdaki gibi dokuz kutucuktan oluşmuş bir şekil üzerinde Ayşe ile Burcu tarafından oynanan bir oyunun kuralları aşağıda verilmiştir.

- Ayşe ile Burcu kutucuklara baş harflerini sırayla yazmaktadır.

  Örneğin; Ayşe istediği kutucuğa A harfini yazarak oyuna başlıyor ve sıra Burcu'ya geçiyor. Burcu da istediği bir kutucuğa B harfini yazıyor ve bu şekilde sırasıyla hamlede bulunuyorlar.
- Aynı satır, sütun ya da köşegen üzerinde üç A ya da B yazan oyuncu oyunu kazanıyor.
- İki oyuncu da oyunu kazanmak için hamlede bulunuyor.

4. Aşağıda Ayşe'nin başladığı bir oyunun son durumu verilmiştir. Buna göre, aşağıdaki oyunlardan hangisinde Ayşe tek hamlede oyunu kazanır?

A)

A	A	B
		B

B)

		A
B	B	
A		

C)

A	B	A
	B	

D)

A		
A		
B	B	

E)

A		B
		B
		A

MURAT YAYINLARI

/muratyayincilik

5.

A	1	B
2	3	A
4	5	B

Yukarıda Burcu'nun başladığı bir oyunun son durumu verilmiştir.

Buna göre Burcu 1, 2, 3, 4, 5 ile gösterilen kutucuklardan hangisine B işaretini yazarsa oyunu kesinlikle kazanır?

A) 1 B) 2 C) 3 D) 4 E) 5

6.- 8. soruları aşağıdaki bilgilere göre cevaplayınız.

1, 2, 3, 4, 5 ve 6 numaralı altı kumbara içerisinde 50 kuruşluk madeni paralar vardır.

Bu kumbaralarla ilgili aşağıdakiler bilinmektedir.

- Her kumbarada en az 1 tane madeni para vardır.
- Her kumbaradaki madeni para sayısı, o kumbaranın numarasından farklıdır.
- Kumbaradaki madeni para sayıları birbirine eşit ya da birbirinden farklıdır.

6. **1 ve 2 numaralı kumbaralarda eşit sayıda madeni para olduğuna göre kumbaralardaki toplam madeni para sayısı en az kaçtır?**

A) 7 B) 8 C) 9 D) 10 E) 11

7. **2 ve 4 numaralı kumbaralarda toplam 5 tane, 4 ve 5 numaralı kumbaralarda toplam 7 tane madeni para bulunduğuna göre, 5 numaralı kumbarada toplam kaç ₺ para vardır?**

A) 3 B) 3,5 C) 4 D) 4,5 E) 5

8. **Tüm kumbaralardaki madeni para sayısı eşit olduğunda, kumbaralardaki toplam para en az kaç ₺ olur?**

A) 21 B) 18 C) 12 D) 6 E) 3

MURAT YAYINLARI

9.- 11. soruları aşağıdaki bilgilere göre cevaplayınız.

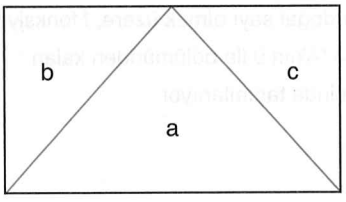

Yukarıdaki şekilde a, b ve c sıfırdan farklı gerçel sayıları arasındaki bağıntı,

$$a^2 = b + c$$

biçiminde tanımlanıyor.

9.

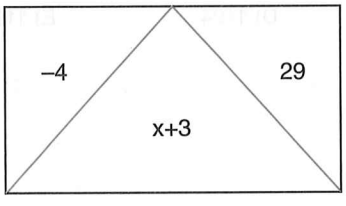

Yukarıda verilenlere göre, x'in alabileceği değerler toplamı kaçtır?

A) –8 B) –7 C) –6 D) –5 E) –4

10.

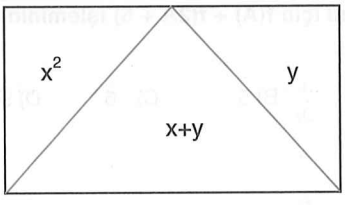

Yukarıda verilenlere göre, x'in y türünden eşiti aşağıdakilerden hangisidir?

A) $\frac{1+y}{2}$ B) $\frac{1+2y}{2}$ C) $\frac{1-2y}{2}$ D) $\frac{1-y}{2}$ E) $\frac{y-1}{2}$

11.

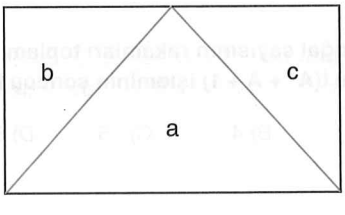

Yukarıda verilen a, b ve c pozitif sayıları sırasıyla 4, 3 ve 5 ile doğru orantılı olduğuna göre, a + b + c toplamı kaçtır?

A) 6 B) 8 C) 12 D) 16 E) 24

12. - 14. soruları aşağıdaki bilgilere göre cevaplayınız.

A bir doğal sayı olmak üzere, f fonksiyonu
f(A) = "A'nın 9 ile bölümünden kalan."
biçiminde tanımlanıyor.

12. f(A) = 4 koşulunu sağlayan üç basamaklı en büyük ve en küçük A değerinin toplamı kaçtır?

A) 1097 B) 1106 C) 1115 D) 1124 E) 1133

13. İki basamaklı rakamları farklı en büyük A doğal sayısı için f(A) + f(2A + 5) işleminin sonucu kaçtır?

A) 2 B) 5 C) 6 D) 9 E) 11

14. A doğal sayısının rakamları toplamı 21 olduğuna göre $f(A^2 + A + 1)$ işleminin sonucu kaçtır?

A) 3 B) 4 C) 5 D) 6 E) 7

15. - 17. soruları aşağıdaki bilgilere göre cevaplayınız.

F, G, B ve T takımlarının katıldığı bir futbol turnuvasında her takım diğer takımlarla birer maç yapmıştır. Bu turnuvada galip gelen takıma 3, mağlup olan takıma 0 puan verilmektedir. Beraberlik durumunda ise her iki takıma birer puan verilmektedir.

15. Buna göre, F takımının turnuva sonundaki puanı aşağıdakilerden hangisi olamaz?

A) 1 B) 3 C) 4 D) 7 E) 8

16. Turnuvanın sonunda F ve G takımlarının puanlarının toplamı en çok kaç olabilir?

A) 15 B) 14 C) 13 D) 12 E) 10

17. Turnuva boyunca kaç maç yapılmıştır?

A) 3 B) 4 C) 5 D) 6 E) 9

18. ve 19. soruları aşağıdaki bilgilere göre cevaplayınız.

5			
	4	2	
11			
12			

1'den 16'ya kadar olan tam sayılar yukarıda verilen kutucuklara aşağıdaki kurallara göre yerleştiriliyor.

- Her bir kutucukta farklı bir sayı olmalıdır.
- Her bir sütunda bulunan sayıların toplamı aynı olmalıdır.
- Sütunlardaki sayılar yukarıdan aşağıya doğru artmalıdır.

MURAT YAYINLARI

18. 11 ile aynı satırda bulunan sayıların toplamı kaçtır?

A) 39 B) 37 C) 33 D) 30 E) 28

19. Her bir sütundaki sayıların toplamı kaçtır?

A) 29 B) 31 C) 33 D) 34 E) 36

20. - 22. soruları aşağıdaki bilgilere göre cevaplayınız.

	1. sütun	2. sütun	3. sütun	4. sütun
1. satır			7	
2. satır			A	
3. satır				B
4. satır			C	

Yukarıdaki sayı bulmacasının içine soldan sağa ve yukarıdan aşağıya her kareye bir rakam gelmek üzere şu sayılar yerleştirilecektir:

2347	7234
2979	7243
3721	9173
4537	9752

20. A + B + C toplamı kaçtır?

A) 9 B) 10 C) 12 D) 13 E) 14

21. 2. satırdaki sayı kaçtır?

A) 2347 B) 2979 C) 3721 D) 7234 E) 9173

22. 2. sütundaki sayı 1. sütundaki sayıdan kaç fazladır?

A) 1939 B) 2518 C) 4887 D) 6826 E) 7405

23- 25. soruları aşağıdaki bilgilere göre cevaplayınız.

Aşağıdaki doğrusal grafikte, bir kamyonun 100 km yol aldığında tükettiği benzin miktarının, yolun eğimine göre değişimi verilmiştir.

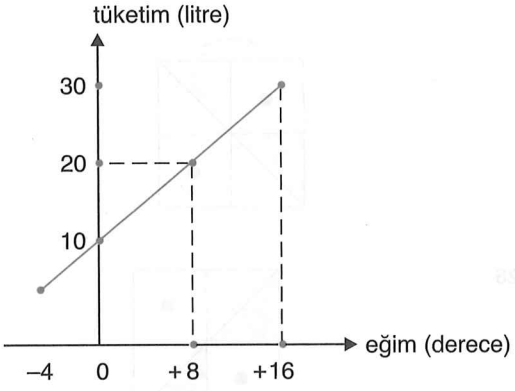

Grafikteki eğimin "–" işaretli olması aracın yokuş aşağı, "+" işaretli olması ise yokuş yukarı hareketini ifade eder.

23. Bu kamyon eğimi –4° olan bir yolda 20 km, +4° olan bir yolda 50 km yol giderse toplamda kaç litre benzin tüketir?

A) 7,5 B) 8 C) 8,5 D) 9 E) 9,5

24. Bu araç eğimi +8° olan 25 km'lik bir yolda tükettiği benzinle düz (eğimi sıfır) bir yolda kaç km gider?

A) 40 B) 45 C) 50 D) 60 E) 70

25. Aşağıda K, L ve M şehirlerinin konumu modellenmiştir. K ile L arasındaki uzaklık 100 km, L ile M arası uzaklık 400 km'dir.

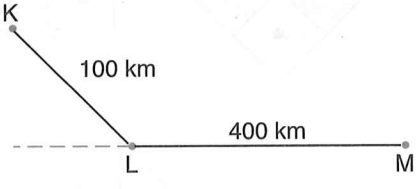

Bu kamyonun K'den M'ye giderken tükettiği benzin miktarı 45 litre olduğuna göre, K ile L arasındaki yolun eğimi kaç derecedir?

A) –4 B) –2 C) 2 D) 4 E) 6

MURAT YAYINLARI

26. ve 27. soruları aşağıdaki bilgilere göre cevaplayınız.

Kare biçimindeki bir karton, aşağıdaki gibi boyanıyor. Daha sonra bu karton ok yönünde merkezi etrafında döndürülüyor.

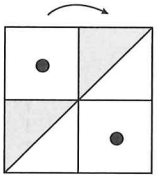

26.

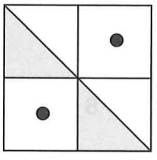

Yukarıdaki görünümü elde etmek için kartonu ok yönünde en az kaç derece döndürmek gerekir?

A) 90 B) 120 C) 180

D) 210 E) 270

27. **Bu karton ok yönünde 135° döndürülürse aşağıdaki görünümlerden hangisi elde edilir?**

A)

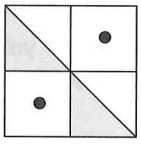

B)

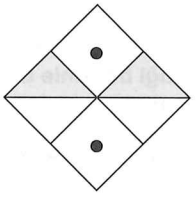

C)

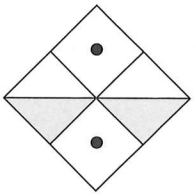

D)

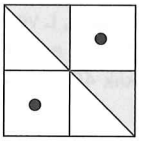

E)

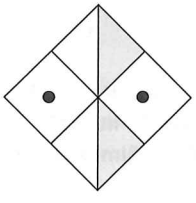

28.

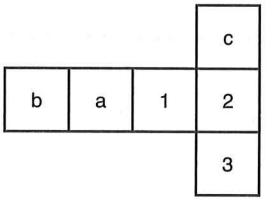

Yukarıda üç yüzeyine 1, 2 ve 3 rakamları, diğer yüzeylerine ise a, b ve c harfleri yazılmış olan bir küpün açınımı verilmiştir.

Bu küpün kapalı şeklinde sırasıyla 1, 2 ve 3 rakamlarının karşısındaki yüzlerde hangi harfler bulunur?

A) a – b – c B) b – a – c C) b – c – a

D) c – b – a E) c – a – b

29.

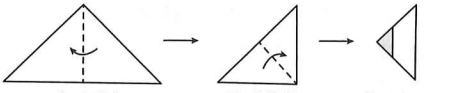

Şekil I'deki ikizkenar üçgen biçimli kağıt, kesik çizgi boyunca okla gösterilen bölge üzerine katlanıp Şekil II, Şekil II'deki kağıt da yine kesik çizgi boyunca okla gösterilen bölge üzerine katlanıp Şekil III elde ediliyor. Şekil III'teki kağıdın kırmızı bölgesi kesip çıkarılıyor.

Kesilip çıkarılan bölgeler kırmızıyla gösterildiğine göre kağıt açıldığında aşağıdakilerden hangisi elde edilir?

A)

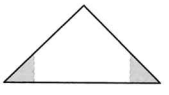

B)

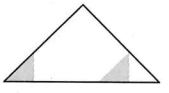

C)

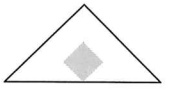

D)

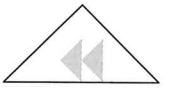

E)

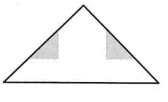

MURAT YAYINLARI

/muratyayincilik

Açıklamalar • TEST 31

1. E

$1 + 2 + 3 + \ldots + 12 = \frac{12 \cdot 13}{2} = 6 \cdot 13 = 78$

$1 + 2 + 3 + 4 + 5 + 6 = \frac{6 \cdot 7}{2} = 21$

A veya B'nin alabileceği en küçük değer 21'dir. Dolasıyla A ve B'nin alabileceği en büyük değer 78 – 21 = 57 olur. Buradan A veya B 21'den küçük 57'den büyük olamaz.

2. E

A ile B'nin toplamı 78 olmalıdır.
49 + 26 = 75 olduğundan E şıkkı bu koşulu sağlamaz.

3. A

A + B = 78 ve çarpımın sonucunun en büyük olması için sayılar birbirine yakın seçilmelidir.
A = 39 ve B = 39 seçilirse
A · B = 39 · 39
A · B = 1521 → en büyük değer

4. E

Ayşe, E şıkkındaki şeklin ortasındaki kutucuğa A harfini yazarsa oyunu kesinlikle kazanır.

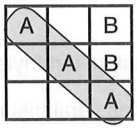

5. D

4 numaralı kutuya B harfini yazarsa Burcu oyunu kesinlikle kazanır.

6. D

1 ve 2 numaralı kumbaralarda eşit sayıda madeni para olacağından en az üçer tane olmalıdır. Diğer kumbaralarda ise en az birer tane madeni para olacağından toplamda en az
3 + 3 + 1+ 1 + 1 + 1 = 10 tane madeni para olur.

7. A

	2. kumbara	4. kumbara	5. kumbara
I. durum	1 tane	4 tane	3 tane
II. durum	2 tane	3 tane	4 tane
III. durum	3 tane	2 tane	5 tane
IV. durum	4 tane	1 tane	6 tane

I., II. ve III. durumlar kurala uymaz. IV. durum kurala uyduğundan 5. kumbarada 6 tane madeni para vardır.

Toplam para tutarı = 6 · 50
= 300 kuruş
= 3 ₺ olur.

8. A

Her kumbarada x tane madeni para olsun.
x; 1, 2, 3, 4, 5 ve 6 değerlerini alamaz. O halde x'in en küçük değeri 7'dir.
Toplam para sayısı = 6 · 7 = 42 tane
Toplam para tutarı = 42 · 50
= 2100 kuruş
= 21 ₺ olur.

9. C

$(x + 3)^2 = -4 + 29$
$(x + 3)^2 = 25$
$\sqrt{(x + 3)^2} = \sqrt{25}$

$|x + 3| = 5$

$x + 3 = 5$ $\quad$ $x + 3 = -5$
$x = 2$ $\quad$ $x = -8$

x değerleri toplamı 2 + (–8) = –6

MURAT YAYINLARI

10. D

$(x + y)^2 = x^2 + y$

$x^2 + 2xy + y^2 = x^2 + y$

$2xy + y^2 = y \Rightarrow \frac{2xy}{y} + \frac{y^2}{y} = \frac{y}{y}$

$\Rightarrow 2x + y = 1$

$\Rightarrow 2x = 1 - y$

$\Rightarrow x = \frac{1-y}{2}$

11. A

$a = 4k$

$b = 3k$

$c = 5k$

$(4k)^2 = 5k + 3k \Rightarrow 16k^2 = 8k$

$\Rightarrow \frac{16k^2}{16k} = \frac{\cancel{8k}}{\cancel{16k}} = \frac{1}{2}$

$\Rightarrow k = \frac{1}{2}$

$a + b + c = 4k + 3k + 5k$

$= 12k$

$= 12 \cdot \frac{1}{2}$

$= 6$

12. A

9 ile bölündüğünde 4 kalanını veren en büyük üç basamaklı doğal sayı 994, en küçük üç basamaklı doğal sayı 103'tür.

$994 + 103 = 1097$

13. E

İki basamaklı rakamları farklı en büyük sayı 98 dir.

A = 98 için $f(98) + f(2 \cdot 98 + 5) = f(98) + f(201)$

$= 8 + 3$

$= 11$

14. B

A doğal sayısının rakamları toplamı 21 olduğundan, 9 ile bölümünden kalan 3'tür.

$f(A^2 + A + 1) = A^2 + A + 1$ sayısının 9 ile bölümünden kalan olduğundan A yerine 3 yazılabilir.

$f(3^2 + 3 + 1) = f(13)$

13'ün 9 ile bölümünden kalan 4'tür.

15. E

F takımı, G, B ve T takımlarıyla maç oynayacağından toplam 3 maç yapmıştır.

2 mağlubiyet + 1 beraberlik = 1 puan

3 beraberlik = $3 \cdot 1 = 3$ puan

1 mağlubiyet + 1 galibiyet + 1 beraberlik = 4 puan

2 galibiyet + 1 beraberlik = 7 puan

8 puan elde edilemez.

16. A

F takımı 3 maç kazanırsa 9 puan, buradan

G takımı F takımına yenilmiş olup diğer 2 maçı kazanırsa 6 puanı olur.

Toplamda en çok = 9 + 6 = 15 puan

17. D

4 takım ve her 2 takım birbiriyle bir maç yaptığında;

$\binom{4}{2} = \frac{4 \cdot 3}{2 \cdot 1} = 6$ maç yapılmıştır.

MURAT YAYINLARI

/muratyayincilik

18. B

$1 + 2 + 3 + \ldots + 16 = \frac{16 \cdot 17}{2}$

$= 136$ olur.

$\frac{136}{4} = 34$ her sütundaki sayılar toplamı

5	3	1	7
6	4	2	8
11	13	15	9
12	14	16	10
↓	↓	↓	↓
34	34	34	34

$13 + 15 + 9 = 37$

19. D

Her sütundaki sayılar toplamı

$\frac{136}{4} = 34$ olur.

20. D

2	9	7	9
3	7	2	1
4	5	3	7
7	2	4	3

$A = 2, B = 7, C = 4$

$A + B + C = 2 + 7 + 4$

$= 13$

21. C

2. satırdaki sayı 3721'dir.

22. E

2. sütundaki sayı 9752

1. sütundaki sayı 2347

$9752 - 2347 = 7405$

23. C

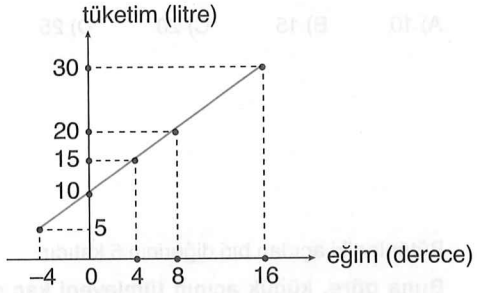

Grafikten –4° ile +4° ye karşılık gelen benzin tüketim miktarlarının 5 litre ile 15 litre olduğunu buluruz.
100 km'de 5 litre benzin tüketilirse 20 km'de 1 litre benzin tüketilir. –4° lik eğimde 100 km'de 15 litre benzin tüketilirse 50 km'de 7,5 litre benzin tüketilir +4° lik eğimde 1 + 7,5 = 8,5 litre toplam benzin tüketimi.

24. C

+8° lik eğimde 100 km giderse 20 litre benzin tüketir. 25 km'lik yol giderse dörtte biri kadar yani $\frac{20}{4} = 5$ litre benzin tüketir. Düz yolda 10 litre benzinle 100 km yol gidiyorsa 5 litre benzinle 50 km yol gider.

25. A

Düz yolda 100 km'de 10 litre benzin tüketiyorsa 300 km'de $3 \cdot 10 = 30$ litre benzin tüketir. Buradan eğimli yolda $45 - 40 = 5$ litre benzin tüketilmiştir.
100 km'de 5 litre benzin tüketimi –4° eğimde olur.

26. E

27. E

28. B

1'in karşısına b, 2'nin karşısına a ve 3'ün karşısına c gelir.

29. E

Adımları tersten uygulayarak kapalı şekli açtığımızda görünümü buluruz.

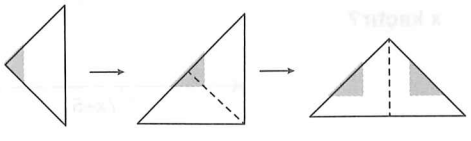

MURAT YAYINLARI

Açılar • TEST 32

1. Tümler iki açıdan biri diğerinin 3 katından 10 fazladır.
Buna göre, küçük olan açı kaç derecedir?

A) 10 B) 15 C) 20 D) 25 E) 30

2. Bütünler iki açıdan biri diğerinin 5 katıdır.
Buna göre, küçük açının tümleyeni kaç derecedir?

A) 30 B) 40 C) 50 D) 60 E) 70

3. [AB // [CD // [EF

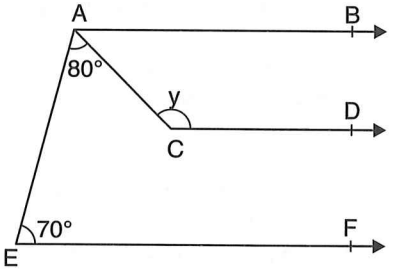

Verilenlere göre, y kaç derecedir?

A) 110 B) 120 C) 130 D) 140 E) 150

4. $d_1 // d_2$ dir.
Buna göre,
x kaçtır?

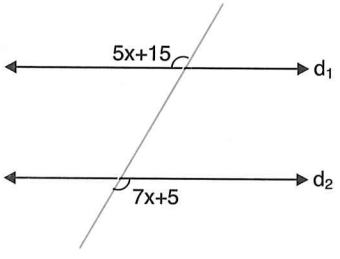

A) 4 B) 5 C) 6 D) 7 E) 8

5. $d_1 // d_2$
$a + b = 75°$ ise
b kaç derecedir?

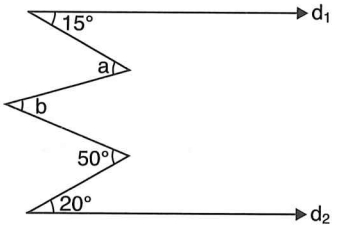

A) 30 B) 35 C) 40 D) 45 E) 50

6. [BA // [DE dir.
Verilenlere göre, x açısı kaç derecedir?

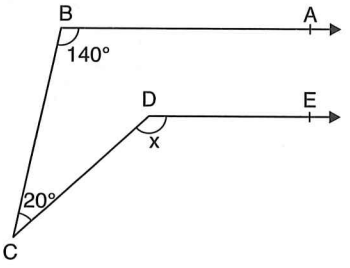

A) 160 B) 150 C) 140 D) 130 E) 120

7.

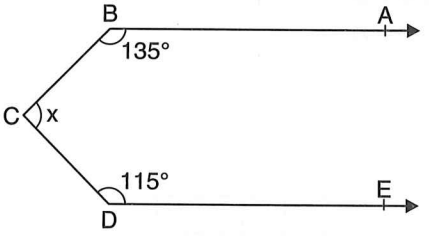

[BA // [DE ise
verilenlere göre, x kaçtır?

A) 100 B) 110 C) 120 D) 130 E) 135

8. [AB // [CD

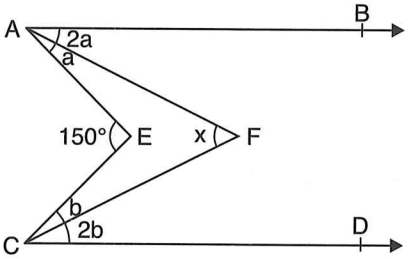

Verilenlere göre, x kaçtır?

A) 95 B) 100 C) 125 D) 130 E) 150

MURAT YAYINLARI

/muratyayincilik

9.

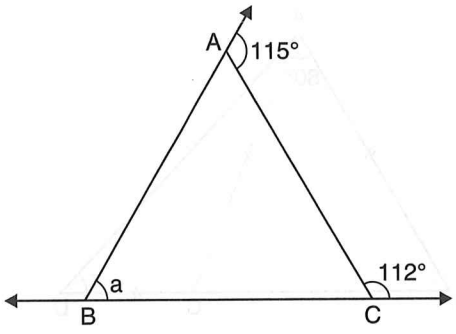

Verilenlere göre, a kaçtır?

A) 47 B) 48 C) 49 D) 50 E) 51

10.

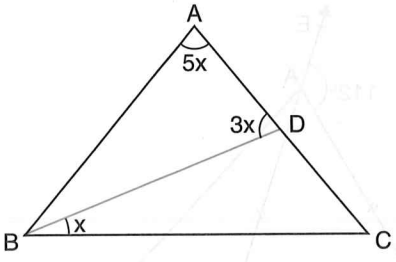

$\widehat{ABC}$ ikizkenar üçgen

$|AB| = |AC|$

Buna göre, x kaçtır?

A) 10 B) 20 C) 30 D) 40 E) 50

11.

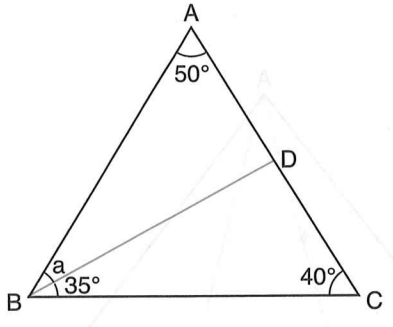

$\widehat{ABC}$ **üçgeninde verilen açılara göre, a kaçtır?**

A) 45 B) 50 C) 55 D) 60 E) 65

12.

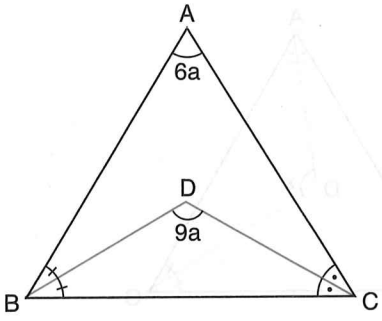

Şekilde verilenlere göre, a kaçtır?

A) 5 B) 10 C) 15 D) 20 E) 25

13. $|BE| = |ED|$

$m(\widehat{ADB}) = 75°$

$m(\widehat{ACB}) = 35°$

olduğuna göre, x kaçtır?

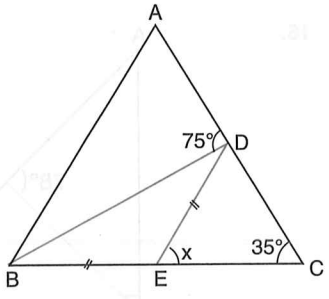

A) 90 B) 80 C) 70 D) 60 E) 50

14.

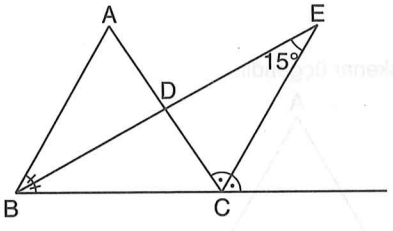

Yukarıdaki şekilde $m(\widehat{DEC}) = 15°$ **olduğuna göre,**

$m(\widehat{BAC})$ **kaçtır?**

A) 15 B) 20 C) 25 D) 30 E) 35

MURAT YAYINLARI

15.

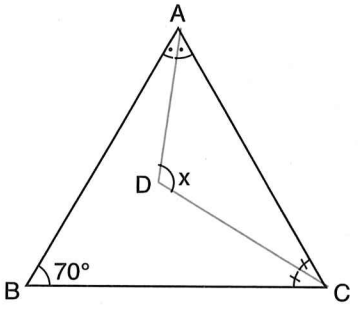

Şekilde verilenlere göre, x açısı kaç derecedir?

A) 125 B) 120 C) 110 D) 105 E) 100

16.

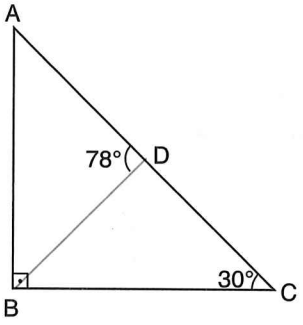

Şekilde verilenlere göre, $m(\widehat{DBC})$ **kaç derecedir?**

A) 60 B) 52 C) 48 D) 44 E) 42

17. ABC eşkenar üçgendir.

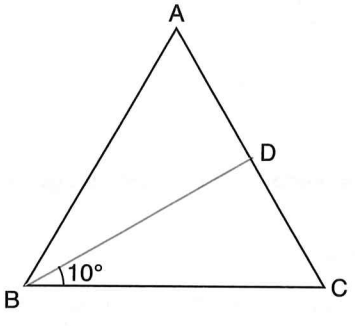

$m(\widehat{ADB})$ **kaç derecedir?**

A) 70 B) 65 C) 60 D) 55 E) 50

18.

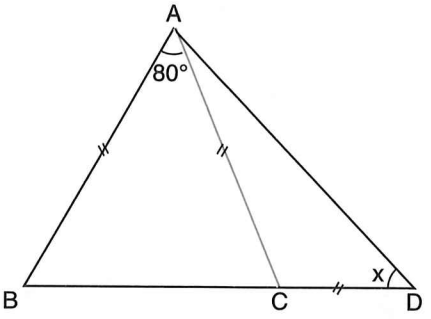

Şekilde verilenlere göre, x kaç derecedir?

A) 29 B) 28 C) 27 D) 26 E) 25

19.

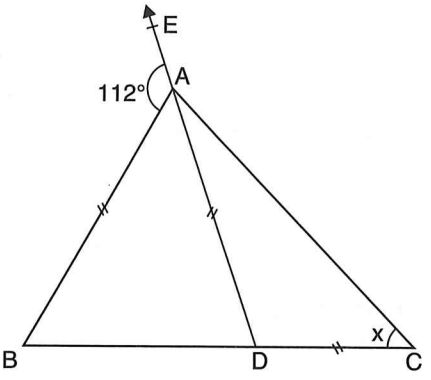

ABC üçgeninde D, A, E noktaları doğrusaldır.
Verilenlere göre, x kaçtır?

A) 25 B) 26 C) 27 D) 28 E) 29

20.

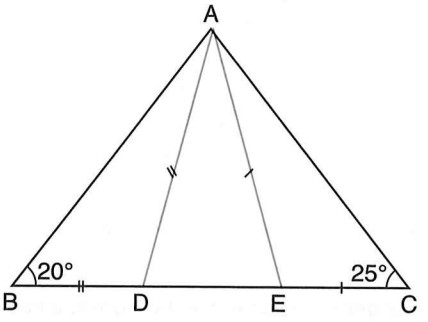

Şekilde verilenlere göre, $m(\widehat{DAE})$ **kaç derecedir?**

A) 45 B) 50 C) 65 D) 85 E) 90

MURAT YAYINLARI

Açıklamalar • TEST 32

1. C

Küçük açı x ise büyük açı 90–x'tir.

$90° - x = 3x + 10°$

$90° - 10° = 3x + x$

$80° = 4x$

$x = 20°$

2. D

Küçük açı x ise büyük açı 180 – x olur.

$180° - x = 5x$

$180° = 5x + x$

$6x = 180°$

$x = 30°$

Bu açının tümleri 60° dir.

3. E

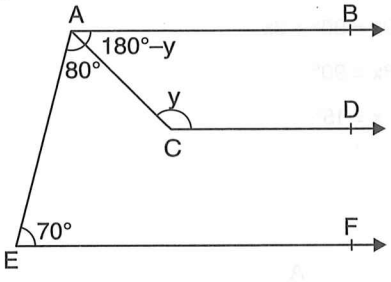

[AB // [CD ve $m(\widehat{ACD}) = y$ ise

$m(\widehat{BAC}) = 180° - y$ olur.

[AB // [CD ise

$70° + 80° + 180° - y = 180°$

$330° - y = 180°$

$y = 150°$

4. B

$5x + 15° = 7x + 5°$

$15° - 5° = 7x - 5x$

$2x = 10°$

$x = 5°$

5. D

$d_1 // d_2$ olduğundan;

$15° + b + 20° = a + 50°$

$b + 35° = a + 50°$

$b - a = 15°$

$a = b - 15°$

$a + b = 75°$

$b - 15° + b = 75°$

$2b = 90°$

$b = 45°$

6. A

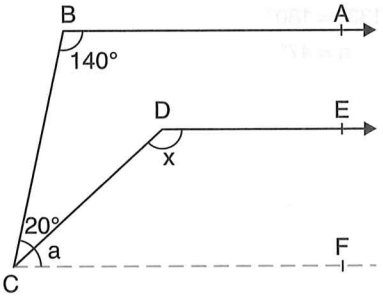

[CF // [DE olacak şekilde [CF çizilir.

[AB // [FC olduğundan

$140° + 20° + a = 180°$

$a + 160° = 180°$

$a = 20°$ olur.

$x + a = 180°$ olduğundan

$x + 20° = 180°$

$x = 160°$

7. B

$135° + 115° + x = 360°$

$250° + x = 360°$

$x = 110°$

8. B

$3a + 3b = 150°$

$a + b = 50°$ olur.

$2a + 2b = x$

$2 \cdot (a + b) = x$

$x = 2 \cdot 50°$

$x = 100°$

MURAT YAYINLARI

9. A

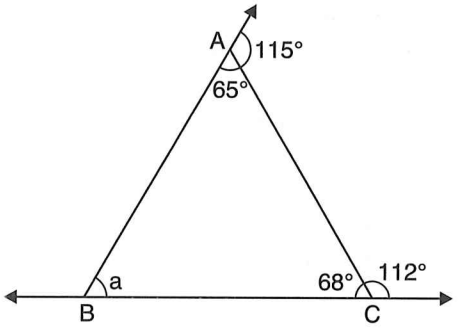

$a + 65° + 68° = 180°$

$a + 133° = 180°$

$a = 47°$

10. B

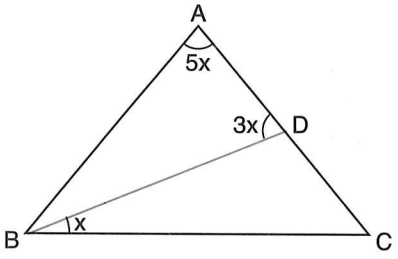

$m(\widehat{ADB}) = m(\widehat{DBC}) + m(\widehat{DCB})$

$3x = x + m(\widehat{DCB})$

$m(\widehat{DCB}) = 2x$ tir.

$|AB| = |AC|$ olduğundan

$m(\widehat{ABC}) = m(\widehat{DCB}) = 2x$ olur.

$2x + 2x + 5x = 180°$

$9x = 180°$

$x = 20°$

11. C

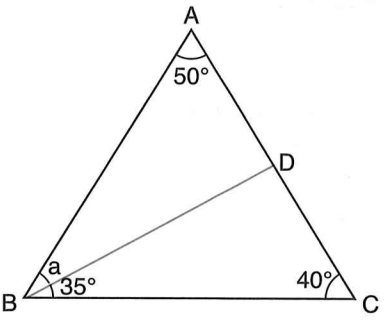

$m(\widehat{ADB}) = 40° + 35° = 75°$

$a + 50° + 75° = 180°$

$a + 125° = 180°$

$a = 55°$

12. C

$m(\widehat{BDC}) = 90° + \frac{m(\widehat{BAC})}{2}$

$9x = 90° + \frac{6x}{2}$

$9x = 90° + 3x$

$6x = 90°$

$x = 15°$

13. B

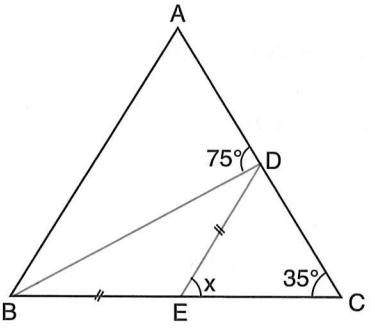

$m(\widehat{DBC}) = 75° - 35° = 40°$

$m(\widehat{DBC}) = m(\widehat{BDE}) = 40°$

$x = 40° + 40° = 80°$

MURAT YAYINLARI

/muratyayincilik

14. D

$m(\widehat{BEC}) = \frac{m(\widehat{BAC})}{2}$

$15° = \frac{m(\widehat{BAC})}{2}$

$m(\widehat{BAC}) = 30°$

15. A

$x = 90° + \frac{70°}{2} = 125°$

16. C

$m(\widehat{DBC}) = 78° - 30°$

$= 48°$

17. A

ABC eşkenar üçgen ise

$m(\widehat{BAC}) = m(\widehat{ABC}) = m(\widehat{ACB}) = 60°$

$m(\widehat{ADB}) = 60° + 10° = 70°$

18. E

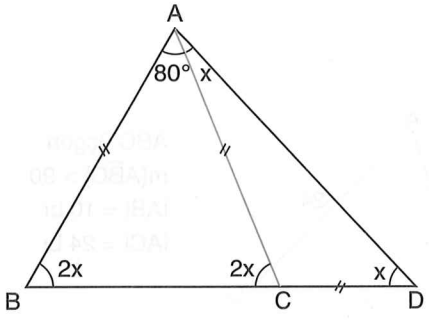

$2x + 2x + 80° = 180°$

$4x = 100°$

$x = 25°$

19. D

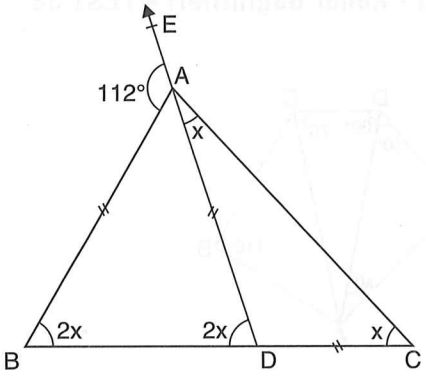

$2x + 2x = 112°$

$4x = 112°$

$x = 28°$

20. E

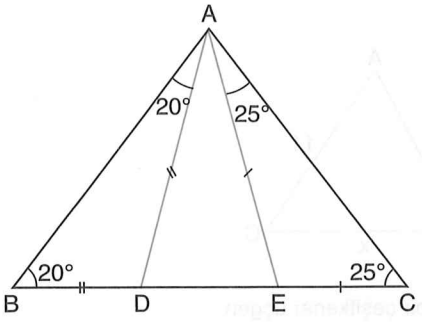

$m(\widehat{ADE}) = 20° + 20° = 40°$

$m(\widehat{AED}) = 25° + 25° = 50°$

$m(\widehat{DAE}) = 180° - 40° - 50° = 90°$

MURAT YAYINLARI

Açı - Kenar Bağıntıları • TEST 33

1.

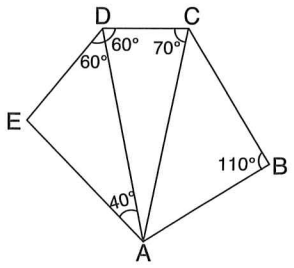

Yukarıdaki verilere göre, en uzun doğru parçası hangisidir?

A) [AB] B) [DC] C) [AC]
D) [AD] E) [AE]

2.

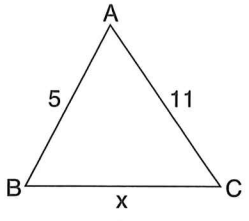

ABC bir çeşitkenar üçgen
|AB| = 5 cm
|AC| = 11 cm
|BC| = x cm

Yukarıdaki verilere göre, x kaç tam sayı değeri alır?

A) 9 B) 8 C) 7 D) 6 E) 5

3.

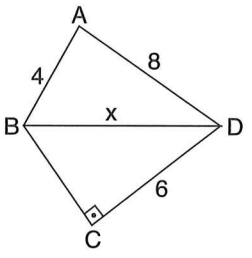

ABCD dörtgen
[BC] ⊥ [DC]
|AB| = 4 birim
|CD| = 6 birim
|AD| = 8 birim

Yukarıdaki verilere göre, |BD| = x'in alabileceği tam sayı değerleri kaç tanedir?

A) 2 B) 3 C) 4 D) 5 E) 6

4.

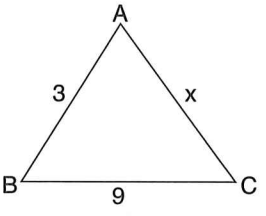

$m(\widehat{ABC}) > m(\widehat{BAC})$
|AB| = 3 cm
|BC| = 9 cm

Yukarıdaki verilere göre, |AC| = x'in alabileceği tam sayı değerleri toplamı kaçtır?

A) 18 B) 19 C) 20 D) 21 E) 23

5.

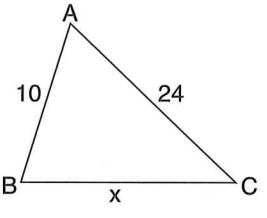

ABC üçgen
$m(\widehat{ABC}) > 90°$
|AB| = 10 br
|AC| = 24 br

Yukarıdaki verilere göre, |BC| = x'in alabileceği kaç farklı tam sayı değeri vardır?

A) 5 B) 6 C) 7 D) 8 E) 9

MURAT YAYINLARI

/muratyayincilik

6.

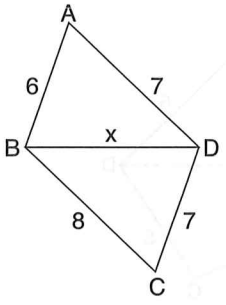

$m(\widehat{BAD}) > 90°$
$m(\widehat{BCD}) < 90°$

Yukarıdaki verilere göre, |BD| = x kaç farklı tam sayı değeri alabilir?

A) 1 B) 2 C) 3 D) 4 E) 5

7.

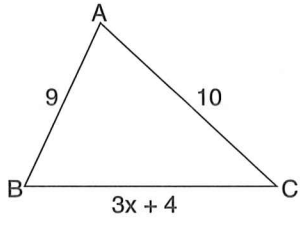

ABC üçgen
|AB| = 9 br
|AC| = 10 br
|BC| = (3x + 4) br

Yukarıdaki verilere göre, x'in alabileceği tam sayı değerlerinin toplamı kaçtır?

A) 7 B) 8 C) 9 D) 10 E) 11

8.

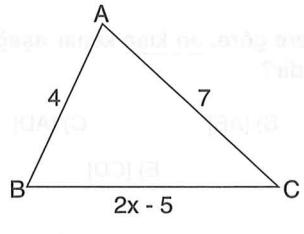

ABC üçgen
$m(\widehat{ABC}) > m(\widehat{BAC})$
|AB| = 4 br
|AC| = 7 br
|BC| = (2x - 5) br

Yukarıdaki verilere göre, x kaç farklı tam sayı değeri alabilir?

A) 1 B) 2 C) 3 D) 4 E) 5

9.

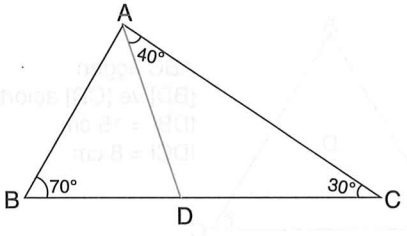

Yukarıdaki verilere göre, aşağıdaki bağıntılardan hangisi doğrudur?

A) |AD| = |BD| B) |BC| > |AC|
C) |DC| = |AB| D) |AB| < |BD|
E) |AD| > |BC|

10.

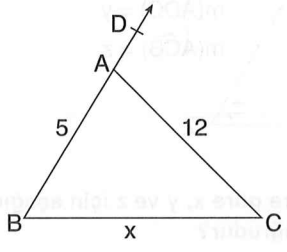

$m(\widehat{DAC}) < 90°$
|AB| = 5 cm
|AC| = 12 cm

Yukarıdaki verilere göre, |BC| = x'in alabileceği en küçük tam sayı değeri kaçtır?

A) 13 B) 14 C) 15 D) 16 E) 17

11.

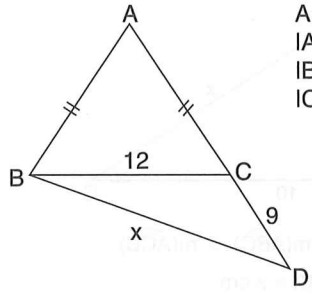

A, C, D doğrusal
|AB| = |AC|
|BC| = 12 cm
|CD| = 9 cm

Yukarıdaki verilere göre, |BD| = x'in alabileceği en küçük tam sayı değeri kaçtır?

A) 20 B) 16 C) 15 D) 6 E) 4

MURAT YAYINLARI

12.

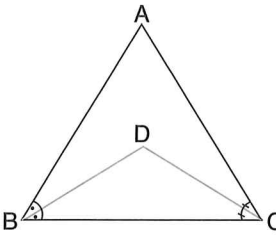

ABC üçgen
[BD] ve [CD] açıortay
|DB| = 15 cm
|DC| = 8 cm

Yukarıdaki verilere göre, |BC| nin alabileceği en küçük tam sayı değeri kaç cm'dir?

A) 16 B) 17 C) 18 D) 19 E) 20

13.

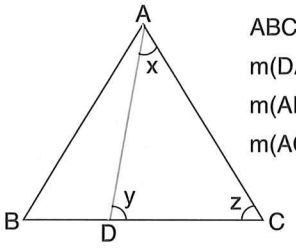

ABC bir eşkenar üçgen
$m(\widehat{DAC}) = x$
$m(\widehat{ADC}) = y$
$m(\widehat{ACB}) = z$

Yukarıdaki verilere göre x, y ve z için aşağıdakilerden hangisi doğrudur?

A) $y > z > x$ B) $y > x > z$ C) $z > x > y$
D) $x > y > z$ E) $z > y > x$

14.

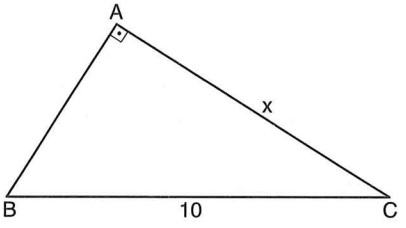

$m(\widehat{BAC}) = 90°$, $m(\widehat{ABC}) > m(\widehat{ACB})$
|BC| = 10 cm, |AC| = x cm

Yukarıdaki verilere göre, x'in alabileceği en büyük tam sayı değeri kaçtır?

A) 5 B) 6 C) 7 D) 8 E) 9

15.

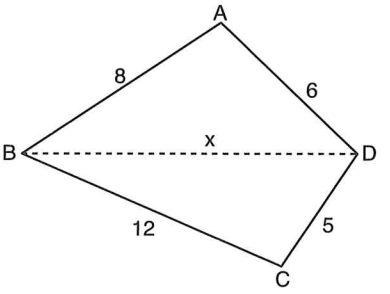

|AB| = 8 cm, |AD| = 6 cm, |BC| = 12 cm
|DC| = 5 cm, |BD| = x cm
$m(\widehat{BCD}) < 90° < m(\widehat{BAD})$ **olduğuna göre, x'in alabileceği kaç tam sayı değeri vardır?**

A) 1 B) 2 C) 3 D) 4 E) 5

16.

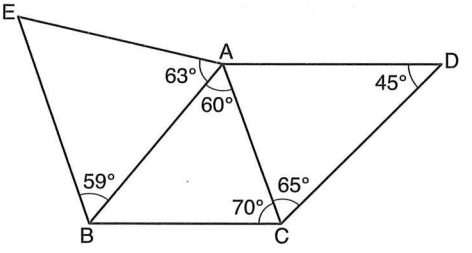

Şekilde verilenlere göre, en kısa kenar aşağıdakilerden hangisidir?

A) [AC] B) [AE] C) [AD]
D) [AB] E) [CD]

MURAT YAYINLARI

/muratyayincilik

17.

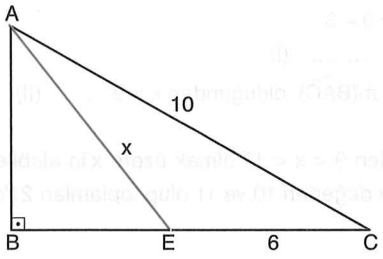

[AB] ⊥ [BC], |AC| = 10 cm,

|EC| = 6 cm, |AE| = x cm

Yukarıdaki verilere göre, x'in kaç tam sayı değeri vardır?

A) 7 B) 6 C) 5 D) 4 E) 3

18.

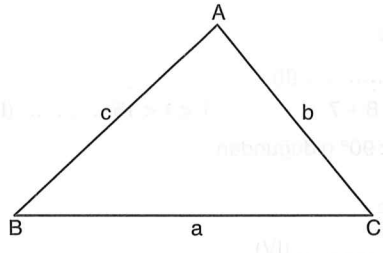

ABC bir üçgen

$m(\widehat{A}) > m(\widehat{B}) > m(\widehat{C})$

Yukarıdaki verilere göre, |c – b| – |a – c| + |a + b| ifadesi aşağıdakilerden hangisine eşittir?

A) 0 B) a C) b D) c E) 2b

19.

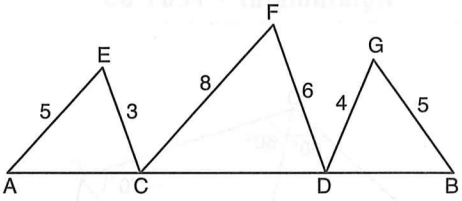

AEC, CFD ve DGB birer üçgen

A, C, D, B noktaları doğrusal

|AE| = |BG| = 5 cm

|FD| = 2|EC| = 6 cm

|FC| = 2|GD| = 8 cm

Yukarıdaki verilere göre, |AB|'nin <u>en büyük</u> tam sayı değeri kaç cm'dir?

A) 26 B) 27 C) 28 D) 29 E) 30

20.

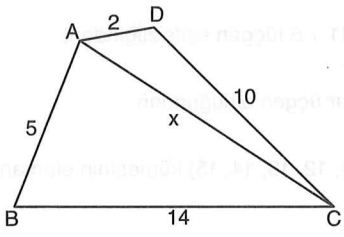

ABC ve ACD birer çeşitkenar üçgen

5|AD| = |DC| = 10 cm

|AB| = 5 cm

|AC| = x cm

Yukarıdaki verilere göre, x'in alabileceği kaç farklı tam sayı değeri vardır?

A) 1 B) 2 C) 3 D) 4 E) 5

MURAT YAYINLARI

Açıklamalar • TEST 33

1. D

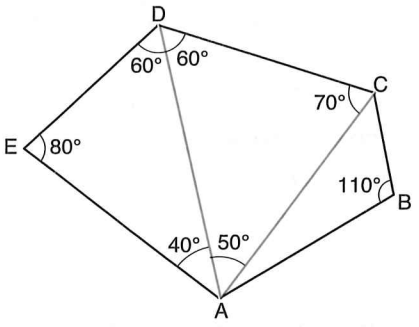

ACB üçgeninde; B açısı en büyük açıdır. Bu yüzden
$|AC| > |BC|$ ve $|AC| > |BA|$.
ADC üçgeninde;
$m(\widehat{C}) > m(\widehat{D}) > m(\widehat{A})$

$|AD| > |AC| > |DC|$
DEA üçgeninde;
$m(\widehat{E}) > m(\widehat{D}) > m(\widehat{A})$

$|AD| > |AE| > |ED|$
olduğundan [AD] en uzun kenardır.

2. B

$|11 - 5| < x < 11 + 5$ (üçgen eşitsizliğinden)
$6 < x < 16$
ABC çeşitkenar üçgen olduğundan
x, 11 olamaz.
$x \in \{7, 8, 9, 10, 12, 13, 14, 15\}$ kümesinin eleman sayısı 8'dir.

3. D

$8 - 4 < x < 8 + 4$
$4 < x < 12$ ..... (I)
$m(\widehat{C}) = 90°$ olduğundan $x > 6$ ..... (II)

(I) ve (II)'den $6 < x < 12$
$x \in \{7, 8, 9, 10, 11\}$ kümesinin eleman sayısı 5'tir.

4. D

$9 - 3 < x < 9 + 3$
$6 < x < 12$ ..... (I)
$m(\widehat{ABC}) > m(\widehat{BAC})$ olduğundan $x > 9$ .....(II)

(I) ve (II) den $9 < x < 12$ olmak üzere x'in alabileceği tam sayı değerleri 10 ve 11 olup toplamları 21'dir.

5. C

$24 - 10 < x < 24 + 10$
$14 < x < 34$ ..... (I)
$m(\widehat{ABC}) > 90°$ olduğundan

$24^2 > 10^2 + x^2$
$576 > 100 + x^2$
$476 > x^2$ ..... (II)
(I) ve (II) den $x \in \{15, 16, 17, 18, 19, 20, 21\}$ kümesinin eleman sayısı 7'dir.

6. A

$7 - 6 < x < 7 + 6$ $\quad 1 < x < 13$ ..... (I)
$m(\widehat{BAD}) > 90°$ olduğundan

$x^2 > 6^2 + 7^2$
$x^2 > 85$ ..... (II)
$8 - 7 < x < 8 + 7$ $\quad 1 < x < 15$ ..... (III)
$m(\widehat{BCD}) < 90°$ olduğundan

$x^2 < 8^2 + 7^2$
$x^2 < 113$ ..... (IV)
(I) ve (II)'den $9 < x < 13$
(III) ve (IV)'den $1 < x < 11$
Bu iki eşitsizliğin kesişiminden $9 < x < 11$
$x \in \{10\}$ kümesinin eleman sayısı 1'dir.

MURAT YAYINLARI

/muratyayincilik

7. D

$|10 - 9| < 3x + 4 < 10 + 9$

$1 < 3x + 4 < 19$

$1 - 4 < 3x < 19 - 4$

$-3 < 3x < 15$

$-1 < x < 5$

olduğundan x'in alabileceği tam sayı değerleri 0, 1, 2, 3, 4 olup toplamları 10'dur.

8. A

$|7 - 4| < 2x - 5 < 7 + 4$

$3 < 2x - 5 < 11$

$3 + 5 < 2x < 11 + 5$

$8 < 2x < 16$

$4 < x < 8$.....(I)

$m(\widehat{ABC}) > m(\widehat{BAC})$ olduğundan

$7 > 2x - 5$

$12 > 2x$

$6 > x$ ..... (II)

(I) ve (II) den $x \in \{5\}$ kümesinin eleman sayısı 1'dir.

9. B

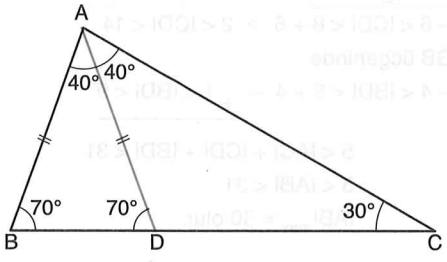

$|AB| = |AD|$

$m(\widehat{A}) = 80°$, $m(\widehat{B}) = 70°$ olduğundan

$|BC| > |AC|$ doğrudur.

10. B

$|12 - 5| < x < 12 + 5$

$7 < x < 17$ ..... (I)

$m(\widehat{DAC}) < 90°$ olduğundan $m(\widehat{BAC}) > 90°$ dir.

$x^2 > 12^2 + 5^2$

$x^2 > 169$

$x > 13$ ..... (II)

(I) ve (II) den $13 < x < 17$ bulunur.

$x_{min} = 14$'tür.

11. B

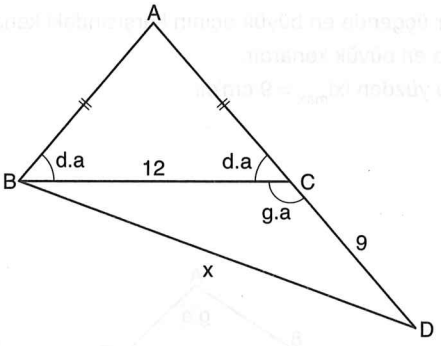

$|AB| = |AC|$ olduğundan

$m(\widehat{ABC}) < 90°$ ve $m(\widehat{ACB}) < 90°$ dir.

Bu yüzden $m(\widehat{BCD}) > 90°$ olur.

$x^2 > 12^2 + 9^2$

$x^2 > 225$

$x > 15$ ..... (I)

$12 - 9 < x < 12 + 9$

$3 < x < 21$ ..... (II)

(I) ve (II) den $x_{min} = \{16\}$ olur.

12. C

$m(\widehat{BDC}) = 90° + \frac{m(\widehat{BAC})}{2}$ (iki iç açıortayın oluşturduğu geniş açı özelliğinden)

$m(\widehat{BDC}) > 90°$ olduğundan

$|BC|^2 > 15^2 + 8^2$

$|BC|^2 > 289$

$|BC| > 17$

$|BC|_{min} = 18$ cm

13. A

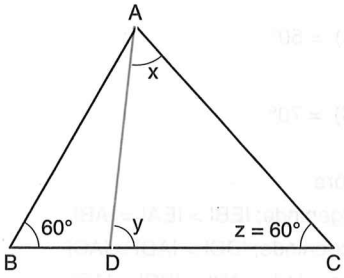

$z = 60°$

$y > 60°$

$x < 60°$ olduğundan $y > z > x$ dir.

MURAT YAYINLARI

14. E

Bir üçgende en büyük açının karşısındaki kenar daima en büyük kenardır.

Bu yüzden $|x|_{max} = 9$ cm'dir.

15. B

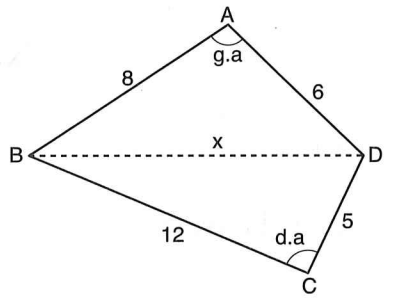

$8 - 6 < x < 8 + 6 \Rightarrow 2 < x < 14$

$m(\widehat{BAD}) > 90°$ ise $x^2 > 8^2 + 6^2 \Rightarrow x^2 > 100$

$x > 10$, $10 < x < 14$ ..... (I)

$12 - 5 < x < 12 + 5 \Rightarrow 7 < x < 17$

$m(\widehat{BCD}) < 90°$ ise $x^2 < 12^2 + 5^2$, $x^2 < 169$

$x < 13$, $7 < x < 13$ ..... (II)

(I) ve (II) den $10 < x < 13$ $x \in \{11, 12\}$ kümesinin eleman sayısı 2'dir.

16. A

Önce tüm açıların değerlerini bulalım.

$m(\widehat{BEA}) = 58°$

$m(\widehat{ABC}) = 50°$

$m(\widehat{DAC}) = 70°$

Buna göre

AEB üçgeninde; $|EB| > |EA| = |AB|$

ADC üçgeninde; $|DC| > |AD| > |AC|$

ABC üçgeninde; $|AB| > |BC| > |AC|$

olduğuna göre [AC] en kısa kenardır.

17. E

$10 - 6 < x < 10 + 6$

$4 < x < 16$ ..... (1)

$m(\widehat{AEC}) > 90°$ olduğu için $10^2 > x^2 + 6^2$

$64 > x^2 \Rightarrow 8 > x$ ..... (2)

(1) ve (2) den $4 < x < 8$ olmak üzere

$x \in \{5, 6, 7\}$ kümesinin eleman sayısı 3'tür.

18. E

$m(\widehat{A}) > m(\widehat{B}) > m(\widehat{C})$ ise $a > b > c$ olduğuna göre

mutlak değerin özelliğinden

$-c + b - (a - c) + a + b = 2b$

19. E

AEC üçgeninde;

$5 - 3 < |AC| < 5 + 3 \Rightarrow 2 < |AC| < 8$

CFD üçgeninde

$8 - 6 < |CD| < 8 + 6 \Rightarrow 2 < |CD| < 14$

DGB üçgeninde

$5 - 4 < |BD| < 5 + 4 \Rightarrow +\ 1 < |BD| < 9$

$5 < |AC| + |CD| + |BD| < 31$

$5 < |AB| < 31$

$|AB|_{max} = 30$ olur.

20. A

ABC üçgeninde; $14 - 5 < x < 14 + 5$

$9 < x < 19$ ..... (I)

ACD üçgeninde; $10 - 2 < x < 10 + 2$

$8 < x < 12$ ..... (II)

(I) ve (II) den $9 < x < 12$ olduğuna göre

$x \in \{10, 11\}$. Fakat ABC ve ACD çeşitkenar üçgen olduğundan x, 10 olamaz.

$x \in \{11\}$

kümesinin eleman sayısı 1'dir.

MURAT YAYINLARI

Benzerlik • TEST 34

1.

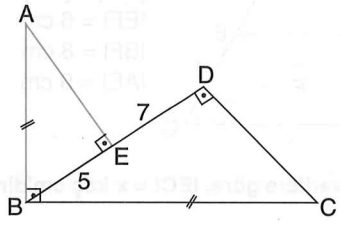

[AB] ⊥ [BC]
[BD] ⊥ [AE]
|BD| ⊥ [DC]
|BE| = 5 cm
|DE| = 7 cm
|AB| = |BC|

Yukarıdaki verilere göre, |AE| - |DC| farkı kaç cm'dir?

A) 8 B) 7 C) 5 D) 3 E) 2

2.

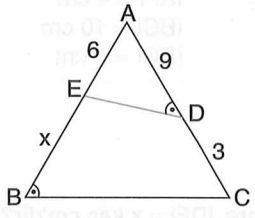

ABC üçgen
$m(\widehat{ADE}) = m(\widehat{ABC})$
|DC| = 3 cm
|AE| = 6 cm
|AD| = 9 cm

Yukarıdaki verilere göre, |BE| = x kaç cm'dir?

A) 6 B) 7,5 C) 9 D) 10 E) 12

3.

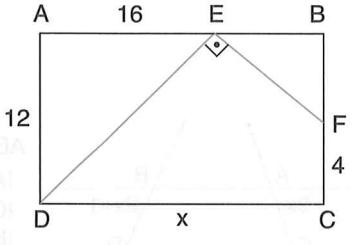

ABCD dikdörtgen [DE] ⊥ [EF]
|AD| = 12 cm, |AE| = 16 cm, |FC| = 4 cm
Yukarıdaki verilere göre, |DC| = x kaç cm'dir?

A) 18 B) 20 C) 22 D) 24 E) 26

4.

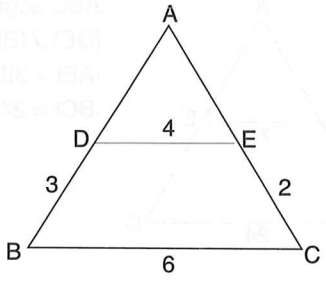

ABC üçgen
[DE] // [BC]
|BD| = 3 cm
|EC| = 2 cm
|DE| = 4 cm
|BC| = 6 cm

Yukarıdaki verilere göre, |AD| - |AE| farkı kaç cm'dir?

A) 1 B) 2 C) 3 D) 4 E) 5

5.

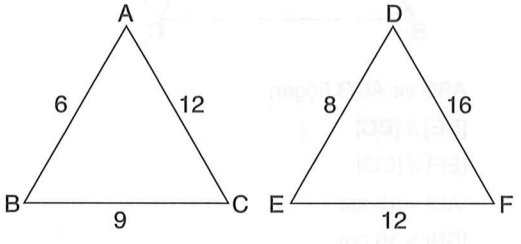

Şekilde ABC ve DEF üçgenleri verilmiştir.
Buna göre,

I. $\hat{A}\hat{B}C \sim \hat{D}\hat{E}F$
II. $m(\widehat{ABC}) = m(\widehat{EDF})$
III. Benzerlik oranı $\frac{2}{3}$'tür.

ifadelerinden hangileri doğrudur?

A) Yalnız I B) I ve II
C) Yalnız II D) II ve III
E) Yalnız III

MURAT YAYINLARI

6.

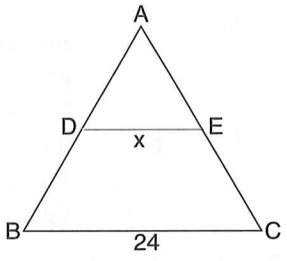

ABC üçgen
[DE] // [BC]
|AE| = 3|EC|
|BC| = 24 cm

Yukarıdaki verilere göre, |DE| = x kaç cm'dir?

A) 6 B) 8 C) 12 D) 16 E) 18

7.

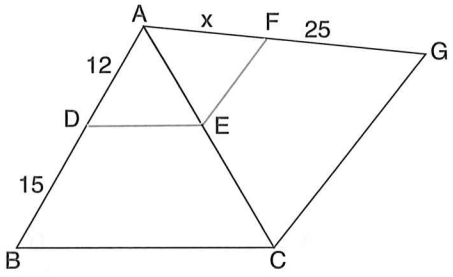

ABC ve ACG üçgen
[DE] // [BC]
[EF] // [CG]
|AD| = 12 cm
|DB| = 15 cm
|FG| = 25 cm

Yukarıdaki verilere göre, |AF| = x kaç cm'dir?

A) 10 B) 12 C) 15 D) 18 E) 20

8.

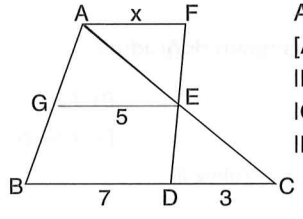

ABC üçgen
[AF] // [GE] // [BC]
|DC| = 3 cm
|GE| = 5 cm
|BD| = 7 cm

Yukarıdaki verilere göre, |AF| = x kaç cm'dir?

A) 1 B) 2 C) 3 D) $\frac{7}{2}$ E) 4

9.

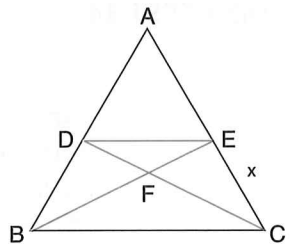

ABC üçgen
[DC] ∩ [BE] = {F}
[DE] // [BC]
|EF| = 6 cm
|BF| = 8 cm
|AE| = 9 cm

Yukarıdaki verilere göre, |EC| = x kaç cm'dir?

A) 6 B) 5 C) 4 D) 3 E) 2

10.

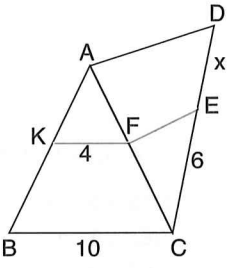

ABC ve ACD üçgen
[KF] // [BC]
[FE] // [AD]
|KF| = 4 cm
|BC| = 10 cm
|EC| = 6 cm

Yukarıdaki verilere göre, |DE| = x kaç cm'dir?

A) 2 B) 3 C) 4 D) 5 E) 6

11.

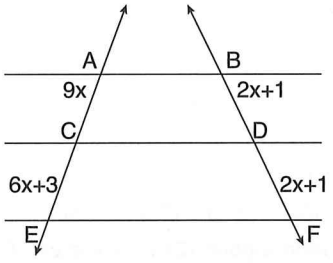

AB // CD // EF
|AC| = 9x
|CE| = 6x + 3
|BD| = 2x + 1
|DF| = 2x + 1

Yukarıdaki verilere göre, x kaç cm'dir?

A) 1 B) 2 C) 3 D) 4 E) 5

MURAT YAYINLARI

/muratyayincilik

12.

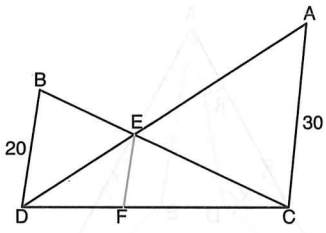

ABC ve BDC üçgen
[AC] // [EF] // [BD]
|AC| = 30 br
|BD| = 20 br
|DC| = 30 br

Yukarıdaki verilere göre, |DF| kaç br'dir?

A) 12 B) 15 C) 18 D) 20 E) 24

13.

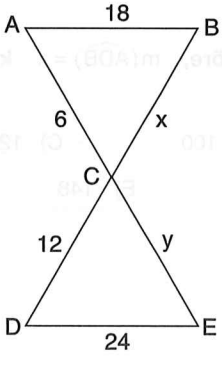

B, C, D doğrusal
A, C, E doğrusal
ABC ve CDE üçgen
[AB] // [DE]
|AB| = 18 cm
|AC| = 6 cm
|DC| = 12 cm
|DE| = 24 cm
|BC| = x cm
|CE| = y cm

Yukarıdaki verilere göre, x + y toplamı kaç cm'dir?

A) 14 B) 17 C) 20 D) 21 E) 22

14.

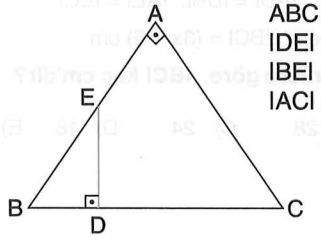

ABC ve EDB dik üçgen
|DE| = 3 cm
|BE| = 5 cm
|AC| = 12 cm

Yukarıdaki verilere göre, |AE| kaç cm'dir?

A) 10 B) 11 C) 12 D) 16 E) 20

15.

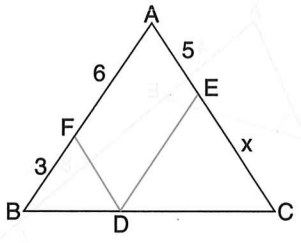

|BF| = 3 cm
|AF| = 6 cm
|AE| = 5 cm
[DF] // [AC]
[ED] // [AB]

Yukarıdaki verilere göre, |EC| = x kaç cm'dir?

A) 6 B) 8 C) 10 D) 12 E) 15

16.

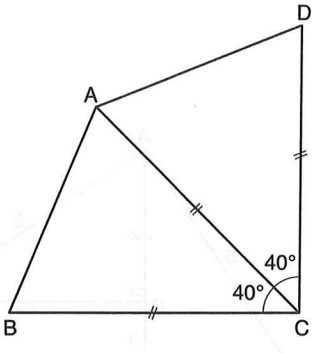

ABCD bir dörtgen
$m(\widehat{ACB}) = m(\widehat{ACD}) = 40°$
|BC| = |AC| = |DC|
|AB| + |AD| = 13 cm

Yukarıdaki verilere göre, |AB| kaç cm'dir?

A) 5 B) 6 C) 6,5 D) 7 E) 7,5

MURAT YAYINLARI

17.

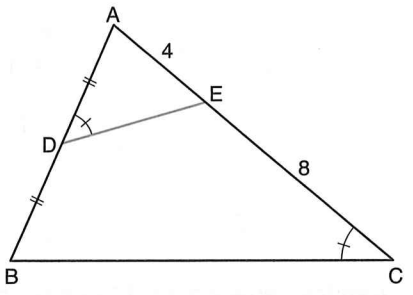

ABC bir üçgen,

$m(\widehat{ADE}) = m(\widehat{ACB})$, $|AD| = |DB|$

$|AE| = 4$ cm, $|EC| = 8$ cm

Yukarıdaki verilere göre, $|AB|$ kaç cm'dir?

A) $2\sqrt{4}$ B) $2\sqrt{6}$ C) 4

D) $4\sqrt{3}$ E) $4\sqrt{6}$

18.

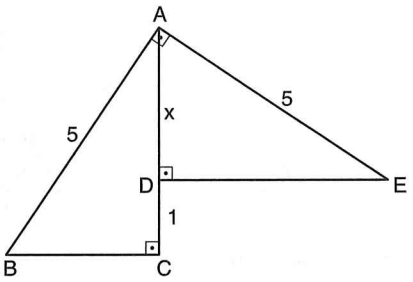

$[BA] \perp [AE]$, $[AC] \perp [BC]$, $[AD] \perp [DE]$

$|AE| = |AB| = 5$ cm, $|DC| = 1$ cm

Yukarıdaki verilere göre, $|AD| = x$ kaç cm'dir?

A) 2 B) 2,5 C) 2,7 D) 2,8 E) 3

19.

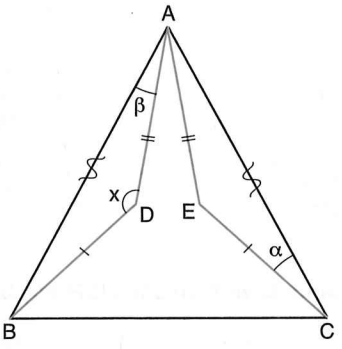

ABC bir üçgen, $|AB| = |AC|$, $|AE| = |AD|$,

$|BD| = |EC|$, $m(\widehat{BAD}) = \beta$, $m(\widehat{ACE}) = \alpha$

$\alpha + \beta = 32°$

Yukarıdaki verilere göre, $m(\widehat{ADB}) = x$ kaç derecedir?

A) 96 B) 100 C) 128

D) 138 E) 148

20.

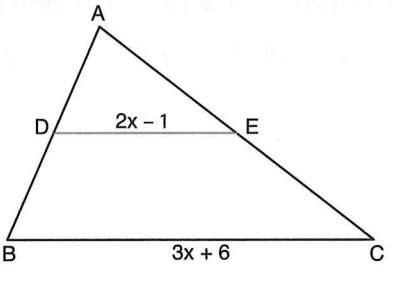

ABC bir üçgen, $|AD| = |DB|$, $|AE| = |EC|$

$|DE| = (2x - 1)$ cm, $|BC| = (3x + 6)$ cm

Yukarıdaki verilere göre, $|BC|$ kaç cm'dir?

A) 30 B) 28 C) 24 D) 18 E) 15

MURAT YAYINLARI

/muratyayincilik

Açıklamalar • TEST 34

1. B

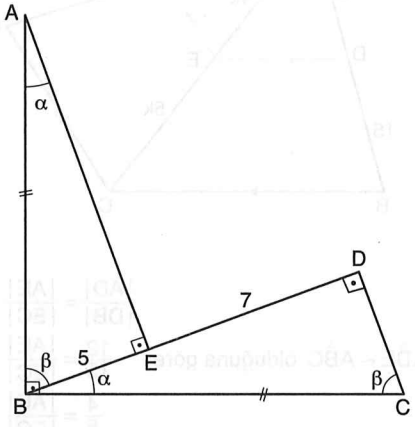

$A\hat{B}E \sim B\hat{C}D$ (A.A.A)

$\frac{|AB|}{|BC|} = \frac{|BE|}{|CD|} = \frac{|AE|}{|BD|}$

$1 = \frac{5}{|CD|} = \frac{|AE|}{12}$

$|CD| = 5$ cm

$|AE| = 12$ cm

$|AE| - |CD| = 12 - 5 = 7$ cm

2. E

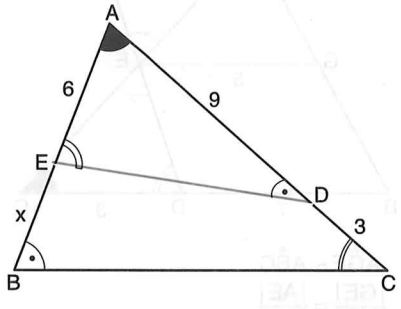

$A(\widehat{ABC}) \sim A(\widehat{ADE})$ (A.A.A)

$\frac{|AB|}{|AD|} = \frac{|AC|}{|AE|}$

$\frac{6+x}{9} = \frac{12}{6}$

$x = 12$ cm

3. C

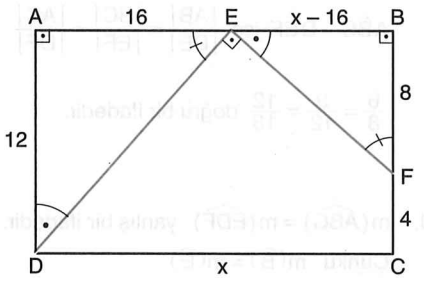

$A\hat{E}D \sim B\hat{F}E$

$\frac{|AE|}{|BF|} = \frac{|AD|}{|BE|}$

$\frac{16}{8} = \frac{12}{x-16}$

$x - 16 = 6$

$x = 22$ cm

4. B

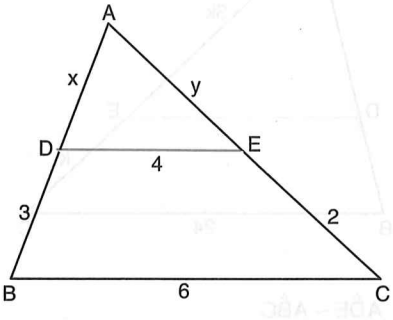

$A\hat{D}E \sim A\hat{B}C$

$\frac{|AD|}{|AB|} = \frac{|DE|}{|BC|} = \frac{|AE|}{|AC|}$

$\frac{x}{x+3} = \frac{4}{6} = \frac{y}{y+2}$

$4x + 12 = 6x$ $\quad 6y = 4y + 8$

$x = 6$ cm $\quad y = 4$ cm

$|AD| - |AE| = x - y = 6 - 4 = 2$ cm

MURAT YAYINLARI

5. A

I. $A\hat{B}C \sim D\hat{E}F$ ise $\frac{|AB|}{|DE|} = \frac{|BC|}{|EF|} = \frac{|AC|}{|DF|}$

$\frac{6}{8} = \frac{9}{12} = \frac{12}{16}$ doğru bir ifadedir.

II. $m(\widehat{ABC}) = m(\widehat{EDF})$ yanlış bir ifadedir.
Çünkü $m(\widehat{B}) = m(\widehat{E})$

III. Benzerlik oranı $\frac{2}{3}$'tür. Yanlış bir ifadedir.

Çünkü $k = \frac{3}{4}$ ya da $k = \frac{4}{3}$'tür.

6. E

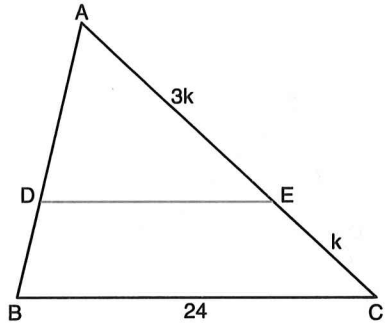

$A\hat{D}E \sim A\hat{B}C$

$\frac{|DE|}{|BC|} = \frac{|AE|}{|AC|}$

$\frac{x}{24} = \frac{3k}{4k}$

$x = 18$ cm

7. E

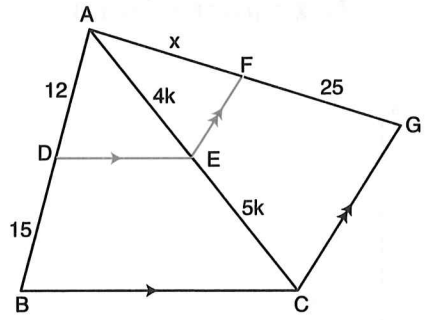

$\frac{|AD|}{|DB|} = \frac{|AE|}{|EC|}$

$A\hat{D}E \sim A\hat{B}C$ olduğuna göre $\frac{12}{15} = \frac{|AE|}{|EC|}$

$\frac{4}{5} = \frac{|AE|}{|EC|}$

ACG üçgeninde; $A\hat{E}F \sim A\hat{C}G$ olduğuna göre

$\frac{|AE|}{|EC|} = \frac{|AF|}{|FG|}$

$\frac{4}{5} = \frac{x}{25}$

$x = 20$ cm

8. C

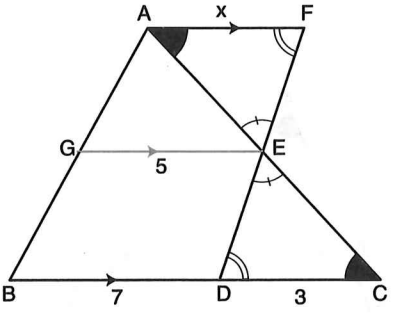

$A\hat{G}E \sim A\hat{B}C$

$\frac{|GE|}{|BC|} = \frac{|AE|}{|AC|}$

$\frac{5^{1}}{10^{2}} = \frac{|AE|}{|AC|}$ ise $|AE| = |EC|$ olur.

$A\hat{F}E \sim C\hat{D}E$

$\frac{|AF|}{|CD|} = \frac{|AE|}{|CE|}$

$\frac{x}{3} = 1$ $x = 3$ cm

MURAT YAYINLARI

/muratyayincilik

9. D

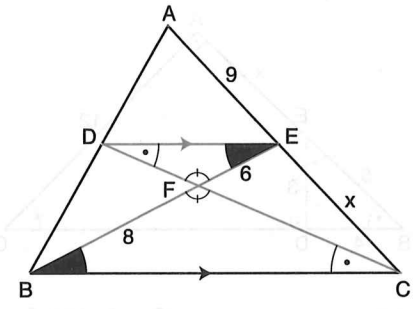

$A\hat{D}E \sim A\hat{B}C$

$\frac{|AE|}{|AC|} = \frac{|DE|}{|BC|}$ ..... (I)

$D\hat{E}F \sim C\hat{B}F$

$\frac{|DE|}{|BC|} = \frac{|EF|}{|BF|}$ ..... (II)

(I) ve (II)'den $\frac{|AE|}{|AC|} = \frac{|EF|}{|BF|}$ olur.

$\frac{9}{9+x} = \frac{6}{8}$

$x = 3$ cm

10. C

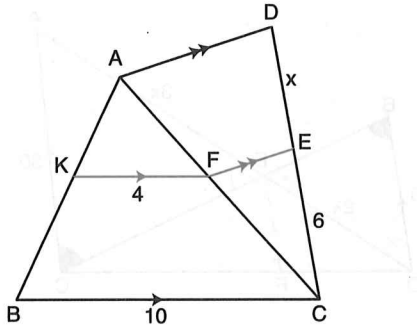

$A\hat{K}F \sim A\hat{B}C$

$\frac{|KF|}{|BC|} = \frac{|AF|}{|AC|}$ $\quad \frac{4^2}{10^5} = \frac{|AF|}{|AC|}$ ise

$|AF| = 2k$

$|FC| = 3k$ olur.

$F\hat{C}E \sim A\hat{C}D$

$\frac{|CE|}{|CD|} = \frac{|FC|}{|AC|}$

$\frac{6}{6+x} = \frac{3}{5}$

$30 = 18 + 3x$

$x = 4$ cm

11. A

I. Thales teoremine göre;

$\frac{9x}{6x+3} = \frac{2x+1}{2x+1}$

$\frac{9x}{6x+3} = 1$

$9x = 6x + 3$

$3x = 3$

$x = 1$ cm

MURAT YAYINLARI

12. A

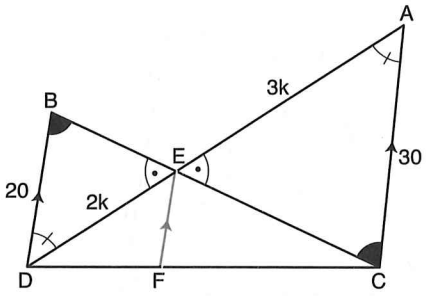

$A\overset{\triangle}{E}C \sim D\overset{\triangle}{E}B$

$\frac{|AE|}{|DE|} = \frac{|AC|}{|BD|}$

$\frac{|AE|}{|DE|} = \frac{3\cancel{0}}{2\cancel{0}}$ $\quad |AE| = 3k$

$|DE| = 2k$ olur.

$D\overset{\triangle}{E}F \sim D\overset{\triangle}{A}C$

$\frac{|DE|}{|DA|} = \frac{|DF|}{|DC|}$ $\quad |DF| = 2x$

$\frac{2}{5} = \frac{|DF|}{|DC|}$ $\quad |FC| = 3x$ olur.

$|DC| = 5x = 30 \quad x = 6$ cm $\quad |DF| = 2x = 12$ cm

13. B

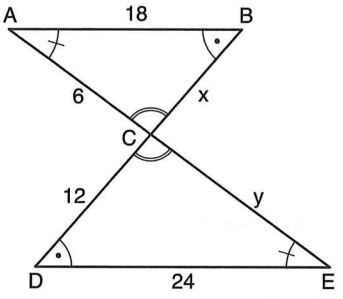

$A\overset{\triangle}{B}C \sim E\overset{\triangle}{D}C$

$\frac{|AB|}{|ED|} = \frac{|BC|}{|DC|} = \frac{|AC|}{|EC|}$

$\frac{18}{24} = \frac{x}{12} = \frac{6}{y}$

$x = 9 \quad y = 8 \quad x + y = 17$ cm

14. B

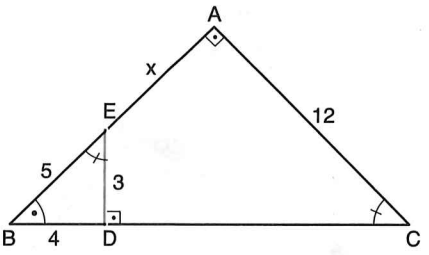

BED dik üçgeninde $\quad 5^2 = 3^2 + |BD|^2$

$|BD| = 4$ cm

$A\overset{\triangle}{B}C \sim D\overset{\triangle}{B}E$

$\frac{|AC|}{|DE|} = \frac{|AB|}{|DB|}$

$\frac{12}{3} = \frac{5 + x}{4}$

$x = 11$ cm

15. C

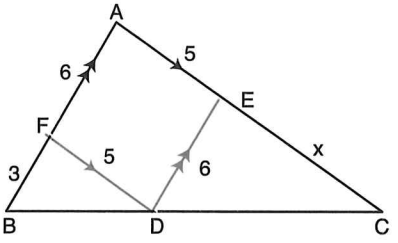

[DF] // [AC], [DE] // [AB] ise $|DE| = |AF| = 6$ cm,

$|AE| = |DF| = 5$ cm

$A\overset{\triangle}{B}C \sim F\overset{\triangle}{B}D$

$\frac{|AB|}{|FB|} = \frac{|AC|}{|FD|}$

$\frac{9}{3} = \frac{5 + x}{5}$

$x = 10$ cm

MURAT YAYINLARI

/muratyayincilik

16. C

$|AB| = x$, $|AD| = 13 - x$ olsun.

$A\hat{B}C \sim A\hat{D}C$ ise $|AB| = |AD|$

$x = 13 - x$

$x = 6{,}5$

17. B

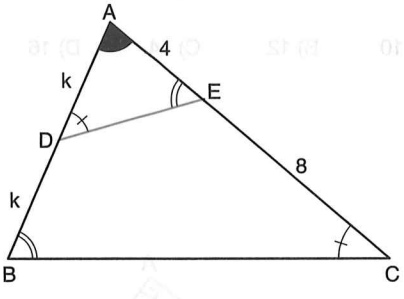

A ortak açı olmak üzere

$A\hat{B}C \sim A\hat{E}D$

$\frac{|AB|}{|AE|} = \frac{|AC|}{|AD|}$

$\frac{2k}{4} = \frac{12}{k}$

$2k^2 = 48$

$k^2 = 24$

$k = 2\sqrt{6}$ cm

18. E

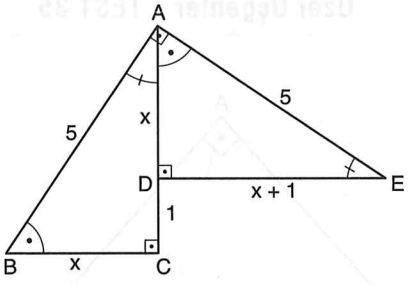

$A\hat{B}C \sim EAD$

$\frac{|AB|}{|EA|} = \frac{|AC|}{|ED|} = \frac{|BC|}{|AD|}$

$\frac{5}{5} = \frac{x+1}{|ED|} = \frac{|BC|}{x}$

$|ED| = x + 1$

$|BC| = x$

ABC dik üçgeninde; $5^2 = (x+1)^2 + x^2$

$x = 3$ cm

19. E

$A\hat{B}D \sim A\hat{C}E$ (K.K.K)

$m(\widehat{ACE}) = m(\widehat{ABD})$

$\underbrace{\alpha + \beta}_{32} + x = 180$

$32 + x = 180$

$x = 148°$

20. A

$|AD| = |DB|$, $|AE| = |EC|$ ise $[DE] // [BC]$ dir.

$A\hat{B}C \sim A\hat{D}E$

$\frac{1}{2} = \frac{2x-1}{3x+6}$ $x = 8$ cm $3x + 6 = 30$ cm

MURAT YAYINLARI

Özel Üçgenler • TEST 35

1.

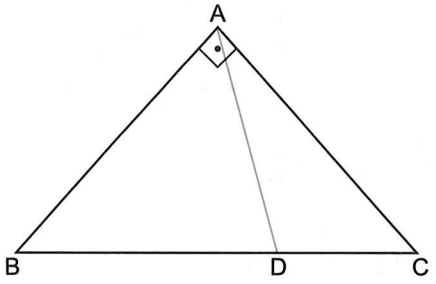

|AD| kenarortay ve |AD| = $2\sqrt{5}$ cm

olduğuna göre, **|BC| uzunluğu kaç cm'dir?**

A) $\sqrt{5}$ B) $2\sqrt{5}$ C) $4\sqrt{5}$ D) 2 E) 4

2.

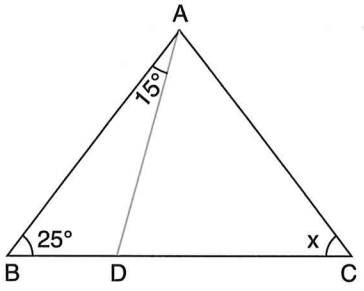

$\widehat{ADC}$ ikizkenar üçgeninde

|AC| = |DC|

olduğuna göre, x kaçtır?

A) 40 B) 50 C) 60 D) 80 E) 100

3.

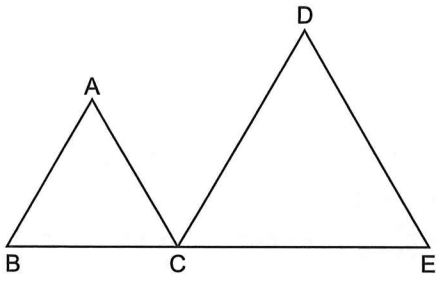

ABC ve CDE eşkenar üçgenlerdir.

|BE| = 21 cm

olduğuna göre, ABC ve CDE üçgenlerinin çevreleri toplamı kaç cm'dir?

A) 21 B) 30 C) 39 D) 57 E) 63

4. [AB] ⊥ [AC]

[AH] ⊥ [BC]

|BH| = 3 cm

|AH| = $\sqrt{18}$ cm

Verilenlere göre, x kaçtır?

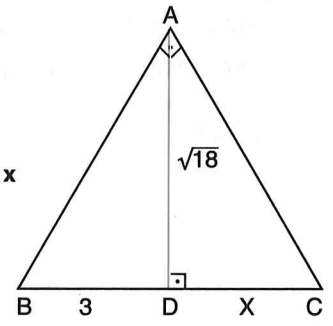

A) 8 B) 6 C) 5 D) 4 E) 3

5. [DE] // [BC]

olduğuna göre,

ADE üçgeninin çevresi kaç cm'dir?

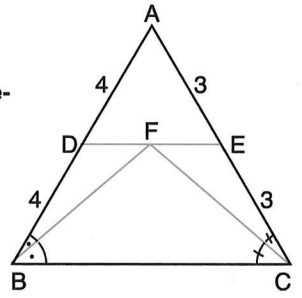

A) 10 B) 12 C) 14 D) 16 E) 18

6.

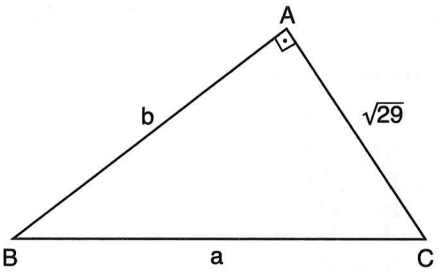

|AC| = $\sqrt{29}$,

m($\widehat{BAC}$) = 90°,

a ve b tam sayı olduğuna göre, a kaçtır?

A) 11 B) 12 C) 13 D) 14 E) 15

MURAT YAYINLARI

/muratyayincilik

7.

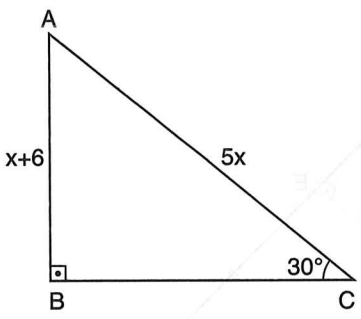

[AB] ⊥ [BC]

|AB| = x + 6

|AC| = 5x

$m(\widehat{ACB}) = 30°$

Verilenlere göre, x kaçtır?

A) 2 B) 3 C) 4 D) 5 D) 6

8. [AC] ⊥ [AB]

[AH] ⊥ [BC]

|AH| = 5 cm

Şekilde verilenlere göre, |BC| kaç cm'dir?

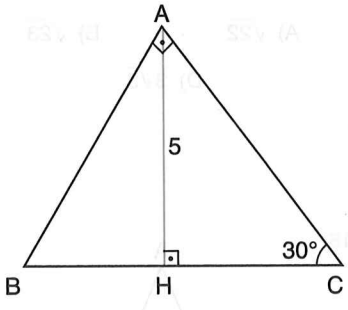

A) 10 B) $10\sqrt{3}$ C) $20\sqrt{3}$

D) $\frac{20\sqrt{3}}{2}$ E) $\frac{20\sqrt{3}}{3}$

9. [AB] ⊥ [AC]

[AB] = 5 cm

|DC| = 7 cm

|AC| = 13 cm

Verilenlere göre, |AD| kaç cm'dir?

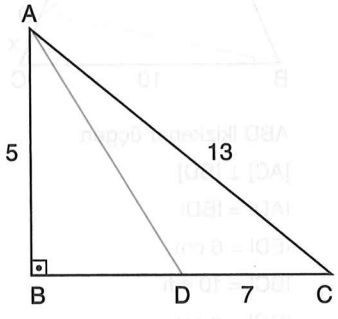

A) $2\sqrt{2}$ B) $3\sqrt{2}$ C) $4\sqrt{2}$

D) $5\sqrt{2}$ E) $6\sqrt{2}$

10. $\widehat{ADC}$ ikizkenar üçgeninde

|AD| = |DC|

|DC| = 8 cm

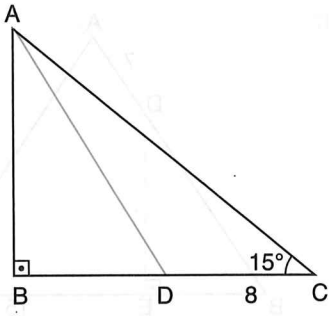

Buna göre, |AB| = kaç cm'dir?

A) 8 B) 7 C) 6 D) 5 E) 4

11.

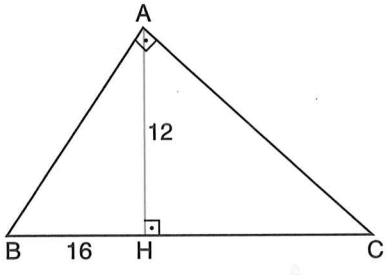

Şekilde verilenlere göre, |AC| kaç cm'dir?

A) 9 B) 10 C) 13 D) 15 E) 16

12.

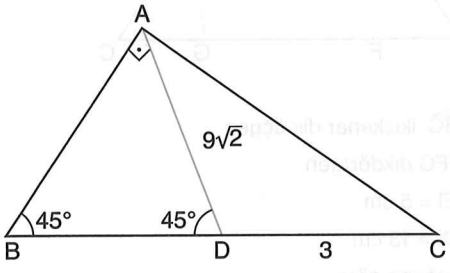

[AB] ⊥ [AD]

$|AD| = 9\sqrt{2}$ cm

|DC| = 3 cm

Verilenlere göre, |AC| = kaç cm'dir?

A) 9 B) 12 C) 15 D) 18 E) 21

MURAT YAYINLARI

13.

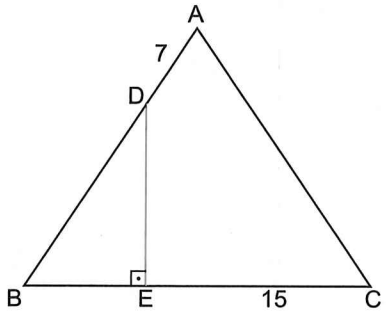

$\widehat{ABC}$ eşkenar üçgendir.

|AD| = 7 cm

|EC| = 15 cm

Buna göre, |DE| uzunluğu kaç cm'dir?

A) $8\sqrt{3}$ B) $7\sqrt{3}$ C) $6\sqrt{3}$

D) $5\sqrt{3}$ E) $4\sqrt{3}$

14.

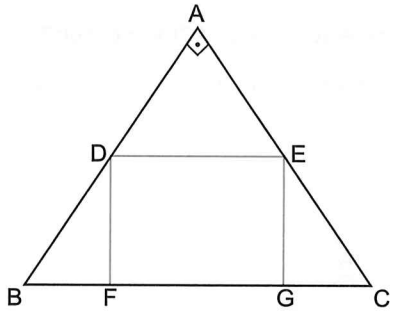

$\widehat{ABC}$ ikizkenar dik üçgen

DEFG dikdörtgen

|DE| = 5 cm

|BC| = 13 cm

olduğuna göre,

DEFG dikdörtgeninin alanı kaç cm^2 dir?

A) 12 B) 16 C) 20 D) 24 E) 30

15.

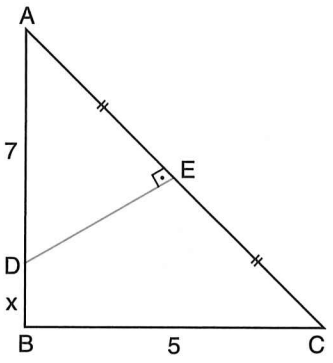

ABC dik üçgen,

[AC] ⊥ [DE]

|AD| = 7 br

|BC| = 5 br

|BD| = x br

Buna göre, x kaçtır?

A) $\sqrt{22}$ B) $\sqrt{23}$ C) $2\sqrt{6}$

D) $3\sqrt{3}$ E) $2\sqrt{7}$

16.

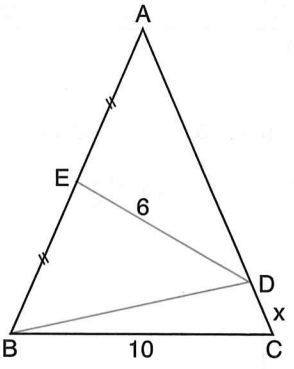

ABD ikizkenar üçgen,

[AC] ⊥ [BD]

|AD| = |BD|

|ED| = 6 cm

|BC| = 10 cm

|DC| = x cm

Buna göre, x kaç cm'dir?

A) $2\sqrt{6}$ B) $2\sqrt{7}$ C) $4\sqrt{2}$

D) $\sqrt{35}$ E) $2\sqrt{8}$

MURAT YAYINLARI

/muratyayincilik

17.

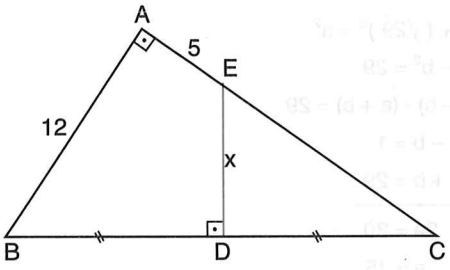

Şekilde

[BA] ⊥ [AC]

[ED] ⊥ [BC]

|BD| = |DC|

|AE| = 5 cm

|AB| = 12 cm

|DE| = x

Yukarıdaki verilenlere göre, x kaçtır?

A) $2\sqrt{3}$ B) $\sqrt{13}$ C) $\sqrt{15}$

D) $4\sqrt{3}$ E) $2\sqrt{13}$

18.

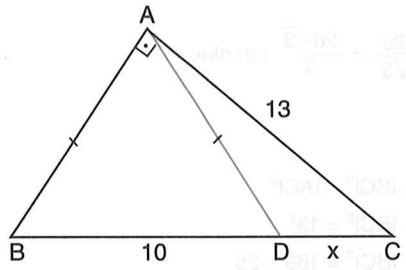

ABC üçgeninde

[BA] ⊥ [DA]

|AB| = |AD|

|BD| = 10 cm

|AC| = 13 cm

|DC| = x cm

Verilenlere göre, x kaç cm?

A) 7 B) 6 C) 5 D) 4 E) 3

19.

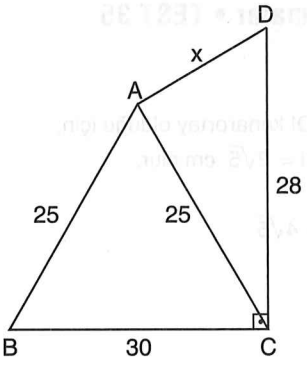

ABCD dörtgeninde

[BC] ⊥ [DC]

|AB| = |AC| = 25 cm

|DC| = 28 cm

|BC| = 30 cm

|AD| = x cm

Verilenlere göre, x kaçtır?

A) 15 B) 16 C) 17 D) 18 E) 19

20.

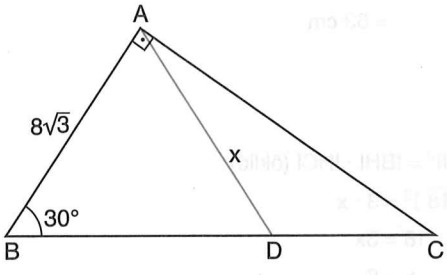

Şekilde,

[AB] ⊥ [AC]

$m(\widehat{ABC}) = 30°$

$|AB| = 8\sqrt{3}$ cm

|DC| = 1 cm

Verilenlere göre, |AD| = x kaç cm'dir?

A) $2\sqrt{14}$ B) $\sqrt{57}$ C) $2\sqrt{15}$

D) 8 E) 9

MURAT YAYINLARI

Açıklamalar • TEST 35

1. C

[AB] ⊥ [AC] ve |AD| kenarortay olduğu için;
|AD| = |BD| = |DC| = $2\sqrt{5}$ cm olur.

$|BC| = 2 \cdot 2\sqrt{5} = 4\sqrt{5}$

2. E

$m(\widehat{ADC}) = m(\widehat{CAD}) = 25 + 15 = 40°$

$x + 40° + 40° = 180°$

$x + 80° = 180°$

$x = 100°$

3. E

|BC| = x, |CE| = y ise x + y = 21 olur.
|AB| = |AC| = |BC| = x olduğundan Ç(ABC) = 3x
|CD| = |DE| = |CE| = y olduğundan Ç(CDE) = 3y
Üçgenlerin çevreleri toplamı;

$3x + 3y = 3 \cdot (x + y)$

$= 3 \cdot 21$

$= 63$ cm

4. B

$|AH|^2 = |BH| \cdot |HC|$ (öklid)

$(\sqrt{18})^2 = 3 \cdot x$

$18 = 3x$

$x = 6$

5. C

[DE] // [BC] olduğundan

$m(\widehat{FBC}) = m(\widehat{DFB})$ ve $m(\widehat{FCB}) = m(\widehat{EFC})$ olur.

Bu durumda |DB| = |DF| = 4 cm ve
|EF| = |FC| = 3 cm olur.
Ç(ABC) = 4 + 3 + 4 + 3 = 14 cm olur.

6. E

$b^2 + (\sqrt{29})^2 = a^2$

$a^2 - b^2 = 29$

$(a - b) \cdot (a + b) = 29$

$a - b = 1$

$+\ a + b = 29$

$2a = 30$

$a = 15$

7. C

30°, 60°, 90° üçgeni olduğundan;
30° nin karşısında x + 6 varsa 90° nin karşısında 2 · (x + 6) olur.

$2 \cdot (x + 6) = 5x$

$2x + 12 = 5x$

$3x = 12$

$x = 4$

8. E

AHC üçgeninde |AH| = 5 cm ise |AC| = 10 cm olur.
ABC üçgeninde |AC| = 10 cm ise $|AB| = \frac{10}{\sqrt{3}}$ cm

$|BC| = \frac{20}{\sqrt{3}} = \frac{20\sqrt{3}}{3}$ cm olur.

9. D

$|AB|^2 + |BC|^2 = |AC|^2$

$5^2 + |BC|^2 = 13^2$

$|BC|^2 = 169 - 25$

$|BC|^2 = 144$

$|BC| = 144$

$|BC| = 12$ cm

Bu durumda |BD| = 5 cm olur.

$|AD|^2 = |AB|^2 + |BD|^2$

$|AD|^2 = 5^2 + 5^2$

$|AD|^2 = 50$

$|AD| = 5\sqrt{2}$ cm

MURAT YAYINLARI

/muratyayincilik

10. E

$|AD| = |DC|$ ise $m(\widehat{CAD}) = m(\widehat{DCA}) = 15°$ ve

$m(\widehat{ADB}) = 15 + 15 = 30°$ olur.

$|AD| = 8$ cm ise $|AB| = 4$ cm olur. (30°, 60°, 90° üçgeni)

11. D

$|BH| \cdot |HC| = |AH|^2$ (Öklid)

$16 \cdot |HC| = 12^2$

$16 \cdot |HC| = 144$

$|HC| = 9$

$|AH|^2 + |HC|^2 = |AC|^2$ (Pisagor)

$12^2 + 9^2 = |AC|^2$

$144 + 81 = |AC|^2$

$225 = |AC|^2$

$|AC| = 15$ cm

12. C

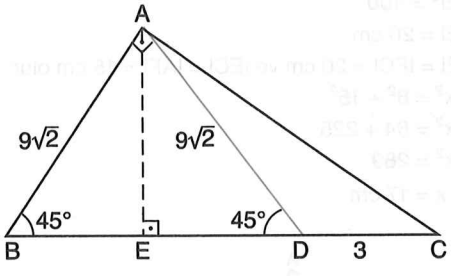

$\widehat{AED}$ üçgeni ikizkenar dik üçgen ve $|AD| = 9\sqrt{2}$ olduğundan;

$|AE| = |ED| = 9$ cm olur.

$\widehat{AEC}$ dik üçgeninde,

$|AC|^2 = |AE|^2 + |EC|^2$

$|AC|^2 = 9^2 + 12^2$

$|AC|^2 = 81 + 144$

$|AC|^2 = 225$

$|AC| = 15$ cm

13. A

$\widehat{BED}$, 30°, 60°, 90° üçgeni olduğundan $|BE| = x$ ise

$|DE| = x\sqrt{3}$, $|BD| = 2x$ olur.

$|AB| = |BC|$ için

$2x + 7 = x + 15$

$x = 8$

$|DE| = 8\sqrt{3}$ cm

14. C

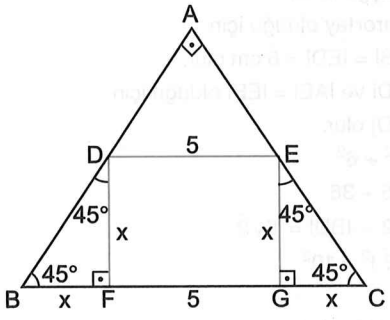

$|BC| = 2x + 5 = 13$

$2x = 8$

$x = 4$

$A(DEFG) = 4 \cdot 5 = 20$ cm^2

15. C

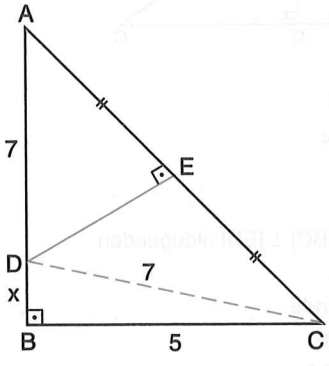

$|AE| = |EC|$ ve $[AC] \perp [DE]$

olduğu için $|AD| = |DC| = 7$ br olur.

$x^2 + 5^2 = 7^2$

$x^2 + 25 = 49$

$x^2 = 24$

$x = 2\sqrt{6}$ br

MURAT YAYINLARI

16. B

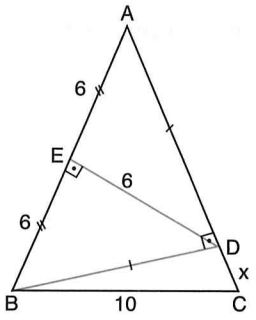

ABD dik üçgeninde
[DE] kenarortay olduğu için
$|AE| = |EB| = |ED| = 6$ cm olur.
$|AD| = |BD|$ ve $|AE| = |EB|$ olduğu için
$[AB] \perp [ED]$ olur.
$|BD|^2 = 6^2 + 6^2$
$|BD|^2 = 36 + 36$
$|BD|^2 = 72 \rightarrow |BD| = 6\sqrt{2}$
$x^2 + (6\sqrt{2})^2 = 10^2$

$x^2 + 72 = 100$
$x^2 = 28$
$x = 2\sqrt{7}$ cm

17. E

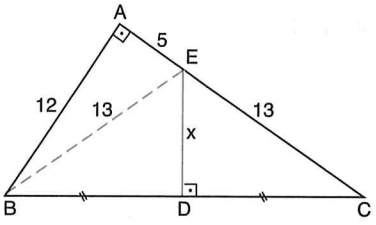

$|BE|^2 = 5^2 + 12^2$
$|BE|^2 = 25 + 144$
$|BE|^2 = 169$
$|BE| = 13$
$|BD| = |DC|$ ve $[BC] \perp [ED]$ olduğundan
$|BE| = |EC|$ olur.
ABC dik üçgeninde
$|BC|^2 = 12^2 + 18^2$
$|BC|^2 = 144 + 324$
$|BC|^2 = 468 \rightarrow |BC| = 6\sqrt{13} \rightarrow |DC| = 3\sqrt{13}$

EDC dik üçgeninde
$x^2 + (3\sqrt{13})^2 = 13^2$

$x^2 = 52$
$x = 2\sqrt{13}$ cm

18. A

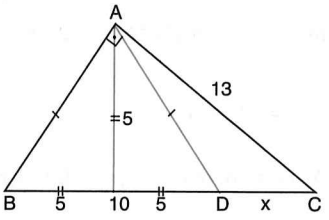

ABD dik üçgeninde [AE] kenarortay ise
$[AE] \perp [BD]$ ve $|BE| = |ED| = |AE| = 5$ cm olur.
AEC dik üçgeni 5, 12, 13, üçgeni olduğu için;
$5 + x = 12$
$x = 7$ cm olur.

19. C

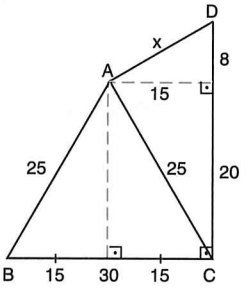

ABC ikizkenar üçgeninde A köşesinde dik indirilirse
$|BE| = |EC| = 15$ cm olur.
$|AC|^2 = |AE|^2 + |EC|^2$
$25^2 = |AE|^2 + 15^2$
$625 = |AE|^2 + 225$
$|AE|^2 = 400$
$|AE| = 20$ cm
$|AE| = |FC| = 20$ cm ve $|EC| = |AF| = 15$ cm olur.
$x^2 = 8^2 + 15^2$
$x^2 = 64 + 225$
$x^2 = 289$
$x = 17$ cm

20. B

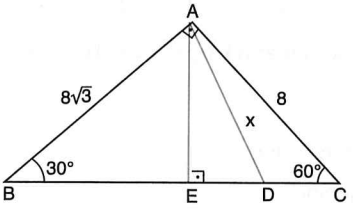

ABC dik üçgeni 30°, 60°, 90° üçgeni olduğu için; $|AC| = 8$ cm, $|BC| = 16$ cm olur.
ABE dik üçgeninde $|AE| = 4\sqrt{3}$, $|BE| = 12$ cm olur.
Bu durumda $|DE| = 3$ cm'dir.
AED dik üçgeninde
$x^2 = 3^2 + (4\sqrt{3})^2$
$x^2 = 9 + 48$
$x^2 = 57$
$x = \sqrt{57}$

MURAT YAYINLARI

/muratyayincilik

Üçgende Alan • TEST 36

1.

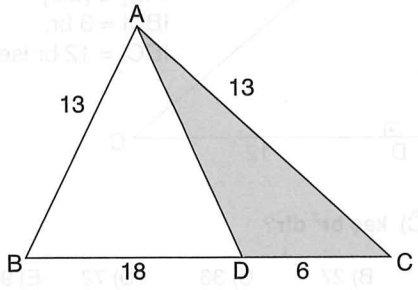

ABC ikizkenar üçgen
|AB| = |AC| = 13 br
|BD| = 18 br
|DC| = 6 br ise
$A(\widehat{ACD})$ **kaç br² dir?**

A) 9 B) 12 C) 15 D) 16 E) 24

2. ABC bir üçgen
[AD] ⊥ [BC]
[BE] ⊥ [AC]
|BC| = 12 br
|AC| = 8 br
|AD| = 6 br ise
|BE| kaç birimdir?

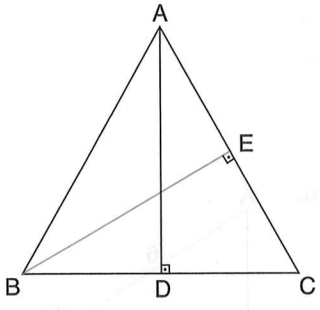

A) 4 B) 9 C) 12 D) 16 E) 20

3.

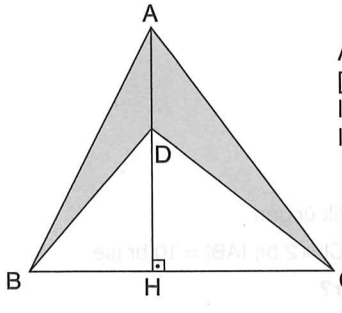

ABC bir üçgen
[AH] ⊥ [BC]
|AD| = 5 cm
|BC| = 10 cm

Yukarıdaki verilenlere göre, ABDC dörtgensel bölgenin alanı kaç cm² dir?

A) 100 B) 50 C) 30 D) 25 E) 15

4.

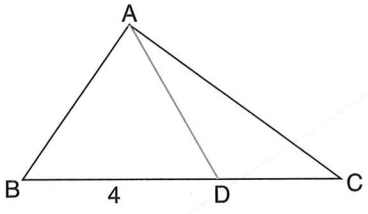

ABC eşkenar üçgen
|BD| = 4 br |DC| = 2 br
olduğuna göre, $A(\widehat{ADC})$ **kaç br² dir?**

A) $\sqrt{3}$ B) $\frac{3\sqrt{3}}{2}$ C) $3\sqrt{3}$
D) $6\sqrt{3}$ E) $9\sqrt{3}$

5.

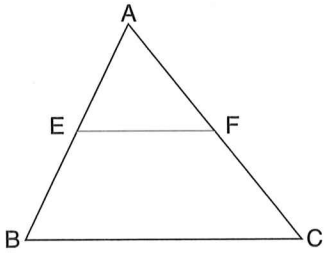

[EF], ABC üçgeninin orta tabanıdır.
$A(\widehat{AEF})$ **= 9 cm² ise** $A(\widehat{ABC})$ **kaç cm² dir?**

A) 18 B) 27 C) 36 D) 48 E) 96

6.

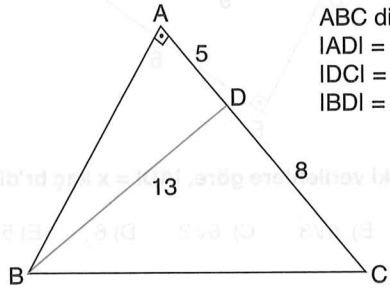

ABC dik üçgen
|AD| = 5 cm
|DC| = 8 cm
|BD| = 13 cm

Yukarıdaki verilenlere göre, $A(\widehat{BDC})$ **kaç cm² dir?**

A) 24 B) 32 C) 36 D) 40 E) 48

MURAT YAYINLARI

7.

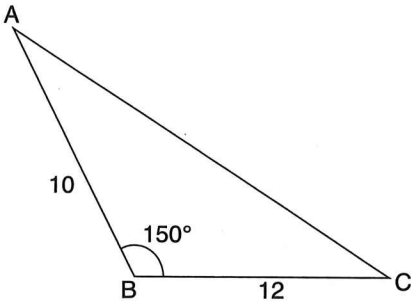

ABC bir üçgen

$m(\widehat{ABC}) = 150°$

$|AB| = 10$ cm

$|BC| = 12$ cm olduğuna göre,

$A(\widehat{ABC})$ **kaç cm² dir?**

A) 15 B) 30 C) 45 D) 60 E) 120

9.

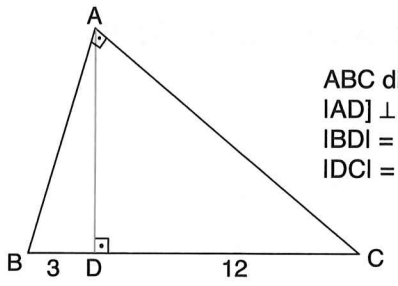

ABC dik üçgen
$|AD| \perp |BC|$,
$|BD| = 3$ br,
$|DC| = 12$ br ise

$A(\widehat{ADC})$ **kaç br² dir?**

A) 9 B) 27 C) 36 D) 72 E) 96

MURAT YAYINLARI

8.

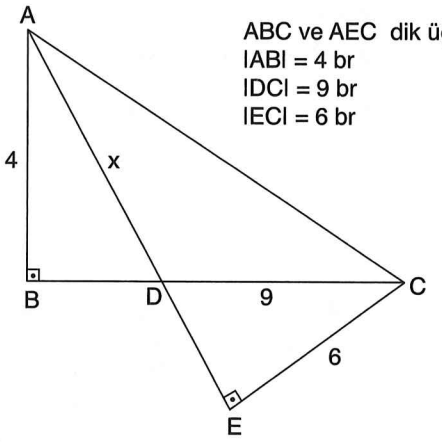

ABC ve AEC dik üçgen
$|AB| = 4$ br
$|DC| = 9$ br
$|EC| = 6$ br

Yukarıdaki verilenlere göre, $|AD| = x$ kaç br'dir?

A) 8 B) $6\sqrt{3}$ C) $6\sqrt{2}$ D) 6 E) 5

10.

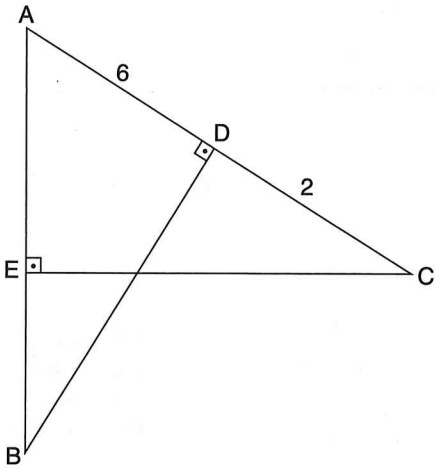

AEC ve ABD dik üçgen

$|AD| = 6$ br, $|DC| = 2$ br, $|AB| = 10$ br ise

$|CE|$ kaç br'dir?

A) 5 B) 6 C) 6,4 D) 6,8 E) 7,2

11.

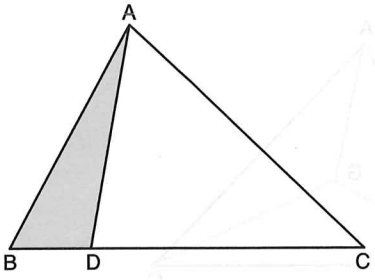

ABC bir üçgen, |DC| = 5|BD|

$A(\widehat{ABC}) = 30\ cm^2$

Yukarıdaki verilere göre, $A(\widehat{ABD})$ kaç cm^2 dir?

A) 5 B) 6 C) 8 D) 10 E) 12

13.

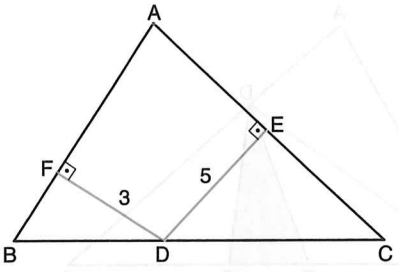

ABC üçgen, [AB] ⊥ [DF], [DE] ⊥ [AC]

|AB| = 7 cm, |FD| = 3 cm, |DE| = 5 cm

|AC| = 9 cm

Yukarıdaki verilere göre, $A(\widehat{ABC})$ kaç cm^2 dir?

A) 25 B) 28 C) 30 D) 32 E) 33

MURAT YAYINLARI

12.

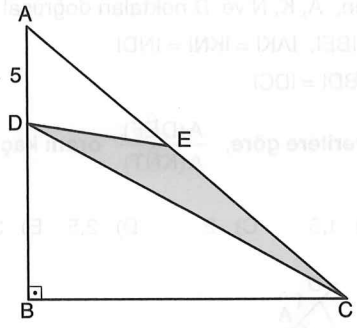

ABC bir dik üçgen, [AB] ⊥ [BC]

|AD| = 5 cm, |BC| =12 cm, |EC| =2|AE|

Yukarıdaki verilere göre, $A(\widehat{DEC})$ kaç cm^2 dir?

A) 15 B) 20 C) 25 D) 30 E) 35

14.

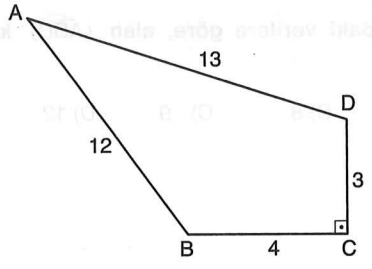

[DC] ⊥ [BC], |DC| = 3 cm, |BC| = 4 cm

|AB| = 12 cm, |AD| = 13 cm

Yukarıdaki verilere göre, Alan (ABCD) kaç cm^2 dir?

A) 38 B) 36 C) 34 D) 32 E) 30

15.

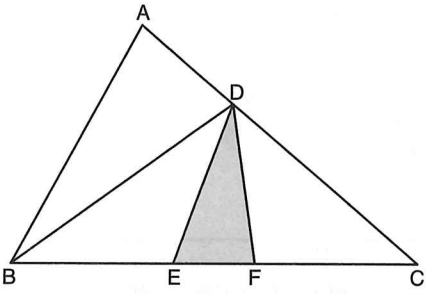

ABC üçgen, |BC| = 5|EF|

3|AD| = 2|DC|, Alan $(\widehat{ABC})$ = 75 cm²

Yukarıdaki verilere göre, alan $(\widehat{DEF})$ kaç cm² dir?

A) 3 B) 5 C) 6 D) 9 E) 15

16.

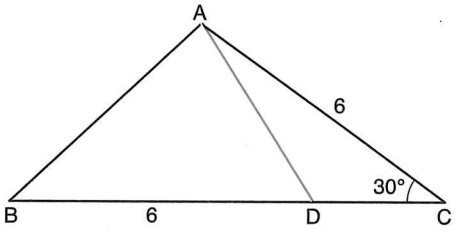

ABC üçgen, $m(\widehat{ACB}) = 30°$, |AC| = |BD| = 6 cm

Yukarıdaki verilere göre, alan $(\widehat{ABD})$ kaç cm² dir?

A) 6 B) 8 C) 9 D) 12 E) 18

17.

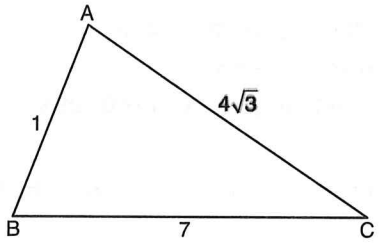

ABC üçgen, |AB| = 1 cm, |AC| = $4\sqrt{3}$ cm

|BC| = 7 cm

Yukarıdaki verilere göre, $A(\widehat{ABC})$ kaç cm² dir?

A) $2\sqrt{3}$ B) $3\sqrt{3}$ C) $4\sqrt{3}$

D) $5\sqrt{3}$ E) $7\sqrt{3}$

18.

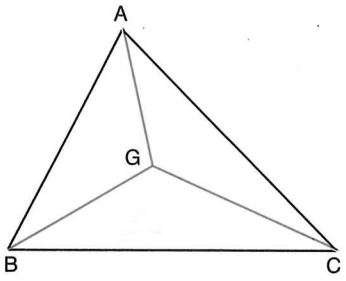

ABC bir üçgen,

G noktası ABC üçgeninin ağırlık merkezi

$A(\hat{A}BC) = 36\ cm^2$

Yukarıdaki verilere göre, $A(G\hat{B}C)$ kaç cm² dir?

A) 9 B) 10 C) 12 D) 16 E) 18

19.

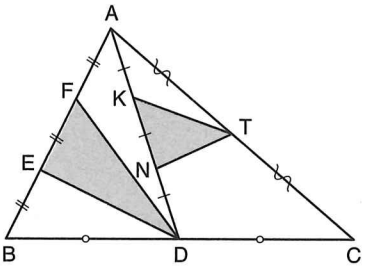

ABC bir üçgen, A, K, N ve D noktaları doğrusal

|AF| = |FE| = |BE|, |AK| = |KN| = |ND|

|AT| = |TC|, |BD| = |DC|

Yukarıdaki verilere göre, $\frac{A(D\hat{E}F)}{A(K\hat{N}T)}$ oranı kaçtır?

A) 1 B) 1,5 C) 2 D) 2,5 E) 3

20.

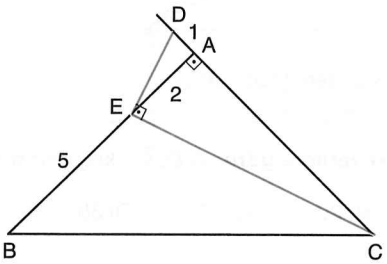

ABC bir üçgen, [DE] ⊥ [EC], [BA] ⊥ [CD]

|AD| = 1 cm, |EA| = 2 cm, |BE| = 5 cm

Yukarıdaki verilere göre, $A(E\hat{B}C)$ kaç cm² dir?

A) 8 B) 9 C) 10 D) 12 E) 20

MURAT YAYINLARI

/muratyayincilik

Açıklamalar • TEST 36

1. C

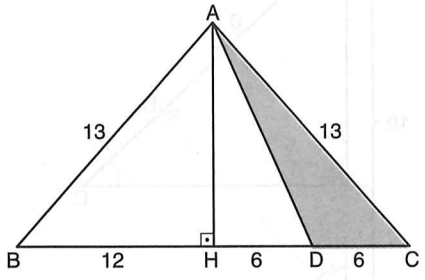

[AH] ⊥ [BC] olacak şekilde bir dik çizelim.

ABC ikizkenar üçgen ise |BH| = |HC| = 12 br

ABH dik üçgeninde $13^2 = |AH|^2 + 12^2$

$|AH| = 5$ br

$A(\hat{ADC}) = \frac{5.6}{2} = 15\,br^2$

2. B

$A(\hat{ABC}) = \frac{|BE|.|AC|}{2} = \frac{|AD|.|BC|}{2}$

$\frac{|BE|.8}{2} = \frac{6.12}{2}$

$|BE| = 9$ br

3. D

$A(ABCD) = A(\widehat{ABC}) - A(\widehat{DBC})$

$= \frac{|AH|\cdot|BC|}{2} - \frac{|DH|\cdot|BC|}{2}$

$= \frac{|BC|\cdot(|AH| - |DH|)}{2}$

$= \frac{|BC|\cdot|AD|}{2}$

$= \frac{10\cdot 5}{2}$

$= 25\,cm^2$

4. C

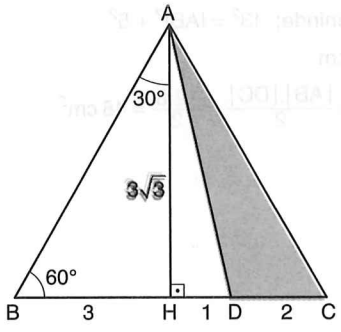

ABC eşkenar üçgeninde [AH] ⊥ [BC] olacak şekilde bir dik çizelim.

ABH üçgeninde 30° nin karşısındaki kenar 3 ise 60° nin karşısındaki kenar $3\sqrt{3}$ tür.

$A(\hat{ADC}) = \frac{|AH|.|DC|}{2} = \frac{3\sqrt{3}.2}{2} = 3\sqrt{3}\,br^2$

5. C

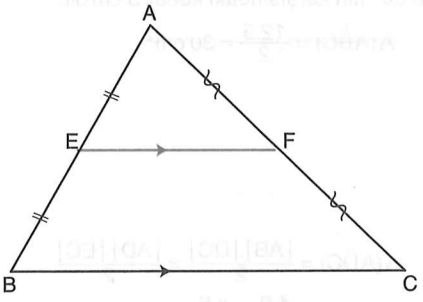

EF, ABC üçgeninin orta tabanı ise

|AE| = |EB|, |AF| = |FC|

O halde

[EF] // [BC]

$A\hat{EF} \sim A\hat{BC}$

$\frac{|AE|}{|AB|} = \frac{|EF|}{|BC|} = \frac{|AF|}{|AC|} = k$ (benzerlik oranı)

$\frac{A(AEF)}{A(ABC)} = k^2$

$k = \frac{1}{2}$ olmak üzere $\frac{9}{A(\widehat{ABC})} = \frac{1}{4}$

$A(\widehat{ABC}) = 36\,cm^2$

MURAT YAYINLARI

6. E

ABD üçgeninde; $13^2 = |AB|^2 + 5^2$

$|AB| = 12$ cm

$A(\hat{BDC}) = \frac{|AB|.|DC|}{2} = \frac{12.8}{2} = 48\ cm^2$

7. B

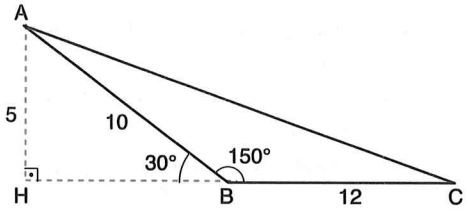

ABC geniş açılı bir üçgen olduğu için h_a üçgen-in dışındadır.

AHB dik üçgeninde, 90° nin karşısındaki kenar 10 cm ise 30° nin karşısındaki kenar 5 cm'dir.

$A(\hat{ABC}) = \frac{12.5}{2} = 30\ cm^2$

8. D

$A(\hat{ADC}) = \frac{|AB|.|DC|}{2} = \frac{|AD|.|EC|}{2}$

$= \frac{4.9}{2} = \frac{x.6}{2}$

$x = 6$ br

9. C

$m(\hat{A}) = 90°$ ve $[AD] \perp [BC]$ ise öklit teoremini uygularız.

$|AD|^2 = 3.12$ br

$|AD|^2 = 36$ br

$|AD| = 6$ br

$A(\hat{ADC}) = \frac{|AD|.|DC|}{2} = \frac{6.12}{2} = 36\ br^2$

10. C

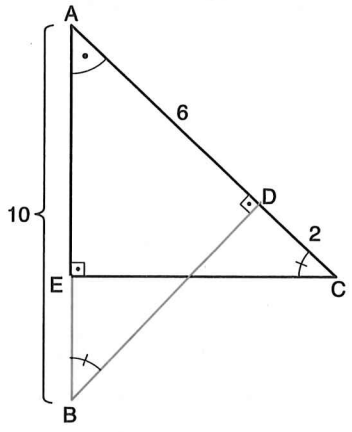

ABD dik üçgeninde, $10^2 = 6^2 + |BD|^2$

$|BD| = 8$ br

$\hat{AEC} \sim \hat{ADB}$

$\frac{|EC|}{|DB|} = \frac{|AC|}{|AB|}$

$\frac{|EC|}{8} = \frac{8}{10}$

$|EC| = 6,4$ br

11. A

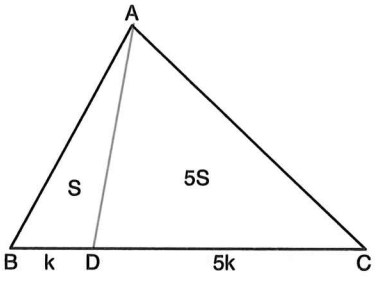

$6S = 30$

$S = 5\ cm^2$

MURAT YAYINLARI

/muratyayincilik

12. B

$$A(\hat{ADC}) = \frac{|AD|.|BC|}{2} = \frac{5.12}{2} = 30$$

$|AE| = k$

$|EC| = 2k$ ise

$A(\hat{ADE}) = S$, $A(\hat{DEC}) = 2S$ olur.

$3S = 30$

$S = 10$

$A(\hat{DEC}) = 2S = 20\,cm^2$

13. E

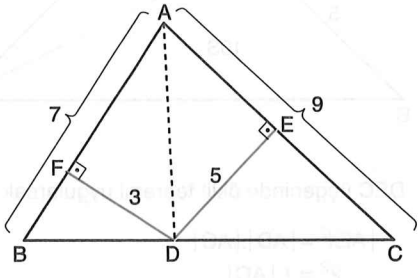

$A(\hat{ABC}) = A(\hat{ABD}) + A(\hat{ACD})$

$A(\hat{ABC}) = \frac{3.7}{2} + \frac{5.9}{2}$

$A(\hat{ABC}) = \frac{21}{2} + \frac{45}{2}$

$A(\hat{ABC}) = 33\,cm^2$

14. B

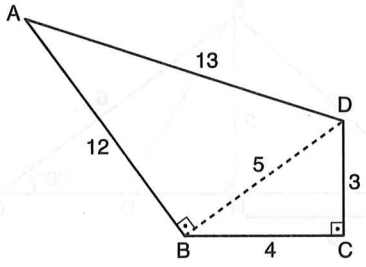

BDC üçgeninde, $|BD|^2 = 3^2 + 4^2$

$|BD| = 5$

ABD üçgeninde, $13^2 = 12^2 + 5^2$ olduğu için

$m(\widehat{ABD}) = 90°$ dir.

$A(ABCD) = A(\hat{ABD}) + A(\hat{BDC})$

$A(ABCD) = \frac{12.5}{2} + \frac{3.4}{2}$

$A(ABCD) = 30 + 6$

$A(ABCD) = 36\,cm^2$

15. D

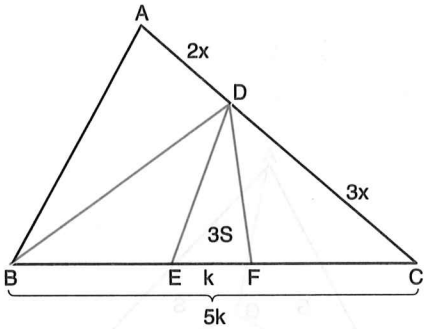

$|BC| = 5|EF|$ ise $|EF| = k$, $|BC| = 5k$

$3|AD| = 2|DC|$ ise $|AD| = 2x$, $|DC| = 3x$ olsun.

$A(\hat{DEF}) = 3S$ ise $A(\hat{BDC}) = 15\,S$ dir.

$A(\hat{BDC}) = 15S$ ise $A(\hat{ABD}) = 10\,S$ dir.

$A(\hat{ABC}) = 25S = 75$

$S = 3$

$A(\hat{DEF}) = 3S = 9\,cm^2$

MURAT YAYINLARI

16. C

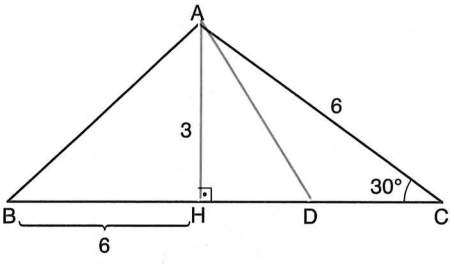

[AH] ⊥ [BC] olacak şekilde bir dik çizelim.
AHC üçgeninde, 90° nin karşısındaki kenar 6 cm ise 30° nin karşısındaki kenar 3 cm'dir.

$$A(\hat{ABD}) = \frac{|AH|.|BD|}{2} = \frac{3.6}{2} = 9\ cm^2$$

17. A

ABC üçgeninde,

$7^2 = (4\sqrt{3})^2 + 1^2$ ise [AB] ⊥ [AC]

$$A(\hat{ABC}) = \frac{|AB|.|AC|}{2} = \frac{1.4\sqrt{3}}{2} = 2\sqrt{3}\ cm^2$$

18. C

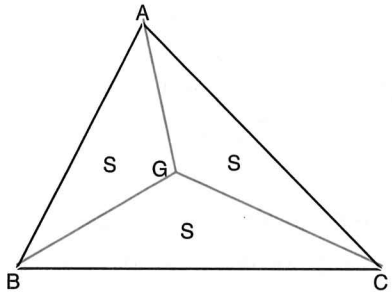

$A(\hat{ABC}) = 3S = 36$

$A(\hat{GBC}) = S = 12$

19. C

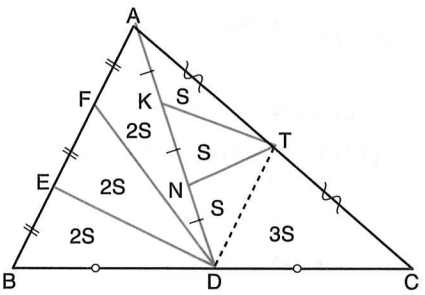

$$\frac{A(\hat{DEF})}{A(\hat{KNT})} = \frac{2S}{S} = 2$$

20. C

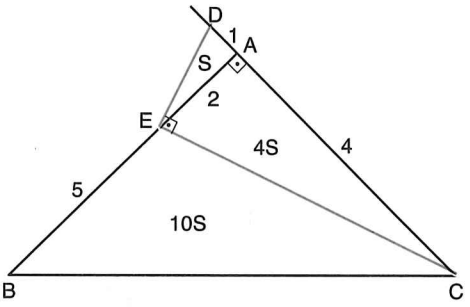

DEC üçgeninde öklit teoremi uygularsak

$|AE|^2 = |AD|.|AC|$

$2^2 = 1.|AC|$

$|AC| = 4\ cm$

$A(\hat{AEC}) = 4S = \frac{2.4}{2} = 4\ cm^2$

$S = 1\ cm^2$

$A(\hat{EBC}) = 10S = 10\ cm^2$

MURAT YAYINLARI

/muratyayincilik

Dörtgenler • TEST 37

1.

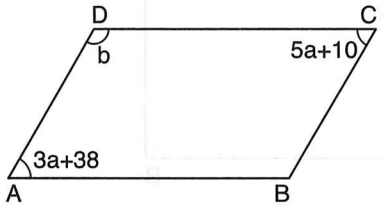

ABCD paralelkenardır.

Verilenlere göre, b kaç derecedir?

A) 70 B) 80 C) 90 D) 100 E) 120

2.

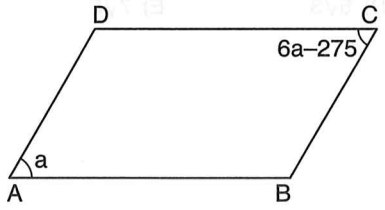

ABCD bir paralelkenardır.

Buna göre, a kaç derecedir?

A) 55 B) 75 C) 95 D) 105 E) 125

3.

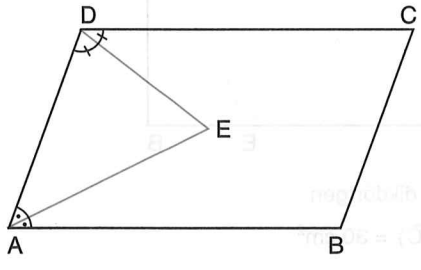

ABCD paralelkenar

[DE] ve [AE] açıortay

|DE| ve [AE] açıortay

|DE| = 9 cm

|AE| = 12 cm

olduğuna göre, |BC| kaç cm'dir?

A) 9 B) 12 C) 15 D) 18 E) 21

4.

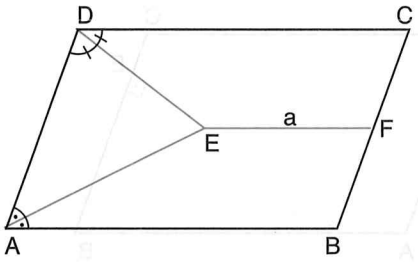

ABCD paralelkenar

[DE] ve [AE] açıortay

[EF] // [CD]

|DC| = 20 cm

|AD| = 12 cm

olduğuna göre, |EF| = a kaç cm'dir?

A) 6 B) 8 C) 10 D) 12 E) 14

5.

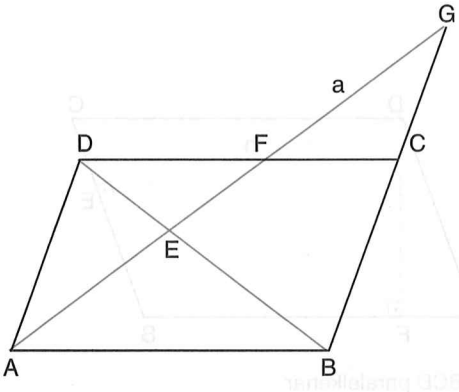

ABCD paralelkenar

A, E, F, G doğrusal

B, C, G doğrusal

7|DE| = 3|EB|

|AF| = 30 cm

olduğuna göre, |GF| = a kaç cm'dir?

A) 50 B) 40 C) 30 D) 20 E) 10

MURAT YAYINLARI

6. 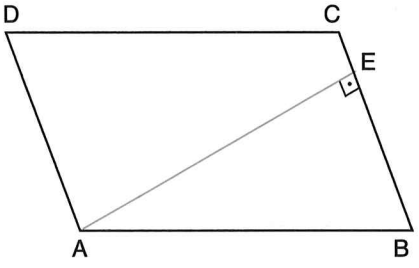

ABCD paralelkenar

$m(\widehat{EAB}) = 30°$

$|DC| = 8\sqrt{3}$ cm

olduğuna göre, $A(\widehat{ABE})$ kaç cm² dir?

A) $18\sqrt{3}$ B) $20\sqrt{3}$ C) $22\sqrt{3}$ D) $24\sqrt{3}$ E) $26\sqrt{3}$

7. 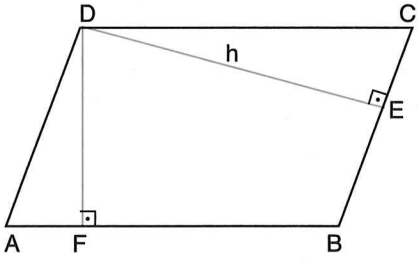

ABCD paralelkenar

$|DF| = 8$ cm

$|AF| = 6$ cm

$|FB| = 12$ cm

olduğuna göre, $|DE| = h$ kaç cm'dir?

A) 14,4 B) 12,2 C) 10,4 D) 9,6 E) 9,4

8. 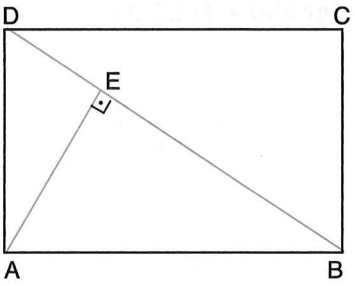

ABCD dikdörtgen

[DB] köşegen

$|DE| = 5$ cm

$|EB| = 9$ cm

olduğuna göre, $|AE|$ uzunluğu kaç cm'dir?

A) $3\sqrt{5}$ B) $\sqrt{15}$ C) $4\sqrt{5}$ D) $6\sqrt{3}$ E) $7\sqrt{5}$

9. 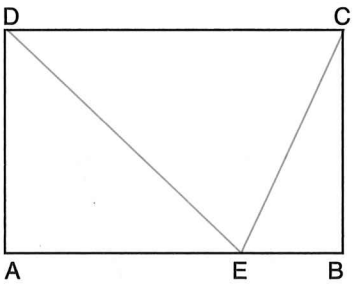

ABCD dikdörtgen

$A(\widehat{DEC}) = 30$ cm²

olduğuna göre, dikdörtgenin alanı kaç cm² dir?

A) 30 B) 35 C) 40 D) 50 E) 60

MURAT YAYINLARI

/muratyayincilik

10.

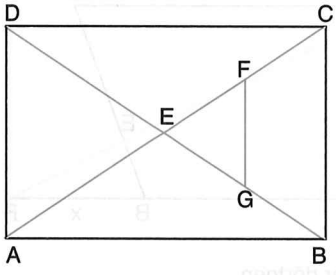

ABCD dikdörtgen [AC] ve [BD] köşegenleri E noktasında kesişiyor.

$2|EF| = |FC|$

$A(\widehat{EGF}) = 3\ cm^2$

olduğuna göre, ABCD dikdörtgeninin alanı kaç cm^2 dir?

A) 96 B) 100 C) 104 D) 108 E) 112

11.

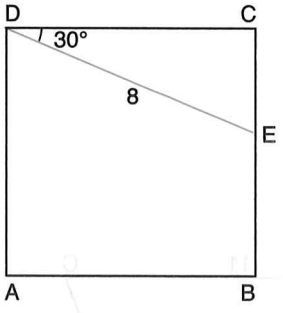

ABCD kare, |DE| = 8 cm olduğuna göre, ABCD karesinin alanı kaç cm^2 dir?

A) 20 B) 36 C) 48 D) 52 E) 60

12.

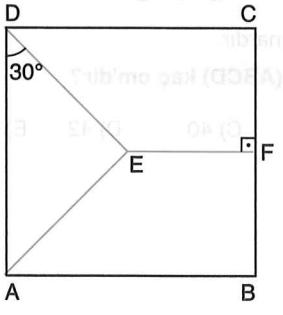

ABCD kare $m(\widehat{ADE}) = 30°$

$|EF| = 2$ cm

$|AD| = |DE|$

olduğuna göre, karenin alanı kaç cm^2 dir?

A) 1 B) 2 C) 4 D) 9 E) 16

13.

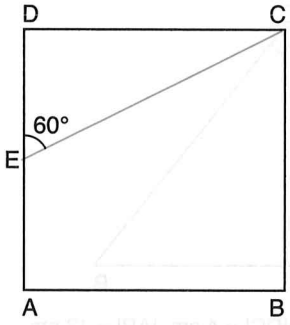

ABCD kare $m(\widehat{DEC}) = 60°$

$|EC| = 6\sqrt{3}$ cm

olduğuna göre, ABCD karesinin alanı kaç cm^2 dir?

A) 64 B) 81 C) 88 D) 100 E) 121

14.

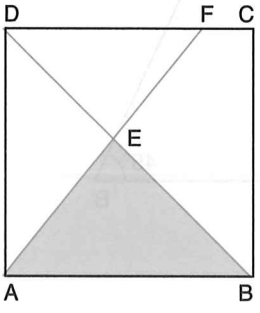

ABCD kare

$|DF| = 2$ cm

$|FC| = 1$ cm

Verilenlere göre, $A(\widehat{AEB})$ kaç cm^2 dir?

A) 3,2 B) 2,9 C) 2,7 D) 1,6 E) 1,2

15.

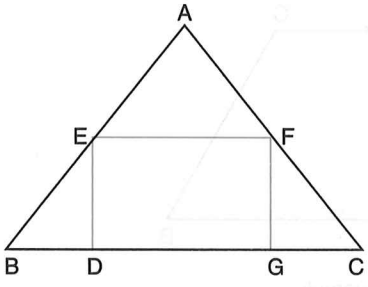

DEFG kare $m(\widehat{ACB}) = 30°$

$|FC| = 8$ cm

olduğuna göre, DEFG karesinin alanı kaç cm^2 dir?

A) 4 B) 9 C) 16 D) 25 E) 36

MURAT YAYINLARI

16.

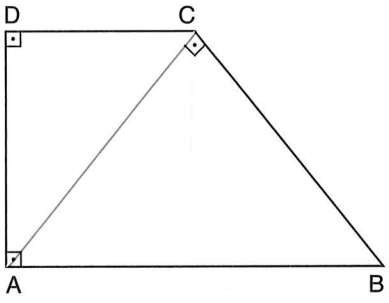

ABCD dik yamuk, |DC| = 4 cm, |AB| = 13 cm

olduğuna göre, $A(\widehat{ABC})$ kaç cm^2 dir?

A) 40 B) 39 C) 38 D) 37 E) 36

17.

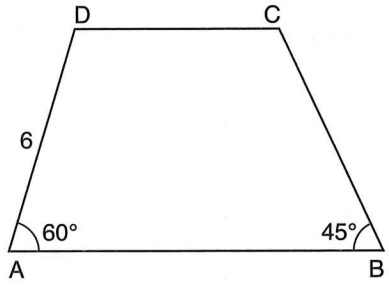

ABCD yamuk

$m(\widehat{DAB}) = 60°$

|AD| = 6 cm

olduğuna göre, |BC| kaç cm'dir?

A) $3\sqrt{2}$ B) $3\sqrt{3}$ C) $3\sqrt{6}$

D) $4\sqrt{6}$ E) $7\sqrt{6}$

18.

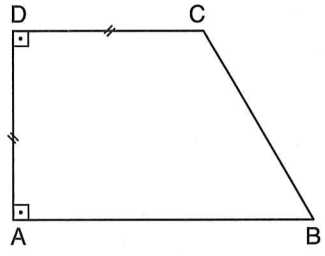

ABCD dik yamuk

|AD| = |DC|

|DC| = 5 cm

|AB| = 17 cm

olduğuna göre, |BC| kaç cm'dir?

A) 5 B) 8 C) 12 D) 13 E) 17

19.

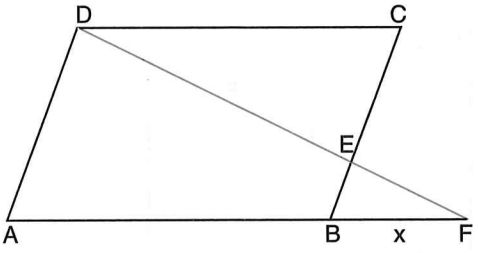

ABCD eşkenar dörtgen,

|CE| = 2|BE|,

|BA| = 20 cm

olduğuna göre, |BF| = x kaç cm'dir?

A) 10 B) 11 C) 12 D) 13 E) 14

20.

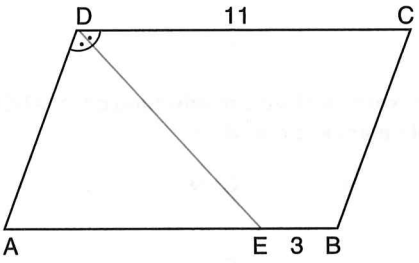

ABCD bir paralelkenardır.

Buna göre, çevre (ABCD) kaç cm'dir?

A) 36 B) 38 C) 40 D) 42 E) 44

MURAT YAYINLARI

/muratyayincilik

Açıklamalar • TEST 37

1. D

ABCD paralelkenar ise

$3a + 38° = 5a + 10°$

$28° = 2a$

$a = 14°$

$3a + 38° + b = 180°$

$3 \cdot 14 + 38° + b = 180°$

$80° + b = 180°$

$b = 100°$

2. A

$6a - 275° = a$

$5a = 275°$

$a = 55°$

3. C

[DE] ve [AE] açıortay ise $m(\widehat{DEA}) = 90°$ dir.

$|AD|^2 = 12^2 + 9^2$

$|AD|^2 = 144 + 81$

$|AD|^2 = 225$

$|AD| = 15$ cm

$|AD| = |BC| = 15$ cm

4. E

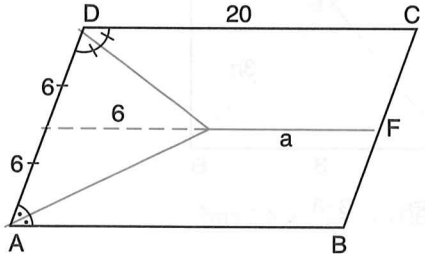

$a + 6 = 20$

$a = 14$ cm

5. B

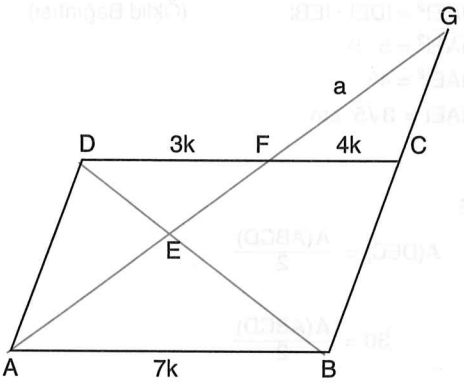

$\frac{|DE|}{|EB|} = \frac{3}{7}$ ise

$\frac{|DF|}{|AB|} = \frac{3}{7}$ olur.

$\widehat{ABG} \sim \widehat{FCG}$ olduğundan;

$\frac{|AB|}{|FC|} = \frac{|AG|}{|FG|} \rightarrow \frac{7k}{4k} = \frac{a+30}{a}$

$7a = 4a + 120$

$3a = 120$

$a = 40$ cm

6. D

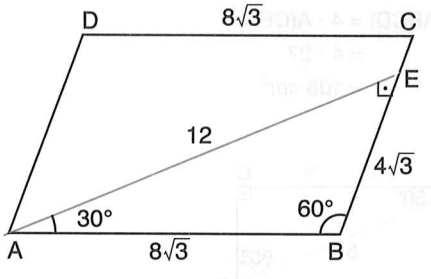

$A(ABE) = \frac{4\sqrt{3} \cdot \overset{6}{\cancel{12}}}{\cancel{2}} = 24\sqrt{3}$ cm²

7. A

$|AF| = 6$, $|DF| = 8$ ise $|AD| = 10$ cm'dir.

$A(ABCD) = |AB| \cdot |DF| = |BC| \cdot |DE|$

$18 \cdot 8 = 10 \cdot h$

$144 = 10 \cdot h$

$h = 14{,}4$ cm

MURAT YAYINLARI

8. A

$|AE|^2 = |DE| \cdot |EB|$ (Öklid Bağıntısı)

$|AE|^2 = 5 \cdot 9$

$|AE|^2 = 45$

$|AE| = 3\sqrt{5}$ cm

9. E

$$A(DEC) = \frac{A(ABCD)}{2}$$

$$30 = \frac{A(ABCD)}{2}$$

$A(ABCD) = 60 \text{ cm}^2$

10. D

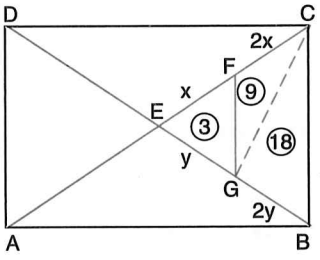

$A(EFG) = 3 \text{ cm}^2$ ise

$A(GFC) = 6 \text{ cm}^2$ olur.

$A(CEG) = 9 \text{ cm}^2$ ise

$A(CBG) = 18 \text{ cm}^2$ olur.

$A(CEB) = 27 \text{ cm}^2$

$A(ABCD) = 4 \cdot A(CEB)$

$= 4 \cdot 27$

$= 108 \text{ cm}^2$

11. C

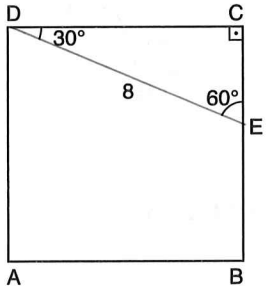

$|DE| = 8$ cm ise

$|CE| = 4$ cm

$|DC| = 4\sqrt{3}$ cm'dir.

$A(ABCD) = (4\sqrt{3})^2$

$= 16 \cdot 3$

$= 48 \text{ cm}^2$

12. E

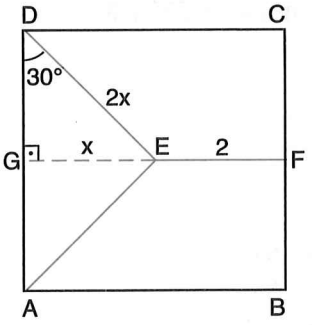

$|FG| = |AD| = |DE|$

$x + 2 = 2x$

$x = 2$

$|AD| = 4$ cm

$A(ABCD) = 4^2$

$= 16 \text{ cm}^2$

13. B

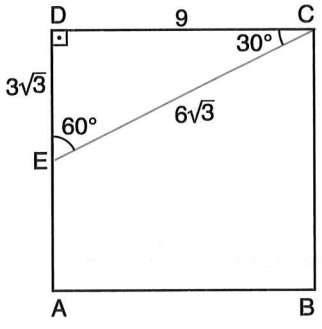

$A(ABCD) = 9^2$

$= 81 \text{ cm}^2$

14. C

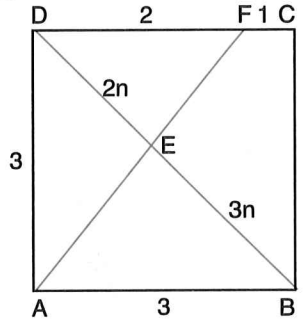

$A(\widehat{ABD}) = \frac{3 \cdot 3}{2} = 4{,}5 \text{ cm}^2$

$A(\widehat{AEB}) = 4{,}5 \cdot \frac{3}{5} = 2{,}7 \text{ cm}^2$

MURAT YAYINLARI

/muratyayincilik

15. C

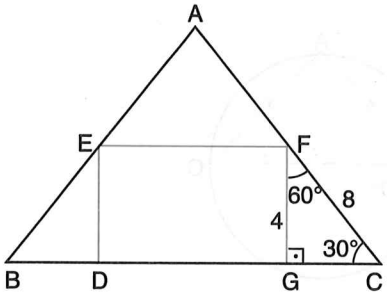

$A(EFGD) = 4^2$

$= 16\ cm^2$

16. B

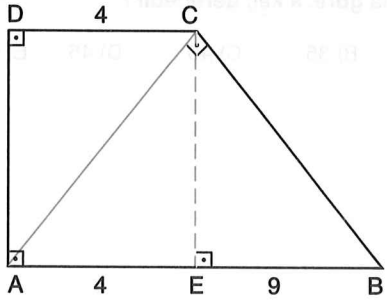

$|CE|^2 = 4 \cdot 9$

$|CE|^2 = 36$

$|CE| = 6\ cm$

$A(\widehat{ABC}) = \frac{6 \cdot 13}{2} = 39\ cm^2$

17. C

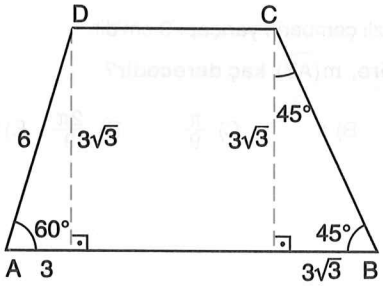

$|BC| = 3\sqrt{3} \cdot \sqrt{2}$

$= 3\sqrt{6}\ cm$

18. D

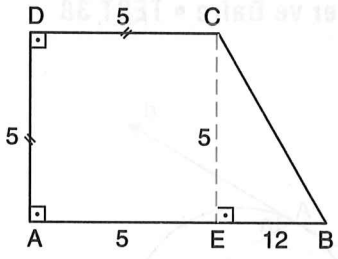

$|BC|^2 = 5^2 + 12^2$

$|BC|^2 = 25 + 144$

$|BC|^2 = 169$

$|BC| = 13\ cm$

19. A

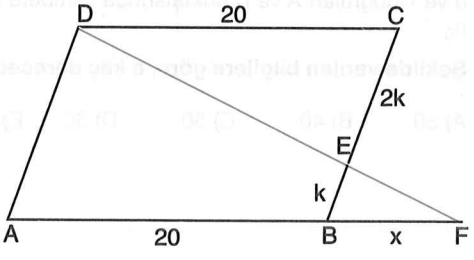

$\frac{|DC|}{|BF|} = \frac{|CE|}{|EB|}$

$\frac{20}{x} = \frac{2k}{k}$

$x = 10\ cm$

20. B

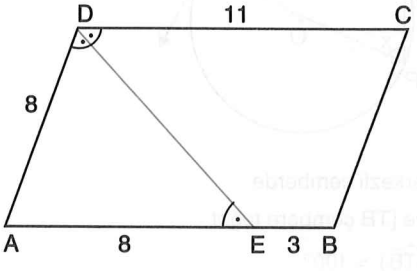

$m(\widehat{CDE})$ ile $m(\widehat{AED})$ ters açılardır.

Buradan

$|AD| = |AE| = 8\ cm$ olur.

$Ç(ABCD) = 2 \cdot (8 + 11)$

$= 38\ cm$

MURAT YAYINLARI

Çember ve Daire • TEST 38

1.

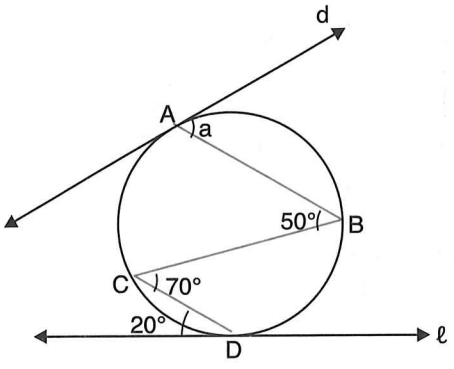

d ve ℓ doğruları A ve D noktalarında çembere teğettir.

Şekilde verilen bilgilere göre, a kaç derecedir?

A) 30 B) 40 C) 50 D) 60 E) 70

2.

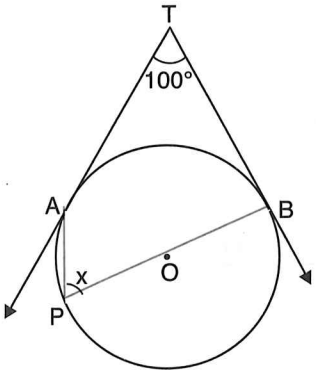

O merkezli çemberde

[TA ve [TB çembere teğet

$m(\widehat{ATB}) = 100°$

$m(\widehat{APB}) = x$

olduğuna göre, x kaç derecedir?

A) 10 B) 20 C) 30 D) 40 E) 50

3.

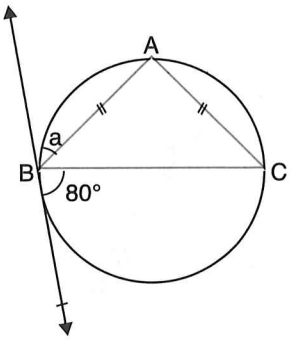

d doğrusu çembere

B noktasında teğettir.

|AB| = |AC|,

$m(\widehat{CBD}) = 80°$

olduğuna göre, a kaç derecedir?

A) 30 B) 35 C) 40 D) 45 E) 50

4.

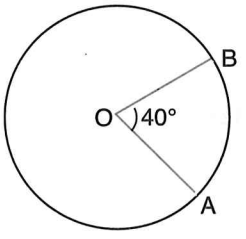

O merkezli çemberin yarıçapı 9 cm'dir.

Buna göre, $m(\widehat{AB})$ kaç derecedir?

A) 2π B) π C) $\frac{\pi}{9}$ D) $\frac{2\pi}{9}$ E) 9π

MURAT YAYINLARI

/muratyayincilik

5.

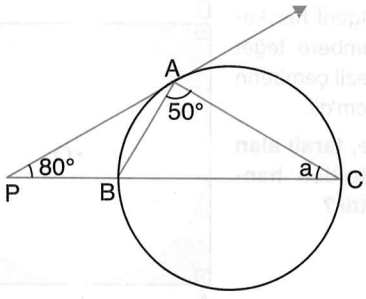

[PA, çembere A noktasında teğettir.

Şekilde verilenlere göre, a kaç derecedir?

A) 25 B) 30 C) 35 D) 40 E) 45

6.

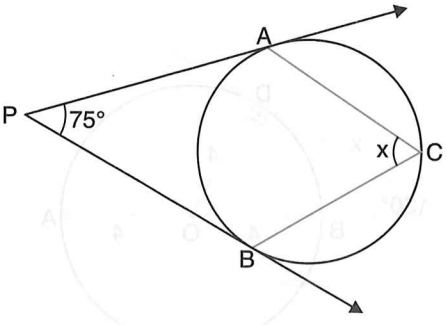

[PA, [PB çembere teğet

$m(\widehat{APB}) = 75°$

olduğuna göre, $m(\widehat{ACB})$ **= x kaç derecedir?**

A) 50 B) 52,5 C) 55 D) 57,5 E) 60

7.

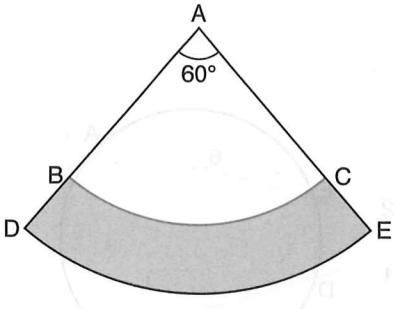

A merkezli çemberlerin kesitleri,

|AB| = 5 cm

|AD| = 8 cm

olduğuna göre, taralı alan aşağıdakilerden hangisine eşittir?

A) $\frac{29\pi}{6}$ B) $\frac{11\pi}{2}$ C) $\frac{37\pi}{6}$

D) $\frac{13\pi}{2}$ E) $\frac{41\pi}{6}$

8.

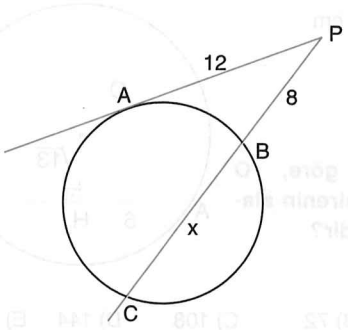

[PA, çembere A noktasında teğet,

|PA| = 12 cm, |PB| = 8 cm, |CB| = x cm

olduğuna göre, x kaçtır?

A) 6 B) 8 C) 10 D) 12 E) 14

9.

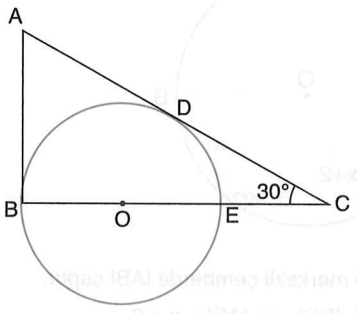

O merkezli çemberde [AB], B noktasında çembere teğet, [AC], D noktasında çembere teğettir.

|EC| = 7 cm

$m(\widehat{DCE}) = 30°$

olduğuna göre, çemberin çapı kaç cm'dir?

A) 7 B) 9 C) 10 D) 12 E) 14

10.

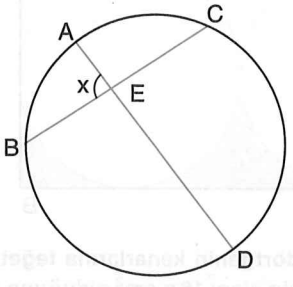

$m(\widehat{AB}) = 45°$

$m(\widehat{CD}) = 85°$

olduğuna göre, $m(\widehat{AEB})$ **= x kaç derecedir?**

A) 50 B) 55 C) 60 D) 65 E) 70

MURAT YAYINLARI

11. $|OH| = \sqrt{13}$ cm
$|AH| = 6$ cm
ve $\pi = \frac{22}{7}$

olduğuna göre, O merkezli dairenin alanı kaç cm² dir?

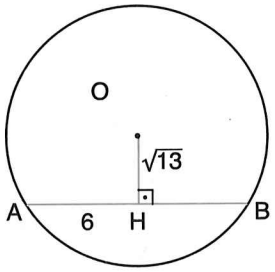

A) 36 B) 72 C) 108 D) 144 E) 154

12.

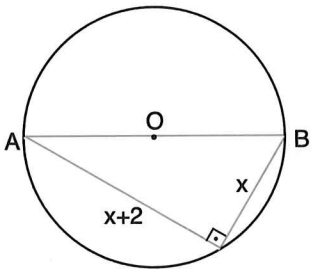

Şekildeki O merkezli çemberde |AB| çaptır.
$|AB| = x + 4$, $|BC| = x$, $|AC| = x + 2$
olduğuna göre, bu çemberin yarıçapı kaç cm'dir?

A) 1 B) 2 C) 3 D) 4 E) 5

13.

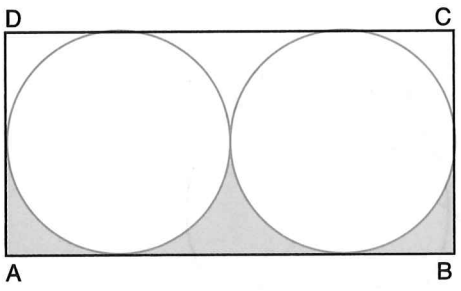

Birbirine ve dikdörtgenin kenarlarına teğet olan dairelerden birinin alanı 16π cm² olduğuna göre, taralı alan kaç cm² dir?

A) $32 + 4\pi$ B) $32 - 8\pi$ C) $64 - 16\pi$
D) 8π E) 32π

14. ABCD dörtgeni her kenarı ile çembere teğet ve O merkezli çemberin yarıçapı 6 cm'dir.

Buna göre, taralı alan aşağıdakilerden hangisine eşittir?

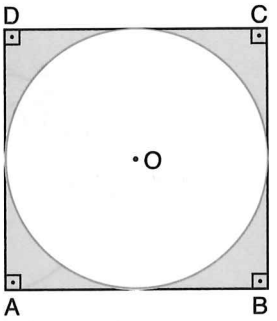

A) $144 - 36\pi$ B) $12(12 - \pi)$
C) $36\pi - 100$ D) $144\pi - 36$
E) 144

15.

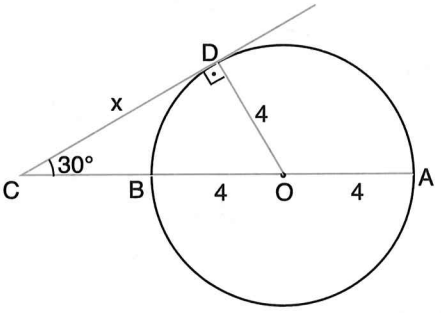

O merkezli çemberde [CD] çembere D noktasında teğettir. $|AB| = 8$ cm, $m(\widehat{BCD}) = 30°$
olduğuna göre, $|CD| = x$ kaç cm'dir?

A) $4\sqrt{3}$ B) $\sqrt{3}$ C) 4 D) 2 E) 1

16.

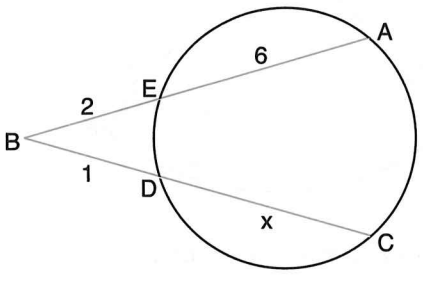

Şekildeki çemberde $|BE| = 2$ cm, $|BD| = 1$ cm
$|EA| = 6$ cm olduğuna göre, $|DC| = x$ kaçtır?

A) 2 B) 4 C) 6 D) 8 E) 15

MURAT YAYINLARI

/muratyayincilik

17.

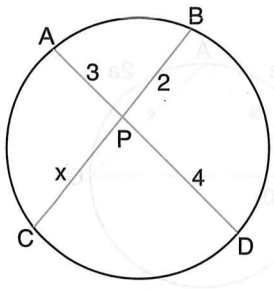

Şekildeki çemberde verilenlere göre, x uzunluğu kaç birimdir?

A) 2 B) 3 C) 4 D) 6 E) 8

19.

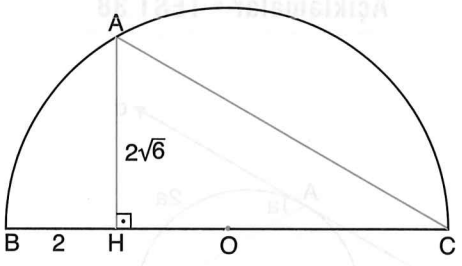

Şekilde O merkezli yarım çemberde,

$|AH| \perp |BC|$, $|AH| = 2\sqrt{6}$, $|BH| = 2$ cm

olduğuna göre, çemberin yarıçapı kaç cm'dir?

A) 3 B) 4 C) 5 D) 6 E) 7

18.

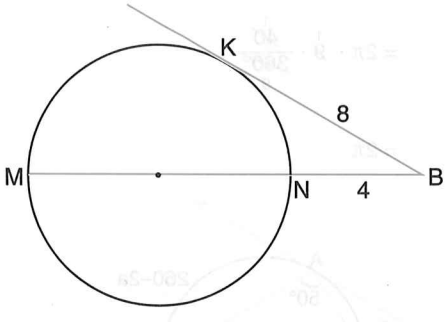

[BK], çembere K noktasında teğet, |MN| çap olduğuna göre, çemberin alanı kaç br² dir?

A) 25π B) 36π C) 49π D) 64π E) 100π

20.

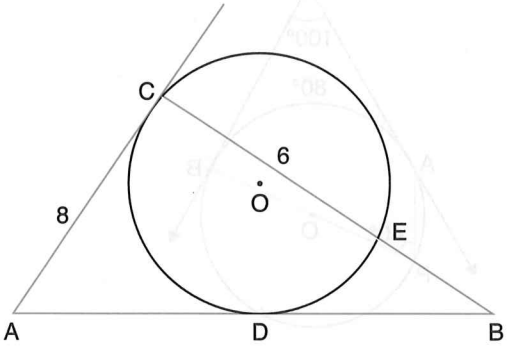

ABC bir üçgen,

|CE| = 6 cm,

|CA| = 8 cm,

|AB| = 12 cm

olduğuna göre, |EB| kaç cm'dir?

A) 1 B) $\sqrt{2}$ C) $2\sqrt{2}$ D) $2\sqrt{3}$ E) 2

MURAT YAYINLARI

Açıklamalar • TEST 38

1. B

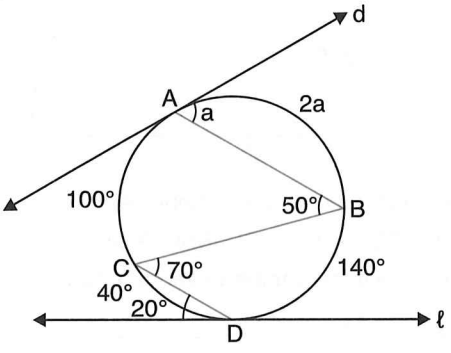

Çevre açı özelliği

$m(\widehat{CD}) = 2 \cdot 20° = 40°$

$m(\widehat{AC}) = 2 \cdot 50° = 100°$

$m(\widehat{BD}) = 2 \cdot 70° = 140°$

$m(\widehat{AB}) = 2 \cdot a = 2a$

$40° + 100° + 140° + 2a = 360°$

$2a = 80°$

$a = 40°$

2. D

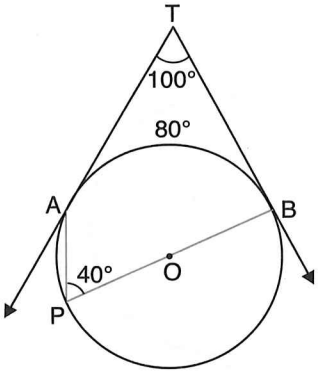

Özellik

$100° + m(\widehat{AB}) = 180°$

$m(\widehat{AB}) = 80°$

Çevre açı

$m(\widehat{AB}) = 2 \cdot x$

$80° = 2 \cdot x$

$40° = x$

3. E

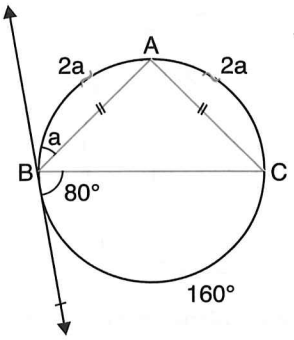

$2a + 2a + 160° = 360°$

$4a = 200°$

$a = 50°$

4. A

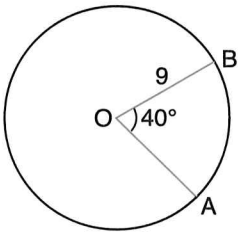

$m(\widehat{AB}) = 2\pi r \cdot \frac{\alpha°}{360°}$

$= 2\pi \cdot \frac{\cancel{9}^{1}}{\cancel{9}_{1}} \cdot \frac{\overset{1}{\cancel{40}}}{\underset{\cancel{9}_{1}}{\cancel{360}}}$

$= 2\pi$

5. A

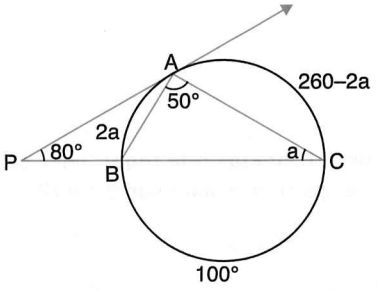

$80° = \frac{(260°-2a)-2a}{2}$

$160° = 260° - 4a$

$4a = 100°$

$a = 25°$

MURAT YAYINLARI

/muratyayincilik

6. B

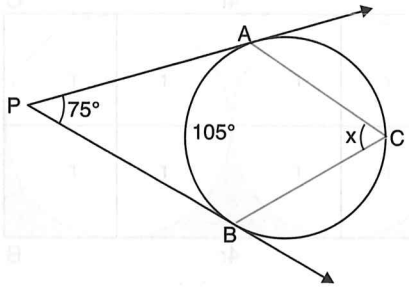

Özellik

$75° + m(\widehat{AB}) = 180°$

$m(\widehat{AB}) = 105°$

Çevre açı

$m(\widehat{AB}) = 2 \cdot x$

$105° = 2 \cdot x$

$52{,}5° = x$

7. D

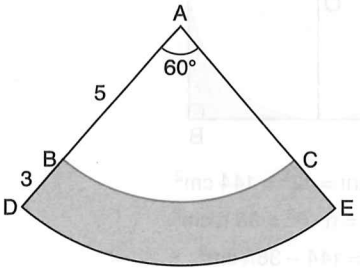

Halka alanı

$A = (r_1 + r_2) \cdot (r_1 - r_2) \cdot \frac{\alpha°}{360°} \cdot \pi$

$= (8 + 5) \cdot (8 - 5) \cdot \frac{\overset{1}{\cancel{60°}}}{\underset{6}{\cancel{360°}}} \cdot \pi$

$= 13 \cdot \overset{1}{\cancel{3}} \cdot \frac{1}{\underset{2}{\cancel{6}}} \cdot \pi$

$= \frac{13\pi}{2}$ cm²

8. C

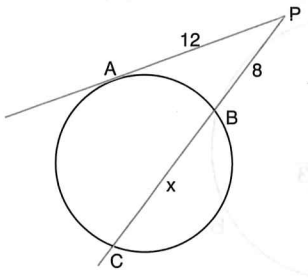

$|PA|^2 = |PB| \cdot |PC|$

$12^2 = 8 \cdot (8 + x)$

$144 = 8 \cdot (8 + x)$

$18 = 8 + x$

$x = 10$ cm

9. E

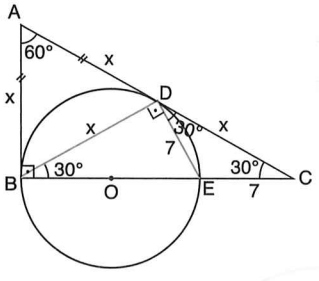

ABC, 30° – 60° – 90° üçgeni

$|AC| = 2 \cdot |AB|$

$|AC| = 2x$

$|DC| = x$ ve $|BD| = x$

çapı gören çevre açı 90° olur.

$|DE| = |EC| = 7$ cm

BDE, 30° – 60° – 90° üçgeni

$|BE| = 2 \cdot |DE|$

$|BE| = 2 \cdot 7$

$|BE| = 14$ cm

10. D

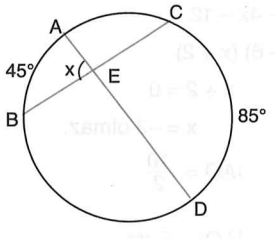

$x = \frac{45° + 85}{2}$

$x = \frac{130°}{2}$

$x = 65°$

MURAT YAYINLARI

11. E

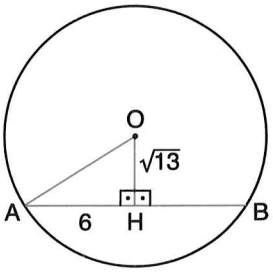

$|OA|^2 = 6^2 + (\sqrt{13})^2$

$|OA|^2 = 36 + 13$

$|OA|^2 = 49$

$|OA| = 7$ cm

Alan $= \pi r^2$

$= \frac{22}{7} \cdot (7)^2$

$= 22 \cdot 7$

$= 154$ cm^2

12. E

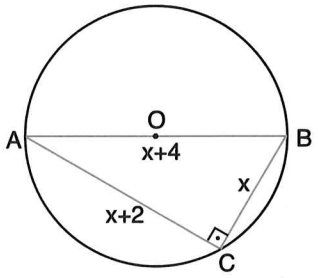

Çapı gören çevre açı 90° dir.

$(x + 4)^2 = x^2 + (x + 2)^2$

$x^2 + 8x + 16 = x^2 + x^2 + 4x + 4$

$0 = x^2 - 4x - 12$

$0 = (x - 6)(x + 2)$

$x - 6 = 0$ $\quad$ $x + 2 = 0$

$x = 6$ $\quad$ $x = -2$ olmaz.

$|AB| = x + 4$ $\quad$ $|AO| = \frac{10}{2}$

$= 6 + 4$ $\quad$ $|AO| = 5$ cm

$= 10$ cm

13. C

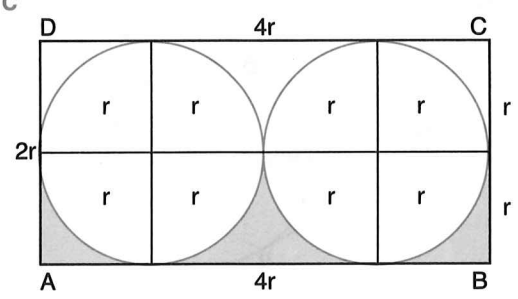

Daire alanı $= \pi r^2$

$16\pi = \pi r^2$

$r = 4$ cm

Taralı Alan $= 4r \cdot r - \pi r^2$

Taralı Alan $= 4 \cdot 4 \cdot 4 - \pi - 4^2$

Taralı Alan $= 64 - 16\,\pi$ cm^2

14. A

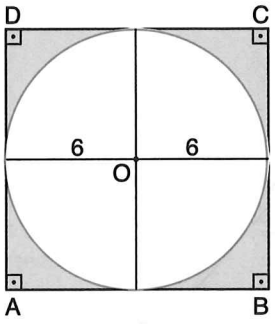

Karenin alanı $= 12^2 = 144$ cm^2

Daire alanı $= \pi \cdot 6^2 = 36\,\pi$ cm^2

Taralı alan $= 144 - 36\pi$ cm^2

15. A

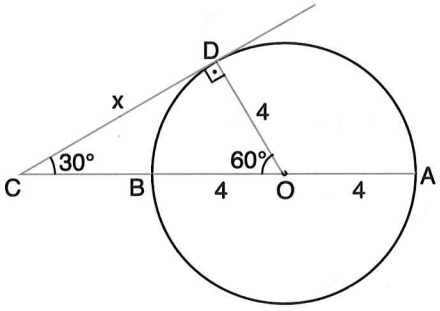

$|AB| = 8$ cm ise $|BD| = 4$ cm olur.

COD üçgeni (30° – 60° – 90°)

$|DO| = 4$ cm ise $|CD| = 4\sqrt{3}$ cm

MURAT YAYINLARI

/muratyayincilik

16. E

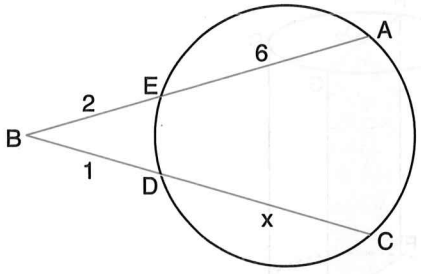

$|BE| \cdot |BA| = |BD| = |BC|$

$2 \cdot 8 = 1 \cdot (x + 1)$

$16 = x + 1$

$x = 15$ cm

17. D

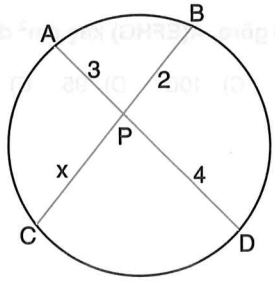

$|AP| \cdot |PD| = |BP| \cdot |PC|$

$3 \cdot 4 = 2 \cdot x$

$x = 6$ birim

18. B

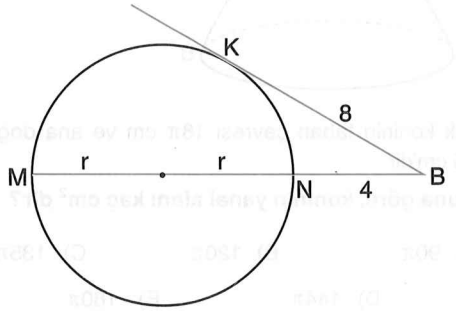

$|BK|^2 = |BN| \cdot |BM|$

$8^2 = 4 \cdot (4 + 2r)$

$64 = 4 \cdot (4 + 2r)$

$16 = 4 + 2r$

$12 = 2r$

$r = 6$ br

Alan $= \pi r^2$

$= \pi \cdot 6^2$

$= 36\pi$ br^2

19. E

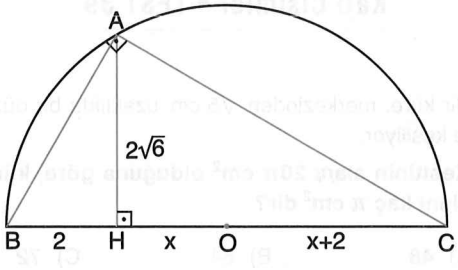

$(2\sqrt{6})^2 = 2 \cdot (2x + 2)$

$24 = 2 \cdot (2x + 2)$

$12 = 2x + 2$

$10 = 2x$

$x = 5$ cm

$|OC| = x + 2$

$= 5 + 2$

$= 7$ cm

20. E

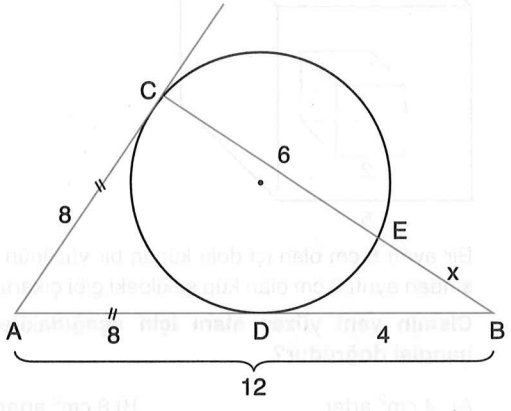

$|DB|^2 = |BE| \cdot |BC|$

$4^2 = x \cdot (x + 6)$

$16 = x^2 + 6x$

$O = x^2 + 6x - 16$

$O = (x + 8)(x - 2)$

$x + 8 = 0$ $\quad$ $x - 2 = 0$

$x = -8$ $\quad$ $x = 2$ cm

olmaz

MURAT YAYINLARI

Katı Cisimler • TEST 39

1. Bir küre, merkezinden $\sqrt{5}$ cm uzaklıkta bir düzlemle kesiliyor.

Kesitinin alanı 20π cm^2 olduğuna göre, kürenin alanı kaç π cm^2 dir?

A) 48 B) 64 C) 72 D) 84 E) 100

2.

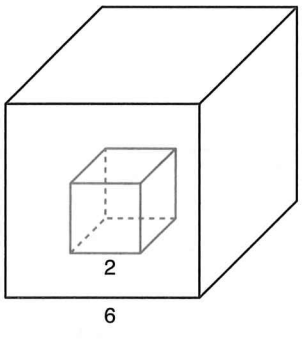

Bir ayrıtı 6 cm olan içi dolu küpün bir yüzünün ortasından ayrıtı 2 cm olan küp şekildeki gibi çıkartılıyor.

Cismin yeni yüzey alanı için aşağıdakilerden hangisi doğrudur?

A) 4 cm^2 artar. B) 8 cm^2 artar. C) 16 cm^2 artar. D) 8 cm^2 azalır. E) 4 cm^2 azalır.

3.

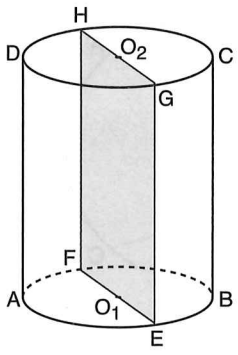

Taban yarıçapı 6 cm olan dik silindir, EFHG dikdörtgen düzlemi ile kesiliyor.

O_1 ve O_2 taban merkezleri ve silindirin hacmi 360π cm^3 tür.

Yukarıdaki verilere göre, A(EFHG) kaç cm^2 dir?

A) 120 B) 110 C) 100 D) 95 E) 90

4.

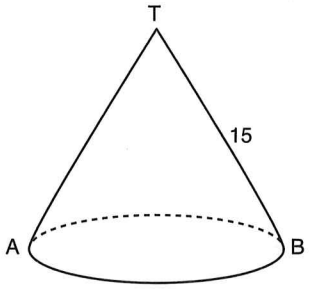

Dik koninin taban çevresi 18π cm ve ana doğrusu 15 cm'dir.

Buna göre, koninin yanal alanı kaç cm^2 dir?

A) 90π B) 120π C) 135π D) 144π E) 180π

MURAT YAYINLARI

/muratyayincilik

5. Bir kenarı 3 cm olan bir küpün içindeki su kenar uzunlukları 3 cm, 4 cm, 9 cm olan bir dikdörtgenler prizmasına boşaltılıyor.

Buna göre, prizmanın yüzde kaçı su ile dolar?

A) 25 B) 20 C) 18 D) 16 E) 15

6. **Bir silindirin çapı yüksekliğine eşit olduğuna göre, yanal alanının toplam alanına oranı kaçtır?**

A) $\frac{1}{2}$ B) $\frac{2}{3}$ C) $\frac{3}{4}$ D) $\frac{3}{5}$ E) $\frac{4}{5}$

7. Taban yarıçapı r = 4 m, yüksekliği 3 m olan silindir biçiminde bir su tankının hacmi, yüksekliği sabit kalmak şartı ile $\frac{9}{16}$ 'sı kadar artırılmak isteniyor.

Bu durumda yarıçapı kaç metre olmalıdır?

A) 5 B) 6 C) 7 D) 8 E) 9

8. **Tüm alanı 94 cm^2 olan bir dikdörtgenler prizmasının cisim köşegeni $5\sqrt{2}$ cm olduğuna göre, bu prizmanın kenar uzunlukları toplamı kaç cm'dir?**

A) 12 B) 13 C) 14 D) 15 E) 16

9. **Bir koni, tabanına paralel bir düzlemle kesiliyor. Büyük koninin yüksekliği, küçük koninin yüksekliğinin 3 katı ve küçük koninin hacmi 1 cm^3 olduğuna göre, kesik koninin hacmi kaç cm^3 tür?**

A) 25 B) 26 C) 27 D) 28 E) 29

10. **Bir kürenin yarıçapı ile bir silindirin taban yarıçapı eşit ve 3'er cm'dir. Bu cisimlerin hacimleri de eşit olduğuna göre, silindirin yüksekliği kaç cm olur?**

A) 2 B) 3 C) 4 D) 5 E) 6

11.

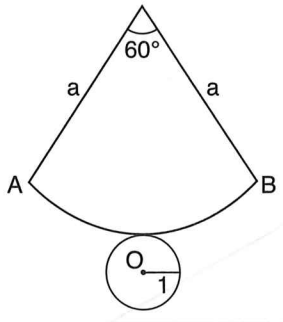

Şekilde bir koninin açınımı görülmektedir. Koninin taban yarıçapı r = 1 cm ve $\alpha = 60°$ olduğuna göre, ana doğru kaç cm'dir?

A) 4 B) 5 C) 6 D) 7 E) 8

12. Bir dik silindirin tüm alanı 96 π cm^2 ve taban yarıçapı 2 cm'dir.

Buna göre, bu silindirin hacmi kaç cm^3 tür?

A) 44π B) 56π C) 72π D) 88π E) 116π

13. Alanı sayıca hacmine eşit olan bir küre merkezinden 2 cm uzaklıkta bir düzlemle kesiliyor.

Buna göre, elde edilen kesitin alanı kaç cm^2 dir?

A) π B) 2π C) 3π D) 4π E) 5π

14. **Boyutları 2, 3 ve 4 sayıları ile orantılı olan bir dikdörtgenler prizmasının hacmi 192 cm^3 olduğuna göre, bu prizmanın alanı kaç cm^2 dir?**

A) 164 B) 192 C) 208 D) 224 E) 256

MURAT YAYINLARI

15. Yarıçapı 13 cm olan bir kürenin içerisine yüksekliği 18 cm olan bir dik koni yerleştiriliyor.

Buna göre, koninin hacmi kaç π cm^3 tür?

A) 288 B) 292 C) 348 D) 448 E) 864

16. 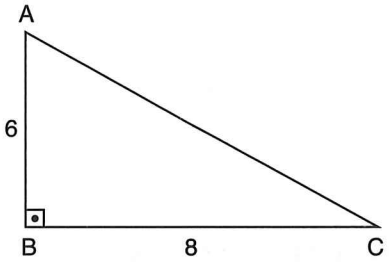

ABC dik üçgeninde |AB| = 6 cm, |BC| = 8 cm'dir. ABC dik üçgeninin [BC] etrafında 360° döndürülmesiyle elde edilen cismin hacmi kaç π cm^3 tür?

A) 48 B) 58 C) 60 D) 96 E) 106

17. 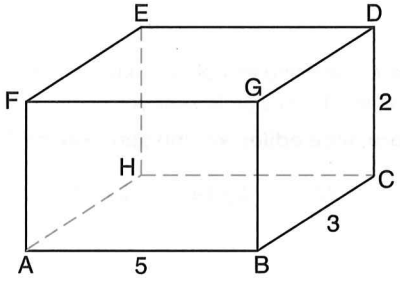

Şekilde verilen dikdörtgenler prizmasında,

|AB| = 5 cm,

|BC| = 3 cm

|DC| = 2 cm

olduğuna göre, dikdörtgenler prizmasının yanal alanı kaç cm^2 dir?

A) 28 B) 32 C) 40 D) 44 E) 50

18. **Sayıca alanı hacmine eşit olan küpün bir kenar uzunluğu kaç birimdir?**

A) 3 B) 4 C) 5 D) 6 E) 7

19. 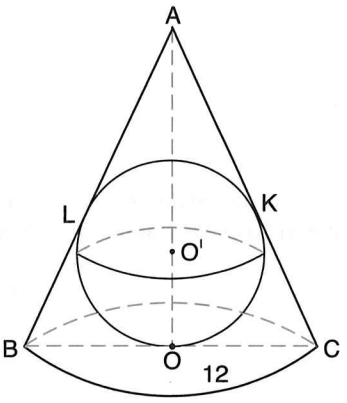

Şekildeki dik koninin taban yarıçapı 12 cm ve yüksekliği 16 cm'dir.

Buna göre, koni içerisine teğet olacak şekilde yerleştirilen O' merkezli kürenin yarıçapı kaç cm'dir?

A) 3 B) 5 C) 6 D) 9 E) 12

20. **Şekildeki silindirin içine eşit iki küre yerleştirilmiştir. Küreler silindirin yüzeylerine ve birbirine teğettir. Bir kürenin hacmi 15 cm^3 olduğuna göre, silindirin hacmi kaç cm^3 tür?**

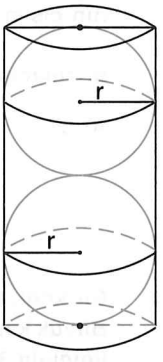

A) 20 B) 25 C) 30 D) 35 E) 45

MURAT YAYINLARI

/muratyayincilik

Açıklamalar • TEST 39

1. E

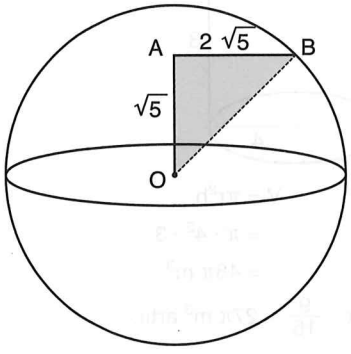

$A_{kesit} = \pi r^2 = 20\pi$

$r^2 = 20$

$r = 2\sqrt{5}$ cm

AOB üçgeninde, $(\sqrt{5})^2 + (2\sqrt{5})^2 = |AB|^2$

$|AB| = 5$ cm

$A_{küre} = 4\pi r^2$

$A_{küre} = 4\pi 5^2$

$A_{küre} = 100\pi$ cm^2

2. C

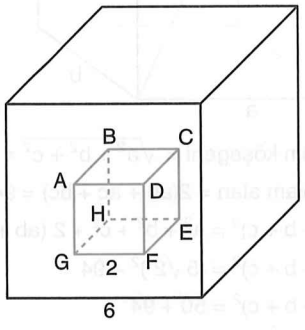

ADFG yüzeyine BHEC yüzeyi karşılık gelir. ABHG ve CEFD yüzeyleri yeni oluşan alanlardır. ABCD ve HEFG yüzeyleri de yeni oluşan alanlardır. O halde 4 yeni eş yüzey alanı oluşur. Küpün alanında artış olur.

$A(ABCD) = A(HEFG) = A(ABHG) = A(CEFD) = 2.2 = 4$ cm^2

$4.4 = 16$ cm^2 artar.

3. A

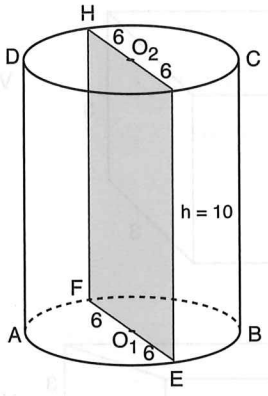

$V = \pi.6^2 h = 360\pi$

$h = 10$ cm

$A(HGEF) = 10.12 = 120$ cm^2

4. C

$2\pi r = 18\pi$

$r = 9$ cm

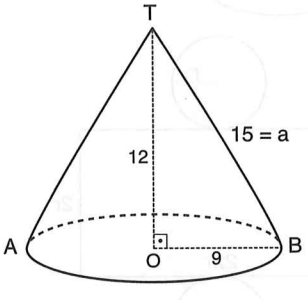

TOB üçgeninde; $15^2 = |TO|^2 + 9^2$

$|TO| = 12$ cm

Yanal alanı = $\pi r a$

Yanal alanı = $\pi .9.15$

Yanal alanı = 135π

MURAT YAYINLARI

5. A

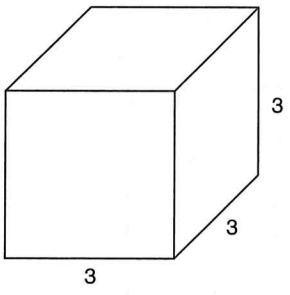

$V_{küp} = 3^3$
$= 27\ cm^3$

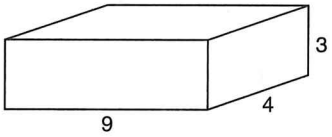

$V = 3 \cdot 4 \cdot 9$
$= 108\ cm^3$

108	27
100	?

$? = \frac{100 \cdot \cancel{27}^{1}}{\cancel{108}_{4}} = 25$

%25'i doludur.

6. B

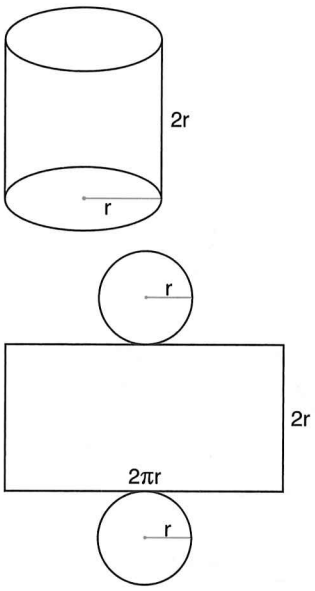

Yanal Alan $= 2\pi r \cdot 2r = 4\pi r^2$

Tüm Alan $= 2 \cdot \pi r^2 +$ Yanal Alan
$= 2\pi r^2 + 4\pi r^2$
$= 6\pi r^2$

$\frac{\text{Yanal Alan}}{\text{Tüm Alan}} = \frac{4\pi r^2}{6\pi r^2}$

$= \frac{2}{3}$

7. A

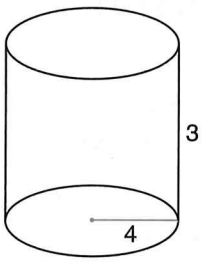

$V = \pi r^2 h$
$= \pi \cdot 4^2 \cdot 3$
$= 48\pi\ m^3$

$48\pi \cdot \frac{9}{16} = 27\pi\ m^3$ artır.

$48\pi + 27\pi = 75\pi\ m^3$ olmalı

$75\ \pi = \pi \cdot r_1^2 \cdot 3$

$25 = r_1^2$

$r_1 = 5\ m$

8. A

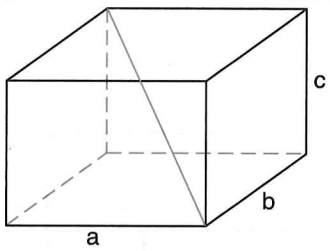

Cisim köşegeni $= \sqrt{a^2 + b^2 + c^2} = 5\sqrt{2}$

Toplam alan $= 2(ab + ac + bc) = 94$

$(a + b + c)^2 = a^2 + b^2 + c^2 + 2\ (ab + ac + bc)$

$(a + b + c)^2 = (5\sqrt{2})^2 + 94$

$(a + b + c)^2 = 50 + 94$

$(a + b + c)^2 = 144$

$a + b + c = 12\ cm$

MURAT YAYINLARI

9. B

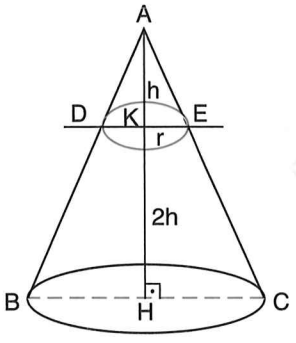

Benzerlik $\widehat{AKE} \sim \widehat{AHC}$

$\frac{h}{3h} = \frac{r}{|HC|}$

$|HC| = 3r$

Küçük koni hacmi = $\frac{\pi r^2 h}{3}$

$\frac{\pi r^2 h}{3} = 1 \longrightarrow \pi r^2 h = 3\ cm^3$

Büyük koni hacmi = $\frac{\pi(3r)^2 \cdot 3h}{3}$

$= 9\pi r^2 h$

$= 9 \cdot 3$

$= 27\ cm^3$

Kesik koni hacmi = $27 - 1$

$= 26\ cm^3$

10. C

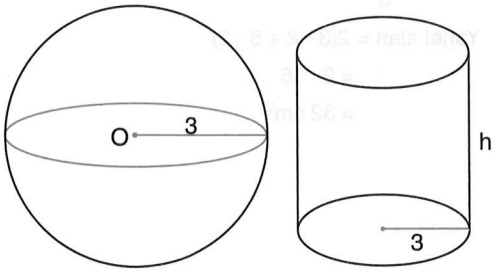

$V_{küre} = \frac{4}{3}\pi r^3$ $V_{silindir} = \pi r^2 h$

$= \frac{4}{3}\pi \cdot 3^3$ $= \pi \cdot 3^2 \cdot h$

$V_{küre} = V_{silindir}$

$\frac{4}{3} \cdot \pi \cdot 3^3 = \pi \cdot 3^2 \cdot h$

$h = 4\ cm$

11. C

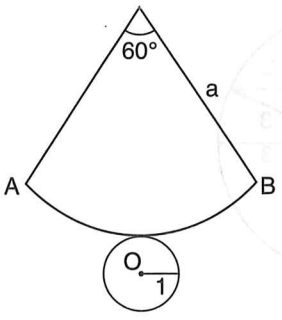

$\frac{60^\circ}{360^\circ} = \frac{1}{a}$

$a = 6\ cm$

12. D

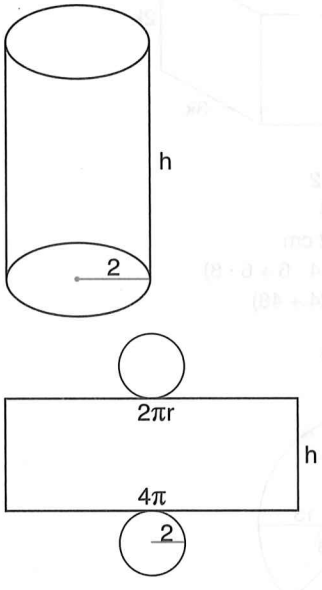

Tüm Alan = $2\pi r^2 + 2\pi rh$

$= 2\pi r(r + h)$

$96\pi = 2\pi \cdot 2(2 + h)$

$24 = 2 + h$

$22 = h$

Hacim = $\pi r^2 h$

$= \pi \cdot 2^2 \cdot 22$

$= 88\pi\ cm^3$

MURAT YAYINLARI

13. E

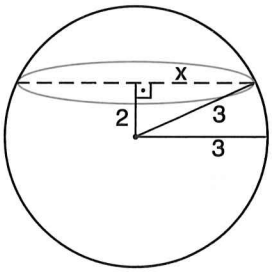

$\frac{4}{3}\pi r^3 = 4\pi r^2$

$r = 3$ cm

$x^2 = 3^2 - 2^2$

$x = \sqrt{5}$ cm

Düzlem kesit alanı $= \pi \cdot (\sqrt{5})^2$

$= 5\pi$ cm^2

14. C

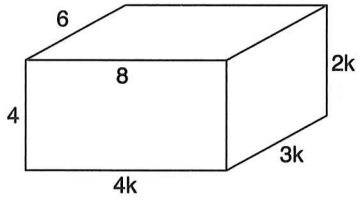

$4k \cdot 3k \cdot 2k = 192$

$k^3 = 8$

$k = 2$ cm

Alan $= 2(4 \cdot 8 + 4 \cdot 6 + 6 \cdot 8)$

$= 2(32 + 24 + 48)$

$= 2 \cdot 104$

$= 208$ cm^2

15. E

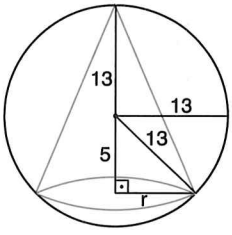

$13^2 = 5^2 + r^2$

$r^2 = 169 - 25$

$r^2 = 144$

$r = 12$ cm

$V_{koni} = \frac{\pi r^2 h}{3}$

$= \frac{\pi \cdot 12^2 \cdot \cancel{18}^{6}}{\cancel{3}}$

$= 864\,\pi$ cm^3

16. D

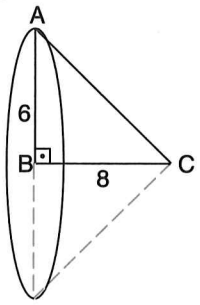

$V_{koni} = \frac{\pi r^2 h}{3}$

$= \frac{\pi \cdot 6^2 \cdot 8}{3}$

$= \frac{\pi \cdot \cancel{36}^{12} \cdot 8}{\cancel{3}}$

$= 96\,\pi$ cm^3

17. B

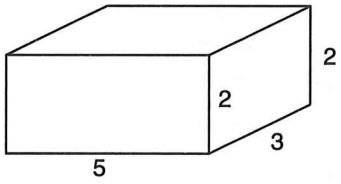

Yanal alan $= 2(3 \cdot 2 + 5 \cdot 2)$

$= 2 \cdot 16$

$= 32$ cm^2

18. D

Hacim = Alan

$a^3 = 6a^2$

$a = 6$ birim

MURAT YAYINLARI

/muratyayincilik

19. C

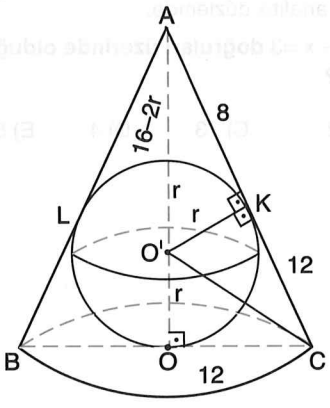

$|AC|^2 = 12^2 + 16^2$

$|AC|^2 = 144 + 256$

$|AC|^2 = 400$

$|AC| = 20$ cm

$|O'C|^2 = 12^2 + r^2$

$|KC|^2 = |O'C|^2 - r^2$

$|KC|^2 = 12^2 + r^2 - r^2$

$|KC|^2 = 12^2$

$|KC| = 12$ cm

$|AK| = 20 - 12$

$|AK| = 8$ cm

$(16 - r)^2 = r^2 + 8^2$

$256 - 32r + r^2 = r^2 + 64$

$192 = 32r$

$r = 6$ cm

20. E

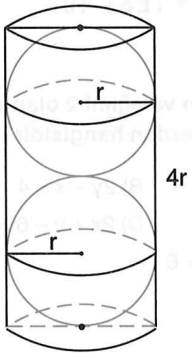

$V_{küre} = \frac{4}{3}\pi r^3$

$15 = \frac{4}{3}\pi r^3 \longrightarrow 45 = 4\pi r^3$

$V_{silindir} = \pi \cdot r^2 \cdot 4r$

$= 4\pi r^3$

$= 45$ cm^3

MURAT YAYINLARI

Analitik Geometri • TEST 40

1. **G(–1, 4) noktasından geçen ve eğimi 2 olan doğrunun denklemi aşağıdakilerden hangisidir?**

A) $y = -2x + 4$ B) $2y - x = 4$
C) $2x - y + 6 = 0$ D) $2x + y - 6 = 0$
E) $-x - 2y = 6$

2. **Analitik düzlemde B(–5, 1) noktası $ax + 3y + 7 = 0$ doğrusu üzerinde olduğuna göre, bu doğrunun eğimi kaçtır?**

A) $-\frac{1}{3}$ B) $-\frac{2}{3}$ C) –1 D) 1 E) 2

3. **Dik koordinat sisteminde $y - 2x = 8$ doğrusu ile $x = 4 - y$ doğrusunun kesim noktasının koordinatları aşağıdakilerden hangisidir?**

A) $\left(-\frac{1}{3}, \frac{4}{3}\right)$ B) $\left(-1, \frac{5}{3}\right)$ C) (3, 4)
D) $\left(-\frac{4}{3}, \frac{16}{3}\right)$ E) (1, 2)

4. A(a, b) noktası analitik düzlemde;
$y + x = 5$ ve $y - x = 3$ doğruları üzerinde olduğuna göre, a kaçtır?

A) 1 B) 2 C) 3 D) 4 E) 5

5. **Analitik düzlemde P(3, 1), Q(0, –2) ve R(–4, m) noktaları doğrusal olduğuna göre, m kaçtır?**

A) –4 B) –5 C) –6 D) –7 E) –8

6. **Dik koordinat sisteminde A(–1, 3) ve B(0, 2) noktalarından geçen doğrunun eğimi kaçtır?**

A) –1 B) $-\frac{1}{2}$ C) 1 D) $\frac{3}{2}$ E) 2

MURAT YAYINLARI

/muratyayincilik

7. Analitik düzlemde;

$2x - (m + 3)y - 4 = 0$

$-3x + (m + 1)y - 1 = 0$

doğruları paralel olduğuna göre, m kaçtır?

A) –7 B) –6 C) –5 D) 4 E) 7

8. Analitik düzlemde;

$m \cdot x - 3y - 6 = 0$

$3m \cdot x - (n - 3)y + r = 0$

doğruları çakışık olduğuna göre, n + r toplamı kaçtır?

A) –18 B) –12 C) –6 D) 6 E) 12

9. **A(3, a) noktası y = 3x – 5 doğrusu üzerinde bir nokta olduğuna göre, A noktasının orijine olan uzaklığı kaç br'dir?**

A) $\sqrt{13}$ B) $2\sqrt{6}$ C) $4\sqrt{3}$ D) 5 E) 7

10.

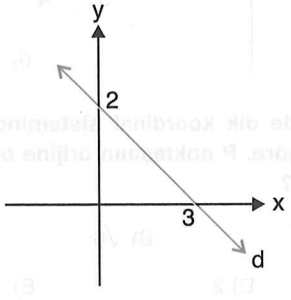

Grafiği verilen d doğrusunun denklemi aşağıdakilerden hangisidir?

A) $3y + 2x - 6 = 0$ B) $2x - 3y + 6 = 0$

C) $3x - 2y - 6 = 0$ D) $3x + 2y + 6 = 0$

E) $x + y = 5$

11.

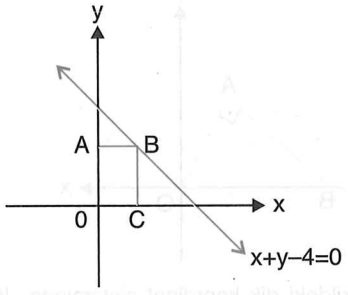

Şekilde verilenlere göre, OCBA karesinin alanı kaç br² dir?

A) 1 B) 3 C) 4 D) 9 E) 16

12.

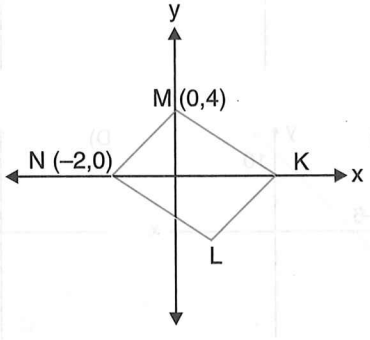

Yukarıdaki koordinat düzleminde KMNL dikdörtgendir.

M(0, 4), N(–2, 0) olduğuna göre, L noktasının koordinatları aşağıdakilerden hangisidir?

A) (3, –2) B) (4, –3) C) (6, –4)

D) (5, –2) E) (4, –6)

MURAT YAYINLARI

13.

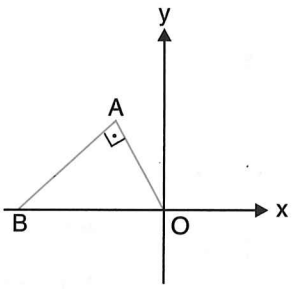

Şekildeki dik koordinat sisteminde [OA] ⊥ [AB] ve A(–2, 4) tür.

Buna göre, $A(\widehat{ABO})$ kaçtır?

A) 24 B) 20 C) 16 D) 12 E) 10

14. **Analitik düzlemde 3x – 5y – 30 = 0 doğrusunun grafiği aşağıdakilerden hangisidir?**

A)

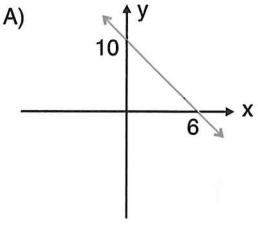

B)

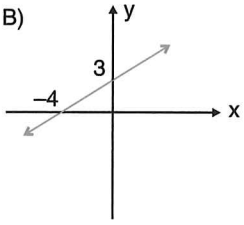

C)

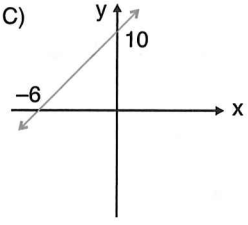

D)

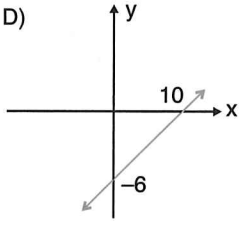

E)

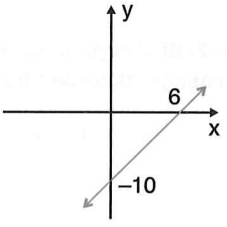

15. **Dik koordinat sisteminde köşeleri K(2, 4), L(0, 8), M(6, 0) olan KLM üçgeninde ILMI ye ait kenarortayın uzunluğu kaç br'dir?**

A) 1 B) 2 C) 3 D) 5 E) 6

16.

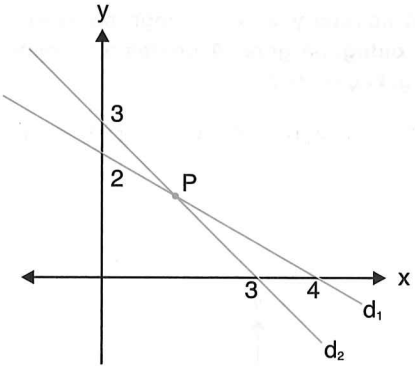

Şekilde dik koordinat sisteminde verilen bilgilere göre, P noktasının orijine olan uzaklığı kaç br'dir?

A) $\sqrt{7}$ B) $\sqrt{6}$ C) $\sqrt{5}$ D) 2 E) $\sqrt{3}$

MURAT YAYINLARI

/muratyayincilik

17.

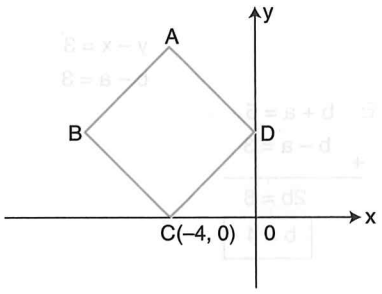

ABCD karesinin alanı 25 br^2 dir.

C(–4, 0), D noktası y ekseni üzerindedir.

Buna göre, A noktası aşağıdakilerden hangisidir?

A) (–3, 7) B) (–4, 7) C) (–4, 6)
D) (–3, 4) E) (–3, 6)

18.

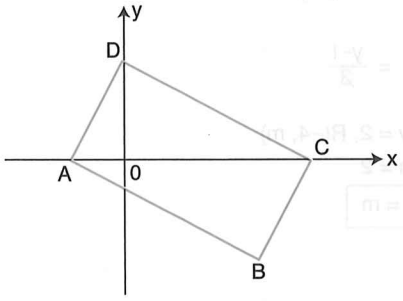

Analitik düzlemde ABCD dikdörtgen, A(–1, 0), C(4, 0) olduğuna göre, B noktasının koordinatları aşağıdakilerden hangisidir?

A) (2, –2) B) (2, –3) C) (3, –3)
D) (3, –2) E) (4, –2)

19. Analitik düzlemde A(–2, 3), B(–6, 5) noktaları veriliyor.

$\frac{|CB|}{|CA|} = \frac{5}{7}$ **olacak şekilde [AB] doğru parçasını dıştan bölen C noktasının koordinatları toplamı kaçtır?**

A) –6 B) –5 C) –4 D) –3 E) –2

20. **ABCD paralelkenarının köşeleri A(a, –3), B(5, 5), C(b, 6), D(–3, –a) olduğuna göre, b'nin değeri kaçtır?**

A) –2 B) –1 C) 0 D) 1 E) 2

MURAT YAYINLARI

Açıklamalar • TEST 40

1. C

G(–1, 4) $\qquad m = 2$

$y - y_1 = m \cdot (x - x_1)$

$y - 4 = 2 \cdot (x - (-1))$

$y - 4 = 2 \cdot (x + 1)$

$y - 4 = 2x + 2$

$0 = 2x - y + 6$

2. B

B(–5, 1) $\qquad ax + 3y + 7 = 0$

$a \cdot (-5) + 3 \cdot (1) + 7 = 0$

$-5a + 3 + 7 = 0$

$10 = 5a$

$\boxed{a = 2}$

$2x + 3y + 7 = 0$

$3y = -2x - 7$

$y = -\frac{2}{3}x - \frac{7}{3}$

$m = -\frac{2}{3}$

3. D

$y - 2x = 8$ ve $x = 4 - y$

$-1/\ y - 2x = 8$

$x + y = 4$

$-y + 2x = -8$

$x + y = 4$

$+$

$3x = -4$

$\boxed{x = -\frac{4}{3}}$

$-\frac{4}{3} + y = 4$

$y = 4 + \frac{4}{3}$

$\boxed{y = \frac{16}{3}}$

$\left(-\frac{4}{3}, \frac{16}{3}\right)$

4. A

A(a, b)

$y + x = 5 \qquad y - x = 3$

$b + a = 5 \qquad b - a = 3$

$b + a = 5$

$+\quad b - a = 3$

$2b = 8$

$\boxed{b = 4}$

$4 + a = 5$

$\boxed{a = 1}$

5. C

P(3, 1), Q(0, –2), R(–4, m)

$\frac{x-x_1}{x_1-x_2} = \frac{y-y_1}{y_1-y_2}$

$\frac{x-3}{3-0} = \frac{y-1}{1-(-2)}$

$\frac{x-3}{3} = \frac{y-1}{3}$

$x - y = 2$, R(–4, m)

$-4 - m = 2$

$\boxed{-6 = m}$

6. A

A(–1, 3), B(0, 2)

$m = \frac{y_2-y_1}{x_2-x_1}$

$m = \frac{2-3}{0-(-1)}$

$m = \frac{-1}{1}$

$m = -1$

MURAT YAYINLARI

/muratyayincilik

7. A

$d_1 // d_2 \Leftrightarrow m_1 = m_2$

$2x - (m+3)y - 4 = 0$

$2x - 4 = (m+3)y$

$\frac{2}{m+3}x - \frac{4}{m+3} = y$

$\boxed{m_1 = \frac{2}{m+3}}$

$-3x + (m+1)y - 1 = 0$

$(m+1)y = 3x + 1$

$y = \frac{3}{m+1}x + \frac{1}{m+1}$

$\boxed{m_2 = \frac{3}{m+1}}$

$m_1 = m_2 \Rightarrow \frac{2}{m+3} = \frac{3}{m+1}$

$2m + 2 = 3m + 9$

$\boxed{-7 = m}$

8. C

$ax + by + c = 0$

$dx + ey + f = 0$

çakışık iseler

$\frac{a}{d} = \frac{b}{e} = \frac{c}{f}$

$mx - 3y - 6 = 0$

$3mx - (n-3)y + r = 0$

$\frac{m}{3m} = \frac{-3}{-(n-3)} = \frac{-6}{r}$

$\frac{1}{3} = \frac{3}{n-3}$ $\qquad$ $\frac{1}{3} = \frac{-6}{r}$

$n - 3 = 9$ $\qquad$ $r = -18$

$n = 12$

$n + r = 12 + (-18)$

$= -6$

9. D

A(3, a), $\qquad$ $y = 3x - 5$

$a = 3 \cdot 3 - 5$

$a = 4$

A(3, 4) $\qquad$ O(0, 0)

$|AO| = \sqrt{(x_2-x_1)^2 + (y_2-y_1)^2}$

$|AO| = \sqrt{(3-0)^2 + (4-0)^2}$

$|AO| = \sqrt{9 + 16}$

$|AO| = \sqrt{25}$

$|AO| = 5$

10. A

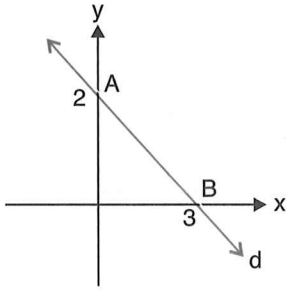

A(0,2) $\qquad$ B(3,0)

I. yol

$\frac{x-x_1}{x_1-x_2} = \frac{y-y_1}{y_1-y_2}$

$\frac{x-0}{0-3} = \frac{y-2}{2-0}$

$\frac{x}{-3} = \frac{y-2}{2}$

$2x = -3y + 6$

$\boxed{2x + 3y - 6 = 0}$

II. yol

$\frac{x}{a} + \frac{y}{b} = 1$

$\frac{x}{\underset{(2)}{3}} + \frac{y}{\underset{(3)}{2}} = 1$

$2x + 3y = 6$

$\boxed{2x + 3y - 6 = 0}$

MURAT YAYINLARI

11. C

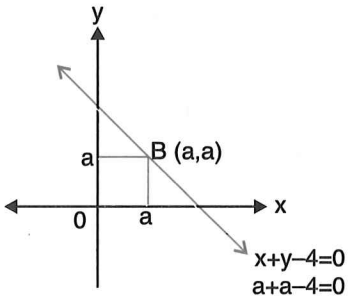

Alan = 2^2
= 4 br^2

13. B

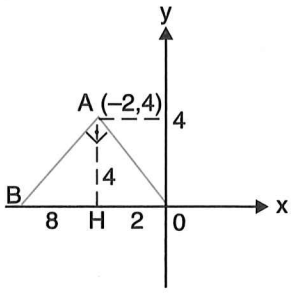

$4^2 = |BH| \cdot 2$
$|BH| = 8$
$A(\widehat{ABO}) = \frac{10 \cdot 4}{2}$
$= 20$

12. C

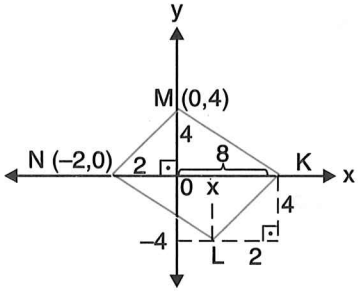

$4^2 = 2 \cdot |OK|$
$|OK| = 8$
$x = 8 - 2$
$x = 6$
L(6, –4)

14. D

$3x - 5y - 30 = 0$
$x = 0$ için
$3 \cdot 0 - 5y - 30 = 0$
$-30 = 5y$
$-6 = y$ (0, –6)
$y = 0$ için
$3x - 5 \cdot 0 - 30 = 0$
$3x = 30$
$x = 10$ (10, 0)

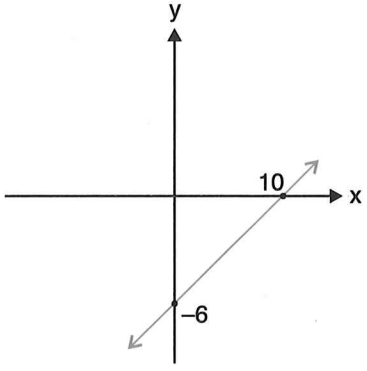

MURAT YAYINLARI

15. A

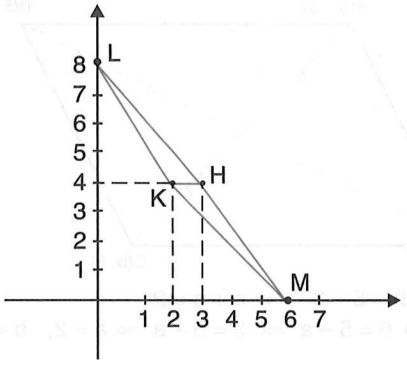

|LM| orta nokta

(0,8) (6,0)

$H\left(\frac{x_1 + x_2}{2}, \frac{y_1 + y_2}{2}\right)$

$H\left(\frac{0+6}{2}, \frac{8+0}{2}\right)$

H(3, 4)

$|KH| = \sqrt{(3-2)^2 + (4-4)^2}$

|KH| = 1 birim

16. C

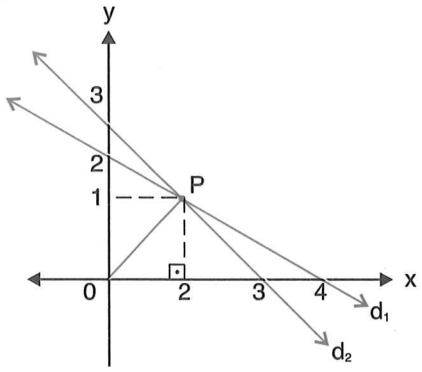

$d_1 : 2x + 4y = 8$ $\quad x + 2y = 4$

$d_2 : 3x + 3y = 9$ $\quad x + y = 3$

$$\begin{array}{r} x + 2y = 4 \\ +\ -1/\ x + y = 3 \\ \hline \boxed{y = 1} \end{array}$$

$x + 1 = 3$ P(2, 1)

$\boxed{x = 2}$

$|OP| = \sqrt{(2-0)^2 + (1-0)^2}$

$|OP| = \sqrt{5}$ birim

17. A

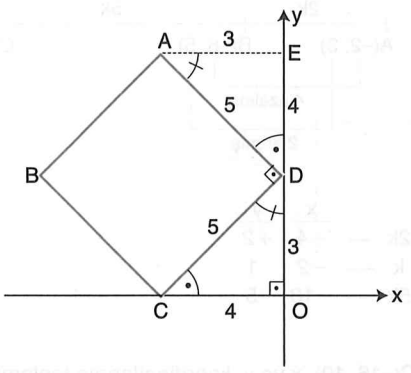

$A\hat{E}D \sim D\hat{O}C$

$\frac{|AE|}{|DO|} = \frac{|ED|}{|OC|} = \frac{|AD|}{|DC|}$

$\frac{|AE|}{3} = \frac{|ED|}{4} = \frac{5}{5}$

$|AE| = 3$

$|ED| = 4$

$A(-3, 7)$

18. D

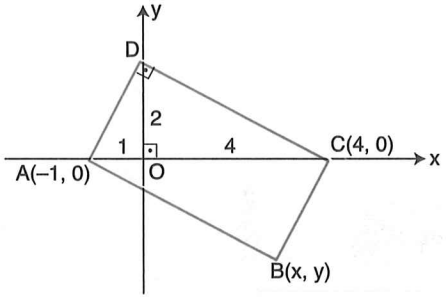

$|OD|^2 = 1.4$ (öklitten)

|OD| = 2

D(0, 2) , A(–1, 0), C(4, 0), B(x, y)

Dikdörtgende köşegenler birbirini ortalar.

Bu yüzden;

$-1 + 4 = 0 + x$ $\quad 0 + 0 = 2 + y$

$3 = x$ $\quad y = -2$

B(3, –2) dir.

MURAT YAYINLARI

19. A

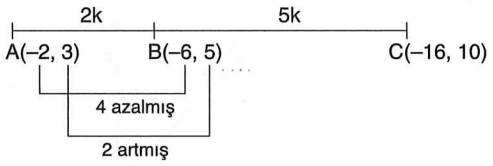

	x	y
2k ⟶	–4	+2
k ⟶	–2	1
5k ⟶	–10	5

C(–16, 10) x ve y koordinatlarının toplamı
–16 + 10 = –6'dır.

20. C

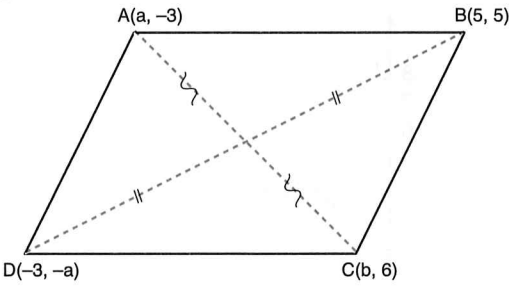

$a + b = 5 - 3 \Rightarrow a + b = 2$

$-3 + 6 = 5 - a \Rightarrow 3 = 5 - a \Rightarrow a = 2,\ b = 0$

MURAT YAYINLARI

5 DERS
TEK KİTAP
Genel Yetenek - Genel Kültür

SORU BANKASI

Tarih

MURAT yayınları 1983
MURAT YAYINLARI

İslamiyet Öncesi Türk Tarihi • TEST 1

1. I. İgor
II. Nibelungen
III. Gılgamış

Farklı medeniyetlere ait yukarıda yer alan destanlardan hangilerinde Türk topluluklarının mücadeleleri anlatılmıştır?

A) Yalnız I B) Yalnız II C) I ve II
D) II ve III E) I, II ve III

2. **Aşağıdakilerden hangisi Asya Hunları zamanında Çinlilerin Türklere karşı izlediği politikalardan biri değildir?**

A) Türk akınlarına karşı Çin Seddi'nin inşa edilmesi
B) Çinli prenseslerin Hun prensleri ile evlendirilmesi
C) Çin ülkesine sığınan Hun beylerinin kışkırtılması
D) Hun ülkesine bol miktarda ipek ve lüks eşya göndererek atlı-göçebe hayat tarzına zarar verilmesi
E) Hunlara karşı Müslüman Araplar ile ittifak kurulması

3. **Budist ve Taoist tapınaklar yaptırarak bu inanışlara ait felsefeyi Türk ülkesinde yaymak isteyen ancak Vezir Tonyukuk'un itirazı ile karşılaşan Göktürk hükümdarı aşağıdakilerden hangisidir?**

A) Bilge Kağan
B) Kutluk Kağan
C) Mukan Kağan
D) Kapgan Kağan
E) Bumin Kağan

4. • Bizans, Sasani ve Müslüman Araplar ile siyasi ve ticari ilişkilerde bulunmuşlardır.
• Bizans – Sasani savaşlarında Bizans'a destek vermişlerdir.

Yukarıda verilen bilgiler İslamiyet Öncesi Türk devletlerinden hangisine aittir?

A) Tuna Bulgarları
B) Hazarlar
C) Uygurlar
D) Avrupa Hunları
E) İtil Bulgarları

5. Orta Asya'dan Avrupa'ya göç eden Avarlar, Macarlar ve Bulgarlar süreç içerisinde burada milli benliklerini kaybetmişlerdir.

Yukarıda verilen durumun nedeni aşağıdaki alanlardan hangisinde yaşanan değişimin bir sonucudur?

A) Ekonomi
B) Din
C) Hukuk
D) Yönetim
E) Askerlik

6. **Aşağıdakilerden hangisi Orta Asya Türk devlet yönetiminde egemenliğin tanrısal kaynaklı olduğunu kanıtlar?**

A) Devlet işlerinin kurultayda görüşülmesi
B) Hatun'un hükümdara vekâlet edebilmesi
C) Hükümdarların Tanhu unvanını taşıması
D) Ülkenin ikili sistemle yönetilmesi
E) Devletin boy birliğine dayanması

7. **Türklerin örgütlenme yeteneğine sahip olmaları;**

I. yıkılan bir devletin yerine yenisini kısa süre içinde kurmaları,
II. farklı dinleri benimsemeleri,
III. mimari ve sanatta ilerlemeleri

durumlarından hangileri üzerinde etkili olmuştur?

A) Yalnız I B) Yalnız II C) I ve II
D) II ve III E) I, II ve III

8. **Orta Asya Türklerinde boyları ve hanedan soyunu temsil eden işaretlere ne ad verilmiştir?**

A) Sorguç
B) Tamga
C) Otağ
D) Fresk
E) Balbal

MURAT YAYINLARI

9. **Hapiste bulunduğu Çin'den kaçıp II. Göktürk Devleti'nin kurucusu Kutluk Kağan'ın emrine giren ve "Apa Tarkan" unvanını alarak onun en önemli yardımcısı olan Türk devlet adamı aşağıdakilerden hangisidir?**

A) İstemi Yabgu
B) Tonyukuk
C) Kürşad
D) Yolluğ Tigin
E) Kültigin

10. **İslamiyet Öncesi Türk devlet yönetiminde kut hakkına kimler sahip olmuştur?**

A) Sadece hükümdarın oğulları
B) Sadece hükümdarın erkek kardeşleri
C) Hükümdarın soyundan gelen tüm erkekler
D) Hükümdarın soyundan gelen tüm fertler
E) Hükümdarın en büyük erkek çocuğu

11. **Orta Asya kültür merkezleri dikkate alındığında aşağıdakilerden hangisinin Türklere ait olduğu ile ilgili kesin bir bilgi yoktur?**

A) Afanasyevo
B) Anav
C) Karasuk
D) Tagar
E) Andronova

12. Çin kaynaklarında "Tuku-e" ifadesi Türk kelimesi olarak kullanılmıştır.

Çin kaynaklarında Türk kelimesi hangi anlamda kullanılmıştır?

A) Töreli
B) Türemek
C) Olgunluk çağı
D) Miğfer
E) Güçlü

13. **İslamiyet öncesinde Türklerin Orta Asya dışında birçok kıtaya yayılmasında aşağıdakilerden hangisinin etkisinden bahsedilemez?**

A) Tekerleği kullanmaları
B) Dini arayış içerisinde olmaları
C) Savaşçı bir yapıya sahip olmaları
D) Atı evcilleştirmeleri
E) Cihan hakimiyeti anlayışına sahip olmaları

14. **Aşağıdakilerden hangisi İskitlerle ilgili doğru bir bilgi değildir?**

A) Orta Asya'da atı evcilleştiren ilk Türk topluluğudur.
B) Bozkırın kuyumcuları olarak tanınmışlardır.
C) Büyük İskender ile olan mücadeleleri Şu destanına konu edilmiştir.
D) Orta Asya'nın Araplaşmasını engellemişlerdir.
E) Sanat eserlerinin üzerinde grifon denilen motifi kullanmışlardır.

MURAT YAYINLARI

/muratyayincilik

15. Kavimler Göçü'nün yaşanmasına yol açan Batı Hunları Avrupa'da dönemin en güçlü devletlerinden birini kurmuşlardır.

Bu durum Hunlarla ilgili aşağıdaki yargılardan hangisinin göstergesi olamaz?

A) Dünya siyasetine yön vermişlerdir.
B) Farklı topluluklar üzerinde baskı oluşturmuşlardır.
C) Cihan hakimiyeti anlayışı ile hareket etmişlerdir.
D) Anavatanlarını terk etmişlerdir.
E) Avrupa'nın etnik temelini oluşturmuşlardır.

16. **Aşağıdaki Türk boylarından hangisi Avrupa'ya ya da Balkanlara göç etmemiştir?**

A) Hunlar
B) Türgişler
C) Macarlar
D) Bulgarlar
E) Avarlar

17. – Bugünkü Macaristan ve Romanya bölgesinde hakimiyet kurmuşlar ve Franklarla mücadele etmişlerdir.
– İran ile işbirliği yaparak iki defa İstanbul'u kuşatmışlardır.

Yukarıda bazı özellikleri verilen Türk devleti aşağıdakilerden hangisidir?

A) Avarlar
B) Bulgarlar
C) Macarlar
D) Kumanlar
E) Peçenekler

18. **İslamiyet öncesinde Bizans'a elçi gönderen ilk Türk devleti aşağıdakilerden hangisidir?**

A) Göktürkler
B) Avrupa Hunları
C) Uygurlar
D) Türgişler
E) Avarlar

19. **Aşağıdakilerden hangisi İslamiyet öncesi Türklerde meclise verilen isimlerden biridir?**

A) Keneş
B) Ayukı
C) Şad
D) Yelme
E) Baksı

20. İslamiyet öncesi Türk devletlerinde "İl gider, töre kalır." anlayışı hakimdir.

Buna göre Türk devletleriyle ilgili aşağıdakilerden hangisi savunulamaz?

A) Keyfi yönetime izin verilmediği
B) Devlet yönetiminde temel dayanağın töre olduğu
C) Köklü bir kültüre sahip olunduğu
D) Türklerde devlete il denildiği
E) Öz benliğe sahip çıkılmadığı

MURAT YAYINLARI

Açıklamalar • TEST 1

1. **C** İgor Destanı; Ruslar ile Kıpçak Türklerinin, Nibelungen Destanı ise Germenler ile Hunların mücadelelerini konu edinmiştir.
Gılgamış Destanı MÖ 4000'lerin ikinci yarısında Mezopotamya'da hüküm süren Sümerler tarafından yazılmıştır. Destan, tarihte bilinen en eski medeniyetlerden biri olan Sümerlerin yaşayışları hakkında bilgiler içerir.

2. **E** Asya Hun Devleti MÖ 220-MS 216 tarihleri arasında hüküm süren ve tarihte bilinen ilk teşkilatlı Türk devletidir. Asya Hunlarının hüküm sürdüğü dönemde henüz İslamiyet dini doğmamış bu nedenle Çin, Hunlara karşı Müslüman Araplar ile herhangi bir ilişki kurmamıştır.

3. **A** II. Göktürk hükümdarı Bilge Kağan'ın (717-734), Göktürk ülkesinde Budist ve Taoist inanışlara ait tapınakların yapılması ve bu inanışlara ait felsefenin yayılması fikrine deneyimli devlet adamı Vezir Tonyukuk karşı çıkmıştır.

4. **B** Adını Hazar Denizi'ne veren Hazarlar bulundukları konum gereğince güneyde Sasaniler ve Müslüman Araplar ile batıda ise Bizans ile siyasi ve ticari ilişkiler kurmuşlardır. Ayrıca 626 yılında Sâsânîler'le Avarlar'ın İstanbul'u kuşatmaları üzerine Bizans İmparatoru Herakleios Hazarlar'dan 40.000 kişilik yardım sağlamıştır.

5. **B** Orta Asya'dan çıkıp Karadeniz'in kuzeyini aşarak Avrupa'ya göç eden Avar, Bulgar ve Macar topluluklarının Hristiyanlığı benimsemeleri milli benliklerini kaybetmelerine yol açmıştır.

6. **C** Orta Asya Türk hükümdarlarının kullandığı unvanlardan biri olan "Tanhu", gökten kudret alan anlamına gelmektedir. Bu durum egemenliğin tanrısal kaynaklı olduğuna kanıt oluşturmaktadır.

7. **A** Türklerin yarı göçebe yaşam tarzının bir sonucu olarak ortaya çıkan örgütlenme yeteneği tarih boyunca yıkılan bir devletin yerine kısa bir süre içinde yenisini kurmaları üzerinde etkili olmuştur.

8. **B** Eski Türklerde tamga (işaret) geleneği toplumun siyasi ve sosyal hayatında önemli bir yere sahipti. Hun devrine kadar uzanan tamgalar aile ve boylardan sonra etnik toplulukların ya da yönetici kağan soyunun da bir işareti olarak kullanılmıştır.

9. **B** II. Göktürk Devleti'nin kurucusu Kutluk Kağan Dönemi'nde Apa Tarkan unvanını alarak onun emrine giren meşhur devlet adamı Vezir Tonyukuk'tur.

10. **C** İslamiyet öncesi Türklerde hükümdara yönetme yetkisininin Tanrı tarafından verildiğine inanılmasına kut denmiştir. Kut hükümdarın soyundan gelen tüm erkeklere kan yolu ile geçmiştir.

MURAT YAYINLARI

/muratyayincilik

11. **B** MÖ 3000'lerden itibaren Orta Asya'da yapılan kazılarda Türklere ait bir çok kültür merkezine rastlanmıştır. Bunlar arasında Afanesyevo, Andronova, Karasuk ve Tagar kültürleri bulunur. Ancak Orta Asya'nın en eski kültür merkezi olarak bilinen Anav'ın Türklere ait olup olmadığıyla ilgili kesin bir bilgi yoktur.

12. **D** "Türk" adı çeşitli kaynaklarda, güçlü, üreyen, türeyen, töreli, olgunluk çağı, kanun sahibi gibi anlamlarda ifade edilmiştir. Çin kaynaklarında ise miğfer olarak kullanılmıştır.

13. **B** İslamiyet öncesi Türklerin savaşçı yapıları ve fetih politikası (cihan hakimiyeti anlayışı) Orta Asya'dan çıkmalarında/göç etmelerinde etkili olmuştur. Atın evcilleştirilmesi ve tekerlekli arabaların kullanılması göçleri kolaylaştırmıştır.
Ancak Türkler Orta Asya'dan dini arayıştan dolayı göç etmemişlerdir.
Göçler sonucunda yeni dinlerle tanışabilirler fakat bu durum Türklerin dini arayış nedeniyle Orta Asya'dan çıktıklarının göstergesi olamaz.

14. **D** Orta Asya'nın Araplaşmasını ve İslamlaşmasını engelleyenler Türgişlerdir. Diğer bilgilerin tümü İskitlere (Sakalar) aittir.

15. **E** Avrupa'nın etnik yapısının temelinin Hunlara dayandığı söylenemez. Hunlar Kavimler Göçü ile Avrupa'nın etnik yapısında değişikliğe neden olmuştur.

16. **B** Türkler tarih boyunca büyük göçler gerçekleştirmişlerdir. Hunlar, Macarlar, Bulgarlar, Avarlar ve Peçenekler Doğu Avrupa ve Balkanlara göç etmişlerdir.

17. **A** Sasanilerle işbirliği yaparak İstanbul'u kuşatan, bugünkü Macaristan ve Romanya bölgesinde kurulan, Slavlara teşkilatlanmayı öğreten ve Franklarla yaptığı mücadeleler sonucu yıkılan devlet Avarlardır.

18. **B** İslamiyet öncesi dönemde Bizans'a elçi gönderen ilk Türk devleti Avrupa Hun Devleti'dir. Orta Asya'dan Bizans'a ilk elçi gönderenler ise Göktürkler olmuştur.

19. **B** İslamiyet öncesi Türklerde devlet işlerinin görüşüldüğü meclislere keneş (kurultay) adı verilmiştir.

20. **E** İslamiyet öncesi Türk devletlerinin kuruluş ve işleyişinde töre temel alınmıştır. Devletler (İl) yıkılsa da töre değişmez ve yeni kurulan devlet yine töre ile yönetilirdi. Bu durum, keyfi yönetimin önüne geçtiği gibi Türklerin öz benliklerine bağlı, köklü bir uygarlığa sahip olduklarının göstergesidir.

MURAT YAYINLARI

İslamiyet Öncesi Türk Tarihi • TEST 2

1. **Türk tarihinde devlet teşkilatlanmasının temelleri aşağıda verilen devletlerden hangisi döneminde atılmıştır?**

A) Uygurlar
B) Asya Hunları
C) Göktürkler
D) Avarlar
E) Türgişler

2. **Aşağıda verilenlerden hangisi göçebe hayatın Türk toplumu üzerindeki etkileri arasında yer almaz?**

A) Hayvancılığın temel geçim kaynağı olması
B) Çadır sanatının gelişmesi
C) Tarımsal ürün çeşitliliğinin artması
D) Kentleşmenin çok geç başlaması
E) Mülkiyet kavramının gelişmemesi

3. **Tarihte ilk kadın hükümdar olarak kabul edilen "Tomris Hatun" aşağıdaki Türk topluluklarından hangisinin hükümdarlığını yapmıştır?**

A) Macarlar
B) Hazarlar
C) Gagavuzlar
D) Sakalar
E) Kumanlar

4. • Bizans kaynaklarında "Eftalit", Çin kaynaklarında ise "Hua" olarak geçmektedir.
• Bugünkü Afganistan ve Tacikistan topraklarında hüküm sürmüşlerdir.

Yukarıdaki bilgiler İslamiyet öncesi kurulan aşağıdaki Türk devletlerinden hangisine aittir?

A) Büyük Hun İmparatorluğu
B) Kutluk Devleti
C) Ak-Hun Devleti
D) Hazar Kağanlığı
E) I. Göktürk Devleti

5. **Uygurlar, Maniheizm dinini aşağıdaki hükümdarlardan hangisi döneminde resmi din olarak benimsemişlerdir?**

A) Mayençur
B) Bögü Kağan
C) Kapgan Kagan
D) Baga Tarkan
E) Kutluk Bilge Kül Kağan

6. **Hun-Germen mücadelelerinin anlatıldığı Nibelungan Destanı'nda "Etzel" lakabıyla yer alan meşhur Türk hükümdarı aşağıdakilerden hangisidir?**

A) Baga Tarkan
B) Bilge Kağan
C) Attila
D) Teoman
E) Kutluk Kağan

7. **İslamiyet öncesi Türklerde hükümdarlık sembolleri arasında da yer alan hükümdar çadırlarına ne ad verilir?**

A) Keregü
B) Otağ
C) Tuğ
D) Örgin
E) Sorguç

8. İslamiyet'ten önceki Türk Devletlerinde katunun diğer devletlerle anlaşma yapmak, elçi kabul etmek ve kanun yayımlamak gibi yetkileri vardır.

Buna göre katunların;

I. siyasi,
II. diplomasi,
III. dini

unsurlarından hangilerine sahip olduğu söylenebilir?

A) Yalnız I B) Yalnız II C) Yalnız III
D) I ve II E) I, II ve III

MURAT YAYINLARI

/muratyayincilik

9. **İslamiyet öncesi Türk devletlerinde yönetimde hükümdara yardımcı olan hükümete verilen isim aşağıdakilerden hangisidir?**

A) Ayukı
B) Tudun
C) Aygucı
D) Şad
E) Tigin

10. I. Boylar halinde yaşamaları
II. Kut anlayışına sahip olmaları
III. İkili teşkilatı uygulamaları

Yukarıdakilerden hangileri Orta Asya Türk devletlerinde merkeziyetçiliğin zayıf olduğunun göstergesidir?

A) Yalnız I
B) Yalnız II
C) Yalnız III
D) I ve III
E) I, II ve III

11. I. İlk kez posta teşkilatının kullanılması
II. İlk kez atın evcilleştirilmesi
III. Kavimler Göçü'nün gerçekleşmesi
IV. Şehir kültürünün gelişmesi

İslamiyet'ten önceki Türkler ile ilgili yukarıdaki gelişmelerin kronolojik sırası hangisinde doğru verilmiştir?

A) I-II-III-IV
B) II-III-I-IV
C) IV-III-I-II
D) II-I-III-IV
E) III-II-IV-I

12. **İlk Türk devlet ve topluluklarının benimsediği dinler aşağıdaki eşleştirmelerden hangisinde yanlış verilmiştir?**

A) Uygurlar - Maniheizm
B) Hazarlar - Musevilik
C) İtil Bulgarları - İslamiyet
D) Macarlar - Hristiyanlık
E) Göktürkler - Budizm

13. **İslamiyet öncesi Türklerde;**

- Ülkenin doğu kanadı merkez seçilirdi.
- Çadırların kapısı daha çok doğuya açılırdı.

Bu durumun temel nedeni aşağıdakilerden hangisidir?

A) Gök Tanrı inancı
B) Kurultayda alınan kararlar
C) Atalar kültü
D) Yer-su kültü
E) Feodal yapı

14. **İslamiyet'ten önceki Türk devletlerinde rastlanan kavramlardan bazıları şunlardır:**

- Balbal
- Ataman
- Kam

Buna göre Türk kültürüyle ilgili aşağıdakilerden hangisine ulaşılamaz?

A) Şamanizm benimsenen inançlar arasındadır.
B) Tiginlerin eğitimine önem verilmiştir.
C) Heykelcilik başlamıştır.
D) Kut anlayışı hakimdir.
E) Ahiret inancı vardır.

MURAT YAYINLARI

15. İslamiyet öncesi Türk devletlerinde düzen, yazısız hukuk kurallarıyla yani töreyle sağlanırdı.

Aşağıdakilerden hangisi töre ile ilgili yanlış bilgidir?

A) Hükümdar töreye uymaması durumunda taht-tan indirilir.
B) Hiçbir durumda değiştirilemez.
C) Orta Asya'da kan davası görülmemesinin temel nedeni töredir.
D) Uzun süreli hapis cezalarına rastlanmaz.
E) Kaynağı halk, hakan ve kurultaydır.

16. **Orta Asya Türk tarihinde ilk yazılı hukuk belgeleri aşağıdaki devletlerden hangisine aittir?**

A) Uygurlar
B) Sabirler
C) Kumanlar
D) Göktürkler
E) Kutluklar

17. Orta Asya'daki kurganlarda yapılan kazılarda koşum takımlarına; kılıç, balta ve zırhlara, taşınılabilir sanat eserlerine rastlanmıştır.

Bu bilgilere dayanarak Türklerle ilgili aşağıdakilerden hangisi savunulamaz?

A) Atı evcilleştirmişlerdir.
B) Madencilikte ilerlemişlerdir.
C) Göçebe yaşam sürmüşlerdir.
D) Budizm inancına sahiplerdir.
E) Hayvancılıkla uğraşmışlardır.

18. **İslamiyet'ten önce Türk devletlerinde görülen;**

I. balbalların dikilmesi,
II. ölen kişinin atı ve silahıyla gömülmesi,
III. sürekli av partilerinin yapılması

gibi durumlardan hangileri askeri özellikler ile ilgilidir?

A) Yalnız I
B) Yalnız III
C) I ve II
D) II ve III
E) I, II ve III

19. **İslamiyet'ten önce Türklerde kağanların veya devlet ileri gelenlerinin adına diktirilen ve bir nasihatname niteliği taşıyan anıtlara ne ad verilmiştir?**

A) Balbal
B) Abide
C) Ongun
D) Burkan
E) Koşuk

20. • Dünyanın en uzun sözlü edebiyat eserlerine sahiptirler.
• En önemli yazılı eserleri Yenisey Yazıtları'dır.

Yukarıda özellikleri verilen Türk topluluğu aşağıdakilerden hangisidir?

A) Uygurlar
B) Göktürkler
C) Kırgızlar
D) Kıpçaklar
E) Türgişler

MURAT YAYINLARI

/muratyayincilik

Açıklamalar • TEST 2

1. **B** Türk devlet teşkilatının temelleri, Asya Hun Devleti'nde Mete Han'ın kurultayı kurması ikili teşkilatı geliştirmesi, ilk düzenli orduyu oluşturması ve orduda onlu sistemi uygulamasıyla atılmıştır.

2. **C** Göçebe yaşam, mülkiyet kavramının gelişmemesine ve kentleşmenin görülmemesine neden olmuştur. Tarım yerine hayvancılık gelişmiş ve çadır sanatında ilerlemeler görülmüştür.

3. **D** Tarihte ilk kadın hükümdar olarak kabul edilen "Tomris Hatun" İskitlerde (Sakalar) hükümdarlık üstlenmiştir.

4. **C** Bizans kaynaklarında "Eftalit", Çin kaynaklarında ise "Hua" adıyla geçen, 420-670 yılları arasında bugünkü Afganistan ve Tacikistan topraklarında hüküm süren Türk devleti AkHunlar'dır.

5. **B** Maniheizm dinini kabul eden Bögü Kağan, Karabalgasun şehrinde bir tapınak yaptırmıştır. Onun döneminde mani dini, devletin resmi dini haline gelmiştir. Ancak bu din sadece hanedan tarafından kabul görmüştür.

6. **C** Hun-Germen mücadelelerinin anlatıldığı Nibelungen Destanı'nda "Etzel" lakabıyla yer alan Türk hükümdar Avrupa Hun İmparatoru Attila'dır. Öte yandan Attila için Hristiyanlar "Tanrının Kamçısı" lakabını da kullanmışlardır.

7. **B** İslamiyet öncesi Türklerde hükümdar çadırına Otağ denir. Halkın kullandığı çadırlara keregü, hükümdar sembolleri arasında yer alan hükümdar tahtına örgin, hükümdar tacına sarguç, bayrak yerine de kullanılan sembole tuğ denirdi.

8. **D** İslamiyet'ten önceki Türk Devletlerinde katunların (hatun) diğer devletlerle anlaşma yapması,elçi kabul etmesi; siyasi ve diplomasi yetkilerine sahip olduğunu gösterir.
Ancak katunların dini yetkiye sahip olduğu söylemez. Bu özellik din adamı olan şamanlarla ilgili bir durumdur.

9. **A** İslamiyet öncesi Türk devletlerinde hükümete verilen isim "Ayukı"dır. "Ayukı"nın yani hükümetin başkanına ise "Aygucı" adı verilmiştir.

10. **D** İslamiyet öncesi Türk devletlerinin boyların birleşmesinden oluşması, her boyun kendi boybeyi tarafından yönetilmesi ve devletin batı kanadının hanedan üyesi olan yabgu tarafından yönetilmesi federatif bir yapıya dolayısıyla merkeziyetçiliğin zayıf olduğuna kanıt oluşturur.

MURAT YAYINLARI

11. B II. Atın evcilleştirilmesi İskitler Dönemi'nde olmuştur.
III. Kavimler Göçü, Hunların dağılmasından sonra Batı Hunları tarafından gerçekleştirilmiştir.
I. İlk posta Köktürkler tarafından kurulmuştur.
IV. Şehir kültürünün gelişmesi yerleşik hayata geçen Uygurlar ile olmuştur.

12. E Orta Asya Türk devlet ve topluluklarından;
- Uygurlar Maniheizm ve Budizmi,
- Hazarlar Museviliği,
- İtil Bulgarları İslamiyeti,
- Macarlar Hristiyanlığı,
- Göktürkler ise Gök Tanrı dinini benimsemişlerdir.

13. A Gök Tanrı inancına göre güneşin doğduğu yer olmasından dolayı doğu kutsal sayılmaktadır.

14. D Balballar, heykelciliğin başladığına ve ahiret inancının varlığına kanıttır. Ataman, hükümdarın erkek çocuklarını eğiten kişidir. Kam ise Şaman inancında din görevlilerine verilen isimdir.

15. B Töre, yazısız hukuk kurallarıdır ve bazı kuralları dışında birçok hükmü zamana göre hükümdar ve kurultay kararı ile değiştirilebilir.

16. A İlk yazılı hukuk belgeleri yerleşik yaşamın etkisiyle mülkiyet anlayışına sahip olan Uygurlara aittir.

17. D Orta Asya'daki kurganlarda (oda şeklinde mezar) koşum takımlarının bulunması atın evcilleştirildiğinin, hayvancılıkla uğraşıldığının ve madenciliğin geliştiğinin göstergeleridir. Sanat eserlerinin taşınabilir malzemeden yapılması ise göçebe yaşamın varlığına kanıttır. Kurganlar, Gök Tanrı dininin inanç sistemi ile ilgilidir. Budizm ile bir bağ kurulamaz.

18. E Balballar, bir kahramanlık göstergesidir ve kişinin hayatta iken öldürdüğü insan sayısı kadar dikilmektedir. Hem ahiret inancının olduğunun göstergesi, hem de askeri niteliklere verilen önem ile ilgili olarak kişi atı ve silahı ile gömülmektedir. Av partileri ise savaşılmadığı dönemlerde askeri nitelikleri canlı tutabilmek amacıyla düzenlenmektedir.

19. B İslamiyet öncesi Türklerde kağanların ya da devlet ileri gelenlerinin adına diktirilen ve bir nasihatname niteliği taşıyan yazıtlara "Kitabe" veya "Abide" denmiştir.
- Balbal, mezarlara dikilen heykelcilik,
- Ongun, her boyun kutsal kabul ettiği hayvan türü,
- Koşuk, toylarda söylenen şiir,
- Burkan, Budizmi benimseyen Uygurların Buda'ya verdikleri isimdir.

20. C Manas Destanı dünyanın en uzun destanıdır. Yenisey Yazıtları ise Türklerin bilinen en eski yazıtlarıdır. Her ikisi de Kırgızlara aittir.

MURAT YAYINLARI

/muratyayincilik

İslamiyet Öncesi Türk Tarihi • TEST 3

1. **Kaşgarlı Mahmut'a ait Divânü Lûgati't-Türk adlı eserde Türk adının anlamı aşağıdakilerden hangisidir?**

A) Miğfer
B) Nizam sahibi
C) Olgunluk çağı
D) Türemek
E) Güç ve kuvvet

2. **Köktüklerde yabgunun iç işlerinde serbest, dış işlerinde doğuda bulunan kağana bağlı olmasının;**

I. taht kavgalarının artmasına,
II. federal yönetim anlayışına yer verilmesine,
III. teokratik yapılanmaya gidilmesine

unsurlarından hangilerine zemin hazırladığı söylenebilir?

A) Yalnız I
B) Yalnız II
C) Yalnız III
D) I ve II
E) I, II ve III

3. **Aşağıdaki İslamiyet öncesi Türklere ait eşleştirmelerinden hangisi yanlış verilmiştir?**

	Kavram	Açıklama
A)	Otağ	Hükümdar çadırı
B)	Balbal	Oda şeklindeki mezar
C)	Yelme	Askeri keşif birlikleri
D)	Şaman	Din adamı
E)	Toygun	Kurultay üyesi

4. **İslamiyet öncesi Türklerde "şehir" teriminin karşılığı olarak aşağıdakilerden hangisi kullanılmıştır?**

A) Balık
B) Urug
C) Ok
D) Kün
E) İl

5. **Aşağıdaki İslamiyet öncesi Türk hükümdarlarından hangisi kurucu devlet başkanlığı görevini üstlenmemiştir?**

A) Teoman
B) Bilge Kağan
C) Bumin Kağan
D) Balamir
E) Kutluk Bilge Kül Kağan

6. **İslamiyet öncesi Türklerde yöneticiler ile halk arasındaki görev ve sorumlukların yer aldığı sözlü anlaşmalara verilen isim aşağıdakilerden hangisidir?**

A) Tüz
B) Kam
C) İnal
D) Sav
E) Çav

7. **Türeyiş Destanı aşağıdaki hangi Türk devletine aittir?**

A) Köktürkler
B) Avrupa Hunları
C) Kırgızlar
D) Asya Hunları
E) Uygurlar

MURAT YAYINLARI

8. I. Orhun Abideleri Kutluklulara aittir.
II. Hazarlarda yöneticiler Musevilik dinine inanmıştır.
III. İstanbul'u kuşatan ilk Türkler Avrupa Hunları'dır.
IV. Asya Hunları'nın en parlak devri Metahan dönemidir.
V. Uygurlar döneminde töre yazılı hale getirilmiştir.

Yukarıdaki İslamiyet öncesi Türk devletlerine ait bilgilerden hangisi yanlış verilmiştir?

A) I B) II C) III D) IV E) V

9. **Oğuzların Müslüman olanlarına verilen isim aşağıdakilerden hangisidir?**

A) Türkmen
B) Uz
C) Kıpçak
D) Hazar
E) Karluk

10. I. Baharat Yolu
II. İpek Yolu
III. Kürk Yolu

İslamiyet öncesi Türklerde yukardaki ticaret yollarından hangilerinin kullanıldığı söylenebilir?

A) Yalnız I B) Yalnız II C) Yalnız III
D) II ve III E) I, II ve III

11. **İslamiyet öncesi Türklerde;**
I. kut,
II. ülüş,
III. küç

unsurlarından hangilerinin kağana Gök Tanrı tarafından verildiğine inanılmıştır?

A) Yalnız I B) Yalnız II C) Yalnız III
D) II ve III E) I, II ve III

12. **İslamiyet öncesi Türklerde;**
I. uçmağ,
II. yuğ,
III. tamu

unsurlarından hangileri ahirete inancın kesin kanıtlarındandır?

A) Yalnız I
B) Yalnız II
C) Yalnız III
D) I ve III
E) II ve III

13. I. Sultan
II. İlig
III. İl Kağan

Yukarıdakilerden hangileri İslamiyet öncesi Türk devletlerinde hükümdar unvanları arasında yer alır?

A) Yalnız I
B) Yalnız II
C) Yalnız III
D) II ve III
E) I, II ve III

14. **Türk adının anlamı Ziya Gökalp'e göre aşağıdakilerden hangisi olarak ifade edilmiştir?**

A) Güzel insan
B) Olgunluk çağı
C) Nizam sahibi
D) Göçebe
E) Miğfer

MURAT YAYINLARI

/muratyayincilik

15. İslamiyet öncesi Türklerden;

I. Hun,
II. Uygur,
III. Avar

hangileri hem Orta Asya'da hem de Avrupa'da devlet kurmuştur?

A) Yalnız I
B) Yalnız II
C) Yalnız III
D) I ve III
E) I,II ve III

16. Orta Asya'da Türklere ait ilk kültür çevresi aşağıdakilerden hangisidir?

A) Karasuk
B) Tagar
C) Afanesyevo
D) Andronova
E) Anav

17. İslamiyet öncesi Türklerde din adamlarına verilen isim aşağıdakilerden hangisidir?

A) Kengeş
B) Toygun
C) Ayukı
D) Baksı
E) Ok

18. İstanbul kuşatmasını yapan Türk hükümdarı aşağıdakilerden hangisidir?

A) Bayan Kağan
B) Mete Han
C) Bumin Kağan
D) Kutluk İlteriş Kağan
E) Teoman

19. Uygurlarda;

I. fresk,
II. çini,
III. minyatür

sanat dallarından hangileriyle ilgili örneklere rastlanılmıştır?

A) Yalnız I
B) Yalnız II
C) Yalnız III
D) I ve III
E) I, II ve III

20. İslamiyet öncesi Türklerde kullanılan könilik kavramı aşağıdakilerden hangisi ile ilgilidir?

A) Hukuk sistemi
B) Sözlü edebiyat
C) Veraset sistemi
D) Mimari yapı
E) Dini inanç

MURAT YAYINLARI

Açıklamalar • TEST 3

1. **C** Türk adı Çin kaynaklarına göre "miğfer", Uygur kaynaklarına göre "güç ve kuvvet", Arminius Wambery'e göre "türemek", Ziya Gökalp'e göre "kanun ve nizam sahibi" anlamına gelmektedir.
11. yüzyıl düşünürlerinden Divânü Lûgati't-Türk adlı eserin yazarı Kaşgarlı Mahmut'a göre Türk adı "olgunluk çağı" anlamına gelmektedir.

2. **D** İlk Türk devletlerinde uygulanan ikili teşkilatlanma, devlet idaresinde teokratik yapılanmaya değil federal yönetim anlayışına yer verildiğinin göstergesidir.
Asya Hunları'ndan itibaren İlk Türk devletlerinde ülke yönetiminde ikili teşkilatlanmaya gidilmiştir. İkili teşkilatlanmada kağanın kardeşi "yabgu" unvanı almış ve batı yöneticisi olmuştur. İçişlerinde serbest olan yabgu, dışişlerinde doğuda bulunan kağana bağlı olmuştur.
Yabguluk makamına getirilen yönetici kağanın kardeşi olduğu için "ülke hanedanın ortak malıdır anlayışı" gereği taht kavgalarında artış olmuştur.

3. **B** İslamiyet öncesi Türklerde oda şeklindeki mezaralara "kurgan" adı verilmiştir. Balbal ise mezar taşı anlamına gelmektedir.
İslamiyet öncesi Türklerle ilgili diğer eşleştirmeler doğru verilmiştir.

4. **A** İslamiyet öncesi Türklerde şehire "balık" adı verilmiştir.
Urug; aileler birliğidir.
Ok; boy veya aşiret anlamına gelmektedir.
Kün; Halk anlamına gelmektedir.
İl; Devlete verilen isimdir.

5. **B** Teoman Asya Hun Devleti'nin kurucu lideridir.
Balamir, Avrupa Hun kurucu lideridir.
Bumin Kağan, I. Köktürk Devleti'nin kurucu lideridir.
Kutluk Bilge Kül Kağan, Uygur Devleti'nin kurucu lideridir.
II. Köktürk Devleti'nin kurucu lideri Kutluk İlteriş Kağan'dır. Bilge Kağan ise II. Köktürk Devleti'nin en parlak dönemidir.

6. **A** İslamiyet öncesi Türklerde yöneticiler ile halk arasındaki görev ve sorumlukların yer aldığı sözlü anlaşmalara "tüz" adı verilmiştir.
Kam; Diğer adı "şaman" veya "baksı"dır. Din adamlarına verilen isimdir.
İnal; Diğer adı "ataman"dır. Kağanın erkek çocukları olan "tigin" ve "şad"ların eğitmenine verilen isimdir.
Sav; atasözüne verilen isimdir.
Çav; Uygurlardan itibaren kullanılan Çinlilere ait kağıt paraya verilen isimdir.

7. **E** Türeyiş Destanı Uygurlara aittir. Uygurlara ait bir diğer destan "Göç Destanı"dır.
Köktürklere ait olan, Bozkurt ve Ergenekon Destanları'dır.
Avrupa Hunlarına ait olan Sihirli Geyik ve Attila Destanları'dır.
Asya Hunlarına ait olan Oğuz Kağan Destanı'dır.
Kırgızlara ait olan Manas Destanı'dır.

8. **C** İstanbul'u kuşatan ilk Türkler Avrupa Hunları değil Avar Devleti'dir. Bayan Kağan döneminde (7. Yüzyılda) Avarlar iki kez İstanbul'u kuşatmıştır.
İslamiyet öncesi Türklerde İstanbul'u kuşatan bir diğer Türk devleti, Tuna Bulgar Devleti olmuştur.
Diğer öncüldeki bilgiler doğru verilmiştir.

9. **A** Oğuzların Müslüman olanlarına "Türkmen" adı verilmiştir. "Uz" ise Hristiyan Oğuzlara verilen isimdir.

10. **D** İslamiyet öncesi Türklerde iki ticaret yolu kullanılmıştır. Bunlar İpek ve Kürk Yoları'dır.
Baharat Yolu ise Türk İslam devletlerinden biri olan Gaznelilerin, Hindistan Seferleri sonrasında Türkler tarafından kullanılmaya başlanmıştır.

MURAT YAYINLARI

/muratyayincilik

11. E İslamiyet öncesi Türklerde kut, ülüş ve küç Göktanrı tanrı tarafından hükümdara verilen güçlerdendir.
İslamiyet öncesi Türklerde kut anlayışı ile tahta çıkan hükümdara ekonomik güç olan "ülüş"ü ve askeri güç olan "küç"ü Gök Tanrı'nın verildiğine inanılmıştır.

12. D İslamiyet öncesi Türklerde uçmağ (cennet), tamu (cehennem), kurgan (oda şeklindeki mezar) ve balbal (mezar taşı) ahirete inancın kesin kanıtları arasında yer almıştır.
Ancak İslamiyet öncesi Türklerde cenaze töreni olan "yuğ" ahirete inancın kesin kanıtlarından biri değildir.

13. D İslamiyet öncesi Türk devletlerinde "İl" kavramı devleti ifade etmiştir. Bu çerçevede "İlig" ve "İl Kağan" unvanları İslamiyet öncesi Türk devletlerinde hükümdar unvanları arasında yer almıştır.
Ancak "Sultan" İslamiyet öncesi Türklerde kullanılan hükümdar unvanları arasında yer almaz. Sultan, Gazneli Mahmut'tan itibaren kullanıldığı için Türk İslam hükümdarlarının kullandığı unvanlardan biridir.

14. C Türk adının anlamları incelendiğinde;
Çin kaynaklarında, "miğfer"
Uygur kaynaklarında, "güçlü-kuvvetli"
İran kaynaklarında, "güzel insan"
Arap kaynaklarında, "yalnız adam"
Avrupa kaynaklarında, "devletine bağlı halk" ve "türeyen-çoğalan"
Kaşgarlı Mahmut'a göre, "olgunluk çağı"
Ziya Gökalp'e göre, "töreli-nizam sahibi"
olarak geçmektedir.

15. D İslamiyet öncesi Türklerde hem Orta Asya'da hem de Avrupa'da devlet kuranlar Hunlar ve Avarlar'dır. Uygurlar sadece Orta Asya'da devlet kurmuştur.
Hunlar, Asya ve Avrupa Hunları olarak devlet kurmuşlardır.
Avarların Orta Asya'da kurduğu devlet Kök Türk Devleti tarafından yıkıldıktan sonra Avarlar Avrupa'ya göç etmiş ve orada da devlet kurmuştur.

16. C Anav kültür çevresi Orta Asya'nın ilk kültür çevresidir.
Anav Orta Asya'nın ilk kültür çevresi olmasına rağmen Orta Asya'daki Türklere ait ilk kültür çevresi Afanesyevo'dur.

17. D "Ayukı" İslamiyet öncesi Türklerde hükümete verilen isimdir.
İslamiyet öncesi Türklerde meclise "Kurultay (Toy, Kengeş)" adı verilmiştir.
Kurultay üyelerine "Toygun" adı verilmiştir.
Din adamlarına "Şaman (Kam, Baksı)" adı verilmiştir.
Boylara "Ok (Aşiret)" adı verilmiştir.

18. A İlk İstanbul kuşatmasını yapan Türk hükümdarı Avar Devleti'nin kurucu lideri Bayan Kağan'dır.

19. E Uygular Mani dininin etkisiyle duvar resmi olan "fresk" sanatına, kitap resmi olan "minyatür" sanatına ve çini sanatına yer veren ilk Türk devletidir.

20. A İslamiyet öncesi Türklerde adalet kavramının karşılığı olarak kullanılan "könilik" kavramı hukuk sistemi ile ilgilidir. Könilik, Türk töresinin değişmez unsurlarındandır.

MURAT YAYINLARI

İlk Türk İslam Devletleri • TEST 4

1. XI.-XIII. yüzyıllarda gerçekleşen Haçlı Seferlerine karşı İslam Dünyasının koruyuculuğu vazifesini Türk kökenli devletler üstlenmiştir.

1291'de Akka'yı Haçlılardan geri alarak Orta Doğu'daki Haçlı unsurlarına son veren Türk devleti aşağıdakilerden hangisidir?

A) Memlükler
B) Büyük Selçuklular
C) Osmanlı Devleti
D) Harezmşahlar
E) Gazneliler

2. **Aşağıdakilerden hangisi Büyük Selçuklu Devleti'nin özellikleri arasında yer almaz?**

A) Türk-İslam Dünyası'nın siyasi liderliğini üstlenmişlerdir.
B) Batınilik Hareketi ile mücadele etmişlerdir.
C) Anadolu'nun fetih sürecini başlatmışlardır.
D) Kurucu hanedanı Oğuz boyuna dayanmıştır.
E) Karahanlılar Devleti'nin varlığına son vermişlerdir.

3. Türk-İslam tarihinde devlet hizmetine alınan esir ya da köle kökenli görevlilere gulam adı verilmiştir.

Türk-İslam Devletlerinde gulamlar;

I. ordu,
II. saray,
III. bürokrasi

alanlarından hangilerinde kullanılmıştır?

A) Yalnız I
B) Yalnız II
C) I ve II
D) II ve III
E) I, II ve III

4. **Aşağıdaki Türk-İslam devletlerinden hangisinin yıkılması İran, Irak ve Anadolu coğrafyasının Moğol istilasına uğramasına yol açmıştır?**

A) Anadolu Selçukluları
B) Tolunoğulları
C) Memlükler
D) Harezmşahlar
E) İhşidîler

5. Türk-İslam devletlerinde kadılar görev bölgesindeki ve emri altındaki görevlileri denetler, herhangi birinin şeriata ve hükümdar emirlerine aykırı bir tutum ve davranışı olursa, onları merkeze arz eder, kanunsuzlukların önlenmesini sağlardı.

Aşağıdakilerden hangisi kadıların denetimine tabi olan görevliler arasında yer almaz?

A) Muhtesip
B) Subaşı
C) Müderris
D) Şıhne
E) Camedar

6. **Büyük Selçuklu Devleti'nde istihbarat ve haberleşme işlerine bakan Berid Teşkilatı'nın görevlileri arasında aşağıdakilerden hangisi yer almaz?**

A) Sahib-i Berid
B) Peyk
C) Alemdar
D) Münhi
E) Sahib-i Haber

MURAT YAYINLARI

/muratyayincilik

7. **İslamiyet'in Orta Asya Türk toplulukları arasında yayılması ve Türklerin kitleler halinde İslamiyet'i kabul etmesi İslam tarihinin aşağıdaki dönemlerinden hangisinde gerçekleşmiştir?**

A) Hz. Ebubekir Dönemi
B) Hz. Ömer Dönemi
C) Hz. Osman Dönemi
D) Emeviler Dönemi
E) Abbasiler Dönemi

8. **Karahanlılarda** "yuğruş", **Gaznelilerde ise** "hâce" **unvanı taşıyan görevli Selçuklularda aşağıdaki isimlerden hangisini almıştır?**

A) Hacip
B) Vezir
C) Emir
D) Sipahi
E) Amil

9. **Türklerin örf ve âdetleri, mutfağı, spor faaliyetleri, ekonomik özellikleri, günlük yaşamı, müzik anlayışı, aile hayatı, sağlık bilgisi gibi konularda ansiklopedik bilgiler içeren eser aşağıdakilerden hangisidir?**

A) Kutadgu Bilig
B) Divan-ı Lügat'it Türk
C) Divan-ı Hikmet
D) Şehname
E) Siyasetname

10. **Aşağıdakilerden hangisi Eyyubiler Devleti'nin Türk – İslam tarihi içerisindeki önemini ortaya koyan bir durum değildir?**

A) Kudüs Latin Krallığı'na son vermeleri
B) Orta Doğu'da Haçlılar ile mücadele etmeleri
C) Avrupalı şövalyelere arma sistemini öğretmeleri
D) İslam Dünyası'ndaki iki başlılığa son vermeleri
E) Moğolların Batı yönündeki ilerleyişini durdurmaları

11. Memlüklerde idari, askeri ve siyasi tüm devlet işleri komutanların elindeydi. Güçlü olan emir ülkeyi yönetme hakkını eline geçirir ve ardından Abbasi halifesinden menşur alırdı.

Bu bilgiden hareketle Memlükler ile ilgili olarak,

I. Veraset sistemine yer verilmiştir.
II. Merkeziyetçi devlet anlayışı hakimdir.
III. Hükümdarlar dini otoriye tabidir.

yargılarından hangilerine ulaşılabilir?

A) Yalnız I B) Yalnız II C) I ve II
D) II ve III E) I, II ve III

12. **Aşağıdakilerden hangisi 840-1212 tarihleri arasında hüküm süren Karahanlı Devleti'nin ilim ve kültür merkezleri arasında yer almaz?**

A) Kaşgar
B) Semerkant
C) Balasagun
D) Buhara
E) Agra

13. **Aşağıdakilerden hangisi Büyük Selçuklu Devleti Dönemi'nin ünlü alimlerinden biri değildir?**

A) Ömer Hayyam
B) Muhammed Beyhaki
C) Necip el - Vasiti
D) Ahmet Tusi
E) Farabi

14. **Yusuf Has Hacip, Kutadgu Bilig adlı eserinde;**

I. insanın sosyal hayattaki ve devlet düzenindeki görev ve sorumlulukları,
II. ideal devlet anlayışının özellikleri,
III. bilgi ve faziletlerin nasıl elde edileceği ve nasıl kullanılacağı

konularından hangilerine yer vermiştir?

A) Yalnız I B) Yalnız II C) I ve II
D) II ve III E) I, II ve III

MURAT YAYINLARI

15. **Selçukluların Anadolu'yu fethetmek istemelerinde;**

I. Orta Asya'da yer sıkıntısı yaşayan Oğuzlara yurt bulmak,
II. Oğuz göçü dalgası karşısında emniyet ve asayişi temin ederek memleketi ve çiftçileri korumak,
III. Türk – İslam Dünyası'nın dini lideri olmak

durumlarından hangileri etkili olmuştur?

A) Yalnız I
B) Yalnız II
C) I ve II
D) II ve III
E) I, II ve III

16. **Selçuklularda taşrada görev alan meliklerin;**

I. para bastırma,
II. vergi oranlarını belirleme,
III. bölgeyi hükümdar adına yönetme,
IV. uluslararası antlaşmalar yapma

yetkilerinden hangilerine sahip oldukları söylenebilir?

A) Yalnız I
B) Yalnız III
C) II ve III
D) I ve IV
E) II, III ve IV

17. **Türk-İslam Devletleri'nde gayrimüslimler;**

I. askerlik,
II. memuriyet,
III. ticaret

ile ilgili konulardan hangilerinde faaliyet göstermemişlerdir?

A) Yalnız I
B) Yalnız II
C) Yalnız III
D) I ve II
E) I ve III

18. Türk-İslam devletleri kendilerinden önceki İslam devletlerinden birçok konuda etkilenmişlerdir.

Aşağıdakilerden hangisinde bu etkilenmenin en az olduğu savunulabilir?

A) Vakıf sistemi
B) İkta sistemi
C) Divan teşkilatı
D) Mali teşkilat
E) Tümen teşkilatı

19. **Selçuklular Dönemi'nde ekonominin geliştirilmesi çabaları içerisinde aşağıdakilerden hangisi yer almaz?**

A) Tarım arazilerin arttırılması
B) Toprağın iktalara ayrılması
C) Bayındırlık faaliyetlerinin arttırılması
D) Gulam sisteminin uygulanması
E) Kervansarayların yapılması

20. I. Kutadgu Bilig
II. Siyasetname
III. Divanı Hikmet

Yukarıdakilerden hangileri Türk-İslam devletlerinde devlet yönetimi ile ilgili bilgi veren eserler arasında yer alır?

A) Yalnız I
B) Yalnız II
C) Yalnız III
D) I ve II
E) I, II ve III

MURAT YAYINLARI

/muratyayincilik

Açıklamalar • TEST 4

1. A Memlük Sultanı Halil, 1291'de ordusu ile Akka'yı kuşattı ve şehir fethedildi. Akka'nın düşmesinden sonra, Suriye'deki Haçlı kaleleri birer birer Memlüklerin eline geçti. Akka'nın fethi ile bütün Suriye sahili Haçlılardan temizlendi.

2. E 840 – 1212 yılları arasında hüküm süren Karahanlı Devleti Doğu ve Batı Karahanlılar olarak ikiye ayrılmış, Doğu Karahanlılara Moğol Karahitaylar, Batı Karahanlılara ise Harezmşahlar son vermiştir.

3. E Türk-İslam Devletlerinde;
- Saray teşkilatı mensupları,
- Merkez teşkilatta bürokrasi işlerine bakan devlet görevlileri (divan üyeleri),
- Sultanı ve sarayı koruyan ordu mensupları içerisinde gulam sisteminden gelen pek çok görevli yer almıştır.

4. D Orta Asya ile İran coğrafyası arasında tampon bölge vazifesi gören Harezm coğrafyasına 1097 – 1231 yılları arasında Türk-İslam devletlerinden Harezmşahlar egemen olmuştur. Harezmşahlar 1230 Yassıçemen Savaşı'nda Anadolu Selçuklularına karşı aldığı yenilgi sonucunda yıkılma sürecine girmiş bu durum başta İran, Irak ve Anadolu'nun Moğol istilasına uğramasına yol açmıştır.

5. E Türk-İslam devletlerinde kaza adı verilen idari birimin başında kadılar bulunurdu. Öncelikli görevi şeri davalara bakmak olan kadılar, bölgesindeki ve emri altındaki görevlileri (müderris, imam, emin, muhtesip vb.) denetler, herhangi birinin şeriata ve hükümdar emirlerine aykırı bir tutum ve davranışı olursa, onları merkeze arz eder, kanunsuzlukların önlenmesini sağlardı. Bu bakımdan Sancak Beyi ve Subaşı gibi memurlar da kadının denetimine tabi bulunuyorlardı. Camedar, sarayda sultanın elbiselerini koruyan ve saklayan görevli olup sarayda Hacib'ül Hüccab'ın denetimindedir.

6. C Büyük Selçuklu Devleti'nde Berid adını taşıyan teşkilatın başındaki görevliye; Sahib-i Berid, Berid Divanı'na bağlı görevlilere; Sahib-i Haber, istihbarat ile ilgili görevlilere Münhi, haberleşmeyi sağlayan görevlilere Peyk adı verilmiştir. Alemdar; sarayda Alem adı verilen İslam sancağını koruyan ve muhafaza eden görevlidir.

7. E Türklerin (Hazarlar), İslam Devleti ile ilk komşuluk ilişkisi Hz. Ömer Dönemi'nde başlamış, Arap – İslam orduları ile ilk mücadeleri Hz. Osman Dönemi'nde gerçekleşmiştir. Emeviler Devleti'nin izlediği Mevali (köle) politikası Türklerin İslamiyet'i kabulünü geciktirmiştir. 750 yılında kurulan Abbasilerin Çin ile giriştiği 751 Talas Savaşı'nda Türkler, Abbasilerin yanında yer almış bu savaş vesilesiyle İslamiyet Orta Asya Türkleri arasında yayılmaya başlamıştır.

8. B Selçuklularda ve diğer Türk – İslam devletlerinde hükümdardan sonra devlet kademesinde en yetkili kişi vezirdi. Karahanlı vezirleri Türkçe yuğruş unvanını kullanırken, genellikle İran kökenli olan Gazneli vezirler hâce unvanını kullanmıştır.

9. B Türk tarihinin ilk sözlüğü kabul edilen Divânı-ı Lûgati't-Türk Kaşgarlı Mahmut tarafından Araplara Türk dilini öğretmek, Türk milletinin yüceliğini, dilinin zenginliğini göstermek amacıyla kaleme alınmıştır. Bir sözlük gibi hazırlanmış olan eser; Türklerin tarihi ve coğrafyası, örf ve âdetleri, mutfağı, spor faaliyetleri, ekonomik özellikleri, günlük yaşamı, müzik anlayışı, kadına verdiği önem, aile hayatı, edebiyat içeriği, sağlık bilgisi gibi konularda ansiklopedik bilgiler içermektedir.

10. E 1171 – 1250 yılları arasında Mısır ve Suriye coğrafyasında hüküm süren Eyyubiler, Mısır'da Şii – Fatimi Devleti'ni yıkarak İslam Dünyası'ndaki iki başlılığa son vermiştir. Öte yandan Haçlılar ile çeşitli mücadelelerde bulunan Eyyubiler 1099'da Haçlıların eline geçen kutsal kent Kudüs'ü Hıttin Savaşı ile geri almış Kudüs Latin Krallığı'nı da yıkmışlardır. Eyyubilerin Haçlı Seferleri vesilesi ile Batı Dünyası'na en önemli etkisi ise Avrupalı şövalyelere arma sistemini öğretmeleri olmuştur. Moğolların Batı yönündeki ilerleyişini durduran Eyyubiler değil, Memlükler'dir.

MURAT YAYINLARI

11. D Memlüklerde hükümdarın tüm yetkileri elinde tutması merkeziyetçi anlayışın varlığını gösterirken, hükümdarların iş başına geçtikten sonra Halifeden menşur (onay) almaları dini otoriteye tabi olduklarını ortaya koymaktadır. Ancak veraset sistemi Memlüklerde görülmemiştir.

12. E Hindistan'ın kuzeyinde yer alan Agra şehri ilk kez Gazneliler Dönemi'nde Türk – İslam hakimiyetine girmiş, 1526 – 1858 yılları arasında hüküm süren Babür İmparatorluğu'nun da başkentliğini yapmıştır. Günümüzde Tac Mahal adlı dünyaca ünlü mimari yapı bu şehirde yer almaktadır.

13. E Büyük Selçuklu Dönemi'nin (1040 – 1157) meşhur alimlerinden
- Ömer Hayyam, astronomi ve matematik,
- Muhammed Beyhaki, hadis ve itikad,
- Necip el –Vasiti, astronomi
- Ahmet Tusi (Gazali), fıkıh, kelam ve mantık alanlarında önemli çalışmalar yapmışlardır.
- Farabi (870 – 950), İslamın altın çağı olan Abbasiler Devleti Dönemi'nde yaşamış ünlü filozof ve bilim adamıdır.

14. E Türk İslam edebiyatının ilk yazılı edebi ürünü olan ve Karahanlılar Dönemi'nde Yusuf Has Hacip tarafından kaleme alınan Kutadgu Bilig adlı eserde; birbirleriyle sıkı ilişkisi olan fert, cemiyet ve devlet hayatının ideal bir şekilde düzenlenmesi için gerekli olan zihniyetin ne olduğu, bilgi ve faziletlerin neler olduğu ve bunlara nasıl ulaşılacağı ve nasıl kullanılacağı konuları kaleme alınmıştır.

15. C Büyük Selçuklu Devleti'nin kurulması ile birlikte Orta Asya'da yer sıkıntısından dolayı Oğuz Türkleri doğuya göç etmeye başlamışlar ve bu durum Selçukluları güç duruma sokmuştu. Devlet bir taraftan bu göçebelere yer bulmak, diğer taraftan da emniyet ve asayişi temin ederek memleketi ve çiftçileri korumak maksadıyla bu göçü Müslüman olmayan Anadolu topraklarına yöneltmiştir. Ancak Selçuklular Türk İslam dünyasının dini değil siyasi lideri olma amacına sahiptir. Türk İslam dünyasının dini liderliği o dönemde halifeye aittir.

16. B Yönetimde deneyim kazanmaları için sancaklara gönderilen melikler sadece o bölgeyi hükümdar adına yönetme hakkına sahiptir. Öncüllerde verilen diğer uygulamalar merkezi otorite tarafından yerine getirilmiştir.

17. D Türk-İslam devletlerinde gayrimüslimler askerlik ve devlet memuriyetine alınmazlardı.

18. E Türklerin diğer milletleri en çok etkiledikleri ve en az etkilendikleri alan askerliktir. Tümen teşkilatı Mete Han Dönemi'nden beri uygulanan onluk sistem içinde yer alan askeri bir sistemdir.

19. D Gulam sistemi ile gayrimüslimlerden devşirilen gençler devlet hizmetine alınmıştır. Bu durumun ticareti geliştirmekle ilgisi yoktur.

20. D **Kutadgu Bilig:** Yusuf Has Hacip tarafından yazılmıştır. Siyasetname özelliği taşıyan bu eser devlet yönetimi ile ilgili bilgi vermektedir.
Siyasetname: Nizamülmülk tarafından yazılmıştır. Devlet yönetimi ile ilgili bilgi vermektedir.
Divanı Hikmet: Ahmed Yesevi tarafından yazılmıştır. Hz. Peygamberin hayatı anlatılmıştır. İlk tasavvuf edebiyatı eseridir.

MURAT YAYINLARI

İlk Türk İslam Devletleri • TEST 5

1. **Türk İslam tarihinde burslu eğitim sistemini başlatan devlet aşağıdakilerden hangisidir?**

A) Anadolu Selçukluları
B) Karahanlılar
C) Gazneliler
D) Büyük Selçuklular
E) Osmanlılar

2. **Aşağıdakilerden hangisi Türk hükümdarların halifelerden aldıkları unvanlardan biri değildir?**

A) Sultan
B) Ebu'l Feth
C) Doğu'nun ve Batı'nın Sultanı
D) Akşit
E) İlteriş

3. • Pasinler
• Malazgirt

Yukarıdaki savaşlarda yer alan devlet aşağıdakilerden hangisidir?

A) Büyük Selçuklular
B) Karahanlılar
C) Gazneliler
D) Eyyubiler
E) Anadolu Selçukluları

4. **Türk İslam devletlerinden;**

I. Karahanlılar,
II. Akşidiler,
III. Gazneliler

hangilerinin Orta Asya'nın İslamlaşmasına katkı sağladığı söylenebilir?

A) Yalnız I
B) Yalnız II
C) Yalnız III
D) I ve III
E) II ve III

5. **Aşağıdakilerden hangisi Selahaddin Eyyubi' nin İslam dünyasında tanınmasına yol açan gelişmelerden biridir?**

A) Emevi halifesini koruması
B) İslamiyet'i Mısır'a götürmesi
C) Kudüs'ü Haçlılardan geri alması
D) Moğolları durdurması
E) Batınilik tehlikesini yok etmesi

6. **Bağdat'ta yetişen İslam bilim insanlarından olup cebir ve algoritmanın kurucusu kabul edilen düşünür aşağıdakilerden hangisidir?**

A) Farabi
B) Harezmî
C) El-Biruni
D) İbn Rüşt
E) Ömer Hayyam

7. **1171 yılında Fâtımilere son vererek kurulan Türk İslam devleti aşağıdakilerden hangisidir?**

A) Eyyubiler
B) Tolunoğulları
C) İhşidiler
D) Memlükler
E) İlhanlılar

MURAT YAYINLARI

8. **İlk Türk İslam devletlerinde saray mutfağından sorumlu kişiye verilen isim aşağıdakilerden hangisidir?**

A) Emr-i Candar
B) Yuğruş
C) Camedar
D) Emr-i Şikar
E) Hansalar

9. **Türk-İslam devletlerinin saray teşkilatında yer alan aşağıdaki görevlilerden hangisine ait bilgi yanlıştır?**

A) Abdar, hükümdarın temizliği ile ilgilenir.
B) Candar, sarayı korumakla yükümlüdür.
C) Emir-i Ahur, atların bakımıyla ilgilenir.
D) Emir-i Şikar, hükümdarın av işlerini düzenler.
E) Emr-i Mahfil, hükümdarların silahları ile ilgilenir.

10. **Aşağıdaki Türk-İslam devletlerindeki hakimiyet sembollerinden hangisi İslamiyet öncesinde de kullanılmıştır?**

A) Otağ
B) Hilat
C) Menşur
D) Alem
E) Hutbe okutma

11. **963 yılında Samanilerin komutanı Alp Tegin tarafından kurulan Türk İslam devleti aşağıdakilerden hangisidir?**

A) Selçuklular
B) İlhanlılar
C) Babürlüler
D) Gazneliler
E) Memlükler

12. **1370-1507 yılları arasında Özbekistan, Harezm, Horasan ve Irak'a kadar uzanan geniş bir coğrafyaya hakim olan Türk-İslam devleti aşağıdakilerden hangisidir?**

A) Harzemşahlar
B) Timurlular
C) Babürler
D) Karakoyunlular
E) Selçuklular

13. Selçuklu sultanları din ve ırk ayrımı gözetmeden halka toprak dağıtarak boş arazileri değerlendirmişlerdir.

Buna göre Selçuklu sultanlarının;

I. üretimi arttırmak,
II. halkın refahını artırmak,
III. eşitlikçi toplum yapısı oluşturmak

durumlarından hangilerini amaçladıkları söylenebilir?

A) Yalnız I
B) Yalnız II
C) I ve III
D) II ve III
E) I, II ve III

14. **Gulam-ı Saray ordusunun devletten üç ayda bir aldığı maaşa verilen isim aşağıdakilerden hangisidir?**

A) Ulufe
B) İkta
C) Bistegani
D) Has
E) Cizye

MURAT YAYINLARI

/muratyayincilik

15. **Aşağıdakilerden hangisi vakıf toprakları ile ilgili doğru bir bilgi değildir?**

A) Devlet memurlarının maaşlarına karşılık dağıtılmaktadır.
B) Vergiden muaf tutulmuştur.
C) Geliri, sosyal kurumların ihtiyaçları için ayrılmıştır.
D) Eğitim harcamalarını finanse etmektedir.
E) Devletin hazinesine doğrudan bir katkısı yoktur.

16. **Aşağıdaki Türk-İslam şehirlerinden hangisi Timurlularda "Şehirlerin Şahı" unvanını almıştır?**

A) Belh
B) Buhara
C) Semerkant
D) Nişabur
E) Gazne

17. **Aşağıdakilerden hangisi İslam dünyasında pozitif bilimlerin başlatıcısı olarak kabul edilen Farabi'ye ait eserlerden biri değildir?**

A) El-Kanun fi't-Tıb
B) Es-Siyâset el-Medeniyye
C) İhsan'ül Ulûm
D) Kitab'ül Musiki'l Kebir
E) Medinet'ül Fazıla

18. **Aşağıdakilerden hangisi Büyük Selçukluların parçalanması sonucunda ortaya çıkan atabeyliklerden biri değildir?**

A) İldenizliler
B) Salgurlular
C) Zengiler
D) Böriler
E) Tolunoğullar

19. I. Semerkant Medresesi
II. Nizamiye Medresesi
III. Beytülhikme

Yukarıdakilerden hangileri Türk İslam medeniyetine ait eğitim kurumlarındandır?

A) Yalnız I
B) Yalnız II
C) Yalnız III
D) I ve II
E) I, II ve III

20. **Büyük Selçuklularda siyasi suçların ve halk şikayetlerinin görüşülüp karara bağlandığını divan türü aşağıdakilerden hangisidir?**

A) Divan-ı Tuğra
B) Divan-ı İşraf
C) Divan-ı İstifa
D) Divan-ı Mezalim
E) Divan-ı Arz

MURAT YAYINLARI

Açıklamalar • TEST 5

1. **B** Türk-İslam tarihinde burslu eğitim sistemini başlatan devlet Karahanlılardır.

2. **E**
   - **Sultan**, Gazneil Mahmut'a
   - **Ebu'l Feth**, Sultan Alparslan'a
   - **Doğu'nun ve Batı'nın Sultanı**, Tuğrul Bey'e
   - **Akşit**, Muhammed Bin Toğaç'a Abbasi halifeleri tarafından verilen unvanlardır.
   - **İlteriş**, İslamiyet öncesi Türk devletlerinden II. Göktürk Devleti'nin kurucusu Kutluk Kağan'ın unvanıdır.

3. **A** Büyük Selçuklular, Pasinler Savaşı'nı 1048'de Bizans ile, Malazgirt Savaşı'nı ise 1071'de Bizans ile yapmışlardır.

4. **A** Karahanlı Devleti (840-1212) İslamiyeti kabul eden Orta Asya'daki ilk Türk İslam devletidir.
Ancak Orta Asya dışında Afganistan'da kurulan Gazneliler (963-1187) ile Mısır'da kurulan Akşidiler'in (İhşidiler) (935-969) Orta Asya'nın İslamlaşmasına katkısından söz edilemez

5. **C** Selahaddin Eyyubi, Birinci Haçlı Seferi ile kaybedilen Kudüs'ü 1187 Hittin Savaşı ile Haçlı ordularından geri alarak İslam dünyasında kahramanlığı ile ün yapmıştır.

6. **B** Bağdat'ta yetişen İslam bilim insanlarından olup Cebir ve Algoritmanın kurucusu kabul edilen düşünür Harezmi'dir. Harezmi aynı zamanda "sıfır"ı işlemlerde kullanan ilk İslam bilim insanıdır.
Farabi, pozitif bilimlerin kurucusudur ve 2.öğretmen (Muallim-i Sani) olarak kabul edilmiştir.
El Biruni, Gazneliler döneminde yaşamış astronomi ve coğrafya alanlarında ün yapmış İslam bilim insanıdır.
İbn Rüşt, Endülüs Emevileri'nde (İspanya'da) yaşamış mantık alanında çalışmaları ile ün yapmış İslam bilim insanıdır.
Ömer Hayyam, Büyük Selçuklular döneminde edebiyat,matematik ve astronomi alanlarında ün yapmış bilim insanıdır

7. **A** 1171 yılında Fâtımilere son vererek kurulan Türk İslam devleti Eyyubiler'dir. Mısır'da Selahattin Eyyubi tarafından kurulan devlet 1250 yılında Memlükler (1250-1517) tarafından yıkılmıştır.
Tolunoğulları (868-905) ve Akşidiler (935-969), Abbasi Devleti'nde yöneticiyken kurulan iki Türk İslam devletidir.
İlhanlılar (1256-1335) Moğol devletidir.

8. **E** İlk Türk İslam devletlerinde saray mutfağından sorumlu kişiye "Hansalar" adı verilmiştir.
Türk İslam devletlerinde "Emr-i Candar", saray güvenliğini sağlayan görevlidir. "Camedar" hükümdarın terzisidir. "Emr-i Şikar" hükümdarın av törenlerinden sorumlu görevlidir.
Karahanlı Devleti'nde (840-1212) vezirlere "Yuğruş" adı verilmiştir.

9. **E** Emr-i Mahfil, hükümdarın protokolünden sorumlu kişidir. Hükümdarın silahları ile Silahdar ilgilenir.

10. **A** Hutbe okutma, menşur, hilat, alem gibi hakimiyet sembolleri sadece İslamiyet ile görülebilecek olanlardır. Otağ (Saltanat çadırı) İslamiyet öncesinde de var olan bir semboldür.

MURAT YAYINLARI

/muratyayincilik

11. **D** Gazneliler (963-1187) 963 yılında Samanilerin komutanı Alp Tegin tarafından kurulan Türk İslam devletidir. Devletin en parlak devri Gazneli Mahmut dönemidir.
Selçuklular (1040-1157) Tuğrul Bey tarafından kurulmuştur.
Memlükler (1250-1517) Aybeg tarafından kurulmuştur.
Babürlüler (1526-1858) Babür Şah tarafından kurulmuştur.
Moğol devletlerinden biri olan İlhanlılar (1256-1335) Hülagu Han tarafından kurulmuştur.

12. **B** 1370-1507 yılları arasında Özbekistan, Harezm, Horasan ve Irak'a kadar uzanan coğrafya'da hüküm süren Türk İslam devleti Timurlular'dır. Harezemşahlar Harezm'de, Babürler Hindistan'da, Karakoyunlular Doğu Anadolu'da ve Büyük Selçuklu Devlet ise Horasan ve İran'da hüküm sürmüştür.

13. **E** Selçuklu sultanlarının boş toprakları dağıtarak işletilmesini sağlamaları, üretimi ve halkın refahını arttırmayı amaçladıklarını gösterir. Ayrıca din ve ırk ayrımı yapmamaları eşitlikçi toplum yapısı oluşturmaya çalıştıklarının göstergesidir.

14. **C** Bistegani, Gulamanısaray ordusunun devletten üç ayda bir aldığı maaşa verilen isimdir.

15. **A** Devlet memurlarının maaşlarına karşılık dağıtılan toprak birimi, iktadır. Vakıf toprakları, geliri hayır ve eğitim kurumlarına ayrılmış, devlet hazinesine doğrudan katkısı olmayan vergiden muaf topraklardır.

16. **C** **"Şehirlerin Şahı"** unvanını taşıyan Türk İslam şehri Timur Devleti'nin başkenti olan Semerkant'tır.

17. **A** El-Kanun fi't-Tıb (Tıbbın kanunları) isimli eser, İbn-i Sina'ya aittir. Diğer eserler ise Farabi'ye aittir.

18. **E** Büyük Selçukluların (1040-1157) parçalanması sonucunda ortaya çıkan atabeylikler;
Zengiler (Musul ve Halep Atabeyliği),
Salgurlular (Fars Atabeyliği),
Böriler (Şam Atabeyliği),
İldenizliler Atabeyliğidir.(Azerbaycan Atabeyliği)
Tolunoğulları (868-905) ise Abbasi Devleti'nden (750-1258) ayrılarak kurulan Türk İslam devletidir.

19. **D** Semerkant Medresesi (Tamgaç Buğra Han Medresesi) Karahanlılara ait Orta Asya'daki ilk Türk İslam eğitim kurumudur.
Nizamiye Medresesi,Büyük Selçuklulara ait eğitim kurumudur.
Ancak Abbasi Devleti'nin Bağdat'da açtığı Beytülhikme adlı kurum Türk İslam eğitim kurumlarından biri değildir.

20. **D** Büyük Selçuklularda Divan-ı Mezalim, siyasi suçlar ve halk şikayetleri için toplanan divandır.
Divan-ı Tuğra (Divan-ı İnşa), devletin iç ve dış yazışmaların yapıldığı divandır.
Divan-ı İşraf, teftiş veya denetim işlerini üstlenen divandır.
Divan-ı İstifa, mali işlerden sorumlu divandır.
Divan-ı Arz,askeri işlerden sorumlu divandır.

MURAT YAYINLARI

İlk Türk İslam Devletleri • TEST 6

1. • Boylar federasyonu şeklinde örgütlenmişlerdir.
• Ribat adı verilen kervansaraylar inşa etmişlerdir.

Yukarıda özellikleri verilen Türk İslam devleti aşağıdakilerden hangisidir?

A) Büyük Selçuklular
B) Anadolu Selçukluları
C) Gazneliler
D) Karahanlılar
E) Memlükler

2. • Atabeylerin bağımsızlıklarını ilan etmesi
• Katvan Savaşı'nın kaybedilmesi

Bu gelişmeler aşağıdaki Türk-İslam devletlerinden hangisinin yıkılmasına yol açmıştır?

A) Karahanlılar
B) Gazneliler
C) Eyyubiler
D) Büyük Selçuklular
E) Ihşidiler

3. **Aşağıdakilerden hangisi Moğol İmparatorluğu'nun dağılması sonucu ortaya çıkan devletlerden biri değildir?**

A) Çağatay
B) Altın Orda
C) İlhanlı
D) Kubilay
E) Harzemşahlar

4. Oğuz Türkleri tarafından kurulan Büyük Selçuklu Devleti'nin kurulduğu bölge, İran coğrafyası olduğu için Selçuklu beyleri bir müddet sonra İranlı devlet adamlarının ve halkının etkisinde kalmışlardır.

Aşağıdakilerden hangisi bu durumun bir sonucudur?

A) Selçukluların İslam Dünyası'nın siyasi lideri olması
B) Türkmenlerin, devlete karşı ayaklanması
C) Selçukluların, Sasani hakimiyetine girmesi
D) Anadolu fethinin tamamlanması
E) Selçuklu devlet adamlarının başarısız olması

5. **Aşağıdakilerden hangisi Büyük Selçuklu Devleti'nin hükümdarları arasında yer almaz?**

A) Tuğrul Bey
B) Sultan Sencer
C) Sultan Alparslan
D) Sultan Melikşah
E) Sultan Mesut

6. **1040 yılındaki Dandanakan Savaşı'ndan sonra kurulan Türk İslam devleti aşağıdakilerden hangisidir?**

A) Selçuklular
B) Karahanlılar
C) Harzemşahlar
D) Gazneliler
E) Ihşidiler

MURAT YAYINLARI

/muratyayincilik

7. **Selçuklularda;**

I. müstevfi,
II. şıhne,
III. muhtesip

görevlilerinden hangilerinin taşra teşkilatı içerisinde yer aldığı söylenebilir?

A) Yalnız I
B) Yalnız II
C) Yalnız III
D) II ve III
E) I, II ve III

8. **1526-1858 yılları arasında Hindistan; Pakistan ve Afganistan'da hüküm süren ve İngilizler tarafından son verilen Türk devleti aşağıdakilerden hangisidir?**

A) Delhi Sultanlığı
B) Karakoyunlular
C) Babürler
D) Gazneliler
E) Safeviler

9. **Büyük Selçuklular Dönemi'nde;**

I. taşrada yönetici sayısının arttırılması,
II. meliklere kendi adlarına para basma izninin verilmemesi,
III. Batınilerle mücadele edilmesi

durumlarından hangilerinin, merkezi otoriteyi arttırmak için alınan önlemlerden olduğu söylenebilir?

A) Yalnız II
B) Yalnız III
C) I ve II
D) I ve III
E) I, II ve III

10. **Türk-İslam devletlerinde şeri ve örfi vergilerin hazinede toplanmasını sağlayan divan aşağıdakilerden hangisidir?**

A) Divan-ı Saltanat
B) Divan-ı İnşa
C) Divan-ı İstifa
D) Divan-ı Mezalim
E) Divan-ı İşraf

11. **Aşağıdakilerden hangisi Türk İslam devletlerinde uygulanan ikta sisteminin faydaları arasında yer almaz?**

A) Asker ihtiyacının karşılanması
B) Devlet otoritesinin güçlenmesi
C) Taşrada güvenliğin sağlanması
D) Üretimde sürekliliğin sağlanması
E) Hazine giderlerinin artması

12. I. Aşar
II. Cizye
III. Haraç

Yukarıdakilerden hangileri Türk İslam devletlerinde İslamiyet'e geçişle birlikte alınmaya başlanan vergilerdendir?

A) Yalnız I
B) Yalnız II
C) Yalnız III
D) I ve III
E) I, II ve III

13. I. Gazneliler
II. Selçuklular
III. Karahanlılar

Yukarıdaki Türk İslam devletlerinden hangilerinde resmi dilin Farsça olduğu söylenebilir?

A) Yalnız I
B) Yalnız II
C) Yalnız III
D) I ve II
E) I, II ve III

MURAT YAYINLARI

14. **Aşağıdakilerden hangisi Türk-İslam devletlerinde ordu teşkilatı ve özellikleri ile ilgili doğru bir bilgi değildir?**

A) Ordunun asker ihtiyacının karşılanmasında gulam sistemi de etkili olmuştur.
B) Merkezi bir ordu oluşturulmuştur.
C) Turan taktiği uygulanmıştır.
D) Ordunun bir kısmına maaş yerine toprak geliri bırakılmıştır.
E) İslamiyet'le birlikte savaşçı özellikler kaybedilmiştir.

15. **Türk-İslam devletlerinde belediye işlerini yürüten ve çarşı pazar denetimini sağlayan görevli aşağıdakilerden hangisidir?**

A) Muhtesip
B) Emr-i Dad
C) Kadı
D) Camedar
E) Ulak

16. **Aşağıdaki Türk-İslam düşünürlerinden hangisi devlet konusundaki yaklaşımlarını açıklayarak, ilk kez "Birleşmiş Milletler" idealini ortaya koymuştur?**

A) Gazali
B) İbn Sina
C) İbn-i Haldun
D) Farabi
E) İbn Rüşt

17. Nizamülmülk, Selçuklu Tarihi'nin en ünlü veziri olmanın yanı sıra Nizamiye adını verdiği medreseleri açmış ve Selçuklu anayasası olarak tasavvur edilen "Siyasetname" isimli eseri yazmıştır.

Aşağıdakilerden hangisi bu paragrafı en iyi açıklamaktadır?

A) Nizamülmülk çok yönlü bir devlet adamıdır.
B) Nizamülmülk, eğitime önem vermiştir.
C) Selçuklularda ilk medrese, Nizamülmülk döneminde açılmıştır.
D) "Siyasetname" ile padişaha öğütler vermiştir.
E) Selçukluların ilk veziri Nizamülmülk'tür.

18. **Aşağıdakilerden hangisi Karahanlılar ile Uygurların arasındaki ortak özelliklerden biri değildir?**

A) Orta Asya'da hakimiyet kurmuşlardır.
B) İkili teşkilatlanmaya yer vermişlerdir.
C) Yazılı edebiyat ürünleri bırakmışlardır.
D) Boylar birliği halinde örgütlenmişlerdir.
E) Gaza ve cihat anlayışını benimsemişlerdir.

19. I. Ribat
II. Kervansaray
III. Bedesten

Yukarıdaki mimari yapılardan hangileri Türk İslam devletlerinde ticaretin gelişmesine katkı sağlamıştır?

A) Yalnız I B) Yalnız II C) Yalnız III
D) II ve III E) I, II ve III

20. **Harzemşah Devleti'nde;**

I. veraset sistemi,
II. kadılık makamı,
III. kut anlayışı

unsurlarından hangilerinin İslamiyet etkisi ile ortaya çıktığı savunulabilir?

A) Yalnız I
B) Yalnız II
C) Yalnız III
D) I ve III
E) II ve III

MURAT YAYINLARI

/muratyayincilik

Açıklamalar • TEST 6

1. **D** Karahanlılar Karluk, Yağma ve Çiğil boylarının birleşmesiyle federasyon şeklinde örgütlenmişlerdir. Ayrıca ribat adı verilen ilk kervansarayları inşa etmişlerdir.

2. **D** Melikşah'ın ölümünden sonra atabeyliklerin kurulması, Karahitaylarla yapılan 1141 Katvan Savaşı'nın kaybedilmesi Büyük Selçukluların yıkılmasına neden olmuştur.

3. **E** Cengiz Han'ın 1227'deki ölümü sonrası Çin'de Kubilay, Türkistan'da Çağatay, İran'da İlhanlı ve Kafkasya'da Altınorda devletleri kurulmuştur. Harzemşahlar ise 1077'de Büyük Selçuklu Devleti'ne bağlı olarak kurulmuş ancak Selçukluların 1141 Katvan Savaşı'nda Karahitaylılara yenilmesi sonucunda Harzemşahlar bağımsız hareket etmeye başlamıştır.

4. **B** Selçuklu yönetiminin İranlılara önem vermesi devletin asıl unsuru olan Türkmenlerin devlete küsmesine ve devlete karşı ayaklanmalarına neden olmuştur.

5. **E** Sultan Mesut, 1031-1041 yılları arasında hüküm süren Gazneli sultanıdır.

6. **A** Tuğrul ve Çağrı Beylerin Gazneliler karşısında kazandığı 1040 yılındaki Dandanakan Savaşı'ndan sonra kurulan Türk İslam devleti Büyük Selçuklular'dır.
Karahanlılar 840 yılında, İhşiler 935 yılında, Gazneliler 963 yılında ve Harzemşahlar 1097 yılında kurulan Türk İslam devletleridir.

7. **D** Türk İslam devletlerinde yönetim merkezi ve taşra (eyalet) teşkilatı olarak ikiye ayrılmıştır.
Mali işlerden sorumlu müstevfi merkezi teşkilat içerisinde yer alan görevlilerdendir.
Askeri vali olan "şıhne" ile belediye işlerinden ve çarşı esnaf denetiminden sorumlu "muhtesip" ise taşra teşklilatında yer alan görevlilerdendir.

8. **C** 1526-1858 yılları arasında Hindistan'da hüküm süren Babürlere bölgeyi ele geçiren İngilizler son vermiştir.

9. **E** Büyük Selçukluların taşraya gönderdikleri yönetici sayısını arttırmalarının sebebi en küçük birimlere kadar devletin otoritesini yayma istekleridir. Ayrıca valilik için gönderdikleri meliklere de para basma izni vermemişlerdir. Çünkü para basma, bağımsızlık sembolüdür.
Devlet düzenine karşı çıkan Batınilerin yok edilmek istenmesi de merkezi otoriteyi artırma çabasıdır.

10. **C** Türk-İslam devletlerinde hazineyi kontrol eden divan kolu, Divan-ı İstifa'dır.

11. **E** İkta sisteminde taşra ordusunun giderleri topraktan karşıladığı için devlet giderlerinin artması söz konusu değidir.

12. **E** Aşar ve Haraç, ürün üzerinden Müslümanlardan ve gayrimüslimlerden alınan vergilerdir. Cizye ise gayrimüslimlerden askerlik yapmadıkları için alınan vergilerdir. Bu vergilerin hepsi İslami vergilerdir.

13. **D** Gazneliler ve Selçuklularda Farsça resmi dil olmuştur. Karahanlılarda Türkçe resmi dildir.

14. **E** Türklere savaşçı özelliklerini kaybettiren inanç Maniheizm'dir. İslamiyet'teki gaza ve cihad anlayışı Türk fetihlerinin ateşleyici özelliği olacaktır.

15. **A** Muhtesip, Türk-İslam devletlerinde zabıta işlerini kontrol eden, çarşı ve pazar denetimi sağlayan görevlidir.

16. **D** Farabi, Birleşmiş Milletler mantığını ilk olarak ortaya atan Türk-İslam düşünürü olarak bilinmektedir.

17. **A** Nizamülmülk'ün, siyasi kişiliğinin yanı sıra eğitime verdiği önemden de bahsedilerek onun çok yönlü bir devlet adamı olduğu vurgulanmak istenmiştir.

18. **E** Gaza ve cihat anlayışı İslamiyet ile kazanılan bir kavram olduğu için Karahanlılar ile Uygurlar arasında ortak özelliklerden biri olamaz. Çünkü Uygurlar Maniheizm ve Budizmi benimseyen Türk devletidir ancak Karahanlılar İslamiyete inanan Türk devletidir.
Diğer seçeneklerde verilenler her iki devletin ortak yönünü oluşturmuştur.

19. **E** Ribat büyük kervansaraylara verilen isimdir. Bedesten ise içinde alışveriş yapılan kubbeli çarşı yapılarıdır. Her üç yapının da öncelikli olarak yapılma amacı ticareti geliştirmektir.

20. **B** Harzemşah Devleti 1097-1231 yılları arasında hüküm süren Türk İslam devletlerinden biridir.
Kadılık makamı İslam devletlerinden Türklere geçen bir makamdır. Ancak tahta çıkma usulü olan veraset sistemi ve kut anlayışı İslamiyet öncesi Türklerden beri var olan kavramlardır

MURAT YAYINLARI

Türkiye Tarihi • TEST 7

1. Malazgirt Savaşı'ndan sonra bu savaşta yararlılık gösteren komutanlar, Anadolu'nun fethiyle görevlendirilmiştir.

Aşağıdakilerden hangisi bu durumun sağladığı yararlardan biridir?

A) Devletin uzun ömürlü olması
B) Taht kavgalarına ortam hazırlaması
C) Fetihlerin hızlanması, devletin sınırlarının genişlemesi
D) Merkezi yönetimde İranlıların önem kazanması
E) Ülkenin hanedan üyeleri arasında paylaşılması

2. **Selçuklular Dönemi'nde** "debbağların piri" **olarak bilinen ve mensubu olduğu teşkilatın kuruluş felsefesini Letaif-i Hikmet adlı eserinde anlatan Türk mutasavvıf aşağıdakilerden hangisidir?**

A) Mevlana
B) Ahi Evran
C) Yunus Emre
D) Ahmet Yesevi
E) Aşık Paşa

3. Anadolu Selçuklu Devleti 1243'de yapılan Kösedağ Savaşı'nda, Moğollara yenilmiş ve 1249 yılında Anadolu Selçuklu tahtına geçen II. İzzettin Keykavus, diğer iki kardeşiyle birlikte artan taht kavgalarının önüne geçmek için "üçlü ortak idare"yi kurmuştur. Moğollar da, Anadolu Selçuklu Devleti'nin tekrar güçlenmesini engellemek için bu idareyi onaylamışlardır.

Bu bilgiye dayanarak;

I. Anadolu Selçuklu Devleti, siyasi olarak Moğollara tabi olmuştur.
II. İslamiyet öncesi Türk devletlerine benzer bir yönetim sistemi kurulmuştur.
III. Anadolu Selçuklu Devleti, Kösedağ Savaşı'ndan sonra yükselme sürecine girmiştir.

yargılarından hangilerine ulaşılabilir?

A) Yalnız I
B) Yalnız II
C) Yalnız III
D) I ve II
E) II ve III

4. I. Karesioğulları
II. Candaroğulları
III. Pervaneoğulları

Yukarıdaki Anadolu beyliklerinden hangileri denizcilikle uğraşmışlardır?

A) Yalnız I
B) Yalnız II
C) Yalnız III
D) I ve II
E) I, II ve III

5. I. Medreselerin olmadığı yerlerde alternatif eğitim vermişlerdir.
II. Anadolu'nun İslamlaşmasını sağlamışlardır.
III. Göçebe Türkmen boylarının sorunsuz bir biçimde yaşamasını sağlamışlardır.

Yukarıdakilerden hangileri Anadolu'da faaliyet gösteren tarikatların özelliklerindendir?

A) Yalnız I
B) Yalnız II
C) Yalnız III
D) II ve III
E) I, II ve III

6. I. Tolunoğlu Ahmet Camii
II. Nizamiye Medresesi
III. Koca Hasan Medresesi

Yukarıdakilerden hangileri Anadolu'da yapılmış eserler arasında yer alır?

A) Yalnız I
B) Yalnız II
C) Yalnız III
D) I ve III
E) II ve III

MURAT YAYINLARI

/muratyayincilik

7. **Türkiye Selçuklu Devleti Dönemi'ne ait mimari yapıların süslemelerinde;**

I. çift başlı kartal,

II. geometrik desenler,

III. bitki motifleri

unsurlarından hangileri kullanılmıştır?

A) Yalnız I
B) Yalnız II
C) Yalnız III
D) I ve III
E) I, II ve III

8. **Aşağıdakilerden hangisi Anadolu'nun en eski medresesi olma özelliğine sahiptir?**

A) Konya Karatay Medresesi
B) Mardin Zinciriye Medresesi
C) Tokat Yağıbasan Medresesi
D) Erzurum Çifte Medrese
E) Kayseri Huand Hatun Medresesi

9. **Aşağıdaki gelişmelerden hangisi Anadolu'daki Türkleştirme ve İslamlaştırma çabalarından değildir?**

A) Malazgirt Savaşı'ndan sonra Türkmen beylerinin Anadolu'ya gönderilmesi
B) Selçuklu Sultanı Melikşah'ın, Kutalmışoğlu Süleymanşah'ı Anadolu'ya göndermesi
C) Anadolu Selçuklu Devleti'nin, Saltukluları hakimiyet altına alması
D) Anadolu Selçuklularının, Anadolu'daki Müslüman olmayan halka karşı uyguladığı anlayış politikası
E) Moğollardan kaçan Türkmen boylarının Anadolu'da uç bölgelere yerleştirilmesi

10. **Aşağıdakilerden hangisi Anadolu Selçuklu Devleti'nin yıkılmasında etkili olan faktörlerden değildir?**

A) Kösedağ Savaşı
B) Babailer İsyanı
C) Moğol İstilası
D) I. Haçlı Seferi
E) Taht Kavgaları

11. **XIV. yüzyılda Anadolu'ya gelen ve gözlemlerini "Rıhle" adlı eserinde anlatan ünlü İslam seyyahı aşağıdakilerden hangisidir?**

A) Caca Bey
B) İbn Batuta
C) El-Cezeri
D) İbn Bibi
E) El-Biruni

12. **Aşağıdaki eserlerden hangisi Anadolu Selçuklu Devleti'ne ait değildir?**

A) Niğde Alaaddin Camii
B) İzzeddin Keykavus Medresesi
C) Karatay Medresesi
D) İznik Yeşil Camii
E) Kubadabat Sarayı

13. **I. Beylikler Dönemi'nde merkez yapılan şehirler arasında aşağıdakilerden hangisi yer almaz?**

A) İzmir
B) Bursa
C) Sivas
D) Mardin
E) Erzurum

MURAT YAYINLARI

14. **Türkiye Selçuklularının;**

I. ikta sisteminin uygulanması,

II. tersanelerin kurulması,

III. sigortacılık sisteminin oluşturulması

özelliklerinden hangileri ticaretin gelişmesine zemin hazırlamıştır?

A) Yalnız I
B) Yalnız II
C) Yalnız III
D) II ve III
E) I, II ve III

15. **Kırşehir'de kurduğu rasathane ile astronomi çalışmalarına öncülük eden bilim insanı aşağıdakilerden hangisidir?**

A) Caca Bey
B) Ömer Hayyam
C) Revandi
D) Sadrettin Konevi
E) El Cezeri

16. **Kösedağ Savaşı'ndan (1243) sonra Balıkesir ve Çanakkale yöresinde kurulan beylik aşağıdakilerden hangisidir?**

A) Canikoğulları
B) Tekeoğulları
C) Karesioğulları
D) Dulkadiroğulları
E) Osmanoğulları

17. **Türkiye Selçuklularına ait eser ve yazar eşleştirmelerinden hangisi yanlış verilmiştir?**

	Eser	Yazar
A)	Letaif-i Hikmet	Ahi Evran
B)	Garipname	Aşık Paşa
C)	Divan	Yunus Emre
D)	Mesnevi	Celalettin-i Rumi
E)	Felekname	Hacı Bektaş-ı Veli

18. **Türkiye Selçuklu hükümdarı I.Kılıç Arslan'nın başkenti İznik'ten Konya'ya taşımasına neden olan gelişme aşağıdakilerden hangisidir?**

A) Malazgirt Savaşı
B) Haşhaşilik Hareketi
C) I. Haçlı Seferi
D) Kösedağ Savaşı
E) Babailik isyanı

19. **Türkiye Selçuklu Devleti'nde kullanılan hükümdarlık sembolleri arasında aşağıdakilerden hangisi yer almaz?**

A) Asa
B) Taht
C) Ok
D) Tuğra
E) Çetr

20. **Aşağıdakilerden hangisi Anadolu'daki Türk-İslam mimari örnekleri arasında yer almaz?**

A) Yağıbasan Medresesi
B) Üç Kümbetler
C) Malabadi Köprüsü
D) Gök Medrese
E) Zafer Kuleleri

MURAT YAYINLARI

/muratyayincilik

Açıklamalar • TEST 7

1. **C** Anadolu'ya giren komutanlar, yaptıkları fetihler ve kurdukları beyliklerle devletin sınırlarının genişlemesini sağlamışlardır.

2. **B** XIII. yüzyılda Anadolu'da Ahi teşkilatını kuran, debbağların (deri işlemeciliği) piri olarak adlandırılan ve ahiliğin felsefesini Letaif-i Hikmet adlı eserinde anlatan Türk mutasavvıf Ahi Evran'dır.

3. **D** II. İzzeddin Keykavus'un kurduğu sistem, İslamiyet öncesi dönemdeki ikili teşkilata benzemektedir. Ayrıca uygulanan bu sistem için Moğollardan onay alınması, Moğollara tabi olunduğunun göstergesidir. Selçuklular bu savaş sonrası dağılma sürecine girmiştir.

4. **E** Karesioğulları, Osmanlı donanmasının temelini oluşturacak olan donanmaya sahiptir. Candaroğulları Kastamonu, Pervaneoğulları ise Sinop civarında kurulmuş ve denizcilikle uğraşmışlardır.

5. **E** Anadolu tarikatları, göçebe Türkmen boylarının yerleşiklere bir sorun yaratmadan yaşamasını, onların eğitim ihtiyacını gidermeyi ve Anadolu'nun İslamlaşmasını sağlamışlardır.

6. **C** Tolunoğlu Ahmet Camii, Mısır'da; Nizamiye Medresesi Bağdat'ta; Koca Hasan Medresesi ise Anadolu'dadır.

7. **E** Türkiye Selçuklu Devleti'ne ait mimari yapılarda bitki motifleri ve geometrik desenler yanında diğer Türk İslam devletlerinden farklı olarak hayvan başları ve devletin sembolü olan çift başlı kartal figürü de süslemelerde kullanılmıştır.

8. **C** Tokat Yağıbasan Medresesi, Danişmentlilere ait olup Anadolu'da yapılmış en eski medresedir.

9. **C** Anadolu Selçuklu Devleti'nin, Saltukluları hakimiyetine alması bir Türkleştirme ve İslamlaştırma çabası değil, Anadolu Türk birliğini sağlama çabasıdır.

10. **D** I. Haçlı Seferi 1096'da Anadolu üzerinden gerçekleşmiş bu seferde Haçlılarla yaptığı savaşı kaybeden Selçuklu Sultanı I. Kılıçarslan devletin başkentini İznik'ten Konya'ya taşımıştır. Anadolu Selçuklu Devleti'nin Yükselme Dönemi (1092-1237) içerisinde yaşadığı bu gelişmenin devletin dağılmasında etkili olduğu söylenemez.

MURAT YAYINLARI

11. **B** XIV. yüzyılda Anadolu'ya gelen ve gözlemlerini "Rıhle" adlı eserinde anlatan Orta Çağ'ın meşhur İslam seyyahı İbn Batuta'dır.

12. **D** İznik Yeşil Camii, Osmanlı erken dönem eseridir. Anadolu Selçuklu'ya ait değildir. Diğer seçeneklerde verilen eserler Anadolu Selçuklu mimari örneklerindendir.

13. **B** 1071 Malazgirt Meydan Muharebesi'nden sonra Anadolu'da I. Beylikler Dönemi başlamıştır.
İzmir, Çaka Beyliği'nin merkezidir.
Sivas, Danişmentliler'in merkezidir.
Mardin, Artuklular'ın merkezidir.
Erzurum, Saltuklar'ın merkezidir.
Bursa ise I. Beylikler Dönemi'nde merkez olan şehirlerden biri değildir. Bursa şehri,Osmanlı Devleti'nin 1326 yılında Orhan Bey tarafından fethedilenmiştir.

14. **D** Türkiye Selçuklularında ticaretin geliştirilmesi için Sinop ve Alanya gibi şehirlerde tersaneler (gemi yapım ve bakım yeri) inşa edilmiştir. Ayrıca devlet sigortacılık sistemini kurarak tüccarların mallarını garanti altına almıştır.
Ancak tarıma dayalı asker yetiştirme sistemi olan ikta sisteminin ticareti geliştirmek ile bir bağlantısı yoktur.

15. **A** Caca Bey, Türkiye Selçuklularında Kırşehir'de kurduğu rasathane ile astronomi çalışmalarına öncülük eden bilim insanıdır.
Revandi, Türkiye Selçuklularında tarih alanında çalışmaları olan düşünürdür.
Sadrettin Konevi, Türkiye Selçuklular döneminde yaşamıştır ve Ekberilik tarikatının kurucusudur.
El-Cezeri, Artuklular döneminde yaşamıştır ve robot biliminin (sibernetik) kurucusudur.
Ömer Hayyam, Büyük Selçuklularda döneminde yaşamış düşünürledendir.

16. **C** 1243 yılında Kösedağ Savaşı'nı Türkiye Selçukluları Moğollar karşısında kaybetmiş ve Anadolu'da Moğol istilası başlamıştır.
Kösedağ Savaşı'ndan sonra Anadolu'da beylikler kurulmasıyla birlikte II. Beylikler Dönemi başlamıştır.
Balıkesir ve Çanakkale yöresinde kurulan beylik Karesioğulları'dır.
Samsun civarında "Canikoğulları", Antalya civarında "Tekeoğulları", Maraş civarında "Dulkadiroğulları" ve Söğüt civarında Osmanoğulları kurulmuştur.

17. **E** Türkiye Selçuklularına ait eser ve yazar eşleştirmelerinden "Felekname-Hacı Bektaş Veli" eşleştirmesi yanlış verilmiştir.
Felekname adlı eser Gülşehri'ne ait eserdir.
Veleyatname ve Makalat adlı eserler, Hacı Bektaş Veli'ye aittir.

18. **C** I. Haçlı Seferi (1096-1099) nedeniyle Türkiye Selçuklu hükümdarı I.Kılıç Arslan 1097 yılında başkenti İznik'ten Konya'ya taşımıştır.
Babailik İsyanı, 1240 yılında Anadolu'da çıkan dini nitelikli ilk ayaklanmadır.
Kösedağ Savaşı, 1243 yılında Moğolların Anadolu istilasına neden olan savaştır.
Malazgirt Savaşı, 1071 yılında Anadolu kapılarının Türk İslam'a açılmasına neden olan savaştır.
Haşhaşilik İsyanı, Büyük Selçuklular Dönemi'nde 11.yüzyılda Hasan Sabbah tarafından ortaya çıkarılan Batınilik isyanıdır.

19. **C** Türk İslam devletlerinde ve Türkiye Selçuklu Devleti'nde kullanılan hükümdar sembolleri arasında "ok" yer almaz.
Asa, taht, tuğra ve çetr (saltanat şemşiyesi) Türk İslam devletlerinde ve Türkiye Selçuklu Devleti'nde kullanılan hükümdar sembollerindendir.

20. **E** Yağıbasan Medresesi, Danişmentlilere aittir ve günümüzde Tokat'dadır.
Üç Kümbetler, Saltuklulara aittir ve günümüzde Erzurum'dadır.
Malabadi Köprüsü, Artuklulara aittir ve günümüzde Diyarbakır'dadır.
Gök Medresesi, Türkiye Selçuklularına aittir ve günümüzde Sivas'tadır.
Ancak Gaznelilere ait olan Zafer Kuleleri Afganistan'dadır.

MURAT YAYINLARI

Türkiye Tarihi • TEST 8

1. **Türkiye Selçuklu Devleti'nde farklı milletlerden seçilen kölelerin devşirilip asker yapılması aşağıdakilerden hangisi ile ilgilidir?**

A) Gulam
B) Ahi
C) Vakıf
D) Fütüvvet
E) İkta

2. **Anadolu'da I. Beylikler Dönemi aşağıdaki savaşlardan hangisi ile başlamıştır?**

A) Miryokefalon
B) Dandanakan
C) Yassı Çemen
D) Malazgirt
E) Kösedağ

3. **Türkiye Selçuklularda iç ve dış yazışma işleri ile ilgili konulardan sorumlu kurum aşağıdakilerden hangisidir?**

A) Divan-ı Mezalim
B) Divan-ı Arz-ı Ceyş
C) Divan-ı İşraf
D) Divan-ı Berid
E) Divan-ı Tuğra

4. **Denizli yöresinde kurulan Anadolu Beyliği aşağıdakilerden hangisidir?**

A) Taceddinoğulları
B) Canikoğulları
C) Dulkadiroğulları
D) Hamitoğulları
E) Ladikoğulları

5. **Türkiye Selçuklularında;**

I. medreselerin inşa edilmesi,
II. sigortacılık sisteminin getirilmesi,
III. liman şehirlerinin kurulması

unsurlarından hangileri ticaretin gelişmesine zemin hazırlamıştır?

A) Yalnız I B) Yalnız II C) Yalnız III
D) II ve III E) I, II ve III

6. **Selçuklularda taşra yönetim birimlerinin sıralaması aşağıdakilerden hangisinde doğru verilmiştir?**

A) Eyalet-Sancak-Kaza-Köy
B) Eyalet-Kaza-Sancak-Köy
C) Sancak-Eyalet-Kaza-Köy
D) Sancak-Kaza-Eyalet-Köy
E) Kaza-Eyalet-Sancak-Köy

7. **Türkiye Selçuklu Devleti'nin son hükümdarı aşağıdakilerden hangisidir?**

A) II. Mesut
B) IV. Kılıç Arslan
C) II. Gıyasettin Keyhüsrev
D) I. İzzettin Keykavus
E) Rüknettin Süleyman Şah

MURAT YAYINLARI

8. **Kösedağ Savaşı'ndan sonra Kütahya yöresi ve civarında kurulan beylik aşağıdakilerden hangisidir?**

A) Germiyanoğluları
B) Hamitoğulları
C) Menteşeoğulları
D) Osmanoğulları
E) Canikoğulları

9. **13. yüzyılda Anadolu'ya gelen ve bu coğrafyadan "Türkiye" adıyla söz eden İtalyan seyyah aşağıdakilerden hangisidir?**

A) Martin Luther
B) Macellan
C) Galileo
D) Kristof Kolomb
E) Marco Polo

10. **Anadolu'daki;**

I. denizcilik,
II. bayındırlık,
III. iskan

hangileri Türkiye Selçuklularının faaliyetleri arasında yer almıştır?

A) Yalnız I B) Yalnız II C) Yalnız III
D) I ve II E) I, II ve III

11. 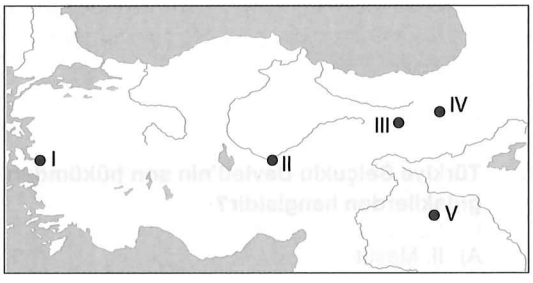

Çaka Beyliği yukarıdaki haritada hangi numara ile gösterilmiştir?

A) I B) II C) III D) IV E) V

12. **Aşağıdakilerden hangisi Haçlı Seferleri'nin sonuçlarından biridir?**

A) Kağıt ve matbaanın Avrupa'ya taşınması
B) Danişmentlilerin yıkılması
C) Akdeniz limanlarının önemini kaybetmesi
D) Kiliseye olan güvenin artması
E) Anadolu'da II. Beyliklerin kurulması

13. **Anadolu'da Moğol istilası aşağıdakilerden hangisi ile başlamıştır?**

A) Haçlı Seferleri
B) Kösedağ Savaşı
C) Miryokefalon Savaşı
D) Yassı Çemen Savaşı
E) Malazgirt Savaşı

14. **I. Haçlı Seferi sonucunda Anadolu;**

I. İznik,
II. Urfa,
III. Antakya

şehirlerinden hangileri Haçlıların eline geçmiştir?

A) Yalnız I
B) Yalnız II
C) Yalnız III
D) I ve II
E) I, II ve III

MURAT YAYINLARI

/muratyayincilik

15. **Türkiye Selçuklu Devleti'nde bütün devlet işlerinin karara bağlandığı,en yüksek yönetim divan aşağıdakilerden hangisidir?**

A) Divan-ı Pervane
B) Divan-ı Berid
C) Divan-ı Tuğra
D) Divan-ı Âla
E) Divan-ı Arz

16. **"Felekname" adlı eserin yazarı Anadolu düşünürü aşağıdakilerden hangidir?**

A) Aşık Paşa
B) Sadreddin Konevi
C) Gülşehri
D) Mevlana
E) Hacı Paşa

17. **Aşağıdakilerden hangisi Türkiye Selçuklu hükümdarlarından biri değildir?**

A) Süleyman Şah
B) II. Kılıç Arslan
C) Gıyaseddin Keyhüsrev
D) Alaeddin Keykubat
E) Sultan Sencer

18. **Kösedağ Savaşı'ndan sonra Malatya ve Maraş yöresine hakim olan Anadolu beyliği aşağıdakilerden hangisidir?**

A) Dulkadiroğulları
B) Germiyanoğulları
C) Osmanoğulları
D) Karesioğulları
E) Menteşeoğulları

19. **Türkiye Selçuklularının;**

I. Eyyubiler,
II. Harzemşahlar,
III. İlhanlılar

devletlerinden hangileri ile çağdaş olduğu söylenebilir?

A) Yalnız I
B) Yalnız II
C) Yalnız III
D) I ve II
E) I, II ve III

20. **Aşağıdakilerden hangisi Türkiye Selçuklularında kullanılan hükümdarlık sembollerinden biri değildir?**

A) Hutbe
B) Yuğruş
C) Ferman
D) Yüzük
E) Kılıç

MURAT YAYINLARI

Açıklamalar • TEST 8

1. **A** Türkiye Selçuklu Devleti'nde farklı milletlerden seçilen kölelerin devşirilip asker yapılması "Gulam Sistemi" ile ilgilidir.
Gulamhanelerde devşirilen bu kişiler merkezi ordu mensupları arasında yer almış ve bistegani adı verilen maaş almıştır.
Fütüvvet Abbasilerdeki esnaf ve zanaatkar birliğidir. Ahi Evran'ın liderliğinde Anadolu'da kurulan "ahi teşkilatı" fütüvvet teşkilatını örnek almıştır.
İkta sistemi, tarıma dayalı asker yetiştirme sistemidir. Bu ordu mensuplarına ikta askerleri veya cebelü ordusu adı verilmiştir. Taşrada oluşturulan bu ordu ücretsiz atlı birliklerdir.
Vakıf, Türk İslam devletlerinde cami,medrese,-tekke, zaviye, kervansaray, imaret (aşevi), darüşşifa gibi mimari yapıların giderleri için oluşturulan kurumlardır.

2. **D** Büyük Selçukluların Bizans İmparatorluğu karşısında kazandığı Malazgirt Meydan Muharebesi'nden (26 Ağustos 1071) sonra Anadolu'da I. Beylikler Dönemi başlamıştır.
Anadolu'da II. Beylikler Dönemi ise Kösedağ Savaşı'ndan sonra başlamıştır.

3. **E** Divan-ı Tuğra,Türkiye Selçuklularda iç ve dış yazışma işlerle ile ilgili konulardan sorumlu kurumdur. Divan-ı Tuğra'nın temsilcisi Tuğracı'dır. (Münşi)

4. **E** Denizli yöresinde kurulan beylik Ladikoğulları'dır.

5. **D** Türkiye Selçukluları ticaretin geliştirilmesi için ülkede kervansaraylar inşa etmiş, özellikle yabancı tüccarların güvenli bir şekilde ticaretle uğraşmaları için sigortacılık sistemini getirmiş ve Alanya-Sinop gibi önemli liman şehirleri kurmuşlardır. Ancak medreselerin inşası ticaretle değil eğitimle ilgili bir özelliktir.

6. **A** Türk İslam devletlerinde ve Anadolu Selçuklularında taşra teşkilatı incelendiğinde sırasıyla; eyalet, sancak, kaza ve köy birimlerinin kurulduğu görülmektedir.

MURAT YAYINLARI

7. **A** Türkiye Selçuklu Devleti'nin son hükümdarı II. Mesut'tur.

8. **A** Kösedağ Savaşı'ndan (1243) sonra Kütahya yöresi ve civarında kurulan beylik Germiyanoğulları'dır.

9. **E** Marco Polo, 13. yüzyılda yaşamış İtalyan seyyahtır. Anadolu'ya gelen ve bu coğrafyadan Türkiye adıyla söz eden seyyahtır.

10. **E** Türkiye Selçukluları önemli limanları ele geçirerek bir deniz devleti olmuştur.
Uyguladıkları bayındırlık ve iskan faaliyetleri sayesinde de Anadolu'nun Türk İslamlaşma süreci hızlanmıştır.

/muratyayincilik

11. **A** 1081 yılında İzmir yöresinde kurulan Çaka Beyliği, Türk denizliğinin temellerini atan beyliktir. Sorudaki haritada 1 numara ile gösterilen yer İzmir'dir ve burası Çaka Beyliği'nin kurulduğu şehirdir.

12. **A** 1096-1270 arasında Hristiyan dünyasının Anadolu ve Orta Doğu coğrafyasına düzenlediği Haçlı Seferleri bu coğrafyalarda büyük bir tahribata yol açmıştır.
Haçlılar düzenlemiş oldukları 8 Haçlı Seferi'nden sadece I. Haçlı Seferi'ni kazanmışlardır. Başarısızlıkları Avrupa'da kiliseye olan güveninin azalmasına yol açmıştır.
Bu seferler sonucunda Akdeniz ticaretinin önemi artmış ve Türk İslam tarafından kullanılan kağıt, matbaa, barut ve pusula Avrupalılar tarafından öğrenilip Avrupa'ya taşınmıştır.
Danişmentlilere son veren Haçlı Seferleri değil Türkiye Selçuklular'dır.
Anadolu'da II. Beyliklerin kurulması Haçlı Seferleri değil Kösedağ Savaşı (1243) sonucunda gerçekleşmştir.

13. **B** Türkiye Selçukluları ile Moğollar arasında gerçekleşen Kösedağ Savaşı (1243) sonucunda Anadolu'da Moğol istilası başlamıştır. Savaş sonucunda Türkiye Selçukluları yıkılması sürecine girmiş ve Anadolu'da II. Beylikler Dönemi başlamıştır.

14. **E** I. Haçlı Seferi (1096-1099) sonucunda Anadolu'da İznik, Urfa ve Antakya şehirleri Haçlıların eline geçmiştir ve ilk Haçlı kontluğu Anadolu'da Urfa şehrinde kurulmuştur.

15. **D** Türkiye Selçuklu Devleti'nde bütün devlet işlerinin karara bağlandığı, en yüksek yönetim organı "Divan-ı Âla"dır.

16. **C** Anadolu'nun 14. yüzyılda yaşamış edebiyatçılarından biri olan Gülşehri Felekname adlı eserin yazarıdır.

17. **E** Sultan Sencer Büyük Selçuklu Devleti'nin son hükümdarıdır. Diğer seçeneceklerde verilenler Türkiye Selçuklu hükümdarlarındandır.

18. **A** 1243 yılında Türkiye Selçukluları ile Moğollar arasında gerçekleşen Kösedağ Savaşı'ndan sonra Anadolu'da II. Beylikler Dönemi başlamıştır.
Kösedağ Savaşı'ndan sonra Malatya ve Maraş yöresine hakim olan Anadolu beyliği Dulkadiroğulları'dır.

19. **E** Türkiye Selçuklu Devleti 1077-1308 yılları arasında hüküm sürmüştür.
Dolayısıyla 1097-1231 yılları arasında hüküm süren Harzemşahlar, 1171-1250 yılları arasında hüküm süren Eyyubiler ve 1256-1335 yılları arasında hüküm süren İlhanlılar ile Türkiye Selçukluları çağdaştır.

20. **B** Yuğruş; Karahanlılarda vezire verilen isimdir, hükümdar sembolleri arasında yer almaz.

MURAT YAYINLARI

Türkiye Tarihi • TEST 9

1. **Türkiye Selçuklularında;**

I. tezhip,
II. hat,
III. cilt

hangilerinin mimaride kullanılan sanatlar arasında yer aldığı söylenebilir?

A) Yalnız I
B) Yalnız II
C) Yalnız III
D) I ve II
E) I, II ve III

2. **Aşağıdakilerden hangisi Anadolu'da yaşayan düşünürlerden biri değildir?**

A) Firdevsi
B) Aşık Paşa
C) Mevlana
D) Sadreddin Konevi
E) El Cezeri

3. **Anadolu'daki;**

I. Miryokefalon,
II. Malazgirt,
III. Yassı Çemen

savaşlarından hangilerinin gaza ve cihat politikasına yönelik olduğu söylenemez?

A) Yalnız I
B) Yalnız II
C) Yalnız III
D) I ve II
E) II ve III

4. **Türkiye Selçuklu Devleti'nde;**

I. naip,
II. şıhne,
III. pervaneci

hangileri merkezi teşkilatta yer alan görevlilerdendir?

A) Yalnız I
B) Yalnız II
C) Yalnız III
D) I ve III
E) I, II ve III

5. **Türkiye Selçuklu Devleti'nde;**

I. hassa,
II. gulam,
III. ikta

hangileri devşirme sistemiyle oluşturulan ordu birliklerindendir?

A) Yalnız I
B) Yalnız II
C) Yalnız III
D) II ve III
E) I, II ve III

6. **Türkiye Selçuklularında hükümdar vekilliği görevini üstlenen kişi aşağıdakilerden hangisidir?**

A) Kıssadar
B) Emr-i Şikar
C) Naip
D) Emr-i Alem
E) Hansalar

MURAT YAYINLARI

/muratyayincilik

7. **1176 yılında yapılan Miryokefalon Savaşı ile Anadolu'yu Türk İslam yurdu yapan Selçuklu sultanı aşağıdakilerden hangisidir?**

A) II. Kılıç Arslan
B) I. Alaeddin Keykubat
C) II. Gıyaseddin Keyhüsrev
D) I. İzzettin Keykavus
E) I. Gıyaseddin Keyhüsrev

8. **Türkiye Selçuklu Devleti'nin kurucu lideri aşağıdakilerden hangisidir?**

A) Kutalmış
B) I. Kılıç Arslan
C) Süleyman Şah
D) II. Kılıç Arslan
E) I. Aleaddin Keykubat

9. **Türkiye Selçuklu Devleti'nde kadı atamalarından sorumlu devlet görevlisi aşağıdakilerden hangisidir?**

A) Melik
B) Vezir
C) Atabey
D) Şıhne
E) Kadilkudat

10. I. Celalettin Karatay
II. Nizamülmülk
III. Sadettin Köpek

Yukarıdakilerden hangileri Türkiye Selçuklu vezirleri arasında yer almıştır?

A) Yalnız I B) Yalnız II C) Yalnız III
D) I ve III E) I, II ve III

11. **Türkiye Selçuklularda sultanın av törenlerini düzenleyen görevli aşağıdakilerden hangisidir?**

A) Camedar
B) Emr-i Şikar
C) Hansalar
D) Emr-i Candar
E) Naip

12. **Aşağıdakilerden hangisi Anadolu düşünürlerinden biri değildir?**

A) Ömer Hayyam
B) Sadreddin Konevi
C) Yunus Emre
D) Aşık Paşa
E) Hacı Bektaş-ı Veli

13. I. Medrese
II. Tekke
III. Ribat

Yukarıdakilerden hangisi Türkiye Selçuklularda eğitim kurumları arasında yer alır?

A) Yalnız I B) Yalnız II C) Yalnız III
D) I ve II E) I, II ve III

14. **Türkiye Selçuklularında;**
I. cami,
II. medrese,
III. imaret

hangilerinin giderlerinin vakıf sisteminden karşılandığı söylenebilir?

A) Yalnız I B) Yalnız II C) Yalnız III
D) I ve II E) I, II ve III

MURAT YAYINLARI

15. **Türkiye Selçuklu Devleti en parlak dönemine aşağıdaki hükümdarlardan hangisi döneminde ulaşmıştır?**

A) II. Alaeddin Keykubat
B) I. Kılıç Arslan
C) Süleyman Şah
D) II. Kılıç Arslan
E) I. Alaeddin Keykubat

16. **Aşağıdakilerden hangisi 1243 yılında Kösedağ Savaşı'ndan sonra Anadolu'da kurulan beyliklerden biri değildir?**

A) Mengücekoğulları
B) Eretnalılar
C) Menteşeoğulları
D) Karesioğulları
E) Canikoğulları

17. **Malazgirt Savaşı'nın (1071) yapıldığı savaş alanı günümüzde hangi il sınırları içerisinde yer almaktadır?**

A) Bitlis
B) Erzurum
C) Muş
D) Kars
E) Van

18. **Aşağıdakilerden hangisi I. Beylikler Dönemi mimari örneklerinin yer aldığı şehirlerden biri değildir?**

A) Tokat
B) Edirne
C) Kars
D) Niğde
E) Erzincan

19. **Türkiye Selçukluları ile Moğolların komşu olmasına zemin hazırlayan savaş aşağıdakilerden hangisidir?**

A) Yassı Çemen
B) Dandanakan
C) Pasinler
D) Miryokefalon
E) I. Haçlı Seferi

20. "Risaletün Nushiye" **ve** "Divan" **adlı eserleri olan Anadolu mutasavvıfı aşağıdakilerden hangisidir?**

A) Mevlana
B) Aşık Paşa
C) Yunus Emre
D) Hacı Bektaşi Veli
E) Ahi Evran

MURAT YAYINLARI

/muratyayincilik

Açıklamalar • TEST 9

1. **D** Hat ve tezhip Türkiye Selçuklularında mimaride kullanılan sanatlardandır.
Hat Arap alfabesiyle yazılan güzel yazı yazma sanatıdır.
Tezhip, hat yazısının çevresini süsleme sanatıdır.
Cilt sanatı, kitap kaplama sanatıdır, mimaride kullanılamaz.

2. **A** Firdevsi Gazneliler döneminde yaşayan düşünürlerdendir. Diğer seçeneklerde verilenler Anadolu'da yaşayan düşünürlerdir.

3. **C** Gaza ve cihat politikası, Müslüman devletlerin İslam dinini yayma mücadelesidir.
Yassı Çemen Savaşı (1230) iki Müslüman devlet arasında (Türkiye Selçuklu-Harzemşah) olduğu için gaza ve cihat politikasına örnek gösterilemez.

4. **D** Türkiye Selçuklu Devleti'nde hükümdar vekili olan naip ve ikta sisteminden sorumlu pervaneci merkezi teşkilatta yer alır.
Şıhne ise askeri validir ve taşra teşkilatında yer alır.

5. **B** Türk İslam devletlerinde ve Türkiye Selçuklu Devleti'nde farklı milletlerden seçilen kölelerin devşirilip asker yapılmasına Gulam sistemi adı verilmiştir.
Gulamhanelerde askeri eğitim alan devşirme orduya Saray-ı Gulaman adı verilmiştir.
Hassa ve İkta ordularında devşirme sistemi uygulanmamıştır.

6. **C** Türkiye Selçuklularında hükümdar vekilliği görevini üstlenen kişiye "naip" adı verilmiştir.

7. **A** II. Kılıç Arslan Bizans karşısında kazandığı Miryokefalon Savaşı (1176) ile Anadolu'yu Türk İslam yurdu yapan Selçuklu sultanıdır.

8. **C** Türkiye Selçuklu Devleti 1077 yılında Süleyman Şah tarafından kurulmuştur.

9. **E** Türkiye Selçuklu Devleti'nde kadı atamalarından sorumlu devlet görevlisi "kadilkudat" tır.

10. **D** Celalettin Karatay ve Sadettin Köpek Türkiye Selçuklu vezirlerindendir.
Nizamülmülk ise Büyük Selçuklularında vezirlik yapmıştır.

11. **B** Türkiye Selçuklularda sultanın av törenlerini düzenleyen görevli "Emr-i Şikar"dır.

12. **A** Ömer Hayyam Büyük Selçuklu döneminde yaşayan düşünürlerdendir.
Diğer seçeneklerde verilenler Anadolu düşünürleri arasında yer almaktadır.

13. **D** Dini ve pozitif bilimlerin okutulduğu medreseler ve tasavvuf eğitiminin verildiği tekkeler, hem Türkiye Selçuklularında hem de diğer Türk İslam devletlerinde var olan eğitim kurumlarındandır.
Ribatlar; eğitim kurumları arasında yer almaz,-kervansarayların temelini oluşturur.

14. **E** Türkiye Selçuklularında cami,medrese ve imaret (aş evi) giderleri vakıf sisteminden karşılanmıştır.

15. **E** Süleyman Şah tarafından kurulan Türkiye Selçukluları en parlak dönemini I. Alaeddin Keykubat devrinde (1221-1237) yaşamıştır.

16. **A** Mengücekoğulları (Mengücekliler) Malazgirt Savaşı'ndan (1071) sonra Anadolu'da kurulan I. Beylikler arasında yer alır.
Diğer seçeneklerde verilenler 1243 yılında Kösedağ Savaşı'ndan sonra Anadolu'da kurulan beyliklerdendir.

17. **C** Malazgirt Savaşı'nın (1071) yapıldığı savaş alanı günümüzde "Muş" ilinin sınırları içerisinde yer almaktadır.

18. **B** Edirne, Türk İslam tarihinde ilk kez Osmanlı Devleti döneminde fethedilmiştir. Dolayısıyla I. Beylikler veya II. Beylikler döneminde Edirne şehrinde mimari eserlere rastlanılamaz.
Diğer seçeneklerde verilen şehirler I. Beylikler döneminde fethedilmiştir ve bu şehirlerde I. Beyliklere ait mimari eserler mevcuttur.

19. **A** 1230 yılında Türkiye Selçukluları ile Harzemşahlar arasında gerçekleşen Yassı Çemen Savaşı'ndan sonra Harzemşahlar yıkılmıştır.(1231)
Savaş sonucunda Harzemşahların yıkılmasıyla Türkiye Selçukluları Moğollara komşu olmuştur.

20. **C** Yunus Emre, Anadolu mutasavvıflarındandır. (tasavvufla uğraşan kişi) Risaletün Nushiye ve Divan kendisine ait tasavvuf eserleridir.

MURAT YAYINLARI

Osmanlı Kuruluş Dönemi (Beylikten Devlete) • TEST 10

1. **Aşağıdakilerden hangisi Osmanlı Beyliği'nin kısa sürede büyüme nedenleri arasında gösterilemez?**

A) Anadolu'ya gelen Türkmenlerin desteğinin alınması
B) Fethedilen yerlerde halka adaletli ve müsamahakâr davranılması
C) Merkezi otoriteye ağırlık verilmesi
D) İskan politikası sonucu fethedilen yerlerde Türk egemenliğinin kalıcı olması
E) Anadolu Türk siyasi birliğini sağlamaya öncelik verilmesi

2. **Kızı Malhun Hatun ile Osman Bey'i evlendiren ve Osmanlı Beyliği'nin kısa süre içinde büyümesinde Ahilerin desteğini sağlayan Türk-İslam alimi aşağıdakilerden hangisidir?**

A) Şeyh Bedrettin
B) Hacı Bektaş-ı Veli
C) Akşemsettin
D) Muhyiddin Arabi
E) Şeyh Edebali

3. **Osmanlı Devleti'nin Kuruluş Dönemi'nde şehirlerde sosyal, dini ve ticari yaşamı örgütlemeye ve manevi bütünlüğü sağlamaya çalışılan gruplar arasında aşağıdakilerden hangisi yer almaz?**

A) Gaziyan-ı Rum
B) Abdalan-ı Rum
C) Bacıyan-ı Rum
D) Kayzer-i Rum
E) Ahiyan-ı Rum

4. **Osmanlı Devleti'ni en çok uğraştıran ve kendisini Anadolu Selçuklu Devleti'nin mirasçısı olarak gören beylik aşağıdakilerden hangisidir?**

A) Germiyanoğulları
B) Hamitoğulları
C) Karamanoğulları
D) Dulkadiroğulları
E) Karesioğulları

5. **Orhan Gazi zamanında alınan aşağıdaki yerlerden hangisiyle Osmanlılar yeni bir kıtada hüküm sürmeye başlamışlardır?**

A) Bursa
B) İznik
C) İzmit
D) Çimpe Kalesi
E) Balıkesir

6. **Aşağıdakilerden hangisi Osmanlı Devleti'nin Kuruluş Devri'nde mücadele ettiği devletlerden biridir?**

A) Akkoyunlular
B) Safeviler
C) Altın Orda
D) İlhanlılar
E) Bizans

7. I. Osmanlı donanmaya sahip oldu.
II. Osmanlı'nın Rumeli'ye geçişi kolaylaştı.
III. Türk siyasi birliği sağlandı.

Yukarıdakilerden hangileri, Karesioğulları Beyliği'nin Osmanlı Devleti'nin egemenliğine geçmesinin sonuçlarındandır?

A) Yalnız I
B) Yalnız II
C) Yalnız III
D) I ve II
E) I, II ve III

MURAT YAYINLARI

/muratyayincilik

8. **Aşağıdaki teşkilatlanma faaliyetlerinden hangisi Orhan Bey Dönemi'nde gerçekleşmemiştir?**

A) İlk kez vezirlik teşkilatının kurulması
B) İlk kez devşirme sisteminin uygulanması
C) Yaya ve müsellem adında ilk düzenli ordunun oluşturulması
D) İlk Osmanlı medresesinin kurulması
E) İlk subaşı atamasının yapılması

9. **Osmanlı Devleti'nde I. Murat Devri'nde Balkanlarda yaşanan ilerleme;**

I. Haçlı ittifaklarının kurulması,
II. Edirne'nin başkent ilan edilmesi,
III. Rumeli Beylerbeyliği'nin kurulması

gelişmelerinden hangileri üzerinde etkili olmuştur?

A) Yalnız I B) I ve II C) I ve III
D) II ve III E) I, II ve III

10. I. Birinci Kosova
II. Ankara
III. Sırpsındığı

Osmanlı Devleti'nin Kuruluş Devri'nde yaptığı yukarıdaki savaşlardan hangileri padişah değişikliği yaşanmasında etkili olmuştur?

A) Yalnız I B) Yalnız II C) I ve II
D) I ve III E) II ve III

11. **Aşağıdaki savaşlardan hangisinde Osmanlı Devleti'ne karşı oluşmuş bir Haçlı ittifakından bahsedilemez?**

A) Varna
B) I. Kosova
C) Niğbolu
D) Bafeus
E) Sırpsındığı

12. **Kuruluş Dönemi'nde Batı Anadolu beyliklerini egemenliği altına alarak Anadolu Türk siyasi birliğini ilk kez büyük ölçüde sağlayan Osmanlı padişahı aşağıdakilerden hangisidir?**

A) Orhan Bey
B) Yıldırım Bayezit
C) I. Murat
D) Çelebi Mehmet
E) II. Murat

13. **Fetret Devri'nde (1402-1413) İstanbul'u kuşatan Osmanlı şehzadesi aşağıdakilerden hagnisidir?**

A) Mustafa Çelebi
B) Şehzade Mehmet
C) Musa Çelebi
D) İsa Çelebi
E) Şehzade Murat

14. Fetret Devri'nde, Osmanlı Devleti Anadolu'da büyük güç kaybederken Balkanlarda Osmanlı egemenliği zarar görmemiştir.

Bu durum Osmanlı'nın Balkanlarda uyguladığı;

I. iskan,
II. istimalet,
III. devşirme

politikalarından hangilerinin sonucudur?

A) Yalnız I
B) I ve II
C) I ve III
D) II ve III
E) I, II ve III

MURAT YAYINLARI

15. **Fetret Devri'ne son vererek Osmanlı idaresini eline aldığı için Osmanlı Devleti'nin ikinci kurucusu kabul edilen padişah aşağıdakilerden hangisidir?**

A) I. Bayezit
B) II. Murat
C) I. Mehmet
D) II. Mehmet
E) I. Murat

16.

	Padişah	Gelişme
I.	I. Murat	Balkanlarda Osmanlı hakimiyetinin kesinleşmesi
II.	Osman Bey	Bursa'nın kuşatılması
III.	I. Bayezit	Anadolu Türk siyasi birliğinin kesin olarak sağlanması

Osmanlı Devleti'nde Kuruluş Devri'ne ait yukarıda yer alan padişah-gelişme eşleştirmelerinden hangileri yanlıştır?

A) Yalnız I
B) Yalnız II
C) I ve II
D) I ve III
E) II ve III

17. I. Orhan Bey
II. I. Bayezit
III. Çelebi Mehmet

Yukarıdaki Osmanlı padişahlarından hangileri döneminde denizcilik alanında gelişmeler görülmüştür?

A) Yalnız I
B) I ve II
C) I ve III
D) II ve III
E) I, II ve III

18. **Osmanlı Devleti'nin Kuruluş Devri'nde görülen;**

I. Rumeli Defterdarlığı'nın kurulması,
II. İlk akçenin kestirilmesi,
III. Anadolu Beylerbeyliği'nin kurulması

gelişmelerinden hangileri, mali alanda teşkilatlanma çalışmalarına gidildiğine kanıt oluşturur?

A) Yalnız I
B) Yalnız II
C) I ve II
D) I ve III
E) I, II ve III

19. **Osmanlıların ilk deniz savaşı ve bu savaşı yaptığı devlet eşleştirmesi aşağıdakilerden hangisinde doğru verilmiştir?**

A) İnebahtı - Venedik
B) Çalı Bey - Ceneviz
C) Cerbe - Portekiz
D) Preveze - Ceneviz
E) Çalı Bey - Venedik

20. **Osmanlı Devleti'nin Balkanlardaki hakimiyetinin kesinleştiği ve Haçlılar'ın saldırı durumundan savunma durumuna geçtiği savaş aşağıdakilerden hangisidir?**

A) Sırpsındığı
B) Niğbolu
C) I. Kosova
D) Varna
E) II. Kosova

MURAT YAYINLARI

/muratyayincilik

Açıklamalar • TEST 10

1. **E** Osmanlı Devleti'nin Türkmenlerin desteğini alması, halka anlayışlı ve adaletli davranması, merkezi otoriteye ağırlık vermesi ve iskan politikası uygulaması beyliğin kısa sürede büyümesine yardımcı olmuştur. Ancak Osmanlı Beyliği önceliğini Türk siyasi birliğini sağlamaya vermemiş aksine Anadolu beylikleri ile dostane ilişkiler içinde bulunmuştur.

2. **E** XIII. yüzyılın en önemli Ahi liderlerinden Şeyh Edebali'nin kızı Malhun Hatun ile Osman Gazi'yi evlendirmesi, Ahi topluluklarının Osmanlı Beyliği'ne destek vermesinde ve Osmanlı'nın kısa sürede büyümesinde etkili olmuştur.

3. **D** Kayzer-i Rum, Doğu Roma imparatorlarının kullandığı bir unvan olup İstanbul'u fetheden II. Mehmet tarafından kullanılmıştır.
Osmalı'nın kuruluş sürecinde; Gaziyan-ı Rum (Anadolu'nun gazileri), Abdalan-ı Rum (Anadolu'nun erenleri), Ahiyan-ı Rum (Anadolu'nun ahileri) ve Bacıyan-ı Rum (Anadolu'nun Türkmen kadınları) adını taşıyan gruplar dini, sosyal ve ticari yaşamın örgütlenmesinde etkili olmuşlardır.

4. **C** Karamanoğulları Anadolu Selçuklu Devleti'nin son başkenti olan Konya'da kuruldukları için kendilerini Anadolu Selçuklu Devleti'nin devamı olarak görmüş ve Osmanlı Devleti egemenliğine girmemek için mücadele ederek Osmanlı'yı en çok uğraştıran beylik olmuştur.

5. **D** Osmanlı Devleti, Orhan Bey zamanında Gelibolu'da yer alan "Çimpe Kalesi'ni" alarak Rumeli topraklarına ilk adımını atmış, böylece Avrupa kıtasında da hüküm sürmeye başlamıştır.

6. **E** Osmanlı Devleti Kuruluş Dönemi 1299-1453 yılları arasını kapsar. Safevi Devleti 1502'de kurulduğu için bu dönemde Osmanlı ile mücadele ettiğinden söz edilmeyeceği gibi Akkoyunlu, Altın Orda ve İlhanlı devletleri ile de herhangi bir mücadele yaşanmamıştır. Ancak Bizans ile 1302 Koyunhisar, 1329 Maltepe ve 1362 Sazlıdere savaşları yapılmıştır.

7. **D** Karesioğullarının Osmanlı hakimiyetine geçmesiyle Osmanlı Devleti, Karesi donanmasına sahip olmuş, böylece Rumeli'ye geçişin önü açılmış, Rumeli'deki Çimpe Kalesi'nin Bizans tarafından hediye edilmesiyle Rumeli'ye geçiş sağlanmıştır. Karesioğullarının Osmanlı egemenliğine geçmesi Türk siyasi birliğini sağlama yolunda ilk adımdır ancak Türk siyasi birliğinin sağlandığı söylenemez.

8. **B** Vezirlik teşkilatının kurulması, ilk Osmanlı medresesinin açılması, ilk kadı ve subaşı atamalarının yapılması ile yaya-müsellem adlı ilk düzenli ordunun kurulması Orhan Bey Dönemi faaliyetlerindendir. Ancak devşirme sisteminin uygulanması I. Murat Dönemi'nde gerçekleşmiştir.

9. **E** I. Murat Dönemi'nde Balkanlarda Edirne'nin alınıp başkent yapılmasının ardından Rumeli Beylerbeyliği kurulmuştur. Bu durum Avrupalı Devletleri rahatsız ettiği için Osmanlı Devleti'ne karşı kutsal ittifaklar oluşturulmuştur.

10. **C** I. Kosova Savaşı'nda I. Murat'ın savaş meydanında öldürülmesiyle, Ankara Savaşı sonrası Yıldırım Bayezit'in Timur'a esir düşmesiyle padişah değişiklikleri yaşanmıştır. Ancak yine I. Murat Dönemi'nde gerçekleşen Sırpsındığı Savaşı sonrası padişah değişikliği olmamıştır.

MURAT YAYINLARI

11. **D** Sırpsındığı Savaşı 1364'te, I. Kosava Savaşı 1389'da, Niğbolu Savaşı 1396'da ve Varna Savaşı 1444'te Osmanlı kuvvetleri ile Haçlı güçleri arasında yaşanmıştır. Bafeus Savaşı ise Osmanlı kuvvetlerinin Bizans ile yaptığı ilk savaştır.

12. **B** Yıldırım Bayezit (I. Bayezit); Germiyan, Saruhan, Menteşe ve Candaroğulları gibi beylikleri egemenliği altına alarak Anadolu Türk siyasi birliğini ilk kez büyük ölçüde sağlamıştır.

13. **C** Fetret Devri'nde (1402-1413), Bizans'ın başkent İstanbul'u kuşatan Osmanlı şehzadesi Bursa'da hükümdarlığını ilan eden Yıldırım Bayezit'in oğlu Musa Çelebi'dir.

14. **B** İskan politikası ile Balkanlarda fethedilen yerlere Anadolu'dan getirilen Türk-Müslüman aileler yerleştirilerek bölgenin Türkleşmesi ve islamlaşması sağlandığından, istimalet politikası ile bölgedeki gayrimüslim halka müsamahakâr yaklaşıldığından Fetret Devri'nde Osmanlı egemenliği, Balkanlarda zarar görmemiştir. Ancak devşirme sisteminin bu durum üzerinde etkisi yoktur.

15. **C** 1402 Ankara Savaşı sonrasında Yıldırım Bayezit'in Timur'a esir düşmesi ile Bayezit'in oğulları arasında taht kavgaları yaşanmış ve 11 yıl süren bu kavgalar sonucunda I. Mehmet (Çelebi) kardeşlerini bertaraf ederek Osmanlı tahtına geçip Osmanlı Devleti'ni yıkılmaktan kurtarmıştır. Bu nedenle I. Mehmet, Osmanlı Devleti'nin ikinci kurucusu kabul edilmiştir.

16. **D** Bursa'nın kuşatılması Osman Bey Dönemi gelişmelerindendir. Ancak Balkanlarda Osmanlı hakimiyetinin kesinleşmesi II. Kosova Savaşı ile II. Murat Dönemi, Anadolu Türk siyasi birliğinin kesin olarak sağlanması I. Selim Dönemi gelişmelerindendir.

17. **E** Orhan Bey Dönemi'nde Karesioğulları Beyliği'nin, I. Bayezit Dönemi'nde ise Aydın, Saruhan, Candar ve Menteşeoğulları gibi kıyı beyliklerinin Osmanlı egemenliğine girmesiyle bu beyliklerin donanmaları Osmanlı Devleti'ne geçmiş ve denizcilikte gelişmeler yaşanmıştır. Ayrıca Çelebi Mehmet Dönemi'nde Venedikliler ile ilk deniz savaşının yapılması bu dönemde de denizcilik faaliyetlerinin gelişme gösterdiğinin kanıtıdır.

18. **C** Defterdarlık, Osmanlı Devleti'nde Mali işlerden sorumlu en üst makamdır. İlk defterdarlık I. Murat Han zamanında oluşturulan "Rumeil Defterdarlığı" olmuştur. Öte yandan mali alanda ilk Osmanlı akçesi (gümüş sikke) ilk kez Osman Bey zamanında kestirilmiştir. Anadolu Beylerbeyliği ise I. Bayezit Devri'nde oluşturulan bir idari birimdir.

19. **E** Osmanlı Devleti'nin ilk deniz savaşı Çelebi Mehmet zamanında Venedik ile yapılan "Çalı Bey Deniz Savaşı"dır. 1538 Preveze, 1559 Cerbe ve 1571 İnebahtı deniz savaşları Osmanlı ile Haçlı güçleri arasında gerçekleşmiştir.

20. **E** II. Murat Dönemi'ndeki II. Kosova Savaşı (1448) ile Osmanlı Devleti'nin Balkanlardaki hakimiyeti kesinleşmiş ve II. Viyana kuşatmasındaki Osmanlı yenilgisine kadar Haçlılar Osmanlı'ya karşı kutsal ittifak kurulmamıştır.

MURAT YAYINLARI

/muratyayincilik

Osmanlı Kuruluş Dönemi (Beylikten Devlete) • TEST 11

1. **Türkiye Selçuklular tarafından Kayı Boyu'na yurt olarak bırakılan ilk yer aşağıdakilerden hangisidir?**

A) Ahlat
B) Söğüt
C) Karacadağ
D) Domaniç
E) Koyunhisar

2. **Aşağıdakilerden hangisi Osmanlı Devleti'nin Rumeli hakimiyetini sağlamaya yönelik faaliyetlerinden biri değildir?**

A) Çirmen Savaşı
B) Bafeus Savaşı
C) Sazlıdere Savaşı
D) Niğbolu Savaşı
E) Varna Savaşı

3. **Aşağıdakilerden hangisi Osmanlı Devleti'nin Fetret Devri'ne girmesine neden olmuştur?**

A) Cem Sultan İsyanı
B) Buçuktepe İsyanı
C) Ankara Savaşı
D) Niğbolu Savaşı
E) Şeyh Bedrettin İsyanı

4. **Osmanlı Devleti'nde Balkanlara iskan politikası ile yerleştirilen Türkmenlere verilen isim aşağıdakilerden hangisidir?**

A) Ahiyan-ı Rum
B) Müsellem
C) Azep teşkilatı
D) Ulah
E) Evlad-ı Fatihan

5. **Aşağıdakilerden hangisi Osmanlı Devleti'nin Haçlılar ile yaptığı savaşlardan biri değildir?**

A) II. Kosova Savaşı
B) Sırp Sındığı Savaşı
C) Varna Savaşı
D) Niğbolu Savaşı
E) Palekanon Savaşı

6. **Aşağıdakilerden hangisi I. Murat Dönemi gelişmeleri arasında yer almaz?**

A) Anadolu Hisarı'nın inşasının inşası
B) Sazlıdere Savaşı'nın yapılması
C) Rumeli Beylerbeyliği makamın kurulması
D) Edirne'nin başkent oluşu
E) I. Kosova Savaşı'nın yapılması

7. **Kayı Boyu'nun Anadolu'daki ilk merkezi aşağıdakilerden hangisidir?**

A) Ahlat
B) Erzurum
C) Söğüt
D) Domaniç
E) İznik

8. **Osmanlı Beyliği'nin devletleşmesine;**

I. Uç beyliği görevini üstlenmesi,
II. Gaza ve cihat anlayışını benimsemesi,
III. Karizmatik liderlere sahip olması

unsurlarından hangilerinin katkısından söz edilebilir?

A) Yalnız I B) Yalnız II C) Yalnız III
D) I ve II E) I, II ve III

MURAT YAYINLARI

9. **Osmanlı Devleti'nin;**

I. Timur Devleti,

II. Doğu Roma İmparatorluğu,

III. Safevi Devleti

hangileri ile kuruluş döneminde mücadele ettiği söylenemez?

A) Yalnız I
B) Yalnız II
C) Yalnız III
D) I ve II
E) II ve III

10. **Osmanlı Devleti'nde;**

I. Edirne,

II. Bursa,

III. İstanbul

şehirlerinden hangileri kuruluş döneminde başkent yapılmıştır?

A) Yalnız I
B) Yalnız II
C) Yalnız III
D) I ve II
E) I, II ve III

11. **Pençik sistemi aşağıdaki hangi Osmanlı hükümdarı döneminde oluşturulmuştur?**

A) Orhan Bey
B) I. Murat
C) Osman Bey
D) Yıldırım Bayezit
E) I. Mehmet

12. **Osmanlı Devleti'nin;**

I. Karesioğulları,

II. Germiyanoğulları,

III. Hamitoğulları

beyliklerinden hangilerini hakimet altına alması Balkanlara geçişe katkı sağlamamıştır?

A) Yalnız I
B) Yalnız II
C) Yalnız III
D) I ve II
E) II ve III

13. **Osmanlı Devleti'nde ilk kez Yıldırım Beyazit döneminde oluşturulan makam aşağıdakilerden hangisidir?**

A) Anadolu Beylerbeyliği
B) Kadılık
C) Vezirlik
D) Rumeli Beylerbeyliği
E) Veziriazamlık

14. **Osmanlı Devleti'nde;**

I. iskan,

II. adalet,

III. müsamaha

politikalarından hangileri Rumeli'de kalıcılığın sağlanmasına zemin hazırlamıştır?

A) Yalnız I
B) Yalnız II
C) Yalnız III
D) I ve II
E) I, II ve III

MURAT YAYINLARI

/muratyayincilik

15. **Osmanlı Devleti ile Bizans İmparatorluğu arasında gerçekleşen ilk savaş aşağıdakilerden hangisidir?**

A) Ploşnik
B) Niğbolu
C) Koyunhisar
D) Palekanon
E) Varna

16. **Aşağıdakilerden hangisi Fetret Devri'nde taht kavgalarında yer alan Osmanlı şehzadelerinden biri değildir?**

A) Süleyman Çelebi
B) Musa Çelebi
C) Çelebi Mehmet
D) İsa Çelebi
E) Mustafa Çelebi

17. **Türkiye Selçuklu Devleti'nin uç beyi olan ilk Kayı boyu lideri aşağıdakilerden hangisidir?**

A) Ertuğrul Bey
B) Gündüz Alp
C) Turgut Alp
D) Osman Bey
E) Süleyman Şah

18. **Bizans İmparatorluğu'nun Anadolu'da kalan topraklarından ümidini kesmesine neden olan savaş aşağıdakilerden hangisidir?**

A) Niğbolu
B) Palekanon
C) Sırp Sındığı
D) Bafeus
E) I. Kosova

19. **Aşağıdakilerden hangisi Bitinya bölgesinde yer alan yörelerden biri değildir?**

A) Bursa
B) Edirne
C) İznik
D) Bilecik
E) İzmit

20. **Aşağıdakilerden hangisi kuruluş dönemi Osmanlı mimari örnekleri arasında yer almaz?**

A) Bey Sarayı
B) Orhaniye Medresesi
C) İznik Hacı Özbek Camii
D) Edirne Sarayı
E) Süleymaniye Medresesi

MURAT YAYINLARI

Açıklamalar • TEST 11

1. C Kayı Boyu'nun Anadolu'ya geldiğinde ilk yerleştiği yer Ahlat'tır.
Türkiye Selçuklular tarafından Kayı Boyu'na yurt olarak bırakılan ilk yer ise Karacadağ'dır.
Ankara yakınlarındaki Karacadağ'dan sonra Türkiye Selçuklular tarafından ikinci yurt olarak bırakılan yerler ise Söğüt ve Domaniç olmuştur.

2. B Osmanlı Devleti'nin Bizans İmparatorluğu'na ve Tekfurlara (Bizans valileri) karşı 1302 yılında kazandığı Bafeus (Koyunhisar) Savaşı Rumeli'de değil Anadolu'da yer almaktadır. Dolayısıyla Bafeus Savaşı, Osmanlı Devleti'nin Anadolu hakimiyetine yönelik savaşlardandır.
Edirne'nin fethi, Sazlıdere Savaşı (1362) ile olmuştur.
Sazlıdere Savaşı (1362), Çirmen Savaşı (1371), Niğbolu Savaşı (1396) ve Varna Savaşı (1444) Osmanlı Devleti'nin Rumeli hakimiyetini sağlayamaya yönelik savaşlarındandır.

3. C Osmanlı padişahı Yıldırım Bayezit'in Timur İmparatorluğu karşısında kaybettiği
Ankara Savaşı (1402) ile başlayan ve Yıldırım Bayezit'in oğulları arasında taht kavgaları ile geçen belirsizlik dönemi "Fetret Devri" (1402-1413) olarak adlandırılmıştır.
Fetret Devri'nde (1402-1413) Yıldırım Bayezit'in dört oğlu arasında (Süleyman Çelebi, Musa Çelebi, İsa Çelebi ve Çelebi Mehmet) taht kavgaları yaşanmıştır. Şehzadelerin isyanını bastırıp tahtı ele geçiren Mehmet Çelebi Fetret Devri'ni sonlandırdığı için Osmanlı Devleti'nin ikinci kurucusu sayılmıştır.
Cem Sultan İsyanı; 1481 yılında Fatih Sultan Mehmet'in vefatından sonra II. Bayezit ile kardeşi Şehzade Cem arasında yaşanan taht kavgasıdır.
Şeyh Bedrettin İsyanı; Fetret Devri'nden sonra I. Mehmet döneminde bastırılan isyandır.
Buçuktepe İsyanı; II. Mehmet'in birinci saltanatında çıkarılan ilk Yeniçeri İsyanı'dır.
Niğbolu Savaşı (1396); Haçlı ittifakına karşı Osmanlı Devleti'nin zaferiyle sonuçlanan savaştır.

4. E Osmanlı Devleti'nde Balkanlara iskan politikası ile yerleştirilen Türkmenlere "Evlad-ı Fatihan" adı verilmiştir.
Ahiyan-ı Rum, Anadolu Ahileri birliğine verilen isimdir.
Müsellem, Orhan Bey Dönemi'nde kurulan atlı birliklerdir.
Azep Teşkilatı, I. Murat Dönemi'nde gönüllü Türkmenlerden kurulan askeri birliktir.
Ulah, Makedonya ve Romanya yerlilerine verilen isimdir.

5. E 1329 yılındaki Palekanon Savaşı (Maltepe Savaşı) Osmanlı Devleti ile Bizans İmparatorluğu arasında gerçekleşmiştir.
Diğer seçeneklerde verilen savaşlar Osmanlı Devleti ile Haçlılar arasında gerçekleşmiştir.

6. A Anadolu Hisarı'nın (Güzelce Hisar) inşası I. Murat dönemi gelişmeleri arasında yer almaz.
Anadolu Hisarı, Yıldırım Bayezit döneminde İstanbul fethi inşa edilmiştir.
Diğer seçeneklerde verilenler I. Murat Dönemi gelişmeleri arasında yer almıştır.

7. A Kayı Boyu'nun Anadolu'daki ilk yerleştiği yer ve ilk merkezi Ahlat'tır.

8. E Osmanoğulları, Anadolu Selçuklularında uç beyliği görevini üstlenmiştir. Gaza ve cihat anlayışını benimseyen Osmanoğulları, karizmatik liderlere sahip olmuşlardır.
Her biri Osmanlı Beyliği'nin devletleşmesine katkı sağlamıştır.

9. C Kuruluş Dönemi'nde Osmanlı Devleti'nin Safevi Devleti ile mücadele etmesi söz konusu değildir.
1501 yılında İran'da kurulan Safevi Devleti ile Osmanlı Devleti arasında mücadeleler yükselme döneminde olmuştur.

MURAT YAYINLARI

/muratyayincilik

10. D Osmanlı Devleti'nde 1326 yılında "Bursa" başkent olmuştur. 1364 yılında "Edirne" başkenti olan şehirlerdir.
Ancak İstanbul 1453 yılından itibaren yükselme döneminde başkent olmuştur.

11. B Osmanlı Devleti'nde savaş esirlerinin 1/5'inin asker yapılması sistemi olan pençik sistemi I. Murat döneminden itibaren oluşturulmuştur.

12. E Osmanlı Devleti'nin Balıkesir ve Çanakkale yöresine hakim olan Karesioğulları'nı alması Balkanlara geçişe zemin hazırlamıştır.
Osmanlı Devleti'nin Kütahya yöresindeki Germiyanoğulları'nı ve Isparta yöresindeki Hamitoğulları'nı ele geçirmesi Rumeli'ye geçişe zemin hazırlayan gelişmeler arasında yer alamaz.

13. A Osmanlı Devleti'nde merkezi Kütahya olan Anadolu Beylerbeyliği ilk kez Yıldırım Beyazit döneminde oluşturulan makamdır.
Kadılık makamı Osman Bey döneminde oluşturulmuştur.
Vezirlik makamı Orhan Bey döneminde oluşturulmuştur.
Veziriazamlık ve Rumeli Beylerbeyliği makamları I. Murat döneminde oluşturulmuştur.

14. E Osmanlı Devleti, iskan politikasını uygulayarak Anadolu'daki Türkmen aileleri Rumeli'ye yerleştirmiştir. Rumeli'de bulunan gayrimüslim halka müsamaha (istimalet) ve adalet politikalarını uygulamıştır.
Tüm bunlar Rumeli'de kalıcılığı olmaya katkı sağlayan politikalardır.

15. C 1302 yılında gerçekleşen Bafeus Savaşı diğer adıyla Koyunhisar Savaşı'dır. Bu savaş Osmanlı Devleti'nin Bizans İmparatorluğu ile yaptığı ilk savaştır.

16. E Ankara Savaşı'ndan (1402) sonra Yıldırım Bayezit'in oğulları arasında 11 yıl süren taht kavgaları yaşanmıştır. Bu dönemde taht kavgalarında yer alan şehzadeler Süleyman Çelebi,Musa Çelebi,-Çelebi Mehmet ve İsa Çelebi'dir.
Fetret Devri (1402-1413) olarak da kabul edilen bu dönemde Mustafa Çelebi taht kavgalarında yer alan şehzadeler arasında yer almaz. Mustafa Çelebi Ankara Savaşı'ndan sonra Timur tarafından Semerkant'a kaçırılan şehzadedir.

17. A Ertuğrul Bey, Türkiye Selçuklu Devleti'nin ilk uç beyi olan Kayı Boyu lideridir.
Kayı Boyu'nun lideri Ertuğrul Bey, Türkiye Selçuklu Devleti'nde Söğüt ve Domaniç yöresinde uç beyi görevini üstlenmiştir.

18. B Osmanlı Devleti'nin kazandığı 1329 yılındaki Palekanon Savaşı (Maltepe) Bizans'ın Anadolu'da kalan topraklarından ümidini kesmesine neden olmuştur.

19. B Osmanlı Devleti'nin Bitinya bölgesinde kurulmuştur.
Antik Çağ'daki adıyla Bitinya bölgesi İzmit (Kocaeli), Sakarya, İznik, Bilecik, Bursa, İznik, Düzce, Yalova, Bolu, Bartın ve Zonguldak yörelerinden oluşan coğrafyaya verilen isimdir.
Edirne yöresi Bitinya bölgesinde değil Rumeli'de yer almaktadır.

20. E Süleymaniye Medresesi yükselme dönemi hükümdarlarından Kanuni Sultan Süleyman devrinin eserlerindendir.
Diğer seçeneklerde verilen kuruluş dönemi mimari örneklerindendir.

MURAT YAYINLARI

Osmanlı Yükselme Dönemi (Dünya Gücü Osmanlı) • TEST 12

1. **İstanbul'un Fethi aşağıdaki gelişmelerden hangisine etkide bulunmamıştır?**

A) Merkezi krallıkların güç kazanması
B) Yeni ticaret yollarının bulunması
C) İtalya'da edebiyat ve güzel sanatlar alanında gelişmelerin artması
D) Avrupa'da mezhep savaşlarının görülmesi
E) Osmanlı Devleti'nde payitahtın değişmesi

2. 1453'te İstanbul'u fetheden II. Mehmet, Ortodoks Patrikhanesi'nin İstanbul'da kalmasına izin vermiştir. Ayrıca Ermenilerin ayrı bir Ortodoks Kilisesi ile Yahudilerin de Hahambaşılık kurmalarını istemiştir.

Buna göre II. Mehmet'in;

I. Halkın devlete olan bağlılığını artırma,
II. Hristiyanların birleşmelerini önleme,
III. İslam'ın hoşgörü anlayışını gösterme

amaçlarından hangilerini gerçekleştirmek istediği söylenebilir?

A) Yalnız I
B) Yalnız II
C) Yalnız III
D) I ve II
E) I, II ve III

3. **İstanbul'un fethiyle yıkılan Bizans Devleti'nin yeniden kurulmasını önlemek amacıyla aşağıdaki yerlerden hangilerine sefer düzenlenmiştir?**

A) Eflak - Boğdan
B) Budin - Kırım
C) Mora - Trabzon
D) Belgrad - Viyana
E) Rodos - Kıbrıs

4. **Fatih Sultan Mehmet'in aşağıdaki faaliyetlerden hangisi Karadeniz'i Türk gölü haline getirme amacına yönelik değildir?**

A) Kırım'ın fethedilmesi
B) Amasra'nın alınması
C) Candaroğullarına son verilmesi
D) Akkoyunlularla savaşılması
E) Trabzon Rum İmpatorluğunun yıkılması

5. **Fatih Sultan Mehmet döneminde üç kez kuşatılmasına rağmen alınamayan ada aşağıdakilerden hangisidir?**

A) Kıbrıs
B) Malta
C) Girit
D) Sakız
E) Rodos

6. **Osmanlı Devleti Yükselme Dönemi'nde aşağıdaki devletlerde hangisine ilk kez İstanbul'da elçi bulundurabilme hakkı tanımıştır?**

A) Ceneviz
B) Fransa
C) Venedik
D) Portekiz
E) Avusturya

7. **II. Bayezit Dönemi'nin dış politikasının sönük geçmesinde en etkili gelişme aşağıdakilerden hangisidir?**

A) Cem Sultan Olayı
B) Ağaçayırı Savaşı
C) Şahkulu ayaklanması
D) Safevilerin etkisi
E) Karamanoğulları Seferi

MURAT YAYINLARI

/muratyayincilik

8. I. Cenevizlilerden Amasra'nın alınması
II. Trabzon Rum Devleti'ne son verilmesi
III. Konya'nın Karamanoğullarından alınması

Yukarıdakilerden hangileri, Osmanlı Devleti'nin Yükselme Devri'nde Anadolu'da Türk siyasi birliğini sağlama çabalarına kanıt oluşturur?

A) Yalnız II
B) Yalnız III
C) I ve II
D) I ve III
E) I, II ve III

9. **Osmanlı tarihinde,**
- Fetret Devri
- II. Beyazit Devri

dönemlerinin ortak yönleri ile ilgili olarak;
I. Taht mücadeleleri görülmüştür.
II. Fetih politikasında duraksamalar yaşanmıştır.
III. Memlüklerle mücadele edilmiştir.

yargılarından hangilerine ulaşılabilir?

A) Yalnız I
B) Yalnız II
C) I ve II
D) II ve III
E) I, II ve III

10. **Aşağıdakilerden hangisi ile Osmanlı padişahları siyasi liderliklerinin yanına dini liderliği de eklemiştir?**

A) Fatih Sultan Mehmet
B) II. Murat
C) Kanuni Sultan Süleyman
D) II. Bayezit
E) Yavuz Sultan Selim

11. I. Baharat Yolu'nun kontrol altına alınmak istenmesi
II. Memlüklerin Anadolu beyliklerini kışkırtması
III. Türk-İslam dünyasının liderliğinin ele geçirilmek istenmesi

Yukarıdakilerden hangileri Yavuz Sultan Selim'in Mısır Seferi'ne çıkmasının nedenleri arasında gösterilebilir?

A) Yalnız I
B) Yalnız II
C) Yalnız III
D) I ve II
E) I, II ve III

12. I. Ridaniye
II. Mercidabık
III. Otlukbeli

Yukarıdakilerden hangileri, Osmanlı'nın Türk-İslam devletleriyle yaptığı savaşlar arasındadır?

A) Yalnız I
B) Yalnız II
C) I ve II
D) I ve III
E) I, II ve III

13. **Yükselme Dönemi'nde Osmanlı Devleti ile Safeviler arasındaki ilişkilerin bozulmasında;**
I. Şahkulu,
II. Buçuktepe,
III. Şeyh Bedrettin

isyanlarından hangileri etkili olmuştur?

A) Yalnız I
B) Yalnız II
C) Yalnız III
D) I ve II
E) I ve III

MURAT YAYINLARI

14. **XVI. yüzyılda Osmanlı Devleti'nin;**

I. Süveyş Kanalı projesinin hazırlanması,

II. Fransızlara kapitülasyon verilmesi,

III. Hint Deniz Seferlerinin düzenlenmesi

faaliyetlerinden hangilerinin ticareti geliştirme amacına yönelik olduğu söylenebilir?

A) Yalnız I
B) Yalnız II
C) Yalnız III
D) I ve II
E) I, II ve III

15. **Osmanlı Devleti'nin Balkanlara, Orta Avrupa'ya ve Doğu Avrupa'ya yaptığı seferlerde;**

I. Edirne,

II. Belgrad,

III. Kırım

gibi yerlerden hangileri üs olarak kullanılmıştır?

A) Yalnız I
B) Yalnız II
C) Yalnız III
D) I ve II
E) I, II ve III

16. **Osmanlı Devleti'nin İslam dünyasında etkinliğinin artmasında aşağıdakilerden hangisinin katkısından söz edilemez?**

A) Niğbolu Savaşı'nın kazanılması
B) Hicaz Emirliği'nin Osmanlı'ya bağlanması
C) Kutsal Emanetler'in İstanbul'a taşınması
D) Cem Sultan Olayı'nın yaşanması
E) İstanbul'un fethedilmesi

17. **Aşağıdakilerden hangisi Kanuni Sultan Süleyman Dönemi'nde denizlerde gerçekleştirilen başarılar arasında gösterilemez?**

A) Rodos'un Fethi
B) Preveze Deniz Savaşı
C) Sakız Adası'nın Fethi
D) İnebahtı Deniz Savaşı
E) Cerbe Deniz Savaşı

18. **Aşağıdaki gelişmelerden hangisinin Akdeniz'de Osmanlı etkinliğinin artmasına katkı sağladığı söylenebilir?**

A) İnebahtı Deniz Savaşı'nın yapılması
B) Hint Deniz Seferleri
C) Malta Adası'nın kuşatılması
D) Cezayir'in Osmanlı'ya bağlanması
E) Bozoklu Celal İsyanı'nın bastırılması

19. **Osmanlı Devleti'nin XV. ve XVI. yüzyıllarda kendisine karşı Avrupa'da oluşabilecek bir Hristiyan birliğini engellemek amacıyla yaptığı çalışmalar arasında aşağıdakilerden hangisi yer almaz?**

A) Rus baskısından kaçan Leh mültecilerin korunması
B) Ortodoks Patrikhanesi'ne ayrıcalıklar verilmesi
C) Venedik ile kapitülasyon antlaşmasının yapılması
D) Protestan hristiyanların desteklenmesi
E) Mohaç Seferi'nin düzenlenmesi

20. **Sokullu Mehmet Paşa Dönemi'nde aşağıdakilerden hangisinin fethiyle Doğu Akdeniz tamamen Osmanlı kontrolüne girmiştir?**

A) Rodos
B) Malta
C) Kıbrıs
D) Sakız
E) Mora

MURAT YAYINLARI

/muratyayincilik

Açıklamalar • TEST 12

1. **D** İstanbul'un fethiyle birlikte, Payitaht (başkent) Edirne'den İstanbul'a taşınmıştır. Fetih sırasında kullanılan toplar, Avrupa'daki krallara örnek olmuş ve Avrupa'da derebeylerinin şatoları yıkılırken merkezi krallıklar güçlenmiştir. İstanbul'dan kaçan Bizanslı bilginler İtalya'ya giderek İtalya'da Antik Çağ Yunan ve Hellen kültürünün incelenmesini hızlandırmış; bu durum edebiyat, sanat ve felsefe alanlarında Rönesans'ın yaşanmasında etkili olmuştur. Ayrıca İstanbul gibi önemli bir liman şehrinin Osmanlı'nın eline geçmesi Avrupalıları yeni ticaret yolları arama konusunda harekete geçirmiştir.
Avrupa'da yaşanan mezhep savaşlarının ise İstanbul'un fethiyle hiçbir ilgisi yoktur. Bu savaşlar reform hareketlerinin etkisiyle XVII. yüzyılda ortaya çıkmıştır.

2. **E** II. Mehmet, egemenliği altına aldığı farklı milletlere dini özgürlük vererek İslam'ın hoşgörü anlayışını göstermiş ve böylece halkın devlete olan bağlılığını artırmıştır. Ayrıca Ortodoksları kendi yanına çekerek Hristiyan dünyasında yaşanabilecek Katolik-Ortodoks birleşmesini engellemiştir.

3. **C** Fatih Sultan Mehmet 1453'te İstanbul'un fethi ile son verdiği Bizans'ın yeniden kurulmasını önlemek amacıyla Bizans hanedanlarından Paleologosların yönetimindeki Mora'yı 1460'da ve Kommenosların yönetimindeki Trabzon'u 1461'de ele geçirmiştir.

4. **D** Karadeniz'e kıyısı olan Amasra ve Kırım'ın fethi, Trabzon Rum İmparatorluğuna son verilmesi ile Sinop'un ele geçirilerek Candaroğullarına son verilmesi, Karadeniz'i bir Türk gölü haline getirmeye yönelik faaliyetlerdir. Ancak Uzun Hasan'ın liderliğinde Otlukbeli'nde Akkoyunlarla Osmanlı'nın savaşması Anadolu Türk siyasi birliğini sağlamaya yöneliktir.

5. **E** Fatih Sultan Mehmet'in üç kez kuşatmasına rağmen alamadığı ve Kanuni Sultan Süleyman Dönemi'nde Osmanlı'ya katılan ada Rodos Adası'dır.

6. **C** Osmanlı'da ilk kez 1479 İstanbul Antlaşması'nda, Venedik Cumhuriyeti'ne İstanbul'da balyos (elçi) bulundurma hakkı tanınmıştır.

7. **A** Otuz bir yıl süren II. Bayezit Devri'nin dış siyaset bakımından sönük geçmesinin nedeni II. Bayezit'in savaştan hoşlanmayan bir padişah olması, Cem Sultan'ın isyan etmesi ve sonucunda Cem'in Avrupa'ya kaçmasıdır. Papanın elindeki Cem'in Osmanlı üzerine yürüyebileceği endişesinden nedeniyle Batı'da büyük bir sefere çıkamamıştır.

8. **B** Anadolu Türk siyasi birliğini sağlamak, Anadolu'da Türklerin egemenliğindeki bütün toprakları tek çatı altında birleştirmekle mümkündür. Bu doğrultuda Karamanoğullarından Konya'nın alınması, Anadolu Türk siyasi birliğini sağlama çabasıdır. Ancak Rumların egemenliğindeki Trabzon'un ve Cenevizlilerin egemenliğindeki Trabzon'un ve Cenevizlilerin egemenliğindeki Amasra'nın alınması Anadolu'da Türk siyasi birliğini sağlamaya yönelik değildir.

9. **C** Osmanlı Devleti Fetret Devri'nde Timur'a esir düşen Yıldırım Bayezit'in oğulları arasındaki taht kavgalarını yaşarken; II. Bayezit Devri'nde ise Bayezit'in kardeşi Cem Sultan'ın İsyanı ile karşılaşmıştır. Kardeşler arasında taht kavgalarının yaşandığı her iki dönemde de fetih politikasında duraksamalar yaşanmıştır. Memlüklerle mücadele Fethet Devri'de değil II. Beyazit döneminde olduğu için, bu özellik her iki dönemin ortak yönü alamaz.

10. **E** Yavuz Sultan Selim'in Mısır Seferi (1516-1517) sonucunda Memlük Devleti yıkılmış ve İslam dünyasının liderliğini ifade eden halifelik, Abbasi sülalesinden Osmanlı sülalesine geçmiştir. Böylece Osmanlı padişahları hem siyasi hem de dini lider olmuşlardır.

MURAT YAYINLARI

11. E Yavuz Sultan Selim'in Memlük Devleti üzerine Mısır Seferi'ni düzenlemesinde;

- Memlüklerin Dulkadiroğullarını Osmanlı'ya karşı kışkırtmaları,
- Halifeliğin ele geçirilmek istenmesi,
- Baharat Yolu ve Doğu Akdeniz üzerinde denetim kurulmak istenmesi,
- Osmanlı'nın doğu sınırını güvenlik altına almak istemesi etkili olmuştur.

12. E Osmanlı Devleti, Türk İslam devletlerinden Memluklar ile 1516 Mercidabık ve 1517 Ridaniye; Akkoyunlular ile ise 1473 Otlukbeli Savaşlarını yapmıştır.

13. A Şahkulu İsyanı 1512'de Safevilerin Şii propagandası sonucu Antalya yöresinde başlamış, Osmanlı-Safevi ilişkilerinin bozulmasında etkili olmuştur. Ancak Buçuktepe ve Şeyh Bedrettin isyanları Kuruluş Dönemi'nde yaşanmıştır.

14. E XV. yüzyılın sonlarında başlayan coğrafi keşifler neticesinde ticaret yolları yön değiştirmiş, Akdeniz ticareti önem kaybetmiş ve Osmanlı Devleti'nin ticari gelirleri azalmıştır. Buna karşın Osmanlı Devleti Avrupalı tüccarları yeniden topraklarına çekmek için Fransa'ya kapitülasyon vermiş ve kanal projelerini hazırlamıştır. Ayrıca Hint Deniz Seferleri düzenlenerek Hint Okyanusu üzerindeki ticaret denetim altına alınmaya çalışılmıştır.

15. E Osmanlı Devleti'nin batı yönünde izlediği fetih politikasında, Edirne Balkanlara, Belgrad Orta Avrupa'ya, Kırım ise Doğu Avrupa'ya yapılan fetihlerde askeri üs olarak kullanılmıştır.

16. D Cem Sultan Olayı, Fatih Sultan Mehmet'in ölümü üzerine oğulları arasında yaşanan taht kavgasıdır ve olay bir iç sorun olarak başlayıp uluslararası bir soruna dönüşmüştür. Bu nedenle Osmanlı'nın etkinliğini artırıcı bir özelliği yoktur. Diğer seçeneklerdekiler Osmanlı'nın İslam dünyasında etkinliğini/saygınlığını arttıran gelişmelerdir.

17. D Sokullu Mehmet Paşa'nın sadrazamlığı, II. Selim'in padişahlığı döneminde Osmanlı Devleti Kıbrıs'ı ele geçirmiştir. Bunun üzerine Haçlı donanması kurulmuş ve Osmanlı Devleti'yle Haçlılar arasında 1571'de İnebahtı Deniz Savaşı'nı Osmanlı kaybetmiştir. Dolayısıyla bu olay Kanuni dönemi gelişmeleri arasında yer almaz.

18. D Cezayir, Akdeniz'in güney kıyısında olduğu için Cezayir'in Osmanlı'ya bağlanması, Akdeniz'de Osmanlı etkinliğini artırmıştır. Ancak İnebahtı Deniz Savaşı Akdeniz'de Osmanlı'nın aldığı bir yenilgi olduğu için, Malta Adası kuşatılıp alınamadığı için, Hint Deniz Seferleri Akdeniz'le ilgili olmadığı için ve Bozoklu Celal İsyanı Anadolu'da olduğu için Osmanlı Devleti'nin Akdeniz'deki etkisini artırıcı nitelikte gelişmeler değildir.

19. A Osmanlı Devleti'nin Rus baskısından kaçan Leh mültecileri koruması, XVIII. yüzyılda Osmanlı-Rus Savaşı'nın başlamasında etkili olmuştur.

20. C Kıbrıs, Doğu Akdeniz'in en büyük adası ve Hristiyanların da önemli bir üssüdür. 1571'de Osmanlı Devleti'nin bu önemli üssü ele geçirmesiyle Doğu Akdeniz'de kontrol Osmanlı'nın eline geçmiştir.

MURAT YAYINLARI

/muratyayincilik

Osmanlı Yükselme Dönemi (Dünya Gücü Osmanlı) • TEST 13

1. **Osmanlı Devleti Batı Akdeniz'in kontrolünü aşağıdakilerden hangisi ile sağlamıştır?**

A) Kıbrıs Adası'nın fethi
B) Preveze Deniz Savaşı
C) Cerbe Adası'nın fethi
D) Sakız Adası'ın fethi
E) Trablusgarp'ın fethi

2. **Osmanlı Devleti'nin;**

I. Safeviler,
II. Memlükler,
III. Akkoyunlular

hangileriyle olan mücadelesinin Anadolu Türk siyasi birliğini sağlamaya yönelik olduğu söylenebilir?

A) Yalnız I
B) Yalnız II
C) Yalnız III
D) II ve III
E) I, II ve III

3. **Türkiye'de 27 Eylül'ün** "Donanma Günü" **olarak kabul edilmesi Osmanlı Devleti'nin aşağıdaki başarılarından hangisi ile ilgilidir?**

A) Sakız Adası'nın fethi
B) Preveze Deniz Savaşı
C) Kıbrıs Adası'nın fethi
D) İstanbul'un fethi
E) Kırım'ın fethi

4. **Sokullu Mehmet Paşa;**

I. Kanuni Sultan Süleyman,
II. II. Selim,
III. III. Murat

hangileri döneminde sadrazamlık görevinde bulunmuştur?

A) Yalnız I
B) Yalnız II
C) Yalnız III
D) II ve III
E) I, II ve III

5. **Anadolu'da Bozoklu Şeyh Celal İsyanı hangi padişah döneminde çıkan ayaklanmalardandır?**

A) Yavuz Sultan Selim
B) II. Bayezit
C) Fatih Sultan Mehmet
D) II. Murat
E) Kanuni Sultan Süleyman

6. **1571 yılında Kıbrıs'ı fetheden Osmanlı komutanı aşağıdakilerden hangisidir?**

A) Lala Mustafa Paşa
B) Hızır Reis
C) Oruç Reis
D) Sokullu Mehmet Paşa
E) Turgut Reis

7. **Aşağıdakilerden hangisi Osmanlı Devleti'nin 16. yüzyılda fethettiği yerlerden biri değildir?**

A) Cerbe
B) Trablusgarp
C) Mısır
D) Sakız
E) Girit

MURAT YAYINLARI

8. **Osmanlı Devleti'nin en uzun süre tahtta kalan hükümdarı aşağıdakilerden hangisidir?**

A) I. Süleyman
B) II. Mehmet
C) I. Selim
D) II. Bayezit
E) II. Selim

9. **Aşağıdakilerden hangisinin fethi Osmanlı Devleti'nde "feth-i mübin" olarak adlandırılmıştır?**

A) Edirne
B) Belgrad
C) Mısır
D) İstanbul
E) Suriye

10. **Kanuni dönemi gelişmeleri arasında aşağıdakilerden hangisi yer almaz?**

A) Budin Seferi
B) Şahkulu Baba Tekeli İsyanı
C) Rodos Seferi
D) Şehzade Mustafa İsyanı
E) Amasya Antlaşması

11. I. Zigetvar Kalesi'nin alınması
II. Mora Yarımadası'nın fethi
III. Mısır'ın fethi

Yukarıdakilerden hangileri Osmanlı Devleti'nin Akdeniz hakimiyetini güçlendiren gelişmelerdendir?

A) Yalnız I
B) Yalnız II
C) Yalnız III
D) II ve III
E) I, II ve III

12. **Reform sürecinde Almanya'da ortaya çıkan Protestanlık mezhebine destek veren Osmanlı padişahı aşağıdakilerden hangisidir?**

A) Fatih Sultan Mehmet
B) II. Selim
C) Kanuni Sultan Süleyman
D) II. Bayezit
E) Yavuz Sultan Selim

13. **Aşağıdakilerden hangisi yükselme devri savaşlarından biri değildir?**

A) Irakeyn Seferi
B) Ridaniye Savaşı
C) Hint Seferleri
D) Bağdat Seferi
E) II. Kosova Savaşı

14. **İspanya'da baskıya maruz kalan Yahudilere sığınma hakkını veren ilk Osmanlı padişahı aşağıdakilerden hangisidir?**

A) II. Mehmet
B) II. Bayezit
C) II. Selim
D) I. Selim
E) II. Murat

MURAT YAYINLARI

/muratyayincilik

15. **Kanuni döneminin sanatçılarından biri olan Matrakçı Nasuh aşağıdaki sanatlardan hangisi ile ün kazanmıştır?**

A) Hat
B) Tezhip
C) Minyatür
D) Cilt
E) Ebru

16. **Osmanlı Devleti'nde;**

I. Canberdi Gazali,
II. Kalenderoğlu,
III. Baba Zünnun

hangilerinin Celali isyanları arasında yer aldığı söylenebilir?

A) Yalnız I
B) Yalnız II
C) Yalnız III
D) II ve III
E) I, II ve III

17. **Fatih Sultan Mehmet döneminden itibaren Divanıhümayun başkanlığını aşağıdakilerden hangisi üstlenmiştir?**

A) Sadrazam
B) Şeyhülislam
C) Defterdar
D) Kazasker
E) Nişancı

18. **Osmanlı Devleti 1473 yılındaki Otlukbeli Savaşı'nı aşağıdaki devletlerden hangisine karşı yapmıştır?**

A) Karakoyunlular
B) Timurlular
C) Safeviler
D) Akkoyunlular
E) Memlükler

19. **Aşağıdakilerden hangisi Turnadağ Savaşı sonucunda Osmanlı hakimiyetine girmiştir?**

A) Karamanoğulları
B) Memlükler
C) Dulkadiroğulları
D) Safeviler
E) Saruhanoğulları

20. **Osmanlı Devleti'nde XVI. yüzyıl divan edebiyatı şairlerinden olup "Sultanüş'şuâra" olarak kabul edilen kişi aşağıdakilerden hangisidir?**

A) Nedim
B) Fuzuli
C) Baki
D) Levni
E) Şeyh Galip

MURAT YAYINLARI

Açıklamalar • TEST 13

1. **D** Osmanlı Devleti Doğu Akdeniz'in kontrolünü 1571 yılında Kıbrıs Adası'nın fethiyle sağlamıştır. Preveze Deniz Savaşı ile Akdeniz Türk gölü olmuştur.
Batı Akdeniz'in kontrolü Sakız Adası'nın fethiyle gerçekleşmiştir.
Osmanlı Devleti'nin Kuzey Afrika'daki gücü Cerbe Adası'nın (Tunus) ve Trablusgarp'ın fethi ile artmıştır.

2. **E** Safeviler, Memlükler ve Akkoyunlular Anadolu'da Osmanlı Devleti ile mücadele eden Türk İslam devletlerindendir.
Dolayısıyla Osmanlı Devleti'nin her biriyle olan mücadelesinde Anadolu otoritesini ve Anadolu Türk siyasi birliğini sağlama amacı yer almaktadır.

3. **B** Osmanlı Devleti'nin 27 Eylül 1538 tarihindeki Preveze Deniz Zaferi, Türkiye'de 27 Eylül'ün "Donanma Günü" olarak kabul etmesini sağlamıştır.

4. **E** Sokullu Mehmet Paşa üç padişaha sadrazamlık yapmıştır. Bunlar; Kanuni Sultan Süleyman, II. Selim ve III. Murat'tır.

5. **A** Anadolu'da Bozoklu Şeyh Celal İsyanı Yavuz Sultan Selim Dönemi'nde (1512-1520) çıkan ayaklanmalardandır. Anadolu'da bundan sonra çıkan isyanların ortak adı "Celali İsyanları" olarak nitelendirilmiştir.

6. **A** 1571 yılında Kıbrıs'ı fetheden Osmanlı komutanı Lala Mustafa Paşa'dır.

7. **E** Girit Adası Yükselme Dönemi'nde değil, 17. yüzyılda 24 yıl süren kuşatma (1645-1669) sonucunda alınmıştır.

8. **A** Kanuni Sultan Süleyman (I. Süleyman) 1520-1566 yılları arasında hüküm sürmüş ve Osmanlı Devleti'nin en uzun süre tahtta kalan hükümdarı olmuştur.

9. **D** Osmanlı Devleti'nde İstanbul'un fethi en parlak zafer anlamına gelen "feth-i mübin" olarak adlandırılmıştır.

10. **B** Şahkulu Baba Tekeli İsyanı II. Bayezit döneminde Şii nitelikli ilk isyandır.
Diğer seçeneklerde verilenler Kanuni dönemi gelişmeleri arasında yer almıştır.

11. **D** 1566 yılında Macaristan'a ait Zigetvar Kalesi'nin alınması Akdeniz hakimiyeti için değil Avrupa hakimiyeti için yapılan faaliyetlerdendir.
Mora Yarımadası'nın ve Mısır'ın fethi Osmanlı'nın Akdeniz hakimiyetine katkı sağlayan faaliyetlerdendir.

12. **C** Kanuni Sultan Süleyman, Reform sürecinde Almanya'da ortaya çıkan Protestanlık mezhebine destek veren Osmanlı padişahıdır. Bu destekteki amaç Roma-Germen İmparatorluğu'na karşı Avrupa'da Hristiyan birliğinin oluşmasını engelleyip fetih haraketlerini hızlandırmak olmuştur.

13. **E** 1448 yılında yapılan II. Kosova Savaşı kuruluş dönemine ait bir özelliktir. Diğer seçeneklerde veilenler yükselme döneminde gerçekleşmiştir.

14. **B** II. Beyazit (1481-1512) 1492 yılında İspanya'daki Yahudilere sığınma hakkını veren ilk Osmanlı padişahıdır.

15. **C** Kanuni döneminin sanatçılarından biri olan Matrakçı Nasuh minyatür sanatı ustasıdır.
"Menazil-i Beyan-ı Irakeyn" adında Kanuni'ye sunduğu minyatür eseri vardır.

16. **D** Yavuz Sultan Selim döneminde Tokat civarında çıkan Bozoklu Şeyh Celal İsyanı'ndan sonra Anadolu isyanları "Celali İsyanları" olarak adlandırılmıştır.
Kanuni dönemide Yozgat civarında çıkarılan Baba Zünnun ve Konya,Maraş ve Çukurova'da çıkarılan Kalenderoğlu isyanları Celali isyanlarındandır.
Ancak Canberdi Gazali İsyanı Mısır'da çıkarılan isyanlardan biri olduğu için Celali isyanları arasında yer almaz.

17. **A** Osmanlı Devleti'nde Sadrazamlar Fatih Sultan Mehmet döneminden itibaren Divanıhümayun başkanlığını üstlenen görevli olmuştur.

18. **D** Fatih Sultan Mehmet döneminde Osmanlı Devleti, Uzun Hasan'ın devleti Akkoyunlular ile Otlukbeli Savaşı'nı (1473) yapmıştır.

19. **C** 1515 yılındaki Turnadağ Savaşı ile Osmanlı hakimiyetine giren beylik Dulkadiroğulları'dır.

20. **C** Baki, Kanuni Sultan Süleyman döneminin ünlü şairlerindendir.
Divan edebiyatı şairlerinden olan Baki, şairlerin sultanı anlamına gelen"Sultanüş'şuâra" olarak nitelendirilmiştir.

MURAT YAYINLARI

/muratyayincilik

Osmanlı Kültür ve Medeniyeti • TEST 14

1. **Osmanlı Devleti'nde;**
I. dini hukuk kuralları,
II. örfi hukuk kuralları,
III. fethedilen ülkelerin örfi uygulamaları
hangilerinin yönetim anlayışının oluşmasında katkı sağlamış olduğu savunulabilir?

A) Yalnız I B) Yalnız II C) Yalnız III
D) I ve II E) I, II ve III

2. **Osmanlı padişahı;**
I. sancağa çıkma,
II. tahta çıkma,
III. seferden dönme
durumlarından hangilerinde askere cülus bahşişi dağıtmaktadır?

A) Yalnız I B) Yalnız II C) Yalnız III
D) I ve II E) I, II ve III

3. **Osmanlı Devleti'nde halktan alınan;**
I. öşür,
II. ihtisap,
III. derbent
vergilerinden hangileri tarımsal üretimle ilgilidir?

A) Yalnız I B) Yalnız II C) I ve II
D) I ve III E) I, II ve III

4. **Fatih Kanunnamesi ile birlikte;**
I. sancağa çıkma,
II. kardeş katli,
III. ekber ve erşed
uygulamalarından hangileri yasallaşmıştır?

A) Yalnız I B) Yalnız II C) I ve II
D) I ve III E) I, II ve III

5. **Osmanlı Devleti'nde aşağıdakilerden hangisi hiyerarşik sıralamada diğerlerinden daha önce gelir?**

A) Rumeli Defterdarı
B) Kadı Naibi
C) Anadolu Defterdarı
D) Kadı
E) Muhtesip

6. I. Sadrazam
II. Beylerbeyi
III. Yeniçeri Ağası
Yukarıda verilenlerden hangileri Osmanlı'da merkezî teşkilatta yer alan görevlilerdendir?

A) Yalnız I
B) Yalnız II
C) I ve II
D) I ve III
E) I, II ve III

7. **Osmanlı Devleti'nde padişahın el yazısı için aşağıda verilen isimlerden hangisi kullanılırdı?**

A) Hat
B) Redif
C) Hüsn-ü Hat
D) Hattıhümayun
E) Ferman

8. I. Vergiler açık artırma yoluyla toplanır.
II. Tımar sistemi uygulanır.
III. Anadolu toprakları bu eyalet türüne girer.
Yukarıdakilerden hangileri salyanesiz eyaletlerin özellikleri arasında yer alır?

A) Yalnız I
B) Yalnız II
C) Yalnız III
D) I ve II
E) II ve III

MURAT YAYINLARI

9. **Aşağıdakilerden hangisi Klasik Dönem Osmanlı Devleti'nde yer alan askeri mekteplerden biri değildir?**

A) Mehterhane
B) Humbarahane
C) Tüfekhane
D) Tophane
E) Hendesehane

10. **Aşağıdakilerden hangisi tımarlı sipahilerin özelliklerinden değildir?**

A) Bulundukları bölgelerde devletin temsilcisi konumundadır.
B) Topladıkları vergi oranlarını kendileri belirleyememektedir.
C) Bölgelerinde güvenliği sağlamakla beraber gerektiğinde köylüyü yargılayabilmektedir.
D) Cebelü denilen atlı asker beslemektedir.
E) Savaş zamanında beylerbeyi emrinde savaşa katılmaktadır.

11. İltizam, vergilerin peşin para karşılığında açık artırmaya çıkarılarak satılması usulüdür.

Osmanlı Devleti'nin böyle bir uygulamaya gitmesine;

I. nakit para ihtiyacı,
II. tarımsal üretimi güçlendirme,
III. taht kavgalarını önleme

gibi durumlardan hangilerinin etki ettiği söylenebilir?

A) Yalnız I
B) Yalnız II
C) I ve II
D) II ve III
E) I, II ve III

12. **Osmanlı Devleti'nde hazine gelirlerinin yükseltilmesi politikasına verilen isim aşağıdakilerden hangisidir?**

A) İaşeçilik
B) Gelenekçilik
C) Fiskalizm
D) Zeamet
E) Mukataa

13. Dikey hareketlilik bir kişinin yönetenlerden yönetilenlere veya yönetilenlerden yönetenler sınıfına geçmesidir.

Buna göre;

I. medrese mezunlarının kadı olması,
II. devşirmelerin, enderunu bitirip devlet memuru olması,
III. iskan politikasıyla Anadolu'daki Türkmenlerin Rumeli'ye yerleştirilmesi

durumlarından hangileri dikey hareketliliğe örnek değildir?

A) Yalnız I
B) Yalnız II
C) Yalnız III
D) I ve II
E) I, II ve III

14. I. Gayrimüslimlerden alınan arazi vergisi
II. Yol, köprü ve geçit vergisi
III. Küçükbaş hayvan vergisi

Buna göre aşağıdaki eşleştirmelerden hangisi doğrudur?

	I	II	III
A)	İspenç	Derbent	Ağnam
B)	Bac	Mücerret	Bennak
C)	Haraç	Avarız	Ağnam
D)	Cizye	Derbent	Bive
E)	Mücerred	Aşar	Ağnam

MURAT YAYINLARI

/muratyayincilik

15. **Aşağıdakilerden hangisi Osmanlı Devleti'nde hazineden maaş ya da toprak geliri alan görevlilerden biri değildir?**

A) Kazasker
B) Yeniçeri
C) Vezir
D) Mütevelli
E) Beylerbeyi

16. **Osmanlılarda zarara uğrayan esnafa yardım amacıyla lonca örgütü tarafından oluşturulan uygulama aşağıdakilerden hangisidir?**

A) Esham
B) Avarız sandığı
C) Vakıf
D) İltizam
E) Narh

17. Medreselerde eğitim gören öğrenciler Osmanlı'da ulema kadrolarında memur olurlardı.
Bu durum medreselerin;
I. eğitim,
II. din,
III. hukuk
alanlarından hangilerine katkı yaptığının bir göstergesidir?

A) Yalnız I
B) Yalnız II
C) Yalnız III
D) I ve II
E) I, II ve III

18. I. Minyatür
II. Hat
III. Ebru
Yukarıdaki Osmanlı sanat dallarından hangileri dönemin özellikleri, yönetimdeki kişiler ve ülkenin durumu hakkında bilgi verir?

A) Yalnız I
B) Yalnız II
C) I ve II
D) II ve III
E) I, II ve III

19. I. Beylerbeyi Sarayı
II. Çırağan Sarayı
III. Rumeli Hisarı
Yukarıdakilerden hangileri XIX. yüzyıl mimari eserleri arasında yer almaz?

A) Yalnız I
B) Yalnız II
C) Yalnız III
D) I ve III
E) II ve III

20. **Aşağıdakilerden hangisi Osmanlı Devleti'nde imtiyazlı eyaletlerde kullanılan yönetici unvanları arasında yer almaz?**

A) Han
B) Voyvoda
C) Tekfur
D) Emir
E) Şerif

MURAT YAYINLARI

Açıklamalar • TEST 14

1. **E** Osmanlı yönetim anlayışında, şeri ve örfi kurallar kadar fethedilen bölgeye ait gelenek, görenek ve örfler de etkili olmuştur.

2. **B** Osmanlı'da hükümdar tahta çıktığında Kapıkulu Ocağı'na cülus bahşişi dağıtmaktadır. Bu durum Fatih'ten itibaren saltanat geleneği haline gelmiştir.

3. **A** Osmanlı'da Öşür, Müslümanlardan alınan ürün vergisi olup tarımsal üretimle ilgilidir.
İhtisap, esnaftan alınan; derbent ise, geçitlerden alınan vergiler olup ticaretle ilgilidir.

4. **C** Osmanlı Devleti'nde şehzadelerin vali olarak görevlendirilmesi (sancağa çıkma) ve kardeş katli Fatih Kanunnamesi ile yasallaşmıştır. Ekber ve Erşed usulü, XVII. yüzyılda I. Ahmet tarafından getirilmiştir.

5. **A** Rumeli görevlileri hiyerarşide Anadolu görevlilerinden önce gelir. Bunun nedeni fetih politikasının Rumeli yönünde devam ettirilmesidir.

6. **D** Divan üyelerinden Sadrazam ve Yeniçeri Ağası merkez teşkilatı, Beylerbeyi ise taşra teşkilatında yer alır.

7. **D** Hat, güzel yazı yazma sanatına; redif, II. Mahmut döneminde kurulan jandarma birliklerine; hüsnü hat, güzel yazılara; ferman, padişahın yazılı buyruğuna verilen isimdir. Padişahın el yazısı ise Hattıhümayun olarak adlandırılır.

8. **E** Osmanlı Devleti'nde salyaneli eyaletlerde vergiler açık artırma yoluyla (İltizam usulü) toplanmıştır. Salyanesiz eyaletler ise tımar sisteminin uygulandığı topraklardır. Anadolu ve Rumeli toprakları Salyanesiz eyaletlerdendir.

9. **E** Klasik Dönem Osmanlı askeri teşkilatında askeri müzik eğitiminin verildiği mehterhane, tüfek yapımının öğretildiği tüfekhane, top dökümünün öğretildiği tophane ve havan topu yapımının öğretildiği humbarahane gibi mektepler bulunmuştur. Hendesehane ise XVIII. yüzyılda batı örnek alınarak açılan mühendis subay okuludur.

10. **C** Tımarlı sipahi, gittiği bölgedeki halkın yargılanması ile ilgili bir göreve sahip değildir. Yargılama kadı ile devlet kontrolündedir.

11. **A** Devlet nakit para ihtiyacını karşılamak için iltizam sistemini uygulamıştır.

12. **C** Fiskalizm, Osmanlı Devleti'nde hazine gelirlerinin yükseltilmesi politikasına verilen isimdir. İaşecilik,ticari ürünlerin bol,ucuz ve kaliteli olması politikasıdır. Gelenekçilik,gelir-gider dengesidir. Zeamet,dirlik sisteminin özelliklerindendir. Mukataa,iltizamın uygulandığı eyaletlere özgü bir sistemdir.

13. **C** Halkın bir bölgeden bir başka bölgeye yerleştirilmesi dikey değil, yatay hareketliliğe örnektir.

14. **A** Gayrimüslimlerden alınan arazi vergisine ispenç, yol ve geçit vergisine derbent, küçükbaş hayvan vergisine ise ağnam denmektedir.

15. **D** Mütevelli, vakıf gelirlerini sosyal kurumlara aktaran ve vakfı yöneten görevlidir. Geçimleri, vakıf sistemi aracılığıyla karşılandığı için maaş ya da toprak geliri almamaktadır.

16. **B** Narh, loncalar tarafından belirlenen fiyat listesidir. Vakıf, geliri sosyal hizmetler ve hayır işlerine bırakılan topraklardır. İltizam, vergi gelirlerinin açık artırma usulü ile toplanması yöntemidir. Esham, iç borçlanma senetleridir. Avarız sandığı ise esnaf dayanışmasını sağlamak amacıyla esnaftan alınana aidatlar ile oluşturulan Lonca Teşkilatı Fonu'dur.

17. **E** Medreselerde, kazasker, müftü ve müderris gibi görevliler yetiştiğine göre bu kurum, hukuk, din ve eğitim alanlarına katkı yapmaktadır.

18. **C** Minyatür, olayları kişilerin statüsüne göre çizerek anlatan ve dönem hakkında bilgi veren kitap resimlerine verilen isimdir. Hat,güzel yazı yazma sanatıdır. Hattat da o dönemin bir tür yazarları olduğu için yönetimdeki kişiler ve ülkenin durumu hakkında bilgiler vermişlerdir.

19. **C** Beylerbeyi ve Çırağan Saray'ı XIX. yüzyılda yapılmıştır. Rumeli Hisarı ise Fatih Sultan Mehmet tarafından İstanbul'un fethi için yapılan hazırlıklar kapsamında inşa edilmiştir. XV. yüzyıl eseridir.

20. **C** Osmanlı'da imtiyazlı eyaletlerde görev yapan yöneticiler bulundukları bölgeye özgü unvanlar kullanmışlardır. Bunlar;
- Hicaz'da Emir ya da Şerif,
- Kırım'da Han,
- Eflak ve Boğdan'da Voyvoda,

Tekfur, Bizans Devleti'nde valilere verilen unvandır.

MURAT YAYINLARI

/muratyayincilik

Osmanlı Kültür ve Medeniyeti • TEST 15

1. Sadrazam başkanlığında taht kadısı ve yeniçeri ağasının katılımıyla toplanan çarşamba divanı'nın gündemi İstanbul'dur. Sadrazam, örfi konuları dinler ve karar verir; şeri davaları ise taht kadısına bırakırdı.

Bu bilgiye dayanarak aşağıdakilerden hangisine ulaşılamaz?

A) Osmanlı devlet yönetiminde İstanbul'un ayrı bir önemi vardır.
B) Taht kadısı bazı dönemlerde divan toplantılarına katılmıştır.
C) Yeniçeri ağasının, İstanbul yönetimiyle ilgili görevleri vardır.
D) Sadrazam, divanıhümayunda örfi hukukun başıdır.
E) Sadrazamın divan başkanlığı görevi de vardır.

2. **Fatih Kanunnamesi'nde;**

I. saray merasimleri,
II. devlet görevlilerinin mertebeleri,
III. suçlar ve karşılıkları

konularından hangileri yer almıştır?

A) Yalnız I
B) Yalnız II
C) I ve II
D) II ve III
E) I, II ve III

3. **Osmanlı Devleti'nde aşağıdaki uygulamalardan hangisinin amacı merkezi otoriteyi korumak ve güçlendirmek değildir?**

A) Kafes usulü
B) Müsadere
C) Ekber ve erşed
D) Kardeş katli
E) Vakıf sistemi

4. I. Nişancı
II. Defterdar
III. Kazasker

Yukarıdakilerden hangileri Divanıhümayunda ilmiye sınıfını temsil etmektedir?

A) Yalnız I
B) Yalnız II
C) Yalnız III
D) I ve II
E) II ve III

5. **Aşağıdakilerden hangisi Osmanlı Devleti'nde gelir kaynaklarının (vergilerin) dirlik sistemi ile toplandığı eyaletlerden biri değildir?**

A) Rumeli
B) Halep
C) Anadolu
D) Karaman
E) Mısır

6. I. Şehzadegan Mektebi
II. Enderun
III. Meşkhane

Yukarıdakilerden hangileri Osmanlı Devleti'nde Topkapı Sarayı'nda yer alan eğitim kurumlarındandır?

A) Yalnız I
B) Yalnız II
C) I ve II
D) II ve III
E) I, II ve III

7. **Aşağıdakilerden hangisi, Osmanlı Devleti'nde en büyük yönetim birimidir?**

A) Sancak
B) Kaza
C) Nahiye
D) Eyalet
E) Köy

MURAT YAYINLARI

8. **Osmanlı Devleti'nin Orhan Bey tarafından kurulan ilk düzenli ordusu aşağıdakilerden hangisidir?**

A) Topçular
B) Yaya ve müsellemler
C) Yeniçeriler
D) Tımarlı sipahiler
E) Kapıkulu Ocağı

9. **Osmanlı Devleti'nde tımar sisteminin bozulması üzerine orduya alınan ücretli askerlere ne ad verilmiştir?**

A) Sekban
B) Cebelü
C) Levent
D) Sipahi
E) Müsellem

10. İstanbul'un fethinden sonra Türk ve Müslüman halka, ev, dükkan, bağ ve bahçesinin tapuları verilmemiş ancak Galata'daki Cenovalılar, II. Mehmet'ten aldıkları bir fermanla ticari imtiyazlarını ve tapu haklarını korumuşlardır.

Bu bilgiye dayanarak;

I. Özel mülkiyet konusunda Cenovalılar ayrıcalıklı hale gelmiştir.
II. Cenovalılar, Bizans Dönemi'nden beri İstanbul'un sakinlerindendir.
III. Osmanlı, İstanbul'un ticari canlılığını korumak istemektedir.

yargılarından hangilerine ulaşılabilir?

A) Yalnız I
B) Yalnız II
C) Yalnız III
D) I ve II
E) I, II ve III

11. **Osmanlı'da büyük şehirlerde bulunan ve bugünkü meyve hallerine benzeyen pazarlara gelen ürünlerin tartılması ve adaletli bir şekilde dağıtılması işlerini üstlenen görevli aşağıdakilerden hangisidir?**

A) Gümrük Emini
B) Kadı Naibi
C) Bac Emini
D) Köy Kethüdası
E) Kapan Emini

12. **Osmanlı'da devlet hizmeti karşılığında maaş olarak bırakılan topraklar arasında aşağıdakilerden hangisi yer almaz?**

A) Has
B) Zeamet
C) Tımar
D) Eşkinci
E) Metruk

13. I. Rumeli topraklarında uygulanmıştır.
II. Uygulama Fatih Dönemi'nde başlamıştır.
III. Devlet bütçesine katkı sağlaması amacıyla oluşturulmuştur.

Yukarıdakilerden hangileri iltizam sistemi ile ilgili doğru bir bilgidir?

A) Yalnız I B) I ve II C) I ve III
D) II ve III E) I, II ve III

14. **Aşağıdakilerden hangisi Osmanlı'da Lonca Teşkilatı'nda yer alan görevlilerden biri değildir?**

A) Kethüda
B) Yiğitbaşı
C) Şeyh
D) Ehli Hibre
E) Muid

MURAT YAYINLARI

/muratyayincilik

15. **Osmanlı'da eyalet ordusunda yer alan;**

I. voynuk,
II. martolos,
III. cerahor

gibi birliklerden hangileri Hristiyan kökenli askerlerden oluşmaktadır?

A) Yalnız I
B) Yalnız II
C) I ve II
D) II ve III
E) I, II ve III

16. **Osmanlı Devleti'nde XIX. yüzyıla kadar yöneten sınıfa geçmekte;**

I. dil,
II. din,
III. cinsiyet

kriterlerinden hangileri etkili olmaktaydı?

A) Yalnız I
B) Yalnız II
C) I ve II
D) II ve III
E) I, II ve III

17. **Aşağıdakilerden hangisi Osmanlı hukuk sistemi ile ilgili doğru bir bilgi değildir?**

A) Kadı atamaları kazasker tarafından yapılırdı.
B) Örfi hukuku, divanda nişancı temsil etmekteydi.
C) İstanbul, Bursa ve Edirne gibi Osmanlı başkentlerinde adalet işleri taht kadıları tarafından yürütülürdü.
D) Davalar görülürken öncelik örfi hukuktaydı.
E) Kadılar, idari yetkilere de sahipti.

18. **Osmanlı Devleti'nde XVII. yüzyıla kadar şehzadeler taşrada aşağıdaki görevlerden hangisini üstlenmiştir?**

A) Beylerbeyi
B) Kadı
C) Sancakbeyi
D) Subaşı
E) Kethüda

19. • Meşhur eseri, "Müntehabüş Şifa"dır.
• Anadolu'nun İbn-i Sina'sı olarak tanınır.

Yukarıda bilgileri verilen ünlü Osmanlı tıp alimi aşağıdakilerden hangisidir?

A) Molla Lütfi
B) Hacı Paşa
C) Aşıkpaşazade
D) Hezarfen Ahmet Çelebi
E) Koçi Bey

20. **Aşağıdakilerden hangisi geç dönem Osmanlı mimarisi ile ilgili değildir?**

A) Barok tarz kullanılmıştır.
B) Topkapı Sarayı'nın dışında devletin yönetildiği saraylar inşa edilmiştir.
C) Sultan Ahmet Çeşmesi bu döneme aittir.
D) Dönemin önemli mimarı, Mimar Sinan'dır.
E) Rokoko tarzında eserler yapılmıştır.

MURAT YAYINLARI

Açıklamalar • TEST 15

1. **D** Sadrazam, çarşamba divanında örfi konularda karar verse de divanıhümayunda örfi hukukun başı nişancıdır.

2. **E** Kanununame-i Ali Osman 3 kısımdan oluşmuştur. Birinci kısmında devlet teşrifatı (mertebeler), ikinci kısımda saray merasimleri, üçüncü kısımda ise suçlar ve karşılıkları yer almıştır.

3. **E** Vakıf sistemi merkezi otoriteyi güçlendirmek için değil sosyal kurumların ihtiyaçlarını karşılamak amacıyla kurulmuş sistemdir.

4. **C** Kazasker, divanda ilmiye sınıfının temsilcilerindendir. Nişancı ve defterdar ise kalemiye sınıfına mensupturlar.

5. **E** Osmanlı Devleti'nde vergilerin dirlik sistemiyle toplandığı saliyenesiz eyaletlerdeki toprak gelirleri yöneticilere hizmetleri karşılığında maaş olarak bırakılmıştır. Mısır, saliyaneli bir eyalet olup vergiler iltizam usulü ile toplanmşıtır.

6. **E** Osmanlı'da, şehzadegan mektebi, şehzadelerin eğitimi için; enderun devşirmelerin eğitimi için; meşkhane ise müzik eğitimi için açılan saray mektepleridir.

7. **D** Osmanlı'daki yönetim birimleri büyükten küçüğe doğru eyalet, sancak, kaza, nahiye, köy şeklindedir.

8. **B** Osmanlı'da Orhan Bey, yaya ve müsellem ordusunu kurarak ilk ordu teşkilatını oluşturmuştur.

9. **A** Osmanlı'da orduya alınan ücretli askere verilen isim sekbandır.

10. **E** Cenovalılar, İstanbul'un fethinden önce İstanbul'un yerleşikleridir. Onların ticari hayattaki etkinliğini korumak isteyen II. Mehmet, Cenovalılara bazı ayrıcalıklar tanımıştır.

11. **E** Osmanlı Devleti'nde tek bir cins ürünün toplandığı ya da toptan dağıtımının yapıldığı yerlere kapan, görevlilerine ise kapan emini adı verilmiştir.

12. **E** Metruk, Osmanlı'da miri arazinin bir parçası olup halkın yararına terk edilen pazar ve panayır kurulan arazilerdir. Has, zeamet, mustahfaz ve hizmet tımarı dirlik arazinin çeşitleri olup devlet görevlilerine hizmet karşılığında bırakılırdı.

13. **D** İltizam, salyaneli eyaletlerde, Fatih Dönemi'nde uygulanmaya başlanan ve XVII. yüzyılda yaygınlaşan sistemdir. Bu sitemde yapılan açık artırma ile vergi gelirleri devlet bütçesine aktarılmıştır. Ancak iltizam sistemi merkezden uzak Mısır, Tunus, Yemen gibi yerlerde uygulanmıştır. Rumeli'de ise tımar sistemi uygulanmıştır.

14. **E** Muid, medreselerde bulunan müderrislerin yardımcılarıdır. Ancak verilen diğer görevliler lonca teşkilatında yer alırlar. Şeyh (Pir); loncaların başında bulunur. Yiğit başı; loncaların güvenliğini sağlar. Ehli hibre, bilirkişi, kethüda; esnaf-devlet ve esnaf-halk ilişkilerini düzenler.

15. **E** Osmanlı'da, savaşlarda atların bakımından sorumlu Hristiyan askerlere Voynuk, seferlerde casusluk faaliyetlerinde kullanılan Hristiyan askerlere Martolos ve geçitlerin güvenliğini sağlayan hristiyan askerlere ise Cerahor adı verilmiştir.

16. **E** Osmanlı'da XIX. yüzyıla kadar devlet memuru olabilmenin şartları erkek olmak, Türkçe bilmek ve Müslüman olmak olmuştur. Bu durum yönetici olabilmek için dil, din ve cinsiyet kriterlerinin gözetildiğini kanıtlamaktadır.

17. **D** Osmanlı'da davalara bakılırken öncelik şeri hukuktadır. Kuran, hadis, icma ve kıyas gibi kaynaklar göz önünde bulundurularak karar verilmekteydi.

18. **C** Osmanlı'da şehzadeler XVII. yüzyıla kadar sancakbeyi olarak taşrada görev üstlenmiş, bu uygulamaya sancağa çıkma adı verilmiştir.

19. **B** Osmanlı'da 1339-1413 yılları arasında yaşayan Hacı Paşa, Anadolu'nun İbn-i Sina'sı olarak anılan önemli bir tıp âlimi olup Müntehabü'ş Şifa adlı bir de eser kaleme almıştır.

20. **D** Osmanlı Geç Dönem mimarisi barok ve rokoko tarzlarının görüldüğü, Dolmabahçe gibi devletin yönetildiği sarayların yapıldığı dönemdir. Mimar Sinan, geç dönemin değil klasik dönemin mimarıdır.

MURAT YAYINLARI

Osmanlı Kültür ve Medeniyeti • TEST 16

1. **Aşağıdaki şehirlerden hangisi, Osmanlı Devleti'nin Kuruluş Dönemi'nde şehzadelerin vali olarak görevlendirildiği sancaklardan biri değildir?**

A) Kütahya
B) Manisa
C) Amasya
D) Bursa
E) Trabzon

2. I. Alınan kararlar mühimme defterlerine kayıt edilir.
II. Danışma kuruludur.
III. Kuruluşundan itibaren sadrazam başkanlığında toplanır.

Yukarıdakilerden hangileri Divanıhümayunun özellikleri arasında yer alır?

A) Yalnız I
B) Yalnız II
C) I ve II
D) II ve III
E) I, II ve III

3. **Osmanlı Devleti'nde ilk kez yazılı kanunname hazırlayan padişah aşağıdakilerden hangisidir?**

A) II. Mehmet
B) II. Abdülhamit
C) I. Murat
D) Abdülmecit
E) I. Süleyman

4. **Devlet memurlarının görevlerini kötüye kullanmaları ve kanunlara aykırı hareket etmeleri durumunda halkı zulme karşı korumak amacıyla yayımlanan kanunlara verilen isim aşağıdakilerden hangisidir?**

A) Ferman
B) Berat
C) Tevki
D) Adaletname
E) Buyruk

5. **Osmanlı'da orta ve yüksek öğretimin yapıldığı medreselerin akademik kariyer basamakları arasında aşağıdakilerden hangisi yer almaz?**

A) Softa
B) Danişmend
C) Muid
D) Müderris
E) Subaşı

6. Osmanlı Devleti'nde yürütme ve askerlik işlerinde görev yapanlar "seyfiye" kökenlidir.

Aşağıdakilerden hangisi seyfiye sınıfının görevlilerinden biri değildir?

A) Yeniçeri
B) Subaşı
C) Sipahi
D) Reis'ül-küttap
E) Beylerbeyi

MURAT YAYINLARI

7. I. Beylerbeyi
II. Vezir
III. Kadı
IV. Müderris

Yukarıdakilerden hangileri Osmanlı'da taşradaki yönetim birimlerinde yer alan idari kadrolar arasındadır?

A) I ve II
B) I ve III
C) II ve IV
D) I, II ve III
E) II, III ve IV

8. **Aşağıdakilerden hangisi Osmanlı Devleti'nde uygulanan iskan politikasının amaçlarından biri değildir?**

A) Fethedilen toprakların Türkleşmesi
B) Yeni fetihlere zemin hazırlanması
C) Orduya lojistik destek sağlanması
D) Fethedilen bölgelerde otoritenin sağlanması
E) Devşirme asker yetiştirilmesi

9. **Osmanlı Devleti'nde ekonominin bozulması sonucu devletin piyasaya daha fazla para sürerek ek gelir elde etmek amacıyla uyguladığı politikaya ne ad verilmiştir?**

A) İskan
B) İstimalet
C) Tağşiş
D) Pençik
E) Vakıf

10. I. İhtiyaçları tımar sahiplerince karşılanır.
II. Devşirme kökenlidir.
III. Üç ayda bir ulufe denilen maaş alır.
IV. Esame denilen defterlere kayıtlıdır.

Kapıkulu Ocağı'nın özellikleri arasında yukarıdakilerden hangileri yer alır?

A) Yalnız I
B) Yalnız II
C) I ve IV
D) I, II ve III
E) II, III ve IV

11. **Osmanlı Klasik Dönemi'nde başkent İstanbul'un yönetiminde en yüksek mülki amir aşağıdakilerden hangisidir?**

A) Yeniçeri Ağası
B) Şehremini
C) Mimarbaşı
D) Muhtesip
E) Taht Kadısı

12. **Osmanlı Devleti'nde;**
I. paşmaklık,
II. cebelü,
III. ağnam

gibi kavramlardan hangileri toprak sistemi ile ilgili değildir?

A) Yalnız I
B) Yalnız II
C) Yalnız III
D) I ve II
E) II ve III

MURAT YAYINLARI

/muratyayincilik

13. Osmanlı Devleti'nde, çarşı ve pazarı denetleyen, malların ucuz olarak tüketiciye ulaştırılmasını sağlayan ve hijyenik şartlara uyularak kaliteli mal üretilmesini denetleyen kurumun adı aşağıdakilerden hangisidir?

A) Narh Müessesesi
B) İhtisap Müessesesi
C) Menzil teşkilatı
D) Derbent teşkilatı
E) Memleket sandıkları

14. Aşağıdakilerden hangisi Osmanlı Devleti'nde değirmenlerden alınan işletme vergisine verilen isimdir?

A) Asiyap
B) Cerime
C) Aruz
D) Avarız
E) Bennak

15. Osmanlı Devleti'nde XIX. yüzyılda Nazırlıkların kurulmasıyla birlikte Hariciye Nazırlığı'na dönüştürülen makam aşağıdakilerden hangisidir?

A) Veziriazamlık
B) Reisülküttaplık
C) Subaşılık
D) Kadılık
E) Defterdarlık

16. Osmanlı Devleti'nde yönetilenlere verilen genel isim aşağıdakilerden hangisidir?

A) Eşraf
B) Beraya
C) Vatandaş
D) Reaya
E) Cemaat

17. Osmanlı hukuk sisteminin oluşmasında fethedilen yerlerin örfi kurallarının da etkili olduğuna;

I. Şeri,
II. Konsolosluk,
III. Cemaat

mahkemelerinden hangileri kanıt oluşturur?

A) Yalnız I B) Yalnız II C) Yalnız III
D) I ve II E) II ve III

18. Osmanlı Devleti'nde Molla Fenari, Kemalpaşazade ve Ebussuud Efendi gibi alimler aşağıdaki ilim alanlarından hangisinde bir otorite olarak kabul edilmişlerdir?

A) Astronomi
B) Matematik
C) Fıkıh
D) Tıp
E) Tarih

19. I. Şeker Ahmet Paşa
II. Osman Hamdi Bey
III. Ahmet Karahisari

Yukarıdakilerden hangileri Osmanlı Devleti'nde resim sanatıyla uğraşmıştır?

A) Yalnız I B) Yalnız II C) Yalnız III
D) I ve II E) I, II ve III

20. Osmanlı Dönemi'ne ait aşağıdaki eser-mimar eşleştirmelerinden hangisi yanlış verilmiştir?

	Eser	Mimar
A)	II. Bayezid Külliyesi	Mimar Hayrettin
B)	Süleymaniye Camii	Mimar Sinan
C)	Sultanahmet Camii	Sedefkâr Mehmet Ağa
D)	Selimiye Camii	Mimar Sinan
E)	Şehzade Camii	Mimar Kemalettin

MURAT YAYINLARI

Açıklamalar • TEST 16

1. **E** Osmanlı'da Kuruluş Dönemi'nde şehzadelerin görev yaptığı sancaklar, Bursa, İzmit, İznik, Kütahya, Manisa ve Amasya şehirleri olmuştur. Trabzon Yükselme Devri'nde fethedilmiş ve bu dönemin şehzadelerinin görev yaptığı bir sancak olmuştur.

2. **C** Son sözü söyleme yetkisinin padişahta olduğu ve bu nedenle danışma kurulu olma özelliği gösteren divanda alınan kararlar, mühime defterlerine yazılmaktadır. Sadrazamın divana başkanlık etmesi, Fatih Dönemi'nden itibarendir.

3. **A** II. Mehmet (Fatih) Dönemi'nde hazırlanan Kanunname-i Al-i Osman ile örfi hukuk kuralları yazılı hale getirilmiştir.

4. **D** Adaletname, devlet memurlarının hukuksuz davranışlarından halkı korumak amacıyla padişah tarafından çıkarılan yasadır.

5. **E** Osmanlı medreselerinin akademik kariyer basamakları sırasıyla softa-danişment-muid-mülazım-müderris şeklindedir. Şubaşı ordu komutanıdır.

6. **D** Reisülküttap, seyfiye sınıfının değil, kalemiye sınıfının mensubudur.

7. **B** Osmanlı'da Beylerbeyi eyaletleri, kadı ise kazaları yönetmektedir. Her ikisi de taşradaki idari kadrolar arasında yer alır.

8. **E** Devşirme askerin yetiştirilmesi Acemioğlanlar Ocağı'nda gerçekleştirilmiştir. Dolayısıyla iskan politikası ile devşirme ordusu arasında bu anlamda bir bağ kurulamaz.

9. **C**
   - Osmanlı'da fethedilen yerlere Türkmenlerin yerleştirilmesi iskân,
   - Fethedilen topraklarda yaşayan gayrimüslimlere yönelik uygulanan anlayış siyasetine istimalet,
   - Sosyal hizmetlere ve hayır işlerine ayrılan arazilere vakıf,
   - Savaşlarda ele geçirilen esirlerin beşte birinin ordu hizmetine alınmasına pençik sistemi adı verilmiştir.
   - Tağşiş, devletin mali sıkıntılar yaşadığı dönemlerde piyasada kullanılan madeni paranın içerisindeki değerli maden oranını azaltması uygulamasıdır.

10. **E** Kapıkulu Ocağı, devşirme kökenlilerden oluşan, isimleri esame defterlerine kayıtlı olan ve devletten üç ayda bir ulufe denilen maaş alan merkez ordusudur.

11. **E** Klasik Dönem Osmanlı Devlet yönetiminde İstanbul (payitaht) özel bir yönetime sahip olmuştur. İstanbul'un güvenlik işlerine Yeniçeri Ağası, belediye işlerine şehremini ve ona bağlı olan muhtesip, imar işlerine ise mimarbaşı bakmaktaydı. İstanbul'un en üst mülki amiri ise taht kadısı olup adli işlerden de sorumluydu.

12. **C** Ağnam küçükbaş hayvanlardan alınan vergidir ve toprakla ilgili değildir. Paşmaklık, çeyiz toprağıdır. Cebelü ise dirlik sisteminde sipahinin yetiştirmiş olduğu askere verilen isimdir.

13. **B** Osmanlı'da çarşı pazar denetleyerek zabıtalık görevini üstlenen kuruma ihtisap kurumu, görevlisine ise muhtesip denmektedir.

14. **A** Resmi asiyap, değirmenden alınan vergiye verilen isimdir.

15. **B** Osmanlı Devleti'nde 19. yüzyılda Nazırlıkların kurulması ile Hariciye Nazırlığı'na dönüştürülen makam Reisülküttaplık makamıdır.

16. **D** Osmanlı'da yönetilenlere reaya ya da tebaa denmektedir.

17. **C** Osmanlılar hâkimiyeti altına giren milletlere özel hukuk alanında serbestlik tanınmış, gayrimüslimler kendi davaları için cemaat mahkemelerini kurmuşlardır. Bu durum Osmanlı hukuk sisteminin oluşumunda fethedilen yerlerin örfi uygulamalarının da etkili olduğuna kanıt oluşturmaktadır.

18. **C** Osmanlı Devleti'nde her biri şeyhülislamlık makamında görev üstlenen Molla Fenari, Kemalpaşazade ve Ebusuud Efendi Fıkıh (İslam hukuku) alanında otorite olarak kabul edilen âlimlerdir.

19. **D** Osmanlı'da ilk resim sergisini, Şeker Ahmet Paşa açmış; Osman Hamdi Bey ise resim alanında ün yapmıştır. Ahmet Karahisari ise hat sanatı ile uğraşmıştır.

20. **E** İstanbul'da bulunan Şehzade Camii, Mimar Sinan'ın çıraklık eseridir. Mimar Kemalettin Bey Osmanlı'nın son dönem mimarları arasında yer alır.

MURAT YAYINLARI

/muratyayincilik

Osmanlı Kültür ve Medeniyeti • TEST 17

1. **Osmanlı Devleti'nde;**

I. seferlere katılma,

II. kendi adına hutbe okutma,

III. hükümdarın emirlerini uygulama

hangileri sancağa çıkan şehzadelerinin görev ve sorumlulukları arasında yer almaz?

A) Yalnız I
B) Yalnız II
C) Yalnız III
D) I ve III
E) II ve III

2. **Aşağıdaki hangisi Osmanlı Devleti'nde seyfiye sınıfı üyelerinden biridir?**

A) Nişancı
B) Defterdar
C) Reisülküttap
D) Beylerbeyi
E) Kazasker

3. **Osmanlı Kuruluş Dönemi'nde gelişen el sanatları arasında aşağıdakilerden hangisi yer almaz?**

A) Hat
B) Cilt
C) Tezhip
D) Heykel
E) Ebru

4. **Fatih Dönemi'nde "Mücerrebname" adlı eseriyle deneysel farmakolojinin öncüsü ünlü hekim aşağıdakilerden hangisidir?**

A) Altuncuzade
B) Akşemsettin
C) Dursun Fakih
D) Sabuncuoğlu Şerafettin
E) Ali Kuşçu

5. **Osmanlı Devleti'nde geliri doğrudan devlet hazinesine aktarılan arazi aşağıdakilerden hangisidir?**

A) Dirlik
B) Mukataa
C) Yurtluk
D) Öşriye
E) Ocaklık

6. **Osmanlı Devleti'nde yasal dışı yollarla haksız kazanç elde edenlerin cezalandırılması aşağıdakilerden hangisiyle sağlanmıştır?**

A) Hüküm
B) İcazet
C) İltizam
D) İstimalet
E) Müsadere

7. **Osmanlı Devleti'nde imtiyazlı eyaletler arasında aşağıdakilerden hangisi yer almaz?**

A) Trablusgarp
B) Hicaz
C) Kırım
D) Eflak
E) Erdel

8. **Aşağıdakilerden hangisi Osmanlı Devleti'nde ürün standartlarının korunmasından sorumlu görevlidir?**

A) Mekkari Taifesi
B) Derbentçi
C) Menzil Teşkilatı
D) İhtisap Ağası
E) Muhtesip

MURAT YAYINLARI

9. **UNESCO Dünya Mirası Listesi'ne 2011 yılında alınan Osmanlı eseri aşağıdakilerden hangisidir?**

A) Topkapı Sarayı
B) Sultan Ahmet Camii
C) Edirne Selimiye Camii ve Külliyesi
D) İshak Paşa Sarayı
E) Süleymaniye Camii ve Külliyesi

10. **Aşağıdakilerden hangisi Osmanlı Devleti'nde kapıkulu ordusu içerinde yer alan birliklerden biri değildir?**

A) Top Arabacıları
B) Humbaracılar
C) Akıncılar
D) Lağımcılar
E) Garipler

11. **Fatih Sultan Mehmet'in hocası ve dönemin ünlü tıp insanı aşağıdakilerden hangisidir?**

A) Akşemseddin
B) Ali Kuşçu
C) Kadızade Rumi
D) Sabuncuoğlu Şerafeddin
E) Molla Fenari

12. **III. Murat döneminde İstanbul'da Tophane Rasathane adlıyla gözlemevi kuran astronomi ve matemetik alanında çalışmalarıyla ünlü bilim insanı aşağıdakilerden hangisidir?**

A) Kadızade Rumi
B) Ali Kuşçu
C) Takiyüddin Mehmet
D) Piri Reis
E) Seydi Ali Reis

13. **XV. yüzyılda Osmanlı Devleti'nde;**

I. etnik yapı,
II. din ve mezhep,
III. mesleki statü

unsurlarından hangileri millet sisteminin oluşmasında belirleyici olmuştur?

A) Yalnız I
B) Yalnız II
C) Yalnız III
D) I ve III
E) II ve III

14. **Osmanlı eğitim sistemiyle ilgili aşağıdakilerden hangisi yanlış verilmiştir?**

A) Medreselerde eğitim gören öğrencilere suhte denir.
B) Medrese hocaları kazasker tarafından atanmıştır.
C) Enderun Mektebi'nde sadece devşirmeler eğitim almıştır.
D) Tekkeler dini eğitim verilen eğitim kurumlarıdır.
E) Acemioğlanlar Ocağı askeri eğitim verilen kurumdur.

MURAT YAYINLARI

/muratyayincilik

15. Aşağıdaki Osmanlı eserlerinden hangisinde Batı mimarisi etkisinden söz edilebilir?

A) Yıldız Sarayı
B) İznik Süleyman Paşa Medresesi
C) Bey Sarayı
D) Mostar Köprüsü
E) Sahn-ı Seman Medresesi

16. Osmanlı Devleti'nde Nigari,Nakkaş Osman ve Abdullah Buhari aşağıdaki hangi sanat dalındaki çalışmalarıyla ün kazanmışlardır?

A) Hat
B) Ebru
C) Minyatür
D) Vitray
E) Tezhip

17. Osmanlı Devleti'nde elçilerin kabul edildiği divan türü aşağıdakilerden hangisidir?

A) Galebe Divanı
B) Cuma Divanı
C) Ayak Divanı
D) Ulufe Divanı
E) Çarşamba Divanı

18. I. Bey
II. Hüdavendigar
III. Sultan

Yukarıdakilerden hangileri Osmanlı hükümdarlarının kullandığı unvanlar arasında yer almıştır?

A) Yalnız I
B) Yalnız II
C) Yalnız III
D) I ve III
E) I, II ve III

19. Fatih'ten itibaren hükümdarların Divanıhümayun toplantılarını izledikleri bölüme verilen isim aşağıdakilerden hangisidir?

A) Arz Odası
B) Babüssaade
C) Otağ-ı Hümayun
D) Kasr-ı Adl
E) Birun

20. Osmanlı Devleti'nde;

I. Tunus,
II. Mısır,
III. Cezayir

hangileri Garp Ocakları olarak adlandırılan topraklardandır?

A) Yalnız I
B) Yalnız II
C) Yalnız III
D) I ve III
E) I, II ve III

MURAT YAYINLARI

Açıklamalar • TEST 17

1. **B** Sefer zamanında birlikleriyle beraber savaşa katılmak,bulundukları bölgede hükümdarın emirlerini uygulamak şehzadelerin görev ve sorumluluklarındandır.
Kendi adına hutbe okutmak ise şehzadelerin görev ve sorumluluklarından biri değildir bu özellik hükümdarlık sembollerindendir.

2. **D** Osmanlı Devleti'nde yöneten sınıfa beraya sınıfı adı verilmiş ve seyfiye, ilmiye ve kalemiye sınıfı olarak üçe ayrılmıştır.
İdari ve askeri bürokrasi işleri işleri "seyfiye sınıfı"na aittir. Beylerbeyi, eyalet yöneticisidir ve seyfiye sınıfında yer alır.
Yazışma ve mali işler kalemiye sınıfına aittir. Defterdar,Nişancı ve Reisülküttap kalemiye sınıfında yer alır.
Hukuk,eğitim ve din işleri İlmiye sınıfına (ulema sınıfı) aittir. Kadı ve müderrisler atamalarını yapan Kazasker ilmiye sınıfında yer alır.

3. **D** Osmanlı Kuruluş Dönemi Fatih Devri'ne kadar süren dönemi kapsamaktadır.
Hat sanatı; Güzel yazı yazma sanatıdır.
Tezhip sanatı; Yazının çevresini altın yaldızlı tozla süsleme sanatıdır.
Ebru sanatı; Su ve boya ile yapılan süsleme sanatıdır.
Cilt sanatı; Kitap kaplama sanatıdır.
Bu el sanatlarından her biri Osmanlı Klasik Dönemi'nde gelişen el sanatlarındandır.
Heykel sanatı İslam etkisiyle önemini kaybettiği için gerek ilk Türk İslam mimarisinde gerekse Osmanlı mimarisinde gelişme göstermesi beklenemez.

4. **D** Fatih Dönemi'nin ünlü hekimi Sabuncuoğlu Şerafettin, "Mücerrebname" adlı eseriyle tıp tarihinde deneysel farmakolojiye öncülük etmiş bir bilim insanıdır.
Akşemseddin,Fatih'in hocasıdır ve mikrop ile ilgili çalışmaları vardır.
Fatih Dönemi'nin tıp uzmanlarından bir de Altuncuzade'dir. Üroloji ile ilgili çalışmalarda bulunmuştur.
Ali Kuşçu, Fatih Dönemi'nin astronomu ve matematikçisidir.
Dursun Fakih, Osman Bey Dönemi'nde görev almış ilk kadıdır.

5. **B** Osmanlı Devleti'nde gelirleri devlet memurlarının ve askerlerin masraflarına ayrılan araziler "Dirlik arazileri"dir.
Dirlik toprakları kendi içerisinde has,zeamet ve tımar olmak üzere üçe ayrılmıştır. Bu toprakların her birinde memurun (sahib-i arz/tımar sahibi) ve askerin (tımarlı sipahi) giderleri karşılanmıştır.
Mukataa arazileri; Geliri doğrudan devlet hazinesine aktarılan topraklardır.
Yurtluk arazileri; Akıncılara kullanım hakkı olarak ayrılan topraklardandır.
Öşriye arazileri; Müslümanların mülklerine ait topraktır.
Ocaklık arazileri; Kale muhafızlarına ve tersane giderlerine ayrılan topraklardandır.

6. **E** Hüküm, Divanıhümayun kararlarına verilen isimdir.
İcazet,medreseler veya loncalarda öğrencilere verilen bir tür diplomadır.
İltizam,salyeneli yerlerde vergilerin açık arttırma yoluyla toplanmasıdır.
İstimalet, müsamaha politikasının diğer adıdır.
Osmanlı Devleti'nde yasal dışı yollarla haksız kazanç elde edenlerin cezalandırılması müsadere usulü ile sağlanmıştır. Sistem Fatih Kanunnamesi veya Kanunname-i Ali Osman ile yasal hale getirilmiştir.

7. **A** Osmanlı Devleti'nde imtiyazlı veya ayrıcalıklı eyaletler arasında Kırım, Eflak, Boğdan, Erdel ve Hicaz yer almıştır.
Trablusgarp ise vergilerin açık arttırma yoluyla toplandığı (iltizam usulü) salyaneli eyalet türlerinden biridir.

8. **D** Osmanlı Devleti'nde ürün standartlarının korunmasından sorumlu görevli İhtisap Ağası veya İhtisap Emini'dir.
Mekkari Taifesi; Ticari bölgelerde taşımacılık işlerinin yürütülmesini sağlayan görevlilerdir.
Derbetçi; Ticari bölgelerde güvenliği sağlayan görevlidir.
Menzil Teşkilatı; Ticari bölgelerde haberleşme-posta işlerinden sorumlu görevlilerdir.
Muhtesip; Çarşı ve esnaf denetimini sağlayan kişidir.

9. **C** Edirne Selimiye Camii ve Külliyesi, 2011 yılında UNESCO Dünya Mirası Listesi'ne alınan Osmanlı'ya ait ilk eserdir. Mimar Sinan'ın ustalık eseri olan yapı, II. Selim döneminde yapılmıştır.

MURAT YAYINLARI

/muratyayincilik

10. **C** Osmanlı Devleti'nde kapıkulu ordusu yaya ve süvari olarak ikiye ayrılmıştır. Acemioğlar, Yeniçeriler, Lağımcılar, Bostancılar, Humbaracılar, Topçular ve Top Arabacılar kapıkulu ocağının yaya kısmında yer alır. Sağ ve Sol Ulufeciler, Sağ ve Sol Garipler, Silahtarlar ve Sipahiler ise kapıkulu ocağının süvari kısmında yer alır.
Akıncılar ise taşra orduları içerinde öncü birliklerdendir.

11. **A** Akşemseddin, Fatih Sultan Mehmet'in hocası ve dönemin ünlü tıp insanıdır.

12. **C** Takiyüddin Mehmet, III.Murat döneminde kurmuş olduğu Tophane Rasathane ile astronomi çalışmalarına yön vermiştir. Yaptığı çalışmalarda dünyanın eksen eğikliğini 23° 28' 40" olarak hesaplayıp ilk defa gerçeğe en yakın değerini bulan bilim insanıdır.

13. **B** Osmanlı Devleti'nde kuruluş döneminden itibaren millet sistemi din ve mezhep aidiyetine göre şekillenmiştir. Din ve mezhep özelliğine göre Osmanlı toplumu müslim ve gayrimüslim olarak ikiye ayrılmıştır.

14. **C** Enderun Mektebi, sadece devşirmeler eğitim almaz. Enderun Mektebi, saray okulu olup zeki Müslüman ve devşirmelerin eğitim aldığı kurumlardır.
Medreselerde eğitim gören öğrencilere suhte adı verilmiştir.
Müderrislerin atamasını Kazaskerler üstlenmiştir.
Osmanlı eğitim sistemi incelendiğinde Acemioğlanlar Ocağı, devşirmeler için açılan askeri eğitim kurumlarıdır.
Tekkeler dini eğitim verilen eğitim kurumlarıdır.

15. **A** "İznik Süleyman Paşa Medresesi" ve "Bey Sarayı" Orhan Bey dönemine, "Sahn-ı Seman Medresesi" ve Fatih dönemine, "Mostar Köprüsü" Kanuni dönemine ait mimari yapıtlardandır. Bu eserlerde Batı etkisi yoktur.
Osmanlı mimarisinde Batı etkisi 18. yüzyılda Lale Devri (1718-1730) ile başlamıştır. III. Ahmet Çeşmesi Lale Devri'nde inşa edilen Batı tarzı ilk sivil mimari yapıttır.
Yıldız Sarayı, 19. Yüzyılda Sultan II. Abdülhamit döneminde Batı mimarisinin etkisi ile inşa edilmiştir.

16. **C** Osmanlı Devleti'nde Nigari, Nakkaş Osman ve Abdullah Buhari minyatür sanatı ustalarıdır.

17. **A** Osmanlı Devleti'nde elçilerin kabul edildiği divana "Galebe Divanı" adı verilir.

18. **E** Osmanlı Devleti'nde bey, sultan ve hüdavendigar hükümdar unvanları arasında yer almıştır.

19. **D** Osmanlı Devleti'nde Fatih'ten itibaren padişahlar Divanıhümayun toplantılarına katılmamaya başlamıştır. Bu dönemden itibaren padişahların Divanıhümayun toplantılarını izlemeleri için adil köşk anlamına gelen Kasr-ı Adl bölümü oluşturulmuştur.
Arz Odası, sarayda devlet ileri gelenlerinin ve yabancı elçilerin kabul salonudur.
Birun, sarayın dış bölümüdür. Babüssaade, birun bölümündeki saadet kapısıdır ve Divanıhümayun toplantıları burada Kubbealtı denilen yerde yapılmıştır.
Otağ-ı Hümayun, Osmanlı padişahlarının çadırlarına verilen isimdir.

20. **D** Osmanlı Devleti'nde Mısır'ın batısında yer alan üç yere Garp Ocakları ismi verilmiştir. Bunlar Trablusgarp, Tunus ve Cezayir'dir.

MURAT YAYINLARI

Osmanlı Duraklama Dönemi (XVII. Yüzyıl-Arayış Yılları) • TEST 18

1. **Eğri Kalesi'nin alınmasından sonra "Eğri Fatihi" unvanı aşağıdaki Osmanlı padişahlarından hangisi için kullanılmıştır?**

A) III. Mehmet
B) I. Ahmet
C) IV. Murat
D) II. Osman
E) II. Süleyman

2. **Osmanlı Devleti 1601 yılında gerçekleşen Kanije Savunması'nı aşağıdaki devletlerden hangisine karşı yapmıştır?**

A) Fransa
B) Avusturya
C) İngiltere
D) Çarlık Rusya
E) İran

3. **Aşağıdakilerden hangisi XVII. yüzyılda Osmanlı Devleti'nin dış politikada benimsediği ilke ve amaçlardan biri değildir?**

A) Akdeniz'deki üstünlüğü koruma
B) Şii tehlikesini etkisiz kılma
C) Batı yönünde ilerlemeye devam etme
D) Avrupa'yı askeri ve teknik anlamda örnek alma
E) Haçlı tehlikesi ile mücadele etme

4. **II. Osman aşağıdaki seferlerden hangisi sonucunda "Devlet ocak içindir." anlayışıyla hareket eden Yeniçeri Ocağı'nı kaldırmak istemiştir?**

A) Bağdat Seferi
B) Hotin Seferi
C) Çaldıran Seferi
D) Ridaniye Seferi
E) Mohaç Seferi

5. **Osmanlı Devleti doğuda en geniş topraklara ulaştığı Ferhat Paşa Antlaşması'yla İran'dan aldığı yerleri aşağıdaki antlaşmalardan hangisi ile geri vermiştir?**

A) Amasya
B) Nasuh Paşa
C) Kasr-ı Şirin
D) Serav
E) Karden

6. • Avusturya'nın Erdel'in iç işlerine karışmaması
• Avusturya'nın Osmanlı Devleti'ne savaş tazminatı ödemesi
• Osmanlı Devleti'nin Avusturya'dan son kez toprak kazanması

Yukarıda verilen gelişmelerin aşağıdaki antlaşmalardan hangisinin sonuçları olduğu söylenebilir?

A) Bucaş
B) Karlofça
C) Hotin
D) Vasvar
E) Zitvatoruk

7. I. Saray kadınlarının yönetime karışması
II. Avrupa'da mutlak monarşilerin güçlenmesi
III. Sancağa çıkma uygulamasının terk edilmesi

Yukarıdakilerden hangileri Osmanlı Devleti'nde duraklamanın nedenleri arasında yer alır?

A) Yalnız I
B) Yalnız II
C) I ve III
D) II ve III
E) I, II ve III

MURAT YAYINLARI

/muratyayincilik

8. 1700 İstanbul Antlaşması ile Azak kalesi Rusya'ya bırakılacak, Rusya İstanbul'da sürekli elçi bulundurabilecek ve Ruslar kutsal yerleri serbestçe ziyaret edebilecektir.

Bu bilgilere göre;

I. Rusya Karadeniz'e inmek için çıkış elde etmiştir.

II. Rusya'nın Osmanlı Devleti'nin iç işlerine karışmasına ortam hazırlanmıştır.

III. Rusya antlaşmanın kazançlı tarafı olmuştur.

yargılarından hangilerine ulaşılabilir?

A) Yalnız I
B) Yalnız II
C) Yalnız III
D) I ve II
E) I, II ve III

9. **Duraklama Dönemi'nde gerçekleşen;**

I. Revan,

II. Bağdat,

III. Hotin

seferlerinden hangileri IV. Murat Dönemi'ne aittir?

A) Yalnız I
B) Yalnız II
C) Yalnız III
D) I ve II
E) I, II ve III

10. **Duraklama Dönemi'nde IV. Murat ve Sultan İbrahim'e sunduğu raporlar ile devletin bozulmasının temel nedenleri üzerinde duran devlet adamı aşağıdakilerden hangisidir?**

A) Tarhuncu Ahmet Paşa
B) Koçi Bey
C) Katip Çelebi
D) Lagari Hasan Çelebi
E) Evliya Çelebi

11. **Osmanlı Devleti'ne karşı oluşturulan Kutsal İttifak devletleri arasında aşağıdakilerden hangisi yer almaz?**

A) Malta
B) Avusturya
C) Rusya
D) Lehistan
E) Fransa

12. **Aşağıdakilerden hangisi Osmanlı Devleti'nin XVII. yüzyıl gelişmelerinden biridir?**

A) Cem Sultan İsyanı
B) Çınar Olayı
C) Kırım'ın Fethi
D) Rodos'un Fethi
E) Belgrad Antlaşması

13. **Aşağıdakilerden hangisi Duraklama Dönemi'nde Anadolu'da çıkan isyanlardan biri değildir?**

A) Canbolatoğlu
B) Tavil Ahmet
C) Karayazıcı
D) Bozoklu Celal
E) Kalenderoğlu

14. • Ava olan merakı nedeniyle tarihte avcı lakabıyla bilinir.
• İlk yıllarında küçük yaşta olduğu için ülkeyi annesi Hatice Turhan Sultan ve sadrazamlar yönetmiştir.

özellikleri verilen padişah aşağıdakilerden hangisidir?

A) IV. Murat
B) IV. Mehmet
C) II. Osman
D) I. Ahmet
E) II. Süleyman

MURAT YAYINLARI

15. I. Kutsal İttifak'ın kurulması
II. Vakayıvakvakiye Olayı
III. II. Viyana Kuşatması

Yukarıdaki olayların kronolojik sıralaması aşağıdakilerden hangisinde doğru olarak verilmiştir?

A) I - II - III
B) II - III - I
C) III - II - I
D) I - III - II
E) III - I - II

16. **Aşağıdakilerden hangisi Köprülü Mehmet Paşa Dönemi'ne ait gelişmelerden biri değildir?**

A) Savaştan kaçan yeniçeriler cezalandırılmıştır.
B) Çanakkale Boğazı'ndaki Venedik ablukası kaldırılmıştır.
C) Rodos alınarak Akdeniz'de ticari üstünlük Osmanlı Devleti'ne geçmiştir.
D) Celali İsyanları bastırılmıştır.
E) Limni ve İmroz adaları Venediklilerden geri alınmıştır.

17. Osmanlı Devleti'nin Kutsal İttifak devletleriyle imzaladığı Karlofça Antlaşması'na, 25 yıl geçerli olacak hükmü konmuş ve antlaşmanın garantörlüğü Avusturya'ya verilmiştir.

Bu durum;

I. Uluslararası alanda Avusturya'nın etkinliği artmıştır.
II. Osmanlı Devleti bu antlaşma ile Duraklama Dönemi'ne girmiştir.
III. Osmanlı Devleti Haçlı ittifakını parçalamıştır.

Yargılarından hangilerinin kanıtıdır?

A) Yalnız I B) Yalnız II C) Yalnız III
D) II ve III E) I, II ve III

18. **XVII. yüzyılda Osmanlı Devleti'yle ilgili aşağıdaki bilgilerden hangisi doğru değildir?**

A) Batıda en geniş sınırlarına ulaşmıştır.
B) İngiltere ile hiç savaş yapmamıştır.
C) Bugünkü Türk-İran sınırı çizilmiştir.
D) Doğuda en geniş sınırlarına ulaşmıştır.
E) Avrupa karşısında fetih politikasını devam ettirmiştir.

19. I. Hazine gelir ve giderlerinin hesaplanması
II. Rüşvet alınmasını engellemeye çalışması
III. Hazineye borçlu olanlardan tahsilat yapması

Yukarıdakilerden hangileri Tarhuncu Ahmet Paşa'nın gerçekleştirdiği ıslahatlar arasında yer alır?

A) Yalnız I
B) Yalnız II
C) I ve II
D) II ve III
E) I, II ve III

20. **Osmanlı Devleti'nin Akdeniz'de ele geçirdiği son ada aşağıdakilerden hangisidir?**

A) Rodos
B) Kıbrıs
C) Girit
D) Malta
E) Sakız

MURAT YAYINLARI

/muratyayincilik

Açıklamalar • TEST 18

1. **A** III. Mehmet (1595-1603), 1596 yılında Eğri Kalesi'ni alan ve "Eğri Fatihi" unvanı kullanan Osmanlı padişahıdır.

2. **B** Osmanlı Devleti 1601 yılında gerçekleşen Kanije Savunması'nı Avusturya'ya karşı yapmıştır. Bu kalenin kurtarılmasını sağladığı için Tiryaki Hasan Paşa "Kanije Fatihi" lakabını almıştır.

3. **D** Osmanlı Devleti Avrupa'nın askeri ve teknik üstünlüğünü ilk kez XVIII. yüzyılda kabul etmiş ve örnek alarak ıslahatlar yapmaya başlamıştır. XVII. yüzyılda Avrupa'dan etkilenme söz konusu değildir.

4. **B** 1620-1621 yıllarında yapılan Osmanlı-Lehistan Savaşları içinde gerçekleştirilen Hotin Seferi ve kale kuşatmasında yeniçerilerin gönülsüz savaşması üzerine kuşatma başarısız olmuş ve bu durum karşısında II. Osman yeniçeri ocağını kaldırmayı planlamıştır. Bu haberi alan yeniçeriler isyan etmiş ve II. Osman'ı öldürmüşlerdir.

5. **B** Osmanlı Devleti 1590'da Ferhat Paşa Antlaşması ile Tebriz, Karabağ, Gürcistan ve Dağıstan'ı alarak doğuda en geniş sınırlarına ulaşmıştır. 1612 Nasuh Paşa Antlaşması ile de aldığı toprakları geri vermiştir.

6. **D** Sonuçları verilen antlaşma 1658'de başlayan Osmanlı-Avusturya Savaşı sonrasında 1664'te imzalanan Vasvar Antlaşması'dır.

7. **E** Padişahların küçük yaşta tahta geçmesi yönetimde saray kadınları ve bazı devlet adamlarının çekişmeleri merkezi otoritenin bozulmasında etkili olmuştur. Ayrıca sancağa çıkma uygulamasının terk edilmesi deneyimsiz padişahların yetişmesine neden olmuştur. Avrupa'da ateşli silahların geliştirilmesiyle birlikte feodalitenin çökmeye ve mutlak monarşilerin (kralların) güç kazanmaya başlaması, Osmanlı duraklamasının bir diğer nedeni olmuştur.

8. **E** Karadeniz'in kıyısındaki Azak Kalesi'nin Rusya'ya verilmesi üzerine Rusya'ya Karadeniz'e inme imkanı doğmuştur. Sürekli elçi bulundurma hakkı ile Osmanlı'nın iç işlerine karışması için ortam hazırlanmıştır. Tüm verilen imtiyazlara göre Rusya'nın antlaşmanın kazançlı tarafı olduğu söylenebilir.

9. **D** IV. Murat Dönemi'nde doğu politikası çerçevesinde Revan ve Bağdat'a sefer düzenlenmiştir. Hotin Seferi ise II. Osman (Genç) Dönemi'nde yapılmıştır.

10. **B** IV. Murat ve kardeşi I. İbrahim'e devletin kötü gidişatının nedenlerini anlatarak çözüm yolları gösteren ve bunları risalesinde toplayan kişi Koçi Bey'dir. Eseri ise Koçi Bey Risalesi'dir.

MURAT YAYINLARI

11. **E** II. Viyana bozgunu sonrası oluşturulan kutsal ittifak devletleri şunlardır: Avusturya, Rusya, Venedik, Lehistan, Malta.

12. **B** Çınar Olayı (Vakayı Vakvayi) 1656 yılında yaşanan Yeniçeri isyanıdır. Diğer seçeneklerde verilenler XVII. yüzyıla ait gelişmeler arasında yer almaz.

13. **D** Bozoklu Celal İsyanı, 1519'da Yavuz Sultan Selim Dönemi'nde, Anadolu'da devletin uyguladığı sosyal ve ekonomik uygulamalara tepki olarak gerçekleşmiştir. Diğer seçeneklerdekiler Duraklama Dönemi'ndeki Anadolu isyanlarındandır.

14. **B** IV. Mehmet küçük yaşta tahta geçtiği için ilk yıllarında ülkeyi annesi Hatice Turhan Sultan ve Sadrazamlar yönetmiştir. Ayrıca ava olan merakı nedeniyle Avcı Mehmet olarak anılmıştır.

15. **B** II. Vakayıvakvakiye Olayı - 1656
III. II. Viyana Kuşatması - 1683
I. Kutsal İttifakın kurulması - 1684

16. **C** Daha önce II. Mehmet tarafından kuşatılan Rodos 1521'de I. Süleyman Dönemi'nde fethedilmiştir.

17. **A** 1699'da imzalanan Karlofça Antlaşması gibi uluslararası ve önemli bir antlaşmanın garantörlüğünün Avusturya'ya bırakılması, Avusturya'nın uluslararası siyasette öneminin arttığının kanıtıdır.

18. **D** Osmanlı Devleti doğuda en geniş sınırlarına XVI. yüzyılda 1590'da imzalanan Ferhat Paşa Antlaşması ile ulaşmıştır.

19. **E** Tarhuncu Ahmet Paşa IV. Mehmet Dönemi sadrazamlarındandır. Hazine gelir ve giderlerini hesaplanmış, rüşvet alınmasını engellemeye çalışmış ve hazineye borcu olanlardan tahsilat yapmıştır.

20. **C** Rodos 1521'de, Sakız 1566'da, Kıbrıs 1571'de fethedilmiştir.
Girit ise 1669'da Osmanlı Devleti'nin en son ele geçirdiği Akdeniz adasıdır. Malta 1565'te kuşatılmış ancak alınamamıştır.

MURAT YAYINLARI

/muratyayincilik

Osmanlı Duraklama Dönemi (XVII. Yüzyıl-Arayış Yılları) • TEST 19

1. **Osmanlı Devleti'nin XVII. yüzyıldaki ıslahatçıları arasında aşağıdakilerden hangisi yer almaz?**

A) Katip Çelebi
B) Genç Osman
C) Tarhuncu Ahmet Paşa
D) Halil Hamit Paşa
E) Köprülü Fazıl Ahmet Paşa

2. **Osmanlı Devleti'nde aşağıdakilerden hangisi XVII. yüzyıl ıslahatları ile ilgili değildir?**

A) Başkenti Anadolu'ya taşıma girişimi
B) Hendesehane'nin açılması
C) Koçi Bey Risalesi'nin hazırlanması
D) Yeniçeri Ocağı'nı kaldırma girişimi
E) Hazine gelir ve giderlerinin hesaplanması

3. **Aşağıdakilerden hangisi II. Viyana Kuşatması'ndan sonra yaşanan gelişmelerdendir?**

A) II. Osman'ın tahttan indirilmesi
B) Kutsal İttifak'ın kurulması
C) Hotin Seferi'nin başlaması
D) Bucaş Antlaşması'nın imzalanması
E) Amasya Antlaşması'nın imzalanması

4. **XVII. yüzyılda Osmanlı Devleti'nde;**

I. Tımarlı sipahi sayısının azalması
II. Devlet,ocak içindir anlayışının başlaması
III. Beşik ulemalığı sisteminin güçlenmesi

gelişmelerinden hangileri merkezi otoritenin bozulmasına zemin hazırlamıştır?

A) Yalnız I
B) Yalnız II
C) Yalnız III
D) I ve II
E) I, II ve III

5. **Osmanlı Devleti'nde XVII. yüzyılda;**

I. mali,
II. eğitim,
III. askeri

alanlarından hangilerine yönelik ıslahatların yapıldığı söylenebilir?

A) Yalnız I
B) Yalnız II
C) Yalnız III
D) I ve III
E) II ve III

6. **XVII. yüzyılda Osmanlı Devleti'nde;**

I. kanunname,
II. ferman,
III. müsadere

hangileri padişahın yasama gücünün göstergelerindendir?

A) Yalnız I
B) Yalnız II
C) Yalnız III
D) I ve II
E) II ve III

7. I. Ulufe alım ve satımının yasaklanması
II. Yeniçeri Ocağı'nı kaldırma girişimi
III. Ekberiyet sistemine geçilmesi

Osmanlı Devleti'nde yukarıdakilerden hangileri XVII. yüzyıla ait düzenlemeler arasında yer almıştır?

A) Yalnız I
B) Yalnız II
C) Yalnız III
D) II ve III
E) I, II ve III

MURAT YAYINLARI

8. **XVII. yüzyıldaki Osmanlı ıslahatçıları arasında aşağıdakilerden hangisi yer almaz?**

A) Genç Osman
B) Koçi Bey
C) Hezarfen Ahmet Çelebi
D) Tarhuncu Ahmet Paşa
E) Köprülü Fazıl Ahmet Paşa

9. **I. Ahmet döneminde Osmanlı aşağıdakilerden hangisinde değişikliğe gitmiştir?**

A) Devşirme sistemi
B) Veraset sistemi
C) Gaza ve cihat politikası
D) Sancak sistemi
E) İstimalet politikası

10. **Osmanlı Devleti aşağıdaki antlaşmalardan hangisini arabulucu devletlerin vasıtasıyla imzalamıştır?**

A) Ferhat Paşa Antlaşması
B) Karlofça Antlaşması
C) Kasr-ı Şirin Antlaşması
D) Bucaş Antlaşması
E) Çehrin Antlaşması

11. **Osman Devleti'nde kafes usulünü getiren padişah aşağıdakilerden hangisidir?**

A) III. Mehmet
B) I. Ahmet
C) II. Mustafa
D) IV. Murat
E) II. Ahmet

12. **Osmanlı Devleti'nin diplomaside Avusturya ile mütakabiliyet esasına geçmesi aşağıdakilerden hangisi ile olmuştur?**

A) Zitvatorok Antlaşması
B) Karlofça Antlaşması
C) Bahçesaray Antlaşması
D) Bucaş Antlaşması
E) İbrahim Paşa Antlaşması

13. I. Sanayi İnkılabı
II. Coğrafi Keşifler
III. Fransız İhtilali

Yukarıdakilerden hangileri XVII.yüzyılda Osmanlı Devleti'nin Avrupa karşısında geri kalmasına neden olmuştur?

A) Yalnız I
B) Yalnız II
C) Yalnız III
D) I ve II
E) II ve III

14. **IV. Mehmet döneminde Kandiye Kalesi'nin ele geçirilmesi aşağıdakilerden hangisi ile ilgilidir?**

A) Hotin Seferi
B) Malta kuşatması
C) Girit'in fethi
D) Rodos'un fethi
E) II. Viyana Kuşatması

MURAT YAYINLARI

/muratyayincilik

15. **Osmanlı Devleti'nde;**

I. yönetici baskıları,

II. dirlik sisteminin bozulması,

III. ulufe şikayetinin artması

hangilerinin celali isyanlarına zemin hazırladığı söylenebilir?

A) Yalnız I
B) Yalnız II
C) Yalnız III
D) I ve II
E) I, II ve III

16. I. Vakayı Vakvakiye

II. Genç Osman'ın katli

III. Kabakçı Mustafa İsyanı

Osmanlı Devleti'nde yukarıdakilerden hangileri XVII. yüzyıl gelişmeleri arasında yer almıştır?

A) Yalnız I
B) Yalnız II
C) Yalnız III
D) I ve II
E) I, II ve III

17. **Karlofça Antlaşması aşağıdaki hangi Osmanlı padişahı döneminin gelişmelerindendir?**

A) II. Süleyman
B) II. Mustafa
C) II. Osman
D) IV. Murat
E) IV. Mehmet

18. **1663 yılında Uyvar Kalesi'nin alınmasıyla Uyvar Fatihi lakabını alan Osmanlı sadrazamı aşağıdakilerden hangisidir?**

A) Köprülü Mehmet Paşa
B) Merzifonlu Kara Mustafa Paşa
C) Köprülü Fazıl Ahmet Paşa
D) Lagari Hasan Paşa
E) Amcazade Hüseyin Paşa

19. **Osmanlı Devleti XVII. yüzyılda;**

I. dini,

II. teknik,

III. sosyal

alanlarından hangilerine yönelik ıslahatlar yapmıştır?

A) Yalnız I
B) Yalnız II
C) Yalnız III
D) I ve II
E) I, II ve III

20. **Aşağıdakilerden hangisi Osmanlı Devleti'nin ıslahatçı ilk padişahı kabul edilmiştir?**

A) IV. Murat
B) II. Osman
C) IV. Mehmet
D) II. Mustafa
E) II. Süleyman

MURAT YAYINLARI

Açıklamalar • TEST 19

1. **D** Osmanlı Devleti'nin XVII. yüzyıl ıslahatçıları arasında Halil Hamit Paşa yer almaz.
Halil Hamit Paşa I. Abdülhamit Dönemi (1774-1789) yani XVIII. yüzyıl ıslahatçıları arasında yer almıştır.
Diğer seçeneklerdekiler XVII. yüzyıl ıslahatçılarındandır.

2. **B** Osmanlı Devleti'nin Batı tarzı ilk teknik okulu olan Hendesehane I. Mahmut Dönemi'nin (1730-1754) ıslahatları arasında yer aldığı için bu yenilik XVIII. yüzyıl ıslahatlarından biridir.
Başkenti Anadolu'ya taşıma girişimi ve Yeniçeri Ocağı'nı kaldırma girişimi, Genç Osman Dönemi'ne (1618-1622) aittir.
Koçi Bey Risalesi'nin hazırlanması IV. Murat Dönemi'ne (1623-1640) aittir.
Hazine gelir ve giderlerinin hesaplanması (1652-1653) IV. Mehmet Dönemi'ne (1648-1687) Tarhuncu Ahmet Paşa'ya aittir.

3. **B** Osmanlı Devleti'nin 1683 yılında II. Viyana Kuşatması'ndaki başarısızlığı Kutsal İttifak'ın kurulmasına ve ardından da 1699 yılında Karlofça Antlaşması'nın imzalanmasına neden olmuştur.
Diğer seçeneklerde verilenler II. Viyana Kuşatması'nın öncesinde yaşanan gelişmelerdendir.

4. **E** XVII. yüzyılda XVII. yüzyılda, tımarlı sipahi sayısının azalması toprak sisteminin bozulduğunun göstergesidir.
Devlet, ocak içindir anlayışının başlaması Yeniçeri Ocağı'nın bozulduğunun göstergesidir.
Beşik ulemalığı sisteminin güçlenmesi, ilmiye sınıfında kadrolaşmanın yaşanmasına ve medrese eğitiminin öneminin azalmasına neden olmuştur.
Öncüllerde verilenlerin her biri merkezi otoriteyi sarsan gelişmelerdendir.

5. **D** Osmanlı Devleti'nde XVII. yüzyıl ıslahatları askeri, mali ve sosyal alanlarda olmuştur.
Eğitim alanında ilk ıslahatlar XVIII. yüzyılda I. Mahmut Dönemi (1730-1754) ile başlamıştır.

6. **D** Osmanlı Devleti'nde padişahın bir konu hakkında verdiği yazılı emirler olan fermanlar padişahın yasama (kanun koyma) gücünün göstergesidir.
Kanunname,Osmanlı döneminde genel olarak belirli bir konuya dair hukukî maddeleri ortaya koyan padişah hükmüdür.
Müsadere; haksız kazancı önlemek amacıyla padişahlar tarafından devlet görevlilerinin mallarına el konulmasıdır. Müsadere sistemi,padişahların yargı gücünün göstergelerindendir.

7. **D** Osmanlı Devleti'nde veraset sistemindeki son kez düzenleme I. Ahmet döneminde (1603-1617) getirilen Ekberiyet sistemi (Ekber ve Erşed sistemi) olmuştur. Bu sistemle hanedanın en yaşlı ve en olgun üyesinin tahta çıkması kuralı getirilmiştir.
II. Osman (Genç Osman) döneminde (1618-1622) ilk kez Yeniçeri Ocağı'nı kaldırma girişiminde bulunulmuştur.
Ancak ulefe alım satımının yasaklanması 18. yüzyılda I. Abdülhamit devrinde gerçekleştirilmiştir.

8. **C** Hezarfen Ahmet Çelebi ıslahatçı değildir, IV. Murat döneminde kanat ile uçan ilk kişidir.
Diğer seçeneklerde verilen XVII. yüzyıl ıslahatçıları arasında yer almıştır.

9. **B** I. Ahmet döneminden (1603-1617) itibaren Osmanlı Devleti, ekberiyet sistemine (ekber ve erşed sistemi) yer vererek kardeş katlinin önüne geçilmeyi amaçlamıştır. Ekberiyet usulü aynı zamanda veraset sistemi ile ilgili son değişikliktir.

10. **B** Osmanlı Devleti'nin arabulucu devletlerin vasıtasıyla imzaladığı ilk antlaşma Karlofça Antlaşması olmuştur. Antlaşmanın imzalanmasında arabulucu devletler İngiltere ve Hollanda'dır.

MURAT YAYINLARI

/muratyayincilik

11. **A** Osman Devleti'nde kafes usulünü getiren padişahı III. Mehmet'tir. (1595-1603) Kafes sistemi ile eğitilerek tahta çıkan ilk şehzade ise I. Ahmet'tir. (1603-1617).

12. **A** Zitvatorok Antlaşması'nda (1606) Osmanlı Devleti, Avusturya ile karşılıklı denklik esasına (mütekabiliyet ilklesi) geçmiştir. Bu antlaşması ile Osmanlı padişahı ile Avusturya arşüdükü (kralı) Protokol bakımından eşit sayılmıştır.

13. **B** 16. yüzyılda Osmanlı Devleti'nin Avrupa karşısında geri kalmasında Coğrafi Keşifler'in çok büyük etkisi olmuştur. Coğrafi Keşifler ile birlikte İpek ve Baharat yollarının önemi azalmış ve sömürgecilik ortaya çıkmıştır.
Ancak Sanayi İnkılabı ve Fransız İhtilali 18. yüzyıl sonlarındaki gelişmeler arasında yer alır.

14. **C** Kandiye Kalesi Girit'tedir. Osmanlı Devleti 1645-1669 yılları arasında Girit'i kuşatmış Kandiye'nin alınması ile Girit fethi gerçekleşmiştir.

15. **D** Kapıkulu ordusunun ulufe şikayeti merkezde görülen bir gelişmedir. Dolayısıyla ulufe şikayeti merkezi isyanların nedenleri arasında yer almıştır.
Fakat savaşların uzaması, yönetici baskıları dirlik sisteminin (tımar sistemi) bozulması Anadolu yani Celali isyanlarının nedenlerindendir.

16. **D** Genç Osman'ın katli 1622 yılında ,Vakayı Vakvakiye (Çınar Olayı) 1656 yılındaki gelişmelerdir. Ancak Canberdi Gazali İsyanı 1521 yılında olduğu için 16. Yüzyıldaki gelişmelerdendir.

17. **B** 1699 yılında imzalanan Karlofça Antlaşması, II. Mustafa döneminin (1695-1703) gelişmeleri arasında yer alır.

18. **C** Köprülü Fazıl Ahmet Paşa komutasındaki Osmanlı ordusunun Avusturya'dan Uyvar Kalesi'ni almasından sonra Köprülü Fazıl Ahmet Paşa "Uyvar Fatihi" lakabını almıştır.

19. **C** Osmanlı Devleti XVII. yüzyılda askeri,ekonomik ve sosyal alanlarda ıslahatlar yapmıştır.

20. **B** 1618-1622 yılları arasında tahtta bulunan II. Osman (Genç Osman) Osmanlı Devleti'nin ıslahatçı ilk padişahı kabul edilmiştir.

MURAT YAYINLARI

Osmanlı Gerileme Dönemi (XVIII. Yüzyıl-Diplomasi Yılları) • TEST 20

1. I. Türk matbaasının kurulması
II. Tulumbacılar Ocağı'nın kurulması
III. Çiçek aşısının uygulanması
IV. Eşkinci Ocağı'nın kurulması

Yukarıdakilerden hangileri III. Ahmet döneminin yeniliklerindendir?

A) I ve II
B) II ve IV
C) III ve IV
D) I, II ve III
E) II, III ve IV

2. **Lale Devri'nin sona ermesine neden olan Patrona Halil ile Nizam-ı Cedid Dönemi'ne son veren Kabakçı Mustafa isyanlarının ortak özellikleri arasında;**

I. Hükümdar değişikliğine neden olmaları,
II. Yapılan yeniliklere zarar vermeleri,
III. Saltanat rejimine son vermek istemeleri

durumlarından hangileri gösterilebilir?

A) Yalnız I
B) Yalnız II
C) I ve II
D) II ve III
E) I, II ve III

3. I. Avrupadaki gelişmeler dikkate alınmıştır.
II. Askeri alanda yoğunluk kazanmıştır.
III. Halkın desteği alınmamıştır.

Yukarıdakilerden hangileri XVII. ve XVIII. yüzyıl ıslahat hareketlerinin ortak noktalarındandır?

A) Yalnız I
B) Yalnız II
C) II ve III
D) I ve III
E) I, II ve III

4. I. İran'ı hakimiyet altına alma
II. Bizans İmparatorluğu'nun yeniden kurulması
III. Ortodoksların himaye edilmesi

Yukarıdakilerden hangisi XVIII. yüzyılda hazırlanan Grek Projesi'nin amaçları arasında yer alır?

A) Yalnız I
B) Yalnız II
C) I ve II
D) II ve III
E) I, II ve III

5. 1736 ile 1836 arasında Avrupa'da 1 milyon 830 bin kitap basılırken 1729 ile 1875 arasında Osmanlı Devleti'nde 3 bin kitap basılmıştır.

Osmanlı Devleti'nde kitap basım tekniği ile ilgili yaşanan bu sıkıntıların temel nedeni aşağıdakilerden hangisidir?

A) Yazılı eser sayısının az olması
B) Basım işi ile ilgili kalifiyeli eleman yetersizliği
C) Matbaanın, bazı çıkar çevreleri tarafından engellenmesi
D) Padişahın, matbaaya karşı olması
E) Matbaanın Osmanlı'ya geç gelmiş olması

6. **Osmanlı Devleti'nde yabancı askeri uzmanlardan yararlanılarak orduyu modernleştirme çalışmaları hangi Osmanlı sultanı zamanında başlamıştır?**

A) I. Abdülhamit
B) III. Selim
C) III. Ahmet
D) III. Mustafa
E) I. Mahmut

MURAT YAYINLARI

/muratyayincilik

7. **Avrupa'nın önemli merkezlerinde daimi elçiliklerin açılması aşağıdakilerden hangisine olanak sağlamıştır?**

A) Haberleşme ağının genişlemesine
B) Merkezi otoritenin artmasına
C) Pasaport uygulamasının başlamasına
D) Avrupa'daki siyasi, ekonomik ve kültürel gelişmelerin takip edilmesine
E) İhracatın artmasına

8. Osmanlı Devleti'nde ayanlar, vergi oranlarının belirlenmesi ve toplanmasında devlete yardımcı olmuşlardır. XVIII. yüzyıldan itibaren güçlenen ayanlar, İran ve Rusya ile yapılan savaşlarda devlete para ve asker yardımında bulunarak siyasal platformda da güçlenmişlerdir.

Buna göre ayanların güçlenmesinde;

I. Halkın ayanları desteklemesi
II. Devletin varlığını taşrada yeterince hissettirememesi,
III. Merkezi yönetimin mali olarak zorda kalması

gibi durumlardan hangilerinin etkili olduğu savunulamaz?

A) Yalnız I B) Yalnız II C) Yalnız III
D) I ve III E) II ve III

9. I. İbrahim Müteferrika
II. Sait Efendi
III. Yusuf Agah Efendi

Yukarıda verilenlerden hangileri ilk özel Türk matbaasının kurulmasında etkili olmuştur?

A) Yalnız I B) Yalnız II C) I ve II
D) II ve III E) I, II ve III

10. **Osmanlı Devleti XVIII. yüzyılda Avrupa'dan daha çok hangi alanda yararlanma ihtiyacı hissetmiştir?**

A) Askeri
B) Kültürel
C) Mali
D) İdari
E) Sosyal

11. **Osmanlı Devleti'nde yapılan bütün ıslahat çalışmalarının halk hareketleri olarak kabul edilmemesinde;**

I. Sadece devleti kurtarmaya yönelik olması,
II. Avrupa'dan geç yararlanılmaya başlanması,
III. Halkın ihtiyaçlarına göre şekillenmemesi

gibi durumlardan hangilerinin etkili olduğu savunulabilir?

A) Yalnız I B) Yalnız II C) Yalnız III
D) I ve III E) II ve III

12. **Nizamı Cedit ordusu ilk başarısını aşağıdaki devletlerden hangisine karşı kazanmıştır?**

A) İngiltere
B) Fransa
C) Rusya
D) Avusturya
E) Lehistan

13. **Osmanlı'da tercüme ile ilgili ilk sistemli çalışmalar aşağıdaki padişahlardan hangisinin döneminde başlamıştır?**

A) I. Mahmut
B) III. Ahmet
C) I. Abdülhamit
D) III. Selim
E) II. Mahmut

14. I. I. Mahmut
II. I. Abdülhamit
III. III. Mustafa

Yukarıdakilerden hangileri Gerileme Dönemi'nde (1699-1792) ıslahat yapan Osmanlı padişahlarındandır?

A) Yalnız I B) Yalnız II C) Yalnız III
D) I ve III E) I, II ve III

MURAT YAYINLARI

15. I. İlk resmi gazete
II. İlk Batılı tarzda askeri okul
III. İlk sürekli kapitülasyon hakkı

Yukarıdakilerden hangileri I. Mahmut Dönemi'nde gerçekleşmiştir?

A) Yalnız I
B) Yalnız II
C) Yalnız III
D) II ve III
E) I, II ve III

16. **Aşağıdakilerden hangisi 1774 Küçük Kaynarca Antlaşması'nın hükümleri arasında yer almaz?**

A) Kırım bağımsız olacak
B) Rus ticaret gemileri boğazlardan geçebilecek
C) Rusya İstanbul'da elçi bulundurabilecek
D) Rusya Ortodoks koruyucusu olacak
E) Rusya Osmanlı Devleti'ne savaş tazminatı ödeyecek

17. **Osmanlı donanmasının 1770'de Çeşme Baskını'nda yakılması üzerine aşağıdaki ıslahatlardan hangisi gerçekleştirilmiştir?**

A) Mühendishane-i Bahri Hümayun'un kurulması
B) Hendesehane'nin açılması
C) Nizam-ı Cedit Ordusu'nun kurulması
D) Haliç Tersanesi'nin kurulması
E) Humbaracı Ocağı'nın kurulması

18. I. İstihkam Okulu'nun açılması
II. Hendesehane'nin kurulması
III. Kara Mühendishanesi'nin kurulması

Yukarıdaki Gerileme Dönemi olaylarının kronolojik sıralaması aşağıdakilerden hangisinde doğru verilmiştir?

A) I -II - III
B) II - III - I
C) I - III - II
D) III - I - II
E) II - I - III

19. **III. Mustafa Dönemi'nde kurulan askeri kuruluş aşağıdakilerden hangisidir?**

A) Sürat Topçuları Ocağı
B) Mühendishane-i Berri Hümayun
C) Hendesehane
D) Humbaracı Ocağı
E) Nizamı Cedit Ordusu

20. **Lale Devri'nde;**

- Avrupa'da geçici elçilikler açılması,
- Doğu klasiklerinin Türkçeye çevrilmesi,
- Çiçek aşısının uygulanması

gibi gelişmeler dikkate alındığında aşağıdaki alanların hangisinde bir gelişme görülmemiştir?

A) Diplomasi
B) Kültürel
C) Sağlık
D) Askeri
E) Sosyal

MURAT YAYINLARI

/muratyayincilik

Açıklamalar • TEST 20

1. **D** Türk matbaasının kurulması,İtfaiye örgütü ve çiçek aşısı uygulaması, III. Ahmet döneminin veya Lale Devri'nin yeniliklerdendir. Eşkinci Ocağı ise 19. yüzyılda II. Mahmut döneminin yeniliklerindendir.

2. **C** Yapılan yeniliklere zarar veren bu isyanlar sonucunda hükümdar değişiklikleri de yaşanmıştır. Patrona Halil İsyanı ile III. Ahmed tahttan inerken I. Mahmud tahta çıkmış, Kabakçı Mustafa İsyanı ile de III. Selim tahttan indirilmiş yerine IV. Mustafa gelmiştir.

3. **C** XVII. ve XVIII. yüzyıldaki ıslahatlar askeri alanda yoğunluk kazanmıştır ve ıslahat hareketlerinde halkın desteği alınmamıştır. Avrupa'daki gelişmelerden ise XVIII. yüzyılda yararlanılmaya başlanmıştır.

4. **D** XVIII. yüzyılda Avusturya ile Rusya'nın Osmanlı Devleti'ne karşı yürütmüş olduğu gizli plana Grek Projesi denir. Bu projeye göre Bizans'ın yeniden canlandırılması ve böylece Ortodoksların himaye edilmesi ile Avusturya ve Rusya'nın güçlendirilmesi amaçlanmıştır. Ancak Grek Projesi'nin amaçları arasında İran'ı hakimiyet altına almak yer almaz.

5. **C** Osmanlı Devleti'nde matbaanın açılması üzerine işsiz kalan hattatların isyanından çekinilmesi nedeniyle din kitaplarının matbaada basımı yasaklanmıştır. Bu durum basılan kitap sayısının az olmasına neden olmuştur.

6. **E** I. Mahmut Dönemi'nde Fransız Kont de Boneval'in Humbaracı Ahmet Paşa ismiyle Humbaracı Ocağı'nı ıslah etmesiyle yabancı askeri uzmandan faydalanılmaya başlanmıştır.

7. **D** Avrupa'nın önemli merkezlerinde daimi elçiliklerin açılması Avrupa'daki siyasi, ekonomik, kültürel gelişmelerin yakından takip edilmesi ve uluslararası ilişkilerde Osmanlı Devleti'nin de diplomasiye önem vermesinde etkili olmuştur.

8. **A** Ayanlar, devletin taşradaki azalan otoritesini kullanarak güçlenmişler ve kimi dönemlerde devlete borç vermişlerdir. Ancak ayanların güçlenmesinde halkın desteği yoktur. Çünkü ayanlık Osmanlı'nın feodalitesidir ve bu durumun halka yansıması iyi sonuçlar doğurmamıştır.

9. **C** Lale Devri'nde ilk özel Türk matbasının kurulmasında İbrahim Müteferrika ve Sait Efendi etkili olmuştur. Yusuf Agah Efendi III. Selim Dönemi'nde Londra'ya gönderilen Osmanlı Devleti'nin ilk daimi elçisidir.

10. **A** Osmanlı XVIII. yüzyılda savaşlardaki başarısızlık nedeniyle Avrupa'dan özellikle askeri alanda faydalanmıştır.

MURAT YAYINLARI

11. **D** Osmanlı'da ıslahatların devleti gerilemekten veya dağılmaktan kurtarmaya yönelik yapılması ve halkın ihtiyaçlarının dikkate alınmaması, ıslahatların halk hareketi olmasını engellemiştir.

12. **B** III. Selim Dönemi'nde oluşturulan Nizamı Cedit Ordusu, Cezzar Ahmet Paşa komutasında Akka Kalesi'nde Napolyon'a karşı ilk başarısını kazanmıştır.

13. **B** III. Ahmet Dönemi (Lale Devri) doğu ve batı klasiklerinin Türkçeye çevrilmeye başlaması nedeniyle ilk sistemli tercüme faaliyetlerinin başladığı dönem olmuştur.

14. **E** I. Mahmut (1730-1754), III. Mustafa (1757-1774), I. Abdülhamit (1774-1789), tarihleri arasında tahtta kalmışlar ve Gerileme Dönemi' nde ıslahatlar yapmışlardır.

15. **D** Batılı tarzda ilk askeri okul olan Hendesehane ve ilk sürekli kapitülasyon hakkı (1740, Fransa) I. Mahmut Dönemi'nde açılmıştır. İlk resmi gazete olan Takvimi Vakayi'nin çıkarılması II. Mahmut Dönemi'ne aittir.

16. **E** 1774'te Osmanlı Devleti ile Rusya arasında imzalanan Küçük Kaynarca Antlaşması'nın bazı maddeleri şunlardır:
- Kırım bağımsız olacak ancak dini açıdan halifeye bağlı kalacak.
- Rus ticaret gemileri boğazlardan geçebilecek.
- Rusya, İstanbul'da elçi bulunduracak.
- Rusya, Ortodoksların koruyucusu olacak.
- Osmanlı Devleti, Rusya'ya savaş tazminatı ödeyecek.

17. **A** 1770 yılında Çeşme Baskını ile Osmanlı donanmasının yok edilmesi üzerine Mühendishane-i Bahri Hümayun (Deniz Mühendishanesi) kurulmuş ve donanmaya modern eğitim almış askerler yetiştirilmiştir.

18. **E** II - Hendesehane'nin kurulması I. Mahmut Dönemi'ndedir.
I - İstihkam Okulu'nun açılması, I. Abdülhamit Dönemi'ndedir.
III - Kara Mühendishanesi'nin açılması III. Selim Dönemi'ndedir.

19. **A** İlk defa Baron de Tott'un çabalarıyla III. Mustafa Dönemi'nde Sürat Topçuları Ocağı açılmıştır.

20. **D** Doğu klasiklerinin Türkçeye çevrilmesi kültürel bir gelişimdir. Çiçek aşısı, sağlık ve sosyal; geçici elçilikler ise diplomasi alanında yaşanmıştır. Askeri alanda bir gelişmeden bahsedilmemiştir. Bununla birlikte Osmanlı Devleti'nde 1718'den 1730'a dek sürecek olan Lale Devri'nde askeri alanda herhangi bir ıslahat yapılmamıştır.

MURAT YAYINLARI

Osmanlı Gerileme Dönemi (XVIII. Yüzyıl-Diplomasi Yılları) • TEST 21

1. **Edirne Olayı ile tahttan indirilen Osmanlı sultanı aşağıdakilerden hangisidir?**

A) IV. Murat
B) II. Mustafa
C) III. Ahmet
D) III. Mustafa
E) I. Abdülhamit

2. **XVIII. yüzyılda Osmanlı Devleti;**

I. teknik,
II. askeri,
III. hukuk

alanlarından hangilerinde ıslahat yapılmamıştır?

A) Yalnız I
B) Yalnız II
C) Yalnız III
D) I ve II
E) II ve III

3. **Sadrazam Koca Ragıp Paşa aşağıdaki hangi Osmanlı padişahı döneminin ıslahatçılarındandır?**

A) I. Mahmut
B) III. Osman
C) I. Abdülhamit
D) III. Mustafa
E) III. Selim

4. **Lale Devri'nin ünlü şairi aşağıdakilerden hangisidir?**

A) Levni
B) Evliya Çelebi
C) Fuzuli
D) Naima Efendi
E) Nedim

5. **İbrahim Müteferrika'nın matbaanın önemini anlattığı eseri aşağıdakilerden hangisidir?**

A) Cihannüma
B) Naima Tarihi
C) Vesiletül Tıbaa
D) Fezleke
E) Vankulu Lügatı

6. **Osmanlı Devleti'nde Lale Devri aşağıdakilerden hangisi ile başlamıştır?**

A) Kabakçı Mustafa İsyanı
B) Pasarofça Antlaşması
C) Edirne Olayı
D) Patrona Halil İsyanı
E) Belgrad Antlaşması

7. **Osmanlı Devleti'nin sürekli elçilik açtığı ilk Avrupa başkenti aşağıdakilerden hangisidir?**

A) Paris
B) Viyana
C) Berlin
D) Londra
E) Brüksel

8. I. II. Osman
II. III. Mustafa
III. III. Ahmet

Osmanlı Devleti'nde yukarıdaki dönemlerden hangilerinde Batı tarzı ıslahatlara yer verilmiştir?

A) Yalnız I
B) Yalnız II
C) Yalnız III
D) I ve III
E) II ve III

MURAT YAYINLARI

9. **Osmanlı Devleti'nde ilk denge politikası aşağıdaki hangi hükümdar döneminde başlamıştır?**

A) III. Selim
B) I. Ahmet
C) IV. Mehmet
D) III. Ahmet
E) I. Mahmut

10. **Osmanlı Devleti'nde ilk devlet matbaası aşağıdakilerden hangisinin döneminde kurulmuştur?**

A) III. Ahmet
B) I. Mahmut
C) III. Mustafa
D) II. Ahmet
E) III. Selim

11. **Yurt dışına gönderilen Osmanlı elçilerine verilen isim aşağıdakilerden hangisidir?**

A) Balyos
B) Voyvoda
C) Sefir
D) Hidiv
E) Emir

12. **Patrona Halil İsyanı sonucunda tahta çıkarılan Osmanlı padişahı aşağıdakilerden hangisidir?**

A) III. Mustafa
B) II. Ahmet
C) III. Osman
D) I. Mahmut
E) I. Abdülhamit

13. **Lale Devri'nin Osmanlı sadrazamı aşağıdakilerden hangisidir?**

A) Patrona Halil
B) Damat İbrahim Paşa
C) Sait Efendi
D) Damat Mehmet Paşa
E) Halil Hamit Paşa

14. **Aşağıdakilerden hangisi Osmanlı Devleti'nde XVIII. yüzyıl ıslahatları arasında yer alır?**

A) Başkenti Anadolu'ya taşıma girişimi
B) Hazine gelir ve giderlerinin ilk kez hesaplanması
C) Batı tarzı ilk askeri okulun açılması
D) Katip Çelebi Layihası
E) İlk kez Şeyhülislamın yetkisinin sınırlandırılması

MURAT YAYINLARI

/muratyayincilik

15. **Osmanlı Devleti'nde yabancı devletlere elçilik göreviyle giden kişilerin o devletler hakkında bilgiler verdiği eser aşağıdakilerden hangisidir?**

A) Siyasetname
B) Menkıbe
C) Tezkire
D) Sefaretname
E) Kanunname

16. **Mühendishane- i Berri Hümayun aşağıdaki hangi Osmanlı padişahı döneminde açılmıştır?**

A) III. Ahmet
B) I. Mahmut
C) III. Selim
D) I. Abdülhamit
E) III. Osman

17. **Kırım aşağıdaki antlaşmalardan hangisi ile Çarlık Rusya'nın olmuştur?**

A) Küçük Kaynarca
B) Yaş
C) Pasarofça
D) Prut
E) Çehrin

18. **Fransız İhtilali başladığında Osmanlı Devleti'nde aşağıdaki dönemlerden hangisinin yaşandığı söylenebilir?**

A) Nizam-ı Cedit Dönemi
B) Köprülüler Devri
C) Duraklama Dönemi
D) Lale Devri
E) Sokullu Devri

19. **Osmanlı Devleti'nin Karadeniz'i son kez Türk gölü yaptığı anlaşma aşağıdakilerden hangisidir?**

A) Yaş
B) Küçük Kaynarca
C) Belgrad
D) Kerden
E) Ahmet Paşa

20. **Osmanlı Devleti'nin tarihinde ilk kez savaş tazminatı ödediği antlaşma aşağıdakilerden hangisidir?**

A) Belgrad
B) Pasarofça
C) Küçük Kaynarca
D) Prut
E) Yaş

MURAT YAYINLARI

Açıklamalar • TEST 21

1. **B** 1703 yılında Edirne Olayı adı verilen Yeniçeri isyanı sonucunda II. Mustafa tahttan indirilip yerine III. Ahmet tahta çıkarılmıştır.

2. **C** Osmanlı Devleti'nde teknik ve askeri ıslahatlara XVIII. yüzyılda yer verilmiştir. Ancak hukuk alanında ilk ıslahatlar XVIII. yüzyılda değil XIX. yüzyılda başlamıştır.

3. **D** Sadrazam Koca Ragıp Paşa, III. Mustafa döneminin (1757-1774) ıslahatçılarındandır.

4. **E** Lale Devri'nin ünlü şairi Nedim'dir. Levni ise Lale Devri'nin ünlü nakkaşıdır.

5. **C** Vesiletül Tıbaa adlı eser İbrahim Müteferrika'nın matbaanın önemini anlattığı eseridir. Bu eser sayesinde matbaa Lale Devri'nde Osmanlı Devleti'ne getirilmiştir.

6. **B** III. Ahmet (1703-1730), 1703 yılında bir yeniçeri isyanı olan Edirne Olayı ile tahta çıkarılmıştır.
1718 yılında Pasarofça Antlaşması ile III. Ahmet Dönemi'nde Lale Devri başlamıştır.
Lale Devri 1730 yılında yine bir yeniçeri isyanı olan Patrona Halil İsyanı sonucunda son bulmuş ve III. Ahmet'in yerine I. Mahmut tahta çıkarılmıştır.

7. **D** Osmanlı Devleti'nin sürekli elçilik açtığı ilk Avrupa başkenti Londra'dır. III. Selim Dönemi'nde (1789-1807) sürekli elçi olarak gönderilen ilk diplomat Yusuf Agah Efendi'dir.

8. **E** Osmanlı Devleti'nde Batı tarzı ıslahatlar XVIII. yüzyılda III. Ahmet Dönemi ile başlamıştır.
XVIII. yüzyılda III. Ahmet'ten sonra I. Mahmut (1730-1754), III. Mustafa (1757-1774), I. Abdülhamit (1774-1789) ve III. Selim (1789-1807) Dönemleri'nde de Batı tarzı ıslahatlara yer verilmiştir.
Ancak XVII. yüzyıl padişahlarından olan II. Osman Dönemi'nde (1618-1622) Batı tarzı ıslahatlara yer verildiği söylenemez.

9. **A** Osmanlı Devleti'nde ilk denge politikası III. Selim Dönemi'nde (1789-1807) başlamıştır.
Fransa'nın Mısır'ı işgali (1798) sürecinde, Osmanlı Devleti'ni İngiltere ve Çarlık Rusya'nın desteklemesiyle denge politikası başlamıştır.

10. **E** Osmanlı Devleti'nde ilk özel matbaa III. Ahmet döneminde, ilk devlet matbaası ise III. Selim döneminde kurulmuştur.

11. **C** Yurt dışına gönderilen Osmanlı elçilerine "Sefir"adı verilmiştir.

12. **D** 1730 yılında Patrona Halil İsyanı ile Yeniçeriler III. Ahmet'i tahttan indirip yerine I. Mahmut'u tahta çıkarmıştır.

13. **B** Lale Devri'nin ünlü sadrazamı Damat İbrahim Paşa'dır. (Nevşehirli Damat İbrahim Paşa)

14. **C** Osmanlı Devleti'nde Batı tarzı ilk askeri okul 18. yüzyılda açılmıştır. Bu okulun adı Hendesehane'dir ve I. Mahmut döneminde (1730-1754) açılmıştır.
Diğer seçeneklerde verilenler 17. yüzyıldaki ıslahat girişimleridir.

15. **D** Osmanlı Devleti'nde elçilere "Sefir" denir. Sefirler tarafından yazılan eserlere "Sefaretname"dir. Sefaretnamelerde yurt dışına giden elçiler gittikleri devlet hakkında bilgiler vermiştir.

16. **C** Osmanlı Devleti'nde 1795 yılında Mühendishane- i Berri Hümayun açılmıştır.
Kara Mühendis Okulu anlamına gelen bu okul III. Selim döneminin (1789-1807) yeniliklerindendir.

17. **B** 1774 yılında Küçük Kaynarca Antlaşması ile bağımsız olan Kırım, Yaş Antlaşması (1792) ile Çarlık Rusya'nın olmuştur.

18. **A** Fransız İhtilali (1789) başladığında Osmanlı Devleti'nde III. Selim (1789-1807) tahtadır ve bu dönem diğer adıyla Nizam-ı Cedit Dönemi'dir.

19. **C** Osmanlı Devleti'nin Çarlık Rusya ve Avusturya ile imzaladığı Belgrad Antlaşması (1739) ile Karadeniz son kez Türk gölü olmuştur.

20. **C** 1774 yılında imzalanan Küçük Kaynarca Antlaşması, Osmanlı Devleti'nin tarihinde ilk kez savaş tazminatı ödediği antlaşma olmuştur.
Başka bir ifadeyle Çarlık Rusya Osmanlı Devleti'nden savaş tazminatı hakkı kazanan ilk devlet olmuştur.

MURAT YAYINLARI

/muratyayincilik

XIX. Yüzyıl Siyasi Gelişmeleri ve Demokratikleşme Hareketleri • TEST 22

1. Aşağıdakilerden hangisi Osmanlı Devleti'nin XIX. yüzyıl ıslahatlarından biridir?

A) İrad-ı Cedit Hazinesi'nin oluşturulması
B) Düzenli ilk İtfaiye teşkilatının oluşturulması
C) Hendesehane'nin kurulması
D) Memur ve askere kılık-kıyafet zorunluluğu
E) Modern ilk düzenli ordunun kurulması

2. Aşağıdakilerden hangisi Tanzimat Dönemi'nde açılan deniz işletme şirketidir?

A) Düyun-ı Umumiye İdaresi
B) Şirket-i Hayriye
C) Bank-ı Osmani
D) Memleket Sandıkları
E) Menafi Sandıkları

3. Osmanlı Devleti ile ilgili aşağıda verilenlerden hangisi arasında neden-sonuç ilişkisi kurulamaz?

	Neden	Sonuç
A)	Tanzimat Fermanı	Askerliğin vatan borcu olması
B)	Balta Limanı Antlaşması	Açık pazar sorununun ortaya çıkması
C)	Kırım Savaşı	İlk dış borç alımının yapılması
D)	Berlin Antlaşması	Rumların bağımsızlığını elde etmesi
E)	Islahat Fermanı	Azınlıklara memurluk hakkının verilmesi

4. 1863 yılında yetim ve yoksul çocukların eğitim-öğretimine destek olmak amacıyla açılan kurum aşağıdakilerden hangisidir?

A) Darulmuallimat
B) Darulelhan
C) Daruşşafaka
D) Darulbedayi
E) Hilal-i Ahdar

5. Osmanlı Devleti'ne XIX. yüzyılda "Hasta Adam" ifadesini kullanan ilk devlet aşağıdakilerden hangisidir?

A) Çarlık Rusya
B) Fransa
C) Almanya
D) İngiltere
E) Avusturya

6. I. Tanzimat Fermanı
II. Ayastefanos Antlaşması
III. I. Meşrutiyet'in İlanı

Yukarıdaki Osmanlı Devleti'ne ait belgelerin doğru sıralaması hangisidir?

A) I-III-II
B) II-I-III
C) III-I-II
D) III-II-I
E) I-II-III

7. Osmanlı Devleti'ne ait ilk kağıt para aşağıdakilerden hangisidir?

A) Ulufe
B) Kaime
C) Mangır
D) Dinar
E) Sultani

MURAT YAYINLARI

8. **Osmanlı Devleti'nde nazırlıkların kurulması sonucunda Sadaret kethüdalığı makamı aşağıdakilerden hangisine dönüşmüştür?**

A) Haraciye
B) Adliye
C) Maarif
D) Maliye
E) Dahiliye

9. **1895 yılında kimsesiz çocuklar ile yaşlı ve bakıma muhtaç insanların barındırmasına yönelik açılan kurum aşağıdakilerden hangisidir?**

A) Darülfünun
B) Daruşşafaka
C) Darülaceze
D) Darulbedayi
E) Darüleytam

10. **Osmanlı Devleti'nde Mekteb-i Sultani (Galatasaray Lisesi) aşağıdaki hükümdarlardan hangisinin döneminde açılmıştır?**

A) Abdülaziz
B) Abdülmecit
C) II. Mahmut
D) II. Selim
E) I. Abdülhamit

11. **Osmanlı Devleti'nde ilk demiryolu hattı aşağıdaki devletlerden hangisi tarafından açılmıştır?**

A) Almanya
B) Fransa
C) İngiltere
D) İtalya
E) Çarlık Rusya

12. **1863 açılan Memleket Sandıkları aşağıdaki hangi kurumun temelini oluşturmuştur?**

A) Hilal-ı Ahmer
B) Darulfünun
C) Darulmuallimin
D) Ziraat Bankası
E) Bank-ı Dersaadet

13. **II. Mahmut'un:** "Ben tebaamdaki dinler farkını ancak cami, havra ve kiliselerine girdikleri zaman görmek isterim." **sözü ile aşağıdaki fikir akımlarından hangisinin önemine işaret ettiği söylenebilir?**

A) Türkçülük
B) Batıcılık
C) Ümmetçilik
D) Garpçılık
E) Osmanlıcılık

14. **Osmanlı Devleti'nde; Yusuf Akçura, Enver Paşa, Mehmet Emin Yurdakul tarafından savunulan düşünce akımı aşağıdakilerden hangisidir?**

A) Osmanlıcılık
B) İslamcılık
C) Türkçülük
D) Adem-i Merkeziyetçilik
E) Batıcılık

MURAT YAYINLARI

/muratyayincilik

15. **Osmanlı Devleti'nde Sırbistan, aşağıdakilerden hangisiyle resmen bağımsızlığını elde etmiştir?**

A) Berlin Antlaşması
B) Dömeke Meydan Savaşı
C) Bükreş Antlaşması
D) Kırım Savaşı
E) Hünkar İskelesi Antlaşması

16. **1869 yılında Süveyş Kanalı'nın açılmasını üstlenen devletler aşağıdakilerden hangisidir?**

A) İngiltere-Almanya
B) İtalya-Avusturya
C) Çarlık Rusya-Fransa
D) İngiltere-Fransa
E) Almanya-Çarlık Rusya

17. **1878 yılında İngiltere tarafından işgal edilen Osmanlı toprağı aşağıdakilerden hangisidir?**

A) Kıbrıs
B) Mısır
C) Tunus
D) Trablusgarp
E) Girit

18. **Tanzimat Fermanı'na;**

I. Fransız İhtilali,
II. Coğrafi Keşifler,
III. 1830 İhtilali

gelişmelerinden hangilerinin zemin hazırladığı söylenebilir?

A) Yalnız I
B) Yalnız II
C) Yalnız III
D) I ve III
E) I, II ve III

19. **Osmanlı Devleti'nde erkek öğretmen okulu olan Darülmuallimin aşağıdaki hangi hükümdar döneminde açılmıştır?**

A) II. Mahmut
B) Abdülmecit
C) II. Abdülhamit
D) Abdülaziz
E) V. Murat

20. **Aşağıdakilerden hangisi II. Mahmut döneminin gelişmelerinden biri değildir?**

A) Divanıhümayun'un yerine Nazırlıkların kurulması
B) Posta teşkilatının kurulması
C) Milliyetçilik nitelikli ilk isyanların çıkması
D) Takvim-i Vekayi'nin çıkarılması
E) Yeniçeri Ocağı'nın kaldırılması

MURAT YAYINLARI

Açıklamalar • TEST 22

1. **D** Osmanlı Devleti'nde memur ve askere kılık-kıyafet zorunluluğu XIX. yüzyılın padişahlarından olan II. Mahmut döneminin (1808-1839) yeniliklerindendir.
Osmanlı Devleti'nin düzenli ilk "İtfaiye teşkilatı" olan "Tulumbacılar Ocağı" Lale Devri'nin (1718-1730) padişahı III. Ahmet döneminde kurulmuştur.
Batı tarzı ilk askeri/teknik okul olan "Hendesehane" I. Mahmut döneminde (1730-1754) açılmıştır.
III. Selim Dönemi'nde diğer adıyla Nizam-ı Cedit dönemidir.(1789-1807) Bu dönemde Batı tarzı ilk modern ordu kurulmuştur (Nizam-ı Cedit Ordusu) bu ordunun masrafları için İrad-ı Cedit Hazinesi oluşturulmuş ve ilk devlet matbaası (Matbaa-ı Amire) kurulmuştur.

2. **B** Osmanlı Devleti Tanzimat Dönemi'nde açılan Şirket-i Hayriye ilk deniz işletme şirketidir.

3. **D** Osmanlı Devleti'deki gelişmelerden Berlin Antlaşması ile Rumların bağımsızlığını elde etmesi arasında neden-sonuç ilişkisi kurulamaz.
Rumların bağımsızlığını elde etmeleri 1829 yılında imzalanan Edirne Antlaşması ile olmuştur.
Diğer seçeneklerdeki neden-sonuç ilişkisi doğru verilmiştir.
Balta Limanı Antlaşması (1838) ile Osmanlı Devleti Avrupa karşısında açık pazar haline gelmiştir.
Tanzimat Fermanı (1839) ile askerlik herkes için zorunlu olmuş böylelikle askerlik vatan borcu haline gelmiştir.
Kırım Savaşı (1853-1856) ile Osmanlı Devleti ilk kez İngiltere'den dış borçlanmaya gitmiştir.
Islahat Fermanı (1856) ile azınlıklar ilk kez memurluk hakkını kazanmıştır.

4. **C** Osmanlı Devleti'nde 1863 yılında yetim ve yoksul çocukların eğitim-öğretimine destek olmak amacıyla açılan kurum "Daruşşafaka"dır.

5. **A** 1815 yılında düzenlenen Viyana Kongresi ile Osmanlı Devleti'ne "Hasta Adam" ifadesini kullanan ilk devlet Çarlık Rusya olmuştur.

6. **A** Tanzimat Fermanı 1839 yılında yayınlanmıştır.(I)
Ayastefanos Antlaşması 1878 yılına aittir. (II)
I. Meşrutiyet'in ilanı 1876 yılında olmuştur.(III)
Bu durumda doğru sıralama I-III-II olmalıdır.

7. **B** Osmanlı Devleti'nin ait ilk kağıt parası Abdülmecit Dönemi'nde (1839-1861) bastırılan "Kaime"dir.

8. **E** Osmanlı Devleti'nde nazırlıkların kurulması sonucunda Sadaret kethüdalığı makamı Dahiliye Nazırlığı'na dönüşmüştür.

9. **C** II. Abdülhamit Dönemi'nde (1876-1909) 1895 yılında kimsesiz çocuklar ile yaşlı ve bakıma muhtaç insanların barındırmasına yönelik açılan kurum "Darulaceze"dir.

10. **A** Osmanlı Devleti'nde 1868 yılında açılan Mekteb-i Sultani (Galatasaray Lisesi), Sultan Abdüzaziz Dönemi'nin (1861-1876) eğitim kurumları arasında yer almıştır.

MURAT YAYINLARI

11. C Osmanlı Devleti'nde ilk demiryolu hattı İskenderiye-Kahire hattında açılmıştır.
Anadolu'da açılan ilk demiryolu hattı İzmir-Aydın hattı olmuştur.
Her ikisinin de açılmasına öncülük eden devlet İngiltere'dir.

12. D Mithat Paşa tarafından 1863 açılan Memleket Sandıkları 1888 yılında Ziraat Bankası'nın temelini oluşturmuştur.

13. E Osmanlıcılık politikası, ırk, dil, din ve mezhep ayrımı olmaksızın Osmanlı halkını eşit tutma politikasıdır.
II. Mahmut'un: "Ben tebaamdaki dinler farkını ancak cami, havra ve kiliselerine girdikleri zaman görmek isterim." sözü Osmanlıcılık politikasının savunulduğunun göstergesidir.

14. C Yusuf Akçura,Enver Paşa ve Mehmet Emin Yurdakul, II. Meşrutiyet Dönemi'nin resmi politikası olan Türkçülük akımının önde gelen temsilcileri arasında yer almıştır.

15. A Osmanlı Devleti'nde Sırbistan, Karadağ ve Romanya 1878 yılında imzalanan Berlin Antlaşması ile bağımsızlıklarını elde etmişlerdir.

16. D Sultan Abdülaziz Dönemi'nde 1869 yılında Süveyş Kanalı'nın açılmasıyla Akdeniz ticaret yolu yeniden önemli hale gelmiştir. Süveyş Kanalı'nın açılmasına öncülük eden devletler ise İngiltere ve Fransa olmuştur.

17. A 93 Harbi'nin (1877-1878 Osmanlı-Rus Savaşı) ardından 1878 yılında İngiltere tarafından işgal edilen Osmanlı toprağı Kıbrıs Adası olmuştur.
İngiltere, Kıbrıs'ın işgalinden sonra 1882 yılında da Mısır'ı işgal etmiştir.

18. D Hem Fransız İhtilali hem de 1830 İhtilali hürriyet, eşitlik ve adalet gibi kavramların güç kazanmasına neden olduğu için çok uluslu ülkelerde milliyetçilik ayaklanmaları yaşanmıştır.
Bu nedenle 1839 yılında yayınlanan Tanzimat Fermanı'na Fransız İhtilali ve 1830 İhtilali'nin etkisinden söz edilebilir.
Ancak 1492 yılında başlayan Coğrafi Keşifler'in Tanzimat Fermanı'na etki etmesi söz konusu değildir.

19. B Darülmuallimin, 1848 yılında Sultan Abdülmecit döneminde açılan kurumdur.

20. C Osmanlı Devleti'nde milliyetçilik nitelikli ilk isyan III. Selim döneminde Sırp ayaklanmasıdır.
Diğer seçeneklerde verilenler II. Mahmut döneminin gelişmelerindendir.

MURAT YAYINLARI

XIX. Yüzyıl Siyasi Gelişmeleri ve Demokratikleşme Hareketleri • TEST 23

1. **Osmanlı Devleti'nde ırk, dil, din ve mezhep ayrımı gözetilmeksizin Osmanlı halkını eşit tutma politikası aşağıdakilerden hangisidir?**

A) Batıcılık
B) Türkçülük
C) İttihat-ı Anasır
D) Adem-i Merkeziyetçilik
E) İslamcılık

2. **Osmanlı Devleti'nde Kavalalı Mehmet Ali Paşa Olayı aşağıdakilerden hangisi ile uluslararası sorun haline dönüşmüştür?**

A) Hünkar İskelesi Antlaşması
B) Kütahya Antlaşması
C) Balta Limanı Ticaret Sözleşmesi
D) Berlin Antlaşması
E) Kırım Savaşı

3. **Tanzimat Dönemi'nde açılan ilköğretim kurumu aşağıdakilerden hangisidir?**

A) Sıbyan Mektebi
B) İptidai
C) Mekteb-i Mülkiye
D) İdadi
E) Mekteb-i Harbiye

4. **Osmanlı Devleti'nin Ahmet Cevdet Paşa tarafından hazırlanan İslam temelli ilk medeni kanunu aşağıdakilerden hangisidir?**

A) Kanun-ı Esasi
B) Fezleke
C) Mecelle
D) Mizan
E) Meşveret

5. **Tanzimat Dönemi'nde;**

I. Batıcılık,
II. Adem-i Merkeziyetçilik,
III. Osmanlıcılık

fikir akımlarından hangilerine yer verildiği söylenebilir?

A) Yalnız I
B) Yalnız II
C) Yalnız III
D) I ve III
E) I, II ve III

6. **Osmanlı Devleti'nde padişah yetkisini sınırlandıran ilk belge aşağıdaki hangi hükümdar dönemine aittir?**

A) Abdülmecit
B) II. Mahmut
C) Abdülaziz
D) II. Abdülhamit
E) V. Murat

7. **Osmanlı Devleti'nin ilk resmi gazetesi aşağıdakilerden hangisidir?**

A) Takvim-i Tıbbiye
B) Ceride-i Havadis
C) Tercüman-ı Ahval
D) Takvim-i Vekayi
E) Tasvir- i Efkar

MURAT YAYINLARI

/muratyayincilik

8. **Osmanlı Devleti'nde;**

I. III. Selim
II. II. Mahmut
III. II. Abdülhamit

hangilerinin dönemlerinde köklü ıslahatlara yer verilmiştir?

A) Yalnız I
B) Yalnız II
C) Yalnız III
D) I ve III
E) I, II ve III

9. **Osmanlı Devleti'nde açılan ilk banka aşağıdakilerden hangisidir?**

A) Ziraat Bankası
B) Bank-ı Dersaadet
C) Bank-ı Şahane- i Osmani
D) Bank-ı Osmani
E) Osmanlı Milli İtibar Bankası

10. **Osmanlı Devleti'nin Avrupa karşısında açık pazar haline gelmesi aşağıdakilerden hangisi ile olmuştur?**

A) Edirne Antlaşması
B) Londra Boğazlar Sözleşmesi
C) Balta Limanı Antlaşması
D) Kütahya Antlaşması
E) Berlin Antlaşması

11. **1882 yılında açılan Sanayi-i Nefise Mektebi'nin ilk müdürlüğünü yapan kişi aşağıdakilerden hangisidir?**

A) Mithat Paşa
B) Osman Hamdi Bey
C) Namık Kemal
D) Mustafa Reşit Paşa
E) Şeker Ahmet Paşa

12. **"Vatan Yahut Silistre" adlı eser aşağıdaki Osmanlı düşünürlerinden hangisine aittir?**

A) Şinasi
B) Mithat Paşa
C) Namık Kemal
D) Ziya Paşa
E) Agah Efendi

13. **Süveyş Kanalı aşağıdaki Osmanlı hükümdarlarından hangisinin döneminde açılmıştır?**

A) Abdülmecit
B) Abdülaziz
C) II. Abdülhamit
D) II. Mahmut
E) III. Selim

14. **Aşağıdakilerden hangisi Sultan Abdülmecit dönemi gelişmeleri arasında yer almaz?**

A) Encümen-i Daniş'in kurulması
B) Bank-ı Osmani'nin açılması
C) Şirket-i Hayriye'nin kurulması
D) Mekteb-i Mülkiye'nin açılması
E) Mekteb-i Maarif-i Adliye'nin açılması

MURAT YAYINLARI

15. **23 Aralık 1876 tarihinde kabul edilen ilk Osmanlı anayasası aşağıdakilerden hangisinin liderliğinde hazırlanmıştır?**

A) Mithat Paşa
B) Mustafa Reşit Paşa
C) Namık Kemal
D) Mehmet Emin Paşa
E) Ahmet Cevdet Paşa

16. **Aşağıdakilerden hangisi II. Abdülhamit dönemine ait kurumlardandır?**

A) Daruşşafaka
B) Darulmaallimat
C) Mekteb-i Tıbbiye
D) Darulmuallimin
E) Darulacaze

17. **Osmanlı Devleti'nde ilk dış borç alımı aşağıdakilerden hangisinde olmuştur?**

A) 93 Harbi'nde
B) Dömeke Savaşı'nda
C) Kırım Savaşı'nda
D) Mısır Sorunu'nda
E) Berlin Antlaşması'nda

18. **Giritli Rumlar için 1878 yılında çıkarılan ferman aşağıdakilerden hangisidir?**

A) Islahat Fermanı
B) Adalet Fermanı
C) Gülhane Hattı Hümayunu
D) Halepa Fermanı
E) Tanzimat Fermanı

19. **Günümüzde Danıştay'ın temeli olan Osmanlı Devleti'ne ait kurum aşağıdakilerden hangisidir?**

A) Şura-yı Devlet
B) Meclis-i Ayan
C) Divan-ı Muhasebat
D) Heyet-i Vükela
E) Meclis-i Mebusan

20. **Osmanlı Devleti'nin;**

I. Tanzimat Fermanı,
II. Sened-i İttifak,
III. Islahat Fermanı

belgelerinden hangilerinde Avrupa etkisinden söz edilebilir?

A) Yalnız I
B) Yalnız II
C) Yalnız III
D) I ve III
E) I, II ve III

MURAT YAYINLARI

/muratyayincilik

Açıklamalar • TEST 23

1. **C** Osmanlıcılık; ırk, dil, din ve mezhep ayrımı gözetilmeksizin Osmanlı halkını eşit tutma politikasıdır. Bu politikanın diğer adı İttihat-ı Anasır'dır. (unsurların birliği)

2. **B** Osmanlı Devleti, Rum isyanının bastırılmasında Mısır valisi Kavalalı Mehmet Ali Paşa'dan yardım almıştır.
Ancak bu ayaklanmadan sonra Mısır valisi Kavalalı Mehmet Paşa'nın Osmanlı Devleti'nden bir takım haklar istemesi Mısır sorununun çıkmasına neden olmuştur.
Osmanlı Devleti ile Mısır valisi arasında yaşanan sorun, İngiltere ve Fransa'nın arabuluculuğu yüzünden, Kütahya Antlaşması (1833) ile dış sorun haline gelmiştir.

3. **B** İptidai, Tanzimat Dönemi'nde açılan ilköğretim kurumudur.

4. **C** Osmanlı Devleti'nin Ahmet Cevdet Paşa tarafından hazırlanan İslam temelli ilk medeni kanunu "Mecelle"dir.

5. **D** Tanzimat Dönemi'nde uygulanan temel fikir akımları Batıcılık ve Osmanlıcılık'tır.
Adem-i Merkeziyetçilik hiçbir dönemde uygulanmamıştır.

6. **B** Osmanlı Devleti'nde padişah yetkisini sınırlandıran ilk belge Sened-i İttifak'tır. 1808 yılına ait bu belge II. Mahmut dönemi gelişmelerindendir.

7. **D** II. Mahmut döneminden itibaren çıkarılan Takvim-i Vekayi Osmanlı Devleti'nin ilk resmi gazetesidir.

8. **E** Osmanlı Devleti'nde köklü ıslahatlar III. Selim ile başlamış Abdülmecit, Abdülaziz ve II. Abdülhamit dönemlerinde sürdürülmüştür.

9. **B** 1847 yılında Galatalı Bankerler tarafından kurulan Bank-ı Dersaadet, Osmanlı Devleti'nde açılan ilk bankadır.

10. **C** 1838 yılında İngiltere ile imzalanan Balta Limanı Antlaşması (Balta Limanı Ticaret Sözleşmesi) ile Osmanlı Devleti Avrupa karşısında açık pazar haline gelmiştir.

11. **B** Osmanlı Devleti'nde 1882 yılında açılan Sanayi-i Nefise Mektebi'nin ilk müdürlüğünü Osman Hamdi Bey yapmıştır. Sanayi-i Nefise Atatürk Dönemi'nde Güzel Sanatlar Akademisi'ne dönüştürülmüştür.

12. **C** Vatan Yahut Silistre adlı eser 1872 yılında Namık Kemal tarafından yazılan eserdir.

13. **B** Süveyş Kanalı 1869 yılında Abdülaziz döneminde açılmıştır.

14. **E** Mekteb-i Maarif-i Adliye'nin açılması II. Mahmut dönemi gelişmeleri arasında yer alır.
Diğer seçeneklerde verilenler Sultan Abdülmecit dönemi gelişmelerindendir.

15. **A** Osmanlı Devleti'nin ilk anayasası olan Kanun-ı Esasi'nin hazırlanmasına öncülük eden kişi Mithat Paşa'dır.

16. **E** 1895 yılında çocuk, yaşlı, engelli ve kimsesizleri koruma amacıyla açılan Darulaceze, II. Abdülhamit dönemine ait kurumlardandır.

17. **C** Osmanlı Devleti'nde ilk dış borçlanma Kırım Savaşı'nda İngiltere'den alınmıştır.

18. **D** Osmanlı Devleti'nde Giritli Rumlar için 1878 yılında çıkarılan ferman Halepa Fermanı olmuştur.

19. **A** 1868 yılında açılan Şura-yı Devlet, günümüzde Danıştay'ın temelini oluşturmuştur.

20. **D** Osmanlı Devleti'nde Tanzimat ve Islahat Fermanları Avrupa'daki demokrasi hareketlerinden etkilenerek ortaya konulan belgelerdir.
Ancak Sened-i İttifak ayanlar ile padişah arasında yapılan sözleşmedir ve belgede Avrupa etkisinden söz edilemez.

MURAT YAYINLARI

XIX. Yüzyıl Siyasi Gelişmeleri ve Demokratikleşme Hareketleri • TEST 24

1. **Osmanlı Devleti'nde Rumlar aşağıdaki antlaşmalardan hangisi ile bağımsız olmuşlardır?**

A) Berlin
B) Atina
C) Edirne
D) Bükreş
E) İstanbul

2. **Osmanlı Devleti'nde;**

I. Meclis-i Mebusan,
II. Meclis-i Ayan,
III. Meclis-i Ahkam-ı Adliye

hangileri Kanun-ı Esasi'nin yürürlüğe girmesi sonucunda açılan kurumlardandır?

A) Yalnız I
B) Yalnız II
C) Yalnız III
D) I ve II
E) I, II ve III

3. **Aşağıdakilerden hangisi Osmanlı Devleti'nde XIX. yüzyıl gelişmeleri arasında yer alır?**

A) İlk sürekli elçiliklerin açılması
B) Fransa'ya daimi kapitülasyon hakkının verilmesi
C) Esham senetleri adı verilen ilk iç borçlanmanın alınması
D) İrad-ı Cedit hazinesinin oluşturulması
E) Avrupa'ya ilk öğrenci gönderimi

4. **Osmanlı Devleti'nin ilk demiryolu hattı aşağıdakilerden hangisidir?**

A) İzmir-Aydın
B) İskenderiye-Kahire
C) İzmir-Muğla
D) İstanbul-Eskişehir
E) Şam-Bağdat

5. **93 Harbi aşağıdakilerden hangisi ile son bulmuştur?**

A) Yeşilköy Antlaşması
B) Edirne Antlaşması
C) Bükreş Antlaşması
D) Paris Konferansı
E) Berlin Antlaşması

6. **Osmanlı Devleti'nde müsadere sistemi ilk kez hangi padişah döneminde kaldırılmıştır?**

A) Abdülmecit
B) II. Abdülhamit
C) II. Mahmut
D) Abdülaziz
E) IV.Mustafa

7. **Rusçuk Ayanı Alemdar Mustafa İsyanı ile tahttan indirilen Osmanlı padişahı aşağıdakilerden hangisidir?**

A) II. Mahmut
B) IV. Mustafa
C) II. Abdülhamit
D) Abdülaziz
E) V. Murat

MURAT YAYINLARI

/muratyayincilik

8. **Osmanlı Devleti'nde XIX. yüzyılda ülke içi seyahat izin belgesi olarak aşağıdakilerden hangisi yürürlüğe konulmuştur?**

A) Mürur tezkiresi
B) I. Meşrutiyet
C) Kanun-ı Esasi
D) Encümen-i Daniş
E) Islahat Fermanı

9. **Aşağıdakilerden hangisi Osmanlı Devleti'nde XIX. yüzyılda açılan Darulfünun'a temel oluşturmuştur?**

A) İznik Medresesi
B) Sahn-ı Seman Medresesi
C) Darulmuallimat
D) Daruşşafaka
E) Darulmuallimin

10. **Süveyş Kanalı'nın açılmasından sonra İngiltere tarafından işgal edilen yer aşağıdakilerden hangisidir?**

A) Tunus
B) Cezayir
C) Trablusgarp
D) Mısır
E) Fas

11. **Karadağ ve Romanya aşağıdakilerden hangisi ile bağımsızlıklarını resmen ilan etmişlerdir?**

A) Edirne Antlaşması
B) Paris Antlaşması
C) Bükreş Antlaşması
D) Londra Antlaşması
E) Berlin Antlaşması

12. **Osmanlı Devleti'nde Şinasi ve Agah Efendi tarafından çıkarılan ilk özel gazete aşağıdakilerden hangisidir?**

A) Takvim-i Tıbbiye
B) Ceride-i Havadis
C) Tercüman-ı Ahval
D) İleri
E) Düstur

13. **Aşağıdakilerden hangisi Yunanistan'ın bağımsızlaşma sürecini hızlandırmaya yönelik bir gelişmedir?**

A) Cezayir'in işgali
B) Navarin Baskını
C) Tunus'un işgali
D) Sinop Baskını
E) Kıbrıs'ın işgali

14. **Aşağıdakilerden hangisi Osmanlı Devleti'de XIX. yüzyılda açılan bankalar arasında yer almaz?**

A) Osmanlı Bankası
B) Osmanlı Milli İtibar Bankası
C) Banka-ı Dersaadet
D) Ziraat Bankası
E) Bank-ı Şahane-i Osmani

MURAT YAYINLARI

15. **Aşağıdakilerden hangisi Osmanlı Devleti'nin ilk Türk kadın romancısıdır?**

A) Halide Edip
B) Nene Hatun
C) Nezahat Onbaşı
D) Fatma Aliye
E) Zekiye Hanım

16. **Aşağıdakilerden hangisi I. Meşrutiyet'in ilanına zemin hazırlayan gelişmedir?**

A) Reval Görüşmeleri'nin düzenlenmesi
B) Kırım Savaşı'nın çıkması
C) Tersane Konferansı'nın düzenlenmesi
D) Mecelle'nin yürürlüğe girmesi
E) Düyun-ı Umumiye İdaresi'nin kurulması

17. **1830 yılında Fransa tarafından işgal edilen yer aşağıdakilerden hangisidir?**

A) Tunus
B) Cezayir
C) Mısır
D) Mora
E) Kıbrıs

18. **Islahat Fermanı ile iltizam sisteminin yerine aşağıdakilerden hangisi getirilmiştir?**

A) Mülazemet
B) Tımar
C) Muhassıllık
D) Esham
E) Ayan

19. **1809 yılında Osmanlı Devleti aşağıdakilerden hangisi ile Kale-i Sultani Antlaşması'nı imzalamıştır?**

A) Avusturya
B) İngiltere
C) Çarlık Rusya
D) Fransa
E) İtalya

20. I. Tunus
II. Cezayir
III. Trablusgarp

Yukarıdakilerden hangileri İstibdat Dönemi'nde kaybedilen Kuzey Afrika topraklarından biridir?

A) Yalnız I
B) Yalnız II
C) Yalnız III
D) I ve II
E) I, II ve III

MURAT YAYINLARI

/muratyayincilik

Açıklamalar • TEST 24

1. **C** Osmanlı Devleti'nde Rumlar 1829 yılında imzalanan Edirne Antlaşması sonucunda bağımsız olmuşlardır.

2. **D** Osmanlı Devleti'nde 23 Aralık 1876'da Kanun-ı Esasi yürürlüğe girmiştir. Anayasanın yürürlüğe girmesinden sonra Meclis-i Mebusan ve Meclis-i Ayan adıyla iki meclis açılmıştır.
Meclis-i Ahkam-ı Adliye, Tanzimat Dönemi'nde açılan kurumdur.

3. **E** Avrupa'ya ilk öğrenci gönderimi II. Mahmut döneminin (1808-1839) gelişmelerindendir.
Diğer seçeneklerde verilenler 18. Yüzyıl gelişmelerindendir.

4. **B** Osmanlı Devleti'nin ilk demiryolu hattı İskenderiye-Kahire hattında açılmıştır. Anadolu'da açılan ilk demiryolu hattı ise İzmir-Aydın hattı olmuştur.

5. **A** Osmanlı Devleti ile Çarlık Rusya arasında yaşanan 93 Harbi (1877-1878 Osmanlı Rus Savaşı) 1878 yılında imzalanan Yeşilköy Antlaşması (Ayastefanos Antlaşması) ile son bulmuştur.

6. **C** Müsadere sistemine son veren ilk Osmanlı padişahı II. Mahmut'tur. Müsaderenin kaldırılmasıyla özel mülkiyet güvencesi sağlanmıştır.

7. **B** 1808 yılında Rusçuk Ayanı Alemdar Mustafa İsyanı ile tahttan indirilen Osmanlı padişahı IV. Mustafa'dır. İsyan sonucunda IV. Mustafa'nın yerine II. Mahmut tahta çıkarılmıştır.

8. **A** Osmanlı Devleti'nde XIX. yüzyılda ülke içi seyahat izin belgesi olarak "mürur tezkiresi" yürürlüğe konulmuştur.

9. **B** Fatih döneminde açılan Sahn-ı Seman daha sonraları XIX. yüzyılda açılan Darülfünun'a temel oluşturmuştur.

10. **D** 1869 yılında Süveyş Kanalı'nın açılmasından sonra İngiltere tarafından 1882 yılında Mısır işgal edilmiştir.

11. **E** 1878 yılında imzalanan Berlin Antlaşması ile Osmanlı Devleti'nden resmen ayrılan devletler Sırbistan, Karadağ ve Romanya'dır.

12. **C** Tercüman-ı Ahval, Osmanlı Devleti'nde Şinasi ve Agah Efendi tarafından çıkarılan ilk özel gazetedir.

13. **B** 1827 yılında Navarin Baskını ile Osmanlı donanması İngiltere, Fransa ve Çarlık Rusya tarafından yakılmıştır. Navarin Baskını'nındaki asıl amaç Yunanistan'ın bağımsızlaşmasını sağlamaktır.

14. **B** Osmanlı Milli İtibar Bankası 1917 yılında açılmıştır. Diğer seçenekteki bankalar 19.yüzyıla aittir.

15. **D** Ahmet Cevdet Paşa'nın kızı olan Fatma Aliye, Osmanlı Devleti'nin ilk Türk kadın romancısıdır.

16. **C** 23 Aralık 1876 tarihinde düzenlenen Tersane Konferansı (İstanbul Konferansı) I. Meşrutiyet'in ilanına neden olan görüşmedir.

17. **B** Cezayir 1830 yılında Fransa tarafından işgal edilen Osmanlı toprağıdır.

18. **C** Islahat Fermanı ile iltizam sistemi yerine muhassıllık sistemine geçilmiştir. Bu sistemle birlikte vergi toplamakla yetkili muhassıllar atanmıştır.

19. **B** Fransa ve Çarlık Rusya, Osmanlı'ya karşı Tilsit Antlaşması'nı (1807) imzalamışlardır. Bu devletlere karşı Osmanlı Devleti denge politikası gereği 1809 yılında İngiltere ile Kale-i Sultani Antlaşması'nı imzalamıştır.

20. **A** İstibdat Dönemi 1878-1908 tarihlerini kapsamaktadır. Tunus, 1881'de Fransızlar tarafından işgal edilmiş olduğu için İstibdat Dönemi toprak kayıplarından biridir. Cezayir 1830'da, Trablusgarp ise 1912'de kaybedilmiştir.

MURAT YAYINLARI

XX. Yüzyıl Başlarında Osmanlı Devleti (II. Meşrutiyet'in İlanı-Trablusgarp ve Balkan Savaşları) • TEST 25

1. **Osmanlı Devleti'nde rejim değişikliği ilk olarak hangi hükümdar döneminde yaşanmıştır?**

A) II. Mehmet
B) II. Mahmut
C) III. Selim
D) II. Abdülhamid
E) Abdülmecid

2. I. Dr. Abdullah Cevdet
II. İbrahim Temo
III. İshak Sükuti

Yukarıdakilerden hangileri İttihat ve Terakki Cemiyeti'nin kurucularındandır?

A) Yalnız I B) Yalnız II C) Yalnız III
D) I ve III E) I, II ve III

3. **Aşağıdakilerden hangisi 1909 değişiklikleri sonrası Kanunuesasi'nin 1876 Kanunuesasi'den farklı yönlerinden biri değildir?**

A) Yasama organının güçlenmesi
B) Bakanların belirlenme şekli
C) Siyasi parti kurulabilmesi
D) Kanun teklifi verebilme hakkı
E) Devletin dini maddesi

4. **II. Meşrutiyet rejimini koruyan Hareket Ordusu'nun başkanlığını aşağıdakilerden hangisi üstlenmiştir?**

A) Mahmut Şevket Paşa
B) Mustafa Kemal Paşa
C) Enver Paşa
D) Cemal Paşa
E) Ali Fuat Paşa

5. I. İtalya
II. İngiltere
III. Çarlık Rusya

Yukarıdakilerden hangileri Osmanlı'ya karşı 1909 yılında imzalanan Racconigi Antlaşması'nda yer alan devletlerdendir?

A) Yalnız I B) Yalnız II C) Yalnız III
D) I ve III E) I, II ve III

6. **Osmanlı Devleti'nin ilk siyasi partisi aşağıdakilerden hangisidir?**

A) Osmanlı Ahali Fırkası
B) Osmanlı Demokrat Partisi
C) İttihat ve Terakki Partisi
D) Osmanlı Ahrar Fırkası
E) Hürriyet ve İtilaf Fırkası

7. I. Sultan Reşat'ın tahta çıkışı,
II. Arnavutluk'un bağımsız olması,
III. Bosna-Hersek'in ilhak edilmesi

Yukarıdakilerden hangileri II. Meşrutiyet Dönemi'nin gelişmelerindendir?

A) Yalnız I
B) Yalnız II
C) Yalnız III
D) I ve III
E) I, II ve III

8. **1913 yılında İttihat ve Terakki Cemiyeti tarafından gerçekleştirilen ve hükümet darbesi olarak kabul edilen gelişme aşağıdakilerden hangisidir?**

A) 31 Mart Olayı
B) Babıali Baskını
C) II. Meşrutiyet'in ilanı
D) II. Abdülhamit'in tahttan indirilmesi
E) I. Meşrutiyet'in ilanı

MURAT YAYINLARI

/muratyayincilik

9. **Eğitimde gerçekleştirdiği faaliyetler nedeniyle "Maarifperver" ifadesi ile övülen padişah aşağıdakilerden hangisidir?**

A) II. Mahmut
B) II. Abdülhamit
C) Abdülaziz
D) I Abdülhamit
E) VI. Mehmet Vahdettin

10. **Falih Rıfkı Atay'ın 1905 ile 1914 yılları arasında kalan dönemi anlattığı anı ve deneme türündeki eseri aşağıdakilerden hangisidir?**

A) Zeytindağı
B) Ateşten Gömlek
C) Çankaya
D) Batış Yılları
E) Mustafa Kemal'in ağzından Vahdettin

11. **Babıali Baskını ile devrilen ve kurulan hükümetler aşağıdakilerden hangisinde doğru verilmiştir?**

A) Ahmet İzzet Paşa - Talat Paşa
B) Kamil Paşa - Mahmut Şevket Paşa
C) Tevkif Paşa - Damat Ferit Paşa
D) Kamil Paşa - Salih Paşa
E) Mahmut Şevket Paşa - Talat Paşa

12. **Osmanlı Devleti aşağıdakilerden hangisini Trablusgarp Savaşı'ndan sonra geçici olarak İtalya'ya bırakmıştır?**

A) Girit
B) Cezayir
C) On İki Ada
D) Bingazi
E) Ege Adaları

13. Uşi Antlaşması'nda halifelik siyasi bir güç olarak kullanılmıştır.

Bu yönüyle Uşi Antlaşması aşağıdaki antlaşmalardan hangisiyle benzerlik gösterir?

A) Küçük Kaynarca
B) Berlin
C) Karlofça
D) Atina
E) Kasr-ı Şirin

14. Rusya, Trablusgarp Savaşı devam ederken Osmanlı Devleti'nin Balkanlardaki topraklarını Sırbistan ve Bulgaristan arasında paylaştırmıştır.

Buna göre;

I. Balkan ulusları arasında siyasi bütünlük oluşturulmuştur.
II. Rusya, Balkan uluslarını Osmanlı'ya karşı desteklemiştir.
III. Rusya milliyetçilik akımını çıkarları doğrultusunda kullanmıştır.

yargılarından hangilerine ulaşılabilir?

A) Yalnız I
B) Yalnız II
C) I ve II
D) I ve III
E) II ve III

MURAT YAYINLARI

15. I. Karadağ
II. Bulgaristan
III. Sırbistan

I. Balkan Savaşı'nda Osmanlı Devleti ile savaşan yukarıdaki devletlerden hangileri, XX. yüzyılda bağımsızlıklarını ilan ederek Osmanlı Devleti'nden ayrılmıştır?

A) Yalnız I
B) Yalnız II
C) Yalnız III
D) II ve III
E) I, II ve III

16. **Aşağıdakilerden hangisi ile Balkan Savaşları arasında neden-sonuç ilişkisi kurulamaz?**

A) Trablusgarp Savaşı
B) Panslavist kışkırtma
C) Osmanlı ordusunda mektepli-alaylı sorunu
D) Türk azınlık hakları sorunu
E) Karadağ'ın bağımsızlığını ilan etmesi

17. **I. Balkan Savaşı'na katılmayıp II. Balkan Savaşı'nda yer alan devlet aşağıdakilerden hangisidir?**

A) Romanya
B) Sırbistan
C) Bulgaristan
D) Karadağ
E) Yunanistan

18. **Trablusgarp Savaşı'nda İtalyanlara karşı başlayan direnişin efsanevi lideri olan ve "Çöl Aslanı" unvanı ile bilinen isim aşağıdakilerden hangisidir?**

A) Fahrettin Paşa
B) Ömer Muhtar
C) Enver Bey
D) Ahmet Muhtar Paşa
E) Ali Fethi Bey

19. **Trablusgarp Savaşı'nı bitiren antlaşma aşağıdaki ülkelerden hangisinde imzalanmıştır?**

A) İsviçre
B) İtalya
C) İngiltere
D) Fransa
E) Çarlık Rusya

20. I. Trablusgarp Savaşı
II. Mısır'ın işgali
III. Tunus'un işgali

Yukarıdakilerden hangilerinde sömürgecilik anlayışının etkisinden söz edilebilir?

A) Yalnız I
B) Yalnız II
C) I ve III
D) II ve III
E) I, II ve III

MURAT YAYINLARI

/muratyayincilik

Açıklamalar • TEST 25

1. **D** Mutlak monarşik anlayışıyla kurulan Osmanlı Devleti, 1876'da II. Abdülhamid Dönemi'nde monarşik düzene son vererek Meşrutiyet rejimine geçmiştir.

2. **E** Dr. Abdullah Cevdet, İbrahim Temo ve İshak Sükuti İttihat ve Terakki Cemiyeti'nin (1889) kurucularındandır.

3. **E** Devletin dini maddesi, ilk anayasa olan 1876 Kanunuesasi'den 1924 Anayasası'nda yapılan 1937 değişikliğine kadar "Devletin dini İslam'dır" şeklinde olmuştur.

4. **A** 31 Mart Vakası'nı bastıran Hareket Ordusu'nun başkanı Mahmut Şevket Paşa'dır. Mustafa Kemal Paşa bu ordunun kurmay başkanlarındandır.

5. **D** Racconigi Antlaşması (1909) İtalya ile Çarlık Rusya arasında imzalanan belgedir. Bu anlaşma ile Çarlık Rusya, İtalya'nın Trablusgarp'ı işgalini desteklemiştir.

6. **C** Türk tarihinin ilk siyasi partisi, II. Meşrutiyet Dönemi'nde 1909 anayasal değişikliklerinden sonra siyasi parti olan İttihat ve Terakki Partisi'dir.

7. **E** II. Meşrutiyet Dönemi 24 Temmuz 1908 tarihinde başlamıştır. Bosna-Hersek'in ilhakı (1908), Sultan Reşat'ın tahta çıkarılması (1909) ve Arnavutluk'un bağımsız olması (1912) II. Meşrutiyet Dönemi'nin gelişmelerindendir.

8. **B** İttihat ve Terakki I. Balkan Savaşı'nda alınan yenilgiden hükümeti sorumlu tutmuş, Babıali Baskını ile yönetime el koymuş, Kamil Paşa Hükümeti'ni yıkarak yerine Mahmut Şevket Paşa Hükümeti'ni kurdurmuştur.

9. **B** II. Abdülhamit Dönemi'nde çok sayıda Kız Rüştiyelerinin yanı sıra Baytar Mektebi, Orman ve Maden Mektebi, Telgraf, Dişçi, Kadastro, Ticaret, Hukuk, Dilsiz ve Sağırlar Mektebi gibi birçok okul açılmıştır. Bu nedenle "Maarifperver" ifadesi ile övülmüştür.

10. **D** Falih Rıfkı Atay'ın 1905 ile 1914 yılları arasında kalan dönemi anlattığı anı ve deneme türündeki eseri "Batış Yılları"dır. Kitapta Falih Rıfkı Atay'ın yaşanmış anıları üzerinden II. Abdülhamit, İttihat ve Terakki, İkinci Meşrutiyet, 31 Mart Vakası, Balkan Savaşı dönem ve olaylarına yönelik incelemeler yer almaktadır.

MURAT YAYINLARI

11. **B** 1913'te gerçekleşen Babıali Baskını ile Kamil Paşa hükümeti yerine Mahmut Şevket Paşa hükümeti kurulmuştur.

12. **C** Uşi Antlaşması'yla Rodos ve On İki Ada geçici olarak İtalya'ya bırakılmıştır. Fakat On İki Ada Osmanlı'ya iade edilmemiş, II. Dünya Savaşı sonuna kadar İtalya'da kalmıştır. 1947 Paris Antlaşması ile İtalya Rodos ve On İki Ada'yı Yunanistan'a bırakmıştır.

13. **A** Trablusgarp'ta kullanılmak istenen halifelik gücü Küçük Kaynarca Antlaşması'nda da Kırım Türklerinin korunması adına kullanılmıştır.

14. **E** Rusya Osmanlı'nın Balkan topraklarını paylaştırarak milliyetçilik akımını çıkarları doğrultusunda kullanmış ve Balkan uluslarını Osmanlı'ya karşı desteklemiştir.

15. **B** Sırbistan ve Karadağ 1878 Berlin Antlaşması'yla (XIX. yüzyıl) bağımsız olmuştur. Bulgaristan ise 1908'de II. Meşrutiyet'in ilanı esnasında bağımsız olmuştur.

16. **E** Karadağ'ın bağımsız olması, 1878 Berlin Antlaşmasıyla olmuştur. Balkan Savaşları ile sebep sonuç ilişkisi yoktur. Ancak Balkan Savaşlarının çıkmasında Rusya'nın Panslavist akımının etkisi, Osmanlı'nın Trablusgarp'ta güçsüzlüğünün anlaşılması etkili olmuştur. Savaşların sonunda Ege Adaları kaybedilmiş ve Batı Trakya Türk azınlık hakları sorunu ortaya çıkmıştır.

17. **A** I. Balkan Savaşı'na katılmayıp II. Balkan Savaşı'nda Bulgaristan'a savaş ilan eden devlet Romanya'dır.

18. **B** İtalyanların 1911'de Trablusgarp'a saldırması üzerine Osmanlı Subayları ve Senusi Şeyhi, Ahmed eş-Şerif es Senusi önderliğinde başlayan direniş hareketine katılarak liderlik yapan ve Çöl Aslanı unvanı ile bilinen isim Ömer Muhtar'dır.

19. **A** Trablusgarp Savaşı'nı bitiren anlaşma Uşi Antlaşması'dır. Bu antlaşma İsviçre'de imzalanmıştır.

20. **E** Tunus'un işgalinde (1881), Mısır'ın işgalinde (1882) ve Trablusgarp Savaşı'nda (1911-1912) belirleyici unsur sömürgecilik anlayışıdır.

MURAT YAYINLARI

/muratyayincilik

XX. Yüzyıl Başlarında Osmanlı Devleti (II. Meşrutiyet'in İlanı-Trablusgarp ve Balkan Savaşları) • TEST 26

1. **Aşağıdakilerden hangisi I. Balkan Savaşı'nda yer alan devletlerden biri değildir?**

A) Yunanistan
B) Karadağ
C) Bulgaristan
D) Arnavutluk
E) Sırbistan

2. I. Arap halkından milis güçlerin kurulması
II. Beyrut Limanı'nın bombalanması
III. Çanakkale Boğazı'nın ablukaya alınması

Yukarıdakilerden hangileri Trablusgarp Savaşı'nda İtalya tarafından gerçekleştirilen geliştirilmiştir?

A) Yalnız I
B) Yalnız II
C) Yalnız III
D) II ve III
E) I, II ve III

3. **Balkan Savaşları esnasında yaşanan karışıklıklardan yararlanarak Osmanlı'dan bağımsızlığını ilan eden Balkan milleti aşağıdakilerden hangisidir?**

A) Sırplar
B) Bulgarlar
C) Arnavutlar
D) Macarlar
E) Makedonlar

4. **Osmanlı Devleti'nde görülen;**
I. Kanun-ı Esasi,
II. Sened-i İttifak,
III. Mecelle
gibi oluşumlardan hangilerinin halk iradesini kurumsallaştırdığı söylenebilir?

A) Yalnız I
B) Yalnız II
C) Yalnız III
D) II ve III
E) I, II ve III

5. I. Meşveret
II. Mizan
III. Minber

Yukarıdakilerden hangileri II. Meşrutiyet'in ilanında etkin rol oynayan İttihat ve Terakki Cemiyeti'ne ait yayın organlarındandır?

A) Yalnız I
B) Yalnız III
C) I ve II
D) II ve III
E) I, II ve III

6. İttihat ve Terakki'nin hükümetin işlerine karışması birçok aydını rahatsız etmiş ve İttihat Terakki'ye muhalif olarak bir takım partiler kurulmuştur.

Aşağıdakilerden hangisi bu süreçte kurulan muhalif partilerden biri değildir?

A) Vatan ve Hürriyet
B) Osmanlı Demokrat
C) İttihadı Muhammed
D) Hürriyet ve İtilaf
E) Ahrar

MURAT YAYINLARI

7. **Aşağıdakilerden hangisi Osmanlı'da tek partinin dikta rejiminin kurulmasına neden olan olaydır?**

A) 31 Mart Olayı
B) 1909 anayasa değişikliği
C) İstibdat Dönemi
D) I. Dünya Savaşı
E) Babıali Baskını

8. **II. Meşrutiyet Dönemi'nin ilk muhalefet fırkası aşağıdakilerden hangisidir?**

A) İttihat ve Terakki Fırkası
B) Hürriyet ve İtilaf Fırkası
C) Osmanlı Ahrar Fırkası
D) İttihat-ı Muhammediye Fırkası
E) Osmanlı Hürriyetpervet Avam Fırkası

9. **Aşağıdakilerden hangisinde milliyetçilik düşüncesinin etkili olduğu savunulamaz?**

A) Bulgaristan'ın bağımsızlığını kazanması
B) Balkan Savaş'nın çıkması
C) Çarlık Rusya'nın panslavizm politikası
D) Trablusgarp Savaşı'nın çıkması
E) Girit'in Yunanistan'a bağlanması

10. **Trablusgarp Savaşı'nda;**

I. Çarlık Rusya,
II. İngiltere,
III. Fransa

hangileri İtalyan işgalini destekleyen devletlerdendir?

A) Yalnız I B) Yalnız II C) Yalnız III
D) II ve III E) I, II ve III

11. I. Birinci Balkan Savaşı
II. Trablusgarp Savaşı
III. İkinci Balkan Savaşı

Yukarıdakilerden hangileri V. Mehmet Reşat Dönemi gelişmeleri arasında yer alır?

A) Yalnız I
B) Yalnız II
C) I ve II
D) II ve III
E) I, II ve III

12. I. Balkan Savaşı başladığı için Osmanlı Devleti, Trablusgarp Savaşı sonucunda imzaladığı Uşi Antlaşması'yla, On İki Ada'yı geçici olarak İtalya'ya bırakmıştır.

Osmanlı Devleti, aşağıdaki devletlerden hangisinin, On İki Ada'yı işgal etmesinden çekindiği için böyle bir yola başvurmuştur?

A) Romanya
B) Rusya
C) Yunanistan
D) Sırbistan
E) Bulgaristan

13. **Ömer Seyfettin'in Balkan Savaşları'nı anlattığı hikayelerden oluşan eseri aşağıdakilerden hangisidir?**

A) Beyaz Lale
B) Hüküm Gecesi
C) Akşam Güneşi
D) Yaban
E) Ateşten Gömlek

MURAT YAYINLARI

/muratyayincilik

14. I. İttihat Terakki karşıtlığı
II. Volkan ve Serbesti gazetelerinin yayınları
III. Gazeteci Hasan Fehmi Bey'nin öldürülmesi

Yukarıdakilerden hangileri 31 Mart Olayı'nın çıkmasında etkili olmuştur?

A) Yalnız I
B) Yalnız II
C) I ve II
D) II ve III
E) I, II ve III

15. **Aşağıdakilerden hangisi Avrupalı devletlerin I. Balkan Savaşı'na müdahale etmelerinin temel sebebidir?**

A) Balkanlarda yaşanan göç hareketleri
B) Yunanistan'ın Ege Adaları'na asker çıkarması
C) Balkanlardaki Osmanlı ordusunun büyük kısmının terhis edilmesi
D) Bulgaristan'ın Çatalca'ya kadar ilerlemesi
E) İttihat ve Terakki'nin yönetimi ele geçirmesi

16. **Aşağıdakilerden hangisi Balkan Savaşları ile kaybedilen yerlerden biri değildir?**

A) Selanik
B) Girit
C) Bosna-Hersek
D) Gümülcine
E) Yanya

17. **Aşağıdakilerden hangisi I. Balkan Savaşı'nda Osmanlı'nın aldığı yenilginin sonuçlarından biri değildir?**

A) İttihat ve Terakki'nin yönetimi ele geçirmesi
B) Türkçülük akımının güç kazanması
C) Türk azınlık sorununun ortaya çıkması
D) Balkanlardan Osmanlı ülkesine göçlerin artması
E) Sınırın Meriç Nehri olarak belirlenmesi

18. **Slav birliğinin parçalanmasıyla başlayan II. Balkan Savaşı'nı bitiren antlaşma aşağıdakilerden hangisidir?**

A) Bükreş
B) Edirne
C) Londra
D) İstanbul
E) Paris

19. I. Trablusgarp
II. I. Balkan
III. I. Dünya

Yukarıda verilen savaşlardan hangilerinde Osmanlı Devleti'nin sınırları daralmıştır?

A) Yalnız I
B) Yalnız II
C) I ve II
D) I ve III
E) I, II ve III

20. **Aşağıdakilerden hangisi Balkan Savaşları sonucunda Osmanlı Devleti'nin kaybettiği topraklar arasında gösterilemez?**

A) Makedonya
B) Rodos
C) Girit
D) Ege Adaları
E) Batı Trakya

MURAT YAYINLARI

Açıklamalar • TEST 26

1. D Arnavutluk 1912 yılında bağımsızlığını kazanmıştır. Balkan Savaşları'nda yer alan devletler arasında yer almaz.

2. D Trablusgarp Savaşı'nda Arap halkından milis güçlerin kurulması Mustafa Kemal tarafından gerçekleştirilmiştir. İtalya ise savaşta Osmanlı'yı antlaşmaya zorlamak için Beyrut Limanı'nın bombalanmış, On İki Ada'yı işgal edip Çanakkale Boğazı'nın ablukaya altına almıştır.

3. C Osmanlı'dan ayrılan son Balkan milleti Arnavutlardır.

4. A Halk iradesini kurumsallaştıran, halka seçme ve seçilme haklarını tanıyan düzenleme Kanunuesasi'dir.

5. C Meşveret ve Mizan gazeteleri, İttihat ve Terakki'ye yakınlığı ile bilinen gazetelerdir. Minber gazetesi ise Mustafa Kemal'in Ali Fethi Bey ile birlikte İstanbul'da 1918-1919 tarihlerinde birkaç sayı çıkarabildiği gazetedir.

6. A Vatan ve Hürriyet Cemiyeti, Mustafa Kemal'in Şam görevi esnasında kurduğu cemiyettir. İttihat ve Terakki fırkasına muhalif olmadığı gibi bu fırkasının bünyesine katılacaktır.

7. E I. Balkan Savaşı'nın kaybedilmesi üzerine İttihat ve Terakki'nin dikta rejiminin kurulmasına yol açan askeri darbe girişimi Babıali Baskını'dır.

8. C İttihat ve Terakki Fırkası, II. Meşrutiyet Dönemi'nin ilk fırkasıdır. Bu dönemin ilk muhalif fırkası ise Prens Sebahattin'in kurucusu olduğu Osmanlı Ahrar Fırkası'dır.

9. D Trablusgarp Savaşı, İtalya açısından sömürgecilik düşüncesinin, Osmanlı açısından ise ümmetçilik anlayışının kullanılması olarak görülebilir. Milliyetçilik fikri Trablusgarp Savaşı'nda etkili olmamıştır.

10. E Trablusgarp Savaşı'nda İngiltere, Fransa ve Çarlık Rusya İtalyan işgalini destekleyen devletlerdendir.

11. E V. Mehmet Reşat 1908-1918 yılları arasında tahtta kalmıştır. Trablusgarp Savaşı ve Balkan Savaşları V. Mehmet Reşat Dönemi'ne aittir.

12. C Osmanlı'nın Ege Adaları'nda ve Rodos On İki Adası'nda istekleri bulunan devlet, I. Balkan Savaşı'nda Osmanlı'nın savaşacağı Yunanistan'dır. Bu yüzden On İki Ada, Yunanistan'a karşı korumak için geçici olarak İtalya'ya bırakılmıştır.

13. A Reşat Nuri Güntekin'e ait Akşam Güneşi, Yakup Kadri Karaosmanoğlu'na ait Hüküm Gecesi ve Ömer Seyfettin'e ait Beyaz Lale adlı eserleri; Balkan Savaşları'nı konu edinmiştir. Yakup Kadri'nin Yaban ve Halide Edip'in Ateşten Gömlek adlı eserleri ise Kurtuluş Savaşı'nı konu edinmiştir.

14. E İttihat ve Terakki karşıtlığının Volkan ve Serbesti gazetelerinin yayınları ile desteklenmesi ve Gazeteci Hasan Fehmi Bey'nin öldürülmesi 31 Mart Olayı'nın çıkmasında etkili olmuştur.

15. D Bulgar Ordusu'nun Çatalca'ya kadar ilerlemesi ve Osmanlı başkentine doğru yaklaşması üzerine özellikle de Osmanlı ile ilgili planları olan İngiltere araya girmiştir.

16. C Bosna-Hersek Balkan Savaşları'ndan önce 1908 yılında Avusturya-Macaristan İmparatorluğu tarafından işgal edilmiştir. Diğer seçeneklerde verilenler Balkan Savaşları sonucunda kaybedilen yerlerdir.

17. E Osmanlı'nın batı sınırının Meriç Nehri olması, I. Balkan Savaşı'nda değil, II. Balkan Savaşı sonucundadır.

18. A Balkan devletleri kendi aralarındaki II. Balkan Savaşı'na Bükreş Antlaşması'yla son vermişlerdir.

19. E Trablusgarp Savaşı ile Kuzey Afrika'daki son toprak parçası kaybedilmiş, I. Balkan Savaşı ile Osmanlı Balkan sınırı Midye-Enez hattına çekilmiştir. I. Dünya Savaşı ile Osmanlı sınırları daha da küçülmüştür.

20. B Rodos ve On İki Ada, Trablusgarp Savaşı'nın sonra imzalanan Uşi Antlaşması'nda kaybedilmiştir.

MURAT YAYINLARI

XX. Yüzyıl Başlarında Osmanlı Devleti (II. Meşrutiyet'in İlanı-Trablusgarp ve Balkan Savaşları) • TEST 27

1. II. Meşrutiyet Dönemi'nin ilk Osmanlı sadrazamı aşağıdakilerden hangisidir?

A) Mithat Paşa
B) Ziya Paşa
C) Mustafa Reşit Paşa
D) Mehmet Sait Paşa
E) Cemal Paşa

2. I. Lüleburgaz Cephesi
II. Tobruk Cephesi
III. Kumanova Cephesi

Yukarıdakilerden hangileri Balkan Savaşları'ndaki cepheler arasında yer alır?

A) Yalnız I B) Yalnız II C) Yalnız III
D) I ve III E) I, II ve III

3. Aşağıdakilerden hangisi sonucunda Osmanlı Devleti'nin sınırı "Midye-Enez Hattı" olarak belirlenmiştir?

A) Trablusgarp Savaşı
B) İkinci Balkan Savaşı
C) Berlin Antlaşması
D) Birinci Balkan Savaşı
E) Bükreş Antlaşması

4. Balkan Savaşları'ndaki başarısından dolayı "Hamidiye Kahramanı" lakabını alan aşağıdakilerden hangisidir?

A) Rauf Paşa
B) Enver Paşa
C) İsmet Paşa
D) Ali Fuat Paşa
E) Fevzi Paşa

5. Resneli Niyazi Bey'in Makedonya'da başlattığı isyan aşağıdakilerden hangisine neden olmuştur?

A) İttihat ve Terakki Fırkası'nın kurulmasına
B) I. Meşrutiyet'in son bulmasına
C) 93 Harbi'nin çıkmasına
D) II. Meşrutiyet'in ilanına
E) Dömeke Savaşı'nın çıkmasına

6. 31 Mart Vakası'nın bastırılmasını sağlayan ordu aşağıdakilerden hangisidir?

A) 15. Kolordu
B) Avcı Taburları
C) Hareket Ordusu
D) Hamidiye Alayları
E) Hafiye Birlikleri

7. Trablusgarp Savaşı'nda Bingazi Cephesi'nde mücadele eden Osmanlı subayı aşağıdakilerden hangisidir?

A) Mustafa Kemal Paşa
B) Enver Paşa
C) Mehmet Ali Paşa
D) Kazım Karabekir Paşa
E) Talat Paşa

MURAT YAYINLARI

8. **1913 yılında Ege ve Akdeniz'de aşağıdaki devletlerden hangisinin donanmasını bölmek için Hamidiye Kruvazörü saldırılarda bulunmuştur?**

A) İtalya
B) Fransa
C) Yunanistan
D) İngiltere
E) Çarlık Rusya

9. **Osmanlı Devleti;**

I. Dimetoka,
II. Kavala,
III. Kırklareli

hangilerini II. Balkan Savaşı'nda geri almıştır?

A) Yalnız I
B) Yalnız II
C) Yalnız III
D) I ve III
E) I, II ve III

10. **İlk uçak dünya tarihinde aşağıdaki savaşlardan hangisinde kullanılmıştır?**

A) I. Balkan Savaşı
B) Dömeke Savaşı
C) II. Balkan Savaşı
D) 1877-1878 Osmanlı-Rus Savaşı
E) Trablusgarp Savaşı

11. **Birinci Balkan Savaşı aşağıdakilerden hangisi ile son bulmuştur?**

A) Çırağan Baskını
B) Uşi Antlaşması
C) Londra Antlaşması
D) Atina Antlaşması
E) 31 Mart Vakası

12. **Aşağıdakilerden hangisi Babiali Baskını sonucunda kapatılmıştır?**

A) Hürriyet ve İtilaf Fırkası
B) İttihat-ı Muhammediye Cemiyeti
C) Osmanlı Ahrar Fırkası
D) Teceddüt Fırkası
E) İttihat-ı Osmaniye Cemiyeti

13. **Doğu Trakya'nın kurtarılmasındaki başarılarından dolayı "Edirne Fatihi" lakabı aşağıdakilerden hangisi için kullanılmıştır?**

A) Ziya Paşa
B) Talat Paşa
C) Cemal Paşa
D) Enver Paşa
E) Halil Paşa

14. **Trablusgarp Savaşı'na Mustafa Kemal Paşa hangi takma ismi kullanarak katılmıştır?**

A) Gazateci Hamdi Bey
B) Binbaşı Niyazi Bey
C) Kuyumcu Hamdi Bey
D) Gazeteci Şerif Bey
E) Yüzbaşı Servet Bey

MURAT YAYINLARI

/muratyayincilik

15. **Balkan Savaşı sonucunda imzalanan;**

I. Bükreş,

II. İstanbul,

III. Atina

antlaşmalarından hangilerinin Türk azınlık haklarını korumaya yönelik olduğu söylenebilir?

A) Yalnız I
B) Yalnız II
C) Yalnız III
D) II ve III
E) I, II ve III

16. **Balkan Savaşları'nda Selanik'i teslim eden komutan aşağıdakilerden hangisidir?**

A) Hasan Tahsin Paşa
B) Cemal Paşa
C) Ali Fuat Paşa
D) Talat Paşa
E) Enver Paşa

17. **Birinci Balkan Savaşı'nı başlatan devlet aşağıdakilerden hangisidir?**

A) Yunanistan
B) Karadağ
C) Sırbistan
D) Bulgaristan
E) Romanya

18. **Osmanlı Devleti'nin Balkan sınırının Meriç Nehri olarak çizilmesi aşağıdakilerden hangisi ile olmuştur?**

A) Londra Antlaşması (1913)
B) Uşi Antlaşması (1912)
C) Bükreş Antlaşması (1913)
D) Atina Antlaşması (1913)
E) İstanbul Antlaşması (1913)

19. **Osmanlı Mebusan Meclisi üyelerinin seçilmesinde Osmanlı milletinden;**

I. Azınlıklar,

II. Müslümanlar,

III. Gayrimüslimler

hangilerine oy kullanma hakkı tanınmıştır?

A) Yalnız I
B) Yalnız II
C) Yalnız III
D) I ve III
E) I, II ve III

20. **Aşağıdakilerden hangisini Osmanlı Devleti Uşi Antlaşması ile kaybetmiştir?**

A) Libya
B) Ege Adaları
C) Kıbrıs
D) Mısır
E) Mora

MURAT YAYINLARI

Açıklamalar • TEST 27

1. **D** Mehmet Sait Paşa, II. Meşrutiyet Dönemi'nin (1908) ilk Osmanlı sadrazamıdır.

2. **D** Lüleleburgaz Cephesi ve Kumanova Cephesi Balkan Savaşları'ndaki cepheler arasında yer alır.
Tobruk Cephesi, Trablusgarp Savaşı ile ilgilidir.

3. **D** Osmanlı Devleti'nin sınırı Birinci Balkan Savaşı sonucunda "Midye-Enez Hattı" olarak belirlenmiştir.

4. **A** Balkan Savaşları'ndaki başarısından dolayı "Hamidiye Kahramanı" lakabını alan Rauf Paşa'dır.

5. **D** 1908 yılında Makedonya bölgesinde Resneli Niyazi Bey'in Makedonya'da başlattığı isyan II. Meşrutiyet'in ilanına neden olan gelişmelerden biridir.

6. **C** 13 Nisan 1909 tarihinde II. Meşrutiyet'e karşı çıkan 31 Mart Vakası'nı Selanik merkezli Hareket Ordusu bastırmıştır.

7. **B** Trablusgarp Savaşı'nda Bingazi Cephesi'nde mücadele eden Osmanlı subayı Enver Paşa'dır.

8. **C** 1913 yılında Ege ve Akdeniz'de Yunan donanmasını bölmek için Hamidiye Kruvazörü saldırılarda bulunmuştur.

9. **D** Osmanlı Devleti; Dimetoka, Kırklareli ve Edirne'yi II. Balkan Savaşı'nda geri almıştır.

10. **E** Dünya tarihinde ilk uçak İtalya tarafından Trablusgarp Savaşı'nda kullanılmıştır.

11. **C** Birinci Balkan Savaşı (1912-1913) 30 Mayıs 1913 tarihinde imzalanan Londra Antlaşması ile son bulmuştur.

12. **A** 23 Ocak 1913 tarihinde Babıali Baskını'nı yapan İttihat ve Terakki Fırkası, kendisinin rakibi Hürriyet ve İtilaf Fırkası'nı kapattırmıştır.

13. **D** Enver Paşa, Doğu Trakya'nın kurtarılmasındaki başarılarından dolayı "Edirne Fatihi" lakabı verilmiştir.

14. **D** Trablusgarp Savaşı'nda Mustafa Kemal Paşa "Gazeteci Şerif Bey" takma ismi kullanmıştır.

15. **D** Balkan Savaşı sonucunda imzalanan İstanbul Antlaşması (1913), Atina Antlaşması (1913) ve İstanbul Antlaşması (1914) Türk azınlık haklarını korumaya yönelik belgelerdir.
İstanbul Antlaşması (1913), Osmanlı ile Bulgaristan arasındadır.
Atina Antlaşması (1913), Osmanlı ile Yunanistan arasındadır.
İstanbul Antlaşması (1914), Osmanlı ile Sırbistan arasındadır.

16. **A** Balkan Savaşları'nda Selanik şehrini teslim eden Hasan Tahsin Paşa'dır.

17. **B** 1912 yılında Karadağ'ın Osmanlı Devleti'ne savaş açması sonucunda Birinci Balkan Savaşı çıkmıştır.

18. **E** Balkan Savaşları'ndan sonra Osmanlı Devleti ile Bulgaristan arasında imzalanan İstanbul Antlaşması (1913) ile iki ülke arasında Meriç Nehri sınır olmuştur.

19. **E** Seçme ve seçilme hakkı tüm Osmanlı vatandaşlarına tanınan haklardandır.
Dolayısıyla Mebusan Meclisi üyelerini belirleyen Osmanlı tebaasıdır. Hem gayrimüslim (azınlık) hem de müslüman halk oy kullanma hakkına sahip olmuştur.
Mebusan Meclisi üyeleri arasında gayrimüslim (azınlık) ve müslüman tebaa yer almıştır.

20. **A** Osmanlı Devleti Uşi Antlaşması ile Trablusgarp ve Bingazi'yi yani Libya'yı kaybetmiştir.

MURAT YAYINLARI

/muratyayincilik

I. Dünya Savaşı ve Sonrası, Mondros Mütarekesi ve Direniş • TEST 28

1. **Wilson İlkeleri'nde yer alan** "Galipler mağluplerden savaş tazminatı, toprak almayacak" **maddesi, Mondros'un hangi maddesi ile geçersiz kılınmıştır?**

A) Osmanlı ordusu terhis edilecek.
B) Boğazlar ticarete açık olacak.
C) Vilayet-i Sitte olası karışıklık halinde işgal edilebilecek.
D) Telgraf hatları İtilaf güçlerinin denetimine bırakılacak.
E) Osmanlı devleti müttefikleri ile ilişkilerine son verecek.

2. **I. Dünya Savaşı'nda Osmanlı devlet adamları, Hazar Denizi'ni geçerek Orta Asya Türkleri ile temasa geçmek amacıyla açılan Doğu Cephesi'nde aşağıdaki politikalardan hangisi ile hareket etmiştir?**

A) İslamcılık
B) Turancılık
C) Batıcılık
D) Adem-i Merkeziyetçilik
E) Osmanlıcılık

3. **Aşağıdakilerden hangisi Mondros Mütarekesi sonrası ortaya çıkan durumlardan biri değildir?**

A) Anadolu'da milli cemiyetler kurulmuştur.
B) Halk milis kuvvetler kurarak direnişe geçmiştir.
C) İstanbul İtilaf güçleri tarafından işgal edilmiştir.
D) İzmir'in işgal hakkı İtalya'ya verilmiştir.
E) Mustafa Kemal, İstanbul'a dönmüştür.

4. **Mondros sonrası Anadolu'daki işgallere karşı kurulan cemiyetler arasında aşağıdakilerden hangisi yer almaz?**

A) Kilikyalılar
B) Redd-i İlhak
C) Trakya-Paşaeli
D) Kordos
E) Kars İslam Şurası

5. I. Mc Mahon Antlaşması
II. Sykes- Picot Antlaşması
III. Petrograd Protokolü

Yukarıdakilerden hangileri I. Dünya Savaşı'nda halifelik gücünden istenildiği gibi yararlanılamadığının göstergesidir?

A) Yalnız I
B) Yalnız II
C) Yalnız III
D) I ve II
E) II ve III

6. **Aşağıda verilen devletlerden hangisi I. Dünya Savaşı'na katılmamıştır?**

A) Bulgaristan
B) Sırbistan
C) Yunanistan
D) Japonya
E) Litvanya

MURAT YAYINLARI

7. • Bakü petrollerini kontrol altına almak
• Rus ileri harekatını durdurmak

Yukarıda verilenler Osmanlı Devleti'nin I. Dünya Savaşı'nda hangi cepheyi açmasına neden olmuştur?

A) Kanal Cephesi
B) Çanakkale Cephesi
C) Suriye-Filistin Cephesi
D) Kafkasya Cephesi
E) Irak Cephesi

8. **Aşağıda verilen antlaşmalardan hangisi ile İtalya I. Dünya Savaşı'nda saf değiştirmiştir?**

A) Londra
B) Sykes-Picot
C) Mc Mahon
D) Boğazlar
E) St. Jean de Maurianne

9. **Osmanlı Devleti'nin I. Dünya Savaşı'nda;**
I. İngiltere,
II. Japonya,
III. Rusya
gibi devletlerden hangileri ile doğrudan savaştığı söylenemez?

A) Yalnız I B) Yalnız II C) Yalnız III
D) I ve III E) II ve III

10. I. Kut'ül Amare
II. Kireçtepe
III. Bitlis
Yukarıdaki çatışma bölgelerinden hangileri Osmanlı Devleti'nin I. Dünya Savaşı'nda elde ettiği başarılar arasında sayılabilir?

A) Yalnız I B) Yalnız III C) I ve III
D) II ve III E) I, II ve III

11. **Wilson İlkeleri'nin;**
I. Boğazlar bütün devletlere açık olacak,
II. Ulusların gelişmesini engelleyen ekonomik sınırlamalar kaldırılacak,
III. Her ulus kendi yönetimini kendi belirleme hakkına sahip olacak
maddelerinden hangilerinin sömürgeciliğe karşı olduğu savunulabilir?

A) Yalnız I
B) Yalnız II
C) Yalnız III
D) II ve III
E) I, II ve III

12. **Mondros Ateşkes Antlaşması'nı imzalayan Osmanlı hükümeti aşağıdakilerden hangisidir?**

A) Damat Ferit Paşa
B) Talat Paşa
C) Ahmet İzzet Paşa
D) Tevfik Paşa
E) Ali Rıza Paşa

13. **Aşağıda verilen İttifak Devletlerinden hangisi ile imzalanacak barış antlaşmasının koşulları Paris Barış Konferansı'nda belirlenememiştir?**

A) Almanya
B) Avusturya
C) Macaristan
D) Bulgaristan
E) Osmanlı

MURAT YAYINLARI

/muratyayincilik

14. **Mondros Ateşkesi'nin** "ordular terhis edilecek" **maddesine, halk tepkisini;**

I. Kuvayımilliye'yi kurmak,

II. Saltanata bağlılık bildirmek,

III. Bölgesel direniş vermek

gibi gelişmelerden hangileri ile en iyi şekilde açığa vurmuştur?

A) Yalnız I
B) Yalnız II
C) I ve III
D) II ve III
E) I, II ve III

15. **Aşağıda verilen cemiyetlerden hangisinin kuruluş amacı diğerlerine göre farklıdır?**

A) Alyans İsrailit Cemiyeti
B) Mavri Mira Cemiyeti
C) Pontus Rum Cemiyeti
D) Taşnak Sütyun-Hınçak Cemiyeti
E) İngiliz Muhipleri Cemiyeti

16. I. Milli Kongre

II. Nigahban

III. Vahdet-i Milliye

Yukarıda verilen cemiyetlerden hangileri işgallere karşı verilen mücadeleyi birleştirme amacı taşır?

A) Yalnız I
B) Yalnız II
C) I ve II
D) I ve III
E) I, II ve III

17. I. Halide Edip Adıvar

II. Mehmet Emin Yurdakul

III. Nakiye Hanım

Yukarıda verilen aydınlardan hangileri Mondros sonrası başlayan işgalleri kınayan mitinglerde yer almış ve önemli protesto konuşmaları yapmışlardır?

A) Yalnız I B) Yalnız II C) I ve II
D) II ve III E) I, II ve III

18. I. Ahmet Anzavur

II. Demirci Mehmet Efe

III. Çerkez Ethem

Yukarıdakilerden hangileri İstanbul hükümetinin işgallere karşı sessiz kalması üzerine direnişe geçmiştir?

A) Yalnız I B) Yalnız II C) Yalnız III
D) I ve II E) II ve III

19. **I. Dünya Savaşı devam ederken;**

I. Bulgaristan,

II. Yunanistan,

III. ABD

devletlerinden hangilerinin savaşa girmesi Bağlaşma Devletleri'nin aleyhine olduğu söylenebilir?

A) Yalnız I B) Yalnız II C) Yalnız III
D) I ve II E) II ve III

20. **Aşağıdakilerden hangisi I. Dünya Savaşı sonrasında yenik devletlerle imzalanan antlaşmalardan biri değildir?**

A) Brest Litowsk
B) Versay
C) St. Germain
D) Nöyyi
E) Sevr

MURAT YAYINLARI

Açıklamalar • TEST 28

1. C ABD Başkanı Wilson, yayımladığı ilkelerle toprak işgalinin ve sömürgeciliğin önüne geçmek istese de itilaf devletleri Mondros Mütarekesi'nin 7. ve 24. maddeleri ile bu ilkeyi ihlal etmenin önünü açmışladır. Doğu Anadolu'daki altı ilin işgaline de 24. madde neden olmuştur.

2. B I. Dünya Savaşı döneminde Osmanlı Devleti'nin yönetiminde etkili olan İttihat Terakki, Orta Asya Türkleri ile siyasi birlik kurma amacıyla Turancılık politikası ile hareket etmiştir.

3. D İzmir'in işgal hakkı dünya savaşı esnasında itilafların kendi aralarında yaptıkları gizli antlaşmalardan biri olan St. Jean De Maurinne ile İtalya'ya bırakılmıştır.

4. D Kilikyalılar, Redi İlhak, Trakya Paşaeli ve Kars, İslam Şurası gibi cemiyetler işgallere karşı kurulan yararlı cemiyetlerdendir. Ancak Kordos Cemiyeti Rumlar tarafından kurulmuştur.

5. A Sykes-Picot İngiltere ile Fransa arasında petrol bölgelerinin paylaşıldığı, Petrograd ise Rusya'ya Doğu Karadeniz ve Doğu Anadolu'nun bırakıldığı antlaşmalardır. Halifelikle ilgileri yoktur. Ancak Mc Mahon ile halifeliğin cihat ilan etmesiyle İngiltere'ye karşı savaşması beklenen Araplar, İngilizlerle anlaşarak Osmanlı'ya karşı savaşmışlardır.

6. E Litvanya, Rus Çarlığı'nın parçalanması sonucu I. Dünya Savaşı'ndan sonra kurulmuştur.

7. D Osmanlı Devleti, Kafkasya Cephesi'ni Bakü petrollerini ele geçirme, Kafkas gerisinde yaşayan Türklerle birleşerek turanı gerçekleştirmek ve Rus ileri harekatını durdurmak için açmıştır.

8. A İtalya, Londra Antlaşması'nı imzalayarak İtilaf blokuna geçmiş ve gizli antlaşmalarla yapılan paylaşıma ortak olmuştur.

9. B Osmanlı Devleti I. Dünya Savaşı'nda İngiltere ile Çanakkale ve Arap cephelerinde, Rusya ile Kafkas, Galiçya, Makedonya ve Romanya cephelerinde mücadele etmiştir. Japonya ile doğrudan savaşmamıştır.

10. E Irak Cephesi'nde Kut'ül Amare'de İngiliz birliği teslim alınmış, Çanakkale'de Kireçtepe'de başarılı olunmuş ve Kafkasya Cephesi'nde Bitlis ve Muş düşman işgalinden kurtarılmıştır.

11. B Wilson ilkelerine göre milletlerin bağımsızlığına aykırı olan kapitülasyon benzeri sınırlandırmaların kaldırılması sömürgeciliğe karşı çıkan maddelerden biridir.

12. C Mondros Ateşkes Antlaşması'nı Ahmet İzzet Paşa hükümetini temsilen Bahriye Nazırı Rauf Orbay başkanlığındaki heyet imzalamıştır.

13. E Paris Barış Konferansı'nda itilaf devletleri arasında fikir ayrılıklarının yaşanması ve Osmanlı Devleti'nin paylaşılamaması nedeniyle Sevr Antlaşması'nın koşulları belirlenememiştir. Sevr Antlaşması'nın koşulları daha sonra toplanacak olan San Remo Konferansı'nda belirlenmiştir.

14. C Orduların terhis edilmesine halk tarafından verilen en iyi tepki Kuvaimilliye'nin kurulması ve bölgesel direnişin verilmesi olmuştur.

15. E İngiliz Muhipleri Cemiyeti, Türkler tarafından kurulan milli varlığa zararlı cemiyetlerdendir. Diğer cemiyetler ise azınlıklar tarafından Osmanlı'dan toprak alabilmek amacıyla kurulmuş cemiyetlerdir.

16. D Milli Kongre ve Vahdeti Milliye diğer cemiyetlerden farklı olarak mücadeleyi birleştirerek ulusal kurtuluşu sağlamayı amaç edinmiştir. Nigahban Cemiyeti ise Saltanat oyunları zararlı cemiyetlerdendir.

17. E Mondros Ateşkesi sonrasında başlayan işgalleri kınayan Fatih ve Sultan Ahmet mitinglerinde; Halide Edip Adıvar, Mehmet Emir Yurdakul, Nakiye Hanım, Selim Sırrı Tarcan ve daha birçok aydın konuşmalar yapmışlardır.

18. E Demirci Mehmet Efe ve Çerkez Ethem, İstanbul hükümetinin Anadolu'daki işgallere tepkisiz kalması üzerine harekete geçen Kuvaimilliyecilerdir. Ahmet Anzavur ise TBMM otoritesine karşı ayaklanarak İstanbul hükümeti adına çalışmıştır.

19. E Yunanistan ve ABD'nin itilaf (anlaşma) devletlerinin yanında savaşa girmesi İttifak (bağlaşma) devletlerinin aleyhine olmuş ve ittifak devletleri bu durumdan olumsuz olarak etkilenmişlerdir. Ancak Çanakkale Savaşı sonrası Bulgaristan'ın ittifak devletlerinin yanında savaşa girmesi itilaf devletlerini olumsuz etkilemiştir.

20. A Brest Litowsk Antlaşması, Sovyet Rusya'nın savaştan çekilirken yaptığı antlaşmadır. I. Dünya Savaşı sonu yenik devletlerle yapılan bir antlaşma değildir.

MURAT YAYINLARI

/muratyayincilik

I. Dünya Savaşı ve Sonrası, Mondros Mütarekesi ve Direniş • TEST 29

1. I. Dünya Savaşı sonrasında imzalanan Versay Antlaşması ile Almanya'nın Fransa'ya bıraktığı bölge aşağıdakilerden hangisidir?

A) Galiçya
B) Südetler
C) Berlin
D) Dalmaçya
E) Alsas-Loren

2. Osmanlı Devleti'nin I. Dünya Savaşı'nda mücadele ettiği aşağıdaki cephelerden hangisi Avusturya-Macaristan'a ait bir bölgedir?

A) Galiçya
B) Makedonya
C) Dobruca
D) Romanya
E) Basra

3. Aşağıda verilen fikir akımı ve I. Dünya Savaşı'nda uygulanamayacağının anlaşıldığı cephe eşleştirmesi hangisinde doğru olarak verilmiştir?

A) Batıcılık – Irak
B) Turancılık – Çanakkale
C) İslamcılık – Kafkasya
D) Turancılık – Kafkasya
E) Türkçülük – Hicaz-Yemen

4. 8. Kolordu Kumandanı olarak Kanal Harekatı'nı gerçekleştiren komutan aşağıdakilerden hangisidir?

A) Enver Paşa
B) Mustafa Kemal Paşa
C) Kazım Karabekir Paşa
D) Cemal Paşa
E) Cevat Paşa

5. I. Dünya Savaşı'nda Osmanlı Devleti'nin savaşı kaybettiği halde toprak kazandığı tek cephe aşağıdakilerden hangisidir?

A) Çanakkale
B) Kanal
C) Kafkasya
D) Suriye-Filistin
E) Hicaz-Yemen

6. Osmanlı Devleti'nin savunma cephelerinden olan Çanakkale Cephesi'ni açmakla İtilaf Devletleri;

I. Boğazları ele geçirip Osmanlı'yı savaş dışı bırakmak,
II. Rusya'daki Bolşevik hareketleri engellemek,
III. İstanbul'u ele geçirmek

hedeflerinden hangilerine ulaşmak istemiştir?

A) Yalnız I
B) Yalnız II
C) Yalnız III
D) I ve II
E) I, II ve III

MURAT YAYINLARI

7. **Mustafa Kemal Paşa arkadaşı Ali Fethi Bey ile Minber gazetesini aşağıdaki şehirlerden hangisinde çıkarmıştır?**

A) İstanbul
B) Selanik
C) Şam
D) Erzurum
E) Sivas

8. **Aşağıdaki gizli antlaşmalardan hangisi Suriye - Filistin ve Irak cephelerinin açılmasıyla ilgilidir?**

A) Mc Mahon
B) St. Jean de Maurienne
C) Londra
D) İstanbul
E) Sykes Picot

9. **Osmanlı Devleti'nin I. Dünya Savaşı'na girmesi ile İngiltere'nin 5 Kasım 1914'te Osmanlı'ya savaş ilan ederek ilhak ettiği toprak aşağıdakilerden hangisidir?**

A) Musul
B) Kıbrıs
C) Suriye
D) On İki Ada
E) Hicaz

10. **Aşağıdakilerden hangisi ABD'nin Wilson İlkelerini yayımlayarak ulaşmak istediği amaçlardan biri değildir?**

A) Sömürgeci devletlerin güçlenmesini önlemek
B) Dünya siyasetinde güç kazanmak
C) Yeni bir dünya savaşının çıkmasına engel olmak
D) Savaşı kısa sürede bitirmek
E) Çok uluslu imparatorlukların varlığını korumak

11. Mondros Ateşkes Anlaşması'yla, Osmanlı Devleti'nin doğu sınırının savaş öncesi durumuna getirilmesi kararlaştırılmıştır.

Aşağıdaki antlaşmalardan hangisi bu karar doğrultusunda geçersiz sayılmıştır?

A) Sevr
B) Brest Litowsk
C) Versay
D) St. Germain
E) Berlin

12. I. İtilaf Devletleri bütün liman ve tersanelerden yararlanabilecekler,
II. Kömür, akaryakıt ve deniz gereçleri dışarıya satılmayacak,
III. Toros Tünelleri'nin kontrolü İtilaf Devletleri'ne geçecek

Yukarıda verilen Mondros Ateşkes Anlaşması'na ait maddelerden hangileri ekonomik niteliklidir?

A) Yalnız I B) Yalnız II C) Yalnız III
D) I ve II E) I, II ve III

13. Mondros Ateşkesi sonrası İstanbul'daki bazı aydınlar arasında Türkiye'nin sosyal, siyasal ve ekonomik bozukluklar nedeniyle kendi kendine kurtulamayacağı düşüncesi egemendi.

Buna göre;

I. Mandater düşünce savunulmuştur.
II. İşgaller aydınları endişelendirmiştir.
III. Ulusal egemenlik yerleşmiştir.

yargılarından hangilerine ulaşılabilir?

A) Yalnız I B) Yalnız II C) I ve II
D) II ve III E) I, II ve III

MURAT YAYINLARI

/muratyayincilik

14. I. Hatay-Dörtyol
II. Adana
III. Konya

Yukarıdakilerden hangileri Mondros Antlaşması'ndan sonra Fransızlar tarafından işgal edilen yerlerdendir?

A) Yalnız I
B) Yalnız II
C) Yalnız III
D) I ve II
E) I, II ve III

15. **I. Dünya Savaşı'nda ilk ateşkes antlaşması imzalayan İttifak devleti aşağıdakilerden hangisidir?**

A) Osmanlı
B) Almanya
C) Avusturya-Macaristan
D) Bulgaristan
E) İtalya

16. **Aşağıdakilerden hangisi I. Dünya Savaşı'nda Osmanlı Devleti'ne karşı isyan ederek İngiltere'nin desteği ile kendisini Arabistan kralı ilan etmiştir?**

A) Ağa Han
B) Emir Ali
C) Şerif Hüseyin
D) Ömer Muhtar
E) Lawrence

17. 1840 yılından beri İstanbul Boğazı'ndan Rize'ye kadar uzayan Karadeniz sahillerinde yaşayan Rumlar arasında devletleşme çabaları vardı.

Aşağıdaki cemiyetlerden hangisi verilen amacı gerçekleştirmek üzere kurulmuştur?

A) Taşnak - Sütyun
B) Mavri Mira
C) Hınçak
D) Makabi
E) Pontus

18. I. Mandater sistemin uygulanması
II. Milletler Cemiyeti'nin oluşturulması
III. Ermeni Devleti'nin kurulması

Yukarıdaki kararlardan hangileri Paris Barış Konferansı'nda alınmıştır?

A) Yalnız I B) Yalnız II C) Yalnız III
D) I ve II E) I, II ve III

19. **Aşağıdakilerden hangisi İzmir'in işgaliyle ilgili değildir?**

A) Amiral Bristol Raporu
B) General Milne Hattı
C) Paris Barış Konferansı
D) Mondros'un 24. maddesi
E) Reddi İlhak Cemiyeti

20. I. İzmit
II. Musul
III. Urfa

Yukarıdakilerden hangileri Mondros Ateşkesi'nin ardından İngiliz işgaline uğramış illerden biridir?

A) Yalnız I B) Yalnız II C) Yalnız III
D) I ve II E) I, II ve III

MURAT YAYINLARI

Açıklamalar • TEST 29

1. **E** 1870'de Almanya tarafından işgal edilen Alsas-Loren bölgesi, Versay Antlaşması ile Fransa'ya iade edilmiştir.

2. **A** Galiçya, Avusturya-Macaristan İmparatorluğu'na ait bir bölgedir. Osmanlı Devleti'nin sınırları dışında mücadele ettiği cephelerden biridir.

3. **D** I. Dünya Savaşı'nda İslamcılığın Arap cephelerinde (Kanal, Irak, Suriye-Filistin, Hicaz-Yemen) uygulanamayacağı Turancılığın ise Kafkas Cephesi'nde uygulanamayacağı görülmüştür. Osmanlıcılığın ise Balkan savaşlarında uygulanamayacağı görülmüştür.

4. **D** 8. kolordu kumandanı olarak Kanal Harekatı'nı gerçekleştiren Cemal Paşa'dır.

5. **C** Osmanlı Devleti Kafkas Cephesi'nde savaşı kaybetmiş ancak Rusya'nın savaştan çekildiği Brest Litowsk Antlaşması ile Kars, Ardahan ve Batum'u geri almıştır.

6. **E** İtilaf devletleri, Çanakkale Cephesi'ni açmakla İstanbul'u alıp Osmanlı'yı savaş dışı bırakmak ve Karadeniz yoluyla Bolşevik hareketleri nedeniyle karışık durumda olan Rusya'ya yardım götürme amacı taşımaktadırlar.

7. **A** Mondros Antlaşması'ndan sonra Mustafa Kemal Paşa arkadaşı Ali Fethi Bey ile Minber gazetesini İstanbul'da çıkarmıştır.

8. **E** Osmanlı'nın Kanal Cephesi'ndeki yenilgisinin ardından, İngiltere ve Fransa Sykes Picot gizli antlaşmasıyla Suriye ve Irak'ı aralarında bölüşmüşler ve bu amaçla Suriye-Filistin ve Irak cephelerini açmışladır.

9. **B** Osmanlı Devleti'nin Almanya'nın yanında savaşa girmesi ile İngiltere 5 Kasım 1914'te Osmanlı'ya savaş ilan ederek Kıbrıs'ı ilhak etmiştir.

10. **E** Wilson ilkelerinin çok uluslu imparatorlukların varlığını korumak gibi bir amacı yoktur. Aksine "self determination" ilkesiyle her milletin kendi devletini kurmasını ve geleceğini belirlemesi gerektiğini belirtmiştir.

11. **B** Mondros Mütarekesi'nde, Osmanlı'nın doğu sınırının I. Dünya Savaşı öncesine getirilmesi demek, Elviyei Selase'nin 1878 Berlin Antlaşması'na göre topraklarımız dışında kalması anlamına gelmektedir. Bu durumda Elviyei Selase'yi Osmanlı'ya bırakan Brest-Litowsk antlaşması geçersiz sayılmıştır.

12. **D** İtilaf devletlerinin bütün liman ve tersanelerden yararlanabilmeleri; kömür, akaryakıt ve deniz gereçlerinin dışarıya satılmaması ekonomik niteliklidir.

13. **C** İstanbul'daki bazı aydınlar arasında oluşan Türkiye'nin kendi kendine kurtulamayacağı düşüncesiyle manda ve himayeye ihtiyaç olduğu vurgulanmış, işgallerin aydınları endişelendiği görülmüştür.

14. **D** Mondros Antlaşması'dan sonra Hatay-Dörtyol ve Adana, Fransızlar tarafından işgal edilen yerlerdenir. Ancak Konya'yı işgal eden Fransız değil İtalya olmuştur.

15. **D** Selanik Ateşkes Anlaşması ile ittifak blokundan çekilen ilk devlet Bulgaristan'dır.

16. **C** I. Dünya Savaşı'nda Osmanlı Devleti'ne karşı isyan ederek İngiltere desteği ile kendisini Arabistan kralı ilan eden Şerif Hüseyin'dir.

17. **E** Karadeniz kıyı şeridinde, Trabzon Pontus Rum İmparatorluğu'nu diriltmek için çalışan cemiyet Pontus Rum Cemiyeti'dir.

18. **E** Wilson İlkeleri'nde bahsedilen mandater sistem ve Milletler Cemiyeti oluşumunun uygulama alanı bulduğu yer Paris Barış Konferansı'dır. Bu konferans ayrıca Ermeni Devleti'nin kurulmasından bahsedilen yerdir.

19. **D** Mondros Mütarekesi'nin 24. maddesi doğudaki altı vilayetle (Erzurum, Elazığ, Van, Sivas, Diyarbakır, Bitlis) ilgilidir.

20. **E** İzmit, Musul ve Urfa, İngiliz işgaline maruz kalmış illerdir. Ancak İngiltere, Urfa'yı daha sonra Fransızlara bırakmıştır.

MURAT YAYINLARI

/muratyayincilik

I. Dünya Savaşı ve Sonrası, Mondros Mütarekesi ve Direniş • TEST 30

1. Aşağıdakilerden hangisinde Mustafa Kemal I. Dünya Savaşı'ndan önce görev almıştır?

A) Sofya Ateşemiliterliği
B) 19. Tümen Komutanlığı
C) Yıldırım Orduları Grup Komutanlığı
D) İcra Vekilleri Heyeti Başkanlığı
E) 57. Alay Komutanlığı

2. Birinci Dünya Savaşı'nı başlatan devlet aşağıdakilerden hangisidir?

A) İngiltere
B) Almanya
C) İtalya
D) Avusturya-Macaristan
E) Fransa

3. Aşağıdakilerden hangisi Osmanlı Devleti'nin I. Dünya Savaşı'ndaki taarruz cephelerindendir?

A) Galiçya
B) Kafkasya
C) Hicaz
D) Çanakkale
E) Suriye

4. I. Almanya
II. İngiltere
III. İtalya

Yukarıdakilerden hangileri I. Dünya Savaşı'nda Bağlaşma Devletleri'nin kurucularındır?

A) Yalnız I
B) Yalnız II
C) Yalnız III
D) I ve III
E) II ve III

5. Aşağıdakilerden hangisi Osmanlı Devleti'nin I. Dünya Savaşı'nda Araplarla işbirliği yapıp Ümmetçi politika uygulanmak istediği cephelerden biridir?

A) Galiçya
B) Kafkasya
C) Romanya
D) Makedonya
E) Kanal

6. I. Dünya Savaşı'nda "Sevk ve İskan Yasası" aşağıdaki cephelerden hangisinde uygulanmıştır?

A) Irak
B) Kafkasya
C) Çanakkale
D) Galiçya
E) Mısır

7. I. Dünya Savaşı'da Osmanlı Devleti;
I. Suriye,
II. Irak,
III. Çanakkale

cephelerinden hangilerinde İngilizlerin sömürgeci politikalarına karşı mücadele vermiştir?

A) Yalnız I
B) Yalnız II
C) Yalnız III
D) I ve III
E) I, II ve III

MURAT YAYINLARI

8. **I. Dünya Savaşı'da imzalanan gizli antlaşmalarda aşağıdakilerden hangisi yer almaz?**

A) Çarlık Rusya
B) İngiltere
C) İtalya
D) ABD
E) Fransa

9. **Aşağıdakilerden hangisi Hicaz Cephesi'ndeki başarılarından dolayı "Medine Müdafii" lakabını alan Osmanlı komutanıdır?**

A) Talat Paşa
B) Cemal Paşa
C) Fahrettin Paşa
D) Halil Paşa
E) Kazım Karabekir Paşa

10. **Aşağıdakilerden hangisi I. Dünya Savaşı sonucunda imzalanan ateşkes antlaşmalarından biri değildir?**

A) Selanik
B) Rethondes
C) Villa Gusti
D) Nöyyi
E) Mondros

11. **Osmanlı hükümeti adına Mondros Ateşkes Antlaşması'nda aşağıdakilerden hangisi yer almıştır?**

A) Tevfik Bey
B) Damat Ferit Paşa
C) Salih Paşa
D) Rauf Paşa
E) Cemal Paşa

12. **Aşağıdakilerden hangisi Mondros Antlaşması'ndan sonra Pontus Rum Devleti'ni kurmak için hazırlanan rapordur?**

A) Hrisantos Raporu
B) Sandler Raporu
C) Amiral Bristol Raporu
D) General Harbord Raporu
E) Milne Raporu

13. **Aşağıdakilerden hangisi Mondros Ateşkes Antlaşması'da yer alan vilayet-i sitte topraklarından biri değildir?**

A) Erzurum
B) Van
C) Amasya
D) Sivas
E) Bitlis

14. I. İngiliz Muhipleri
II. Wilson Prensipleri
III. Kilikyalılar

Yukarıdaki cemiyetlerden hangilerinin mandacılığı savunduğu söylenebilir?

A) Yalnız I
B) Yalnız II
C) Yalnız III
D) I ve II
E) I, II ve III

MURAT YAYINLARI

/muratyayincilik

15. **Mondros Ateşkes Antlaşması aşağıdaki ülkelerden hangisinde imzalanmıştır?**

A) İngiltere
B) Yunanistan
C) İtalya
D) Fransa
E) Çarlık Rusya

16. **Osmanlı Devleti aşağıdakilerden hangisini Brest-Litovsk Antlaşması ile geri almıştır?**

A) Edirne
B) Kars
C) Kırklareli
D) Erzurum
E) Hatay

17. **Aşağıdakilerden hangisi ile self determinasyon anlayışı kabul edilmiştir?**

A) Brest- Litowsk Antlaşması
B) Petrograd Protokolü
C) Wilson İlkeleri
D) Sykes Picot Antlaşması
E) Boğazlar Antlaşması

18. **I. Dünya Savaşı'na Osmanlı Devleti aşağıdaki devletlerden hangisinin limanlarını bombalayarak girmiştir?**

A) Yunanistan
B) İngiltere
C) Fransa
D) Romanya
E) Çarlık Rusya

19. **Mondros Ateşkes Antlaşması'ndan sonra kurulan;**

I. Şarki Vilayetleri Müdafaa-i Hukuk,
II. Redd-i İlhak,
III. Kilikyalılar

cemiyetlerinden hangileri Ermenilerin faaliyetlerine karşı mücadele etmiştir?

A) Yalnız I
B) Yalnız II
C) Yalnız III
D) I ve III
E) I, II ve III

20. **Mondros Ateşkes Antlaşması'nın;**

I. Mebusan Meclisi'nin kapanmasına,
II. Padişah değişikliğinin yaşanmasına,
III. Anadolu işgallerinin son bulmasına

unsurlarından hangilerine zemin hazırladığı söylenemez?

A) Yalnız I
B) Yalnız II
C) Yalnız III
D) I ve III
E) II ve III

MURAT YAYINLARI

Açıklamalar • TEST 30

1. **A** Mustafa Kemal I. Dünya Savaşı'ndan önce 1913-1914 yıllarında Sofya Ateşemiliterliği görevinde bulunmuştur.

2. **D** Birinci Dünya Savaşı (1914-1918) Avusturya-Macaristan İmparatorluğu'nun Sırbistan'ı işgal etmesiyle başlamıştır.

3. **B** Osmanlı Devleti'nin I. Dünya Savaşı'ndaki taarruz cepheleri, Kafkasya (Doğu) ve Süveyş (Mısır) cepheleridir.

4. **D** I. Dünya Savaşı'nda Bağlaşma (İttifak) Devletleri'nin kurucuları Almanya, Avusturya-Macaristan İmparatorluğu ve İtalya'dır.

5. **E** Kanal Cephesi, Osmanlı Devleti'nin I. Dünya Savaşı'nda Araplarla işbirliği yapıp Ümmetçi politika uygulanmak istediği cephelerden biridir.

6. **B** I. Dünya Savaşı'nda Osmanlı Devleti Kafkasya Cephesi'nde Ermeni isyanına karşı 27 Mayıs 1915 tarihinde Sevk ve İskan Yasası'nı (Tehcir Yasası) çıkarmıştır. Bu yasa sonucunda Ermeni isyancılar Doğu Anadolu'dan alınıp Suriye civarına yerleştirilmiştir.

7. **E** I. Dünya Savaşı'da Osmanlı Devleti öncüllerde verilen Suriye,Irak ve Çanakkale Cepheleri'nde İngilizlerin sömürgeci politikalarına karşı mücadele etmiştir.

8. **D** I. Dünya Savaşı'da Osmanlı Devleti'ni paylaşmaya yönelik imzalanan gizli antlaşmalarda yer alan devletler; Çarlık Rusya, İngiltere, İtalya ve Fransa'dır.
ADB gizli antlaşmalarda yer alan ülkelerden biri değildir.

9. **C** I. Dünya Savaşı'nda Hicaz Cephesi'ndeki başarılarından dolayı "Medine Müdafii" lakabını alan Osmanlı komutanı Fahrettin Paşa'dır. (Ömer Fahrettin Türkkan)

10. **D** Nöyyi Antlaşması, I.Dünya Savaşı'ndan sonra Bulgaristan'ın imzaladığı ateşkes değil barış antlaşmasıdır.
Diğer seçeneklerde verilenlerden her biri ateşkes antlaşmasıdır.

11. **D** 30 Ekim 1918 tarihinde imzalanan Mondros Ateşkes Antlaşması, Ahmet İzzet Paşa hükümeti döneminde imzalanmıştır. Antlaşmada Ahmet İzzet Paşa hükümeti adına yer alan kişi Bahriye Nazırı Rauf Paşa'dır.

12. **A** Hrisantos Raporu, Mondros Ateşkes Antlaşması'ndan sonra Pontus Rum Devleti'ni kurmak için hazırlanan rapordur. Trabzon Metropoliti Hrisantos tarafından hazırlanan bu rapor Paris Barış Konferansı'nda sunulmuştur.

13. **C** 30 Ekim 1918 tarihinde imzalanan Mondros Ateşkes Antlaşması'da yer alan vilayet-i sitte toprakları; Sivas, Elazığ, Van, Bitlis, Erzurum ve Diyarbakır'tır. Mondros Ateşkes Antlaşması'nın 24.maddesine göre vilayet-i sitte topraklarında gizli bir Ermenistan devleti kurulması amaçlanmıştır.

14. **D** İngiliz Muhipleri Cemiyeti ile Wilson Prensipleri Cemiyeti (Amerikan Muhipleri Cemiyeti) Osmanlı Devleti'nin kurtuluşunun dış devletlerin desteğiyle(mandacılık) gerçekleşebileceğini savunan cemiyetler arasında yer almıştır.
Ancak Kilikyalılar Cemiyeti, Milli Mücadele yanlısı yararlı cemiyetlerdendir. Güneydeki Fransız ve Ermenilere karşı kurulmuştur ve mandacılık karşıtıdır.

15. **B** Mondros Ateşkes Antlaşması, 30 Ekim 1918 tarihinde Yunanistan'ın Limni Adası'nda Mondros adlı limanda imzalanmıştır.

16. **B** Sovyet Rusya ile imzalanan Brest-Litowsk Antlaşması'da Osmanlı Devleti Kars, Ardahan ve Batum'u (elviye-yi selase toprakları) geri almıştır.

17. **C** 8 Ocak 1918 tarihinde yayınlanan Wilson İlkeleri (Wilson Prensipleri) ile self determinasyon anlayışı (her ulusun kendi geleceğini kendisinin belirlemesi) kabul edilmiştir.

18. **E** I. Dünya Savaşı'na Osmanlı Devleti Çarlık Rusya'nın limanlarını bombalaması sonucunda girmiştir.

19. **D** Mondros Ateşkes Antlaşması'ndan sonra kurulan Şarki Vilayetleri Müdafaa-i Hukuk
Cemiyeti ve Kilikyalılar Cemiyeti Ermeni isyancılarına karşı faal olan örgütlerdendir.
Redd-i İlhak Cemiyeti ise İzmir'in Yunanlar tarafından işgaline karşı kurulmuştur.

20. **E** Mondros Ateşkes Antlaşması'ndan sonra son padişah Sultan Vahdettin, İtilaf devletlerinin de baskısı sonucunda 21 Aralık 1918'de Mebusan Meclisi'ni kapatmıştır.
Mondros Ateşkes Antlaşması'ndan padişah değişikliği olmadığı gibi Anadolu'un işgali artarak devam etmiştir.

MURAT YAYINLARI

/muratyayincilik

I. Dünya Savaşı ve Sonrası, Mondros Mütarekesi ve Direniş • TEST 31

1. **Mondros Ateşkes Antlaşması'ndan sonra Fener Rum Patrikhanesi tarafından kurulan cemiyet aşağıdakilerden hangisidir?**

A) Pontus Rum
B) Hınçak
C) Taşnak
D) Alyans
E) Mavri Mira

2. **Aşağıdakilerden hangisi I. Dünya Savaşı'nda Osmanlı Devleti tarafından açılan cephelerden biridir?**

A) Makedonya
B) Irak-Basra
C) Süveyş
D) Suriye
E) Çanakkale

3. **I. Dünya Savaşı'nda "Alçıtepe Kahramanı" lakabı aşağıdakilerden hangisine verilmiştir?**

A) Cemal Paşa
B) Cevat Paşa
C) Salih Paşa
D) Kazım Karabekir Paşa
E) Enver Paşa

4. I. Romanyaya'ya asker sevk etmesi
II. Kapitülasyonları tek taraflı kaldırdığını ilan etmesi
III. Boğazları kapattığını duyurması

Yukarıdakilerden hangileri Osmanlı Devleti'nin I. Dünya Savaşı'na girmeden önce aldığı önlemlerdendir?

A) Yalnız I B) Yalnız II C) Yalnız III
D) I ve III E) II ve III

5. **Mondros Ateşkes Antlaşması'ndan sonra ilk işgal aşağıdaki devletlerden hangisi tarafından başlatılmıştır?**

A) Rusya
B) Yunanistan
C) İngiltere
D) İtalya
E) ABD

6. **Aşağıdakilerden hangisi Mondros Ateşkes Antlaşması'ndan sonra Merzifon Amerikan Koleji tarafından kurulan cemiyettir?**

A) Taşnak
B) Pontus Rum
C) Hınçak
D) Göçmenler Komisyonu
E) Yunan Kızılhaç

7. **Mondros Antlaşması'ndan sonra çıkardığı Albayrak ve Hadisat gazeteleri ile işgallere karşı direniş gösteren cemiyet aşağıdakilerden hangisidir?**

A) Şarki Vilayetleri Müdafaa-i Hukuk
B) İzmir Redd-i İlhak
C) Trakya-Paşaeli Müdafaa-i Hukuk
D) Milli Kongre
E) Trabzon Muhafaza-ı Hukuk

MURAT YAYINLARI

8. **Mondros Ateşkes Antlaşması'ndan sonra Anadolu'daki ilk kurşun aşağıdakilerden hangisi tarafından atılmıştır?**

A) Hasan Tahsin
B) Mehmet Çavuş
C) Yahya Kaptan
D) Seyit Onbaşı
E) Sütçü İmam

9. **I. Dünya Savaşı'nda Osmanlı Devleti ile Almanya arasında kara bağlantısı aşağıdaki devletlerden hangisinin savaşa girmesiyle sağlanmıştır?**

A) Bulgaristan
B) Yunanistan
C) Romanya
D) İtalya
E) Avusturya-Macaristan

10. **Mondros Antlaşması'ndan sonra faaliyet yürüten aşağıdaki cemiyetlerden hangisi İngiliz mandasını benimsemiştir?**

A) Sulh-u Selamet-i Osmaniye Cemiyeti
B) Nigahban Cemiyeti
C) Wilson Prensipleri Cemiyeti
D) Menteşeliler Cemiyeti
E) Hürriyet ve İtilaf Fırkası

11. **I. Dünya Savaşı'nda sonra kurulan devletler arasında aşağıdakilerden hangisi yer almaz?**

A) Karadağ
B) Çekoslovakya
C) Polonya
D) Macaristan
E) Yugoslavya

12. **Irak-Basra Cephesi'nde gösterdiği başarıları nedeniyle "Kut Kahramanı" lakabıyla anılan Osmanlı komutanı aşağıdakilerden hangisidir?**

A) Fahrettin Paşa
B) Kazım Karabekir Paşa
C) Halil Paşa
D) Cemal Paşa
E) Enver Paşa

13. **I. Dünya Savaşı"nda;**

I. Suriye,
II. Kafkasya,
III. Çanakkale

cephelerinden hangilerinde Mustafa Kemal görev almıştır?

A) Yalnız I
B) Yalnız II
C) Yalnız III
D) I ve III
E) I, II ve III

14. **Mondros Ateşkes Antlaşması'ndaki konular arasında aşağıdakilerden hangisi yer almaz?**

A) Boğazlar
B) Savaş esirleri
C) Dış Borçlar
D) Haberleşme ağı
E) Ordu terhisi

MURAT YAYINLARI

/muratyayincilik

15. I. Sömürgecilik
II. Milliyetçilik
III. Silahlanma

Yukarıdakilerden hangilerinin Wilson İlkeleri'nde yasaklandığı söylenebilir?

A) Yalnız I
B) Yalnız II
C) Yalnız III
D) I ve III
E) I, II ve III

16. **Aşağıdakilerden hangisi diğerlerinden daha sonra gerçekleşmiştir?**

A) Mondros Ateşkes Antlaşması'nın imzalanması
B) İstanbul'un resmi olmayan işgali
C) Osmanlı Mebusan Meclisi'nin dağıtılması
D) İzmir'in Yunanlar tarafından işgali
E) Paris Barış Konferansı'nın düzenlenmesi

17. **Mustafa Kemal'in I. Dünya Savaşı'nda aşağıdakilerden hangisi mücadele ettiği söylenemez?**

A) Conkbayırı
B) Arıburnu
C) Derne
D) Anafartalar
E) Halep

18. **I. Dünya Savaşı'nın gizli belgelerinden biri olan Mc Mahon Antlaşması ile aşağıdaki cephelerden hangisinde İslamcılık politikası güç kaybetmiştir?**

A) Kafkasya
B) Hicaz-Yemen
C) Makedonya
D) Dobruca
E) Çanakkale

19. **Aşağıdakilerden hangisi Arz-ı Mevut için mücadele eden cemiyetler arasında yer almıştır?**

A) Makabi-Alyans
B) Hınçak
C) Etnik-i Eterya
D) Taşnak
E) Pontus Rum

20. **Çanakkale Cephesi ile ilgili aşağıdakilerden hangisi yanlış verilmiştir?**

A) 18 Mart Kahramanı Cevat Paşa'dır.
B) Anafartalar Kahramanı Mustafa Kemal Paşa'dır.
C) Deniz savaşları Seddülbahir Savaşı ile başlamıştır.
D) Conkbayırı Savaşı'na Süngü Savaşı adı verilmiştir.
E) Cephenin komutanlığını Enver Paşa üstlenmiştir.

MURAT YAYINLARI

Açıklamalar • TEST 31

1. **E** Mavri Mira Cemiyeti,Mondros Ateşkes Antlaşması'ndan sonra Fener Rum Patrikhanesi tarafından kurulan örgüttür.

2. **C** I. Dünya Savaşı'nda Kafkasya Cephesi ile Kanal (Süveyş) Cephesi, Osmanlı Devleti tarafından açılan cephelerdir.

3. **D** Çanakkale Cephesi'nde Alçıtepe'deki başarılarından dolayı "Alçıtepe Kahramanı" lakabı Kazım Karabekir Paşa'ya verilmiştir.

4. **E** Osmanlı Devleti, I.Dünya Savaşı'na girmeden önce kapitülasyonları tek taraflı kaldırdığını ilan etmişve Boğazları kapattığını duyurmuştur.
Romanya'ya asker göndermesi I. Dünya Savaşı'na girdikten sonra yaptığı faaliyetlerdendir.

5. **C** Mondros Ateşkes Antlaşması'ndan sonra İngiltere, 3 Kasım 1918 tarihinde Musul şehrini işgal etmiştir. Dolayısıyla ilk işgal İngiltere tarafından başlatılmıştır.

6. **B** Mondros Ateşkes Antlaşması'ndan sonra Merzifon Amerikan Koleji tarafından kurulan cemiyet Pontus Rum Cemiyeti'dir.

7. **A** Mondros Antlaşması'ndan sonra çıkardığı Albayrak ve Hadisat gazeteleri ile işgallere karşı direniş gösteren cemiyet Şarki Vilayetleri Müdafaa-i Hukuk Cemiyeti'dir.

8. **B** 11 Aralık 1918'de Fransızların Hatay-Dörtyol'u işgali sonucunda Anadolu'da ilk kurşun Mehmet Çavuş tarafından atılmıştır.

9. **A** Bulgaristan'ın. I. Dünya Savaşı'na girmesi sonucunda Osmanlı Devleti ile Almanya arasında kara bağlantısının sağlanmıştır.

10. **E** Hürriyet ve İtilaf Fırkası ile İngiliz Muhipleri Cemiyeti İngiliz mandasını savunan cemiyetlerdir.

11. **A** Karadağ, I. Dünya Savaşı'nda sonra kurulan devletler arasında yer almaz. Karadağ'ın bağımsızlığını kazanması 1878 Berlin Antlaşması sonucunda kurulmuştur.
Saint Germain Antlaşması (1918) ile Avusturya-Macaristan İmparatorluğu'nun parçalanması sonucunda Avusturya,Macaristan,Çekoslovakya ve Yugoslavya devletleri ortaya çıkmıştır.
Polonya,Versay Antlaşması (1919) ile kurulmuştur.

12. **C** Osmanlı Devleti I. Dünya Savaşı'nda Irak-Basra Cephesi'nde İngiltere'ye karşı mücadele vermiştir. Irak-Basra Cephesi'nde 29 Nisan 1916 tarihinde Halil Paşa komutasındaki Osmanlı ordusu, İngiltere'ye karşı "Kut Zaferi"ni elde etmiştir. Halil Paşa'ya bu cephede göstermiş olduğu başarılardan dolayı "Kut Kahramanı" lakabıyla anılmıştır.

13. **E** Mustafa Kemal, I. Dünya Savaşı'nda sırasıyla; Çanakkale,Kafkasya ve Suriye Cepheleri'nde mücadele etmiştir.

14. **C** Mondros Ateşkes Antlaşması'nda dış borçlar ilgili herhangi bir hüküm veya karar bulunmamaktadır. Diğer seçeneklerde verilenler Mondros Ateşkes Antlaşması'nda yer alan konulardandır.

15. **D** Wilson İlkeleri'nde sömürgecilik ve silahlanma yasaklanmasına rağmen milliyetçilik savunulmuştur.
Wilson İlkeleri'nde her ulusun kendi geleceğini belirleme hakkı (self determinasyon) kabul edilmiş olması milliyetçiliğin savunulduğu gösterir.

16. **D** Mondros Ateşkes Antlaşması'nın imzalanması 30 Ekim 1918, İstanbul'un resmi olmayan işgali 13 Kasım 1918, Osmanlı Mebusan Meclisi'nin dağıtılması 21 Aralık 1918, Paris Barış Konferansı'nın düzenlenmesi 18 Ocak 1919, İzmir'in Yunanlar tarafından işgali 15 Mayıs 1919 tarihinde gerçekleşmiştir.

17. **C** Mustafa Kemal, I. Dünya Savaşı'nda Çanakkale Cephesi'nde; Conbayırı,Arıburnu ve Anafartalar'da (Anafartalar Kahramanı) mücadele etmiştir. Kafkasya Cephesi'nde Muş ve Bitlis'in kurtarılması sağlayan Mustafa Kemal bu cepheden sonra Suriye Cephesi'nde görev almış ve Halep şehrinde de mücadele etmiştir.
Ancak Mustafa Kemal Derne'deki mücadelesini I. Dünya Savaşı'nda değil Trablusgarp Savaşı'nda (1911-1912) vermiştir.

18. **B** Osmanlı Devleti'nin Hicaz-Yemen yöneticisi Şerif Hüseyin'e Mc Mahon Antlaşması ile İngilizler Büyük Arabistan Devleti sözü verip Arap milliyetçiliğini yaymışlardır. Bu durum İslamcılık (Ümmetçilik) politikasının güç kaybetmesine neden olmuştur.

19. **A** Arz-ı Mevut vaadedilen topraklar anlamına gelip Yahudilerin Kudüs merkezli İsrail devletini kurma amaçlarıyla ilgilidir. Makabi- Alyans bu amaca hizmet eden cemiyettir.

20. **E** Çanakkale Cephesi'nin Osmanlı komutanı Enver Paşa değil Alman General Otto Liman Von Sanders'tir. (Liman Paşa)
Diğer seçeneklerdekiler doğru verilmiştir.

MURAT YAYINLARI

/muratyayincilik

Milli Mücadele Hazırlık Dönemi • TEST 32

1. **Mustafa Kemal'in Amasya Genelgesi'nde** "Millet adına söz söyleme yetkisine sahip bir kurul toplanmalıdır." **sözü doğrultusunda ilk gerçekleştirilen aşağıdakilerden hangisidir?**

A) TBMM'nin açılması
B) Sivas Kongresi'nin toplanması
C) Temsil Heyeti'nin kurulması
D) Felah-ı Vatan Grubu kurulması
E) Anadolu ve Rumeli Müdaafa-i Hukuk Cemiyeti'nin kurulması

2. **Osmanlı Mebusan Meclisi'nde 28 Ocak 1920'de kabul edilen kararlara göre** "Ülkenin gelişmesine engel olan her türlü, mali, siyasi, adli kısıtlamalar kaldırılacaktır" **maddesi ile aşağıdakilerden hangisinin reddedildiği ifade edilmiştir?**

A) Monarşik sistemin
B) Halifeliğin
C) Kanunuesasi'nin
D) Sevr Barış Antlaşması'nın
E) Kapitalasyonların

3. **Amasya Genelgesi'nde** "Milletin bağımsızlığını yine milletin azim ve kararı kurtaracaktır." **maddesi ile,**

I. ulusal iradeyi hakim kılma,
II. ulusal bağımsızlığı sağlama,
III. manda fikrini savunma

gibi görüşlerden hangilerinin aynı doğrultuda olduğu söylenebilir?

A) Yalnız I
B) Yalnız II
C) I ve II
D) II ve III
E) I, II ve III

4. **İstanbul Hükümeti'nin işgaller karşısında görev ve sorumluluklarını yerine getiremediği aşağıda verilenlerden hangisiyle ilk defa duyurulmuştur?**

A) Erzurum Kongresi
B) Sivas Kongresi
C) Balıkesir Kongresi
D) Amasya Genelgesi
E) Havza Genelgesi

5. I. İrade-i Milliye Gazetesi'nin çıkarılması
II. Manda ve himayenin reddedilmesi
III. Mebusan Meclisi'nin toplanması

Yukarıda verilenlerden hangileri Erzurum ve Sivas kongrelerinin ortak kararları arasında yer almaz?

A) Yalnız I B) Yalnız II C) Yalnız III
D) I ve II E) II ve III

6. I. Elazığ Valisi Ali Galip
II. Ankara Valisi Muhittin Paşa
III. Sivas Valisi Mehmet Reşit Paşa

Yukarıda verilen isimlerden hangileri Sivas Kongresi'ni engellemek üzere görevlendirilmiştir?

A) Yalnız II B) Yalnız III C) I ve II
D) II ve III E) I, II ve III

7. I. Nazilli
II. Erzurum
III. Sivas
IV. Alaşehir

Yukarıdaki kongrelerden hangilerinde cumhuriyet rejimi ile ilgili kararların alındığı söylenebilir?

A) I ve III B) II ve III C) II ve IV
D) III ve IV E) II, III ve IV

MURAT YAYINLARI

8. **Aşağıdaki gelişmelerden hangisi Milli Mücadelede Örgütlenme Dönemi içerisinde yer almaz?**

A) Erzurum Kongresi'nin toplanması
B) İrade-i Milliye gazetesinin çıkarılması
C) Doğu Anadolu'daki bölgesel örgütlerin birleştirilmesi
D) Tekalifimilliye Emirleri'nin yayınlanması
E) Meclis-i Mebusan'ın açılmasının İstanbul Hükümeti'ne kabul ettirilmesi

9. **Temsil Heyeti'nin hukuki varlığının tanınmasında;**

I. Londra Konferansı'nın yapılması,
II. Bilecik Görüşmeleri'nin gerçekleşmesi,
III. Amasya Görüşmeleri'nin yapılması

durumlarından hangilerinin etkili olduğu savunulabilir?

A) Yalnız I
B) Yalnız II
C) Yalnız III
D) II ve III
E) I, II ve III

10. Mustafa Kemal, Mondros Mütarekesi sonrası başlayan işgaller karşısında yapılması gerekenin topyekün milletçe işgallere karşı mücadele edilmesi ve teslimiyetçi bir tavır sergilenmemesi olduğunu belirtmiştir.

Buna rağmen;

I. Nasihat heyetlerinin kurulması,
II. Sevr Barış Antlaşması'nın imzalanması,
III. Amasya Protokollerinin imzalanması

gelişmelerinden hangileri İstanbul Hükümetinin Mustafa Kemal'den farklı hareket ettiğinin kanıtı niteliğindedir?

A) Yalnız I
B) Yalnız II
C) Yalnız III
D) I ve II
E) II ve III

11. **Milli Mücadele Dönemi'nde;**

I. Amasya Genelgesi'nin yayımlanması,
II. İstanbul hükümeti ile iletişimin kesilmesi kararı,
III. Hakimiyet-i Milliye Gazetesi'nin çıkarılması

hangileri Heyet-i Temsiliye'nin yürüttüğü faaliyetlerdendir?

A) Yalnız I B) Yalnız II C) Yalnız III
D) II ve III E) I, II ve III

12. I. Elviye-i Selase'de gerekirse tekrar halkoyuna başvurulacaktır.
II. Batı Trakya'nın hukuki durumu halkın tam bir özgürlükle vereceği karara göre belirlenmelidir.
III. Arap memleketlerinin durumu halkın vereceği karara göre belirlemelidir.

Yukarıda verilen Misakımilli Kararları'ndan hangilerinde Türk nüfusun çoğunluğuna güvenilmiştir?

A) Yalnız I B) Yalnız II C) I ve II
D) II ve III E) I, II ve III

13. Son Osmanlı Mebusan Meclisi'nin 28 Ocak 1920'de kabul ettiği Misakımilli'de önemli konularla ilgili kararlar almıştır.

Misakımilli aşağıdaki konulardan hangisi ile ilgili herhangi bir karar almamıştır?

A) Boğazlar
B) Kapitülasyonlar
C) Azınlıklar
D) Dış Borçlar
E) Saltanat

14. **Aşağıdakilerden hangisi Milli Mücadele'nin amaçları arasında değildir?**

A) Anadolu'yu işgalden kurtarmak
B) I. Dünya Savaşı öncesindeki sınırlara geri dönmek
C) Ulusal egemenliği gerçekleştirmek
D) Tam bağımsız devlet kurmak
E) Ulusal bilinç oluşturmak

MURAT YAYINLARI

/muratyayincilik

15. Ali Kemal tarafından çıkarılan Milli Mücadele karşıtı yayın organı aşağıdakilerden hangisidir?

A) Küçük Mecmua
B) Albayrak
C) Peyam-ı Sabah
D) Le Pays
E) Alemdar

16. Milli Mücadele Dönemi'nde mandater yönetim ilk kez aşağıdaki belgelerden hangisinde reddedilmiştir?

A) Erzurum Kongresi
B) Balıkesir Kongresi
C) Amasya Genelgesi
D) Sivas Kongresi
E) Havza Genelgesi

17. Milli Mücadele Dönemi'ndeki aşağıdaki belgelerden hangisinde Mustafa Kemal yer almamıştır?

A) Sivas Komutanlar Toplantısı
B) Sivas Kongresi
C) Erzurum Kongresi
D) Alaşehir Kongresi
E) Amasya Genelgesi

18. I. Osmanlı Mebusan Meclisi'nin açılma isteğinin ilk kez dile getirilmesi
II. Milli bir kongre toplanması çağrısının yapılması
III. Tüm yararlı cemiyetlerin tek bir çatıda toplanması
IV. İstanbul Hükümeti'nin, Anadolu hareketini tanıması
V. Büyük Millet Meclisi'nin açılması

Yukarıdaki olayların kronolojik sıralaması aşağıdakilerden hangisidir?

A) II - III - IV - V - I
B) I - II - III - IV - V
C) II - I - III - IV - V
D) V - II - I - III - IV
E) III - II - I - IV - V

19. Milli Mücadele Dönemi'nde saltanat yönetimine karşı ilk adım aşağıdakilerden hangisidir?

A) Havza Genelgesi
B) Erzurum Kongresi
C) Balıkesir Kongresi
D) Sivas Kongresi
E) Amasya Genelgesi

20. Milli Mücadele Dönemi'nde;

I. Ali Galip Olayı,
II. Şeyh Recep Olayı,
III. Muhittin Paşa Olayı

hangileri Sivas Kongresi'nin toplanmasından sonra çıkan gelişmelerdendir?

A) Yalnız I
B) Yalnız II
C) Yalnız III
D) I ve III
E) I, II ve III

MURAT YAYINLARI

Açıklamalar • TEST 32

1. **C** Amasya Genelgesi'nde kurulması gerekliliğinden bahsedilen ve Erzurum Kongresi'nde kurulan Temsil Heyeti'dir.

2. **E** Soruda verilen tarihte Osmanlı Mebusan Meclisi tarafından kabul edilen Misak-ı Milli'dir. Misak-ı Milli'nin bu maddesinde kapitüsyonların kaldırılması gerekliliğinden bahsedilmiştir.

3. **C** Amasya Genelgesi'nin "Milletin bağımsızlığını yine milletin azim ve kararı kurtaracaktır" maddesinin ulusal iradeyi hakim kılma ve ulusal bağımsızlığı sağlama gibi anlayışlar ile aynı doğrultuda olduğu söylenebilir.

4. **D** Amasya Genelgesi'nde yer alan "İstanbul Hükümeti görev ve sorumluluklarını yerine getirememektedir, bu durum milletimizi yok saymaktadır", maddesi ile bu durum ilk kez vurgulanmıştır.

5. **A** İrade-i Milliye Gazetesi'nin çıkarılması kararı ilk kez Sivas Kongresi'nde alınmıştır. Manda ve himayenin reddi ve Mebusan Meclisi'nin açılması kararları Erzurum ve Sivas Kongresi'nin ortak kararlarıdır.

6. **C** Damat Ferit Hükümeti, Mustafa Kemal'i tutuklamak ve Sivas Kongresi'nin toplanmasını engellemek amacıyla Elazığ Valisi Ali Galip'i ve Ankara Valisi Muhittin Paşa'yı görevlendirmiştir.

7. **B** Erzurum ve Sivas Kongreleri'nde "irade-i milliyeyi hakim kılmak esastır" sözü, millet iradesine dayalı yeni bir rejime yani cumhuriyet rejimine karar verildiğinin göstergesidir.

8. **D** Tekalifimilliye Emirleri, Milli Mücadelenin örgütlenme döneminde değil, cepheler döneminde görülen gelişmelerden biridir.

9. **C** Amasya Görüşmeleri, ile Temsil Heyeti'nin hukuki varlığını İstanbul Hükümeti resmen tanımıştır. Londra Konferansı ve Bilecik Görüşmeleri'nde ise TBMM vardır.

10. **D** Osmanlı hükümetinin Mustafa Kemal'in direniş çağrısına rağmen teslimiyet belgesi Sevr'i imzalaması ve Anadolu'da Milli Mücadele'nin güçlenmesine karşı Nasihat Heyetlerini kurması farklı hareket edildiğinin kanıtıdır.

11. **D** Milli Mücadele Dönemi'nde Erzurum Kongresi ile Heyet-i Temsiliye kurulmuş ve Doğu illerini temsil eder hale gelmiştir. Sivas Kongresi ile de tüm yurdu kapsar hale gelmiştir.
İstanbul hükümeti ile iletişimin kesilmesi kararı, Sivas Kongresi'nde Heyet-i Temsiliye'nin aldığı kararlar arasında yer almıştır.
Hakimiyet-i Milliye Gazetesi Heyet-i Temsiliye'nin Ankara'ya geldikten sonra 10 Ocak 1920'de çıkardığı yayın organıdır.
Ancak Amasya Genelgesi'nde Heyet-i Temsiliye henüz kurulmadığı için bu belgenin Heyet-i Temsiliye'nin faaliyetleri arasında yer alması beklenemez.

12. **C** Batı Trakya ile Elviye-i Selase'de (Kars, Ardahan, Batum) Türk nüfusunun çoğunluğuna güvenilmiş, Arap memleketlerinde referandum istenerek ise Arapların bağımsızlığını kazanması ve böylece emperyalist devletlerin güney sınırından uzaklaştırılması amaçlanmıştır.

MURAT YAYINLARI

/muratyayincilik

13. **E** Misakımilli kararları arasında saltanattan bahsedilmez. Ayrıca ulusal egemenlik, manda ve himaye ve rejim konuları da yer almaz.

14. **B** Milli Mücadele'nin amacı milli sınırlar içinde tam bağımsız Türk devletini kurmaktır. Bu amaç doğrultusunda ilk olarak milli bilinç yaratılmış ve Anadolu işgalden kurtarılmıştır. Amaç Misak-i Milli sınırları olduğu için I. Dünya Savaşı'nın öncesindeki sınırlara dönmek söz konusu değildir.

15. **C** Milli Mücadale Dönemi'nde Ali Kemal tarafından çıkarılan Heyet-i Temsilliye karşıtı yayın organı Peyam-ı Sabah Gazetesi'dir.
Alemdar, Milli Mücadele karşıtı bir diğer yayın organıdır.
Le Pays,Albayrak ve Küçük Mecmua Milli Mücadele taraftarı yayın organlarındandır

16. **A** Milli Mücadele Dönemi'nde mandater yönetim ilk kez Erzurum Kongresi (24 Temmuz-7 Ağustos 1919) ile reddedilmiştir. Erzurum Kongresi'nde delegeler arasında ABD ve İngiliz mandater yönetimi tartışılmıştır.
Mandater yönetim tartışmaları son kez Sivas Kongresi ile son bulmuştur.

17. **D** Milli Mücadele Dönemi'nde Mustafa Kemal; Amasya Genelgesi'nde (22 Haziran 1919), Erzurum Kongresi'nde (24 Temmuz-7 Ağustos 1919), Sivas Kongresi'nde (4-11 Eylül 1919) ve Sivas Komutanlar Toplantısı'nda (16-28 Kasım 1919) yer almıştır.
Ancak 16-25 Ağustos 1919'da Hacım Muhittin Bey'in liderliğinde düzenlenen Alaşehir Kongresi'nde Mustafa Kemal yer almamıştı.

18. **C** II. Milli bir kongre çağrısı Amasya Genelgesi'nde yapılmıştır.
I. Osmanlı meclisinin açılma isteği Erzurum Kongresi'nde dile getirilmiştir.
III. Tüm yararlı cemiyetlerin birleştirilmesi Sivas Kongresi'dir.
IV. İstanbul hükümeti Amasya Görüşmeleri ile Anadolu hareketini tanımıştır.
V. Büyük Millet Meclisi'nin açılması (TBMM) 23 Nisan 1920 tarihindedir.

19. **E** Milli Mücadele Dönemi'nde Amasya Genelgesi'nde "Milletin bağımsızlığını yine milletin azim ve kararı kurtaracaktır" ifadesi saltanat yönetimine karşı ilk adımdır.
Bu madde ile "vatanın işgalini milletin kurtaracağı ve saltanat yönetiminden milli iradeye geçileceği" ilk kez ifade edilmiştir.

20. **C** Milli Mücadele Dönemi'nde Sivas Kongresi'nin (4-11 Eylül 1919) düzenlenmesini engellemek için Damat Ferit Paşa hükümeti tarafından desteklenen Elazığ Valisi Ali Galip ve Ankara Valisi Muhittin Paşa çalışmalar yürütmüşlerdir. Ancak bu iki olay başarısız olmuştur.
Şeyh Recep Olayı da Heyet-i Temsiliye'ye karşı çıkarılan bir olaydır ancak bu olay Amasya Görüşmeleri (20-22 Ekim 1919) sürecinde çıkarılmıştır.

MURAT YAYINLARI

Milli Mücadele Hazırlık Dönemi • TEST 33

1. **Mustafa Kemal Milli Mücadele Dönemi'nde aşağıdakilerden hangisinden sonra İstanbul hükümeti tarafından resmi görevinden alınmıştır?**

A) Havza Tamimi
B) Amasya Mülakatı
C) Sivas Kongresi
D) Erzurum Kongresi
E) Amasya Tamimi

2. **Aşağıdakilerden hangisi Milli Mücadele'yi destekleyen yayın organlarından biri değildir?**

A) Babalık
B) Hakimiyet-i Milliye
C) Yeni Dünya
D) Albayrak
E) Küçük Mecmua

3. **Milli Mücadele Dönemi'nde ulusal egemenlik düşüncesi aşağıdakilerden hangisinde ilk kez ortaya atılmıştır?**

A) Havza Genelgesi
B) Amasya Genelgesi
C) Erzurum Kongresi
D) Balıkesir Kongresi
E) Amasya Görüşmeleri

4. **Erzurum Kongresi'nin toplanmasında;**
I. bölgedeki azınlıkların faaliyetleri,
II. Pontus Rum Cemiyeti'nin faaliyetleri,
III. tüm direniş cemiyetlerinin birleştirilmesi
hangileri doğrudan etkili olmuştur?

A) Yalnız I B) Yalnız II C) I ve II
D) I ve III E) II ve III

5. "Diyelim ki biz dış ve iç tam bir bağımsızlık isteriz. Fakat acaba kendi başımıza yapabilecek miyiz? Ondan önce acaba bizi kendi başımıza bırakacaklar mı bırakmayacaklar mı?" **gibi düşüncelerin uzun tartışmalar sonucunda kesinlikle reddedildiği kongre aşağıdakilerden hangisidir?**

A) Erzurum Kongresi
B) Sivas Kongresi
C) Alaşehir Kongresi
D) Balıkesir Kongresi
E) Nazilli Kongresi

6. **Balıkesir ve Alaşehir Kongreleri'nin Milli Mücadele süresince özerk olarak hareket ettiğine;**
I. Bulundukları bölgede halktan vergi toplamaları,
II. Bölgelerindeki işgallere karşı asker toplamaları,
III. Saltanata bağlı olduğunu bildirmesi
durumlarından hangileri kanıt olarak gösterilebilir?

A) Yalnız I
B) Yalnız II
C) Yalnız III
D) I ve II
E) I, II ve III

7. **Milli Mücadele Dönemi'de Amasya Protokolü'nün gerçekleşmesine aşağıdakilerden hangisinin zemin hazırladığı savunulabilir?**

A) Amasya Genelgesi
B) Sivas Kongresi
C) Balıkesir Kongresi
D) Havza Genelgesi
E) Sivas Komutanlar Toplantısı

MURAT YAYINLARI

/muratyayincilik

8. Milli Mücadele Dönemi'nde kurulan Heyet-i Temsiliye'nin son merkezi aşağıdakilerden hangisidir?

A) Sivas
B) Ankara
C) Erzurum
D) Amasya
E) Balıkesir

9. Mustafa Kemal'in Osmanlı Mebusan Meclisi'ne giden Müdafaa-i Hukuk yanlısı milletvekilleriyle görüşmesi yasaklanmıştır.

İstanbul Hükümeti'nin bu tutumunun nedeni aşağıdakilerden hangisidir?

A) Milletvekillerinin etki altında kalacağından kaygı duyması
B) Anlaşma Devletleri'nden çekinilmesi
C) Mebusların Ankara'ya gitme konusunda çekimser davrandığı
D) Anlaşma Devletleri'nin İstanbul'u işgal etmelerinden kaygı duyulması
E) İstanbul'a ulaşmanın zor olması

10. Milli Mücadele Dönemi'nde aşağıdakilerden hangisiyle Temsil Heyeti temel amaçlarını Osmanlı parlamentosuna kabul ettirmiştir?

A) Sivas Kongresi
B) Misak-ı Milli Kararları
C) Amasya Görüşmeleri
D) Amasya Genelgesi
E) Erzurum Kongresi

11. Aşağıdakilerden hangisi Misakımilli de yer alan konulardan biri değildir?

A) Mondros Ateşkesi'nden önce imzalanan antlaşmalar kesinlikle kabul edilmeyecektir.
B) Türk-İslam çoğunluğunun bulunduğu bölgeler ayrılık kabul etmez bir bütündür.
C) Boğazların durumu, Karadaniz'e sınırı olan devletlerin kararına bağlıdır.
D) Siyasi, adli ve ekonomik gelişmemize engel olan sınırlamalar kabul edilemez.
E) Azınlıkların hakları, komşu ülkelerdeki Müslüman azınlıkların haklarıyla aynı olmalıdır.

12. Milli Mücadele Dönemi'ndeki;

I. Amasya Genelgesi,
II. Sivas Kongresi,
III. Erzurum Kongresi

belgelerinden hangilerinde ulusal sınırlardan söz edilmiştir?

A) Yalnız I
B) Yalnız II
C) Yalnız III
D) II ve III
E) I, II ve III

13. Milli Mücadele Dönemi'nde Heyet-i Temsiliye'nin hukuki varlığını tanıyan İstanbul hükümeti aşağıdakilerden hangisidir?

A) Salih Paşa
B) Damat Ferit Paşa
C) Tevfik Bey
D) Ahmet İzzet Paşa
E) Ali Rıza Paşa

MURAT YAYINLARI

14. **Milli Mücadele Dönemi'nde Anadolu ve Rumeli Müdafaa-i Hukuk Cemiyeti aşağıdakilerden hangisi ile kurulmuştur?**

A) Erzurum Kongresi
B) Amasya Genelgesi
C) Sivas Kongresi
D) Havza Genelgesi
E) Amasya Görüşmeleri

15. I. İşgalleri protesto için mitingler düzenlenecek
II. Mebusan Meclisi bir an önce toplanacak
III. Batı Trakya'nın durumunun tespiti için halkoylamasına başvurulacak
IV. Milletin bağımsızlığını yine milletin azim ve kararı kurtaracaktır

Yukarıdaki Milli Mücadele Dönemi'ne ait kararların kronolojik sıralaması hangisinde doğru verilmiştir?

A) II - I - IV - III
B) I - IV - II - III
C) IV - I - II - III
D) III - I - II - IV
E) I - II - III - IV

16. **10 Ocak 1920 tarihinde Mustafa Kemal tarafından Ankara'da çıkarılan gazete aşağıdakilerden hangisidir?**

A) Hakimiyet-i Milliye
B) Küçük Mecmua
C) Hadisat
D) İrade-i Milliye
E) Albayrak

17. **Erzurum Kongresi'nin ulusal kongre kabul edilmesinde;**

I. Manda ve himaye kabul edilemez.
II. Doğu illerindeki tüm cemiyetler tek çatıda birleştirilmelidir.
III. Milli sınırlar içinde vatan bir bütündür, bölünemez.

maddelerinden hangilerinin etkili olduğu söylenebilir?

A) Yalnız I B) Yalnız III C) I ve II
D) I ve III E) II ve III

18. **5 Ağustos 1920 tarihinde Mustafa Kemal Paşa Fransız işgalini karşı aşağıdakilerden hangisine katılmışlardır?**

A) Kars Kongresi
B) Afyon Kongresi
C) Pozantı Kongresi
D) Alaşehir Kongresi
E) Balıkesir Kongresi

19. I. Minber
II. Mizan
III. Alemdar

Yukarıdaki gazetelerden hangileri Mustafa Kemal'in çabalarıyla çıkarılmıştır?

A) Yalnız I B) Yalnız II C) Yalnız III
D) I ve II E) I, II ve III

20. **Aşağıdakilerden hangisi Amasya Genelgesi'nde imzası bulunanlardan biri değildir?**

A) Mustafa Kemal Paşa
B) Ali Fuat Paşa
C) Rauf Paşa
D) İsmet Paşa
E) Refet Paşa

MURAT YAYINLARI

/muratyayincilik

Açıklamalar • TEST 33

1. **E** Amasya Tamimi (22 Haziran 1919) sonrasında Mustafa Kemal İstanbul hükümeti (Damat Ferit Paşa Hükümeti) tarafından resmi görevi olan ordu müfettişliğinden alınmıştır. Bunun üzerine Mustafa Kemal 7-8 Temmuz 1919 tarihinde ordudan ayrıldığını açıklamıştır.

2. **C** Yeni Dünya Gazatesi, Milli Mücadele karşıtı,İstanbul hükümeti yanlısı yayın organıdır.
Babalık, Hakimiyet-i Milliye, Albayrak ve Küçük Mecmua adlı yayın organları Milli Mücadele yanlısı yazılar kaleme almışlardır.

3. **B** Amasya Genelgesi'nde yer alan "Ulusun bağımsızlığını yine ulusun azim ve kararı kurtaracaktır." maddesi ulusal egemenliğe ilk vurgudur.

4. **C** Erzurum Kongresi'nin toplanmasında, Ermeni ve Pontus Rum azınlığın taşkınlıkları ve Pontus Rum Cemiyeti'nin yıkıcı faaliyetlerde bulunması etkili olmuştur.

5. **B** "Bizi kendi başımıza bırakacaklar mı?" ifadesiyle mandater sistemden bahsedilmektedir. Mandater sistemin tamamen reddedildiği yer, Sivas Kongresi'dir.

6. **D** Balıkesir-Alaşehir Kongreleri'nde, her ne kadar padişaha bağlılık bildirilse de İstanbul Hükümeti'nden farklı olarak kendi bölgelerinde Kuvayımilliye için vergi ve asker toplamaları, özerk hareket ettiklerinin göstergesidir.

7. **B** Sivas Kongresi'nden sonra Damat Ferit Paşa hükümeti istifa etmiş yerine Ali Rıza Paşa hükümeti kurulmuştur. Sivas Kongresi'nin bu başarısı sonucunda Ali Rıza Paşa hükümeti Heyet-i Temsiliye ile görüşme talebinde bulunmuş ve Amasya Protokolü gerçekleşmiştir.

8. **B** Heyet-i Temsiliye'nin ilk merkezi Erzurum, son merkezi Ankara'dır.

9. **A** İstanbul Hükümeti, bu görüşmelerin sonucunda milletvekillerinin yani yasama gücünün Mustafa Kemal'in etkisi altında kalacağını düşünmüş, o yüzden bu görüşmelere engel olmuştur.

10. **B** Misakımilli kararlarının Son Osmanlı Mebusan Meclisi'nde kabul edilmesiyle Temsil Heyeti temel amaçlarını Osmanlı parlamentosuna kabul ettirmiştir.

11. **A** Misakımilli belgesinde azınlıklardan, kapitülasyonlardan, boğazlardan ve sınırlardan bahsedilmiştir. Ancak Mondros Ateşkesi öncesinde imzalanan antlaşmaların reddedilmesiyle ilgili madde yoktur.

12. **D** Milli Mücadele Dönemi'nde ulusal sınırlardan ilk kez Erzurum Kongresi'nde söz edilmiştir. Erzurum Kongresi'nde ifade edilen ulusal sınırlar, Misak-ı Milli sınırlarıdır ve bu madde Sivas Kongresi'nde de aynen kabul edilmiştir.
Ancak ulusal sınırlardan veya Misak-ı Milli sınırlarından Amasya Genelgesi'nde söz edilmemiştir.

MURAT YAYINLARI

13. **E** Milli Mücadele Dönemi'nde Heyet-i Temsiliye ile Ali Rıza Paşa hükümeti arasında Amasya Görüşmeleri (20-22 Ekim 1919) gerçekleşmiştir.
Dolayısıyla Ali Rıza Paşa hükümeti Heyet-i Temsiliye'nin hukuki varlığını tanıyan ilk İstanbul hükümeti olmuştur.

14. **C** Mondros Ateşkes Antlaşması'ndan sonra Osmanlı Devleti'nin işgale uğramasına tepki olarak yararlı cemiyetler kurulmştur.
Erzurum Kongresi sonucunda Doğu'daki cemiyetler birleştirilmiş Sivas Kongresi sonucunda da tüm yararlı cemiyetler "Anadolu ve Rumeli Müdafaa-i Hukuk Cemiyeti" adıyla tek bir çatıda toplanmıştır.

15. **B** I. İşgalleri protesto için miting düzenlenmesi kararı Havza Genelgesi'nde,
IV. Milletin bağımsızlığını, milletin azim ve kararı kurtaracak maddesi Amasya Genelgesi'nde,
II. Mebusan Meclisi'nin toplanması kararı ilk olarak Erzurum Kongresi'nde,
III. Batı Trakya'da referandum, Misakımilli belgesinde alınmış kararlardır.

16. **A** Hakimiyet-i Milliye Gazetesi 10 Ocak 1920 tarihinde Mustafa Kemal tarafından Ankara'da çıkarılan yayın organıdır.
İrade-i Milliye Gazetesi, Mustafa Kemal tarafından Sivas Kongresi ile çıkarılan yayın organıdır.
Albayrak ve Hadisat Gazeteleri, Şarki Vilayetleri Müdafaa-i Hukuk Cemiyeti'nin yayın organlarındandır.
Küçük Mecmua Dergisi, Ziya Gökalp tarafından çıkarılan yayın organıdır.

17. **D** I ve III. öncüllerde vatanın topyekün bağımsızlığı ve bütünlüğü üzerine alınan kararlar verilmiştir. Doğu illerindeki cemiyetlerin birleştirilmesi ise bölgesel niteliktedir. Tüm cemiyetlerin birleştirilerek ulusal hale getirilmesi Sivas Kongresi'nde gerçekleşmiştir.

18. **C** Milli Mücadele Dönemi'nde Fransızların Adana ve civarındaki işgallerine karşı Pozantı Kongresi (5 Ağustos 1920) düzenlenmiştir.
Mustafa Kemal Paşa bu kongreye Fevzi Paşa ile birlikte katılmıştır.

19. **A** Mustafa Kemal, Suriye-Filistin Cephesi'nden İstanbul'a döndükten sonra kendi parasıyla çıkardığı ve görüşlerini yaydığı gazete Minber'dir.

20. **D** Amasya Genelgesi'nde (22 Haziran 1919) imzası bulunanlar; Mustafa Kemal Paşa, Ali Fuat Paşa, Rauf Paşa ve Refet Paşa'dır.

MURAT YAYINLARI

/muratyayincilik

Milli Mücadele Hazırlık Dönemi • TEST 34

1. **Elviye-i Selase ve Batı Trakya için halk oylaması yapılması aşağıdakilerden hangisi ile gündeme getirilmiştir?**

A) Havza Genelgesi
B) Amasya Tamimi
C) Erzurum Kongresi
D) Sivas Kongresi
E) Misak-ı Milli Kararları

2. **Milli Mücadele Dönemi'nde aşağıdakilerden hangisine katılanlar Sivas Kongresi'ne de doğrudan katılma hakkını elde etmiştir?**

A) Son Osmanlı Mebusan Meclisi
B) Amasya Görüşmeleri
C) Erzurum Kongresi
D) Bilecik Görüşmeleri
E) Balıkesir Kongresi

3. Amasya Genelgesi'nden sonra Mustafa Kemal resmi görevinden istifa etmiştir.

Buna göre;

I. Mustafa Kemal'in İstanbul Hükümetine bağlı hareket etmediği,
II. Mustafa Kemal'in asıl amacını gerçekleştirmek için sivil olarak hareket edeceği,
III. Mustafa Kemal'in istifa ederek daha fazla destek toplamak istediği

gibi durumlardan hangilerine ulaşılamaz?

A) Yalnız I
B) Yalnız II
C) Yalnız III
D) I ve III
E) II ve III

4. **Misak-ı Milli Kararları'na göre referandum yapılacak yerler arasında aşağıdakilerden hangisi yer almaz?**

A) Doğu Trakya
B) Ardahan
C) Batum
D) Batı Trakya
E) Kars

5. Milli Mücadele örgütlenme aşamasında Balıkesir ve Alaşehir kongreleri birden fazla toplanmıştır.

Aşağıdakilerden hangisinin bu kongrelerin toplanmasına etki eden unsurlardan olduğu savunulamaz?

A) Paris Konferansı kararlarının uygulanması
B) Asayişin bozulması
C) Yunan işgalinin başlaması
D) TBMM'nin Batı Cephesi'ni denetim altına alması
E) Azınlık faaliyetleri

6. I. Doğrudan Mustafa Kemal'in çağrısıyla toplanması
II. Milli bir kongre özelliği taşıması
III. Balıkesir Kongresi'nden temsilci katılmaması

Yukarıdakilerden hangileri Sivas Kongresi'nin özelliklerindendir?

A) Yalnız I
B) Yalnız II
C) I ve II
D) I ve III
E) I, II ve III

MURAT YAYINLARI

7. I. Milli Mücadele'de Batı Cephesi'nin kurulması
II. Düzenli ordunun kurulması
III. Geçici bir hükümetin oluşturulması

Milli Mücadele Dönemi'nde düzenlene kongrelerde yukarıdakilerden hangilerine yönelik karar alındığı söylenemez?

A) Yalnız I
B) Yalnız II
C) Yalnız III
D) I ve II
E) II ve III

8. Padişah, Salih Paşa'dan sonra yeni kabineyi kuran sadrazama verdiği buyrukta, "Milliciler" adı altında meydana gelen ayaklanmalara katılanlardan pişman olanlara af ilan edilmesini istemiştir.

Padişahın bu buyruğu, aşağıdakilerden hangisinin bir göstergesidir?

A) Padişahın ulus egemenliği ilkesini benimsediğinin
B) Padişahın Anlaşma Devletleri'ne güven duyduğunun
C) Saltanata ve hilafete bağlılığı güçlendirmek istediğinin
D) Millicilerin padişaha bağlı olduklarının
E) Milli kuvvetlerin dağıtıldığının

9. **Mebusan Meclisi, Misakımilli'yi kabul etmekle;**

I. Erzurum ve Sivas Kongreleri'nin kararlarını benimsemiştir.
II. Hilafet ve saltanat makamlarına son verilmesi amaçlanmıştır.
III. Yeni Türk Devleti'nin yönetim esaslarını belirlemiştir.

yargılarından hangisini gerçekleştirmiştir?

A) Yalnız I
B) Yalnız III
C) II ve III
D) I, II ve III
E) I ve III

10. **Milli Mücadele Dönemi'nde Kurtuluş Savaşı'nı belli bir plan ve düzende yürütmek amacıyla aşağıdakilerden hangisi gerçekleştirilmiştir?**

A) Düzenli ordu kurulmuştur.
B) Saltanata son verilmiştir.
C) Men-i Müskirat Kanunu çıkarılmıştır.
D) Cumhuriyet ilan edilmiştir.
E) Tekalif-i Milliye Emirleri yayımlanmıştır.

11. **Temsil Heyeti'nin görevi aşağıdakilerden hangisi ile sona ermiştir?**

A) Mebusan Meclisi'nin açılması
B) Ankara'nın Milli Mücadele'nin merkezi seçilmesi
C) Tüm cemiyetlerin birleştirilmesi
D) Amasya Görüşmeleri'nin yapılması
E) TBMM'nin açılması

12. **16 Mart 1920'de İstanbul'un resmi işgal haberini Mustafa Kemal'e telgraf ile bildiren kişi aşağıdakilerden hangisidir?**

A) Manastırlı Hamdi Bey
B) Rauf Paşa
C) Tevfik Bey
D) İsmet Paşa
E) Ali Fuat Paşa

13. **Aşağıdakilerden hangisinde neden-sonuç ilişkisi yanlış verilmiştir?**

	Neden	Sonuç
A)	İstanbul'un resmi işgali	Salih Paşa hükümetinin istifası
B)	İzmir'in işgali	Kuvayımilliyelerin kurulması
C)	Sivas Kongresi	Yararlı cemiyetlerin birleştirilmesi
D)	Paris Barış Konferansı	İtilaf devletleri arasında görüş ayrılığının çıkması
E)	Amasya Protokolü	ABD mandası fikrinin reddedilmesi

MURAT YAYINLARI

/muratyayincilik

14. I. Ulusal sınırlardan ilk kez bahsedilmesi
II. Mustafa Kemal'in 9. Ordu Müfettişliği'nden istifa etmesi
III. Temsil Heyeti'nin ulusal hale gelmesi
IV. Ankara'nın merkez seçilmesi

Milli Mücadele Dönemi'ne ait yukarıdaki gelişmelerin kronolojik sıralaması aşağıdakilerden hangisinde doğru olarak verilmiştir?

A) II - III - IV - I
B) II - I - III - IV
C) III - I - II - IV
D) I - III - IV - II
E) III - IV - I - II

15. I. Kuvayi İnzibatiye
II. Kuvayımilliye
III. İrade-i Milliye
IV. Müdafaa-i Hukuk Cemiyetleri

Yukarıdakilerden hangileri Milli Mücadele karşıtı unsurlardandır?

A) Yalnız I B) Yalnız II C) I ve II
D) I, II ve III E) I, II ve IV

16. **Milli Mücadele Dönemi'nde Galip Hoca takma adıyla Nazilli Kongresi'nde yer alan aşağıdakilerden hangisidir?**

A) Celal Bayar
B) İsmet İnönü
C) Ali Fuat Cebesoy
D) Refet Bele
E) Ali Fethi Okyar

17. **Milli Mücadele Dönemi'nde Mustafa Kemal'in askerlik mesleğini bıraktıktan sonra;**
I. Amasya Tamimi,
II. Erzurum Kongresi,
III. Sivas Komutanlar Toplantısı

belgelerinden hangilerinde yer aldığı söylenebilir?

A) Yalnız I B) Yalnız II C) Yalnız III
D) II ve III E) I, II ve III

18. **Milli Mücadele Dönemi'nde Mustafa Kemal Paşa;**
I. Erzurum mebusluğu,
II. Heyet-i Temsiliye Başkanlığı,
III. Mebusan Meclisi Başkanlığı

görevlerinden hangilerine seçildiği söylemez?

A) Yalnız I
B) Yalnız II
C) Yalnız III
D) I ve III
E) II ve III

19. **Milli Mücadele Dönemi'nin amaç yöntemi ilk kez aşağıdakilerden hangisinde kararlaştırılmıştır?**

A) Erzurum Kongresi
B) Havza Genelgesi
C) Balıkesir Kongresi
D) Sivas Kongresi
E) Amasya Genelgesi

20. **11 Nisan 1920 tarihinde Mebusan Meclisi'nin dağıtılması aşağıdaki hangi İstanbul hükümeti döneminde olmuştur?**

A) Tevfik Bey
B) Ali Rıza Paşa
C) Damat Ferit Paşa
D) Salih Paşa
E) Ahmet İzzet Paşa

MURAT YAYINLARI

Açıklamalar • TEST 34

1. **E** Misakımilli'de Batı Trakya ve Elviye-i Selase (Kars-Ardahan-Batum) için halk oylaması yapılması gündeme getirilmiştir.

2. **C** Amasya Genelgesi'nde alınan karar gereğince Erzurum Kongresi'ne katılan delegeler, Sivas Kongresi'ne de katılacaktır.

3. **C** Mustafa Kemal'in resmi görevinden istifa ederek daha fazla destek toplamak gibi bir amacı olmamıştır. Çünkü bu durum onun resmi makamlara hükmetme yetkisini kaybetmesine ve padişah otoritesinin dışına çıkmasına neden olmuştur.

4. **A** Misak-ı Milli Kararları'na göre Batı Trakya, Elviye-yi Selase (Kars, Ardahan, Batum) ve Arapların çoğunlukta olduğu yerler referandum yapılması istenen yerlerdir.
Misak-ı Milli Kararları'na göre Doğu Trakya'da referandum kararı yoktur.

5. **D** Balıkesir-Alaşehir kongreleri toplandığı esnada henüz TBMM kurulmamıştır. Bu nedenle TBMM'nin kongrelerde bir etkisi yoktur.

6. **E** Mustafa Kemal'in çağrısıyla toplanan Anadolu'daki tek milli kongre Sivas Kongresi'dir. Bu kongreye, Balıkesir Kongresi'nden temsilci katılmamıştır.

7. **B** Geçici hükümet oluşturma fikri Erzurum Kongresi kararı, Batı Cephesi'nin kurulması ise Sivas Kongresi sonucudur. Düzenli ordunun kurulması ise TBMM kararıdır.

8. **C** Padişahın bu buyruğu milli mücadelecileri yanına çekerek kendine bağlılığı artırma düşüncesinin bir göstergesidir.

9. **A** Misakımilli kararları, Erzurum ve Sivas Kongresi kararları ile şekillenmiştir. Misakımilli'de saltanattan bahsedilmez, yeni Türk devletinin esasları ise TBMM ile şekillenecektir.

10. **A** Kurtuluş mücadelesinin Gediz Taarruzu başarısızlığı ile Kuvayımilliye tarafından yapılamayacağının anlaşılması üzerine, mücadeleyi belli bir otorite ve disiplin ile yürütmek amacıyla TBMM tarafından düzenli ordu kurulmuştur.

11. **E** TBMM'nin açılmasıyla Temsil Heyeti görevini meclise devrederek feshedilmiştir.

12. **A** 16 Mart 1920'de İstanbul'un resmi işgalini Mustafa Kemal'e telgraf ile bildiren kişi telgraf memuru Manastırlı Hamdi Bey olmuştur.

13. **E** Amasya Görüşmeleri'nde ABD mandası ile ilgili bir karar bulunmamaktadır. Diğer seçeneklerde eşleştirmeler doğru verilmiştir.

14. **B** Mustafa Kemal'in istifası-Amasya Genelgesi sonrası, ulusal sınırlardan ilk kez bahsedilmesi-Erzurum Kongresi, Temsil Heyeti'nin ulusal hale gelmesi-Sivas Kongresi, Ankara'nın Milli Mücadele'nin merkezi seçilmesi-Temsilciler Kurulu'nun Ankara'ya gelişi ile olmuştur.

15. **A** Kuvayi İnzibatiye, Hilafet Ordusu'dur ve Milli Mücadele'ye karşı hareket etmiş, TBMM'nin otoritesini sona erdirme amacıyla isyan çıkarmıştır.

16. **A** Celal Bayar, Milli Mücadele Dönemi'nde Galip Hoca takma adıyla Nazilli Kongresi'nde yer alan kişidir.

17. **D** Milli Mücadele Dönemi'nde Mustafa Kemal askerlik mesleğini Amasya Tamimi'nden (Genelgesi) sonra 7-8 Temmuz 1919'da bırakmıştır.
7-8 Temmuz 1919'da askerlik mesleğinden ayrılan Mustafa Kemal, Erzurum Kongresi'ne (23 Temmuz-7 Ağustos 1919) ve Sivas Komutanlar Toplantısı'na (16-28 Kasım 1919) sivil olarak katılmıştır.

18. **C** Milli Mücadele Dönemi'nde Mustafa Kemal, Heyet-i Temsiliye Başkanlığı görevinin yanında Mebusan Meclisi'e Erzurum mebusu (milletvekilliği) olarak seçilmiştir.
Ancak Mustafa Kemal Mebusan Meclis Başkanlığı görevini üstlenmemiştir.

19. **E** Milli Mücadele Dönemi'nin amaç yöntemi ilk kez Amasya Genelgesi'nde kararlaştırılmıştır. "Milletin bağımsızlığını yine milletin azim ve kararı kurtaracaktır" Milli Mücadele'nin amaç ve yönetimi ortaya koyan ifadedir.

20. **C** 11 Nisan 1920 tarihinde Mebusan Meclisi'nin dağıtılması Damat Ferit Paşa hükümeti döneminde gerçekleşmiştir.

MURAT YAYINLARI

/muratyayincilik

TBMM Dönemi • TEST 35

1. I. TBMM'nin açılması
II. Temsil Heyeti'nin kurulması
III. Osmanlı Mebusan Meclisi'nin açılması

Yukarıda verilenlerden hangileri ulusal iradenin bir çatı altında toplanmaya çalışıldığının ifadesidir?

A) Yalnız I
B) Yalnız II
C) I ve II
D) II ve III
E) I, II ve III

2. I. Meclisin üstünde güç yoktur.
II. Hükümet başkanı meclisin de başkanıdır.
III. Düzenli ordudan vazgeçilmeyecektir.

Yukarıda verilenlerden hangileri 24 Nisan Önergesi'nde yer alan kararlar arasında değildir?

A) Yalnız I
B) Yalnız II
C) Yalnız III
D) I ve II
E) II ve III

3. **Aşağıdakilerden hangisi I. TBMM'deki bazı milletvekillerinin kendilerini Mebusan Meclisi'nin devamı olarak gördükleri düşüncesini destekler?**

A) Mustafa Kemal'in başkan olmasına karşı çıkmaları
B) Savaşçı meclis olması
C) Halk meclisi olması
D) Meclis'in Ankara'da toplanmış olması
E) Kurucu meclis terimine karşı çıkmaları

4. 20 Ocak 1921 tarihinde kabul edilen Teşkilatıesasiye Kanunu'nda TBMM'ye seçilen milletvekillerinin her birinin sadece bir ilin değil bütün milletin vekili oldukları vurgulanmıştı.

Bu maddeyle;

I. hükümet kurmada salt çoğunluğu sağlama,
II. ulus egemenliğini pekiştirme,
III. kararların çabuk alınmasını sağlama

amaçlarından hangilerine ulaşılmak istendiği savunulabilir?

A) Yalnız I
B) Yalnız II
C) Yalnız III
D) II ve III
E) I, II ve III

5. **Boğazları yönetecek komisyonun kurulmasını esas alan barış antlaşmasını Osmanlı adına onaylayan kurul aşağıdakilerden hangisidir?**

A) Saltanat Şurası
B) Mebuslar Meclisi
C) Ayan meclisi
D) Heyet-i Vükela
E) TBMM

6. I. Anzavur Ayaklanması
II. Delibaş Mehmet
III. Çopur Musa
IV. Çerkez Ethem

TBMM'ye karşı çıkarılan yukarıdaki ayaklanmalardan hangileri diğerlerinden farklı bir nedene dayanır?

A) I ve II
B) II ve IV
C) Yalnız III
D) Yalnız IV
E) I ve III

MURAT YAYINLARI

7. **Aşağıdakilerden hangisi Damat Ferit Hükümeti'nin İngilizlerin de desteği ile Ankara Hükümeti'nin Anadolu halkı üzerindeki etkisini kırmak amacıyla çıkardığı sorunlardan biri değildir?**

A) Kuvayı İnzibatiye İsyanı
B) Hilafet Ordusu İsyanı
C) Anzavur Ahmed İsyanı
D) Demirci Mehmet Efe İsyanı
E) Ali Galip Olayı

8. **I. TBMM'nin** "olağanüstü meclis" **olarak kabul edilmesinde aşağıdaki durumlardan hangisi etkili olmuştur?**

A) 1921 Anayasası'nı hazırlaması
B) Türk milletini temsil etmesi
C) Güçler birliği ilkesi ile hareket etmesi
D) Başkanlığını Mustafa Kemal'in yapması
E) Üyelerinin seçimle belirlenmiş olması

9. **Birinci TBMM'nin;**

I. iki dereceli seçim sistemi uygulanması,
II. azınlık milletvekilinin olmaması,
III. üyelerinin halk tarafından seçilmesi

gibi özelliklerinden hangileri Osmanlı Mebusan Meclisi'nden farklı yapıda olduğunun göstergesidir?

A) Yalnız I B) Yalnız II C) Yalnız III
D) I ve II E) I, II ve III

10. **Birinci TBMM'nin,**

I. güçler birliği ilkesine göre hareket etmesi,
II. İstiklal Mahkemeleri'ni kurması,
III. Tekalifimilliye Emirleri'ne onay vermesi

özelliklerinden hangileri bazı durumlarda hızlı kararlar almasına ve denetlemesine etki etmiştir?

A) Yalnız I
B) Yalnız II
C) Yalnız III
D) I ve II
E) I, II ve III

11. **TBMM'nin açılışı sırasında verilen önergede yer alan;**

I. TBMM'nin üzerinde hiçbir güç yoktur.
II. Meclis başkanı aynı zamanda hükümetin de başkanıdır.
III. Meclis tarafından seçilip görevlendirilecek bir kurul hükümet işlerine bakar.

gibi kararlardan hangileri meclis hükümeti sisteminin uygulandığını kanıtlar niteliktedir?

A) Yalnız I
B) Yalnız II
C) I ve II
D) II ve III
E) I, II ve III

12. I. 24 Nisan 1920 Kararları
II. Kanunuesasi
III. Teşkilatıesasiye

Yukarıdakilerden hangileri TBMM'nin açılışından Cumhuriyet'in ilanına kadar geçen sürede siyasi ve hukuki işlerin yürütülmesinde yasal dayanak olarak kullanılmıştır?

A) Yalnız II
B) Yalnız III
C) II ve III
D) I ve III
E) I, II ve III

13. I. Nasihat Heyetleri'nin kurulması
II. Dürrizade Abdullah Efendi'nin fetva alınması
III. Hıyanet-i Vataniye Kanunu'nun çıkarılması

Yukarıdakilerden hangileri TBMM'nin ayaklanmalara karşı aldığı tedbirler arasındadır?

A) Yalnız I
B) Yalnız II
C) Yalnız III
D) I ve II
E) I, II ve III

MURAT YAYINLARI

/muratyayincilik

14. **Aşağıdakilerden hangisi Sevr Antlaşması'na göre Yunanistan'a bırakılan yerlerden biri değildir?**

A) Batı Anadolu
B) Edirne
C) Kırklareli
D) Kıbrıs
E) Ege Adaları

15. **Çerkez Ethem İsyanı ile ilgili olarak;**

I. Rejim karşıtı gerici isyandır.
II. Kuvayimilliye isyanıdır.
III. Dini kökenli bir isyandır.

yargılarından hangileri doğrudur?

A) Yalnız I
B) Yalnız II
C) I ve II
D) II ve III
E) I, II ve III

16. **Birinci Türkiye Büyük Millet Meclisi aşağıdaki hangi yıllar arasında faaliyet göstermiştir?**

A) 1919-1921
B) 1920-1921
C) 1920-1922
D) 1920-1923
E) 1921-1923

17. **İlk TBMM'de ülkenin düşman işgalinden kurtuluşuna kadar siyasal parti ve grup hareketlerini yasaklayan hükümler getirilmeye çalışılmasında;**

I. çok partili döneme geçişi geciktirmek,
II. ulusal birliğin parçalanmasını engellemek,
III. Anadolu ve Rumeli'deki ulusalcı düşüncede olanları bir cemiyet altında birleştirmek

amaçlarından hangilerinin hedeflendiği savunulabilir?

A) Yalnız I B) Yalnız II C) Yalnız III
D) II ve III E) I, II ve III

18. I. İrade-i Milliye
II. Anadolu Ajansı
III. Hakimiyet-i Milliye

Yukarıdakilerden hangileri Milli Mücadele Dönemi'nde TBMM adına çalışmış basın yayın unsurlarındandır?

A) Yalnız I
B) Yalnız II
C) Yalnız III
D) I ve II
E) II ve III

19. **I. TBMM'nin açılış konuşmasını yapan aşağıdakilerden hangisidir?**

A) Rauf Bey
B) Refet Bey
C) Adnan Adıvar
D) Şerif Bey
E) Mustafa Kemal Paşa

20. **Aşağıdaki isyanlardan hangisine İtilaf Devletleri, İstanbul'un ve Boğazların Kuvayımilliye faaliyetlerinden korunması amacıyla destek vermişlerdir?**

A) Çopur Musa
B) Çerkez Ethem
C) Ali Batı
D) Çapanoğulları
E) Ahmet Anzavur

MURAT YAYINLARI

Açıklamalar • TEST 35

1. **E** Soruda verilen öncüllerdeki kurumların üyeleri halkın temsilcileri olarak seçilmiş ve görev yapmışlardır. Bu nedenle tüm kurumların ulus iradesinin temsilcisi olduğu söylenebilir.

2. **C** Mustafa Kemal'in yeni meclisin çalışma esaslarını belirttiği 24 Nisan önergesinde düzenli ordudan bahsedilmemiştir.

3. **E** Kurucu meclis, anayasa yapabilen ayrı bir oluşumdur. Bu yüzden I. TBMM'deki bazı milletvekilleri, ayrı bir devlet kurulduğunu kabul etmekte zorlanmışlar ve bu ifadeye karşı çıkmışlardır.

4. **B** I. TBMM'de milletvekillerinin sadece seçildikleri ilin değil tüm ulusun temsilcisi olduklarının vurgulanmasında amaç, ulusal egemenliği pekiştirmektir.

5. **A** Boğazları yönetecek komisyondan bahseden antlaşma Sevr Antlaşması'dır. Sevr'i, Osmanlı Mebusan Meclisi kapalı olduğu için Saltanat Şurası onaylamıştır.

6. **D** Çerkez Ethem Ayaklanması diğerlerinden farklı olarak TBMM'nin kurmuş olduğu düzenli orduya karşı çıkarılmış ayaklanmadır. Diğer ayaklanmalar ise Milli Mücadeleye karşı İstanbul Hükümeti ve itilaf devletlerinin kışkırtması sonucu çıkmıştır.

7. **D** Demirci Mehmet Efe İsyanı, TBMM'nin kurduğu düzenli orduya katılmak istemeyen eski Kuvayımilliyeci isyanlarındandır.

8. **C** TBMM, yasama ve yürütme yetkisini elinde bulundurarak "güçler birliği ilkesi" ile hareket etmiş bu nedenle "olağanüstü meclis" olarak nitelendirilmiştir.

9. **B** Osmanlı Mebusan Meclisi'nde ve TBMM'de iki dereceli seçim uygulanmış ve milletvekilleri halk tarafından seçilmiştir. Ancak Osmanlı, Mebusan Meclisi'nde gayrimüslim milletvekili varken TBMM'de milli bir meclis örneğiyle azınlık milletvekiline yer verilmemiştir.

10. **D** Güçler Birliği'nin benimsenme amacı, hükümetin alacağı kararları bir an önce yürürlüğe koymaktır. Yargı yetkisi ise temyizi olmayan ve hızlı karar alıp uygulayan İstiklal Mahkemeleri'ne bırakılmıştır.

11. **D** Meclis hükümeti sisteminde meclis başkanı hükümetin de başkanıdır ve hükümet üyeleri meclis içinden ve meclis tarafından seçilerek göreve gelir.

12. **E** Meclisin işleyişini, 24 Nisan Kararları, 1921 Anayasası (Teşkilatıesasiye) kararları belirlemektedir. Ayrıca yetersiz kaldıkları noktalarda Kanunuesasi'nin çelişmeyen hükümleri alınmıştır.

13. **C** Hıyanet-i Vataniye Kanunu, TBMM'nin ayaklanmalara karşı aldığı ilk tedbirdir. Nasihat Heyetleri'nin kurulması ve şeyhülislamın fetvası (Dürrizade Abdullah Efendi'nin fetvası) ise İstanbul Hükümeti'nin faaliyetleridir.

14. **D** Kıbrıs 1878 yılında İngiltere tarafından işgal edilmiştir. İngiltere I. Dünya Savaşı'na girdikten sonra ise adayı ilhak etmiştir.

15. **B** Çerkez Ethem, TBMM'nin kurduğu düzenli orduya katılmak istemeyen eski bir Kuvayımilliye komutanıdır. İsyan etmesinde dini bir neden olmadığı gibi rejime karşı bir isyan da değildir.

16. **D** Birinci Türkiye Büyük Millet Meclisi 1920-1923 yılları arasında çalışmıştır.

17. **B** Bağımsızlığın kurtarılmasına kadar ulusal birliği parçalamamak adına I. TBMM'de siyasi partiye izin verilmemiştir. Tüm cemiyetlerin birleştirilmesi I. TBMM'nin açılmasından önce Sivas Kongresi'nde gerçekleşmiştir.

18. **E** İrade-i Milliye, daha çok Temsil Heyeti adına çalışmıştır. Ama Hakimiyet-i Milliye, TBMM'nin yarı resmi yayın organı, Anadolu Ajansı ise TBMM'nin haber alma organıdır.

19. **D** I. TBMM'nin açılış konuşmasına yapan Sinop Milletvekili Şerif Bey'dir.

20. **E** Ahmet Anzavur Balıkesir, Manyas ve Bandırma civarında başlattığı ayaklanmalarıyla İstanbul ve boğazlara tampon bir bölge oluşturmuş ve Kuvaimilliye hareketinin ilerlemesine engel olmuştur. Bu nedenle de itilaf devletlerinin desteğini de almıştır.

MURAT YAYINLARI

/muratyayincilik

TBMM Dönemi • TEST 36

1. **Aşağıdakilerden hangisi Osmanlı Devleti'nin imzaladığı son antlaşma olma özelliğini taşımaktadır?**

A) Sevr
B) Mondros
C) Mudanya
D) Lozan
E) Atina

2. **I. TBMM'nin çıkardığı aşağıdaki kanunlardan hangisi Sevr Antlaşması'nı imzalayan ve onaylayanları da kapsamaktadır?**

A) Firariler Hakkında Kanun
B) Nisab-ı Müzakere Yasası
C) Hıyanet-i Vataniye Kanunu
D) Men-i İsrafat Kanunu
E) Men-i Müskirat Kanunu

3. **Birinci Büyük Millet Meclisi'nde kurulan hükümetler için aşağıdakilerden hangisi kullanılmıştır?**

A) İcra Vekilleri Heyeti
B) Heyet- i Nasiha
C) İrşad Heyeti
D) Heyet-i İlmiye
E) Heyet-i Temsiliye

4. **TBMM'nin hukuki varlığını tanıyan İstanbul hükümeti aşağıdakilerden hangisidir?**

A) Salih Paşa
B) Reşat Hikmet Bey
C) Ali Rıza Paşa
D) Tevfik Bey
E) Damat Ferit Paşa

5. **I. TBMM Binası günümüzde aşağıdakilerden hangisine dönüştürülmüştür?**

A) Kurtuluş Savaşı Müzesi
B) Etnografya Müzesi
C) Anadolu Medeniyetleri Müzesi
D) Güzel Sanatlar Akademisi
E) Cumhuriyet Müzesi

6. **Birinci Büyük Millet Meclisi'ne Mustafa Kemal aşağıdaki şehirlerden hangisinden milletvekili seçilmiştir?**

A) Sivas
B) Erzurum
C) İstanbul
D) Ankara
E) Samsun

7. **I. TBMM'nin ilk Genelkurmay Başkanı aşağıdakilerden hangisidir?**

A) Kazım Karabekir Paşa
B) İsmet Paşa
C) Mustafa Kemal Paşa
D) Ali Fuat Paşa
E) Rauf Paşa

8. **10 Ağustos 1920 tarihli Sevr Barış Antlaşması aşağıdaki hangi İstanbul hükümeti dönemine ait bir belgedir?**

A) Ahmet İzzet Paşa
B) Damat Ferit Paşa
C) Salih Paşa
D) Cemal Paşa
E) Tevfik Bey

MURAT YAYINLARI

9. **I. TBMM'ye karşı Balıkesir,Manyas ve Ulubat yöresinde çıkarılan isyan aşağıdakilerden hangisidir?**

A) Hilafet Ordusu İsyanı
B) Delibaş Mehmet İsyanı
C) Milli Aşireti İsyanı
D) Anzavur İsyanı
E) Koçgiri Aşireti İsyanı

10. **I. TBMM'nin resmi gazetesi aşağıdakilerden hangisi olmuştur?**

A) Ceride-i Resmiye
B) İrade-i Milliye
C) Minber
D) Açıksöz
E) Albayrak

11. **Sevr Barış Antlaşması'nın taslağı;**

I. San Remo Konferansı,
II. Londra Konferansı,
III. Paris Barış Konferansı

belgelerinden hangilerine göre hazırlanmıştır?

A) Yalnız I
B) Yalnız II
C) Yalnız III
D) I ve II
E) II ve III

12. **Aşağıdakilerden hangisi I. TBMM Dönemi'ne çıkarılan yasalar arasında yer almaz?**

A) Teşkilat-ı Esasi'nin kabulü
B) Aşar Vergisi'nin kaldırılması
C) İstiklal Marşı'nın kabulü
D) Ağnam Vergisi'nin 4 katına çıkarılması
E) İstiklal Madalyası

13. **I. TBMM'de Mustafa Kemal'in başkanlığında kurulan grup aşağıdakilerden hangisidir?**

A) Felah-ı Vatan
B) Tesanüt
C) Yeşil Ordu
D) Halk Zümresi
E) Müdafaa-i Hukuk

14. **I. TBMM Dönemi'nde;**

I. kuvvetler birliği,
II. kabine sistemi,
III. meclis hükümeti sistemi

özelliklerinden hangilerine yer verildiği söylenebilir?

A) Yalnız I
B) Yalnız II
C) Yalnız III
D) I ve III
E) I, II ve III

MURAT YAYINLARI

/muratyayincilik

15. **I. TBMM'nde ilk dışişleri bakanı aşağıdakilerden hangisidir?**

A) Bekir Sami Bey
B) Yusuf Kemal Bey
C) İsmet Paşa
D) Fevzi Paşa
E) Rauf Paşa

16. I. Dürrizade Abdullah Efendi'nin Fetvası
II. 24 Nisan Karaları
III. Rıfat Börekçi'nin Fetvası

Yukarıdakilerden hangileri I. TBMM'nin İstanbul hükümetine karşı yürüttüğü faaliyetler arasında yer alır?

A) Yalnız I
B) Yalnız II
C) Yalnız III
D) II ve III
E) I, II ve III

17. I. Sevr Barış Antlaşması
II. İstanbul'un resmi işgali
III. TBMM'nin açılması

Milli Mücadele Dönemi'ne ait belgelerin kronolojik sıralaması aşağıdakilerden hangisidir?

A) I-II-III B) III-II-I C) II-III-I
D) I-III-II E) II-I-III

18. **I. TBMM'nin yaptığı tek inkılap hareketi aşağıdakilerden hangisi olmuştur?**

A) Ankara'nın başkent oluşu
B) Saltanatın kaldırılması
C) Halifeliğin kaldırılması
D) Cumhuriyetin ilanı
E) Halk Fırkası'nın kurulması

19. **İstanbul hükümetinin TBMM'ye karşı İzmit ve Geyve civarında çıkardığı ayaklanma aşağıdakilerden hangisidir?**

A) Çopur Musa İsyanı
B) Şeyh Eşref İsyanı
C) Hilafet Ordusu İsyanı
D) Koçgiri Aşireti İsyanı
E) Anzavur İsyanı

20. **Birinci Büyük Millet Meclisi'nin;**

I. savaşçı,
II. ulusal,
III. kurucu

özelliklerinden hangilerine sahip olduğu söylenebilir?

A) Yalnız I
B) Yalnız II
C) Yalnız III
D) I ve II
E) I, II ve III

MURAT YAYINLARI

Açıklamalar • TEST 36

1. **A** 10 Ağustos 1920'de imzalanan Sevr Barış Antlaşması, Osmanlı tarihinin son antlaşması olmuştur.

2. **C** TBMM, Sevr Antlaşması'nı imzalayan ve onaylayan herkesin vatan haini olduğunu bildirmiş ve bu şahıslar Hıyanet-i Vataniye Kanunu (Vatana İhanet Kanunu) kapsamına girmişlerdir.

3. **A** Birinci Büyük Millet Meclisi'nde kurulan hükümetlere İcra Vekilleri Heyeti adı verilmiştir.

4. **D** TBMM'nin hukuki varlığı İstanbul hükümeti 5 Aralık 1920'de gerçekleşen Bilecik Görüşmesi ile tanımıştır. Bu görüşmede TBMM'nin hukuki varlığını tanıyan Tevfik Bey Hükümeti'dir.

5. **A** I. TBMM Binası 23 Nisan 1981 tarihinden itibaren Kurtuluş Savaşı Müzesi'ne dönüştürülmüştür.

6. **D** Birinci Büyük Millet Meclisi'ne Mustafa Kemal Ankara milletvekili olarak seçilmiştir.

7. **B** I. TBMM'nin ilk Genelkurmay Başkanı İsmet Paşa olmuştur.

8. **B** 10 Ağustos 1920 tarihli Sevr Barış Antlaşması, Damat Ferit Paşa hükümeti dönemine aittir.

9. **D** I. TBMM'ye karşı Balıkesir, Manyas ve Ulubat yöresinde çıkarılan isyan "Anzavur İsyanı"dır.

10. **A** I. TBMM'nin resmi gazetesi, Ceride-i Resmiye'dir.

11. **A** Anlaşma Devletleri Paris Barış Konferansı'nda (18 Ocak 1919) Osmanlı'yı paylaşma konusunda anlaşmazlık yaşadıkları için Osmanlı Devleti'nin barış taslağı San Remo Konferansı'na (18-26 Nisan 1920) göre hazırlanmıştır.

12. **B** Aşar Vergisi'nin kaldırılması 17 Şubat 1925 tarihinde II. TBMM Dönemi'nde gerçekleştirilen yasadır.
Diğer seçeneklerde verilenler I. TBMM Dönemi'nin yasalarındandır.

13. **E** Müdafaa-i Hukuk Grubu, I. TBMM'de Mustafa Kemal'in başkanlığında kurulan gruptur.

14. **D** I. TBMM Dönemi'nde kuvvetler birliğine ve Meclis hükümeti sistemine yer verilmiştir.

15. **A** I. TBMM'nde ilk dışişleri bakanlığı görevini üstlenen kişi Bekir Sami Bey'dir.

16. **D** Ankara Müftüsü Rıfat Börekçi'nin Fetvası ve 24 Nisan Kararları I. TBMM'nin İstanbul hükümetine karşı yürüttüğü faaliyetler arasında yer alır. 24 Nisan Kararları ile TBMM'nin üstünde hiçbir gücün olmadığı kabul edilmiştir.
Dürrizade Abdullah Efendi'nin Fetvası İstanbul hükümetinin TBMM'ye karşı aldığı önlemlerdendir.

17. **C** Milli Mücadele Dönemi'ne ait belgelerden;

I. Sevr Barış Antlaşması (10 Ağustos 1920)
II. İstanbul'un resmi işgali (16 Mart 1920)
III. TBMM'nin açılması (23 Nisan 1920)

buna göre kronolojik sıralaması II-III-I şeklinde olmalıdır.

18. **B** I. TBMM 23 Nisan 1920- 1 Nisan 1923 tarihleri arasında çalışmıştır.
I. TBMM'nin yaptığı tek inkılap hareketi 1 Kasım 1922 tarihinde Saltanatın kaldırılması olmuştur.
Diğer seçeneklerde verilenler II. TBMM Dönemi'nin inkılaplarındandır.

19. **C** İstanbul hükümetinin TBMM'ye karşı İzmit ve Geyve civarında çıkardığı ayaklanma "Hilafet Ordusu İsyanı"dır. İsyanın diğer adı "Kuvayı İnzibatiye Ayaklanması"dır. İsyanı Ali Fuat Paşa'nın komutasındaki Kuvayımilliye unsurları bastırmıştır.

20. **E** Birinci Büyük Millet Meclisi cepheleri yönettiği için "savaşçı meclis" özelliğine sahiptir.
Azınlıklara yer vermediği için "ulusal meclis" özelliğine sahiptir.
Yeni bir anayasası (1921 Anayasası/Teşkilat-ı Esasi) hazırladığı için "kurucu meclis" özelliğine sahiptir.

MURAT YAYINLARI

/muratyayincilik

Muharebeler (Cepheler) Dönemi • TEST 37

1. **Kurtuluş Savaşı Muharebeler Dönemi'nde Doğu Cephesi'nde;**

I. Elviye-i Selase'nin Ruslardan geri alınması,

II. Gümrü Antlaşması'nın imzalanması,

III. Tehcir Kanunu'nun çıkarılması

gibi gelişmelerden hangilerinin yaşandığı söylenebilir?

A) Yalnız I B) Yalnız II C) Yalnız III

D) I ve II E) I, II ve III

2. Kurtuluş Savaşı boyunca İtalya ile Kuvayımilliye arasında sıcak çatışma yaşanmamıştır. Bu durumun temel nedeni İtalya'nın işgal ettiği bölgelerde halka kötü davranmamasıdır.

İtalya'nın bu tutumunda;

I. işgal ettiği yerlerde kalıcı olmak istemesi,

II. ekonomik çıkarlarını korumak istemesi,

III. müttefikleriyle anlaşmazlıklar yaşaması

yukarıdakilerden hangileri etkili olmuştur?

A) Yalnız II B) Yalnız III C) I ve II

D) II ve III E) I, II ve III

3. **I. TBMM tarafından 20 Ocak 1921'de kabul edilen Teşkilat-ı Esasiye, hangi gelişme sonrasında meclise gelmiş ve kabul edilmiştir?**

A) Kütahya-Eskişehir Savaşı

B) I. İnönü Savaşı

C) Başkomutanlık Kanunu

D) Tekalif-i Milliye Emirleri

E) Saltanatın kaldırılması

4. **TBMM'nin diplomatik ilişkiler kurduğu ilk devlet ile Sevr'in tanıdığı haklardan vazgeçen ilk devlet aşağıdakilerden hangisinde doğru eşleştirilmiştir?**

A) Rusya-Ermenistan

B) Gürcistan-Ermenistan

C) Rusya-İtalya

D) Ermenistan-Ermenistan

E) Rusya-Gürcistan

5. **TBMM'nin Londra Konferansı'na katılmasına;**

I. Rusya'nın yardımını alabilmek,

II. Saldırı savaşı için zaman kazanmak,

III. Misakımilli Kararları'nı dünyaya duyurmak

amaçlarından hangisini gerçekleştirmek olduğu söylenebilir?

A) Yalnız I B) Yalnız II C) Yalnız III

D) I ve II E) II ve III

6. **Sovyet Rusya ile TBMM arasında Moskova Antlaşması'nın imzalanmasında;**

I. Gümrü Antlaşması'nın imzalanması,

II. I. İnönü Savaşı'nın kazanılması,

III. II. İnönü Savaşı'nın kazanılması,

IV. Ankara Antlaşması'nın imzalanması

gibi gelişmelerden hangilerinin etkili olduğu söylenebilir?

A) Yalnız II B) I ve II C) II ve III

D) III ve IV E) I, II ve IV

MURAT YAYINLARI

7. I. İnönü Savaşı'ndan sonra Anadolu'daki isyanlar son bulmaya başlamış ve orduya katılımlar artmıştır.

Aşağıdakilerden hangisi bu durumun ortaya çıkardığı sonuçlardan biridir?

A) Hıyanet-i Vataniye Kanunu çıkarılmıştır.
B) Firariler Hakkında Kanun hazırlanmıştır.
C) İstiklal Mahkemeleri'nin Ankara dışındaki şubeleri kapatılmıştır.
D) Tekalifimilliye Emirleri yayınlanmıştır.
E) Kuvayi İnzibatiye birlikleri oluşturulmuştur.

8. **Aşağıda verilen muharebelerden hangisi TBMM'nin kurduğu düzenli ordunun henüz taarruz gücüne ulaşmadığına kanıt olarak gösterilebilir?**

A) Gediz Taarruzu
B) Büyük Taarruz
C) Gümrü Harekatı
D) Başkomutanlık Meydan Muharebesi
E) Aslıhanlar-Dumlupınar Taarruzu

9. **Aşağıdakilerden hangisi Türk ordusunun Sakarya'nın doğusuna çekilmesinden sonra görülen gelişmelerden değildir?**

A) TBMM'nin Mustafa Kemal'e Başkomutanlık yetkisini vermesi
B) Doğu'da Ermeni saldırılarının yeniden başlaması
C) Halkın elinde bulunan bütün silah ve cephanenin ordu emrine verilmesinin yasallaşması
D) Fransa'nın TBMM ile başlattıkları barış görüşmelerini askıya almaları
E) Ankara dışında kapatılan İstiklal Mahkemeleri'nin yeniden açılması

10. **Milli mücadele sırasında Fransa ile yapılan Ankara Antlaşması'nda;**

- İskenderun ve Hatay'da özel yönetim kurulacak,
- Bölgede resmi dil Türkçe olacak,
- Bölge halkının kültürel gelişimi için kolaylık gösterilecek

gibi maddeler yer almıştır.

Fransa'nın yukarıdaki maddeleri kabul etmesi aşağıdakilerden hangisi ile açıklanabilir?

A) Bölge, Anadolu'nun bir uzantısı olarak kabul edilmiştir.
B) Fransa bölge üzerindeki haklarından vazgeçmiştir.
C) Bağımsız bir Hatay Cumhuriyeti'nin kurulması halk oylamasına bağlanmıştır.
D) Özerkliğin belli bir süre için geçerli olması kabul edilmiştir.
E) Tanınan haklar Anadolu'da ulus iradesine katkı sağlamıştır.

11. **Yunan ordusunun saldırı gücünün kırıldığı ve Türk Ordusu'nun taarruzuna ortam hazırlayan savaş aşağıdakilerden hangisidir?**

A) Gediz Taarruzu
B) I. İnönü Savaşı
C) Kütahya-Eskişehir Savaşı
D) Sakarya Meydan Muharebesi
E) Büyük Taarruz

12. I. 1921 Ankara Antlaşması
II. Tekalif-i Milliye Emirleri'nin yayımlanması
III. Kars Antlaşması

Yukarıda verilen gelişmelerin hangisinin yaşanmasında Batı Cephesi'nde kazanılan zaferlerin etkisi olduğu söylenebilir?

A) Yalnız I B) Yalnız II C) Yalnız III
D) I ve III E) II ve III

MURAT YAYINLARI

/muratyayincilik

13. I. Ankara dışında kapatılan İstiklal Mahkemeleri'nin yeniden açılması
II. Meclis merkezinin Kayseri'ye taşınması fikri
III. Asker kaçaklarının ve casusluk faaliyetlerinin artması

Yukarıdakilerden hangilerine Kütahya-Eskişehir Muharebeleri'nin zemin hazırladığı söylenebilir?

A) Yalnız I B) Yalnız II C) Yalnız III
D) I ve II E) I, II ve III

14. **Aşağıdakilerden hangisinden sonra Mustafa Kemal ilk kez Başkomutanlık yetkisini almıştır?**

A) Eskişehir-Kütahya Savaşı
B) Tekalif-i Milliye Emirleri
C) I. İnönü Savaşı
D) Gediz Taarruzu
E) Sakarya Meydan Muharebesi

15. **Mustafa Kemal** "Vatanın bağrına düşman dayasın hançerini, Bulunur kurtaracak bahtı kara maderini." **sözünü aşağıdaki hangi savaştan sonra söylemiştir?**

A) Eskişehir-Kütahya Savaşı
B) I. İnönü Savaşı
C) Sakarya Meydan Muharebesi
D) Büyük Taarruz
E) II. İnönü

16. **Aşağıdakilerden hangisi Milli Mücadele Dönemi'nde Anadolu'ya açılan en önemli ikmal limanıdır?**

A) Antalya B) Alanya C) İnebolu
D) İzmir E) İskenderun

17. **Milli Mücadele Dönemi'nde yaşanan Koçgiri Aşireti İsyanı aşağıdakilerden hangisinin çıkmasında etki etmiştir?**

A) Sakarya Meydan Muharebesi'ne
B) II. İnönü Savaşı'na
C) Gediz Taarruzu'na
D) I. İnönü Savaşı'na
E) Gümrü Harekatı'na

18. **Milli Mücadele Dönemi'nin 22 gün 22 gece süren savaşı aşağıdakilerden hangisidir?**

A) Büyük Taarruz
B) I. İnönü Savaşı
C) Başkomutanlık Meydan Muharebesi
D) Gümrü Harekatı
E) Sakarya Meydan Muharebesi

19. **TBMM tarafından unvan verilen ilk şehir aşağıdakilerden hangisidir?**

A) Maraş B) Antep C) Kastamonu
D) Urfa E) Ankara

20. **Aşağıdakilerden hangisi Yunanlar tarafından** "Küçük Asya Felaketi" **olarak adlandırılmıştır?**

A) Eskişehir-Kütahya Muharebeleri
B) I. İnönü Savaşı
C) Sakarya Meydan Muharebesi
D) Başkomutanlık Meydan Muharebesi
E) II. İnönü Savaşı

MURAT YAYINLARI

Açıklamalar • TEST 37

1. **B** Elviye-i Selase'nin Ruslardan geri alınması ve Tehcir Kanunu'nun çıkarılması, Kafkas cephesinde I. Dünya Savaşı esnasında gerçekleşmiştir. Gümrü Antlaşması'nın imzalanması ise Kurtuluş Savaşı'nda Doğu Cephesi'nde gerçekleşmiştir.

2. **E** Paris Barış Konferansı'nda İtilaf Devletleri arasında ilk görüş ayrılıkları ortaya çıkmış, İzmir'in işgal hakkının kendisinden alınıp Yunanistan'a verilmesi nedeniyle İtalya'nın müttefikleriyle arası açılmıştır. Ayrıca İtalya I. Dünya Savaşı'ndan kazanımla ayrılmak istediği için işgal ettiği bölgelerde kalıcı olmayı ve böylece ekonomik çıkarlarını korumayı hedeflemiştir. Bu nedenlerle İtalya'nın işgal ettiği bölgelerde halka kötü davranmadığı görülür.

3. **B** 6-11 Ocak 1921'de yaşanan I. İnönü Savaşı sonrasında, yeni devletin ihtiyaçlarını karşılamak amacıyla Teşkilat-ı Esasiye kabul edilmiştir.

4. **A** TBMM'nin diplomatik ilişkiler kurduğu ilk devlet Sovyet Rusya, Sevr'in tanıdığı haklardan vazgeçen ilk devlet Ermenistan'dır.

5. **C** I. İnönü Savaşı sonrasında gerçekleştirilen ilk barış görüşmesi Londra Konferansı'na İstanbul Hükümeti'nin de davet edilmesine karşı TBMM konferansa katılarak Misakımilli Kararları'nı duyurmayı amaçlamıştır.

6. **B** Moskova Antlaşması'nın imzalanmasında, Doğu Cephesi'nin Gümrü Antlaşması ile kapanması ve Batı Cephesi'nde Yunan kuvvetlerine karşı I. İnönü Savaşı'nın kazanılması etkili olmuştur.

7. **C** TBMM'ye karşı çıkan isyanları bastırmak için Hıyanet-i Vataniye Kanunu'nu uygulamak ve asker kaçaklarını yargılamak için Firariler Kanunu'nu (Her iki kanun da I. İnönü Savaşı'ndan önce çıkarılmıştır.) uygulamak göreviyle ilk kez kurulan İstiklal Mahkemeleri isyanların son bulması ile I. İnönü Savaşı sonunda Ankara dışında kapatılmıştır.

8. **E** II. İnönü Savaşı'ndan sonra Refet Paşa güneydeki Yunan kuvvetlerini yok etmek için Aslıhanlar Dumlupınar istikametine doğru saldırıya geçmiş ancak saldırı başarısızlıkla sonuçlanmıştır. Bu saldırı Türk ordusunun, saldırı gücüne ulaşmadığını göstermiştir.

9. **B** Türk ordusunun Sakarya'nın doğusuna çekilmesi Kütahya Eskişehir Savaşı esnasında gerçekleşmiştir. Başkomutanlık Yasası'nın çıkarılması Tekalifimilliye Emirleri'nin yayımlanarak halkın elinde bulunan bütün silah ve cephanenin ordu emrine verilmesinin yasallaşması ile emirleri uygulaması için Ankara dışında kapatılan İstiklal Mahkemeleri'nin yeniden açılması, Fransa'nın II. İnönü Savaşı sonucunda gönderdiği barış heyetini geri çekmesi Kütahya-Eskişehir Savaşı'nın sonucudur. Ancak 1920 Gümrü Antlaşması'nın imzalanmasından sonra doğuda yeni bir Ermeni saldırısı görülmemiştir.

10. **A** Ankara Antlaşması'nda Hatay - İskenderun bölgesi ile ilgili alınan kararlar bölgenin Anadolu'nun kültürel ve coğrafi uzantısı kabul edildiğinin kanıtıdır.

MURAT YAYINLARI

/muratyayincilik

11. **D** Anadolu'da saldırı ve savunma konusunda rollerin değişmesine sebep olan savaş, Sakarya Meydan Muharebesi'dir. Böylelikle bu döneme kadar saldıran Yunan ordusu savunma durumuna, kendini savunan Türk Ordusu ise saldırı durumuna geçmiştir.

12. **D** Batı Cephesi'nde kazanılan Sakarya Savaşı sonrasında Fransa ile Ankara, Kafkas Cumhuriyetleri (Azerbaycan, Ermenistan, Gürcistan) ile Kars Antlaşması yapılmıştır. Tekalif-i Milliye Emirleri, Kütahya-Eskişehir yenilgisi sonrası yayımlanmıştır.

13. **E** Milli Mücadele Dönemi'nde düzenli ordunun Kütahya-Eskişehir Muharebeleri'ni kaybetmesinden sonra meclis merkezinin Kayseri'ye taşınması fikri gündeme gelmiştir.
Savaşın kaybedilmesinden sonra asker kaçaklarının ve casusluk faaliyetlerinin artması gibi çeşitli nedenlerden dolayı Ankara dışında kapatılan İstiklal Mahkemeleri'nin yeniden açılmıştır.

14. **A** Mustafa Kemal, Başkomutanlık yetkisini, Eskişehir-Kütahya Muharebesi (10-24 Temmuz 1921) sonrasında 5 Ağustos 1921 tarihinde almıştır.

15. **B** Mustafa Kemal, I. İnönü Savaşı'ndan (6-10 Ocak 1921) sonra Namık Kemal'in "Vatanın bağrına düşman dayadı hançeri, Yok mudur kurtaracak bahtı kara maderini" sözlerini hatırlatıp "Vatanın bağrına düşman dayasın hançerini, Bulunur kurtaracak bahtı kara maderini." sözünü söylemiştir.

16. **C** Milli Mücadele Dönemi'nde İnebolu Limanı Anadolu'ya açılan en önemli ikmal limanı olmuştur.

17. **B** II. İnönü Savaşı'ndan hemen önce Doğu Anadolu'da Koçgiri Aşireti İsyanı'nın çıkması, Yunanların bunu fırsat görüp yeniden TBMM düzenli ordularına saldırmasına (II. İnönü Savaşı'na) neden olmuştur.

18. **E** Milli Mücadele Dönemi'nde 22 gün 22 gece süren savaş, Sakarya Meydan Muharebesi'dir. (23 Ağustos-13 Eylül 1921)

19. **B** TBMM tarafından unvan verilen ilk şehir Antep olmuştur. Antep'e "Gazilik" unvanı 8 Şubat 1921 tarihinde verilmiştir.

20. **D** Yunanlar Büyük Taarruz ve Başkomutanlık Meydan Muharebesi sonucunda İzmir'den çıkmışlardır. Kaybettikleri bu savaşı Yunanlar "Küçük Asya Felaketi" olarak adlandırmıştır.

MURAT YAYINLARI

Muharebeler (Cepheler) Dönemi • TEST 38

1. **Aşağıdakilerden hangisi Kurtuluş Savaşı'nın kazanılmasında kullanılan kaynaklardan değildir?**

A) Tekâlif-i Milliye Emirleri
B) Yeni konulan vergiler
C) Yabancı ülke halklarından gönderilen yardımlar
D) İtalya ve Fransa'dan alınan borçlar
E) Düyun-ı Umumiye'nin gelirlerine el konulması

2. I. Yunan ordusunun Trakya'da ve Anadolu'da işgal alanlarını genişletmesi
II. Gediz Taarruzu'nun başarısız olması
III. Kuvayimilliyenin Milli Mücadele'nin başarısını tam anlamıyla sağlayamaması

Milli Mücadele Dönemi'nde yukarıdakilerden hangileri düzenli ordunun kurulmasını zorunlu kılmıştır?

A) Yalnız I
B) Yalnız II
C) Yalnız III
D) II ve III
E) I, II ve III

3. **Milli Mücadele Dönemi'nde;**
I. I. İnönü,
II. II. İnönü,
III. Sakarya

savaşlarından hangilerinden sonra Sevr Antlaşması şartlarının gözden geçirilerek barış yapılması teklifi yapılmıştır?

A) Yalnız I
B) Yalnız II
C) Yalnız III
D) I ve III
E) I, II ve III

4. **Aşağıdakilerden hangisi Milli Mücadele Dönemi'nin kuvayımilliyecileri arasında yer almaz?**

A) Topal Osman
B) Rıdvan Efendi
C) Yahya Kaptan
D) Süleyman Şefik
E) Sütçü İmam

5. Mustafa Kemal mecliste yaptığı konuşmada "Zavallı milletimizi tutsak etmek isteyen düşmanları yüzde yüz yeneceğimize olan inanç ve güvenim bir dakika olsun sarsılmamıştır. Bu dakikada bu tam inancımı yüksek kurulunuza karşı bütün millete ve bütün dünyaya ilan ederim." ifadelerini kullanmıştır.

Mustafa Kemal'in bu konuşmayı aşağıdaki savaşlardan hangisinden sonra yaptığı savunulabilir?

A) Sakarya Savaşı
B) Kütahya Eskişehir Savaşı
C) I. İnönü Savaşı
D) Büyük Taarruz
E) II. İnönü Savaşı

6. Misakımilli'ye göre Türk ve Müslüman ahalinin çoğunlukta olduğu bölgelerde Osmanlı hakimiyeti devam edecektir.

Buna göre;
I. Moskova Antlaşması,
II. 1921 Ankara Antlaşması,
III. Mudanya Ateşkes Anlaşması

maddeleri düşünüldüğünde yukarıdakilerden hangilerinin Misakımilli'ye aykırı içeriğe sahip olduğu söylenebilir?

A) Yalnız I B) Yalnız II C) I ve II
D) I ve III E) II ve III

MURAT YAYINLARI

/muratyayincilik

7. Kurtuluş Savaşı'nda Mustafa Kemal, orduyu savaşa hazırlamak için meclisin verdiği yetkilerle Tekalifimilliye Emirleri'ni yayınlamıştır.

Bu emirler;

I. rejim değişikliği,
II. sıkıyönetim,
III. genel seferberlik

durumlarından hangilerine hazırlık olduğunu gösterir?

A) Yalnız II B) Yalnız III C) I ve III
D) II ve III E) I, II ve III

8. **Aşağıdakilerden hangisi I. İnönü Zaferi'nin uluslararası kazanımlarından değildir?**

A) Londra Konferansı
B) Moskova Antlaşması
C) Teşkilat-ı Esasiye
D) Afganistan ile Dostluk Antlaşması
E) İtilaf Devletleri'nin TBMM'yi tanıması

9. I. Kütahya-Eskişehir
II. Sakarya
III. I.İnönü

Yukarıda verilen savaşlardan hangileri ile İtilaf Devletleri'nin Anadolu'daki varlığı tartışmalı hale gelmiştir?

A) Yalnız I B) Yalnız II C) I ve II
D) II ve III E) I, II ve III

10. **Milli Mücadele Dönemi'nin;**

I. Birinci İnönü,
II. Sakarya,
III. Büyük Taarruz

savaşlarından hangilerine İsmet Paşa Batı Cephesi Komutanı olarak katılmıştır?

A) Yalnız I B) Yalnız II C) I ve III
D) II ve III E) I, II ve III

11. **Kurtuluş Savaşı sırasında gerçekleşen;**

I. Ankara Antlaşması,
II. Gümrü Antlaşması,
III. Gediz Taarruzu

gibi gelişmelerin kronolojik sıralaması hangisinde doğru olarak verilmiştir?

A) I - II - III B) II - I - III C) I - III - II
D) III - II - I E) II - III - I

12. **Mustafa Kemal,**

I. I. İnönü,
II. Eskişehir - Kütahya,
III. Sakarya,
IV. Büyük Taarruz

savaşlarından hangilerinde Başkomutan olarak yer almıştır?

A) Yalnız III B) I ve II C) III ve IV
D) II, III ve IV E) I, II, III ve IV

13. I. Sakarya Savaşı
II. Kütahya Eskişehir Savaşı
III. II. İnönü Savaşı

Yukarıda verilenlerden hangilerinin sonrasında savaş esirleri ile ilgili düzenleme yapılmıştır?

A) Yalnız I B) Yalnız II C) I ve III
D) II ve III E) I, II ve III

14. **Gümrü Antlaşması ile aşağıdaki belgelerden hangisinin geçersiz kabul edildiği söylenebilir?**

A) Misakımilli Kararları
B) 24 Nisan Önergesi
C) Amasya Genelgesi
D) Sevr Barış Antlaşması
E) Moskova Antlaşması

MURAT YAYINLARI

15. **Milli Mücadele Dönemi'nde Antep Savunması'nda yer alan kuvayımilliyeci aşağıdakilerden hangisidir?**

A) Şahin Bey
B) Ali Saip
C) Sütçü İmam
D) Yörük Ali Efe
E) Topal Osman

16. **Milli Mücadele Dönemi'nde kullanılan İstiklal Yolu'nun başlangıç ve bitiş yeri aşağıdakilerden hangisidir?**

A) İnebolu-Eskişehir
B) Ankara-İzmir
C) İnebolu-Ankara
D) İstanbul-Bursa
E) Ankara-Erzurum

17. **Aşağıdakilerden hangisi Moskova Antlaşması'nda yer alan konulardan biri değildir?**

A) Kapitülasyon hakları
B) Batum
C) Haberleşme ağı
D) Misak-ı Milli
E) Boğazlar

18. **Milli Mücadele Dönemi'nde Yunanlar tarafından "Taarruz-u Keşif" olarak nitelendirilen savaş aşağıdakilerden hangisidir?**

A) II. İnönü Savaşı
B) Sakarya Meydan Muharebesi
C) I. İnönü Savaşı
D) Eskişehir-Kütahya Muharebeleri
E) Başkomutanlık Meydan Muharebesi

19. **Türk Ordusunun 1683 yılındaki II. Viyana Kuşatması'ndan beri Batıdaki geri çekilmesi aşağıdakilerden hangisi ile son bulmuştur?**

A) Gediz Taarruzu
B) Başkomutanlık Meydan Muharebesi
C) II. İnönü Savaşı
D) Eskişehir-Kütahya Savaşı
E) Sakarya Meydan Muharebeleri

20. **Milli Mücadele Dönemi'nde Fevzi Paşa aşağıdaki savaşlardan hangisinden sonra Genelkurmay Başkanlığı görevine getirilmiştir?**

A) I. İnönü Savaşı
B) Başkomutanlık Meydan Muharebesi
C) Eskişehir-Kütahya Muharebeleri
D) Sakarya Meydan Muharebesi
E) II. İnönü Savaşı

MURAT YAYINLARI

/muratyayincilik

Açıklamalar • TEST 38

1. **D** Kurtuluş Savaşı sürecinden dış borçlanmaya gidilmemiş, sadece yapılan yardımlar kabul edilmiştir.

2. **E** Düzensiz birlikler olan Kuvayımilliye'nin Milli Mücadele'nin başarısını tam anlamıyla sağlayamaması, Yunan ilerleyişinin durdurulamaması ve işgal alanının genişlemesi düzenli orduya ihtiyacı arttırmış, Gediz yenilgisi ise ordunun kuruluşunu hızlandırmıştır.

3. **D** I. İnönü Savaşı'ndan sonra itilaf devletleri TBMM'yi bir barış teklifinin yapıldığı Londra Konferansı'na davet etmişler, Sakarya Savaşı'ndan sonra bir ateşkes ve bir barış teklifi göndermişlerdir.

4. **D** Süleyman Şefik, Milli Mücadele Dönemi'nde İstanbul hükümeti tarafından kurulan Hilafet Ordusu'nun komutanıdır.
Diğer seçeneklerde verilenler Milli Mücadele Dönemi'nin kuvayımilliyecileri arasında yer almıştır.

5. **B** Yaşanan yenilgiye rağmen güvenin ve umudun kaybedilmemesine yönelik bu konuşmayı Mustafa Kemal düzenli ordunun tek yenilgisi olan Kütahya - Eskişehir Savaşı'ndan sonra yapmıştır.

6. **C** Sovyet Rusya ile yapılan Moskova Antlaşması ile Batum'un Gürcistan'a bırakılması ve Fransa ile yapılan Ankara Antlaşması ile Hatay'ın Suriye'ye bırakılması, Misakımilli'den taviz verildiğinin ifadeleridir.

7. **B** Tekalifi Milliye Emirleri genel seferberlik ilanıdır. Emirlerin rejim değişikliği ve sıkıyönetim ilanı ile ilgisi yoktur.

8. **C** I. İnönü Savaşı sonrasında kabul edilen Teşkilat-ı Esasi, Yeni Türk Devleti'nin ilk anayasasıdır. Uluslararası bir başarı olarak değerlendirilemez. Devlet teşkilatlanması adına atılmış bir adımdır.

9. **D** TBMM'nin Sakarya ve I. İnönü Savaşları'nı kazanması İtilaf Devletleri'nin Anadolu'daki varlığını tartışmalı hale getirmiştir.

10. **E** Gediz Taarruzu'ndan sonra Batı Cephesi Komutanlığı görevine getirilen İsmet Paşa; I. ve II. İnönü, Eskişehir-Kütahya, Sakarya ve Büyük Taarruz Savaşları'nın tümünde bu görevi üstlenmiştir.

11. **D** III. Gediz Taarruzu 24 Ekim 1920'de,
II. Gümrü Antlaşması 2-3 Aralık 1920,
I. Ankara Antlaşması 20 Ekim 1921'de gerçekleşmiştir.

12. **C** Mustafa Kemal Başkomutan olarak Sakarya Savaşı'nda ve Büyük Taarruz'a yer almıştır.

13. **C** Malta'daki Türk esirlerin 40 tanesi II. İnönü Savaşı sonucunda, tamamı ise Sakarya Savaşı sonucunda serbest bırakılmıştır.

14. **D** Doğu Cephesi'nde kazanılan zaferler sonrasında Ermenistan ile TBMM arasında 3 Aralık 1920'de Gümrü Antlaşması imzalanmış ve Ermenistan, Sevr ile kendisine bırakılan topraklardaki haklarından vazgeçmiştir.

15. **A** Milli Mücadele Dönemi'nde Antep Savunması'nda yer alan kuvayımilliyeci "Şahin Bey"dir.

16. **C** Milli Mücadele Dönemi'nde kullanılan İstiklal Yolu'nun başlangıç yeri İnebolu, bitiş yeri Ankara'dır. İstiklal Yolu'nun tamamı İnebolu-Kastamonu-Ilgaz-Çankırı-Ankara hattıdır.

17. **C** Moskova Antlaşması'nda haberleşme ağı ile ilgili herhangi bir karar alınmamıştır. Diğer seçeneklerde verilenler Moskova Antlaşması'nda yer alan konulardandır.

18. **C** Milli Mücadele Dönemi'nde Yunanlar tarafından "Taarruz-u Keşif" olarak nitelendirilen savaş I. İnönü Savaşı'dır.

19. **E** Türk Ordusunun 1683 yılındaki II. Viyana Kuşatması'ndan beri Batıdaki geri çekilmesi Sakarya Meydan Muharebesi ile son bulmuştur.

20. **C** İsmet Paşa Eskişehir-Kütahya Muharebeleri sonucunda, Genelkurmay Başkanlığı görevinden alınıp yerine bu göreve Fevzi Paşa getirilmiştir.

MURAT YAYINLARI

Muharebeler (Cepheler) Dönemi • TEST 39

1. **Aşağıdakilerden hangisi TBMM tarafından kurulan düzenli ordunun amaçlarından biri değildir?**

A) Sovyet Rusya'nın desteğini sağlamak
B) Tam bağımsızlığı sağlamak
C) Ulusal birliği kurmak
D) Misakımilli sınırlarını korumak
E) Halkın desteğini almak

2. **Milli Mücadele Dönemi'nde;**

I. Büyük Taarruz,
II. II. İnönü,
III. Sakarya

savaşlarından hangilerinden sonra Anlaşma Devletleri arasında görüş ayrılıklarının yaşandığı söylenebilir?

A) Yalnız I B) Yalnız III C) I ve III
D) II ve III E) I, II ve III

3. **TBMM ile İstanbul Hükümeti temsilcilerinin birlikte bulunduğu toplantı aşağıdakilerden hangisidir?**

A) Paris Barış Konferansı
B) San Remo Konferansı
C) Lozan Görüşmeleri
D) Londra Konferansı
E) Mudanya Görüşmeleri

4. I. Kut'ül Amare Savaşı - Birinci Dünya Savaşı
II. Kütahya Eskişehir Savaşları - Kurtuluş Savaşı
III. Derne - Tobruk Savaşları - Trablusgarp Savaşı

Yukarıdakilerden hangileri "Türk tarihi için bir savaşın kaybedilmesi savaşın tümden kaybedilmesine neden olmaz" **yargısını doğrulamaktadır?**

A) Yalnız I B) Yalnız II C) Yalnız III
D) II ve III E) I, II ve III

5. **Aşağıdakilerden hangisinin II. İnönü Savaşı'nın sonuçları arasında yer aldığı söylenemez?**

A) İtalyanların Anadolu'yu boşaltmaya başlaması
B) Koçgiri Aşireti İsyanı'nın bastırılması
C) Fransa'nın Zonguldak'ı boşaltması
D) İtilaf Devletleri'nin TBMM'ye barış teklif etmesi
E) Malta sürgünlerinin bir kısmının serbest bırakılması

6. "Hatt-ı Müdafaa yoktur, Sath-ı Müdafaa vardır." **ilkesi ile mücadele verilen savaş aşağıdakilerden hangisidir?**

A) I. İnönü
B) II. İnönü
C) Kütahya-Eskişehir
D) Sakarya
E) Başkomutanlık

7. **Milli Mücadele Dönemi'nde aşağıdaki savaşlardan hangisi Yunanların** "Üçüncü Taarruzu"**dur?**

A) I. İnönü
B) Eskişehir-Kütahya
C) Gediz
D) Sakarya
E) II. İnönü

8. I. Gümrü Antlaşması
II. Moskova Antlaşması
III. Londra Konferansı

Yukarıdakilerden hangilerinde TBMM'yi Kazım Karabekir Paşa temsil etmiştir?

A) Yalnız I B) I ve II C) Yalnız III
D) II ve III E) I, II ve III

MURAT YAYINLARI

/muratyayincilik

9. I. Mustafa Kemal'in Başkomutanlık süresinin sınırsız uzatılması
II. Sakarya Zaferi
III. Yunanistan'da hükümet değişikliği

Yukarıdakilerden hangileri Başkomutanlık Meydan Muharebesi öncesinde gerçekleştirilmiştir?

A) Yalnız I B) I ve III C) Yalnız III
D) I ve II E) II ve III

10. "Her evresi ile düşünülmüş, hazırlanmış, yönetilmiş ve zaferle sonuçlandırılmış olan bu savaşlar Türk ordusunun, Türk subaylarının ve Türk komutanlarının yüksek güçlerinin ve yiğitliklerini tarihte bir daha saptayan ulu bir anıttır."

Mustafa Kemal yukarıda verilen sözü hangi savaş için söylemiştir?

A) Sakarya Savaşı
B) Kütahya Eskişehir Savaşı
C) II. İnönü Savaşı
D) Büyük Taarruz
E) I. İnönü Savaşı

11. I. Bir İtilaf Devleti'nin TBMM'yi tanıması
II. Misakımilli'nin uluslararası platformda dile getirilmesi
III. İsmet Paşa'nın ilk diplomatik etkinliğini gerçekleştirmesi

Yukarıdakilerden hangileri ilk kez Büyük Taarruz sonrasında ortaya çıkan gelişmelerdendir?

A) Yalnız III B) I ve II C) II ve III
D) I ve III E) I, II ve III

12. **Milli Mücadele Dönemi'ne ait aşağıdaki antlaşmalardan hangisi I. İnönü Savaşı'nın kazanımları arasında yer alır?**

A) Kars Antlaşması
B) Anzavur İsyanı'nın bastırılması
C) Gümrü Antlaşması
D) Mudanya Ateşkes Antlaşması
E) Demirci Mehmet Efe İsyanı'nın bastırılması

13. **I. İnönü Savaşı'ndan sonra, Anlaşma Devletleri'nin, Londra Konferansı'nı düzenlemelerinde;**
I. TBMM'nin, güçlenmesinden endişe duymaları,
II. Misakımilli'yi tanımaları,
III. Moskova Antlaşması'nın imzalanmış olması

unsurlarından hangilerinin etkili olduğu savunulabilir?

A) Yalnız I B) Yalnız II C) Yalnız III
D) I ve II E) I, II ve III

14. **20 Ekim 1921 tarihinde Fransızlarla imzalanan Ankara Antlaşması'nda Türk tarafı;**
- İskenderun ve Antakya için Türk dilinin resmi bir dil olarak kabul edilmesi
- Hatay'da yaşayan Türk halkı için özel bir yönetim hakkının verilmesi
- Genel af ilan edilmesi

gibi maddelerin yer alması için özel bir çaba sarf etmişti.

Bu bilgiye dayanarak aşağıdakilerden hangisine ulaşılamaz?

A) Türk varlığı hukuki teminat altına alınmak istenmiştir.
B) Bölgenin Anadolu'nun coğrafi uzantısı olduğu savunulmuştur.
C) Bölge halkının Türklüğünü unutmaması hedeflenmiştir.
D) Türk kültürünün korunması antlaşmalarla sağlanmıştır.
E) İskenderun halkı, Fransız mandasını kabul etmiştir.

MURAT YAYINLARI

15. **I. İnönü Savaşı'ndan sonra düzenlenen Londra Konferansı'nda aşağıdakilerden hangisi yer almamıştır?**

A) TBMM
B) İtalya
C) Osmanlı Devleti
D) Sovyet Rusya
E) Fransa

16. **Aşağıdakilerden hangisi Sakarya Meydan Muharebesi'nin sonuçlarından biri değildir?**

A) TBMM-Ukrayna Dostluk Antlaşması
B) Paris Mükerreratı
C) TBMM-İngiltere Esir Mübadelesi Antlaşması
D) Kars Antlaşması
E) TBMM-Afganistan Dostluk Antlaşması

17. **Milli Mücadele Dönemi'nde TBMM'nin hukuki varlığını tanıyan ilk devlet aşağıdakilerden hangisidir?**

A) Gürcistan B) Ermenistan
C) Sovyet Rusya D) İtalya
E) Fransa

18. I. İstiklal Marşı'nın kabulü
II. Tekalif-i Milliye Emirleri
III. 1921 Anayasa'nın kabulü

Yukarıdakilerin kronolojik sırlaması hangisidir?

A) I-II-III B) II-III-I C) III-I-II
D) I-III-II E) II-I-III

19. **Aşağıdakilerden hangisi Milli Mücadele Dönemi'nin kuvayımilliyecilerinden biri değildir?**

A) Gördesli Makbule
B) Kara Fatma
C) Halide Edip
D) Şerife Bacı
E) Nene Hatun

20. **Mustafa Kemal Paşa;** "Ordular, ilk hedefiniz Akdeniz'dir. İleri!" **komutunu aşağıdaki savaşlardan hangisinde söylemiştir?**

A) Büyük Taarruz
B) II. İnönü Savaşı
C) Eskişehir-Kütahya Muharebeleri
D) Sakarya Meydan Muharebesi
E) I. İnönü Savaşı

MURAT YAYINLARI

/muratyayincilik

Açıklamalar • TEST 39

1. **A** TBMM tarafından kurulan düzenli ordunun amacı milli sınırlar içinde tam bağımsız Türk Devleti kurmaktır. Sovyet Rusya'nın desteğini almak için kurulması söz konusu olamaz.

2. **E** TBMM düzenli ordusunun kazandığı II. İnönü Savaşı'ndan sonra İtilaf Devletleri arasında görüş ayrılıkları başlamıştır. İtilaf güçlerinin kendi aralarındaki görüş ayrılıkları Sakarya Savaşı ve Büyük Taarruz sonucunda da devam etmiştir.

3. **D** İtilaf Devletleri I. İnönü Savaşı sonrasında düzenlenen Londra Konferansı'na ikilik yaratma amacıyla İstanbul Hükümeti ve TBMM'yi birlikte davet etmişlerdir.

4. **B** Osmanlı Kut'ül Amare'de başarılı olmasına rağmen Irak'ı, Derne ve Tobruk'ta elde edilen başarıya rağmen Trablusgarp'ı kaybetmiştir. Bu örnekler verilen yargının aksini kanıtlar. Kütahya Eskişehir Savaşı'nda başarılı olunamamasına rağmen Kurtuluş Savaşı kazanılmıştır.

5. **D** İtilaf Devletleri TBMM'ye I. İnönü ve Sakarya savaşları sonucunda barış teklif etmiştir. Diğer seçenekler verilenler II. İnönü Savaşı'nın arasında yer almıştır.

6. **D** Mustafa Kemal, başkomutan göreviyle bu emri düzenli ordunun son savunma savaşı olan Sakarya Meydan Muharebesi'nde vermiştir.

7. **B** Milli Mücadele Dönemi'nde Yunanların ilk taarruzu I. İnönü Savaşı'dır. İkinci taarruzları II. İnönü Savaşı'dır. Üçüncü taarruzları ise Eskişehir-Kütahya Savaşı'dır.

8. **A** Milli Mücadele Dönemi'nde Kazım Karabekir Paşa, Gümrü Antlaşması ve Kars Antlaşması'nda TBMM'yi temsil etmiştir.

9. **D** Sakarya Zaferi (22 Ağustos-13 Eylül 1921) Mustafa Kemal'in Başkomutanlık yetkisinin uzatılması, Temmuz 1922'de Büyük Taarruz'dan önce olmuştur. Yunanistan'da hükümet değişikliği Büyük Taarruz'dan sonra olmuştur.

10. **D** Mustafa Kemal bu sözü Başkomutanlık Meydan Muharebesi'ni de içine alan Büyük Taarruz'un zaferle sonuçlanması üzerine söylemiştir.

11. **A** İsmet Paşa, Büyük Taarruz sonrasında düzenlenen Mudanya Mütarekesi ile ilk kez diplomatik bir olayda yer almıştır.

12. **E** I. İnönü Savaşı'ndan (6-10 Ocak 1921) sonucunda düzenli ordu karşıtı Ethem Bey ve Demirci Mehmet Efe İsyanları bastırılmıştır.

13. **A** I. İnönü Savaşı'nın Yunan kuvvetlerince kaybedilmesi İtilaf Devletlerinin TBMM'nin güçlenmesinden endişe duymalarına neden olmuş, bu nedenle itilaf bloğu Sevr'i masa başında TBMM'ye kabul ettirmek amacıyla Londra Konferansı'nı toplamışlardır. Moskova Antlaşması ve İtilaf devletlerinin Misakımilli'yi tanıması Londra Konferansı'ndan sonra görülen gelişmelerdir.

14. **E** İskenderun-Hatay bölgesinde yaşayan halk Fransız manda ve himayesinin kabul etmemiş, özerk bir yönetime sahip olmuştur.

15. **D** I. İnönü Savaşı'ndan sonra düzenlenen Londra Konferansı'nda (23 Mart-12 Mart 1921) TBMM, Osmanlı Devleti İtalya, Fransa ve İngiltere yer almıştır. Sovyet Rusya, konferansa katılan devletlerden biri değildir.

16. **E** TBMM-Afganistan Dostluk Antlaşması (1 Mart 1921), I. İnönü Savaşı'nın (6-10 Ocak 1921) sonuçlarından biridir.
Diğer seçeneklerde verilenler incelendiğinde;
Kars Antlaşması (13 Ekim 1921), TBMM-İngiltere Esir Mübadelesi Antlaşması (23 Ekim 1921), TBMM-Ukrayna Dostluk Antlaşması (2 Ocak 1922) ve Paris Mükerreratı (22 Mart 1922) Sakarya Meydan Muharebesi'nin sonuçları arasında yer almaktadır.

17. **B** Milli Mücadele Dönemi'nde TBMM'nin hukuki varlığını tanıyan ilk devlet imzaladığı Gümrü Antlaşması (2-3 Aralık 1920) ile Ermenistan Devleti olmuştur.

18. **C** I. İstiklal Marşı'nın kabulü (12 Mart 1921)
II. Tekalif-i Milliye Emirleri (7-8 Ağustos 1921)
III. 1921 Anayasa'nın kabulü (20 Ocak 1921)
Buna göre doğru sıralama III-I-II şeklinde olmalıdır.

19. **E** Nene Hatun 93 Harbi'nde (1877-1878 Osmanlı-Rus Savaşı) Erzurum savunmasında görev almıştır.
Diğer seçeneklerde verilenler Milli Mücadele Dönemi'nin kuvayımilliyecilerindendir.

20. **A** Mustafa Kemal Paşa; "Ordular, ilk hedefiniz Akdeniz'dir. İleri!" sözünü Büyük Taarruz ve Başkomutanlık Meydan Muharebesi'nde (26 Ağustos-9 Eylül 1922) söylemiştir.

MURAT YAYINLARI

Mudanya Antlaşması ve Lozan Antlaşması • TEST 40

1. **Aşağıdaki antlaşmalardan hangisi sömürgecilik altında ezilen doğu toplumlarına bağımsızlık yolunda örnek olan antlaşmadır?**

A) Sevr B) Uşi C) Gümrü
D) Lozan E) Mondros

2. **Mustafa Kemal'in Lozan'a giden heyetten Ermeni Yurdu ve Kapitülasyon konularında kesinlikle taviz verilmemesini istemesindeki amacın aşağıdakilerden hangisi olduğu söylenebilir?**

A) Tam bağımsızlık
B) Ulusal egemenlik
C) ABD mandasına girmek
D) Boğazlar Komisyonu'nu kapatmak
E) Wilson İlkeleri'ni uygulamak

3. I. Mudanya Ateşkes Anlaşması
II. Lozan Antlaşması
III. Saltanatın kaldırılması

Yukarıdaki olayların kronolojik sıralaması hangisinde doğru olarak verilmiştir?

A) I - II - III B) I - III - II C) II - III - I
D) III - II - I E) III - I - II

4. I. Genelkurmay Başkanlığı görevindeyken zaferler elde etmesi
II. Diplomatik ilişkilerde tecrübeye sahip olması
III. İnönü Savaşları'nda başarılar elde etmesi

Yukarıdakilerden hangileri İsmet Paşa'nın Mudanya Antlaşması'nda yer almasının nedenlerindendir?

A) Yalnız I B) Yalnız II C) I ve III
D) II ve III E) I, II ve III

5. I. Edirne ve Kırklareli
II. Batı Trakya
III. İzmir

Yukarıdakilerden hangileri Mudanya Ateşkes Anlaşması'yla topraklarımıza katılan yerlerdendir?

A) Yalnız I B) Yalnız II C) Yalnız III
D) I ve II E) I ve III

6. **Lozan Konferansı'nda;**
I. Yunanistan,
II. İngiltere,
III. İtalya

devletlerinden hangileri Türkiye ile adalar konusunda görüşmüştür?

A) Yalnız I B) Yalnız II C) Yalnız III
D) I ve III E) I, II ve III

MURAT YAYINLARI

/muratyayincilik

7. I. Fener Rum Patrikhanesi'nin durumu
II. Yabancı okulların mevzuat boşluğu meselesi
III. Ermeni yurdu meselesi

Türkiye Lozan Barış Antlaşması'nda yukarıdaki meselelerden hangilerine istediği şekilde çözüm getirememiştir?

A) Yalnız I B) Yalnız II C) Yalnız III
D) I ve III E) II ve III

8. **Aşağıda verilen Lozan Antlaşması'nın kararlarından hangisi TBMM'nin egemenlik haklarına aykırıdır?**

A) Osmanlı borçlarının, Anadolu'ya düşen kısmını TBMM ödeyecektir.
B) Kapitülasyonlar tanınarak kaldırılacaktır.
C) Yunanistan savaş tazminatı olarak Karaağaç'ı Türkiye'ye bırakılacaktır.
D) İstanbul Lozan'ın onaylanmasından en geç altı hafta sonra boşaltılacaktır.
E) Boğazlar başkanı Türk olan bir komisyonca yönetilecektir.

9. Lozan Konferansı Dışişleri Bakanlığı düzeyinde toplanmıştır.

Aşağıdaki hangi Dışişleri Bakanı istifa ederek yerine İsmet Paşa getirilmiş ve Lozan'a gönderilmiştir?

A) Yusuf Kemal Tengirşenk
B) Bekir Sami Kunduh
C) Hasan Saka
D) Rıza Nur
E) Rauf Orbay

10. **Lozan Barış Antlaşması'nda Türk Devleti'nin güney sınırı için esas alınan antlaşma hangisidir?**

A) Moskova B) Kars C) Ankara
D) Mudanya E) Gümrü

11. I. Lloyd George Hükümeti'nin istifası
II. Doğu Trakya'nın TBMM'ye bırakılması
III. Halifeliğin kaldırılması

Yukarıdakilerden hangileri Mudanya Ateşkes Antlaşması'nın kazanımları arasındadır?

A) Yalnız I B) I ve II C) II ve III
D) I, II ve III E) Yalnız III

12. **Aşağıdakilerden hangisi Lozan Barış Antlaşması'yla sona erdirilmiştir?**

A) Şeyhülislamlık makamı
B) Mecelle
C) Düyun-u Umumiye
D) Şeriyye ve Evkaf Vekaleti
E) Boğazlar Komisyonu

MURAT YAYINLARI

13. I. On İki Ada ve Rodos
II. Ege Adaları
III. Bozcaada

Yukarıdakilerden hangisi Lozan Konferansı'nda görüşülen konulardandır?

A) Yalnız III B) Yalnız II C) I ve II
D) I ve III E) I, II ve III

14. I. Gümrü Antlaşması
II. Kars Antlaşması
III. Saltanatın kaldırılması

Yukarıdaki antlaşmalardan hangileri I. TBMM Dönemi'nin gelişmeleri arasında yer almıştır?

A) Yalnız I B) Yalnız II C) I ve II
D) I ve III E) I, II ve III

15. I. Nüfus Mübadelesi
II. Rodos ve On İki Ada
III. Kıbrıs

Yukarıda verilenlerden hangileri Lozan Antlaşması'nda Yunanistan ile Türkiye arasındaki sorunlar arasında yer almaz?

A) Yalnız I B) Yalnız II C) Yalnız III
D) I ve II E) II ve III

16. **TBMM adına Mudanya Ateşkes Görüşmeleri'ne katılan İsmet Paşa hangi görevde bulunmaktadır?**

A) Dışişleri Bakanı
B) Maarif Bakanı
C) Genelkurmay Başkanı
D) Batı Cephesi Komutanı
E) Başkomutan

17. I. Türk ordusunun Çanakkale ve Kocaeli Yarımadası'nda belirlenen çizgide kalması
II. Doğu Trakya'nın TBMM kuvvetlerine teslim edilmesi
III. İzmir'in düşman işgalinden kurtarılması

Yukarıdakilerden hangileri Mudanya Ateşkes Anlaşması ile gerçekleşmiştir?

A) Yalnız I B) Yalnız II C) I ve II
D) II ve III E) I, II ve III

18. **Yunanistan'ın Lozan Antlaşması'nda Karaağaç'ı Türkiye'ye bırakması ile hangi sorun çözülmüştür?**

A) Savaş Tazminatı
B) Patrikhane
C) Ege Adaları
D) Nüfus Mübadelesi
E) Etabli

19. I. Lozan Antlaşması
II. Türk Medeni Kanunu
III. Takrir-i Sükun Kanunu

Yukarıdakilerden hangilerinde Patrikhane ile ilgili bir karar yoktur?

A) Yalnız I B) Yalnız II C) Yalnız III
D) I ve II E) II ve III

20. **Aşağıdakilerden hangisi Lozan Antlaşması'nın içeriğinde yer almaz?**

A) Azınlıkların Türk vatandaşı olarak kabul edilmesi
B) Rodos ve On İki Ada'nın İtalya'ya bırakılması
C) Boğazlar statüsünün uluslararası hale getirilmesi
D) Midilli Adası'nın, Yunanistan'da kalması
E) Yabancı okulların kapatılması

MURAT YAYINLARI

/muratyayincilik

Açıklamalar • TEST 40

1. **D** Lozan Barış Antlaşması, Türk Kurtuluş Savaşı sonrasında imzalanan ve Yeni Türk Devleti'nin bağımsızlığının ve varlığının tüm dünya tarafından kabul edilmesini sağlayan ve sömürge altında ezilen diğer milletlere örnek teşkil eden evrensel bir belgedir.

2. **A** Mustafa Kemal'in bu taleplerindeki amaç hem siyasi hem de ekonomik anlamda Misakımilli çerçevesinde tam bağımsızlığı sağlayabilmektir.

3. **B** I. Mudanya Ateşkes Anlaşması 11 Ekim 1922'de imzalanmış,
III. Saltanat 1 Kasım 1922'de kaldırılmış,
II. Lozan Antlaşması ise 24 Temmuz 1923'te imzalanmıştır.

4. **C** Batı Cephesi'nin başarıları arasında yer alan I. ve II. İnönü Savaşları'nı İsmet Paşa komuta etmiştir. Aynı zamanda bu savaşlarda Genelkurmay Başkanlığı görevini üstlenmiştir. Bu nedenlerle konferansta Türkiye'yi İsmet İnönü temsil etmiştir. Mudanya Konferansı İsmet İnönü'nün ilk diplomatik etkinliğidir.

5. **A** Mudanya Mütarekesi'nde söz konusu olan yerler, Doğu Trakya (Edirne - Kırklareli), İstanbul ve boğazlardır. Bu antlaşmada Batı Trakya ve Batı Anadolu'dan bahsedilmemiştir.

6. **E** İtalya ile Rodos ve On İki Ada'nın durumu, İngiltere ile Kıbrıs'ın durumu, Yunanistan ile Ege Adaları'nın durumu görüşülmüştür.

7. **A** Fener Rum Patrikhanesi'nin yurt dışına çıkarılmasına çalışıldığı halde başarılı olunamamış, patrikhane siyasete karışmaması ve ekümenik-lik iddiasında bulunmaması şartıyla İstanbul'da kalmıştır. Ancak yabancı okullar ve Ermeni yurdu meseleleri Misakımilli'ye uygun çözülmüştür.

8. **E** Boğazların başkanı Türk olsa dahi uluslararası bir komisyon tarafından yönetilmesi, Türkiye'nin Boğazlar üzerindeki egemenlik haklarını sınırlandıran bir karardır ve Türk hakimiyet ve bağımsızlık anlayışına aykırıdır.

9. **A** Lozan Barış Görüşmelerine Dışişleri (Hariciye Nazırı) Bakanı olarak katılabilmesi için mevcut görevinden istifa eden kişi Yusuf Kemal Tengirşenk'tir.

10. **C** Lozan Barış Antlaşması'nda 1921'de Fransa ile yapılan Ankara Antlaşması esas alınarak güney sınırı çizilmiş ve Hatay topraklarımız dışında kalmıştır.

11. **B** Doğu Trakya'nın TBMM'ye bırakılması ve İngiltere'de yönetimin değişmesi Mudanya Ateşkesi'nin sonucunda gerçekleşmiştir ve Milli Mücadele'nin siyasi başarılarından biridir. Ancak Halifeliğin kaldırılması 3 Mart 1924'te gerçekleşmiştir. .

12. **C** 1881'de Avrupalı devletlerin Osmanlı'dan alacaklarını tahsil etmek amacıyla kurdukları Duyun-u Umumiye, Lozan Antlaşması ile borçların Osmanlı'dan ayrılan devletler arasında paylaşılması ile kaldırılmış, borçların ödenmesi ile ilgili yeni düzenlemeye gidilmiştir.

13. **E** Lozan Konferansı'nda Rodos ve On İki Ada'nın İtalya'ya, İmroz (Gökçeada) ve Bozcaada hariç Ege Adaları'nın Yunanistan'a ait olduğu kabul edilmiştir.

14. **E** Gümrü Antlaşması (2-3 Aralık 1920), Kars Antlaşması (23 Ekim 1921) ve Saltanatın kaldırılması (1 Kasım 1922) I. TBMM Dönemi'ne ait gelişmelerdendir.

15. **E** Rodos On İki Ada İtalya ile, Kıbrıs ise İngiltere ile aramızda sorun olmuştur. Yunanistan ile TBMM arasında yaşanan sorun Nüfus Mübadelesi'dir.

16. **D** İsmet Paşa, Mudanya Konferansı'na general rütbesi ve Batı Cephesi Komutanı unvanı ile katılmıştır.

17. **C** Mudanya Ateşkes Anlaşması'yla, Türk ordusu güvenlik açısından Çanakkale çizgisinde kalacaktır. Ayrıca bir ay içerisinde Doğu Trakya'nın, TBMM yönetimine teslim edilmesi söz konusu olmuştur. Ancak İzmir'in kurtuluşu (9 Eylül 1922) Mudanya Antlaşması'ndan önce gerçekleşmiştir.

18. **A** Yunanistan, Batı Anadolu'da neden olduğu tahribata karşılık Karaağaç'ı savaş tazminatı olarak Türkiye'ye bırakmış, böylece savaş tazminatı sorunu çözülmüş ve konu bir daha gündeme gelmemiştir.

19. **C** Takrir-i Sükun Kanunu, Şeyh Sait İsyanı'nı bastırmak üzere çıkarılan bölgesel sıkıyönetim kanunudur. Patrikhane ile ilgili hükmü yoktur. Medeni Kanun ile patrikhanenin dünyevi yetkilerine son verilmiş, Lozan Antlaşması ile siyasete karışmamak ve evrensellik iddia etmemek şartıyla İstanbul'da kalması karara bağlanmıştır.

20. **E** Lozan Antlaşması'nda yabancı okulların Türk eğitim sistemine dahil edilmesi doğrultusunda karar alınmıştır. Dolayısıyla yabancı okulların kapatılması kararı söz konusu değildir.

MURAT YAYINLARI

Mudanya Antlaşması ve Lozan Antlaşması • TEST 41

1. **Mudanya Ateşkes Antlaşması'na;**

I. Yunanistan,
II. Osmanlı Devleti,
III. TBMM

hangilerinin katıldığı söylenemez?

A) Yalnız I B) Yalnız II C) Yalnız III
D) I ve II E) II ve III

2. **I. Lozan Konferansı'ndan sonra TBMM'nin;**

I. Saltanatın kaldırılması,
II. İzmir İktisat Kongresi,
III. TBMM seçimlerin yenilenmesi

gelişmelerinden hangilerini gerçekleştirdiği söylenebilir?

A) Yalnız I B) Yalnız II C) Yalnız III
D) II ve III E) I, II ve III

3. **Lozan Barış Antlaşması'nın imzalandığı ülke aşağıdakilerden hangisidir?**

A) Sovyet Rusya
B) İngiltere
C) İtalya
D) Yunanistan
E) İsviçre

4. **Mudanya Ateşkes Antlaşması'nda Türkiye'nin;**

I. Bulgaristan
II. Yunanistan
III. Suriye

komşularından hangileri ile olan sınırı gündeme gelmemiştir?

A) Yalnız I B) Yalnız II C) Yalnız III
D) I ve III E) II ve III

5. **Lozan Antlaşması'nda;**

I. Boğazlar,
II. Musul,
III. Kapitülasyonlar

konularından hangileri Misak-ı Milli Kararları doğrultusunda çözüme kavuşturulmuştur?

A) Yalnız I B) Yalnız II C) Yalnız III
D) II ve III E) I, II ve III

6. **Lozan Barış Antlaşması'nda gözlemci devlet aşağıdakilerden hangisidir?**

A) Sovyet Rusya
B) Japonya
C) ABD
D) Yunanistan
E) İsviçre

MURAT YAYINLARI

/muratyayincilik

7. **Mudanya Ateşkes Antlaşması'na göre Doğu Trakya'yı Yunanistan'dan teslim alma görevi TBMM tarafından aşağıdakilerden hangisine verilmiştir?**

A) Refet Paşa
B) Yusuf Kemal Bey
C) Rauf Paşa
D) İsmet Paşa
E) Fevzi Paşa

8. **Lozan Barış Antlaşması'na çağrı yapan devletler arasında aşağıdakilerden hangisi yer almaz?**

A) İngiltere
B) Japonya
C) Fransa
D) İtalya
E) İsviçre

9. **Aşağıdakilerden hangisi Lozan Barış Antlaşması'nda TBMM temsilcileri arasında yer almıştır?**

A) Refet Bele
B) Ali Fuat Cebesoy
C) Rauf Orbay
D) Hasan Saka
E) Fevzi Çakmak

10. I. Osmanlı Borçları
II. Etabli
III. Yabancı Okullar

Yukarıdakilerden hangileri Lozan Barış Antlaşması'nda görüşülen konulardandır?

A) Yalnız I B) Yalnız II C) Yalnız III
D) II ve III E) I, II ve III

11. **Lozan Görüşmeleri'nden önce TBMM, barış görüşmelerinin aşağıdaki şehirlerden hangisinde yapılmasını istemiştir?**

A) Şam B) Selanik C) İzmir
D) Musul E) Samsun

12. **Milli Mücadele Dönemi'nin;**

I. Kars,
II. Gümrü,
III. Ankara

antlaşmalarından hangilerinde Lozan Barış Antlaşması'nda tekrar gündeme gelmiştir?

A) Yalnız I B) Yalnız II C) Yalnız III
D) II ve III E) I, II ve III

13. **Lozan Barış Antlaşması'nda;**

I. Azınlıklar,
II. Musul,
III. Boğazlar

konularından hangileri Türkiye'nin isteği doğrultusunda çözülmüştür?

A) Yalnız I B) Yalnız II C) Yalnız III
D) I ve III E) I, II ve III

14. **Lozan Barış Antlaşması'nda;**

I. İtalya,
II. Sovyet Rusya,
III. Romanya

devletlerinden hangileri sadece Boğazlar konusunda yer almıştır?

A) Yalnız I B) Yalnız II C) Yalnız III
D) I ve III E) II ve III

MURAT YAYINLARI

15. **İskenderun Sancağı'nın özerkliği;**

I. Kars,
II. Lozan,
III. Ankara

antlaşmalarından hangilerinde yer aldığı savunulabilir?

A) Yalnız I B) Yalnız II C) Yalnız III
D) I ve III E) II ve III

16. **Lozan Antlaşması'nda;**

I. Dış Borçlar,
II. Yabancı Okullar,
III. Musul-Kerkük

konularından hangileri TBMM ile Fransa arasında sorun yaşanmasına neden olmuştur?

A) Yalnız I B) Yalnız II C) Yalnız III
D) I ve II E) I, II ve III

17. **Aşağıdakilerden hangisi ile Osmanlı Devleti hukuken yok sayılmıştır?**

A) Saltanatın kaldırılması
B) II. Lozan Görüşmeleri
C) Mudanya Antlaşması
D) Lozan Antlaşması
E) Gümrü Antlaşması

18. **TBMM, Lozan Konferansı'nda temsil probleminin önüne geçmek için aşağıdakilerden hangisini gerçekleştirmiştir?**

A) Saltanatın kaldırılması
B) II. TBMM'nin açılması
C) Cumhuriyetin ilanı
D) I. TBMM'nin tatil edilmesi
E) Halifeliğin kaldırılması

19. **Aşağıdakilerden hangisi Lozan Antlaşması'nda tüm görüşmelere davet edilen devletlerden biri değildir?**

A) Romanya
B) Bulgaristan
C) TBMM
D) Yunanistan
E) Yugoslavya

20. **Lozan Antlaşması'nda;**

I. Fener Rum Patrikhanesi,
II. Etabli,
III. On İki Ada ve Rodos

konularından hangileri Türkiye ile Yunanistan arasındaki sorunlardandır?

A) Yalnız I B) Yalnız II C) Yalnız III
D) I ve II E) I, II ve III

MURAT YAYINLARI

/muratyayincilik

Açıklamalar • TEST 41

1. **D** Mudanya Ateşkes Antlaşması'na katılan devletler İngiltere, Fransa, İtalya ve TBMM'dir.

2. **D** I. Lozan Konferansı'ndan (20 Kasım 1922-4 Şubat 1923) sonra Türkiye'de; İzmir İktisat Kongresi'ni düzenlemiş (17 Şubat-4 Mart 1923) ve TBMM seçimlerinin (milletvekilliği) yenilenmesi kararı alınmıştır.
Ancak Saltanatın kaldırılması Lozan Konferansı'ndan önce 1 Kasım 1922 tarihinde gerçekleşmiştir.

3. **E** Lozan Barış Antlaşması (24 Temmuz 1923) İsviçre'de imzalanmıştır.

4. **D** Mudanya Ateşkes Antlaşması'nda Türkiye'nin gündeme gelen tek sınırı Türk-Yunan sınırı olmuştur.
Antlaşmaya göre Türk-Yunan sınırının Meriç Nehri olması tespit edilmiştir.

5. **C** Lozan Antlaşması'nda kapitülasyonların kaldırılması Misak-ı Milli Kararları doğrultusunda çözüme kavuşturulduğunun göstergesidir.
Ancak Lozan Antlaşması'nda Boğazlar komisyonunun kurulması ve Musul'un Türkiye sınırları dışında kalması Misak-ı Milli Kararları'na aykırı gelişmeler olmuştur.

6. **C** Lozan Barış Antlaşması'nda gözlemci devlet ABD'dir.

7. **A** Mudanya Ateşkes Antlaşması'na göre Doğu Trakya'yı Yunanistan'dan teslim alma görevi TBMM tarafından Doğu Trakya Yüksek Komiseri Refet Paşa'ya verilmiştir.

8. **E** Lozan Barış Antlaşması'na çağrı yapan devletler İngiltere, Fransa,İtalya ve Japonya'dır.

9. **D** Lozan Barış Antlaşması'nda TBMM temsilcileri olarak İsmet İnönü, Hasan Saka ve Dr. Rıza Nur yer almıştır.

10. **E** Osmanlı Borçları (Dış Borçlar), Etabli (Nüfus Mübadelesi) ve yabancı okullar meselesi Lozan Barış Antlaşması'nda görüşülen konular arasında yer almıştır.

11. **C** Lozan Görüşmeleri'nden önce TBMM, barış görüşmelerinin İzmir'de yapılmasını istemiştir.

12. **C** Lozan Barış Antlaşması'nda Suriye sınırı tartışılmış ve Türkiye'nin güney sınırının Ankara Antlaşması (20 Ekim 1921) olarak kalması kabul edilmiştir.
Lozan Barış Antlaşması'nda Gümrü ve Kars Antlaşmaları tekrardan gündeme gelen antlaşmalar/sınırlar olmamıştır.

13. **A** Lozan Barış Antlaşması'nda; Azınlıklar,Türkiye'de yaşayan azınlıklar Türk vatandaşı kabul edilmiştir.
Lozan'da, Musul'un 9 ay sonrasında görüşülmek üzere ertelenmesi ve Boğazlar Komisyonu'nun kurulması Türkiye'nin isteği doğrultusunda çözülen konulardan değildir.

14. **B** Lozan Barış Antlaşması'nda sadece Boğazlar konusunda yer alan devletler Sovyet Rusya ve Bulgaristan olmuştur.

15. **E** İskenderun Sancağı'nın (Hatay) özerkliği Ankara Antlaşması'na (1921) ve Lozan Antlaşması'nda yer almaktadır.

16. **D** Lozan Antlaşması'nda, dış borçlar ve yabancı okullar TBMM ile Fransa arasında yaşanan sorunlardandır. Musul-Kerkük konusu TBMM ile İngiltere arasında yaşanan sorundur.

17. **C** Mudanya Antlaşması'nda İstanbul'un TBMM'ye bırakılması, Osmanlı Devleti'nin hukuken yok sayılmasının göstergesidir.

18. **A** TBMM, Lozan Konferansı'nda temsil probleminin önüne geçmek için görüşmelerden önce Saltanatı kaldırmıştır. (1 Kasım 1922)

19. **B** Lozan Antlaşması'nda tüm görüşmelere davet edilen devletlerden; TBMM,Yugoslavya,Yunanistan ve Romanya olmuştur.

20. **D** Lozan Antlaşması'nda Fener Rum Patrikhanesi ve Etabli (Yerleşikler) başka bir ifadeyle Nüfus Mübadelesi (Nüfus Yer değişimi) Türkiye ile Yunanistan arasındaki sorunlardandır.
Ancak Lozan Antlaşması'nda On İki Ada ve Rodos konusu Türkiye ile İtalya arasındaki sorunlardandır.

MURAT YAYINLARI

Atatürk Dönemi İç Politika • TEST 42

1. I. Cumhuriyet Halk Fırkası
II. Terakkiperver Cumhuriyet Fırkası
III. Serbest Cumhuriyet Fırkası

Yukarıdakilerden hangileri II. TBMM Dönemi'nin siyasi partileri arasında yer almıştır?

A) Yalnız I
B) Yalnız II
C) Yalnız III
D) I ve II
E) I, II ve III

2. 19 Aralık 1924'te askeri görevlilerin milletvekili olamayacağına dair kanun çıkarılmıştır.

Bu durumun;

I. ulus egemenliğini güçlendirmek,
II. ordunun siyasi çekişmelerle yıpranmasını engellemek,
III. orduyu inkılaplarda öncü hale getirmek

gibi amaçlardan hangilerini gerçekleştirmeye yönelik olduğu söylenebilir?

A) Yalnız I
B) Yalnız III
C) I ve II
D) II ve III
E) I, II ve III

3. **Terakkiperver Cumhuriyet Fırka'nın kurucusu ve genel başkanı aşağıdakilerden hangisidir?**

A) Rauf Orbay
B) Fevzi Çakmak
C) Kazım Karabekir
D) Refet Bele
E) Ali Fethi Okyar

4. I. Tek dereceli seçim sistemi
II. Dini inançlara saygı
III. Laiklik

Yukarıda verilenlerden hangileri Terakkiperver Cumhuriyet Fırkası'nın parti programında yer alır?

A) Yalnız I
B) Yalnız II
C) Yalnız III
D) I ve II
E) II ve III

5. **Aşağıdakilerden hangisi Cumhuriyet'in ilanında etkili olan gelişmelerden biri değildir?**

A) Hükümet krizin yaşanması
B) Halifeliğin kaldırılması
C) Saltanatın kaldırılması
D) Kurtuluş Savaşı'nın kazanılması
E) Devlet başkanlığı sorunu

6. **Atatürk'ün kaleme aldığı Nutuk aşağıdaki olaylardan hangisi ile başlar?**

A) Mustafa Kemal'in Samsun'a çıkışı
B) Mondros Ateşkes Anlaşması'nın imzalanması
C) İşgallerin başlaması
D) TBMM'nin açılması
E) İstanbul'un işgali

MURAT YAYINLARI

/muratyayincilik

7. I. Mustafa Kemal'in isteği ile kurulması
II. Kendi kendini dağıtması
III. Ekonomide liberal arayışlara ver vermesi

Yukarıdakilerden hangileri hem Serbest Cumhuriyet Fırkası hem de Terakkiperver Cumhuriyet Fırkası'nın özeliklerindendir?

A) Yalnız I
B) Yalnız II
C) Yalnız III
D) I ve II
E) II ve III

8. **Türkiye'de aşağıdaki gelişmelerden hangisi diğerlerinden sonra gerçekleşmiştir?**

A) Wagon-Lits Olayı'nın yaşanması
B) Şeyh Sait İsyanı'nın çıkması
C) Çok partili genel seçim
D) Nutuk'un kaleme alınması
E) İlk muhalif partinin kurulması

9. **1933'de Bursa'da halkın Ulu Cami'nde protesto düzenlemesinin nedeni aşağıdakilerden hangisidir?**

A) Türk Dil Kurumu'nun ezan ile ilgili çalışmaları
B) Ordunun siyasetten ayrılması
C) Serbest Cumhuriyet Fırkası'nın kapatılması
D) Aşar Vergisi'nin kaldırılması
E) Halifeliğin kaldırılması

10. **Şeyh Sait İsyanı'nı bastırmakta başarısız olan ve görevinden istifa etmek zorunda kalan dönemin başbakanı aşağıdakilerden hangisidir?**

A) Ali Fethi Okyar
B) Adnan Adıvar
C) İsmet İnönü
D) Recep Peker
E) Celal Bayar

11. **Aşağıdakilerden hangisinde çift anayasalı dönemin tarihleri doğru verilmiştir?**

A) 1921 - 1925
B) 1921 - 1924
C) 1923 - 1928
D) 1928 - 1946
E) 1924 - 1961

12. I. Laik eğitime geçmek
II. Ulus egemenliğini güçlendirmek
III. Orduyu siyasetten ayırmak

Yukarıdakilerden hangileri 3 Mart 1924'te çıkarılan kanunların amaçları arasında yer alır?

A) Yalnız I B) Yalnız II C) I ve II
D) II ve III E) I, II ve III

13. I. Şeyh Sait İsyanı
II. Razgrad Olayı
III. Menemen Olayı

Yukarıdakilerden hangileri Atatürk'ün "İnsanlıkta dine ilişkin duygular bilimin ve tekniğin ışıklarıyla dupduru olup yücelmelidir. Bu olmadıkça din oyunu aktörlerine her yerde rastlanacaktır." sözüne kanıt gösterilebilir?

A) Yalnız I B) I ve II C) I ve III
D) II ve III E) I, II ve III

14. I. Cumhuriyet'in ilanı
II. Halifeliğin kaldırılması
III. Saltanatın kaldırılması

Yukarıdaki gelişmelerin kronolojik sıralaması hangisinde doğru verilmiştir?

A) I-II-III B) III-II-I C) III-I-II
D) II-I-III E) II-III-I

MURAT YAYINLARI

15. I. Mustafa Kemal'in yönlendirmesi
II. 1929 Dünya Ekonomik Bunalımı
III. Hükümetin denetlenmesi isteği

Yukarıda verilenlerden hangileri Serbest Cumhuriyet Fırkası'nın kurulmasında etkilidir?

A) Yalnız I
B) Yalnız III
C) I ve II
D) I ve III
E) I, II ve III

16. **Serbest Cumhuriyet Fırkası aşağıdaki hangi hükümet döneminde kurulmuştur?**

A) Ali Fuat Cebesoy
B) İsmet İnönü
C) Rauf Orbay
D) Celal Bayar
E) Ali Fethi Okyar

17. **II. TBMM'nin gerçekleştirdiği ilk çalışma aşağıdakilerden hangisidir?**

A) Saltanatın kaldırılması
B) Halifeliğin kaldırılması
C) Cumhuriyetin ilan edilmesi
D) Lozan Antlaşması'nın onaylanması
E) Ankara'nın başkent ilan edilmesi

18. I. İsmet İnönü
II. Celal Bayar
III. Fethi Okyar

Yukarıdakilerden hangileri Atatürk Dönemi'nde başbakanlık görevlerinde bulunmuştur?

A) Yalnız I
B) Yalnız II
C) Yalnız III
D) I ve II
E) I, II ve III

19. **Aşağıdakilerden hangisi İsmet İnönü Dönemi (1938 - 1950) olaylarından biri değildir?**

A) Milli Korunma Kanunu
B) Nasturi Ayaklanması
C) II. Dünya Savaşı'na girilmemesi
D) Çok partili yaşama geçilmesi
E) Tek dereceli seçimin yapılması

20. I. 3 Mart 1924'te kabul edilen yasalar
II. Takrir-i Sükun Kanunu
III. Şeyh Sait İsyanı'nın bastırılması

Yukarıdakilerden hangilerinin Cumhuriyet rejimini güçlendirme amacı taşıdığı savunulabilir?

A) Yalnız I
B) Yalnız II
C) I ve II
D) II ve III
E) I, II ve III

MURAT YAYINLARI

/muratyayincilik

Açıklamalar • TEST 42

1. **D** II. TBMM Dönemi 1923-1927 yılları arasında görev almıştır. 1923 yılında kurulan Cumhuriyet Halk Fırkası ve 1924 yılında kurulan Terakkiperver Cumhuriyet Fırkası II. TBMM Dönemi'nin gelişmelerindendir. Serbest Cumhuriyet Fırkası 1930 yılında kurulduğu için II.TBMM Dönemi'ne ait siyasi parti değildir.

2. **C** Orduyu siyasetten ayırarak ulus egemenliğini güçlendirmek ve ordunun siyasi çekişmelerle yıpranmasını engellemek amaçlanmıştır.

3. **C** Türkiye Cumhuriyeti'nin ilk muhalefet partisi Terakkiperver Cumhuriyet Fıkra'nın kurucu genel başkanı Kazım Karabekir'dir.

4. **D** Dini inançlara saygı ve tek dereceli seçim sistemi Terakkiperver Cumhuriyet Fırkası'nın parti programında yer alır.

5. **B** Cumhuriyet 29 Ekim 1923'te ilan edilmiştir. Halifelik ise 3 Mart 1924'te kaldırılmıştır. Bu nedenle Cumhuriyet'in ilanında etkili olduğu söylenemez.

6. **A** Mustafa Kemal Nutuk'u 1926'da İzmir suikast girişiminin ortaya çıkması sonucu kaleme almaya başlamış, Nutuk'ta 1919'da Samsun'a çıkışından başlayarak 1927'ye kadar gelişen tüm olayları anlatmıştır.

7. **C** Terakkiperver Cumhuriyet Fırkası ile Serbest Cumhuriyet Fırkası'nın ortak özelliği liberal ekonomi modelini benimsemiş olmalarıdır. Mustafa Kemal'in isteği ile kurulan ve kendini fesheden parti Serbest Cumhuriyet Fırkası'dır.

8. **C** Türkiye'de çok partili ilk genel seçimler 1946 yılında yapılmıştır. İlk muhalif parti 1924'te kurulmuş, Şeyh Sait İsyanı 1925'te çıkmış, Nutuk 1926'da kaleme alınmaya başlanmış ve Vagon-Li Olayı 1933'te yaşanmıştır.

9. **A** Bursa Olayı, TDK'nın Türk dilini geliştirme çalışmaları kapsamında gerçekleştirilen ezanın Türkçe okunması uygulamasına tepki olarak gelişmiştir.

10. **A** Şeyh Sait İsyanı çıktığı esnada başbakan, Ali Fethi Okyar'dır. Ancak isyanı bastırmakta yetersiz kalması üzerine istifa etmiş ve İsmet İnönü yeniden başbakanlığa gelmiştir.

11. **B** Çift anayasalı dönem 20 Ocak 1921'de Teşkilatıesasiye ile Kanunuesasi'nin birlikte kullanılmasıyla başlamış, 24 Nisan 1924'de yeni Teşkilatıesasiye'nin yürürlüğe girmesiyle sonlanmıştır.

12. **E** 3 Mart 1924 günü çıkarılan Tevhidi Tedrisat Kanunu ile eğitimde birlik ve laik eğitime geçmek halifeliğin kaldırılması ile laik devlet düzenini kurmak ve ulus egemenliğini güçlendirmek Erkanı Harbiye Vekaleti'nin kaldırılması ile orduyu siyasetten ayırmak Osmanlı hanedanının yurt dışına çıkarılması ile de eski düzenin tüm izlerini silmek amaçlanmıştır.

13. **C** Aklın ve bilimin esas alınması laikliktir. Şeyh Sait ve Menemen Olayları, laikliğe karşı olaylardır. Ancak Razgard Olayı Bulgaristan'daki Türk mezarlarının tahrip edilmesi olayıdır, Atatürk'ün soruda verilen cümlesiyle ilgili değildir.

14. **C** III. Saltanatın kaldırılması 1 Kasım 1922'de,
I. Cumhuriyet'in ilanı 29 Ekim 1923'te,
II. Halifeliğin kaldırılması 3 Mart 1924'te gerçekleşmiştir.

15. **E** Serbest Cumhuriyet Fırkası Mustafa Kemal'in isteği ile hükümeti denetleme ve 1929 Dünya Ekonomik Bunalımı nedeniyle alternatif bir ekonomi politikasına ihtiyaç duyulması ile kurulmuştur.

16. **B** Serbest Cumhuriyet Fırkası (1930),İsmet İnönü hükümet döneminde kurulmuştur. Atatürk Dönemi'nde İsmet İnönü 1923-1924 ile 1925-1937 yılları arasında hükümetler kurmuştur.

17. **D** II. TBMM'nin 11 Ağustos 1923'te açılmasından sonra gerçekleştirdiği ilk çalışma Lozan Antlaşması'nın onaylanması olmuştur.

18. **E** İsmet İnönü, Ekim 1923 - Kasım 1924, Ayrıca 1925 - 1937 tarihlerinde,
Fethi Okyar, Kasım 1924 - Mart 1925 tarihleri arasında,
Celal Bayar, 1937 - 1938 arasında başbakanlık yapmışlardır.

19. **B** Nasturi İsyanı, İngiltere'nin Türkiye'nin askeri harekatını önlemek ve Türkiye ile Musul arasında bir tampon bölge oluşturmak amacıyla Hakkari'de bağımsızlık için Hristiyan Süryanileri (Nasturi) kışkırtması ile patlak veren ayaklanmadır (1924), Atatürk Dönemi olayıdır.

20. **E** 3 Mart 1924'teki yasalarla Halifeliğin yanı sıra Şeriye ve Evkaf Vekaleti, Erkanı Harbiye Vekaleti kaldırılmış ve Tevhidi Tedrisat Kanunu kabul edilmiştir. Takrir-i Sükun Kanunu rejim aleyhinde hareket etmeyi yasaklamıştır. Cumhuriyet rejimine karşı ilk isyan olan Şeyh Sait İsyanı'nın bastırılması, Takrir-i Sükun Kanunu sonucunda gerçekleştirilmiştir.

MURAT YAYINLARI

Atatürk Dönemi İç Politika • TEST 43

1. **6 Ekim 1923 tarihinde TBMM adına İstanbul'u teslim alan komutan aşağıdakilerden hangisidir?**

A) İsmet Paşa
B) Şükrü Naili Paşa
C) Ali Fuat Paşa
D) Refet Paşa
E) Fevzi Paşa

2. I. Çok partili hayata geçiş denemeleri
II. Cumhuriyet'in ilanı
III. Saltanatın kaldırılması

Yukarıda verilenlerden hangileri egemenliğin kişide değil çoğunluğun elinde olmasını sağlamaya yönelik uygulamalar arasında yer alır?

A) Yalnız I B) Yalnız II C) I ve II
D) II ve III E) I, II ve III

3. **Aşağıdakilerden hangisinin Cumhuriyet'in ilanının sonucu olduğu savunulamaz?**

A) Kabine sistemine geçilmesi
B) Hükümet bunalımının sona ermesi
C) Devletin yönetim şeklinin belirlenmesi
D) Ankara'nın başkent ilan edilmesi
E) Rejim adı sorununun son bulması

4. **1923-1930 dönemi gelişmeleri düşünüldüğünde;**

I. 1929 Dünya Ekonomik Bunalımı,
II. Hükümeti denetleme ihtiyacı,
III. Demokrasiyi etkinleştirme isteği

hangilerinin muhalif partilerin kurulmasında etkili olduğu savunulabilir?

A) Yalnız I B) Yalnız II C) I ve II
D) II ve III E) I, II ve III

5. **Aşağıdakilerden hangisi 1924 Anayasası'nda yapılan değişikliklerden biri değildir?**

A) 1946'da çift dereceli seçim sisteminden tek dereceliye geçilmiştir.
B) 1928'de devletin dini İslam'dır maddesi anayasadan çıkarılmıştır.
C) 1934'te kadınlara siyasi haklar verilmiştir.
D) 1934'te seçmen yaşı 18'den 22'ye çıkarılmıştır.
E) 1961'de Cumhuriyet Senatosu ve Millet Meclisi olarak iki meclis kurulmuştur.

6. I. Devletin iç işlerine müdahale edilmek istenmesi
II. Laik devlet yapısına geçilmek istenmesi
III. Osmanlı hanedanının ülke dışına çıkarılması

Yukarıdakilerden hangileri Halifeliğin kaldırılmasına doğrudan etki etmiştir?

A) Yalnız I
B) Yalnız II
C) I ve II
D) I ve III
E) I, II ve III

7. I. Siyasi partilerin kurulması
II. Kadınların siyasi haklar elde etmeleri
III. Meclisin halkın seçimi ile oluşturulması

Yukarıdakilerden hangileri Yeni Türk Devleti'nde demokrasi anlayışının yerleşmesi amacına yöneliktir?

A) Yalnız I
B) Yalnız II
C) Yalnız III
D) I ve II
E) I ve III

MURAT YAYINLARI

/muratyayincilik

8. 17 Kasım 1922'de son Osmanlı padişahı Mehmet Vahdettin ülkeyi terk etmeden önce yayımladığı bildiride unvan olarak kendisine "Müslümanların Halifesi" demiştir.

Bu bilgiye bağlı olarak;

I. Saltanata son verilmiştir.
II. Cumhuriyet ilan edilmiştir.
III. TBMM açılmıştır.

yargılarından hangilerine varılabilir?

A) Yalnız I
B) Yalnız II
C) Yalnız III
D) I ve II
E) I ve III

9. I. Adnan Adıvar
II. Rauf Orbay
III. Ali Fuat Cebesoy

Yukarıdakilerden hangileri görüş ayrılıkları yüzünden Cumhuriyet Halk Fırkası'na karşı demokratik mücadelelerini ayrı bir siyasi oluşum içerisinde sürdürmeyi amaçlamıştır?

A) Yalnız I
B) I ve II
C) II ve III
D) I, II ve III
E) Yalnız III

10. **Aşağıdakilerden hangisinde neden-sonuç ilişkisi gözetilemez?**

A) Şeyh Sait Ayaklanması - Takrir-i Sükun Kanunu
B) Saltanatın kaldırılması - Cumhuriyetin ilanı
C) Musul Sorunu - Nasturi Ayaklanması
D) Cumhuriyetin ilanı - Halifeliğin kaldırılması
E) Wagon-Lits Olayı - Yabancı okulların kapatılması

11. I. Serbest Cumhuriyet Fırkası
II. Ahali Cumhuriyet Fırkası
III. Milli Kalkınma Partisi

Yukarıdakilerden hangileri Atatürk Dönemi'nde kurulan siyasi partilerdendir?

A) Yalnız I
B) Yalnız III
C) I ve II
D) II ve III
E) I, II ve III

12. **Atatürk'e başöğretmen unvanın verilmesi aşağıdakilerden hangisiyle olmuştur?**

A) Tevhid-i Tedrisat Kanunu'nun çıkartılması
B) Millet Mektepleri'nin açılması
C) Maarif Teşkilatı Hakkında Kanunu'nun çıkartılması
D) Üniversite Reformu'nun gerçekleştirilmesi
E) Köy Enstitüleri'nin açılması

13. **Mustafa Kemal Atatürk ile İsmet İnönü'nün 1937'de aralarında yaşanan sorun sebebiyle başbakanlık görevine getirilen devlet adamı aşağıdakilerden hangisidir?**

A) Celal Bayar
B) Fethi Okyar
C) Refet Bele
D) Fevzi Çakmak
E) Adnan Adıvar

MURAT YAYINLARI

14. I. Ekonomi
II. Rejim
III. Yeni anayasa

Serbest Cumhuriyet Fırkası'nın parti programında hangi konulara ağırlık verildiği söylenebilir?

A) Yalnız I
B) I ve II
C) II ve III
D) I ve III
E) I, II ve III

15. I. Milletvekili seçebilme yaşının 25'ten 18'e indirilmesi
II. Milletvekili seçmek ve seçilmek için vergi mükellefi olmak şartının kaldırılması
III. 1934'de kadınlara seçme ve seçilme hakkı verilmesi

Bazı dönemlerde seçim kanununda yapılan yukarıdaki değişikliklerden hangilerinin halkın yönetime katılımını artırdığı söylenebilir?

A) Yalnız I
B) Yalnız II
C) Yalnız III
D) I ve III
E) I, II ve III

16. **1933 yılında Bulgaristan'da Türk varlığına yönelik ırkçı saldırılar aşağıdaki kentlerin hangisinde meydana gelmiştir?**

A) Yanya
B) Atina
C) Razgard
D) Selanik
E) Saraybosna

17. **Osmanlı ailesinin tamamen vatandaşlıktan çıkarılarak ülke dışına çıkarılması aşağıdaki olayların hangisinin sonucunda gerçekleşmiştir?**

A) Saltanatın kaldırılması
B) Cumhuriyet'in ilanı
C) Halifeliğin kaldırılması
D) 1924 Anayasası'nın kabul edilmesi
E) Şeyh Sait İsyanı'ın çıkması

18. **Türk tarihinde kadınların da sayıldığı ilk modern nüfus sayımı aşağıdaki tarihlerin hangisinde gerçekleştirilmiştir?**

A) 1924 B) 1931 C) 1926
D) 1927 E) 1946

19. I. Kadınlara siyasi hakların verilmesi
II. Tek dereceli seçim sisteminin benimsenmesi
III. Cumhuriyetin ilan edilmesi

Yukarıdaki olayların kronolojik sıralaması aşağıdakilerden hangisinde doğru olarak verilmiştir?

A) III - II - I B) II - III - I C) I - II - III
D) III - I - II E) II - I - III

20. 1923'te seçim kanununda yapılan değişiklik ile elli bin erkek nüfus için bir milletvekili yerine yirmi bin erkek nüfus için bir milletvekili seçilmesi kabul edilmiştir.

Bu değişiklik ile ulaşılmak istenen temel amaç aşağıdakilerden hangisidir?

A) Halkın devlet yönetiminde etkinliğini artırmak
B) Kadınlara siyasal haklar vermek
C) Askerin yönetimdeki etkinliği azaltmak
D) Çok partili hayata geçebilmek
E) Ülkedeki azınlıkları da yönetime katmak

MURAT YAYINLARI

/muratyayincilik

Açıklamalar • TEST 43

1. **B** 6 Ekim 1923 tarihinde TBMM adına İstanbul'u teslim alan komutan Şükrü Naili Paşa'dır.

2. **E** Öncüllerde yer alan uygulamaların tamamı kişi egemenliğine son vererek ulus egemenliğini güçlendirme amacına yöneliktir.

3. **D** Ankara'nın başkent olması, 13 Ekim 1923'te Cumhuriyet'in ilanından öncedir. Bu nedenle cumhuriyetin ilanının sonucu değildir.

4. **E** Demokrasiyi etkinleştirme isteği ve hükümeti denetleme ihtiyacı genel olarak çok partili hayata geçiş denemesinde etkili olmuştur. 1929 Dünya Ekonomik Bunalımı'nın olumsuz etkilerine karşı devletçi ekonomiyi benimseyen Cumhuriyet Halk Fırkası'na muhalif olarak liberal ekonomiyi benimseyen bir partiye ihtiyaç duyulmuş, 1930'da Mustafa Kemal'in isteği ile Serbest Cumhuriyet Fırkası'nın kurulmasına neden olmuştur.

5. **E** Cumhuriyet Senatosu ve Millet Meclisi şeklinde iki çatılı bir meclisin kurulması, 1960 Askeri darbesi sonrası kabul edilen 1961 Anayasası ile gerçekleşmiştir.

6. **C** İngiltere'nin Musul Sorunu nedeniyle Halifelik makamını kullanarak Türkiye'nin iç işlerine müdahale etmek istemesi, Halifeliğin kaldırılarak laik devlet sistemine geçilmek istenmesi halifeliğin kaldırılmasında doğrudan etkili durumlardır. Osmanlı hanedanının yurt dışına çıkarılmak istenmesi ise halifeliğin kaldırılmasının sonucudur.

7. **E** Halkın kendi seçtiği vekillerce meclisle temsil edilmesi ve farklı siyasi görüşlerin de temsil hakkı bulabilmesi için siyasal partilerin kurulması demokratik yaşamı güçlendirme amaçlıdır. Kadınların siyasi haklar elde etmeleri diğer öncüllerde olduğu gibi demokrasi anlayışının bir göstergesidir.

8. **A** Sultan Vahdettin'in bu sözünde kendisinden sadece halife olarak bahsetmesi, onun siyasi gücünün sona erdiğinin yani saltanatın kaldırıldığının bir ifadesidir.

9. **D** Adnan Adıvar, Rauf Orbay ve Ali Fuat Cebesoy, düştükleri fikir ayrılıkları yüzünden Kazım Karabekir ve Refet Bele ile birlikte ilk muhalefet partisi olan Terakkiperver Cumhuriyet Fırkası'nı kurmuşlardır.

10. **E** Şeyh Sait Ayaklanması'nı bastırmak için Takriri Sükûn Kanunu çıkarılmıştır. Saltanatın kaldırılması ile yaşanan rejim, devlet başkanlığı gibi sorunlar cumhuriyetin ilanı ile çözümlenmiştir. Musul sorununu kendi isteği doğrultusunda çözmek için İngiltere Nasturi İsyanı'nı kışkırtmıştır. Cumhuriyetin ilanı halifeliğin kaldırılmasını zorunlu kılmıştır. Ancak böyle bir ilişki Wagon Lits Olayı ile yabancı okulların kapatılması arasında yoktur.

11. **C** Serbest Cumhuriyet Fırkası ve Ahali Cumhuriyet Fırkası 1930'da, Milli Kalkınma Partisi ise 1945'te kurulmuştur.

12. **B** Harf İnkılabı sonucunda Millet Mekteplerinin açılmasıyla Mustafa Kemal'e "başöğretmen" unvanı verilmiştir.

13. **A** Celal Bayar, 1937'de ekonomi politikalarındaki başarıları ve İsmet İnönü ile Mustafa Kemal Atatürk arasındaki sorunlar nedeniyle başbakanlık görevine getirilmiştir.

14. **B** Serbest Cumhuriyet Fırka'nın parti programında liberal ekonomik programa ve cumhuriyet ilkelerinden taviz vermemeye ağırlık verilmiştir.

15. **E** Seçmen yaşının düşürülmesi, seçmenlerden vergi vermiş olma şartının kaldırılması ve kadınlara da seçme ve seçilme hakkının tanınması halkın yönetimine katılmasını artırıcı gelişmelerdir.

16. **C** Bulgaristan'da Türk mezarlarına yönelik saldırılar Razgrad kentinde meydana gelmiştir.

17. **C** Osmanlı ailesinin yurt dışına çıkarılması, 3 Mart 1924'te Halifeliğin kaldırılmasıyla birlikte gerçekleşmiştir.

18. **D** Türkiye Cumhuriyeti'nin ilk modern nüfus sayımı 1927'de gerçekleştirilmiştir.

19. **D** III. Cumhuriyetin ilan edilmesi 1923'te,
I. Kadınlara siyasi haklar 1930'da,
II. Tek dereceli seçim sistemi 1946'da gerçekleşmiştir.

20. **A** Seçim kanununda yapılan bu değişiklik ile halkı temsil eden vekil sayısı artmış ve böylece halkın temsil gücü artmıştır.

MURAT YAYINLARI

Atatürk Dönemi İç Politika • TEST 44

1. **Atatürk Dönemi'nde İstiklal Madalyası alan ilk yer aşağıdakilerden hangisidir?**

A) Urfa B) Antep C) Maraş
D) İnebolu E) Samsun

2. **1924 yılında Hakkari civarında çıkarılan isyan aşağıdakilerden hangisidir?**

A) Nasturi
B) Koçgiri
C) Şeyh Sait
D) Anzavur
E) Şeyh Eşref

3. **II. TBMM Dönemi'nin ilk hükümetini aşağıdakilerden hangisi kurmuştur?**

A) İsmet İnönü
B) Ali Fuat Cebesoy
C) Rauf Orbay
D) Hasan Saka
E) Ali Fethi Okyar

4. **İstiklal Mahkemeleri'nin;**

I. İzmir Suikastı Girişimi,
II. Şeyh Sait İsyanı,
III. Kubilay Olayı

hangilerinde görev aldığı söylenebilir?

A) Yalnız I B) Yalnız II C) Yalnız III
D) I ve II E) I, II ve III

5. **Atatürk Dönemi'nde en uzun süre TBMM Başkanlığı görevini aşağıdakilerden hangisi üstlenmiştir?**

A) Ali Fuat Cebesoy
B) Kazım Özalp
C) Ali Fethi Okyar
D) İsmet İnönü
E) Celal Bayar

6. **Şeyh Sait İsyanı'nın;**

I. Saltanatın kaldırılmasına,
II. Tekke ve zaviyelerin kapatılmasına,
III. Halifeliğin kaldırılmasına

gelişmelerinden hangilerine zemin hazırladığı söylenebilir?

A) Yalnız I B) Yalnız II C) Yalnız III
D) I ve III E) II ve III

MURAT YAYINLARI

/muratyayincilik

7. I. Adnan Menderes
II. Makbule Atadan
III. Ali Fuat Cebesoy

Yukarıdakilerden hangileri Serbest Cumhuriyet Fırkası'nın üyeleri arasında yer almıştır?

A) Yalnız I B) Yalnız II C) Yalnız III
D) I ve II E) I, II ve III

8. I. Vahdettin'in yurt dışına çıkması
II. Laik devlet anlayışının güç kazanması
III. Hilafet Ordusu İsyanı'nın çıkması

Yukarıdakilerden hangileri Halifeliğin kaldırılmasının sonuçları arasında yer alır?

A) Yalnız I B) Yalnız II C) Yalnız III
D) I ve II E) I, II ve III

9. **Terakkiperver Cumhuriyet Fırkası'nın üyeleri arasında aşağıdakilerden hangisi yer almaz?**

A) Ali Fethi Okyar
B) Bekir Sami Kunduh
C) Rauf Orbay
D) Adnan Adıvar
E) Ali Fuat Cebesoy

10. I. Halk Fırkası'nın kurulması
II. Lozan Antlaşması'nın onaylanması
III. Serbest Cumhuriyet Fırkası'nın kurulması

Yukarıdakilerden hangileri II. TBMM Dönemi gelişmelerindendir?

A) Yalnız I B) Yalnız II C) Yalnız III
D) I ve II E) I, II ve III

11. **Atatürk Dönemi'nde cumhurbaşkanlığı seçimleri kaç yılda bir yapılmıştır?**

A) 2 B) 3 C) 4 D) 5 E) 6

12. **İstiklal Marşı'nı Mehmet Akif Ersoy aşağıdakilerden hangisine armağan etmiştir?**

A) Türk Gençliği'ne
B) Türk Kadınları'na
C) Türk Milleti'ne
D) Türk Ordusu'na
E) TBMM'ye

13. **İzmir Suikastı Girişimi aşağıdaki hangi hükümet döneminde olmuştur?**

A) İsmet İnönü
B) Ali Fethi Okyar
C) Celal Bayar
D) Fevzi Çakmak
E) Rauf Orbay

14. **İstiklal Mahkemeleri'nin aşağıdaki özelliklerinden hangisi güçler birliği ilkesinin uygulandığını gösterir?**

A) Üyelerinin milletvekili olması
B) Kimi yargılamaları halka açık yapması
C) Rejim karşıtı isyanları bastırması
D) Parti mensuplarını da yargılaması
E) Devlet düzenini koruması

MURAT YAYINLARI

15. "Çoçuk Davamız" **adlı eser aşağıdaki Milli Mücadele kahramanlarından hangisine aittir?**

A) İsmet İnönü
B) Ali Fethi Okyar
C) Kazım Karabekir
D) Fevzi Çakmak
E) Rauf Orbay

16. **9 Umde aşağıdakilerden hangisi ile ilgilidir?**

A) Halk Fırkası programı
B) 1929 Ekonomik Buhranı
C) Şeyh Sait İsyanı
D) Nasturi Ayaklanması
E) Terakkiperver Cumhuriyet Fırkası programı

17. **Atatürk Dönemi'nde;**

I. Menemen Olayı,
II. Şeyh Sait İsyanı,
III. İzmir Suikastı Girişimi

hangilerinin siyasi parti kapatmalarına zemin hazırladığı söylenebilir?

A) Yalnız I B) Yalnız II C) Yalnız III
D) I ve III E) I,II ve III

18. **İstiklal Mahkemeleri aşağıdakilerden hangisinde son kez kurulmuştur?**

A) İzmir Suikastı Girişimi
B) Şeyh Sait İsyanı
C) Menemen Olayı
D) Nasturi İsyanı
E) Anzavur İsyanı

19. "Sınıf Arkadaşım Atatürk" **adlı eser aşağıdaki Milli Mücadele kahramanlarından hangisine aittir?**

A) Kazım Karabekir
B) İsmet İnönü
C) Ali Fuat Cebesoy
D) Fevzi Çakmak
E) Ali Fethi Okyar

20. **Aşağıdakilerden hangisi Nutuk'ta söz edilen gelişmelerden biri olamaz?**

A) Atatürk'e İzmir'de suikast girişimi
B) Serbest Cumhuriyet Fırkası'nın kurulması
C) Şeyh Sait İsyanı'nın çıkması
D) Terakkiperver Cumhuriyet Fırkası'nın kurulması
E) İstiklal Mahkemeleri'nin kurulması

MURAT YAYINLARI

/muratyayincilik

Açıklamalar • TEST 44

1. **D** Atatürk Dönemi'nde İstiklal Madalyası alan ilk yer 1924 yılında İnebolu olmuştur. İnebolu İstiklal Yolu'nun başladığı yerdir.
Atatürk Dönemi'nde İstiklal Madalyası alan ilk şehir ise 1925 yılında Maraş olmuştur.

2. **A** 1924 yılında Hakkari civarında çıkarılan isyan Hristiyan Süryani isyanı olan Nasturi Ayaklanması'dır.

3. **E** 11 Ağustos 1923 tarihinde açılan II. TBMM'nin ilk hükümetini Ali Fethi Okyar kurmuştur.
Ali Fethi Okyar hükümeti 27 Ekim 1923 tarihine kadar görevini sürdürmüştür.

4. **D** 1920 yılında kurulan İstiklal Mahkemeleri 1927 yılında kadar bir takım olayların bastırılmasında görev almıştır. Tekalif-i Milliye Emirleri'nde I. TBMM'ye karşı isyanlarda, Şeyh Sait İsyanı'nda, Tekke ve Zaviyelarin kapatılmasında, İzmir Suikastı Girişimi'nde İstiklal Mahkemeleri'ni görmemiz mümkümdür.
Ancak 1930 yılında yaşanan Kubilay Olayı'nda (Menemen Olayı) İstiklal Mahkemeleri değil Divan-ı Harp yer almıştır.

5. **B** Kazım Özalp, Atatürk Dönemi'nde en uzun süre TBMM Başkanlığı görevini üstlenen kişidir.
Kazım Özalp bu görevi 1924-1935 yılları arasında üstlenmiştir.

6. **B** Saltanatın kaldırılması (1 Kasım 1922) ve Halifeliğin kaldırılması (3 Mart 1924) Şeyh Sait İsyanı'ndan önceki gelişmelerdir.

7. **D** Serbest Cumhuriyet Fırkası, Atatürk'ün desteğiyle 1930 yılında Ali Fethi Okyar tarafından kurulmuştur.
Adnan Menderes ve Atatürk'ün kız kardeşi Makbule Hanım Serbest Cumhuriyet Fırkası'nın üyeleri arasında yer almıştır.
Ali Fuat Cebesoy, Serbest Cumhuriyet Fırkası'nın üyesi değildir.
Cumhuriyet rejimine karşı ilk ayaklanma olan 13 Şubat 1925'teki Şeyh Sait İsyanı bastırıldıktan sonra şeyhlerin kontrolündeki Tekke ve Zaviyeler kapatılmıştır (30 Kasım 1925)

8. **B** Halifeliğin kaldırılması ile laik devlet anlayışı pekişmiş ve devlet idaresinde çok başlılık son bulmuştur.
Hilafet Ordusu İsyanı, İstanbul hükümeti tarafından 1920 yılında I. TBMM'ye karşı çıkarılan isyandır. Halifeliğin kaldırılmasının sonuçları arasında gösterilemez.
Vahdettin'in yurt dışına çıkışı 1 Kasım 1922'de Saltanatın kaldırılması ile gerçekleşmiştir. Halifeliğin kaldırılmasının sonuçları arasında gösterilemez.

MURAT YAYINLARI

9. **A** Ali Fethi Okyar, Terakkiperver Cumhuriyet Fırkası'nın üyeleri arasında yer almaz. 1930 yılında Serbest Cumhuriyet Fırkası'nı kurmuştur.
Diğer seçeneklerdekiler Terakkiperver Cumhuriyet Fırkası'nın üyeleridir.

10. **D** II. TBMM Dönemi 1923-1927 yılları arasındaki dönemdir.
Halk Fırkası'nın kurulması (1923), Lozan Antlaşması'nın onayı (1923) II. TBMM Dönemi gelişmelerindendir.
Ancak Serbest Cumhuriyet Fırkası 1930 yılında kurulduğu için II. TBMM Dönemi'nden sonra yaşanan bir gelişmedir.

11. **C** Atatürk Dönemi'nde cumhurbaşkanlığı seçimleri ve milletvekilliği seçimleri 4 (dört) yılda bir yapılmıştır.

12. **D** İstiklal Marşı'nı Mehmet Akif Ersoy Türk Ordusu'na armağan etmiştir.

13. **A** İzmir Suikastı Girişimi (1926) İsmet İnönü Hükümeti dönemine aittir.

14. **A** Yasama, yürütme ve yargı güçlerinin mecliste toplanması güçler birliği ilkesinin katıdır. Bu çerçevede İstiklal Mahkemeleri üyelerinin milletvekili olması güçler birliği ilkesinin kanıtıdır.

15. **C** "Çocuk Davamız" adlı eser Milli Mücadele kahramanlarından Kazım Karabekir'e aittir.

16. **A** 9 Umde, dokuz ilke anlamına gelir ve Halk Fırkası programıdır. 8 Nisan 1923 tarihinde Atatürk tarafından yayınlanmıştır.

17. **B** Şeyh Sait İsyanı'na adı karıştığı iddaları nedeniyle Terakkiperver Cumhuriyet Fırkası kapatılmıştır. Ancak İzmir Suikastı Girişimi ve Menemen Olayı siyasi parti kapanmalarına neden olan isyanlar değildir.

18. **A** İstiklal Mahkemeleri 1920-1927 yılları arasında faal olmuştur. Bu mahkemeler son kez İzmir Suikasti Girişimi'nde görev almıştır.

19. **C** "Sınıf Arkadaşım Atatürk" adlı eser Milli Mücadele kahramanlarından Ali Fuat Cebesoy'a aittir.

20. **B** Atatürk'e ait eser olan Nutuk 15-20 Ekim 1927 tarihinde II. CHF Kurultayı'nda Atatürk tarafından okunmuştur.
Nutuk'un konusu 19 Mayıs 1919'da Samsun'a Çıkış ile başlayıp 20 Ekim 1927'de Gençliğe Hitabe ile bitmektedir.
Serbest Cumhuriyet Fırkası'nın kurulması 1930 yılındadır ve Nutuk'da Atatürk'ün bu partiden söz etmesi mümkün değildir.

MURAT YAYINLARI

/muratyayincilik

Atatürk İlkeleri • TEST 45

1. Atatürk Dönemi'nde;

I. sosyal adalet,
II. fırsat eşitliği,
III. hukuk üstünlüğü

kavramlarından hangileri Halkçılık ilkesi ile ilgilidir?

A) Yalnız I B) Yalnız II C) Yalnız III
D) I ve III E) I, II ve III

2. Ulusal bağımsızlık,milli menafetler ve vatan sevgisi kavramları aşağıdaki Atatürk ilkelerinden hangisiyle doğrudan ilgilidir?

A) Milliyetçilik
B) Devrimcilik
C) Cumhuriyetçilik
D) İnkılapçılık
E) Laiklik

3. Muassırlaşma ve dünya ile uyum aşağıdaki Atatürk ilkelerinden hangisini bütünleyen kavramlardandır?

A) Milliyetçilik
B) İnkılapçılık
C) Cumhuriyetçilik
D) Halkçılık
E) Laiklik

4. Cumhuriyetçilik ilkesinin;

I. demokrasi,
II. bağımsız seçimler,
III. milli irade

kavramlarından hangileri ile ilgili olduğu söylenebilir?

A) Yalnız I B) Yalnız II C) Yalnız III
D) I ve III E) I, II ve III

5. Atatürk'ün Laiklik ilkesi;

I. bilim,
II. fen,
III. teknik

kavramlarından hangileri ile ilgili olduğu söylenebilir?

A) Yalnız I B) Yalnız II C) Yalnız III
D) I ve III E) I, II ve III

6. Atatürk Dönemi'nde uygulanan son ilke aşağıdakilerden hangisidir?

A) Milliyetçilik
B) Devletçilik
C) Cumhuriyetçilik
D) Halkçılık
E) Laiklik

MURAT YAYINLARI

7. **Atatürk'ün altı ilkesi Halk Fırkası'nın programına aşağıdaki yıllardan hangisi ile alınmıştır?**

A) 1927 B) 1930 C) 1931
D) 1935 E) 1937

8. **Milli Mücadele Dönemi'nde;**

I. cumhuriyetçilik,
II. milliyetçilik,
III. halkçılık

ilkelerinden hangilerinin uygulandığı söylenebilir?

A) Yalnız I B) Yalnız II C) Yalnız III
D) I ve III E) I, II ve III

9. **Aşağıdakilerden hangisi Atatürk'ün Laiklik ilkesine karşı düzenlenmiştir?**

A) Çopur Musa İsyanı
B) Anzavur İsyanı
C) Kubilay Olayı
D) Hilafet Ordusu İsyanı
E) Şeyh Eşref İsyanı

10. I. Halkın refah seviyesinin yükseltilmesi amaçlar.
II. Ekonomik bağımsızlığı savunur.
III. Yabancı yatırımına karşıdır.

Yukarıdakilerden hangileri Atatürk'ün Devletçilik ilkesinin özelliklerindendir?

A) Yalnız I B) Yalnız II C) Yalnız III
D) I ve II E) I, II ve III

11. **Aşağıdakilerden hangisi ile Atatürk'ün Milliyetçilik ilkesi arasında bir ilişki kurulamaz?**

A) Milli bağımsızlık
B) Bayrak sevgisi
C) Etnik birlik
D) Ulusal birlik ve beraberlik
E) Vatan bütünlüğü

12. **Lozan Barış Antlaşması'nda Boğazlar Komisyonu'nun kurulması;**

I. milliyetçilik,
II. devletçilik,
III. cumhuriyetçilik

hangilerinden taviz verildiğinin göstergesidir?

A) Yalnız I B) Yalnız II C) Yalnız III
D) I ve III E) II ve III

13. **Kanun önünde eşitlik prensibi aşağıdaki Atatürk ilkelerinden hangisi ile doğrudan ilgilidir?**

A) Devletçilik
B) Milliyetçilik
C) Halkçılık
D) Devrimcilik
E) Laiklik

14. **Aşağıdaki Atatürk ilkelerinden hangisi diğerinden daha önce uygulanmıştır?**

A) Devletçilik
B) İnkılapçılık
C) Cumhuriyetçilik
D) Milliyetçilik
E) Laiklik

MURAT YAYINLARI

/muratyayincilik

15. **Terakkiperver Cumhuriyet Fırkası ve Serbest Cumhuriyet Fırkası'nın karşı çıktıkları ortak ilke aşağıdakilerden hangisidir?**

A) Devletçilik
B) Milliyetçilik
C) Halkçılık
D) Cumhuriyetçilik
E) Laiklik

16. **Atatürk'ün altı ilkesi anayasaya aşağıdaki yıllardan hangisinde girmiştir?**

A) 1927 B) 1931 C) 1935
D) 1937 E) 1938

17. **Devrimcilik olarak da bilinen Atatürk ilkesi aşağıdakilerden hangisidir?**

A) Milliyetçilik
B) İnkılapçılık
C) Halkçılık
D) Laiklik
E) Devletçilik

18. **Aşağıdakilerden hangisi Atatürk'ün Cumhuriyetçilik ilkesinin bütünleyenlerinden biri değildir?**

A) Milli egemenlik
B) Özgür seçimler
C) Sömürgecilikle mücadele
D) Demokrasi
E) Seçme ve seçilme hakkı

19. **Din ve vicdan özgürlüğü kavramı aşağıdaki Atatürk ilkelerinden hangisinin bütünleyenlerindendir?**

A) Laiklik
B) Devletçilik
C) Halkçılık
D) Milliyetçilik
E) Cumhuriyetçilik

20. Erkan-ı Harbiye Vekaleti'nin kaldırılması sonucunda ordunun siyaset ile bağı son bulmuştur.

Buna göre Erkan-ı Harbiye Vekaleti'nin kaldırılmasının;

I. Laiklik,
II. Cumhuriyetçilik,
III. Devletçilik

ilkelerinden hangileri ile ilgili olduğu söylenebilir?

A) Yalnız I B) Yalnız II C) Yalnız III
D) I ve II E) I, II ve III

MURAT YAYINLARI

Açıklamalar • TEST 45

1. **E** Sosyal adalet, fırsat eşitliği ve hukuk üstünlüğü Halkçılık ilkesini bütünleyen kavramlardır.

2. **A** Ulusal bağımsızlık, milli menafetler ve vatan sevgisi kavramları Atatürk ilkelerinden Milliyeçilik ilkesiyle ilgilidir.

3. **B** Muassırlaşma ve dünya ile uyum kavramları Atatürk ilklerinden İnkılapçılık ilkesinin bütünleyenleridir. (tamamlayanlarıdır)

4. **E** Demokrasi, bağımsız seçimler, milli irade gibi siyasi hakları barındıran kavramlar Cumhuriyetçilik ilkesi ile ilgilidir.

5. **E** Bilim, fen ve teknik kavramları Laiklik ilkesinin bütünleyenlerindendir.

6. **B** Atatürk Dönemi'nde uygulanan ilk ilke Milliyetçilik uygulanan son ilke ise Devletçilik olmuştur.

7. **C** Atatürk'ün altı ilkesi Halk Fırkası'nın programına 1931 yılında alınmıştır. Anayasaya altı ilkenin girmesi ise 1937 yılında olmuştur.

8. **E** Milli Mücadele Dönemi'nde Milliyetçilik, Cumhuriyetçilik ve Halkçılık ilkeleri uygulanmıştır.
Ulusal bağımsızlık mücadelesi Milliyetçilik ilkesi ile, irade-i milliyenin savunulması ve siyasi hakların tanınması Cumhuriyetçilik ilkesi ile ilgilidir. Cumhuriyetçilik ilkesinin de doğal sonucu Halkçılık olduğu için her üç ilke de Milli Mücadele Dönemi'nde uygulamıştır.

9. **C** Kubilay Olayı (Menemen Olayı) 1930 yılında Cumhuriyet rejimine ve laik düzene karşı çıkarılan bir isyandır.
Diğer seçeneklerde verilenler I. TBMM Dönemi'ndeki isyanlardandır ve laiklik ilkesine karşı düzenlenen isyanlar değildir.

10. **D** Atatürk'ün Devletçilik ilkesi, yabancı yatırımına karşı değildir ancak yabancı tekelleşmesine karşıdır.
Halkın refah seviyesinin yükseltilmesi ve ekonomik bağımsızlığ savunulması Devletçilik ilkesinin özelliklerindendir.

11. **C** Atatürk'ün Milliyetçilik ilkesinde ırk yani etnik birlik yoktur. Dolayısıyla Atatürk milliyetçiliği ile etnik birlik arasında bir bağ kurulamaz.
Diğer seçeneklerde verilenler Atatürk'ün Milliyetçilik ilkesi ile ilgilidir.

12. **A** Lozan Barış Antlaşması'nda Boğazlar Komisyonu'nun kurulması ulusal bağımsızlık anlayışına aykırı olduğu için Milliyetçiliik ilkesinden taviz verildiğinin göstergesidir.

13. **C** Kanun önünde eşitlik prensibi ve hukuk üstünlüğü kavramları doğrudan Atatürk'ün Halkçılık ilkesi ile ilgilidir.

14. **D** Ulusal bağımsızlık kavramı, Atatürk'ün Milliyetçilik ilkesi ile ilgili olduğu için bu ilke diğerlerinden daha önce uygulama alanı bulmuştur.

15. **A** Terakkiperver Cumhuriyet Fırkası ve Serbest Cumhuriyet Fırkası'nın karşı çıktığı ilke Devletçilik ilkesi olmuştur.

16. **D** Atatürk'ün altı ilkesi 5 Şubat 1937 tarihinde anayasaya girmiştir.

17. **B** İnkılapçılık ilkesi, Devrimcilik olarak da bilinen Atatürk ilkesidir.

18. **C** Sömürgecilikle mücadele Atatürk'ün Milliyetçilik ilkesi ile ilgilidir.
Diğer seçeneklerde verilenler Atatürk'ün Cumhuriyetçilik ilkesinin bütünleyenleridir.

19. **A** Din ve vicdan özgürlüğü kavramı Laiklik ilkesinin bütünleyenlerindendir.

20. **B** Erkan-ı Harbiye Vekaleti'nin kaldırılması sonucunda ordunun siyaset ile bağı son bulmuştur. Bu durumda yapılan bu inkılap hareketi doğrudan Cumhuriyetçilik ilkesi ile ilgilidir.

MURAT YAYINLARI

/muratyayincilik

Atatürk İlkeleri • TEST 46

1. **Atatürk Dönemi'nde çalışanların sosyal haklarını ve güvenliğini sağlamaya yönelik yapılan;**

- 1921'de Ereğli Maden Amelesi'nin Hukuku Hakkında Kanun çıkarılması,
- 1936'da İş Kanunu'nun kabul edilmesi

gibi çalışmalar aşağıdaki ilkelerden hangisiyle ilişkilendirilebilir?

A) Cumhuriyetçilik
B) Halkçılık
C) Milliyetçilik
D) İnkılapçılık
E) Laiklik

2. "Gençliği yetiştiriniz. Onlara bilim ve irfanın müspet fikirlerini veriniz. Geleceğin aydınlığına onlarla kavuşacaksınız."

Mustafa Kemal Atatürk bu sözüyle aşağıdaki ilkelerden özellikle hangisini vurgulamıştır?

A) Laiklik
B) Devletçilik
C) Halkçılık
D) Milliyetçilik
E) Cumhuriyetçilik

3. **Mustafa Kemal;** "Bu dünyada görülen kabahatlerin, kusurların, eksiklerin, kötülük ve bozgunculukların birinci etkeni ve nedeni, bilim ve eğitim eksikliğidir." **sözüyle aşağıdakilerden hangisinin gerekliliğini vurgulamıştır?**

A) Devletçilik
B) Milliyetçilik
C) Laiklik
D) Cumhuriyetçilik
E) Ulusal bağımsızlık

4. I. Devletin kamu yararına ekonomik faaliyetlerde bulunması
II. Kamu İktisadi Teşekkülleri'nin kurulması
III. Bireysel haklar üzerinde sınırlamalar getirilmesi

Yukarıda verilenlerden hangileri devletçilik ilkesi ile ilgilidir?

A) Yalnız I B) I ve II C) I ve III
D) II ve III E) I, II ve III

5. **Atatürkçü düşünce sistemine göre milliyetçilik;**

I. insancıl anlayış,
II. ırk farklılığı,
III. kültür mirası

gibi unsurlardan hangilerine dayanmaktadır?

A) Yalnız I B) I ve II C) I ve III
D) II ve III E) I, II ve III

6.

- Tevhid-i Tedrisat Kanunu'nun kabulü
- Medeni Kanun'un yürürlüğe girmesi
- Aşar Vergisi'nin kaldırılması

Verilen inkılaplar aşağıdakilerden hangisi ile ilgilidir?

A) Milli irade
B) Bağımsızlık ilkesi
C) Siyasi haklar
D) Devletçi ekonomi
E) Eşitlik ilkesi

7.

- Medeni Kanun'un kabul edilmesi
- Şapka Kanunu'nun kabul edilmesi
- Saltanatın kaldırılması

Yukarıdaki inkılapların ilgili olduğu ortak ilke aşağıdakilerden hangisidir?

A) Milliyetçilik
B) Laiklik
C) Cumhuriyetçilik
D) Ulusçuluk
E) Devletçilik

MURAT YAYINLARI

8. **Halkçılığın zorunlu bir sonuca olarak halkın iktisadi anlamda refahını yükseltmek amacıyla ortaya çıkan ilke aşağıdakilerden hangisidir?**

A) Milliyetçilik
B) Devletçilik
C) İnkılapçılık
D) Cumhuriyetçilik
E) Laiklik

9. **Aşağıdakilerden hangisi laikliğin amaçlarından biri değildir?**

A) Çağdaşlaşma
B) Eşitlik
C) Toplumsal barış
D) Akılcılık
E) Ulusal bağımsızlık

10. **Milliyetçilik ilkesi,**

I. ırkını üstün görme,
II. birleştirici ve bütünleştirici olma,
III. milli bilinci yükseltme

gibi amaçlardan hangilerine hizmet etmektedir?

A) Yalnız I B) Yalnız II C) Yalnız III
D) II ve III E) I, II ve III

11. **Atatürk'ün** "Türk milleti, tarihinle övün çünkü senin ecdadın, medeniyetler kuran, devletler, imparatorluklar yaratan bir mevcudiyettir." **sözü;**

I. Devletçilik,
II. Milliyetçilik,
III. Cumhuriyetçilik

ilkelerinden hangileriyle ilgilidir?

A) Yalnız I B) Yalnız II C) Yalnız III
D) I ve II E) II ve III

12. I. Tevhid-i Tedrisat Kanunu'nun çıkarılması
II. Kılık Kıyafet Yasası'nın kabul edilmesi
III. Kabotaj Kanunu'nun yürürlüğe girmesi

Yukarıda verilenlerden hangileri doğrudan halkçılık ilkesi ile ilgili devrimler arasında yer alır?

A) Yalnız I
B) Yalnız III
C) I ve II
D) II ve III
E) I, II ve III

13. "Bir toplumu bir bölüm insanların düşüncelerine zorla tutsak etmek ve cılız bağımlılar olarak yaşatmak doğal ve akla uygun bir hükümet sistemi değildir."

Atatürk bu sözüyle;

I. halkçılık,
II. laiklik,
III. cumhuriyetçilik

ilkelerinden hangilerini vurgulamıştır?

A) Yalnız II
B) Yalnız III
C) I ve II
D) II ve III
E) I, II ve III

14. **Mustafa Kemal Onuncu Yıl Nutku'nda** "Türk milleti çalışkandır. Türk milleti zekidir. Çünkü Türk milleti, milli birlik beraberlik içerisinde güçlükleri yenmesini bilmiştir. Ve çünkü Türk milletinin yürümekte olduğu ilerleme ve medeniyet yolunda, elinde ve kafasında tuttuğu meşale müspet ilimdir." **demiştir.**

Verilen metinde aşağıdaki ilkelerden hangisine vurgu yapılmamıştır?

A) Devletçilik
B) Milliyetçilik
C) Laiklik
D) İnkılapçılık
E) Halkçılık

MURAT YAYINLARI

/muratyayincilik

15. I. Okuma yazma seferberliği
II. Azınlıkların Türk vatandaşı sayılması
III. Kadınlara siyasi özgürlüğün tanınması

Yukarıda verilenlerden hangileri halkçılık ilkesi ile ilgilidir?

A) Yalnız I
B) Yalnız III
C) I ve II
D) II ve III
E) I, II ve III

16. "Vicdan hürriyeti mutlak, taarruz edilemez, ferdin tabii haklarının en mühimlerinden tanınmalıdır."

Atatürk'ün verilen sözü aşağıdaki ilkelerden hangisiyle ilgilidir?

A) Devletçilik
B) Milliyetçilik
C) Cumhuriyetçilik
D) Laiklik
E) İnkılapçılık

17. I. Çok partili hayat denemeleri
II. Medeni Kanun'un kabulü
III. Saltanatın kaldırılması

Yukarıda verilenlerden hangileri cumhuriyetçilik ilkesi ile ilgilidir?

A) Yalnız I
B) Yalnız III
C) I ve III
D) II ve III
E) I, II ve III

18. I. Saltanatın kaldırılması
II. Tevhid-i Tedrisat Kanunu'nun çıkarılması
III. Halifeliğin kaldırılması
IV. Medreselerin kapatılması

Yukarıdaki inkılaplardan hangileri laik devlet anlayışına katkı sağlayan yeniliklerdendir?

A) I ve II
B) I ve III
C) II ve III
D) I, II ve IV
E) I, II, III ve IV

19. **Yeni Türk Devleti'nde;**
I. Mecellenin kaldırılması,
II. 1924 Anayasası'nın kabulü,
III. Cumhuriyetin ilanı

inkılaplarından hangileri milli iradenin güçlendirilmesine yöneliktir?

A) Yalnız I
B) Yalnız II
C) Yalnız III
D) II ve III
E) I, II ve III

20. **Mustafa Kemal'in;** "Uygarlığın coşkun seli karşısında direnmek boşunadır." **sözüyle aşağıdaki ilkelerden hangisini vurguladığı savunulabilir?**

A) İnkılapçılık
B) Devletçilik
C) Milliyetçilik
D) Cumhuriyetçilk
E) Halkçılık

MURAT YAYINLARI

Açıklamalar • TEST 46

1. **B** Çalışanların sosyal hak ve güvenliğini sağlamaya yönelik çabalar halkçılık ilkesi ile ilgilidir.

2. **A** Bilim ve irfanın müspet fikirlerin gençlere aşılanması, akılcılığın yani laikliğin gerekli olduğunun vurgusudur.

3. **C** Akılcılık ve bilimsellik, laiklik ilkesinin bütünleyicisidir. Dogmalardan uzak bilime dayalı bir eğitim sistemi laik anlayış doğrultusunda sağlanabilir.

4. **B** Devletçilik özel sektörün gerçekleştiremediği atılımların devlet eliyle gerçekleştirmesidir. Bu doğrultuda kamu iktisadi teşekküllerinin kurulmasını da kapsar. Fakat bireysel hak ve özgürlükler üzerinde katı sınırlandırmalar oluşturmaz.

5. **C** Atatürk milliyetçiliği, ırkçılığı kabul etmez; bu nedenle ırk farklılıklarını yok sayar. Kültür, amaç ve ülkü birliğini savunur ve insancıl anlayışa dayanır.

6. **E** Tevhid-i Tedrisat Kanunu ile eğitimde fırsat eşitliği sağlanmış, Medeni Kanun'la kadın ve erkek eşit kılınmış; sadece tarımla uğraşanların ödediği Aşar Vergisi'nin kaldırılması ile tüm vatandaşlar arasında vergi ödemede eşitlik sağlanmıştır. Yani tüm bu inkılaplar halkçılıkla yani eşitlik ilkesiyle ilgilidir.

7. **B** Medeni Kanun'un kabulü ile halka din vicdan özgürlüğü ve istediği dini ve mezhebi seçme hakkı tanınmış, Şapka Kanunu ile çağdaş toplum yapısına katkı sağlanmış ve Saltanatın kaldırılması dini otorite ile siyasi otorite birbirinden ayrılmıştır. Tüm bu atılımlar laiklikle ilgilidir.

8. **B** Halkçılığın zorunlu sonucu olarak halkın ihtiyaç duyduğu temel tüketim maddelerini üretmek ve halkın refahını yükseltmek amacıyla ortaya çıkan ilke devletçiliktir.

9. **E** Halka eşit hak verilmesi, toplumsal barışı beraberinde getirir; din ve mezhep ayrılıklarının yok sayılarak akılcılığın esas alınmasına bağlıdır. Laikliğin hedeflediği çağdaşlaşma ancak bu yolla mümkündür. Ulusal bağımsızlık ise halkın yönetime katılmasını hedefleyen milliyetçilik ilkesi ile ilgilidir.

10. **D** Atatürk milliyetçiliği, birleştirici ve bütünleştiricidir. Milli bilinci yükseltmeyi hedefler ve ırk, din ve mezhep ayrılıklarını ve ırkını üstün görmeyi reddeder.

11. **B** Türk tarihinin araştırılması, bilinmesi ve bu yolla milli bilincin topluma aşılanması milliyetçilikle ilgilidir.

12. **C** Tevhid-i Tedrisat eğitimde fırsat eşitliğini sağladığı için, kılık kıyafet yasası halk arasında ayrıcalık yaratan kisveleri kaldırdığı için halkçılık ilkesi ile ilgilidir. Kabotaj Kanunu ise Türk kara sularından yabancı işletmelerin arındırılmasını yani milliyetçilik ilkesini içerir.

13. **E** Yönetimde aklı esas almak laiklik, halkın düşünce ve iradesinin yansıtıldığı bir hükümet sistemini benimsemek cumhuriyetçilik ve onun doğal sonucu olan halkçılıkla ilgilidir.

14. **A** Türk milletinin yüceltilmesi milliyetçilik, birlik beraberlik içinde olması halkçılık, ilerleme yolunda olması inkılapçılık ve müspet ilimi esas alması laiklik ilkesini vurgular. Metinde ekonomik yapıya yönelik veya devletçilik ilkesinin vurgulandığı bir içerik yoktur.

15. **E** Herkesin okur yazar olmasını sağlamak, vatandaşlık çatısında herkesi birleştirmek ve kadınlara siyasi özgürlüğün tanınması siyasi eşitliği sağladığı için halkçılık ilkesi ile ilgilidir.

16. **D** Vicdan hürriyetinin en önemli haklardan olduğunun vurgulanması laiklik ilkesi ile ilgilidir.

17. **C** Çok partili hayata geçmeye çalışarak farklı fikirlerin yönetimde temsil edilmesi amaçlanmış, ve ulusal iradenin önündeki engel olan Saltanatın kaldırılması cumhuriyetçilik ilkesi ile ilgili yeniliklerdendir. Medeni Kanun'da ise siyasi haklar yer almaz.

18. **E** Öncüllerde verilen inkılaplardan her biri laik devlet anlayışına katkı sağlayan yeniliklerdendir.

19. **D** Yeni Türk devleti'nde Cumhuriyetin ilanı milli iradenin güçlendirilmesine yönelik inkılaplardandır. Ayrıca 1924 Anayasası'nın kabulü de milli iradenin güçlendirilmesine katkı sağlamıştır. (Hakimiyet kayıtsız şartsız milletindir. maddesi buna örnek verilebilir.) Ancak Mecelle İslam temelli medeni kanundur ve Türk Medeni Yasası'nın kabulü ile kaldırılmıştır.

20. **A** Değişen dünyada doğmalara inanarak değişimi reddetmenin yanlış olduğu vurgusu inkılapçılık ilkesi ile ilgilidir.

MURAT YAYINLARI

Atatürk İnkılapları • TEST 47

1. **Aşağıdakilerden hangisi Atatürk Dönemi'nde faaliyet gösteren eğitim ve kültür kurumlarından biri değildir?**

A) Halkevleri
B) Millet Mektepleri
C) Yabancı okullar
D) Köy Enstitüleri
E) Halk Okuma Odaları

2. I. Misak-ı İktisadi'nin kabulü
II. Kabotaj Kanunu'nun çıkarılması
III. Hıfzıssıhha Enstitüsü'nün kurulması

Yukarıda verilenlerden hangileri Yeni Türk Devleti'nin ekonomi politikaları ile ilgilidir?

A) Yalnız I B) Yalnız III C) I ve II
D) I ve III E) II ve III

3. • Kapitülasyonların kaldırılması
• Kabotaj Kanunu
• İzmir İktisat Kongresi

gibi gelişmelerle;

I. milli ekonomi,
II. hammadde ihracatı,
III. ekonomik kalkınma

durumlarından hangilerinin amaçlandığı söylenebilir?

A) Yalnız I B) Yalnız II C) I ve II
D) I ve III E) I, II ve III

4. **Atatürk Dönemi'nde ekonomik alanda kalkınmayı sağlamak için;**

I. tam bağımsız ekonomi,
II. yerli kaynaklara dayalı sanayi,
III. sınıfsal farklılıkları artıracak yatırımlar

durumlarından hangilerinin hayata geçirilmeye çalışıldığı söylenebilir?

A) Yalnız I B) Yalnız II C) I ve II
D) I ve III E) I, II ve III

5. I. Saltanatın kaldırılması
II. Medeni Yasası'nın kabulü
III. Halifeliğin kaldırılması

Yukarıda verilenlerden hangileri siyasal hayatı demokratikleştirmek amacıyla yapılan inkılaplar arasında yer almaz?

A) Yalnız I
B) Yalnız II
C) Yalnız III
D) I ve II
E) II ve III

6. I. Medreseler
II. İlahiyat Fakültesi
III. İmam Hatip Okulları

Yukarıdakilerden hangileri ile ilgili açılma kararı Tevhid-i Tedrisat Kanunu'nda yer almıştır?

A) Yalnız I
B) Yalnız II
C) I ve II
D) II ve III
E) I, II ve III

7. I. Kabotaj Kanunu'nun çıkarılması
II. Teşvik-i Sanayi Kanunu'nun çıkarılması
III. II. Beş Yıllık Sanayi Planı'nın uygulanması

Yukarıda verilen inkılaplardan hangilerinde istenilen sonuç tam olarak alınamamıştır?

A) Yalnız I
B) Yalnız II
C) I ve II
D) I ve III
E) II ve III

MURAT YAYINLARI

8. **Patrikhanenin din işleri dışında azınlıkların sosyal haklarını düzenleme yetkisi aşağıdaki inkılaplardan hangisi ile sona ermiştir?**

A) Halifeliğin kaldırılması
B) Medeni Kanun'un kabulü
C) Saltanatın kaldırılması
D) Cumhuriyetin ilanı
E) Soyadı Kanunu'nun kabulü

9. **Cumhuriyet'in ilk yıllarında ekonomik alanda yapılan inkılaplar düşünüldüğünde, devlet ekonomide;**

I. destekleme,
II. düzenleme,
III. koruma

gibi politikalardan hangilerini uygulamıştır?

A) Yalnız I
B) Yalnız III
C) I ve III
D) II ve III
E) I, II ve III

10. **Türkiye Cumhuriyeti'nde gerçekleştirilen;**

I. milletvekillerinin ve cumhurbaşkanlarının yemin şekillerinin değiştirilmesi,
II. kadının, mirastan erkekle aynı oranda pay alması,
III. Atatürk ilkelerinin anayasa güvencesi altına alınması

gibi değişikliklerin kronolojik sırası aşağıdakilerden hangisidir?

A) I-II-III
B) I-III-II
C) II-III-I
D) II-I-III
E) III-II-I

11. **Aşağıdakilerden hangisi Atatürk inkılâplarının temel amaçları içerisinde yer almaz?**

A) Ulusal egemenliği geliştirmek ve yerleştirmek
B) Laikliği toplum ve devlet anlayışı olarak benimsetmek
C) Azınlıkların haklarını genişletmek
D) Çağdaş uygarlık düzeyine ulaşmak
E) Medeni bir toplumunun oluşmasını sağlamak

12. **Aşağıdakilerin hangisi İzmir İktisat Kongresi'nde bahsedilen konulardan biri değildir?**

A) Özel sektörün desteklenmesi
B) Ziraat Bankası'nın açılması
C) Aşar Vergisi'nin kaldırılması
D) Madenlerin tespit edilmesi ve işletilmesi
E) Kapitülasyonların kaldırılması

13. 1926'da Hicri Takvim yerine Miladi Takvim'e geçilmiş ve 1931'de arşın, okka ve endazenin yerine metre ve kilo kullanılmaya başlanmıştır.

Böylelikle;

I. ülke içindeki farklı uygulamalara son verme,
II. Batılı devletlerle uyum sağlama,
III. laik devlet olma

gibi hedeflerden hangilerine ulaşılmak istenmiştir?

A) Yalnız I
B) Yalnız II
C) Yalnız III
D) I ve II
E) II ve III

MURAT YAYINLARI

/muratyayincilik

14. 1929'da Amerika'da başlayıp kısa sürede tüm dünyaya yayılan ekonomik bunalım birçok ülkede siyasi ve ekonomik değişimlere neden olmuştur.

Bu ekonomik bunalımın Türkiye'de aşağıdakilerden hangisine ortam hazırladığı söylenemez?

A) Çok partili yaşam denemesi yapılmasına
B) Kabotaj Kanunu'nun çıkarılmasına
C) Devletçilik ilkesinin uygulamaya girmesine
D) Teşvik-i Sanayi Kanunu'nun başarısız olmasına
E) Planlı ekonomi uygulamalarına

15. **Medreselerin kapatılması aşağıdaki inkılaplardan hangisinin sonucudur?**

A) Tevhid-i Tedrisat Yasası
B) Teşkilat-ı Esasiye
C) Türk Medeni Kanunu
D) Maarif Teşkilatı Kanunu
E) Şeriye ve Evkaf Kanunu

16. I. Aşar Vergisi'nin kaldırılması
II. Merkez Bankasının kurulması
III. Türk Parasını Koruma Kanunu'nun çıkarılması

Yukarıdakilerden hangileri 1929 Dünya Ekonomik Bunalımı'nın Türkiye'ye etkilerindendir?

A) Yalnız I B) Yalnız II C) Yalnız III
D) I ve II E) II ve III

17. **Aşağıdakilerden hangisinin Batı ile ticareti kolaylaştırma amacı taşıdığı söylenemez?**

A) Miladi Takvim'e geçilmesi
B) Uluslararası Rakamların kabulü
C) Kabotaj Kanunu'nun kabulü
D) Hafta tatilinin pazar gününe alınması
E) Metrik sisteme geçilmesi

18. I. Türk Dili Tetkik Cemiyeti
II. Türk Tayyare Cemiyeti
III. Türk Tarihi Tetkik Cemiyeti

Yukarıda verilenlerden hangileri Atatürk Dönemi'nde kurulmuştur?

A) Yalnız I
B) Yalnız III
C) I ve III
D) II ve III
E) I, II ve III

19. **Aşağıdaki eşleştirmelerden hangisinin bir diğerinin tamamlayıcısı olduğu söylenemez?**

A) Tevhid-i Tedrisat Kanunu - Medreselerin kapatılması
B) I. Beş Yıllık Sanayi Planı - Uşak Şeker Fabrikasının kurulması
C) Üniversite Reformu - İstanbul Üniversitesi'nin açılması
D) Harf İnkılabı - Millet Mektepleri'nin açılması
E) I. Beş Yıllık Sanayi Planı - KİT'lerin kurulması

20. I. Halkevleri'nin açılması
II. Sümerbank'ın açılması
III. Merkez Bankası'nın kurulması
IV. Misak-ı İktisadi'nin kabulü

Yukarıdaki gelişmelerin kronolojik sıralaması hangisinde doğru olarak verilmiştir?

A) IV - III - I - II
B) II - IV - I - III
C) II - I - III - IV
D) IV - II - I - III
E) III - IV - II - I

MURAT YAYINLARI

Açıklamalar • TEST 47

1. **D** Köy Enstitüleri, 1940 yılında dönemin Milli Eğitim Bakanı Hasan Ali Yücel ve İlköğretim Müfettişi İsmail Hakkı Tonguç tarafından İsmet İnönü Dönemi'nde kurulmuştur.

2. **C** Misakı İktisadi ile İzmir İktisat Kongresi'nde yürütülecek ekonomi politikasının ilkeleri belirlenmiş, tam bağımsız ekonomi hedeflenmiş, Kabotaj Kanunu'nun çıkarılması öngörülmüştür. Hıfzısıhha Enstitüsünün kurulması ise koruyucu hekimlik ve sağlık alanında yapılan bir inkılaptır.

3. **D** Bu inkılaplar gerçekleştirilerek ekonomik kalkınmayı sağlama ve bu yolla tam bağımsız, milli ekonomiye sahip olmak amaçlanmıştır. Ancak ham maddenin ihracatı, ekonomi politikasının amaçları arasında yer almaz.

4. **C** Ekonomik alanda kalkınmayı sağlamak için yerli sermayeye dayalı tam bağımsız bir ekonomi ve kendi kaynaklarıyla büyüme hedeflenmiştir.

5. **B** Medeni Yasası'nda halkın yönetime katılması ve siyasi haklarla ilgili bir karar yer almaz.

6. **D** Tevhidi Tedrisat Kanunu kapsamında İmam Hatip Okullarının kurulmasına ve Dar'ül Fünun bünyesinde bir İlahiyat Fakültesi'nin açılmasına karar verilmiştir. Medreseler ise Tevhid-i Tedrisat Kanunu ile kapatılmıştır.

7. **E** Teşvik-i Sanayi Kanunu sermaye ve kalifiye eleman yetersizliği ile 1929 Dünya Ekonomik Bunalımı nedeniyle, II. Beş Yıllık Sanayi Planı ise II. Dünya Savaşı nedeniyle istenilen başarıya ulaşmamıştır.

8. **B** Patrikhane'nin dünyevi yetkilerine (din işleri dışında hukuksal ve sosyal işler) 1926 Medeni Kanun ile son verilmiştir.

9. **E** Devlet ekonomide bankalar kurup kredi vererek destekleme, I. ve II. Beş Yıllık Sanayi Planları'nı hazırlayarak düzenleme, İzmir İktisat Kongresi, Kabotaj Kanunu ve Gümrük Tarife Kanunu gibi uygulamalar ile koruma politikası izlemiştir.

10. **D** II. Kadının, mirastan erkekle aynı oranda pay alması 1926 Medeni Kanunu ile,
I. milletvekillerinin ve cumhurbaşkanlarının yemin şekillerinin değiştirilmesi 1928 Anayasa değişikliği ile,
III. Atatürk ilkelerinin anayasa güvencesi altına alınması 1937 anayasa değişikliği ile gerçekleştirilmiştir.

11. **C** Atatürk'ün inkılap anlayışı eşitsizliği ortadan kaldırmayı hedefler ve herkesi Türk vatandaşı kabul eder. Bu nedenle azınlık haklarını genişletmesi beklenmez.

12. **B** Ziraat Bankası 1888 yılında Mithat Paşa tarafından kurulmuştur. Diğer seçeneklerde verilenler İzmir İktisat Kongresi'nde alınan kararlardandır.

13. **D** Takvim, saat ve ölçü birimlerinde yapılan değişiklikler ülke içindeki farklı uygulamalara son verme ve batılı devletlerle ekonomik ilişkilerde uyum sağlamayı amaçlar. Laik devlet olma amacı taşımaz.

14. **B** Kabotaj Kanunu 1926'da yürürlüğe girmiştir. Bu nedenle 1929 Ekonomik Bunalımı'nın kanunun çıkarılmasına etki ettiği söylenemez. 1929 Ekonomi Bunalımı, Teşvik-i Sanayi Kanunu'nun başarılı olamamasında bu nedenle devletçi ekonomi modeline geçilerek I. Beş Yıllık Sanayi Planı'nın hazırlanmasında ve alternatif bir ekonomi modeline duyulan ihtiyaç nedeniyle liberal ekonomiyi benimseyen Serbest Cumhuriyet Fırkası'nın kurularak çok partili hayata geçilmeye çalışılmasında etkilidir.

15. **A** Medreselerin 11 Mart 1924'te kapatılması, 3 Mart 1924'te kabul edilen Tevhid-i Tedrisat Kanunu çerçevesindedir.

16. **E** Aşar Vergisi'nin kaldırılması 1925'de olmuştur. 1929 Ekonomik Bunalımı'yla ilgili değildir.

17. **C** Kabotaj Kanunu Türk karasularında gemi işletme hakkının Türk denizcilere ait olmasını sağlamıştır; bu nedenle Batı ile ticareti kolaylaştırma amacı taşımaz. Hatta bu hak, yabancı ülkeleri rahatsız edebilecek bir durumdur.

18. **E** Türk Tayyare Cemiyeti (THK) 1925'te Türk Dili Tetkik Cemiyeti (TDK) 1932'de ve Türk Tarihi Tetkik Cemiyeti ise 1931 yılında kurulmuştur.

19. **B** I. Beş Yıllık Sanayi Planı 1933-1938 yılları arasında gerçekleştirilmiştir. Uşak Şeker Fabrikası ise 1926'da kurulmuştur. Daha önce gerçekleştiği için sanayi planının tamamlayıcısı olamaz.

20. **A** IV. Misak-ı İktisadi'nin kabulü 1923'te,
III. Merkez Bankası'nın kurulması 1930'da,
I. Halkevleri'nin açılması 1932'de,
II. Sümerbank'ın açılması 1933'te gerçekleşmiştir.

MURAT YAYINLARI

/muratyayincilik

Atatürk İnkılapları • TEST 48

1. I. Türk toplumuna batılı ve çağdaş bir karakter kazandırmak
II. Osmanlı Devleti'nden kalan nişan, rütbe ve lakapların taşınmasını önlemek
III. Bilim ve teknoloji alanlarında karşılığı olmayan yeni adların üretilmesini sağlamak

Yukarıdakilerden hangileri Unvan ve Lakapların Yasaklanması Kanunu'nun amaçları arasında yer almıştır?

A) Yalnız I
B) Yalnız II
C) Yalnız III
D) I ve II
E) II ve III

2. **Aşağıdaki tarihlerden hangisi Türk kadınına sosyal veya siyasi hakların verildiği bir tarih değildir?**

A) 1926
B) 1930
C) 1933
D) 1934
E) 1937

3. **Aşağıdaki gelişmelerden hangisi Yeni Türk Devleti'nde ulusal egemenliği sağlamak ve geliştirmek amaçlı değildir?**

A) Saltanatın kaldırılması
B) Halkevleri'nin kurulması
C) II. TBMM'nin açılması
D) Cumhuriyetin ilanı
E) Halifeliğin kaldırılması

4. I. Dış alımda gümrük vergilerinin arttırılması
II. Uluslararası fuarlara katılımın sağlanması
III. Üretimde kalitenin artırılması

Yukarıdakilerden hangileri yerli üreticiyi korumaya yönelik adımlardır?

A) Yalnız I
B) Yalnız II
C) Yalnız III
D) I ve III
E) I, II ve III

5. **3 Mart 1924'te çıkarılan Öğretim Birliği Kanunu ile aşağıdakilerden hangisi amaçlanmıştır?**

A) Laik bir eğitim modeline geçme
B) Yüksek eğitimi zorunlu hale getirme
C) Yeni Türk Alfabesi'ni öğretme
D) Yabancı okulları kapatma
E) Millet Mektepleri'ni yaygınlaştırma

6. İzmir İktisat Kongresi'nde milli bankaların kurulmasına yönelik kararlar alınmıştır.

Aşağıdakilerden hangisi bu karar doğrultusunda kurulan bankalardan değildir?

A) Sanayi ve Maadin Bankası
B) İş Bankası
C) İstanbul Bankası
D) Sümerbank
E) Halk Bankası

MURAT YAYINLARI

7. 1 Temmuz 1926 günü Kabotaj Kanunu kabul edilmiş ve her yıl 1 Temmuz, Kabotaj Bayramı olarak kutlanmaktadır.

Aşağıdakilerden hangisi bu kanunun çıkarılması ile elde edilen haklardandır?

A) Deniz Kuvvetleri Komutanlığı'nın kurulması
B) Devletçi ekonominin başlaması
C) Türk denizcilik şirketlerinin görevinin son bulması
D) Limanlarımız arasında yolcu ve yük taşımacılığının yalnız Türk gemileri ile yapılabilmesi
E) Limanların özelleştirilmesi

8. "... Yasaları dine dayanan devletler, kısa bir zaman sonra memleketin ve milletin isteklerini tatmin edemezler. Çünkü dinler değişmez hükümler ifade ederler. Hayat yürür, ihtiyaçlar sürekli değişir." **Dönemin Adalet Bakanı Mahmut Esat Bey'in bu sözleri aşağıdaki inkılaplardan hangisinin gerekçesini ortaya koymuştur?**

A) Kadınlara seçme ve seçilme hakkının verilmesinin
B) Planlı ekonomiye geçilmesinin
C) Türk Tarih Kurumu'nun kurulmasının
D) Latin Alfabesi'nin kabul edilmesinin
E) Medeni Kanunu'nun kabul edilmesinin

9. **Aşağıdaki Atatürk Dönemi'nin eğitim kurumlarından hangisi diğerlerinden daha önce açılmıştır?**

A) Ankara Hukuk Mektebi
B) İstanbul Üniversitesi
C) Gazi Eğitim Enstitüsü
D) Millet Mektepleri
E) Halkevleri

10. I. Okuma yazmayı yaygınlaştırma
II. Türkçeyi yabancı dillerin etkisinden kurtarma
III. Dil alanında akademik personel yetiştirme

Yukarıdakilerden hangilerinin Türk Dil Kurumu'nun asli görevlerinden olduğu savunulabilir?

A) Yalnız I B) Yalnız II C) Yalnız III
D) II ve III E) I, II ve III

11. **Atatürk'ün bir konuşmasındaki,** "İnkılap, var olan müesseseleri zorla değiştirmek demektir. Türk milletini son asırlarda geri bırakmış olan müesseseleri yıkarak yerlerine, milletin en yüksek medeni gereklere göre ilerlemesini sağlayacak yeni müesseseleri koymuş olmaktır." **sözleriyle inkılap hakkında aşağıdakilerden hangisini vurgulamak istediği savunulamaz?**

A) Türk İnkılabı'nın karakterini
B) Çağdaşlaşmayı hedeflediğini
C) Öncü bir kadro tarafından gerçekleştirilmesini
D) Temel kurumlarda değişme olmasını
E) Basit bir yöntem değişikliği olmadığını

12. **Medreselerin kapatılmasının aşağıdakilerden hangisini kolaylaştırdığı savunulabilir?**

A) Yeni bir anayasa yapılmasını
B) Cumhuriyetin ilan edilmesini
C) Saltanatın kaldırılmasını
D) Eğitim ve öğretimde ulusal ve laik bir anlayışın benimsenmesini
E) Harf İnkılabı'nın yapılmasını

13. I. Miladi takvime geçilmesi
II. Uluslararası saate geçilmesi
III. Metrik sisteme geçilmesi

Yukarıdaki inkılaplardan hangileri ülke içerisindeki uygulamalarda birlik sağlama amacını taşır?

A) Yalnız I
B) Yalnız III
C) II ve III
D) I ve II
E) I, II ve III

MURAT YAYINLARI

/muratyayincilik

14. • Seri üretime geçilmesi kararı alınmıştır.
• Tam bağımsızlık esas alınmıştır.
• Temel ekonomi ilkeleri belirlenmiştir.

Verilen özellikler ilk kez aşağıdakilerden hangisiyle kabul edilmiştir?

A) Teşvik-i Sanayi Kanunu
B) Misak-ı İktisadi Kararları
C) Miladi takvime geçiş
D) Kabotaj Kanunu
E) I. Beş Yıllık Sanayi Planı

15. **Türkiye Cumhuriyeti'nin ilk kadın tarih profesörü aşağıdakilerden hangisidir?**

A) Türkan Akyol
B) Ayşe Afet İnan
C) Bedriye Tahir Gökmen
D) Behice Boran
E) Sabiha Gökçen

16. **Aşağıdakilerden hangisi, ulusal kültürün geliştirilmesine yönelik devrimlerden biri değildir?**

A) Uluslararası ölçü birimlerinin kabulü
B) Halkevleri'nin açılması
C) Tevhid-i Tedrisat Kanunu'nun kabulü
D) Türk Dil Kurumu'nun açılması
E) Türk Tarih Kurumu'nun kurulması

17. I. Yabancı Okullar
II. Millet Mektepleri
III. Halkevleri

Yukarıdakilerden hangileri Osmanlı Dönemi'nde olmayıp Atatürk Dönemi'nde açılan kurumlardandır?

A) Yalnız II
B) Yalnız I
C) Yalnız III
D) II ve III
E) I, II ve III

18. • Medeni Kanunu'nun kabulü
• Tekke ve zaviyelerin kapatılması
• Halifeliğin kaldırılması
• Medreselerin kapatılması

Yukarıdaki devrimlerin, öncelikle aşağıdakilerden hangisini gerçekleştirmeye yönelik olduğu söylenebilir?

A) Ulusal bağımsızlığın sağlanması
B) Cumhuriyet'in ilan edilmesi
C) Siyasi eşitliğin sağlanması
D) Laik devlet düzeninin güçlendirilmesi
E) Çok partili hayata geçilmesi

19. **Laiklikle ilgili;**

I. Hilafetin kaldırılması
II. Milletvekillerinin yemin şeklinin değiştirilmesi
III. Tekke, zaviye ve türbelerin kapatılması
IV. Laiklik ilkesinin anayasal güvence altına alınması

devrimlerinin kronolojik sıralaması aşağıdakilerden hangisinde doğru olarak verilmiştir?

A) I-II-III-IV
B) I-III-II-IV
C) I-IV-II-III
D) I-II-IV-III
E) II-I-III-IV

20. **Aşağıdaki gelişmelerden hangisi 1926 Medeni Kanunu'nun yürürlüğe girmesinin sonucu değildir?**

A) Patrikhane'nin dünyevi yetkilerinin sona ermesi
B) Kadınlara mirastan eşit pay alma hakkının tanınması
C) Kadınların istediği mesleği seçebilmesi
D) Evliliklerde resmi nikahın ve tek eşliliğin esas alınması
E) Kadınların kendi soyadlarını kullanabilmesi

MURAT YAYINLARI

Açıklamalar • TEST 48

1. **D** Unvan ve Lakapların Yasaklanması Kanunu ile Osmanlı'daki rütbe, nişan ve lakaplar yasaklanmış; böylece toplumsal eşitlik sağlandığı gibi Türk toplumuna çağdaş bir karakter kazandırılmıştır.

2. **E** Türk kadını; 1926 Medeni Kanun ile sosyal alanda erkeklerle eşit konuma gelmiş, 1930'da belediye, 1933'te muhtarlık, 1934'te ise milletvekili seçimlerine katılma hakkı elde etmiştir. 1937 yılı ise Atatürk'ün altı ilkesinin anayasa güvencesine alındığı yıldır.

3. **B** Halkevleri, ulusal egemenlik anlayışını yerleştirmek değil, inkılapları halka benimseterek modern bir toplum görüntüsü sağlamak amacıyla açılmıştır.

4. **E** Üretimde kalitenin arttırılması dayanıklılığı, ithal edilen malların gümrük vergilerinin artırması fiyat açısından Türk mallarının yabancı mallar ile rekabet olanağını arttırırken uluslararası fuarlara katılarak da yerli ürünlerin tanıtılması amaçlanmıştır.

5. **A** Öğretim Birliği (Tevhid-i Tedrisat) Kanunu ile tüm okullar Türk milli eğitimine bağlanmış, eğitim öğretim birleştirilmiş, okullarda dini ve siyasi propaganda malzemesi olarak kullanılabilecek her türlü unsur yasaklanmış ve böylece laik ve ulusal eğitime geçiş sağlanmıştır.

6. **C** 1923'te toplanan İzmir İktisat Kongresi Türk Devleti'nin ekonomi ilkelerini belirleyerek tam bağımsızlığa katkıda bulunmayı amaçlamıştır. İstanbul Bankası (Bank-ı Dersaadet), Osmanlı Devleti Dönemi'nde kurulan bankalardan biridir, dolayısıyla 1923 öncesi gelişmesidir.

7. **D** Kabotaj Kanunu, Türk karasularında sadece Türklerin gemi işletmeciliği yapabilmesini esas almaktadır.

8. **E** Dönemin Adalet Bakanı Mahmut Esat Bey'in bu sözleriyle dine dayalı bir hukuk sistemini değil, akılcı çözümler getiren modern bir hukuk sistemini benimseme ifadelerine ulaşılmaktadır. Türkiye'de hukukta çağdaş normların benimsenmesi Türk Medeni Kanunu'nun kabulü ile gerçekleştirmiştir.

9. **A** Atatürk Dönemi'nin eğitim kurumlarından biri olan Ankara Hukuk Mektebi 1925 yılında açılmıştır. 1926'da Gazi Eğitim Enstitüsü, 1928'de Millet Mektepleri, 1932'de Halkevleri, 1933'te İstanbul Üniversitesi açılmıştır.

10. **D** Okuma yazmayı öğreterek okuryazarlığı yaygınlaştırmak, Türk Dil Kurumu'nun değil Millet Mektepleri'nin asli görevidir.

11. **C** Atatürk bu sözlerinde Türk inkılabını gerçekleştirirken mutlaka öncü bir zümrenin olması gerektiği üzerinde durmamıştır.

12. **D** Medreselerin kapatılması ile ümmetçi eğitim anlayışı yerine ulusal ve laik eğitim anlayışının yerleşmesi kolaylaşmış eğitim alanında ikiliklerin ortadan kaldırılmasına katkı sağlanmıştır.

13. **E** Verilen gelişmelerin tümü ülke içinde farklı uygulamaları ortadan kaldırarak birliği sağladığı gibi batı ile uyumun sağlanmasına da katkıda bulunmuştur.

14. **B** 1923 İzmir İktisat Kongresi'nde ekonomi yemini olan Misak-ı İktisadi kabul edilmiş ve böylece tam bağımsızlığı hedefleyen temel ekonomi ilkeleri belirlenmiştir. Seri üretime geçilmesi fikri de ilk kez izmir İktisat Kongresi'nde kabul edilmiştir.

15. **B** Türkiye Cumhuriyeti'nin ilk kadın tarih profesörü ve aynı zamanda Mustafa Kemal'in de manevi kızı olan Ayşe Afet İnan'dır.

16. **A** Uluslararası ölçü birimlerinin kabulü ulusal kültürü geliştirmeye değil, ülkede ikili uygulamaları ortadan kaldırmaya ve Batı ile uyumu sağlamaya yönelik bir inkılaptır.

17. **D** Yabancı okullar Osmanlı Devleti'nde Tanzimat Dönemi'nden itibaren açılmıştır. Halkevleri'nin açılması Atatürk Dönemi gelişmesidir. Atatürk Dönemi'nde açılan okullardan biri olan Millet Mektepleri Yeni Türk Alfabesi'ni halka öğretmek ve okur-yazar oranını artırmak amacıyla kurulmuştur.

18. **D** Verilen devrimler siyasi, kültürel, hukuk ve eğitim alanlarında öncelikli olarak devletin laikleştirilmesi amacıyla atılan adımlardır.

19. **B** I. Hilafet 1924'te kaldırılmış,
III. Tekke, zaviye ve türbeler 1925'te kapatılmış,
II. Milletvekillerinin yemin şekli 1928 Anayasa değişikliği ile gerçekleştirilmiş,
IV. Laiklik 1937 anayasa değişikliği ile anayasal güvence altına alınmıştır.

20. **E** Medeni Kanunu'nun yürürlüğe girmesiyle patrikhanenin dünyevi yetkilerine son verilmiş, miras paylaşımında kadın ve erkeğin eşitliği sağlanmış; kadınlar istediği mesleği seçebilme hakkına sahip olmuş ve evliliklerde resmi nikah ve tek eşlilik (monogami) esas alınmıştır. Kadınların kendi soyadlarını kullanabilmesi 2002 Yeni Türk Medeni Kanunu ile mümkün olmuştur.

MURAT YAYINLARI

/muratyayincilik

Atatürk İnkılapları • TEST 49

1. **Aşağıdakilerden hangisi Atatürk Dönemi'nde ekonomi alanında ortaya çıkan gelişmelerden biri değildir?**

A) Reji İdaresinin kaldırılması
B) Âli İktisat Meclisi'nin oluşturulması
C) I. Beş Yıllık Sanayi Planı'nın uygulanması
D) Milli Korunma Kanunu'nun kabulü
E) Merkez Bankası'nın kurulması

2. **Aşağıdaki inkılâplardan hangisi diğerlerine göre daha önce gerçekleştirilmiştir?**

A) Tevhid-i Tedrisat Kanunu
B) Türk Dil Kurumu'nun kurulması
C) Şapka Kanunu
D) Türk Tarih Kurumu'nun kurulması
E) Soyadı Kanunu

3. **Aşağıdakilerden hangisi Atatürk'ün laiklik, cumhuriyetçilik ve inkılapçılık ilkeleriyle tam olarak örtüşür?**

A) Merkez Bankası'nın kurulması
B) Saltanatın kaldırılması
C) Şapka Kanunu
D) Milli ekonomi ikesinin benimsenmesi
E) Türk Dil Kurumu'nun kurulması

4. **Aşağıdakilerden hangisi laiklik ilkesinin toplumda yerleşmesini sağlamaya yönelik çalışmalardan biri değildir?**

A) Şer'iye ve Evkaf Vekâleti'nin kaldırılması
B) Kılık Kıyafet Kanunu
C) Türk Medeni Kanunu
D) Çok partili yaşama geçiş denemeleri
E) Tevhid-i Tedrisat Kanunu

5. **Atatürk Dönemi'nde kılık kıyafetle ilgili son düzenlemenin yapıldığı yıl aşağıdakilerden hangisidir?**

A) 1925
B) 1926
C) 1930
D) 1934
E) 1938

6. **Türkiye Cumhuriyeti'nde;**

I. İstanbul Üniversitesi'nin açılması,
II. Kabotaj Kanunu'nun çıkarılması,
III. Tevhid-i Tedrisat Kanunu'nun çıkarılması

gibi durumlardan hangileri tam bağımsızlık politikasının bir sonucu olarak savunulabilir?

A) Yalnız I
B) Yalnız II
C) Yalnız III
D) II ve III
E) I, II ve III

7. I Toprak Mahsulleri Vergisi
II. Çekirge Kanunu
III. I. Beş Yıllık Kalkınma Planı

Yukarıdakilerden hangileri Atatürk Dönemi'nin gelişmeleri arasında yer almıştır?

A) Yalnız I
B) Yalnız II
C) Yalnız III
D) I ve III
E) I, II ve III

MURAT YAYINLARI

8. I. Kadına kendi soyadını kullanma hakkının verilmesi
II. Osmanlı'dan kalan rütbe ve nişanların yasaklanması
III. Ayrıcalık bildiren her türlü unvanın kaldırılması

Yukarıda verilen gelişmelerden hangileri Unvan ve Lakapların Yasaklanması Kanunu ile gerçekleştirilmiştir?

A) Yalnız I B) Yalnız III C) I ve III
D) II ve III E) I, II ve III

9. İzmir İktisat Kongresi'nde milli ekonomi ve kalkınmanın ilkeleri saptanmış, belirlenen ilkeler doğrultusunda bir dizi karar alınmıştır.

Aşağıdakilerden hangisi Misak-ı İktisadi kararlarından biri değildir?

A) İşçi sendikalarının kurulması
B) Aşar Vergisi'nin kaldırılması
C) İşbankası'nın açılması
D) Kabotaj Kanunu'nun çıkarılması
E) I. Beş Yıllık Sanayi Planı'na geçilmesi

10. I. Tevhid-i Tedrisat Kanunu
II. Medreselerin kapatılması
III. Millet Mektepleri'nin açılması
IV. Türk Dil Kurumu'nun açılması
V. Köy Enstitüleri'nin açılması

Yukarıdaki inkılaplardan hangisi Türkiye'de okuma yazma oranının artmasına doğrudan katkı sağlamıştır?

A) I B) II C) III D) IV E) V

11. I. Belediyeler Bankası'nın kurulması
II. İzmir İktisat Kongresi'nin toplanması
III. Medreselerin kapatılması
IV. Teşvik-i Sanayi Kanunu'nun çıkarılması
V. Merkez Bankası'nın açılması

Yukarıdaki inkılaplardan hangisi Takrir-i Sükûn Dönemi gelişmesidir?

A) I B) II C) III D) IV E) V

12. **Aşağıdakilerden hangisi Atatürk Dönemi'nin gelişmeleri arasında yer almaz?**

A) Paşabahçe Şişe ve Cam Fabrikası'nın açılması
B) Çubuk Barajı'nın açılması
C) TOMTAŞ'ın açılması
D) Türk Traktör'ün açılması
E) İzmit Kağıt ve Karton Fabrikası'nın açılması

MURAT YAYINLARI

13. "Bizim uyumlu, zengin dilimiz Türk harfleriyle kendini gösterecektir. Ulusumuzun güzel ve soylu diline kolay uyan bu yazı bizi az emekle kolay yoldan bilgisizlikten kurtaracaktır."

Aşağıdakilerden hangisinin Mustafa Kemal'in bu sözlerle ifade ettiği Harf Devrimi'ni tamamlar nitelikte olduğu savunulabilir?

A) Millet Mektepleri'nin açılması
B) Medreselerin kapatılması
C) Türk Tarih Kurumu'nun açılması
D) Tevhid-i Tedrisat Kanunu'nun çıkarılması
E) Türk Dil Kurumu'nun açılması

14. **Türkiye Cumhuriyeti vatandaşlarının din, dil, ırk ve cinsiyet gözetmeksizin kanun önünde eşit olması aşağıdakilerden hangisi ile gerçekleştirilmiştir?**

A) Türk Medeni Kanunu'nun kabulü
B) Teşkilat-ı Esasiye'nin yürürlüğe girmesi
C) Medreselerin kapatılması
D) Cumhuriyetin ilan edilmesi
E) Saltanatın kaldırılması

15. I. Yabancıların Anadolu topraklarında hak iddia etmelerini engellemek
II. Ümmetçi tarih anlayışından sıyrılarak ulusçuluk esasına dayanmak
III. Türk kültürünü dünya kamuoyuna tanıtmak

Yukarıdakilerden hangileri Türk Tarih Kurumu'nun kuruluş amaçları arasındadır?

A) Yalnız I
B) Yalnız II
C) Yalnız III
D) II ve III
E) I, II ve III

16. I. Birinci Maarif Kongresi
II. Birinci Heyet-i İlmiye
III. Birinci MEB Şurası

Yukarıdakilerden hangileri 1920-1938 yılları arasındaki eğitimle ilgili gelişmelerdendir?

A) Yalnız I
B) Yalnız II
C) I ve II
D) II ve III
E) I, II ve III

17. I. Osmanlı Devleti resmen son bulmuştur.
II. Ordu ile siyasetin birbirinden ayrılması yolunda adım atılmıştır.
III. Öğretim Birliği sağlanmıştır.
IV. Şeriye Mahkemeleri'nin kaldırılmasına zemin hazırlanmıştır.
V. Osmanlı hanedanının yurt dışına çıkarılması kararara bağlanmıştır.

Yukarıdakilerden hangisi 3 Mart 1924'te kabul edilen yasaların sonuçlarından değildir?

A) I B) II C) III D) IV E) V

18. Erzurum Kongresi'nde "Azınlıklara siyasi, sosyal dengemizi bozacak ayrıcalıklar verilemez." kararı yer almıştır.

Bu karar dikkate alındığında;

I. Medeni Yasası'nın kabul edilmesi,
II. Yabancı Okulların Türk eğitim sistemine tabi olması,
III. Tevhid-i Tedrisat Kanunu'nun kabul edilmesi

gibi inkılaplardan hangileri Erzurum Kongresi kararları ile uygunluk gösterir?

A) Yalnız I
B) Yalnız III
C) I ve II
D) II ve III
E) I, II ve III

19. I. Çitfçinin toprağına dönmesini sağlamak
II. İş araçlarını artırmak ve iyileştirmek
III. Ucuz tohum ve gübre imkanı sağlamak

Atatürk Dönemi tarım politikasının amaçları arasında yukarıdakilerden hangileri yer alır?

A) Yalnız I
B) Yalnız II
C) I ve II
D) II ve III
E) I, II ve III

20. I. 1 Temmuz 1935'ten itibaren Denizcilik Bayramı olarak kutlanmıştır.
II. Ulusal sermaye güç kazanmıştır.
III. Türk deniz ticaret filosu gelişmiştir.

Yukarıdakilerden hangilerinin Kabotaj Kanunu ile ilgili olduğu söylenebilir?

A) Yalnız I
B) Yalnız II
C) I ve II
D) II ve III
E) I, II ve III

MURAT YAYINLARI

Açıklamalar • TEST 49

1. **D** Milli Korunma Kanunu (1940) kabulü İnönü Dönemi gelişmeleri arasında yer almıştır. Diğer seçeneklerde verilen Atatürk Dönemi gelişmelerindendir.

2. **A** Tevhid-i Tedrisat Kanunu 1924'te,
Şapka Kanunu 1925'te,
Soyadı Kanunu 1934'te çıkarılmış;
Türk Tarih Kurumu 1931'de,
Türk Dil Kurumu 1932'de kurulmuştur.

3. **B** Saltanatın kaldırılması dini otorite ile siyasi otoritenin ayrılması nedeniyle laiklik, kişi egemenliğine son vererek ulusal egemenliği güçlendirmesi nedeniyle cumhuriyetçilik, eski düzeni ortadan kaldırması nedeniyle inkılapçılık ile örtüşür.

4. **D** Çok partili hayata geçiş cumhuriyetçilik ilkesinin yerleştirilmesi amacıyla gerçekleştirilen bir inkılaptır.

5. **D** Atatürk Dönemi'nde kılık kıyafet ile ilgili ilk yenilik/düzenleme Şapka Kanunu'nun (25 Kasım 1925) kabulü ile gerçekleştirilmiştir. Ancak kılık kıyafet ile ilgili Atatürk Dönemi'ndeki son düzenleme 3 Aralık 1934'te çıkarılan Kılık Kıyafet Kanunu'nun kabulü sonucunda tamamlanmıştır.

6. **D** Kabotaj Kanunu ile Türk karasularında gemi işletme hakkı Türk gemilerine ait olmuş, Tevhid-i Tedrisat ile de ülke içindeki tüm okulların milli eğitime bağlanması kararlaştırılmıştır. Ancak İstanbul Üniversitesi'nin açılması, tam bağımsızlık politikalar için değil çağdaş ve inkılapçı politikalar ile ilgilidir.

7. **B** Çekirge Kanunu 1926 yılında çıkarılan Atatürk Dönemi'nin gelişmelerindendir. Ancak Toprak Mahsulleri Vergisi (1944) ve I. Beş Yıllık Kalkınma Planı (1963) Atatürk Dönemi'nin gelişmeleri arasında yer almaz.

8. **D** Kadına kendi soyadını kullanma hakkı 2002 Medeni Kanun ile gerçekleşmiştir. Unvan ve Lakapların Yasaklanması Kanunu ile ayrıcalık bildiren unvanlar kaldırılmış, Osmanlı'dan kalan rütbe ve nişanların kullanılması yasaklanmıştır.

9. **E** I. Beş Yıllık Sanayi Planı'na geçilmesi İzmir İktisat Kongresi'nde (1923) alınan kararlardan biri değildir. I. Beş yıllık Sanayi Planı 1933-1938 yılları arasındadır.

10. **C** Millet Mektepleri, okuryazar oranını arttırmak amacıyla her yaştan Türk vatandaşına okuma yazma öğretmek göreviyle kurulmuştur. Eğitim öğretim yapmaz, sadece okuma yazma öğretir.

MURAT YAYINLARI

/muratyayincilik

11. D 1925-1929 yılları arası Takrir-i Sükûn Dönemi olarak adlandırılır. Teşvik-i Sanayi Kanunu 1927'de çıkarılmıştır ve Takrir-i Sükûn Dönemi gelişmesidir. İzmir İktisat Kongresi 1923'te toplanmış, medreseler 1924'te kaldırılmış, Merkez Bankası 1930'da açılmış, Belediyeler Bankası 1933'te kurulmuştur.

12. D Cumhuriyet Dönemi'nin ilk uçak fabrikası olan Tayyare ve Motor Türk Anonim Şirketi yani kısa adıyla TOMTAŞ'nın açılması(1926), İzmit Kağıt ve Karton Fabrikası'nın açılması (1934), Paşabahçe Şişe ve Cam Fabrikası'nın açılması (1935) ve Çubuk Barajı'nın açılması (1936) Atatürk Dönemi'nin gelişmelerindendir. Ancak Türk Traktör 1955 yılında açılmıştır.

13. A Harf Devrimi'nin tamamlayıcısı olan inkılap, yeni harflerle okuma yazma öğretecek Millet Mektepleri'dir.

14. A Türkiye Cumhuriyeti vatandaşlarının din, dil, ırk ve cinsiyet gözetmeksizin kanun önünde eşit olması Türk Medeni Kanunu (1926) ile sağlanmıştır.

15. E Türk Tarih Kurumu 1931'de Türklerin sarı ırktan geldiği iddiasını çürütmek, Anadolu'nun en eski medeniyetlerinden biri olduğunu kanıtlamak bu yolla Türk kültürünü dünyaya tanıtmak, yabancıların Anadolu üzerinde hak iddia etmelerinin önüne geçmek ayrıca İslam tarihine dayalı ümmetçi tarih anlayışı yerine ulusçu tarih anlayışını yerleştirmek amacıyla kurulmuştur.

16. C 1921 yılında Birinci Maarif Kongresi,1923 yılında Birinci Heyet-i İlmiye düzenlenmiştir. Ancak Birinci MEB Şurası 1939 yılında İsmet İnönü Dönemi'nde düzenlenmiştir.

17. A 3 Mart 1924'te kabul edilen Tevhid-i Tedrisat Kanunu ortak kültür oluşturma amaçlı ilk inkılaptır. Erkan-ı Harbiye Vekaleti'nin kaldırılması ile ordu ile siyasetin birbirinden ayrılması yolunda adım atılmış, Şeriye ve Evkaf Vekaleti'nin kaldırılması ile Şeriye Mahkemeleri'nin kaldırılmasına zemin hazırlanmış, aynı gün Osmanlı hanedanının yurt dışına çıkarılması karara bağlanmıştır. Osmanlı Devleti'nin resmen son bulması 1 Kasım 1922 tarihinde Saltanatın kaldırılması ile olmuştur.

18. E Medeni Kanun ile toplumsal alanda eşitilik sağlanmıştır.
Tevhid-i Tedrisat Kanunu ile eğitim alanında azınlıklara verilen ayrıcalıklar kaldırılmış ve Yabancı Okulların Türk eğitim sistemine tabi olması kararlaştırılmıştır, böylece eğitimin eşit ve bağımsız olması amaçlanmıştır.

19. E Atatürk Dönemi Aşar vergisinin kaldırılmasıyla; çiftçinin toprağına dönmesi amaçlanmıştır. Toprak Reformu ile de; iş araçlarını artırmak ve iyileştirmek, ucuz tohum ve gübre imkanı sağlamak amaçlanmıştır. Tüm bu uygulamalar Atatürk Dönemi'ndeki tarım politikasının unsurları arasında yer almıştır.

20. E Kabotaj Kanunu, 1 Temmuz 1926'da kabul edilmiştir. 1 Temmuz 1935'ten itibaren ise Denizcilik Bayramı olarak kutlanmaya başlanmıştır. Bu kanun ile Türk kara sularında gemi işletme hakkı yalnızca Türk gemilerine ait olmuştur. Böylece ulusal sermaye güçlenmiş, Türk deniz ticaret filosu gelişmiştir.

MURAT YAYINLARI

Atatürk Dönemi Dış Politika • TEST 50

1. "Savaş zorunlu ve yaşamsal olmalıdır..."

Atatürk yukarıdaki sözü ile dış politika ilkelerinden özellikle hangisini vurgulamıştır?

A) Sorunları sadece diplomasiyle çözmek
B) Dış politikada saygınlık kazanmak
C) Yayılmacı politikalar izlemek
D) Toplumsal sınıf farklılıklarını önlemek
E) Ulus tehlikeye düşerse savaşmak

2. **Atatürk Dönemi'nde Cemiyet-i Akvam'a taşınan son konu aşağıdakilerden hangisidir?**

A) Hatay
B) Musul
C) Nüfus Mübadelesi
D) Bozkurt-Lotus Olayı
E) Yabancı Okullar

3. I. Sadece Türk öğrencilerin okuyabilmesi
II. Türk dili, tarih ve coğrafya derslerinin Türk öğretmenler tarafından okutulması
III. Milli eğitimin tüzük ve yönetmelik hükümlerine uyma zorunluluğu

Yukarıdakilerden hangileri Atatürk Dönemi'nde yabancı okullara getirilen uygulamalardır?

A) Yanız I
B) II ve III
C) Yalnız III
D) I ve III
E) I, II ve III

4. I. Boğazlar
II. Kapitülasyonlar
III. Hatay

Yukarıdaki konulardan hangileri Lozan'dan sonra değişikliğe uğramıştır?

A) Yalnız I
B) Yalnız II
C) Yalnız III
D) I ve III
E) I, II ve III

5. **Aşağıdakilerden hangisi Milletler Cemiyeti'nde Türkiye'nin yararına çözümlenen ilk uluslararası hukuk davasıdır?**

A) Bozkurt-Lotus sorunu
B) Kıta Sahanlığı sorunu
C) FIR Hattı sorunu
D) Etabli sorunu
E) Hatay sorunu

6. I. Nüfus Mübadelesi
II. Kıbrıs
III. Balkan Antantı
IV. Ege Adaları'nın silahsızlandırılması

Yukarıda verilen gelişmelerden hangileri Atatürk Dönemi'nde Türk-Yunan ilişkilerinin bozulmasına neden olmuştur?

A) Yalnız II
B) I ve III
C) I ve IV
D) I, II ve III
E) I, III ve IV

MURAT YAYINLARI

/muratyayincilik

7. **1936 yılında Almanya ve Japonya tarafından gerçekleştirilen belge aşağıdakilerden hangisidir?**

A) Briand-Kellog Paktı
B) Locarno Paktı
C) Anti-Komintern Paktı
D) Küçük Antant
E) Washington Deniz Silahsızlandırma Konferansı

8. **Yunanistan ile Türkiye arasında yaşanan Etabli Sorunu'nun çözüldüğü yıl aşağıdakilerden hangisidir?**

A) 1930
B) 1926
C) 1928
D) 1932
E) 1925

9. **1925 yılında Şükrü Kaya'nın yerine gelen dışişleri bakanı aşağıdakilerden hangisidir?**

A) İsmet İnönü
B) Bekir Sami Kunduh
C) Yusuf Kemal
D) Celal Bayar
E) Tevfik Rüştü Aras

10. **Aşağıdakilerden hangisi Fransa ile Türkiye arasında yaşanan dış politika olaylarından biri değildir?**

A) Hatay sorunu
B) Etabli sorunu
C) Yabancı okullar sorunu
D) Osmanlı borçları sorunu
E) Bozkurt-Lotus Davası

11. **Türkiye ile Yunanistan arasında 10 Haziran 1930'da çözülen "Nüfus Mübadelesi" konusu aşağıdakilerden hangisinde ilk kez gündeme gelmiştir?**

A) Misakımilli
B) Lozan Konferansı
C) Wilson İlkeleri
D) Lahey Adalet Divanı
E) Sevr Barış Antlaşması

12. **Türkiye aşağıdakilerden hangisini Misak-ı Milli Kararları doğrultusunda çözüme kavuşturmuştur?**

A) Musul
B) Gümülcine
C) Batı Trakya
D) Batum
E) Hatay

13. I. Milletler Cemiyeti'ne üyelik
II. Bozkurt-Lotus Olayı
III. Balkan Antantı
IV. Musul Sorunu

Yukarıdakilerden hangileri 1932-1938 tarihleri arasında Türkiye'nin yaşamış olduğu dış politik gelişmeleri arasında yer almaz?

A) Yalnız I
B) Yalnız IV
C) I ve II
D) I ve III
E) II ve IV

MURAT YAYINLARI

14. **Türkiye'nin Çanakkale ve İstanbul Boğazları'ndaki tam egemenlik hakkı aşağıdakilerden hangisi ile sağlanmıştır?**

A) Londra Boğazlar Sözleşmesi
B) Sevr Barış Antlaşması
C) Ankara Antlaşması
D) Lozan Barış Antlaşması
E) Montrö Boğazlar Sözleşmesi

15. I. Gümrü Antlaşması
II. Moskova Antlaşması
III. Sadabat Paktı

Yukarıda verilenlerden hangileri ile II. Dünya Savaşı öncesi Türkiye'nin güney sınırı güvence altına alınmıştır?

A) Yalnız I
B) Yalnız II
C) Yalnız III
D) I ve II
E) I, II ve III

16. İtalya'nın Habeşistan'ı işgali Doğu Akdeniz'de İtalyan tehdidini ortaya çıkarırken İtalya, Asya'da bazı hedeflere yöneldiğini de belirtmiştir.

Bu durumun zemin hazırladığı ittifak antlaşmalarına aşağıdaki devletlerden hangisi katılmamıştır?

A) Pakistan
B) Irak
C) İran
D) İngiltere
E) Afganistan

17. **Türkiye'nin Lozan Barış Antlaşması'ndan sonra katıldığı ilk uluslararası konferans aşağıdakilerden hangisidir?**

A) Cenevre Silahsızlanma Konferansı
B) Nyon Konferansı
C) San Francisco Konferansı
D) Montrö Boğazlar Konferansı
E) Washington Deniz Silahsızlanma Konferansı

18. • Montrö Boğazlar Sözleşmesi'nin imzalanması
• Balkan Antantı'nın imzalanması
• Hatay'ın ana vatana katılması

Yukarıdaki dış politika olaylarına bakılarak Türkiye'nin;

I. sınır güvenliğinin sağlanmaya çalışıldığı,
II. Suriye sınırının Misakımilli'ye uygun şekilde yeniden çizildiği,
III. Boğazlar üzerinde tam egemenliğin sağlandığı

gelişmelerinden hangilerini gerçekleştiği savunulabilir?

A) Yalnız I
B) Yalnız II
C) I ve II
D) I ve III
E) I, II ve III

19. Hatay 1939'da ana vatana katılma kararı almıştır.

Aşağıdaki olaylardan hangisi Hatay sorunu ile ilgili değildir?

A) 1921 Ankara Antlaşması'nın imzalanması
B) İngiltere'nin Suriye mandaterliğinden çekilmesi
C) Cemiyet-i Akvam'a başvurulması
D) Sancak sorununun yaşanması
E) Sandler Raporu'nun hazırlanması

20. Atatürk Dönemi dış politika gelişmelerine bakıldığında 1930 sonrası dış politikayı şekillendiren temel unsurun II. Dünya Savaşı tehlikesi olduğu görülür.

Buna göre aşağıdakilerden hangisi Atatürk Dönemi'nin 1930 sonrasındaki gelişmeleri arasında yer almaz?

A) Balkan Antantı'nın imzalanması
B) Hatay'ın bağımsız olması
C) İngiltere'nin Kıbrıs'tan çekilmesi
D) Sadabat Paktı'nın imzalanması
E) Akdeniz İttifakı'nın imzalanması

MURAT YAYINLARI

/muratyayincilik

Açıklamalar • TEST 50

1. **E** Ulus varlığının tehlikeye girmesi durumunda savaş zorunludur. Türkiye için Misakımilli sınırlarına aykırı bir durum teşkil etmesi durumudur.

2. **A** Atatürk Dönemi'nde Cemiyet-i Akvam'a (Milletler Cemiyeti) taşınan ilk konu Musul sorunudur. Hatay sorunu ise Cemiyet-i Akvam'a taşınan son konudur.

3. **B** Atatürk Dönemi'nde; yabancı okullar Türk Milli Eğitim tüzük ve yönetmeliklerine bağlanmış, bu okullarda coğrafya, tarih ve türkçe gibi Türk milli varlık ve sosyal dengesini etkileyen derslerin Türk öğretmenler tarafından okutulması kabul edilmiştir. Ancak yabancı okullarda sadece Türk öğrencilerin okuyabilmesi söz konusu değildir.

4. **D** Lozan Barış Antlaşması'nda kurulan Uluslararası Boğazlar Komisyonu, Montrö Boğazlar Sözleşmesi ile kaldırılmıştır.
Lozan Antlaşması'nda Hatay'ın sınırlarımız dışında kaldığı onaylanırken 29 Haziran 1939'da Hatay anavatana katılmıştır.

5. **A** 1926'da Ege Denizi'nde gerçekleşen Bozkurt-Lotus gemi kazası sonucu ortaya çıkan Bozkurt-Lotus Davası Türkiye'nin (Uluslararası Adalet Divanı) Milletler Cemiyeti'nde çözümlediği ilk uluslararası hukuk davasıdır. Davayı Türkiye kazanmış, böylece Türk Ceza Kanunu genelgeçer yasa olarak görülmüştür.

6. **C** Balkan Antantı II. Dünya Savaşı tehlikesine karşı Türkiye'nin önderliğinde Almanya ve İtalya'nın yayılmacılığına karşı Yunanistan, Yugoslavya, Romanya ve Türkiye arasında imzalanan iş birliği anlaşmasıdır. Ancak Nüfus Mübadelesi Yunanistan'ın İstanbul'da daha fazla Rum bırakmak istemesi ve Ege Adaları sorunu, Lozan'a rağmen Yunanistan'ın Adaları silahlandırması iki ülke arasında sorun yaşanmasına neden olmuştur. Ancak Kıbrıs Sorunu, Atatürk Dönemi'nde Türkiye ile İngiltere arasında geçen bir konudur. 1954 yılından itibaren Kıbrıs konusu Türkiye ile Yunanistan arasında sorun olmuştur ve bu sorun günümüzde de devam etmektedir.

7. **C** Küçük Antant 1921'de, Locarno Paktı 1925'te, Briand-Kellog Paktı 1928'de mevcut düzeni ve dünya barışını korumak amacıyla imzalanmıştır. Washington Deniz Silahsızlanma Konferansı'nda 1922'de silahlanmaya karşı dünya barışını sağlamak amacıyla toplanmıştır.
1936 yılında Almanya ile Japonya'nın SSCB'ye karşı oluşturdukları pakt, Anti-Komintern Paktı'tır.

8. **A** Etabli sorunu, 1930'da Ankara'da imzalanan Türk-Yunan Dostluk Antlaşması (Ahali Antlaşması) ile çözülmüştür. 1930'dan itibaren ise nüfus mübadelesi gerçekleştirilmiştir.

9. **E** Tevfik Rüştü Aras, 1925 yılında Şükrü Kaya'nın yerine dışişleri bakanlığına gelen kişidir.

10. **B** Etabli sorunu (Nüfus Mübadelesi) konusunda Lozan'da alınan kararın uygulanması esnasında Türkiye ile Yunanistan arasında yaşanan bir sorundur.

MURAT YAYINLARI

11. B Mudanya Ateşkesi'nden sonra Yunanistan, Anadolu'dan göç eden Rumları yerleştirecek yer sıkıntısı yaşamaya başladı. Buna bağlı olarak mübadele fikri ilk kez Lozan Konferansı'nda İngiltere temsilcisi Lord Curzon tarafından ortaya atılmıştır.

12. E 29 Haziran 1939'da Hatay ana vatana katılınca Türkiye'nin Misakımilli'ye uygun olarak sınırları son şeklini almıştır.

13. E Musul Sorunu 1923-1926 yılları arasında yaşanmış, 1926 Ankara Antlaşması'yla çözülmüştür. Bozkurt-Lotus Olayı ise 1926'da yaşanmıştır.

14. E 1936 Montrö Boğazlar Sözleşmesi ile Lozan'da oluşturulan Uluslararası Boğazlar Komisyonu kaldırılmış, Türkiye Boğazlar üzerinde tek egemen ülke haline gelmiştir.

15. C Sadabat Paktı 1937'de savaş tehlikesine karşı güney sınırını güvence altına almak isteyen Türkiye'nin önderliğinde Irak, İran, Afganistan ve Türkiye arasında imzalanmıştır. Gümrü ve Moskova antlaşmaları Kurtuluş Savaşı esnasında imzalanmıştır.

16. A Türkiye doğu ve güney sınırını güvence altına almak amacıyla İran, Irak ve Afganistan ile 1937'de Sadabat Paktı'nı; Yunanistan, Yugoslavya ve İngiltere ile Doğu Akdeniz'in güvenliğini sağlamak amacıyla 1936'da Akdeniz İttifakı'nı imzalamıştır. Pakistan bu dönemde bağımsız olmadığı için Sadabat Paktı'na üye olmamıştır.

17. A Türkiye'nin Lozan Barış Antlaşması'ndan sonra katıldığı ilk uluslararası konferans 1928 yılında toplanan Cenevre Silahsızlanma Konferansı'dır.

18. E Montrö Boğazlar Sözleşmesi ile Boğazlar üzerinde tam egemenlik sağlanmış, Balkan Antantı imzalanarak batı sınırının güvenliği sağlanmaya çalışılmış ve Hatay'ın ana vatana katılması ile Suriye sınırı Misakımilli'ye uygun şekilde değişmiştir.

19. B Hatay sorunu İngiltere'nin değil, Fransa'nın Suriye'den çekilmesiyle ortaya çıkmıştır.

20. C İngiltere Kıbrıs'tan 1954'te çekilmiştir. Dolayısıyla İngiltere'nin Kıbrıs'tan çekilmesi II. Dünya Savaşı'ndan sonra Adnan Menderes Dönemi'nde olmuştur.

MURAT YAYINLARI

/muratyayincilik

Atatürk Dönemi Dış Politika • TEST 51

1. **Atatürk Dönemi Türk dış politikasının dayandığı temeller arasında aşağıdakilerden hangisi yoktur?**

A) Tam bağımsızlık
B) Barışçılık
C) Bölgesel egemenlik kurma
D) Ulusal güce dayanma
E) Gerçekçilik

2. I. Milletler Cemiyeti'nden çıkan Brüksel Raporu
II. Türkiye'nin Musul'a yakın topraklarında çıkan isyanlar
III. İngiltere'nin sömürgeci politikaları

Türkiye'nin Musul'u kaybetmesinde yukarıdakilerden hangilerinin etkisinden söz edilebilir?

A) Yalnız I
B) Yalnız II
C) Yalnız III
D) II ve III
E) I, II ve III

3. **1923-1939 yılları arasındaki Türk Dış Politikası gelişmeleri düşünüldüğünde aşağıdakilerden hangisinin bağımsızlığa uygun sonuçlandığı söylenemez?**

A) Borçlar sorunu
B) Sancak sorunu
C) Yabancı okullar sorunu
D) Irak sınırı sorunu
E) Boğazlar sorunu

4. I. Cemiyet-i Akvam
II. Birleşmiş Milletler
III. Lahey Adalet Divanı
IV. NATO

Atatürk Dönemi Dış Politika olaylarının çözümünde yukarıdaki kuruluşlardan hangilerinden faydalanılmıştır?

A) Yalnız I B) Yalnız II C) I ve III
D) II ve IV E) I, III ve IV

5. **Atatürk Döneminde;**
I. Hatay'ın ana vatana katılması,
II. Bozkurt-Lotus Davası,
III. Etabli sorunu

konularından hangileri çözüme kavuşturulmuştur?

A) Yalnız I B) Yalnız II C) Yanız III
D) II ve III E) I, II ve III

6. I. Etabli Meselesi
II. Türkiye-Irak Sınırı
III. Bozkurt-Lotus Olayı

Yukarıdaki dış politik gelişmelerin hangilerinde Milletler Cemiyeti'nin vermiş olduğu karar kabul görmüştür?

A) Yalnız I B) I ve II C) I ve III
D) II ve III E) I, II ve III

7. **Aşağıdakilerden hangisi diğerlerinden sonra gerçekleşmiştir?**

A) Borçlar sorununun çözülmesi
B) Kapitülasyonlar sorununun çözülmesi
C) Musul sorununun çözülmesi
D) Bozkurt-Lotus Davası
E) Briand-Kellog Paktı

MURAT YAYINLARI

8. I. Boğazlar,
II. Kapitülasyonlar,
III. Musul

Yukarıdakilerden hangileri 1930-1938 yılları arasındaki Türk Dış Politikası'nın sorunlarındandır?

A) Yalnız I B) Yalnız II C) Yalnız III
D) I ve III E) II ve III

9. Türkiye Milletler Cemiyeti'ne güven duymamasına rağmen barışın korunması konusundaki iyi niyetini göstermek amacıyla 18 Temmuz 1932'de Milletler Cemiyeti'ne üye olmuştur.

Türkiye'nin Milletler Cemiyeti'ne güvenmeme nedeninin aşağıdaki üye devletlerden hangisi olduğu savunulabilir?

A) İspanya
B) İngiltere
C) Yunanistan
D) Japonya
E) İtalya

10. **1934'te Balkan Antantı'na üye olduğu halde 1954'te imzalanan Balkan İttifakı'na üye olmayan devlet aşağıdakilerden hangisidir?**

A) Yugoslavya
B) Türkiye
C) Yunanistan
D) Bulgaristan
E) Romanya

11. **Türkiye'nin Milletler Cemiyeti'ne üye olması;**
I. Uluslararası etkinliğinin artmasına,
II. Barışçı bir politika izlenmesine,
III. Hatay sorununun çözülmesine
gelişmelerden hangileri üzerinde etkili olmuştur?

A) Yalnız I B) Yalnız II C) I ve II
D) II ve III E) I, II ve III

12. **Akdeniz'deki korsan faaliyetlerine karşı gemilerin güvenliği konusunda 18 Eylül 1937'de toplanan konferans aşağıdakilerden hangisidir?**

A) Lozan
B) Montrö
C) Cenevre
D) Washington
E) Nyon

13. **Türkiye'nin;**
I. NATO'ya üye olması,
II. Milletler Cemiyeti'ne üye olması,
III. Almanya ve Japonya'ya savaş ilan etmesi
gelişmelerinden hangileri Atatürk Dönemi olayları arasında yer alır?

A) Yalnız I B) Yalnız II C) Yalnız III
D) I ve II E) I, II ve III

14. **20 Temmuz 1936'da imzalanan Montrö Boğazlar Sözleşmesi'nin imzalandığı konferansta Türkiye'yi temsil eden dışişleri bakanı aşağıdakilerden hangisidir?**

A) İsmet İnönü
B) Şükrü Saraçoğlu
C) Yusuf Kemal Tengirşenk
D) Tevfik Rüştü Aras
E) Bekir Sami Kunduh

MURAT YAYINLARI

/muratyayincilik

15. **Türkiye'nin Montrö Boğazlar Sözleşmesi ile Boğazlarda tek egemen devlet haline gelmesine;**

I. SSCB,
II. Fransa,
III. İngiltere

devletlerinden hangileri karşı çıkmıştır?

A) Yalnız I
B) Yalnız II
C) Yalnız III
D) I ve II
E) I, II ve III

16. I. Türkiye'nin Boğazlarda tek egemen devlet haline gelmesi
II. Hatay'ın devlet statüsü kazanması
III. Nasturi İsyanı'nın çıkması
IV. Mübadele sorununun çözüme kavuşması

Yukarıdaki gelişmelerin kronolojik sırası hangisinde doğru olarak verilmiştir?

A) III-IV-I-II
B) I-II-III-IV
C) I-III-IV-II
D) II-III-IV-I
E) III-I-II-IV

17. I. 1926 Ankara Antlaşması
II. Sandler Raporu
III. Harbord Raporu
IV. Nasturi İsyanı

Yukarıdakilerden hangileri sancak sorunu ile ilgilidir?

A) Yalnız I
B) Yalnız II
C) I ve IV
D) II ve III
E) III ve IV

18. **Türkiye Sadabat Paktı'na öncülük ederek;**

I. Orta Doğu'da barışın sağlanması,
II. Doğu ve güney sınırının güvence altına alınması,
III. Hatay'a özerkliğinin iade edilmesi

gelişmelerinden hangilerini gerçekleştirmeyi amaçlamıştır?

A) Yalnız I
B) Yalnız III
C) I ve II
D) II ve III
E) I, II ve III

19. I. Milletler Cemiyeti'ne üye olunması
II. Balkan Antantı'na öncülük edilmesi
III. Montrö Boğazlar sözleşmesi

Yukarıdakilerden hangileri Atatürk Dönemi dış politikasında benimsenen "Yurtta barış, dünyada barış" **ilkesi ile bağlantılıdır?**

A) Yalnız I
B) Yalnız II
C) I ve II
D) II ve III
E) I, II ve III

20. I. Heybeliada Ruhban Okulu'nun kapatılması
II. Haliç Konferansı'nın Toplanması
III. Fener Rum Patrikhanesi'nin yetkilerinin kısıtlanması

Yukarıda verilen olaylardan hangileri Atatürk Dönemi'nde gerçekleşmemiştir?

A) Yanız I
B) Yalnız II
C) Yalnız III
D) I ve III
E) II ve III

MURAT YAYINLARI

Açıklamalar • TEST 51

1. **C** Kurtuluş Savaşı'ndan çıkan Türkiye, Atatürk Dönemi'nde savaş yaralarını sarma odaklı; var olan, kabul edilmiş sınırları koruma amacından ibaret bir politika sergilemiştir. Bu süreçte Misakımilli sınırlarını korumanın ötesinde, bulunulan bölgede bir egemenlik kurma çabasına girilmesi beklenemez.

2. **E** Brüksel Raporu, Musul'un Irak'a bırakılmasına karar verilen Milletler Cemiyeti'ne ait belgedir. Türkiye'nin Musul'a yakın topraklarında çıkan isyanlar (Nasturi ve Şeyh Sait İsyanları) ve İngiltere'nin sömürgeci politikaları da Türkiye'nin Musul'u kaybetmesinde belirleyici olmuştur.

3. **D** Türkiye - Irak sınırı 1926 Ankara Antlaşması ile Musul sınırlarımız dışında kalacak şekilde onaylanmış, Misakımilli'den taviz verilmiştir.

4. **C** Atatürk Dönemi Dış Politika olaylarının çözümünde başvurulan kurumlar Milletler Cemiyeti (Cemiyeti Akvam) ve Lahey Adalet Divanı'dır. (Uluslararası Adalet Divanı). NATO ve Birleşmiş Milletler Atatürk sonrasında oluşturulan kurumlardır.

5. **D** Fransa ile yaşanan Bozkurt-Lotus Davası (1926) ve Yunanistan ile yaşanan Etabli sorunu (1930) Atatürk Dönemi'nde (1923-1938) çözülen konulardandır. Ancak Hatay'ın anavatana katılması (1939) İsmet İnönü Dönemi'nin gelişmelerindendir.

6. **D** Etabli (Yerleşikler) sorunu Milletler Cemiyeti'ne taşınmış ancak burada çözülememiştir. Milletler Cemiyeti 1925'te Musul'un Irak'a ait olduğunu bildirmiş (Brüksel Hattı), 1926'da Bozkurt-Lotus Olayı'nda Türkiye bu kuruluş tarafından haklı bulunmuştur.

7. **A** Kapitülasyanlar sorunun çözülmesi (1923 Lozan Antlaşması). Musul sorununun çözülmesi (1926). Bozkurt-Lotus Davası (1926). Briand-Kellog Paktı (1928). Borçlar 1926'dan itibaren Türkiye'nin borç taksitlerini ödemekte zorlanması üzerine Türkiye ile Fransa arasında sorun olmuş, 1932-1933 sürecinde kalan borcun Türk Lirası olarak ödenmesi karara bağlanarak sorun çözülmüştür.

8. **A** Kapitülasyonlar sorunu (1923-Lozan Anlaşması) ve Musul sorunu (1926-Ankara Antlaşması) Türk Dış Politikası'nın 1930 öncesi sorunlarındandır. Boğazlar sorunu (1936) ise 1930-1938 arasındaki Türk Dış Politikası'nın sorunlarındandır.

9. **B** Milletler Cemiyeti (Cemiyet-i Akvam) dünya barışını korumak için kurulmasına rağmen kurulduktan bir süre sonra İngiltere'nin çıkarları doğrultusunda hareket etmeye başlamıştır. Türkiye'nin cemiyete güvenmemesinin nedeni İngiltere'dir.

10. **E** Romanya özellikle İtalya ve Bulgaristan'ın yayılmacılığına karşı imzalanan Balkan Antantı'na üye olmasına rağmen komünizmi benimsediği için Soğuk Savaş Dönemi'nde SSCB'nin yayılmacılığına karşı imzalanan Balkan İttifakı'nı imzalamamıştır.

MURAT YAYINLARI

11. E Türkiye'nin Milletler Cemiyeti'ne 1932'de üye olması ile Boğazlar ve Hatay sorunlarının çözümü barışçı yollarla gerçekleşmiştir. Ayrıca Türkiye'nin barışçıl bir politika izlemesine ve uluslararası etkinliğinin artmasına da etki etmiştir.

12. E 18 Eylül 1937'de İsviçre'nin Nyon şehrinde, Akdeniz ülkelerinin temsilcilerinin katıldığı Nyon Konferansı'nda Akdeniz'deki İtalyan yayılmacılığına karşı önlem alınmıştır. 1922'de Washington Deniz Silahsızlanma Konferansı, 1922-1923 yılları arasında Lozan Barış Konferansı, 1928'de Cenevre Silahsızlanma Konferansı, 1936'da ise Montrö Boğazlar Konferansı toplanmıştır.

13. B Türkiye 1920'de kurulan Milletler Cemiyeti'ne 1932 yılında dolayısıyla Atatürk Dönemi'nde üye olmuştur. Ancak Türkiye 23 Şubat 1945'te Almanya ve Japonya'ya savaş ilan edip II. Dünya Savaşı'na girmiş, 1952'de ise NATO'ya üye olmuştur.

14. D 1925-1938 yılları arasında Türkiye'nin Dışişleri Bakanı Tevfik Rüştü Aras'tır. 1936'da yapılan Montrö'deki konferansa bizzat kendisi katılmıştır.

15. A Montrö Boğazlar Sözleşmesi'nde Türkiye'nin Boğazlarda tek egemen ülke haline gelmesine öncüllerde verilen devletlerden İngiltere ve Fransa destek vermiştir.
Ancak SSCB, Montrö Boğazlar Sözleşmesi'ni imzalamış olsa da Türkiye'nin Boğazlardaki tezine bazı konularda karşı çıkmıştır.

16. A III. 1924'te Hakkari'de Nasturi İsyanı çıkmış,
IV. 1930'da Mübadele Sorunu diplomatik yollarla çözülmüş,
I. 1936'da Montrö Boğazlar Sözleşmesi ile Türkiye boğazlarda tek egemen devlet haline gelmiş,
II. 1938'de Hatay devlet statüsü kazanmıştır.

17. B Sandler Raporu 1937'de Hatay'daki Türk varlığını kanıtlayan rapordur. Sandler Raporu sonucunda Milletler Cemiyeti kararı ile Hatay sancak statüsü kazanmıştır. Nasturi İsyanı ve 1926 Ankara Antlaşması Musul sorunuyla ilgili gelişmelerdir. Harbord Raporu, 1919'da ABD'nin Doğu Anadolu ile ilgili yayınladığı belgedir.

18. C 1937'de İran, Irak, Afganistan ve Türkiye'nin imzaladığı Sadabat Paktı ile Orta Doğu barışı sağlanmaya çalışılmış, Türkiye II. Dünya Savaşı tehlikesine karşı doğu ve güney sınırını güvence altına almayı amaçlamıştır. Hatay sorununun Sadabat Paktı'nın imzalanması ile ilgisi yoktur. Sorun, Suriye'nin pakta üye olmamasının nedenidir.

19. E Verilen gelişmelerin hepsi sorunların barışçıl yöntemlerle çözülmesinin amaçlandığını gösterir. Bu durum Atatürk'ün "Yurtta barış dünyada barış" ilkesi ile bağlantılıdır.

20. A Haliç Konferansı, Musul sorunu ile ilgili 1924'te Türkiye ve İngiltere'nin katılımıyla toplanmış; Fener Rum Patrikhanesi'nin yetkileri ise 1926 Türk Medeni Kanunu ile kısıtlanmıştır. Ancak Heybeliada Ruhban Okulu 1971'de kapatılmıştır. Atatürk Dönemi gelişmesi değildir.

MURAT YAYINLARI

Çağdaş Türk ve Dünya Tarihi
İki Küresel Savaş Arasında Dünya • TEST 52

1. **Sovyet Devrimi'nin ardından 28 Mayıs 1918'te Tiflis'te Azerbeycan Milli Şurası tarafından ilan edilen Azerbaycan Demokratik Cumhuriyeti'nin kurucusu ve ilk cumhurbaşkanı aşağıdakilerden hangisidir?**

A) Cengiz Aytmatov
B) Bahtiyar Vahapzade
C) Yusuf Akçura
D) Ebulfez Elçibey
E) Mehmet Emin Resulzade

2. **Aşağıdakilerden hangisi II. Dünya Savaşı'ndan önce Orta Doğu'da bağımsızlığını kazanan devletlerden biri değildir?**

A) Suudi Arabistan
B) Irak
C) Mısır
D) Ürdün
E) Yemen

3. **Amerika'nın kendi içine kapanarak kendi kıtası dışındaki olaylara müdahil olmamaya dayalı dış politika stratejisine ne ad verilir?**

A) Truman Doktrini
B) Dakya Projesi
C) Eisenhower Doktrini
D) Meiji Restorasyonu
E) Monroe Doktrini

4. **I. Dünya Savaşı'nın ardından Almanya, Avusturya-Macaristan ve Bulgaristan'ın İtilaf Devletleri'yle imzaladıkları antlaşmalarda;**

I. savaş tazminatı ödenmesi,
II. zorunlu askerliğin kaldırılması,
III. cumhuriyet yönetimine geçilmesi

konularından hangileriyle ilgili ortak hükümler yer almıştır?

A) Yalnız I
B) I ve II
C) I ve III
D) II ve III
E) I, II ve III

5. **Türkistan'ı istiklaline kavuşturmak amacıyla ortaya çıkan ve en yoğun dönemini Enver Paşa'nın katılımıyla yaşayan hareket aşağıdakilerden hangisidir?**

A) Basmacı
B) Kuvayımilliye
C) Bolşevik
D) Müdafaa-i Hukuk
E) İntifada

6. **XIX. yüzyılın ikinci yarısında Meiji Restorasyonu denilen reform sürecinin kapsamı içerisinde aşağıdakilerden hangisi yer almaz?**

A) Feodal düzenin yıkılması
B) Yeni bir anayasanın oluşturulması
C) Takvimin değiştirilmesi
D) Batılı tarzda ordu kurulması
E) Batılı bir alfabeye geçilmesi

MURAT YAYINLARI

/muratyayincilik

7. İki dünya savaşı arası dönemde barışı korumaya yönelik olarak yapılan çalışmalar arasında aşağıdakilerden hangisi yer almaz?

A) Locarno Antlaşması
B) Helsinki Konferansı
C) Briand-Kellogg Paktı
D) Londra Deniz Silahsızlanması Konferansı
E) Washington Deniz Silahsızlandırması Konferansı

8. "Kavgam" adlı eserin yazarı aşağıdakilerden hangisidir?

A) Franklin Roosevert
B) Vlademir Lenin
C) Adolf Hitler
D) Benito Mussolini
E) Winston Churchill

9. XX. yüzyılın başlarında Korbaşı Ergaş'ın liderliğindeki Basmacı Hareketi aşağıdaki devletlerden hangisine karşı yürütülmüştür?

A) ABD
B) Sovyet Rusya
C) İngiltere
D) Fransa
E) Almanya

10. I. Dünya Savaşı'ndan sonra;

I. Trianon,
II. Nöyyi,
III. Sevr

antlaşmalarından hangilerinin imzalandığı söylenebilir?

A) Yalnız I B) Yalnız II C) Yalnız III
D) I ve II E) I, II ve III

11. Aşağıdakilerden hangisi 1920 yılında kurulan Milletler Cemiyeti'nin üye devletleri arasında yer almaz?

A) İngiltere
B) ABD
C) Fransa
D) Türkiye
E) SSCB

12. 1919 yılında imzalanan Versay Antlaşması ile bağımsızlığını kazanan devlet aşağıdakilerden hangisidir?

A) Almanya
B) Polonya
C) Romanya
D) Hırvatistan
E) Moldova

13. İki dünya savaşı arasında;

I. İlk televizyon yayınının yapılması,
II. Pankreas özütünden insülinin elde edilmesi,
III. İlk uzay uydusunun üretilmesi

gelişmelerinden hangilerinin yaşandığı söylenebilir?

A) Yalnız I
B) Yalnız II
C) Yalnız III
D) I ve II
E) I, II ve III

MURAT YAYINLARI

14. **John Steinbeck'in 1929 Ekonomik Buhranı'nı konu alan eseri aşağıdakilerden hangisidir?**

A) Savaş ve Barış
B) Suç ve Ceza
C) Gazap Üzümleri
D) Vadideki Zambak
E) Büyük Diktatör

15. **Montrö Boğazlar Sözleşmesi aşağıdaki ülkelerden hangisinde imzalanmıştır?**

A) Türkiye
B) İsviçre
C) Bulgaristan
D) İtalya
E) Fransa

16. I. Birleşmiş Milletler
II. Litvinov Paktı
III. Cemiyet-i Akvam

Yukarıdakilerden hangileri iki dünya savaş arasında barışa katkı sağlamak için kurulan birliklerdendir?

A) Yalnız I B) Yalnız II C) Yalnız III
D) II ve III E) I, II ve III

17. **İki dünya savaşı arasında;**

I. İtalya,
II. Japonya,
III. Almanya

devletlerinden hangilerinin revizyonist politikalar izlediği söylenebilir?

A) Yalnız I B) Yalnız II C) Yalnız III
D) I ve II E) I,II ve III

18. **XIX. yüzyılın sonlarında ortaya çıkan Meiji Restorasyonu aşağıdaki devletlerden hangisine aittir?**

A) Çin
B) Japonya
C) Fransa
D) SSCB
E) ABD

19. **Aşağıdakilerden hangisi Montrö Boğazlar Sözleşmesi'nde yer almamıştır?**

A) Yunanistan
B) Bulgaristan
C) Fransa
D) SSCB
E) ABD

20. **1928 yılında kurulan Paris Paktı olarak da ifade edilen belge aşağıdakilerden hangisidir?**

A) Balkan Antantı
B) Sadabat Paktı
C) Briand-Kellog Paktı
D) Kuzey Antlantik Paktı
E) Akdeniz Paktı

MURAT YAYINLARI

/muratyayincilik

Açıklamalar • TEST 52

1. **E**
   - Cengiz Aytmatov (1928-2008), Dünyaca ünlü Kırgız yazar, siyasetçi ve gazetecidir.
   - Bahtiyar Vahapzade (1925-2009), Azeri şair ve yazardır.
   - Ebulfez Elçibey, 18 Ekim 1991'de SSCB'den bağımsızlığını ilan eden Azerbaycan'ın ikinci cumhurbaşkanıdır.
   - Yusuf Akçura (1876-1935), Tatar asıllı Türk yazar ve siyasetçidir.
   - Mehmet Emin Resulzade (1884-1955), 28 Mayıs 1918'de kurulan Azerbaycan Demokratik Cumhuriyeti'nin kurucusu ve ilk devlet başkanıdır.

2. **D** I. Dünya Savaşı sonrasında Orta Doğu ve Arap Yarımadası'nda çıkan ayaklanmalar sonucunda İngiltere, 1922'de Mısır'ın, 1930'da Irak'ın, 1932'de Suudi Arabistan'ın ve 1934'te Yemen'in bağımsızlığını tanıdı. Ürdün 1922'de İngiltere'nin mandası olarak kurulmuş ancak bağımsızlığına 1946'da kavuşmuştur.

3. **E** ABD Başkanı James Monroe 2 Aralık 1823'te Amerikan Kongresi'ne sunduğu doktrinde; kabuğuna çekilme (izolasyon) ilkesi ile Amerika'nın Avrupa işleriyle ilgilenmeyeceği ve karışmayacağını belirtmiş, böylece kendi içine kapanarak yalnızcılığa dayalı bir dış politika stratejisi uygulamıştır.

4. **B** I. Dünya Savaşı'nın ardından toplanan 18 Ocak 1919 tarihli Paris Barış Konferansı'nda yenilen devletlerle imzalanacak olan antlaşmaların esasları belirlenmiştir. Konferansta Almanya'nın Versay'ı, Avusturya'nın Saint Germain'i, Macaristan'ın Triyanon'u ve Bulgaristan'ın Nöyyi Barış Antlaşması imzalanmıştır. Bu antlaşmalarda savaşı kaybeden devletlerin kazanan devletlere yüklü bir savaş tazminatı ödemeleri ve zorunlu askerlik uygulamasının kaldırılarak siyasi ve askeri bakımdan ağır yükümlülükler altına girmeleri şartı getirilmiştir. Ancak bu antlaşmalarda devletlerin yönetim biçimlerinin değiştirilmesine yönelik ortak bir madde bulunmamaktadır.

5. **A** Basmacı Hareketi Sovyet Rusya yönetimine karşı Orta Asya'da 1918'de başlayan harekettir. 1921'de bu hareketin başına geçen Enver Paşa'nın ölmesiyle hareketin etkinliği azalmıştır.

6. **E** Japonya'da 1868'de Meiji hanedanının yönetime gelmesi ile birlikte yeni bir düzen ve reform süreci yaşanmıştır. 1870'lerde bu süreç içerisinde feodalitenin yıkılması, ilk demiryolu yapımına başlanması, yeni bir anayasa hazırlanması, ilk gazetenin yayımlanması, her Japon vatandaşı için ilköğretimin zorunlu hale getirilmesi, zorunlu askerlik sisteminin kabulü ile Batı tarzı bir ordu kurulması ve takvimin değiştirilmesi gibi adımlar atılmıştır. Ancak bu reform hareketi içerisinde alfabenin değiştirilmesine yönelik herhangi bir adım atılmamıştır.

7. **B** I. Dünya Savaşı'nın 1918'de sona ermesinden II. Dünya Savaşı'nın başladığı 1939'a kadar Avrupa'da ve dünyada barışı korumak amacıyla birçok konferans toplanarak birçok pakt oluşturulmuştur. Bu çalışmalar arasında 1922 Washington ile 1930 Londra Deniz Silahsızlandırması Konferansları toplanmış, 1925'te Locarno Antlaşması ile 1928 Briand-Kellogg Paktı oluşturulmuştur.
   Avrupa Güvenliği ve İşbirliği Konferansı olarak toplanan Helsinki Konferansı ise 1975'te dünyada Soğuk Savaş Dönemi'nden Yumuşama (Detant) sürecine geçilmesinde etkili olmuştur.

8. **C** 1924-1926 yılları arasında yazılan "Kavgam" adlı eserin yazarı Alman lider Adolf Hitler'dir.

MURAT YAYINLARI

9. **B** Hem Çarlık Rusya'nın hem de 1917 yılında kurulan Sovyet Rusya'nın Orta Asya Türklerine asimilasyon politikaları uygulamaları nedeniyle XX. yüzyılın başlarında Korbaşı Ergaş'ın liderliğinde Basmacı Hareketi (Korbaşı Hareketi) başlamıştır.

10. **E** Trianon Antlaşması Macaristan'ın, Nöyyi Antlaşması Bulgaristan'ın, Sevr Antlaşması Osmanlı Devleti'nin I. Dünya Savaşı'ndan sonra imzaladıkları antlaşmalardır.

11. **B** ABD, 1920 yılında kurulan Milletler Cemiyeti'nin üye devletleri arasında yer almamıştır. Birliğe Türkiye 1932 yılında üye olmuştur.

12. **B** 1919 yılında imzalanan Versay Antlaşması ile bağımsızlığını kazanan devlet Polonya'dır.

13. **D** İlk uzay uydusunun üretilmesi Soğuk Savaş Dönemi'nde olmuştur. Diğer öncüllerde verilenler İki dünya savaşı arasında (1918-1939) gerçekleşen gelişmelerdendir.

14. **C** Gazap Üzümleri adlı eser John Steinbeck'in 1929 Ekonomik Buhranı'nı konu alan yapıtıdır.

15. **B** 1936 yılında gerçekleşen Montrö Boğazlar Sözleşmesi İsviçre'de imzalanmıştır.

16. **D** Cemiyet- i Akvam (1920) ve Litvinov Paktı (1929) İki dünya savaş arasında barışa katkı sağlamak için kurulan birliklerdendir.
Birleşmiş Milletler ise II. Dünya Savaşı'ndan sonra kurulan uluslararası birliktir.

17. **E** İki dünya savaşı arasında revizyonist politikalar (mevcut şartları değiştirip yayılmacı siyaset izlemek) İtalya, Almanya ve Japonya'dır.

18. **B** 1867-1912 yılları arasında Japonya'da Meiji Restorasyonu yaşanmıştır.

19. **E** Möntro Boğazlar Sözleşmesi'nde ABD yer almamıştır.

20. **C** Briand-Kellog Paktı 1928 yılında ABD ile Fransa önderliğinde kurulmuştur,diğer adı Paris Paktı'dır.

MURAT YAYINLARI

/muratyayincilik

Çağdaş Türk ve Dünya Tarihi
İki Küresel Savaş Arasında Dünya • TEST 53

1. **Nobel Barış Ödülü'ne 1934 yılında aday gösterilen lider aşağıdakilerden hangisidir?**

A) Benito Mussolini
B) Winston Churchill
C) Mustafa Kemal Atatürk
D) Elefterios Venizelos
E) Vlademir Lenin

2. **İki dünya savaşı arasında Türkiye aşağıdakilerden hangisinde yer almamıştır?**

A) Akdeniz Paktı
B) Milletler Cemiyeti
C) Paris Paktı
D) Sadabat Paktı
E) Locarno Paktı

3. **Aşağıdakilerden hangileri Balkan Antantı üyelerinden biri değildir?**

A) Türkiye
B) Yunanistan
C) Bulgaristan
D) Yugoslavya
E) Romanya

4. **İki dünya savaşı arasında "Kara Gömlelikler Hareketi" adı altında Faşizm rejimini uygulayan devlet aşağıdakilerden hangisidir?**

A) İtalya
B) Almanya
C) Fransa
D) İspanya
E) ABD

5. I. Milli İktisat ve Tasarruf Cemiyeti'nin kurulması
II. I. Beş Yıllık Sanayi Planı'nın uygulanması
III. Merkez Bankası'nın kurulması

Yukarıdakilerden hangileri 1929 Dünya Ekonomik Buhranı'na karşı Atatürk Dönemi'nde alınan önlemlerdendir?

A) Yalnız I
B) Yalnız II
C) Yalnız III
D) II ve III
E) I, II ve III

6. **Atatürk Dönemi'nde;**

I. Bozkurt-Lotus Olayı,
II. Etabli,
III. Hatay

konularından hangileri uluslararası kuruluşlara taşınmıştır?

A) Yalnız I
B) Yalnız II
C) Yalnız III
D) I ve II
E) I, II ve III

7. **İki dünya savaşı arasında NEP adıyla bilinen ekonomi politikasını aşağıdaki ülkelerden hangisi uygulamıştır?**

A) İtalya
B) ABD
C) Çin
D) SSCB
E) İngiltere

MURAT YAYINLARI

8. I. Sadabat Paktı
II. Hatay'ın Türkiye'ye katılması
III. Montrö Boğazlar Sözleşmesi

Yukarıdakilerin kronolojik sıralaması hangisinde doğru verilmiştir?

A) I-II-III B) II-I-III C) I-III-II
D) III-I-II E) III-II-I

9. **1938 yılında kurulan Hatay Devleti'nin ilk cumhurbaşkanı aşağıdakilerden hangisidir?**

A) Celal Bayar
B) İsmet İnönü
C) Tayfur Sökmen
D) Abdurrahman Melek
E) Kazım Özalp

10. **XIX. yüzyılda Çarlık Rusya'nın Kafkasya Türklerine baskısından dolayı Şeyh Şamil liderliğinde başlatılan harekete verilen isim aşağıdakilerden hangisidir?**

A) Basmacılar
B) Gazavat
C) Turancılık
D) Korbaşılar
E) Garpçılık

11. **Türkiye'yi Balkan Antantı'nda temsil eden dışişleri bakanı aşağıdakilerden hangisidir?**

A) Bekir Sami Kunduh
B) İsmet Paşa
C) Tevfik Rüştü Aras
D) Ali Fuat Cebesoy
E) Yusuf Kemal Tengirşenk

12. **Türkiye'nin Cemiyet-i Akvam'a üye olduktan sonra uluslararası kuruluşlara taşınan ilk sorunu aşağıdakilerden hangisidir?**

A) Boğazlar
B) Hatay
C) Etabli
D) Musul
E) Kapitülasyonlar

13. **Musul'un 1926 yılında Irak'a bırakılmasına neden olan uluslararası rapor aşağıdakilerden hangisidir?**

A) Sandler
B) Milne
C) King-Crane
D) Harbord
E) Brüksel

14. **1937 yılında kurulan Sadabat Paktı'nın merkezi aşağıdakilerden hangisidir?**

A) Kabil
B) Şam
C) Kahire
D) Bağdat
E) Tahran

MURAT YAYINLARI

/muratyayincilik

15. 1936 yılında İngiltere ile Türkiye'nin liderliğinde kurulan uluslararası örgüt aşağıdakilerden hangisidir?

A) Akdeniz Paktı
B) Milletler Cemiyeti
C) Paris Paktı
D) Sadabat Paktı
E) Locarno Paktı

16. I. Suriye
II. Irak
III. Mısır

Yukarıdakilerden hangileri Sadabat Paktı üyeleri arasında yer almaz?

A) Yalnız I
B) Yalnız II
C) Yalnız III
D) I ve III
E) II ve III

17. Balkan Antantı'nın kurulmasında;

I. Almanya,
II. Yunanistan,
III. İtalya

devletlerinden hangilerinin yayılmacı politikaları belirleyici olmuştur?

A) Yalnız I
B) Yalnız II
C) Yalnız III
D) I ve III
E) I, II ve III

18. 1919 tarihinde Weimar Anayasası ilanı aşağıdaki devletlerden hangisi ile ilgilidir?

A) Çin
B) Almanya
C) Fransa
D) SSCB
E) ABD

19. Türkiye'nin Cemiyet-i Akvam üyeliğine;

I. İspanya,
II. Almanya,
III. Yunanistan

devletlerinden hangilerinin desteğinden söz edilebilir?

A) Yalnız I
B) Yalnız II
C) Yalnız III
D) I ve III
E) I, II ve III

20. 2 Eylül 1938'de Hatay Devleti'nin kuruluşu aşağıdaki hangi hükümet döneminde olmuştur?

A) Celal Bayar
B) İsmet İnönü
C) Ali Fethi Okyar
D) Rauf Orbay
E) Fevzi Çakmak

MURAT YAYINLARI

Açıklamalar • TEST 53

1. C Yunanistan'ın lideri Elefterios Venizelos tarafından 1934 yılında Nobel Barış Ödülü'ne aday gösterilen lider Mustafa Kemal Atatürk'tür.

2. E 1925 yılında kurulan Locarno Paktı'nda Türkiye yer almamıştır.

3. C 1934 yılında kurulan Balkan Antant'nda Almanya'nın politikalarını destekleyen Bulgaristan'ın üye olması beklenemez.

4. A İki dünya savaşı arasında "Kara Gömlelikler Hareketi" adı altında Faşizm rejimi İtalya'da uygulanmıştır.

5. E Milli İktisat ve Tasarruf Cemiyeti'nin kurulması, Merkez Bankası'nın kurulması ve I. Beş Yıllık Sanayi Planı'nın uygulanması 1929 Dünya Ekonomik Buhranı'na karşı Atatürk Dönemi'nde alınan önlemlerdendir..

6. E Bozkurt-Lotus Olayı (1926), Etabli veya Mübadele (1930) ve Hatay (1936-1937) sorunlara uluslararası kuruluşlara taşınan konulardandır.

7. D İki dünya savaşı arasında SSCB'de, Vlademir Lenin liderliğinde sosyalist ekonomi politikası olan NEP uygulamaya konulmuştur.

8. D I. Sadabat Paktı (1937)
II. Hatay'ın Türkiye'ye katılması (1939)
III. Montrö Boğazlar Sözleşmesi (1936)
Buna göre kronolojik sıralama; III-I-II şeklinde olmalıdır.

9. C 1938 yılında kurulan Hatay Devleti'nin ilk cumhurbaşkanı Tayfur Sökmen'dir.

10. B XIX. yüzyılın sonlarında Çarlık Rusya'nın Kafkasya Türklerine baskısından dolayı Şeyh Şamil liderliğinde başlatılan harekete ismi Gazavat Hareketi diğer adıyla Müridizm Hareketi adı verilmiştir.

11. C Atatürk Dönemi'nin son dışişleri bakanı Tevfik Rüştü Aras'tır. Tevfik Rüştü Aras bu görevi 1925-1938 yılları arasında üstlenmiştir. Balkan Antantı 1934 yılında kurulmuştur. Bu belgede Türkiye'yi dişişleri bakanı Tevfik Rüştü Aras temsil etmiştir.

12. A Boğazlar konusu, Türkiye'nin Cemiyet-i Akvam'a (Milletler Cemiyeti) üye olduktan sonra uluslararası kuruluşlara taşınan ilk sorunudur.

13. E Brüksel Raporu, Musul'un 1926 yılında Irak'a bırakılmasına neden olan uluslararası rapordur.

14. E 1937 yılında kurulan Sadabat Paktı'nın merkezi Tahran'dır.

15. A 1936 yılında İngiltere ile Türkiye'nin liderliğinde kurulan uluslararası örgüt Akdeniz Paktı'dır.

16. D 1937 yılında kurulan Sadabat Paktı'nda Suriye ve Mısır yer almamıştır. Sadabat Paktı; Türkiye, Irak, İran ve Afganistan arasında kurulmuştur.

17. D İkinci Dünya Savaşı öncesinde Almanya ve İtalya'nın yayılmacı politikalarına karşı 1934 yılında Balkan Antantı kurulmuştur.

18. B 1919 tarihinde Weimar Anayasası ilanı Almanya'da gerçekleşmiştir.

19. D İspanya ve Yunanistan,Türkiye'nin 1932 yılında Cemiyet-i Akvam üyeliğine destek veren arasında yer almıştır.

20. A 2 Eylül 1938'de Hatay Devleti'nin kuruluşu Celal Bayar hükümeti döneminde olmuştur.

MURAT YAYINLARI

/muratyayincilik

Çağdaş Türk ve Dünya Tarihi
İkinci Dünya Savaşı • TEST 54

1. II. Dünya Savaşı'na katılan aşağıdaki devlet ve devlet lideri eşleştirmelerinden hangisi yanlıştır?

A) Almanya-Hitler
B) İngiltere-Churchill
C) Japonya-Mao Zedong
D) SSCB-Stalin
E) İtalya-Mussolini

2. II. Dünya Savaşı sürecinde Türkiye'de aşağıdakilerden hangisi ile üretim ve tüketimin denetlemesi tümüyle devletin tekeline alınmıştır?

A) Takrir-i Sükûn Kanunu
B) Milli Korunma Kanunu
C) Türk Medeni Kanunu
D) I. Beş Yıllık Kalkınma Planı
E) Merkez Bankası'nın kurulması

3. II. Dünya Savaşı öncesi kurulan ve Mihver Bloku'nun temelini oluşturan Anti-Komintern Pakt'ın üyeleri aşağıdakilerden hangisinde doğru verilmiştir?

A) İtalya - Almanya - Türkiye
B) İtalya - SSCB - Japonya
C) Almanya - İtalya - Japonya
D) Almanya - SSCB - İspanya
E) Japonya - Almanya - SSCB

4. II. Dünya Savaşı sürecinde Türkiye'nin İngiltere ve Fransa ile Karşılıklı Yardım Deklarasyonu imzalamasında aşağıdakilerden hangisi hızlandırıcı etki yaratmıştır?

A) Almanya'nın Merkür Harekatı'nı başlatması
B) Japonya'nın Pearl Harbour Baskını'nı gerçekleştirmesi
C) Fransa'nın Almanya'ya teslim olması
D) SSCB ile Almanya'nın Saldırmazlık Paktı imzalaması
E) İtalya'nın savaştan çekilmesi

5. II. Dünya Savaşı'nda Husky Harekatı ile savaş dışı kalan devlet aşağıdakilerden hangisidir?

A) İtalya
B) Almanya
C) Fransa
D) Japonya
E) SSCB

6. II. Dünya Savaşı'nın sonlarında toplanan aşağıdaki konferanslardan hangisinde Almanya'nın ve Avusturya'nın dört işgal bölgesine ayrılması kararı alınmıştır?

A) Yalta
B) Tahran
C) Potsdam
D) Son Francisco
E) Dumbarton Oaks

MURAT YAYINLARI

7. **İspanya'nın II. Dünya Savaşı'na katılmamasına rağmen savaş sonrası batılı devletler tarafından dışlanmasında ve uluslararası örgütlere bir süre alınmamasında aşağıdakilerden hangisi etkili olmuştur?**

A) Nükleer silahlanma faaliyetlerine yönelmesi
B) SSCB ile yakınlaşması
C) Franco liderliğinde faşist bir yönetime sahip olması
D) Komşularıyla suni sorunları yaşaması
E) İçe kapalı bir ekonomi modelini benimsemesi

8. **Aşağıdakilerden hangisi II. Dünya Savaşı sırasında Mihver Bloku'nu oluşturan devletlerin müttefiklere yönelik saldırıları arasında yer almaz?**

A) Kartal Hücumu
B) Stalingrad Kuşatması
C) Barbarossa Harekatı
D) Normandiya Çıkarması
E) Pearl Harbour Baskını

9. **Aşağıdaki olaylardan hangisinin sonucunda ABD tarafsızlığını bozarak II. Dünya Savaşı'na girmiştir?**

A) Almanya'nın Polonya'yı işgal etmesi
B) Japonya'nın Pearl Harbour Üssü'ne saldırması
C) İtalya'nın Sudan'a saldırması
D) ABD'nin Solomon Adaları'na saldırması
E) Almanya'nın Barbarossa Harekatı'na başlaması

10. **II. Dünya Savaşı'nda** "Asya Asyalılarındır" **politikasını izleyen devlet aşağıdakilerden hangisidir?**

A) Fransa
B) İtalya
C) Almanya
D) Japonya
E) Çin

11. **II. Dünya Savaşı'nda;**

I. Japonya
II. Almanya
III. SSCB

hangilerinin Müttefik blok ülkelerinden olduğu söylenebilir?

A) Yalnız I
B) Yalnız II
C) Yalnız III
D) I ve II
E) I, II ve III

MURAT YAYINLARI

12. **II. Dünya Savaşı'nda Akdeniz'de** "Bizim Deniz" **politikasını izleyen devlet aşağıdakilerden hangisidir?**

A) Almanya
B) İngiltere
C) İtalya
D) Yunanistan
E) Fransa

13.

Devlet	Rejim
I. Almanya	Nasyonal Sosyalizm
II. İtalya	Faşizm
III. SSCB	Sosyalizm

II. Dünya Savaşı Dönemi'nde yukarıdaki devlet-rejim eşleştirmelerden hangisi doğru verilmiştir?

A) Yalnız I
B) Yalnız II
C) Yalnız III
D) II ve III
E) I, II ve III

/muratyayincilik

14. I. Hayat Sahası politikası
II. Gestapo
III. Kahverengi Gömlekliler

Yukarıdakilerden hangilerinin Almanya ile ilgili olduğu söylenebilir?

A) Yalnız I B) Yalnız II C) Yalnız III
D) II ve III E) I, II ve III

15. **II. Dünya Savaşı'nda Türkiye;**
I. Japonya,
II. İngiltere,
III. Almanya
devletlerinden hangilerine savaş ilan etmiştir?

A) Yalnız I B) Yalnız II C) Yalnız III
D) I ve III E) I, II ve III

16. I. Refik Saydam
II. Fethi Okyar
III. Şükrü Saraçoğlu

Yukarıdakilerden hangileri Türkiye'nin II. Dünya Savaşı Dönemi'ndeki hükümetlerindendir?

A) Yalnız I B) Yalnız II C) Yalnız III
D) I ve III E) I, II ve III

17. **1940 yılında İsmail Hakkı Tonguç tarafından öğretmen yetiştirmek amacıyla açılan aşağıdakilerden hangisidir?**

A) Köy Enstitüleri
B) Halkevleri
C) Türk Ocakları
D) Millet Mektepleri
E) Sanayı-i Nefise Mektebi

18. **1 Mart 1945'e kadar Mihver devletlerine savaş ilan edenlerin Birleşmiş Milletler'e kabul edilmesi kararı aşağıdakilerden hangisinde alınmıştır?**

A) Potsdam
B) Yalta
C) Quebec
D) Moskova
E) San Francisco

19. **II. Dünya Savaşı'nda Türkiye'nin;**
I. Aşar,
II. Varlık,
III. Toprak Mahsulleri
vergilerinden hangilerini çıkardığı söylenebilir?

A) Yalnız I
B) Yalnız II
C) Yalnız III
D) I ve III
E) II ve III

20. **II. Dünya Savaşı'nda Türkiye;**
I. Yalta,
II. Kahire,
III. Adana
konferanslarından hangilerinde yer almıştır?

A) Yalnız I
B) Yalnız II
C) Yalnız III
D) II ve III
E) I, II ve III

MURAT YAYINLARI

Açıklamalar • TEST 54

1. **C** II. Dünya Savaşı sırasında Almanya'da Adolf Hitler, İtalya'da Benito Mussolini, İngiltere'de Churchill, SSCB'de Stalin ve Japonya'da ise İmparator Hirohito yönetimdeydi. Mao Zedong ise 1949'da Çin Halk Cumhuriyeti'nin yönetimine gelmiştir.

2. **B** Türkiye'de, II. Dünya Savaşı yıllarında piyasalardaki mal darlığını hafifletmek, fiyat artışlarını önlemek, karaborsacılıkla mücadele etmek ve sosyal adaleti sağlamak amacıyla 18 Ocak 1940'ta Milli Korunma Kanunu'nu çıkarılmıştır. 1942'de değişikliğe uğrayan bu kanun ile üretim, tüketim ve dağıtım ilişkileri tümüyle devlet kontrolü altına alınmıştır.

3. **C** II. Dünya Savaşı öncesi Japonya'nın Moğolistan sınırında SSCB ile yaşadığı kriz Almanya ile yakınlaşmasına neden olmuş iki devlet, SSCB'ye karşı 1936'da Anti-Komintern Pakt adıyla siyasi bir ittifak kurmuştur. Söz konusu ittifaka Almanya'nın baskısıyla 6 Kasım 1937'de İtalya'da katılmış ve II. Dünya Savaşı öncesi Mihver Bloku'nun (Berlin - Roma - Tokyo Mihveri) temeli atılmıştır.

4. **D** II. Dünya Savaşı öncesi Almanya ile SSCB arasında 23 Ağustos 1939'da Saldırmazlık Paktı (Ribbentrop Paktı) imzalanmıştır. Bu gelişme karşısında Türkiye, İngiltere ve Fransa ile 19 Ekim 1939'da Karşılıklı Yardım Deklarasoyonu'nu (Ankara Paktı) yapmıştır.

5. **A** 1943 yılındaki Husky Harekatı (Sicilya Çıkarması) ile II. Dünya Savaşı'nın dışında kalan devlet İtalya'dır.

6. **C** 17 Temmuz - 2 Ağustos 1945 tarihleri arasında, Almanya'nın teslim olmasından ve Avrupa'da savaşın sona ermesinden sonra ortaya çıkan sorunları görüşmek üzere (ABD, İngiltere ve SSCB) üç büyük Müttefik Devlet Potsdam'da bir araya geldiler. Bu konferansın sonunda yayımlanan deklarasyonda Almanya ve Avusturya'nın ABD, İngiltere, SSCB ve Fransa arasında dört işgal bölgesine ayrılması kararlaştırılmıştır.

7. **C** İspanya'da yaşanan iç savaş (1936-1939) sonucunda İspanya, General Franco liderliğinde faşist yönetime geçmiş ve Franco'ya destek veren Almanya ve İtalya ile iyi ilişkiler kurmuştur. Bu nedenle II. Dünya Savaşı'nın galip devletleri, faşist İspanya'yı uzun süre dışlamışlardır.

8. **D** Mihver Devletler, Almanya, İtalya ve Japonya üçlüsüdür. Kartal Hücumu Almanya'nın İngiltere'ye, Barbarossa Harekatı ve Stalingrad Kuşatması Almanya'nın SSCB'ye saldırısı, Pearl Harbour Baskını ise Japonya'nın ABD'ye saldırısıdır. Ancak Normandiya Çıkarması İngiltere ve ABD güçlerinin Almanya'ya saldırısıdır ve bu saldırı sonucunda Almanya, Fransa topraklarından çekilmeye başlamıştır.

9. **B** ABD, I. Dünya Savaşı'nda olduğu gibi II. Dünya Savaşı'nın başında da tarafsızlık politikası izlemiştir. Ancak bu sırada Japonya'ya karşı olumsuz bir tutum takınarak ambargo uygulamaya başlamıştır. Bunun üzerine Japonya, 1941'de ABD'nin Pasifik Okyanusu'ndaki üssü olan Pearl Harbour'a saldırmış ve ABD böylece savaşa girmiştir.

10. **D** II. Dünya Savaşı'nda "Asya Asyalılarındır" politikasını izleyen devlet Japonya'dır.

MURAT YAYINLARI

/muratyayincilik

11. C II. Dünya Savaşı'nda Müttefik blokun kurucu devletleri; İngiltere, Fransa ve SSCB'dir.
Mihver blokun kurucu devletleri ise; Almanya,İtalya ve Japonya'dır.

12. C II. Dünya Savaşı'nda Akdeniz'de "Bizim Deniz" politikasını izleyen devlet İtalya"dır.

13. E II. Dünya Savaşı Dönemi'nde devlet-rejim eşleştirmeleri incelendiğinde Almanya'da Nasyonal Sosyalizm yani Nazizm vardır.
İtalya'daki rejim Faşizm'dir.
SSCB'deki rejim Sosyalizm'dir.

14. E Hitler önderliğinde Nazi Almanyası II. Dünya Savaşı'nda Hayat Sahası politikasını izlemiştir.
Gestapo, Nazilerin gizli siyasal polis teşkilatıdır.
Naziler, kahverengi gömlekler giydiği için Kahverengi Gömlekliler adıyla da anılmıştır.

15. D II. Dünya Savaşı'nda Türkiye Birleşmiş Milletler'e (BM) girmenin ön şartını yerine getirip 23 Şubat 1945'te Almanya ve Japonya'ya savaş ilan etmiştir.

16. D Türkiye'nin II. Dünya Savaşı Dönemi'nde hükümetleri; Refik Saydam (1939-1942) ve Şükrü Saraçoğlu (1942-1946) hükmetleridir.

17. A 1940 yılında İsmail Hakkı Tonguç tarafından öğretmen yetiştirmek amacıyla açılan Köy Enstitüleri'dir.

18. B Yalta Konferansı'nda (4-11 Şubat 1945) 1 Mart 1945'e kadar Mihver devletlerine savaş ilan edenlerin Birleşmiş Milletlere kabul edilmesine kararı alınmıştır.

19. E II. Dünya Savaşı'nda Türkiye 1942 yılında Varlık vergisini, 1944 yılında da Toprak Mahsulleri vergisini uygulamaya koymuştur.
Aşar vergisi ise 1925 yılında Atatürk Dönemi'nde kaldırılmıştır.

20. D II. Dünya Savaşı'nda Türkiye Adana Konferansı'na (1943), Kahire Konferansı'na (1943) ve San Francisco Konferansı'na (1945) katılmıştır.

MURAT YAYINLARI

Çağdaş Türk ve Dünya Tarihi
İkinci Dünya Savaşı • TEST 55

1. **II. Dünya Savaşı'nda Almanya'nın olası saldırmasına karşı Türkiye'nin Trakya'da kurduğu hat aşağıdakilerden hangisidir?**

A) Çakmak
B) Tuna
C) İnönü
D) Çelik
E) Meriç

2. **II. Dünya Savaşı'nda Türkiye'de kurulan ilk siyasi parti aşağıdakilerden hangisidir?**

A) Terakkiperver Cumhuriyet Fırkası
B) Milli Kalkınma Partisi
C) Serbest Cumhuriyet Fırkası
D) Adalet Partisi
E) Demokrat Parti

3. **II. Dünya Savaşı'nda Normandiya Çıkarması kararı aşağıdakilerden hangisinde alınmıştır?**

A) San Francisco Konferansı
B) Atlantik Bildirisi
C) Quebec Konferansı
D) Potsdam Konferansı
E) Yalta Konferansı

4. **Aşağıdakilerden hangisi II. Dünya Savaşı'ndaki Müttefik Blok ülkelerinden biri değildir?**

A) Yunanistan
B) Çin
C) Fransa
D) İspanya
E) ABD

5. **Almanya, II. Dünya Savaşı'nın başında aşağıdaki devletlerden hangisi ile saldırmazlık antlaşması imzalayarak Polonya topraklarını paylaşmıştır?**

A) SSCB
B) Avusturya
C) İtalya
D) Fransa
E) İngiltere

6. **II. Dünya Savaşı'nda Neptün Harekatı aşağıdakilerden hangisine karşı düzenlenmiştir?**

A) Fransa
B) İtalya
C) Almanya
D) Japonya
E) Çin

7. **II. Dünya Savaşı'nda Almanya'nın Merkür ve Marita Harekatları ile işgal ettiği devlet aşağıdaki hangisidir?**

A) Yunanistan
B) Bulgaristan
C) Fransa
D) SSCB
E) Çin

8. **II. Dünya Savaşı'nda;**
I. Yatıştırma Politikası,
II. Maginot Hattı,
III. Leyte Körfezi Harekatı
hangileri Fransa'nın Nazilere karşı aldığı önlemler arasında yer almıştır?

A) Yalnız I B) Yalnız II C) Yalnız III
D) I ve III E) I, II ve III

MURAT YAYINLARI

/muratyayincilik

9. **İkinci Dünya Savaşı'nda Birleşmiş Milletler'in kurulması fikri ilk kez aşağıdakilerden hangisinde söylenmiştir?**

A) San Francisco Konferansı
B) Atlantik Bildirisi
C) Kazablanka Konferansı
D) Potsdam Konferansı
E) Yalta Konferansı

10. **II. Dünya Savaşı'nda Yunanistan'ın Korfu Adası'nı işgal eden devlet aşağıdakilerden hangisidir?**

A) Fransa
B) İtalya
C) SSCB
D) Japonya
E) Çin

11. **II. Dünya Savaşı'nda Kore aşağıdaki devletlerden hangisinin işgali altındadır?**

A) Japonya
B) Almanya
C) İtalya
D) Fransa
E) Çin

12. **Saar Bölgesi'ni referandumla topraklarına katan devlet aşağıdakilerden hangisidir?**

A) İngiltere
B) Almanya
C) İtalya
D) SSCB
E) ABD

13. **Almanya'nın II. Dünya Savaşı'nda Yahudilere katliam uygulaması aşağıdakilerden hangisi ile adlandırılmıştır?**

A) Sefarat
B) Gestapo
C) Enigma
D) Holokost
E) Karbonari

14. **İngiltere'nin II. Dünya Savaşı sürecinde Almanya'yı yanına çekmek için izlediği siyaset aşağıdakilerden hangisidir?**

A) Yayılmacılık
B) Enigma
C) Yatıştırma
D) Yalnızlık
E) İzolasyon

MURAT YAYINLARI

15. **II. Dünya Savaşı'nda;**

I. Yıldırım,

II. Kartal Hücum,

III. Mercan Denizi

harekatlarından hangileri Naziler tarafından gerçekleştirilmiştir?

A) Yalnız I B) Yalnız II C) Yalnız III

D) I ve II E) I, II ve III

16. **1945 yılında gelecekteki barış esaslarının görüşüldüğü uluslararası ilk konferans aşağıdakilerden hangisidir?**

A) Quebec
B) San Francisco
C) Yalta
D) Adana
E) Potsdam

17. **Aşağıdakilerden hangisi II. Dünya Savaşı'nın sonuçlarından biri değildir?**

A) Soğuk Savaş Dönemi'nin başlaması
B) IMF'nin kurulması
C) On İki Ada ve Rodos'un İtalya'ya geçmesi
D) Almanya'nın ikiye ayrılması
E) İsrail Devleti'nin kurulması

18. **Aşağıdakilerden hangisi Türkiye'nin II. Dünya Savaşı'na karşı önlemlerden biri değildir?**

A) Milli Korunma Kanunu
B) Ekmek Karnesi uygulaması
C) Toprak Mahsulleri Vergisi'nin çıkarılması
D) I. Beş Yıllık Sanayi Planı'nın uygulanması
E) Ticaret Ofisi ve İaşe Müşteşarlığı'nın kurulması

19. **Aşağıdakilerden hangisi II. Dünya Savaşı'na ABD'de tarafından gerçekleştirilmiştir?**

A) Pearl Harlbour Baskını
B) Hiroşima'ya atılan atom bombası
C) Polonya'nın işgal edilmesi
D) Barbarossa Harekatı
E) Stalingrad Kuşatması

20. **Türkiye aşağıdaki konferanslardan hangisine katılarak Birleşmiş Milletler'e üye olmuştur?**

A) Quebec
B) Potsdam
C) San Francisco
D) Kazablanka
E) Kahire

MURAT YAYINLARI

/muratyayincilik

Açıklamalar • TEST 55

1. **A** Çakmak Hattı, II. Dünya Savaşı'nda Almanya'nın olası saldırmasına karşı Türkiye'nin Trakya'da kurduğu hattır.

2. **B** II. Dünya Savaşı'nda (1939-1945) Türkiye'de kurulan ilk siyasi parti 1945 yılında Nuri Demirağ tarafından kurulan Milli Kalkınma Partisi'dir.
Demokrat Parti 1946 yılında, Adalet Partisi 1961 yılında kurulmuştur.
Terakkiperver Cumhuriyet Fırkası (1924) ve Serbest Cumhuriyet Fırkası (1930) Atatürk Dönemi'nde kurulan partilerdir.

3. **C** II. Dünya Savaşı'nda Normandiya Çıkarması kararı 1943 yılında düzenlenen Quebec Konferansı'nda alınmıştır.

4. **D** İspanya II. Dünya Savaşı'nın tarafsız ülkelerinden biridir.
Diğer seçeneklerde verilenler II. Dünya Savaşı'ndaki Müttefik blok ülkelerindendir.

5. **A** II. Dünya Savaşı'nın resmi olarak başlamasına neden olan gelişme 1 Eylül 1939'da Almanya'nın Polonya'ya saldırmasıdır. Bu işgal hareketi Alman-Sovyet Saldırmazlık Paktı'nın yapılmasından sonra meydana geldiği gibi 6 Ekim 1939'da Almanya ve SSCB'nin Polonya'nın tamamını işgal etmeleriyle sona ermiştir.

6. **C** II. Dünya Savaşı'nda müttfik güçleri tarafından Almanya'ya karşı Neptün Harekatı olarak da bilinen Normandiya Çıkarması düzenlenmiştir.

7. **A** II. Dünya Savaşı'nda Almanya tarafından Merkür ve Marita Harekatları ile işgal edilen devlet Yunanistan'dır.

8. **B** Maginot Hattı, Fransa'nın II. Dünya Savaşı'nda Nazilere karşı aldığı önlemlerden biridir. Ancak Almanya bu hattı aşıp Fransa'yı Yıldırım Harekatı'yla işgal etmiştir.
Leyte Körfezi Harekatı, II. Dünya Savaşı'nda ABD'nin Japonya'ya saldırılarından biridir.
Yatıştırma Politikası, II. Dünya Savaşı sürecinde İngiltere'ye ait politikadır.

9. **B** Birleşmiş Milletler'in kurulması fikri ilk kez Atlantik Bildirisi'nde (1941) söylenmiştir. 1945 yılında düzenlenen San Francisco Konferansı ile de kurulmuştur.

10. **B** II. Dünya Savaşı'nda Yunanistan'ın Korfu Adası'nı işgal eden devlet İtalya'dır.

11. **A** Kore, 1910-1945 yılları arasında Japonya işgaline maruz kalmıştır. Dolayısıyla Kore II. Dünya Savaşı'nda da Japonya'nın işgali altındadır.

12. **B** Fransa'ya ait Saar Bölgesi'ni referandumla topraklarına katan devlet Almanya'dır.

13. **D** Almanya'nın II. Dünya Savaşı'nda Yahudilere katliam uygulaması "Holokost" olarak adlandırılır.

14. **C** İngiltere'nin II. Dünya Savaşı sürecinde Almanya'yı yanına çekmek için izlediği siyasete "Yatıştırma Politikası" adı verilmiştir.

15. **D** II. Dünya Savaşı'nda Naziler (Almanya) Fransa'yı Yıldırım Harekatı ile işgal etmişlerdir. Naziler, Kartal Hücum Harekatı'yla da İngiltere'ye hava harekatı düzenlemişlerdir.
Ancak Mercan Denizi Harekatı, II. Dünya Savaşı'nda ABD ile Japonya arasında gerçekleşmiştir.

16. **C** 4-11 Şubat 1945 tarihinde İngiltere, ABD ve SSCB arasında Kırım'ın Yalta Limanı'nda Yalta Konferansı düzenlenmiştir. Bu görüşme, II. Dünya Savaşı'ndan sonra gelecekteki barış esaslarının görüşüldüğü uluslararası ilk konferanstır.

17. **C** II. Dünya Savaşı'ndan sonra On İki Ada ve Rodos'u İtalya Paris Antlaşması (1947) ile Yunanistan'a bırakmıştır.
Diğer seçeneklerde verilenler II. Dünya Savaşı'nın sonuçları arasında yer almıştır.

18. **D** Türkiye I. Beş Yıllık Sanayi Planı'nı (1933-1938) Atatürk Dönemi'nde uygulamıştır.

19. **B** 7 Aralık 1941 tarihinde Japonya'nın ABD'ye Pearl Harlbour Baskını'nı düzenlemesi ABD'nin II. Dünya Savaşı'na girmesine neden olmuştur.
Hiroşima'ya ve Nagazaki'ye atılan atom bombası 1945 yılında ABD tarafından gerçekleştirilmiştir.

20. **C** Türkiye, San Francisco Konferansı'na (25 Nisan-26 Haziran 1945) katılarak Birleşmiş Milletler'e üye olmuştur.

MURAT YAYINLARI

Çağdaş Türk ve Dünya Tarihi
Soğuk Savaş Dönemi • TEST 56

1. **Aşağıdakilerden hangisi SSCB'nin yayılmacı siyasetine karşı ABD'nin Soğuk Savaş Dönemi'nde aldığı önlemler arasında yer almaz?**

A) Truman Doktrini'nin yayımlanması
B) NATO'nun kurulması
C) Batı Bloku'nun oluşturulması
D) Doğu Almanya'nın kurulması
E) Marshall Planı'nın hazırlanması

2. I. Sovyetlere karşı Balkanların kuvvetlenmesi
II. NATO'nun Doğu Avrupa kanadının güçlenmesi
III. Ortadoğu'da savunma sisteminin geliştirilmesi

Yukarıdakilerden hangileri 1954'te oluşturulan Balkan Antantı'nın amaçları arasında yer alır?

A) Yalnız I B) Yalnız II C) Yalnız III
D) I ve II E) II ve III

3. **Aşağıdakilerden hangisi Türkiye ile Yunanistan arasında 1954'ten beri devam eden Kıbrıs sorunu ile ilişkili değildir?**

A) 1959 Zürih Antlaşması
B) Enosis Planı
C) Türk Mukavemet Teşkilatı
D) 1960 Londra Antlaşması
E) Hrisantos Raporu

4. **Yıldız Savaşları aşağıdaki devletlerden hangileri arasında yaşanmıştır?**

A) ABD - Çin
B) Yugoslavya - SSCB
C) SSCB - Çin
D) İngiltere - ABD
E) ABD - SSCB

5. **Aşağıdakilerden hangisi ABD'nin 1948'de yayımladığı Marshall Planı'ndan yararlanan devletlerden biri değildir?**

A) Fransa
B) Türkiye
C) İsviçre
D) İngiltere
E) Bulgaristan

6. **24 Şubat 1955'te Bağdat Paktı'nın kurulmasına;**
I. Mısır,
II. İngiltere,
III. Suriye
devletlerinden hangileri karşı çıkmıştır?

A) Yalnız I B) Yalnız III C) I ve II
D) I ve III E) I, II ve III

7. **SSCB ile yaşadığı ideolojik görüş ayrılıkları nedeniyle 1948'de Kominform'dan çıkarılan devlet aşağıdakilerden hangisidir?**

A) Romanya
B) Polonya
C) Çekoslovakya
D) Doğu Almanya
E) Yugoslavya

8. **Arap-İsrail Savaşları'nın 1948'de başlamasının temel nedeni aşağıdakilerden hangisidir?**

A) Süveyş Kanalı'nın millileştirilmesi
B) Bağlantısızlar Hareket'nin ortaya çıkması
C) İsrail Devleti'nin kurulması
D) Şattülarap Su Yolu problemi
E) FKÖ'nün kurulması

MURAT YAYINLARI

/muratyayincilik

9. Aşağıdakilerden hangisi Soğuk Savaş Dönemi'nde dünyada görülen gelişmeler arasında yer almaz?

A) Renkli televizyon yayının başlaması
B) DNA yapısının çözülmesi
C) İlk kez UEFA Şampiyon Kulüpler Kupası'nın düzenlenmesi
D) Lazerin icat edilmesi
E) Uluslararası Uzay İstasyonu'nun yapılması

10. ABD, 1956'da yaşanan Süveyş Krizi sonucunda Batı Bloku'nun Orta Doğu'da prestij kaybını önlemek için aşağıdakilerden hangisini yayımlamıştır?

A) Truman Doktrini
B) Marshall Planı
C) Balfour Deklarasyonu
D) Eisenhower Doktrini
E) Nixon - Kissinger Doktrini

11. Avrupa Ekonomik Topluluğu'nun kurulmasına temel oluşturan ve Avrupa Kömür ve Çelik Topluluğu'nu kuran çalışma aşağıdakilerden hangisidir?

A) Marshall Planı
B) Washington Antlaşması
C) Füzyon Antlaşması
D) Schuman Bildirgesi
E) Balfour Deklarasyonu

12. Kore Savaşı'nın etkisiyle Uzak Doğu'da nüfuzunu korumak isteyen ABD;

I. Japonya'ya bağımsızlık verilmesi,
II. SEATO'nun kurulması,
III. NATO'nun kurulması

çalışmalarından hangilerini gerçekleştirmiştir?

A) Yalnız I B) I ve II C) I ve III
D) II ve III E) I, II ve III

13. I. Keşmir
II. Kıbrıs
III. Filistinli Mülteciler

Yukarıdaki sorunlardan hangileri, Soğuk Savaş Dönemi'nin sorunları arasında yer almıştır?

A) Yalnız I B) I ve II C) I ve III
D) II ve III E) I, II ve III

14. Soğuk Savaş Dönemi'nde komünist ideolojinin egemen olduğu ülkeler arasında aşağıdakilerden hangisi yer almaz?

A) Çin
B) Küba
C) Vietnam
D) Kuzey Kore
E) Japonya

MURAT YAYINLARI

15. **Aşağıdakilerden hangisi Türkiye'de Demokrat Parti Dönemi'nde yaşanan gelişmeler arasında yer almaz?**

A) Köy Enstitüleri'nin kapatılması
B) ODTÜ'nün kurulması
C) IMF borcunun son taksidinin ödenmesi
D) 555 K Olayı'nın ortaya çıkması
E) Karayolu yapımına öncelik verilmesi

16. **Soğuk Savaş Dönemi'nin ilk büyük krizi aşağıdakilerden hangisidir?**

A) Berlin Buhranı
B) Küba Bunalımı
C) Kıbrıs Sorunu
D) Prag Buhranı
E) Kore Savaşı

17. **Soğuk Savaş Dönemi'nde;**

I. İtalya,
II. Almanya,
III. Kore

devletlerinden hangileri ikiye ayrılmıştır?

A) Yalnız I
B) Yalnız II
C) Yalnız III
D) II ve III
E) I, II ve III

18. **Soğuk Savaş Dönemi'nde 38. Enlem Sorunu olarak da adlandırılan gelişme aşağıdakilerden hangisidir?**

A) Kore Savaşı
B) Küba Bunalımı
C) Keşmir Sorunu
D) Berlin Buhranı
E) Prag Buhranı

19. **1949 yılında kurulan NATO'ya aşağıdakilerden hangisi temel oluşturmuştur?**

A) Batı Avrupa Birliği
B) Varşova Paktı
C) CENTO
D) ANZUS
E) Eisenhower Doktrini

20. **Marshall Planı'ndan yararlanmak istediği için SSCB tarafından 1948 yılında işgal edilen devlet aşağıdakilerden hangisidir?**

A) Çekoslovakya
B) Yugoslavya
C) Almanya
D) Polonya
E) Macaristan

MURAT YAYINLARI

/muratyayincilik

Açıklamalar • TEST 56

1. **D** 11 Ekim 1949'da kurulan Doğu Almanya SSCB'nin ABD'ye karşı aldığı önlemler arasında yer alır.

2. **D** Ortadoğu'da savunma sisteminin geliştirilmesi Balkan Antantı'nın değil Bağdat Paktı'nın amaçları arasında yer alır.

3. **E**
   - Hrisantos Raporu; Trabzon metropoliti Hrisantos'un 1919'da Paris Barış Konferansı'na sunduğu rapordur. Rapor, Doğu Karadeniz'de bir Pontus Devleti'nin kurulması talebini içermiştir.
   - Enosis Planı; Yunanistan'ın Kıbrıs'ı topraklarına katma planı,
   - Türk Mukavemet Teşkilatı; Kıbrıs'ta EOKA adlı Rum örgüte karşı adadaki Türklerin kurduğu teşkilat,
   - 1959 Zürih ve 1960 Londra Antlaşmaları, 1960'da kurulan Kıbrıs Cumhuriyeti'nin kurulması sürecini hazırlayan antlaşmalardır.

4. **E** Uzay Savaşları ya da Yıldız Savaşları olarak adlandırılan mücadele Soğuk Savaş Dönemi'nde ABD ile SSCB arasında yaşanmıştır.

5. **E** Bulgaristan SSCB'nin kontrolündeki demir perde ülkelerinden olduğu için ABD'nin 1948'de yayımladığı Marshall Planı'ndan yararlanmamıştır.

6. **D** 24 Şubat 1955'te kurulan Bağdat Paktı'na Mısır ve Suriye Orta Doğu'daki çıkarları gereği karşı çıkmışlardır.

7. **E** SSCB ile Yugoslavya arasındaki ideolojik görüş ayrılıkları nedeniyle Yugoslavya 28 Haziran 1948'de SSCB'nin direktifleri doğrultusunda Kominform'dan çıkarılmıştır.

8. **C** 1948'de İngiltere'nin Filistin mandaterliğinden çekilip bölgeye bağımsızlık verdiğini bildirmesi üzerine aynı yıl Balfour Deklerasyonu'na (1917) dayanılarak Yahudi İsrail Devleti kurulmuştur. İsrail'in kurulması ve Filistin topraklarına saldırması üzerine Arap-İsrail Savaşları (1948-1973) başlamıştır.

9. **E** II. Dünya Savaşı'nın sona ermesinden 1991'de Sovyetler Birliği'nin dağılmasına kadar geçen dönem olan Soğuk Savaş Dönemi'nde 1953'te renkli televizyon yayını başlamış ve DNA yapısı çözümlenmiş, 1955'te ilk kez UEFA Şampiyon Kulüpler Kupası düzenlenmiş ve 1960'ta lazer icat edilmiştir. Uluslararası Uzay İstasyonu ise 1998'de alçak dünya yörüngesine yerleştirilmiş bir uzay üssüdür.

10. **D** 1956'da yaşanan Süveyş Krizi'nin etkisiyle SSCB'nin Orta Doğu'daki etkinliğinin artması ABD'yi telaşlandırmış ve ABD Başkanı Eisenhower, Orta Doğu'nun SSCB kontrolüne girmesini önleyerek bölge halkını ABD'nin yanına çekmek için 5 Ocak 1957'de Eisenhower Doktrini'ni yayımlamıştır.

11. **D** 9 Mayıs 1950'de Fransa Dışişleri Bakanı Robert Schuman'ın hazırladığı plan çerçevesinde 18 Nisan 1951'de Fransa, Almanya, İtalya, Hollanda, Belçika ve Lüksemburg Avrupa'da bütünleşmeyi sağlamak amacıyla ekonomik kalkınmanın ortak temellerini atarak Avrupa Kömür ve Çelik Birliği'ni kurmuşlardır.

MURAT YAYINLARI

12. B 1950-1953 yılları arasında Uzak Doğu'da gerçekleşen Kore Savaşı sırasında ABD, Uzak Doğu politikasını etkinleştirmek amacıyla işgali altında bulunan Japonya'ya 8 Eylül 1951'de bağımsızlık vermiştir. Japonya ile aynı gün yapılan Güvenlik Antlaşması ile ABD, Japon topraklarında askeri güç bulundurma hakkı elde etmiştir. Ayrıca ABD, Kore Savaşı'nın ardından bölgedeki komünistlere destek veren Rusya ve Çin'in etkisini azaltmak amacıyla savunma tedbirleri alarak bölgeye yaptığı askeri ve ekonomik yardımları artırmıştır. Bunun sonucunda 8 Eylül 1954'te SEATO (Güney Doğu Asya Antlaşması Teşkilatı)'nın kurulmasını sağlamıştır. Ancak NATO, Kore Savaşı'ndan önce 1949 yılında kurulmuştur.

13. E 15 Ağustos 1947'de iki ayrı bağımsız devlet olarak kurulan Hindistan ve Pakistan arasında yeraltı ve yerüstü kaynakları bakımından zengin olan Keşmir bölgesinin hakimiyeti konusunda problem yaşanmış ve bu nedenle aralarında ilk savaş 1948'de gerçekleşmiştir. Ancak bu mesele halen devam etmektedir.
1954'te İngiltere'nin Kıbrıs Adası'ndan çekilme kararı alması üzerine Türkiye ile Yunanistan arasında bölge hakimiyetine dayalı olarak ortaya çıkan sorun günümüz meselelerinden biridir.
1948'de İsrail'in kurulmasının ardından başlayan Arap-İsrail savaşları sırasında Filistin'de yaşayan birçok Arap yerinden olmuş ve Filistinli Mülteciler Meselesi ortaya çıkmıştır.

14. E II. Dünya Savaşı'nın sonlarında ABD tarafından işgal edilen Japonya, 1951 yılı sonunda bağımsızlığını kazansa da bölgede ABD etkinliği devam etmiş ve Japonya hiçbir zaman komünist bir yönetime sahip olmamıştır.

15. C 1950-1960 yılları arasını kapsayan Demokrat Parti Dönemi'nde kara yolu yapımına öncelik verilmiş, 1951'de Halkevleri, 1954'te Köy Enstitüleri kapatılmış, 15 Kasım 1956'da Orta Doğu Teknik Üniversitesi (ODTÜ) kurulmuş ve 1960'ta Tahkikat Komisyonu'nun kurulmasına tepki olarak 5 Mayıs 1960'ta 555 K Olayı olarak adlandırılan toplumsal bir hareket gerçekleşmiştir. Türkiye'nin IMF'ye olan borcunun son taksidi ise 14 Mayıs 2013'te ödenmiştir.

16. A Soğuk Savaş Dönemi'nin ilk büyük krizi Berlin Buhranı'dır.
II. Dünya Savaşı'ndan sonra Almanya'ya kapitalist ABD, İngiltere ve Fransa ile sosyalist SSCB tarafından işgal edilmiştir.
SSCB'nin Batılı devletleri Berlin'den atma girişimiyle başlayan süreç Almanya'nın ikiye bölünmesi (1949) ve Berlin Duvarı'nın örülmesine (1961) kadar sürmüştür.

17. D Soğuk Savaş Dönemi'nde 1948 yılında Kore, 1949 yılında Almanya ve 1954 yılında Vietnam ikiye ayrılmıştır.

18. A 1948 yılında Kore Kuzey ve Güney Kore adıyla ikiye ayrılmıştır. Kuzey Kore ile Güney Kore'nin birbirinden ayrıldığı enlem 38.Enlem'dir.
1950 yılında başlayan Kore Savaşı (1950-1953) bu nedenle 38.Enlem Sorunu olarak adlandırılmıştır.

19. A İngiltere ve Fransa liderliğinde 1948 yılında Batı Avrupa Birliği kurulmuştur. Ardından ABD liderliğinde 12 Avrupa devletleri bir araya gelerek 1949 yılında Kuzey Atlantik İttifakı'nı (NATO) kurmuşlardır.

20. A Soğuk Savaş Dönemi'nde ABD Avrupa'da sosyalizme ve SSCB'ye karşı Marshall Planı'nı/Marshall Yardımları'nı (1948-1951) yayınlamıştır.
Çekoslovakya Marshall Planı'ndan yararlanmak istemiş ancak SSCB tarafından 1948 yılında işgal edilmiştir.

MURAT YAYINLARI

/muratyayincilik

Çağdaş Türk ve Dünya Tarihi
Soğuk Savaş Dönemi • TEST 57

1. **Soğuk Savaş Dönemi'nde Türkiye'nin ABD ile ilişkilerinin bozulmasında;**

I. 38. Enlem Sorunu,

II. Küba Füze Krizi,

III. Kıbrıs Barış Harekatı

gelişmelerinden hangileri etkili olmuştur?

A) Yalnız I
B) I ve II
C) I ve III
D) II ve III
E) I, II ve III

2. **Türkiye NATO'ya aşağıdaki savaşlardan hangisine katılmak şartıyla üye olmuştur?**

A) Vietnam Savaşı
B) II. Dünya Savaşı
C) Kore Savaşı
D) I. Körfez Savaşı
E) Bosna Savaşı

3. **1960 yılında Adana-İncirlik üssünden havalanan ABD'ye ait casus uçağının SSCB tarafından düşürülmesi aşağıdakilerden hangisi ile adlandırılmıştır?**

A) SEATO
B) 17. Enlem Sorunu
C) U-2 Olayı
D) Kıbrıs Sorunu
E) ANZUS

4. **1947 yılında ABD'ye karşı SSCB tarafından kurulan birlik aşağıdakilerden hangisidir?**

A) Varşova Paktı
B) ANZUS
C) CENTO
D) Cominform
E) AET

5. **Soğuk Savaş Dönemi'nde kurulan Varşova Paktı'nın üyeleri arasında aşağıdakilerden hangisi yer almaz?**

A) Çekoslovakya
B) Yugoslavya
C) Doğu Almanya
D) Polonya
E) Macaristan

6. **Soğuk Savaş Dönemi'nde Avrupa'da SSCB'nin kontrolüne giren devletlere verilen isim aşağıdakilerden hangisidir?**

A) Bağımsız Devletler Topluluğu
B) Demir Perde ülkeleri
C) Batı Bloku
D) Commonwealth
E) Bağlantısızlar Bloku

7. **1960 yılında Kıbrıs Cumhuriyeti'nin kurulmasını sağlayan antlaşma aşağıdakilerden hangisidir?**

A) Bükreş
B) Atina
C) Londra
D) İstanbul
E) Paris

MURAT YAYINLARI

8. **1947 yılında ABD tarafından yayınlanan Truman Doktrini ile aşağıdaki hangi iki devlete mali ve askeri yardım yapılması kararı alınmıştır?**

A) Türkiye-İtalya
B) Bulgaristan-Yunanistan
C) Türkiye-Yunanistan
D) İtalya-İsviçre
E) Batı Almanya-Fransa

9. I. Spykman İç Hilal Stratejisi
II. Çevreleme Politikası
III. Molotof Planı

Yukarıdakilerden hangileri Soğuk Savaş Dönemi'nde ABD'ye ait politikalardandır?

A) Yalnız I
B) Yalnız II
C) Yalnız III
D) I ve II
E) I, II ve III

10. **Soğuk Savaş Dönemi'nde Türkiye'nin;**
I. Bağdat Paktı,
II. Avrupa Konseyi,
III. Varşova Paktı
hangilerinde yer aldığı söylenebilir?

A) Yalnız I
B) Yalnız II
C) Yalnız III
D) I ve II
E) I, II ve III

11. **Soğuk Savaş Dönemi'nde ABD'nin Batı liderliğindeki ilk adımı aşağıdakilerden hangisi olmuştur?**

A) Marshall Yardımları
B) NATO
C) Truman Doktrini
D) ANZUS
E) Eisenhower Doktrini

12. **Soğuk Savaş Dönemi'ndeki;**
I. Macar Devrimi,
II. Kore Savaşı,
III. Berlin Buhranı
gelişmelerinden hangileri ABD ile SSCB arasında sorun yaşanmasına neden olmuştur?

A) Yalnız I
B) Yalnız II
C) Yalnız III
D) I ve II
E) I, II ve III

13. **İnönü Dönemi'nde Türkiye'nin;**
I. Avrupa Konseyi,
II. Birleşmiş Milletler,
III. NATO
uluslararası kuruluşlarından hangilerine üye olduğu söylenemez?

A) Yalnız I
B) Yalnız II
C) Yalnız III
D) I ve II
E) II ve III

MURAT YAYINLARI

/muratyayincilik

14. 1960 yılında kurulan Kıbrıs Cumhuriyeti'nin ilk Türk lideri aşağıdakilerden hangisidir?

A) Fazıl Küçük
B) Rauf Denktaş
C) Derviş Eroğlu
D) Bülent Ecevit
E) Nihat Erim

15. I. Comecon'un kurulması
II. Eisenhower Doktrini'nin yayınlanması
III. NATO'nun kurulması

Yukarıdakilerden hangileri Soğuk Savaş Dönemi'nde komünizme karşı atılan adımlar arasında yer almıştır?

A) Yalnız I
B) Yalnız II
C) Yalnız III
D) II ve III
E) I, II ve III

16. 1947 yılında kurulan Pakistan'ın ilk devlet başkanı aşağıdakilerden hangisidir?

A) Mahatma Gandi
B) Muhammed Ali Cinnah
C) Muhammed Davut Han
D) Cemal Abdülnasır
E) Enver Sedat

17. Süveyş Kanalı'nın millileştirilmesinin aşağıdakilerden hangisine zemin hazırladığı söylenebilir?

A) Filistin Devleti'nin kurulmasına
B) Keşmir Sorunu'nun çıkmasına
C) Truman Doktrini'nin yayınlanmasına
D) 1956 Arap-İsrail Savaşları'nın çıkmasına
E) SEATO'nun kurulmasına

18. 1955 yılında kurulan Bağdat Paktı'nın üyeleri arasında aşağıdakilerden hangisi yer almaz?

A) İngiltere
B) Türkiye
C) İran
D) Afganistan
E) Irak

19. SSCB tarafından uzaya gönderilen ilk uydu aşağıdakilerden hangisidir?

A) Vostok
B) Sputnik
C) Jüpiter
D) Merkür
E) Apollo

20. Aşağıdakilerden hangisi Dörtlü Takrirciler arasında yer almaz?

A) Celal Bayar
B) Refik Saydam
C) Fuat Köprülü
D) Adnan Menderes
E) Refik Koraltan

MURAT YAYINLARI

Açıklamalar • TEST 57

1. **D** • Kore Savaşı diğer adıyla 38. Enlem Sorunu (1950-1953) sırasında Türkiye, ABD'nin yanında yer alarak Kore'ye asker göndermiş, bu durum ABD'nin Türkiye ile ilişkilerini geliştirerek Türkiye'nin NATO'ya üye olmasını sağlamıştır.
   • Küba Füze Krizi (1962) sırasında ABD ile SSCB arasında var olan antlaşma gereğince ABD'nin Türkiye'deki Jüpiter füzelerini Türkiye'nin onayı olmadan kaldırması, Türkiye-ABD ilişkilerini olumsuz etkilemiştir.
   • Türkiye'nin Kıbrıs Barış Harekatı'na (1974) ABD'nin sert bir şekilde karşı çıkması ve Türkiye'ye ambargo uygulamaya başlaması Türkiye-ABD ilişkilerini bozmuştur.

2. **C** Türkiye Kore Savaşı'na (1950-1953) asker göndermek şartıyla NATO'ya üye olmuştur.

3. **C** 1960 yılında Adana-İncirlik üssünden havalanan ABD'ye ait casus uçağının SSCB tarafından düşürülmesi "U-2 Olayı"dır.

4. **D** 1947 yılında ABD'ye karşı SSCB tarafından kurulan birlik Cominform'dur.

5. **B** Soğuk Savaş Dönemi'nde ABD'nin kurduğu NATO'ya karşı, SSCB tarafından 1955 yılında Varşova Paktı kurulmuştur.
   Yugoslavya, Soğuk Savaş Dönemi'nde SSCB karşıtı politalar izlediği için Varşova Paktı'nın üyeleri arasında yer almaz. Diğer seçeneklerde verilenler Varşova Paktı'nın üyelerindendir.

6. **B** Soğuk Savaş Dönemi'nde Avrupa'da SSCB'nin kontrolüne giren ülkelere "Demir Perde ülkeleri" ismi verilmiştir.

7. **C** 1960 yılında Türkiye,Yunanistan ve İngiltere arasında imzalanan Londra Antlaşması ile Kıbrıs Cumhuriyeti kurulmuştur.

8. **C** 1947 yılında ABD tarafından yayınlanan Truman Doktrini ile Türkiye'ye ve Yunanistan'a mali ve askeri yardım yapılması kararı alınmıştır.

9. **D** Soğuk Savaş Dönemi'nde ABD Spykman İç Hilal Stratejisi ve Çevreleme politikalarını izleyerek SSCB'ye karşı bir güç kurmayı başarmıştır.
   Molotof Planı ise SSCB'ye aittir.

10. **D** Soğuk Savaş Dönemi'nde Türkiye 1955 yılında kurulan Bağdat Paktı'nda ve 1949 yılında kurulan Avrupa Konseyi'nde yer almıştır. Türkiye her iki örgütün de kurucu üyelerindendir.
    Ancak Soğuk Savaş Dönemi'nde SSCB tarafından kurulan Varşova Paktı'nda Türkiye yer almamıştır.

11. **C** 1947 yılında ABD Başkanı tarafından yayınlanan Truman Doktrini, Soğuk Savaş Dönemi'nde ABD'nin Batı liderliğindeki ilk adımı olmuştur.

12. **E** Macar Devrimi; 1956 yılında Macaristan'da ABD tarafından desteklenen bir devrimdir. Macaristan'ın SSCB kontrolünden çıkmasını amaçlayan bu devrim SSCB tarafından bastırılmıştır.
    Soğuk Savaş Dönemi'nde gerek Macar Devrimi gerekse Kore Savaşı ve Berlin Buhranı ABD ile SSCB'nin sorun yaşadığı gelişmelerdendir.

13. **C** İnönü Dönemi'nde (1938-1950) Türkiye, Birleşmiş Milletler'e 1945 yılında ve Avrupa Konseyi'ne 1949 yılında üye olmuştur.
    Ancak Türkiye'nin NATO'ya üyeliği 1952 yılında Adnan Menderes Dönemi'nde olmuştur.

14. **A** Fazıl Küçük, 1960 yılında kurulan Kıbrıs Cumhuriyeti'nin ilk Türk lideridir.

15. **D** Soğuk Savaş Dönemi'nde NATO'nun kurulması ve Eisenhower Doktrini'nin yayınlanması ABD tarafından gerçekleştirilmiştir ve bunlar komünizme karşı (SSCB'ye karşı) atılan adımlardandır.
    Comecon ise komünizmi yaymak isteyen SSCB'nin 1949 yılında oluşturduğu birliktir.

16. **B** 1947 yılında kurulan Pakistan'ın ilk devlet başkanı Muhammed Ali Cinnah'tır.

17. **D** Mısır lideri Cemal Abdülnasır tarafından 1956 yılında Süveyş Kanalı'nın millileştirilmesi bölgede 1956 Arap-İsrail Savaşları'nın çıkmasına zemin hazırlamıştır.

18. **D** 1955 yılında kurulan Bağdat Paktı'nın üyeleri arasında Afganistan yer almaz.

19. **B** 1957 yılında SSCB tarafından uzaya gönderilen ilk uydu Sputnik uydusudur.

20. **B** Demokrat Parti'nin (1946) temelini oluşturan Dörtlü Takrirciler arasında Refik Saydam yer almaz.

MURAT YAYINLARI

/muratyayincilik

Çağdaş Türk ve Dünya Tarihi
Yumuşama Dönemi ve Sonrası • TEST 58

1. FKÖ (Filistin Kurtuluş Örgütü) ile İsrail'in birbirlerini resmen tanımaları aşağıdakilerden hangisi ile gerçekleşmiştir?

A) 1978 Camp David Sözleşmesi ile
B) 1991 Almatı Deklarasyonu ile
C) 2007 Annapolis Konferansı ile
D) 1991 Madrid Konferansı ile
E) 1993 Oslo Görüşmeleri ile

2. Yumuşama Dönemi'nde Avrupa'da güvenlik ve iş birliği ile barışın sağlanması için yapılan çalışma aşağıdakilerden hangisidir?

A) Camp David Antlaşması
B) Helsinki Nihai Senedi
C) SEATO
D) OPEC
E) Bandung Konferansı

3. Aşağıdakilerden hangisi Yumuşama Dönemi'nde kurulan uluslararası birliklerden biri değildir?

A) D-8
B) OPEC
C) İslam Konferansı Örgütü
D) CENTO
E) AGİT

4. I. Küba Füze Krizi
II. SSCB'nin Afganistan'ı işgali
III. Berlin Buhranı

Yukarıdaki olayların kronojik sıralaması aşağıdakilerden hangisinde doğru olarak verilmiştir?

A) I - II - III
B) III - I - II
C) II - III - I
D) II - I - III
E) III - II - I

5. 1969'da kurulan İslam Konferansı Örgütü'nün kuruluş amaçları arasında;

I. İsrail'e karşı ortak politika belirlemek,
II. Filistin sorununa çözüm bulmak,
III. Arap dünyasında mezhep birliğini sağlamak

hedeflerinden hangileri yer almıştır?

A) Yalnız I B) I ve II C) I ve III
D) II ve III E) I, II ve III

6.

	Kavram	Açıklama
I.	ENIAC	Elektronik veri işleme kapasitesine sahip ilk bilgisayar
II.	VOSTOK	İnsanoğlunun uzaya çıkmasını sağlayan ilk uzay aracı
III.	SPUTNİK-I	Dünyanın ilk yapay uydusu

Yukarıdakilerden hangileri Soğuk Savaş Dönemi'nde yaşanan teknolojik gelişmelerdendir?

A) Yalnız I B) Yalnız II C) I ve II
D) I ve III E) I, II ve III

7. Yumuşama Dönemi'nde "Ping-Pong Diplomasisi" **olarak adlandırılan süreç aşağıdaki devletlerden hangilerinin yakınlaşmasında etkili olmuştur?**

A) Küba - ABD
B) Doğu Almanya - Batı Almanya
C) Kuzey Kore - Güney Kore
D) ABD - Çin
E) SSCB - Japonya

MURAT YAYINLARI

8. **Yumuşama Dönemi'nin başlamasına;**

I. Kennedy-Kruşçev Görüşmeleri,

II. Bağlantısızlar Hareketi'nin doğması,

III. Nükleer silahlara duyulan tepkiler

gelişmelerinden hangilerinin zemin hazırladığı söylenebilir?

A) Yalnız I B) Yalnız II C) Yalnız III

D) I ve III E) I, II ve III

9. **1961 yılında Bağlantısızlar Hareketi'nin kurulmasına öncülük eden Avrupa devleti aşağıdakilerden hangisidir?**

A) Macaristan

B) Çekoslovakya

C) Almanya

D) Polonya

E) Yugoslavya

10. **Soğuk Savaş Dönemi'nde Keşmir Meselesi;**

I. Hindistan,

II. İran,

III. Pakistan

devletlerinden hangileri arasında yaşanan sorunlardandır?

A) Yalnız I B) Yalnız II C) Yalnız III

D) I ve III E) I, II ve III

11. **Aşağıdakilerden hangisi ile Bağlantısızlar Bloku kurulmuştur?**

A) Belgrad Deklarasyonu

B) Camp David Antlaşması

C) Dayton Antlaşması

D) Taşkent Deklarasyonu

E) 101. Kilometre Antlaşması

12. **Yumuşama Dönemi'nde ABD'nin Türkiye'ye yerleştirdiği Jüpiter Füzesi'ni sökmesi aşağıdakilerden hangisiyle ilgilidir?**

A) U-2 Olayı

B) Küba Buhranı

C) 17. Enlem Sorunu

D) Kıbrıs Sorunu

E) 38. Enlem Sorunu

13. **Şattülarap Su Yolu Sorunu aşağıdakilerden hangisini ile ilgilidir?**

A) Keşmir Sorunu

B) Arap-İsrail Savaşları

C) Bosna Savaşı

D) Irak-İran Savaşı

E) SALT I

14. **Arap-İsrail Savaşları'nın;**

I. Petrol Krizi'ne,

II. Küba Bunalımı'na,

III. 17. Enlem Sorunu'na

hangilerine zemin hazırladığı söylenebilir?

A) Yalnız I

B) Yalnız II

C) Yalnız III

D) I ve II

E) I ve III

MURAT YAYINLARI

/muratyayincilik

15. Aşağıdakilerden hangisi Yumuşama Dönemi'nin çatışmaları arasında yer almaz?

A) Vietnam Savaşı
B) Keşmir Sorunu
C) Afganistan'ın SSCB tarafından işgali
D) Küba Füze Krizi
E) 11 Eylül Saldırıları

16. 1966 yılında başlayan Kültür Devrimi aşağıdaki devletlerden hangisine aittir?

A) Çin
B) Japonya
C) Romanya
D) Çekoslovakya
E) Yugoslavya

17. 1979 yılında ülkesinde yaşanan devrim nedeniyle CENTO'dan ayrılan devlet aşağıdakilerden hangisidir?

A) İran
B) Suriye
C) Irak
D) Afganistan
E) Pakistan

18. Aşağıdakilerden hangisi 1960 sonrası kurulan partiler arasında yer almıştır?

A) Millet Partisi
B) Serbest Cumhuriyet Partisi
C) Adalet Partisi
D) Milli Kalkınma Partisi
E) Ahali Cumhuriyet Partisi

19. ABD'li boksör Muhammed Ali'nin "Onlarla bir alıp veremediğim yok, hem onlar beni sizler gibi zenci diye hiç aşağılamadılar, bana hiçbir kötülük yapmadılar" sözü aşağıdakilerden hangisi ile ilgilidir?

A) Keşmir Sorunu
B) Vietnam Savaşı
C) Afganistan'ın SSCB tarafından işgali
D) Küba Füze Krizi
E) Küba Buhranı

20. 1972 yılında ABD ile SSCB arasında nükleer silahların azaltılmasına yönelik belge aşağıdakilerden hangisidir?

A) Helsinki Nihai Senedi
B) Camp David Antlaşması
C) SALT I
D) Taşkent Deklarasyonu
E) Bandung Konferansı

MURAT YAYINLARI

Açıklamalar • TEST 58

1. **E** Filistin Kurtuluş Örgütü ile İsrail'in birbirlerini resmen tanımaları 20 Ağustos 1993'te Filistin Kurtuluş Örgütü Başkanı Yaser Arafat ile İsrail Başbakanı İzak Rabin arasında imzalanan "Oslo Antlaşması" ile gerçekleşmiştir.

2. **B** 1973'ten 1975'e kadar çalışmalarını sürdüren Avrupa'da Güvenlik ve İşbirliği Konferansı'nın sonunda yumuşama sürecini genişletmek, dünyada barışı kalıcı ve sürekli kılmak amacıyla Helsinki Nihai Senedi imzalanmıştır.

3. **A** D-8 Yumuşama Dönemi (1960-1991) uluslararası kuruluşları arasında yer almaz. D-8 Türkiye liderliğinde 1996 yılında kurulan birliktir. Diğer seçeneklerdekiler Yumuşama Dönemi'ne ait uluslararası kuruluşlardandır.

4. **B** III. 1948-1949'da Berlin şehrinin paylaşılması konusunda; ABD, İngiltere ve Fransa'nın SSCB ile anlaşamaması sonucunda, Berlin Buhranı çıkmıştır.
I. 1963'te SSCB ile ABD arasında Küba Füze Krizi yaşanmıştır.
II. 1979'da ise SSCB Afganistan'ı işgal etmiştir.

5. **B** 21 Ağustos 1969'da Kudüs'te yer alan Mescid-i Akşa'nın kundaklanması girişimi, aynı yıl Fas'ın başkenti Rabat'ta İslam Zirvesi'nin toplanmasına neden olmuş; alınan karar doğrultusunda merkezi Cidde şehri olan İslam Konferansı Örgütü kurulmuştur. Kurulduğu yıllarda İsrail'e karşı ortak politikalar belirlemek ve Filistin sorununa çözüm bulmak gibi konular ile ilgilenen örgütün üye sayısı günümüzde 57'ye ulaşmış ve İslam İşbirliği Teşkilatı adını almıştır.

6. **E**
- ENİAC, II. Dünya Savaşı sonrasında yapımına başlanan ve 1947'de ABD'de basına tanıtılan ilk bilgisayardır.
- VOSTOK, SSCB tarafından tasarlanan ve 15 Mayıs 1960'da ilk uçuşunu gerçekleştiren insanlı ilk uzay aracıdır.
- SPUTNİK-1, SSCB tarafından 4 Ekim 1957'de yörüngeye oturturan dünyanın ilk yapay uydusudur.

7. **D** Yumuşama Dönemi'nde (1969-1979) ABD ile Çin Halk Cumhuriyeti arasındaki ilk temaslar "Ping-Pong Diplomasisi" adı verilen süreç ile kurulmuştur. Dünya şampiyonası sebebiyle Japonya'da bulunan Amerikan masa tenisi takımı 1971'de Çin'e davet edilmiştir. Yaşanan bu gelişme sonrası ABD Başkanı Richard Nixon Çin'e uygulanan ambargoyu kaldırmış ve 1971'de Pekin'e ziyarette bulunmuştur.

8. **E** ABD Başkanı Kennedy ile SSCB Başkanı Kruşçev arasında gerçekleşen görüşmeler (1960), Bağlantısızlar Hareketi'nin doğması (1961) ve nükleer silahlara karşı oluşan tepkiler Yumuşama Dönemi'nin başlamasına zemin hazırlayan gelişmeler olmuştur.

9. **E** Yugoslavya, 1961 yılında Bağlantısızlar Bloku'nun (Bağlantısızlar Hareketi'nin) kurulmasına öncülük eden Avrupa devletidir.

10. **D** Keşmir Sorunu, Hindistan ile Pakistan arasında yaşanmıştır.
Soğuk Savaş Dönemi'nde (1945-1991) 1948 yılında başlayan Keşmir Sorunu, Soğuk Savaş'ın ikinci dönemi olan Yumuşama Dönemi'nde (1961-1991) de devam etmiştir.

MURAT YAYINLARI

/muratyayincilik

11. **A** Soğuk Savaş Dönemi'nde (1945-1991) düzenlenen Belgrad Deklarasyonu (1961) Bağlantısızlar Bloku'nun (1961) kurulmasına zemin hazırlamıştır.

12. **B** Yumuşama Dönemi'nde ABD'nin SSCB'yi vurmak için İzmir'in Çiğli ilçesine füze (Jüpiter Füzesi) yerleştirmiştir. Bu süreçte SSCB, ABD'yi vurmak için Küba'ya füze yerleştirmiştir.
Dolayısıyla Yumuşama Dönemi'nde ABD'nin Türkiye'ye yerleştirdiği Jüpiter Füzesi'ni sökmesi, 1962 yılında yaşanan Küba Buhranı (Küba Füze Krizi) ile ilgilidir. ABD ve SSCB'nin karşılıklı olarak yerleştirdikleri füzeleri sökmeleri olası bir nükleer savaşı ortadan kaldırmıştır.

13. **D** Irak ile İran arasında yaşanan Şattülarap Su Yolu Sorunu iki ülkenin 1980-1988 yıllarındaki savaşına (Irak-İran Savaşı) neden olmuştur.

14. **A** Arap-İsrail Savaşları (1948-1973), 1974 Petrol Krizi'ne neden olmuştur. Bu savaşlar, Arap ülkelerinin petrolü Batılı devletlere karşı bir koz olarak kullanma isteklerini ortaya çıkaran nedenlerden bir tanesidir.

15. **E** 11 Eylül Saldırıları El-Kaide adında terör örgütünün 11 Eylül 2001'de ABD'ye düzenlediği saldırılardır. Bu olay Yumuşama Dönemi (1960-1991) çatışmalarından biri değildir.

16. **A** Yumuşama Dönemi'nde 1966 yılında başlayan Kültür Devrimi Çin'de görülen devrimdir.

17. **A** 1955 yılında kurulan Bağdat Paktı, Irak'ın birlikten ayrılması sonucunda 1959 yılında CENTO'ya (Merkezi Antlaşma Teşkilatı) dönüşmüştür.
CENTO üyeleri Türkiye, İran, Pakistan ve İngiltere'dir.
İran, CENTO'dan 1979 yılında ülkesinde yaşanan devrim sonucunda ayrılmıştır.

18. **C** Demokrat Parti 1960 Darbesinden sonra kapatılmıştır. Darbeden sonra 1961 yılında Adalet Partisi kurulmuştur.

19. **B** ABD'li boksör Muhammed Ali, Vietnam Savaşı'na katılmayı reddetmiş ve "Onlarla bir alıp veremediğim yok, hem onlar beni sizler gibi zenci diye hiç aşağılamadılar, bana hiçbir kötülük yapmadılar" sözünü söylemiştir.

20. **C** SALT I; 1972 yılında ABD ile SSCB arasında nükleer silahların azaltılmasına yönelik belgedir.

MURAT YAYINLARI

Çağdaş Türk ve Dünya Tarihi
Yumuşama Dönemi ve Sonrası • TEST 59

1. **Yumuşama Dönemi'nde yaşanan Altı Gün Savaşı aşağıdakilerden hangisi ile ilgilidir?**

   A) Keşmir Sorunu
   B) Irak-İran Savaşı
   C) SALT II
   D) Arap-İsrail Savaşları
   E) Vietnam Savaşı

2. **1966 yılında gerçekleştirilen Taşkent Deklarasyonu aşağıdakilerden hangisi ile ilgilidir?**

   A) Keşmir Sorunu
   B) Irak-İran Savaşı
   C) SSCB'nin Afganistan'ı işgali
   D) Arap-İsrail Savaşları
   E) Vietnam Savaşı

3. **1975 yılında kurulan Ermeni terör örgütü aşağıdakilerden hangisidir?**

   A) EOKA
   B) ETA
   C) ASALA
   D) DRA
   E) R-IRA

4. **27 Mayıs Darbesi'nden sonra Celal Bayar'ın yerine Cumhurbaşkanlığına aşağıdakilerden hangisi seçilmiştir?**

   A) Turgut Özal
   B) Fahri Korutürk
   C) Cevdet Sunay
   D) Kenan Evren
   E) Cemal Gürsel

5. **1974 yılında Atilla Harekatı aşağıdakilerden hangisinde gerçekleştirilmiştir?**

   A) Irak
   B) Vietnam
   C) Bosna
   D) Kıbrıs
   E) Afganistan

6. **27 Mayıs Askeri Darbesi sonucunda kapatılan parti aşağıdakilerden hangisidir?**

   A) Adalet Partisi
   B) Demokrat Parti
   C) Ahali Cumhuriyet Partisi
   D) Milli Kalkınma Partisi
   E) Millet Partisi

7. **Kuzey Kıbrıs Türk Cumhuriyeti'nin kuruluş yılı aşağıdakilerden hangisidir?**

   A) 1975 B) 1976 C) 1983
   D) 1989 E) 1990

8. **Yumuşama Dönemi'nde Suriye ve Irak'ta görülen "yeniden diriliş" anlamına gelen siyasi hareket aşağıdakilerden hangisidir?**

   A) Baas
   B) El-Kaide
   C) FKÖ
   D) Hamas
   E) Taliban

MURAT YAYINLARI

/muratyayincilik

9. **Yumuşama Dönemi'nde yaşanan "Tonkin Körfezi Sorunu" aşağıdakilerden hangisi ile ilgilidir?**

A) Kore Savaşı
B) Keşmir Sorunu
C) Arap-İsrail Savaşları
D) Irak-İran Savaşı
E) Vietnam Savaşı

10. **Yumuşama Dönemi'nde SSCB'ye karşı İnsancıl Komünizm hareketini başlatan ülke aşağıdakilerden hangisidir?**

A) Polonya
B) Federal Almanya
C) Yugoslavya
D) Demokratik Almanya
E) Çekoslovakya

11. **Kıbrıs Barış Harekatı nedeniyle Türkiye'ye ambargo uygulayan devlet aşağıdakilerden hangisidir?**

A) SSCB
B) Cezayir
C) ABD
D) Mısır
E) Libya

MURAT YAYINLARI

12. **1969 yılında kurulan İslam Konferansı Örgütü'nün merkezi aşağıdakilerden hangisidir?**

A) Cidde
B) Şam
C) Riyad
D) Kahire
E) Beyrut

13. **Aşağıdakilerden hangisi Türkiye'de 1960-1980 arasında açılan kurumlardan biri değildir?**

A) TÜBİTAK
B) Yükseköğrenim Kurumu
C) ÖSYM
D) TRT
E) Anayasa Mahkemesi

14. **Kimya alanında yaptığı çalışmalarla 1966 yılında TÜBİTAK Bilim Ödülü'nü alan ilk bilim insanı aşağıdakilerden hangisidir?**

A) Aziz Sancar
B) Gazi Yaşargil
C) Mehmet Haberal
D) Erdal İnönü
E) Oktay Sinanoğlu

15. **12 Mart 1971 Askeri Muhtırası aşağıdaki partilerden hangisine karşı yapılmıştır?**

A) Millet Partisi
B) Milli Kalkınma Partisi
C) Adalet Partisi
D) Demokrat Parti
E) Milli Selamet Partisi

16. **1961 yılında Cemal Gürsel'in emriyle Eskişehir Devlet Demir Yolları Fabrikaları'nda üretilen Türkiye'nin ilk yerli otomobili aşağıdakilerden hangisidir?**

A) Oyalı
B) Devrim
C) Anadolu
D) Atilla
E) Atak

17. **Kıbrıs Barış Harekatı aşağıdaki hangi başbakan döneminde gerçekleştirilmiştir?**

A) Süleyman Demirel
B) Nihat Erim
C) Bülent Ecevit
D) Necmettin Erbakan
E) Turgut Özal

18. **1979 yılında Ayetullah Humeyni liderliğinde devrim yaşayan ülke aşağıdakilerden hangisidir?**

A) Suriye
B) İran
C) Irak
D) Mısır
E) Libya

19. **Yumuşama Dönemi'nde SSCB'nin Afganistan'ı işgalinin;**

I. El-Kaide terör örgütünün kurulmasına,
II. ABD'nin SALT II sözleşmesini geçersiz saymasına,
III. Moskova Olimpiyatları'nın boykot edilmesine

gelişmelerinden hangilerine zemin hazırladığı söylenebilir?

A) Yalnız I
B) Yalnız II
C) Yalnız III
D) I ve III
E) I, II ve III

20. I. OAPEC'in kurulması
II. ABD'nin Afganistan'ı işgali
III. Kıbrıs Türk Federe Devleti'nin kurulması

Yukarıdakilerden hangileri Yumuşama Dönemi gelişmelerindendir?

A) Yalnız I
B) Yalnız II
C) Yalnız III
D) I ve II
E) I ve III

MURAT YAYINLARI

/muratyayincilik

Açıklamalar • TEST 59

1. **D** Altı Gün Savaşı, 1967 yılında yaşanan Arap-İsrail Savaşları'nın bir parçasıdır.

2. **A** Taşkent Deklarasyonu (1966), SCCB'nin arabuluculuğuyla Hindistan ile Pakistan arasında yaşanan Keşmir Sorunu'nu çözmeye yönelik belgedir.

3. **C** ASALA, 1975 yılında kurulan Ermeni terör örgütüdür.

4. **E** 27 Mayıs Darbesi'nden sonra Celal Bayar'ın yerine cumhurbaşkanlığı Cemal Gürsel seçilmiştir.

5. **D** 1974 yılında Türkiye'nin düzenlediği Kıbrıs Barış Harekatı'na "Atilla Harekatı" adı da verilmiştir.

6. **B** Demokrat Parti, 27 Mayıs 1960 Askeri Darbesi ile kapatılmıştır.

7. **C** Kuzey Kıbrıs Türk Cumhuriyeti, 15 Kasım 1983 tarihinde kurulmuştur.

8. **A** Yumuşama Dönemi'nde Suriye ve Irak'ta görülen "yeniden diriliş" anlamına gelen siyasi hareket "Baas hareketi"dir.
Baas hareketi; birleşik, özgür, laik ve sosyalist Arap toplumu oluşturma amacı taşımıştır.

9. **E** Tonkin Körfezi Vietnam'da yer alan körfezdir. Yumuşama Dönemi'nde Kuzey Vietnam ile Güney Vietnam arasında yaşanan savaşın başladığı körfezdir.

10. **E** Yumuşama Dönemi'nde Aleksander Dubcek liderliğinde SSCB'ye karşı İnsancıl Komünizm hareketini başlatılan ülke Çekoslovakya'dır.

11. **C** 1974 Kıbrıs Barış Harekatı nedeniyle Türkiye'ye ambargo uygulayan devlet ABD olmuştur.

12. **A** 1969 yılında kurulan İslam Konferansı Örgütü'nün merkezi Suudi Arabistan'ın Cidde şehridir.

13. **B** Yükseköğrenim Kurumu (YÖK) 1981 yılında kurulmuştur.

14. **E** Kimya alanında yaptığı çalışmalarla 1966 yılında TÜBİTAK Bilim Ödülü'nü alan ilk bilim insanı Oktay Sinanoğlu'dur.

15. **C** 12 Mart 1971 Askeri Muhtırası dönemin iktidar partisi olan Adalet Partisi'ne karşı yapılmıştır.

16. **B** Devrim, 1961 yılında Cemal Gürsel'in emriyle Eskişehir Devlet Demir Yolları Fabrikaları'nda üretilen Türkiye'nin ilk yerli otomobilidir.

17. **C** Kıbrıs Barış Harekatı (1974) başbakan Bülent Ecevit döneminde gerçekleştirilmiştir.

18. **B** 1979 yılında Ayetullah Humeyni liderliğinde devrim yaşayan ülke İran olmuştur.

19. **E** SSCB, Afganistan'ı 1979-1989 yılları arasında işgal etmiştir.
Bu işgal nedeniyle SSCB'ye tepki olarak;
- ABD, SSCB ile imzaladığı SALT II sözleşmesini geçersiz saymıştır.
- 1980 yılında düzenlenen Moskova Olimpiyatları boykot edilmiştir.
- El-Kaide terör örgütü kurulmuştur.

20. **E** OAPEC, 1968 yılında (Petrol İhraç Eden Arap Ülkeleri Örgütü) kurulmuştur. Kıbrıs Türk Federe Devleti, 1975 yılında kurulmuştur. Bu iki gelişme Yumuşama Dönemi'ne (1960-1991) aittir.
Ancak ABD'nin Afganistan'ı işgali 2001 yılında olduğu için Yumuşama Dönemi sonrasındaki gelişmedir.

MURAT YAYINLARI

Çağdaş Türk ve Dünya Tarihi
Küreselleşen Dünya • TEST 60

1. **1989'da Kadife Devrim'in gerçekleştiği ülke aşağıdakilerden hangisidir?**

A) Ukrayna
B) Macaristan
C) Yugoslavya
D) Çekoslovakya
E) Arnavutluk

2. **İki kutuplu dünya sürecinin sona ermesine aşağıdaki gelişmelerden hangisi neden olmuştur?**

A) Sovyetler Birliği'nin dağılması
B) II. Dünya Savaşı'nın sona ermesi
C) Berlin Duvarı'nın inşası
D) SSCB'de komünist rejimin iktidara gelmesi
E) Yumuşama Dönemi'nin ortaya çıkması

3. **Aşağıdaki devletlerden hangisi Yugoslavya'nın dağılması sonrasında bu topraklardan ayrılan devletlerden biri değildir?**

A) Hırvatistan
B) Karadağ
C) Slovakya
D) Makedonya
E) Bosna Hersek

4. **Aşağıdakilerden hangisi 1980 sonrası Türkiye'de ortaya çıkan gelişmelerden değildir?**

A) "Oyalı" adı verilen ilk koyunun kopyalanması
B) İlk internet bağlantısının ODTÜ'de kurulması
C) Naim Süleymanoğlu'nun Seul Olimpiyatları'nda altın madalya kazanması
D) Türk parasından altı sıfır atılması
E) Devlet Planlama Teşkilatı'nın kurulması

5. I. 1973'te Katma Protokol'ün imzalanması
II. 1980 Askeri Darbesi'nin yaşanması
III. 1995'te Gümrük Birliği Antlaşması'nın imzalanması

Yukarıdakilerden hangileri Avrupa Birliği'nin Türkiye ile ilişkilerini olumsuz etkileyen gelişmeler arasında yer alır?

A) Yalnız I
B) Yalnız II
C) Yalnız III
D) I ve II
E) I, II ve III

6. **Aşağıdakilerden hangisi Doğu Bloku'nun dağılmasından sonra ortaya çıkan gelişmelerden biri değildir?**

A) Prag Baharı'nın yaşanması
B) Rusya Federasyonu'nun kurulması
C) Bağımsız Devletler Topluluğu'nun kurulması
D) Yugoslavya'nın dağılması
E) Rusya'nın Çeçenistan'ı işgali

7. **1992'de Türkiye öncülüğünde aynı havzada bulunan devletlerin barış, istikrar ve refah içerisinde yaşamasını sağlamak amacıyla kurulan teşkilat aşağıdakilerden hangisidir?**

A) TİKA
B) TÜBA
C) KEİ
D) CENTO
E) TÜRKSOY

MURAT YAYINLARI

/muratyayincilik

8. **SSCB'nin dağılması sonrasında bağımsızlığını kazanan Özbekistan'ın ilk cumhurbaşkanı aşağıdakilerden hangisidir?**

A) Haydar Aliyev
B) Enver Hoca
C) İslam Kerimov
D) Cengiz Aytmatov
E) Ebülfez Elçibey

9. **Irak Devlet Başkanı Saddam Hüseyin aşağıdaki devletlerden hangisi ile yaptığı savaşın kayıplarını gidermek amacıyla Kuveyt'i işgal etmiştir?**

A) İran
B) Ürdün
C) Suriye
D) Rusya
E) Mısır

10. **Orta Doğu'da su sorunu ve GAP ile ilgili Türkiye'nin genellikle problem yaşadığı devlet aşağıdakilerden hangisidir?**

A) Mısır
B) İsrail
C) İran
D) Lübnan
E) Suriye

11. I. Irak
II. Afganistan
III. İran

11 Eylül 2001'de gerçekleşen saldırı sonucunda ABD uluslararası teröre destek verdiğini ileri sürerek yukarıdaki ülkelerden hangilerine askeri müdahalede bulunmuştur?

A) Yalnız I
B) Yalnız II
C) Yalnız III
D) I ve II
E) I, II ve III

12. **Azerbaycan doğalgazını Türkiye üzerinden Avrupa'ya taşıması hedeflenen ve 2018'de tamamlanan proje aşağıdakilerden hangisidir?**

A) Mavi Akım
B) Trans Hazar
C) Şah Deniz
D) Bakü-Tiflis-Ceyhan Boru Hattı
E) TANAP

13. **1961 ve 1982 anayasalarının ortak özellikleri arasında;**

I. askeri darbe sonrası yürürlüğe girmesi,
II. referanduma sunulması,
III. kurucu meclis tarafından hazırlanması

hangilerinin yer aldığı savunulabilir?

A) Yalnız I
B) Yalnız II
C) I ve II
D) I ve III
E) I, II ve III

14. **1996 yılında Figen Akat adlı Türk gemisinin Ege Denizi'nde kayalıklara oturması sonucunda ortaya çıkan sorun aşağıdakilerden hangisidir?**

A) Mavi Marmara Olayı
B) Kardak Krizi
C) Bozkurt-Lotus Olayı
D) Kıbrıs Barış Harekatı
E) Limni Krizi

MURAT YAYINLARI

15. **İnsan hakları izleme örgütünün kapsamlı bir sivil katliam olarak nitelendirdiği** "Hocalı Katliamı" **aşağıdaki yerlerden hangisinde yaşanmıştır?**

A) Serebrenika
B) Dağlık Karabağ
C) Gazze
D) Bosna
E) Kosova

16. **Avrupa Birliği'ne adaylık başvurusunda bulunan ülkelerin tam üyeliğe kabul edilmeden önce karşılaması gereken ön koşullar aşağıdaki zirvelerden hangisinde belirlenmiştir?**

A) Brüksel
B) Helsinki
C) Roma
D) Kopenhag
E) Madrid

17. **1996'da Çin, Rusya, Kazakistan, Kırgızistan ve Tacikistan'ın bir araya gelerek oluşturdukları Şanghay Beşlisi'ne 2001'de katılan devlet aşağıdakilerden hangisidir?**

A) Özbekistan
B) Gürcistan
C) Ukrayna
D) Azerbaycan
E) Türkmenistan

18. **Aşağıdakilerden hangisi Türkiye-AB ilişkileri sürecinde yaşanan gelişmelerden değildir?**

A) Türkiye, Avrupa Topluluğu'na tam üyelik başvurusunu ilk kez 1987'de yapmıştır.
B) 2004 Brüksel Zirvesi'nde Türkiye'nin birliğe 2023'ten önce üye olamayacağı açıklanmıştır.
C) 1999'daki Helsinki Zirvesi'nde Türkiye aday ülke olarak açıklanmıştır.
D) 1995'da Türkiye Gümrük Birliği Antlaşması'nı imzalamıştır.
E) 2002'de Kopenhag Kriterleri'ne göre Türkiye'nin olumlu ilerleme raporu açıklamıştır.

19. **Aşağıdakilerden hangisi Türkiye'nin BM barış gücü içerisinde görev üstlendiği ülkeler arasında yer almaz?**

A) Bosna-Hersek
B) Suriye
C) Lübnan
D) Küba
E) Afganistan

20. **Birleşmiş Milletler Eski Genel Sekreteri Kofi Annan tarafından hazırlanan** "Annan Planı" **aşağıdaki sorunlardan hangisinin çözümüne yöneliktir?**

A) Orta Doğu'da su sorunu
B) Dağlık Karabağ meselesi
C) Keşmir sorunu
D) Filistin Mülteciler sorunu
E) Kıbrıs sorunu

MURAT YAYINLARI

/muratyayincilik

Açıklamalar • TEST 60

1. **D** Kadife Devrim, 1989'da Çekoslovakya'daki komünist rejimin, kansız ve olaysız bir şekilde demokratik bir cumhuriyete dönüşmesi olayıdır.

2. **A** 1945 ile 1991 yıllarını kapsayan ve SSCB ile ABD arasında yaşanan Soğuk Savaş Dönemi dünyayı iki kutuplu sürece sokmuştur. Bu süreç 1991'de SSCB'nin dağılması ile sona ermiştir.

3. **C** Yugoslavya'nın dağılması üzerine 1991'de Slovenya, Hırvatistan, Makedonya, 1992'de Bosna-Hersek, 1993'te Sırbistan-Karadağ, 2006'da Karadağ ve 2008'de ise Kosova bağımsızlıklarını ilan etmişlerdir.
Slovakya ise Kadife Devrim sonrası Çekoslovakya'nın parçalanmasıyla kurulan bir devlettir.

4. **E** Naim Süleymanoğlu 1988 Seul Olimpiyatlarında Türkiye'ye halterde altın madalya kazandırmış, 1993'te ilk internet bağlantısı ODTÜ'de kurulmuş, 2005'te Türk parasından altı sıfır silinmiş ve 2007'de "Oyalı" adı verilen ilk koyun kopyalanmıştır. Devlet Planlama Teşkilatı ise 30 Eylül 1960'ta kurulmuştur.

5. **B** Türkiye-AB ilişkileri 12 Eylül 1980 Askeri Darbesi'nin ardından askıya alınmıştır. Bu durum 1983'te Türkiye'de sivil idarenin yeniden başa gelmesiyle birlikte dondurulmuş ilişkileri yeniden canlandırmıştır.

6. **A** Doğu Bloku 1991'da SSCB'nin parçalanmasıyla birlikte dağılmış ve dünya tek kutuplu yeni bir düzene geçmiştir. Rusya Federasyonu Doğu blokunun dağılmasıyla birlikte kurulan devlettir. 1991'de Almaatı Zirvesinde SSCB'den ayrılarak bağımsız olan devletler aynı dönemde kendi aralarında Bağımsız Devletler Topluluğu'nu oluşturmuştur, Rusya, Çeçenistan'a 1994'te saldırmıştır. Prag Baharı ise 1968'de SSCB'nin dağılması öncesi Çekoslovakya'da ortaya çıkmıştır.

7. **C** 25 Haziran 1992'de İstanbul'da imzalanan bir antlaşma ile kurulan Karadeniz Ekonomik İş birliği Örgütü, Karadeniz havzasındaki ülkelerin ekonomik iş birliğini ve bu havzadaki devletlerin barış, istikrar, refah içerisinde yaşamasını sağlamayı amaçlayan uluslararası kuruluştur.
Türk İşbirliği ve Koordinasyon Ajansı (TİKA) 1992'de Dışişleri Bakanlığı'na bağlı olarak kurulan ve dış yorumları organize eden tek teknik yardım kuruluşudur.
TÜBA (Türkiye Bilimler Akademisi) 1993'te kurulan Türkiye'nin yüksek bilim kuruluşlarından biridir.
Türk Kültür ve Sanatları Ortak Yönetimi (TÜRKSOY) 1993'ten itibaren Türk dili konuşan ülkelerin kültür ve sanatlarında iş birliğini sağlamak amacıyla faaliyet göstermektedir.
CENTO (Merkezi Antlaşma Örgütü), 1959 yılında Türkiye, İngiltere, İran ve Pakistan arasında kurulan birliktir.

8. **C** SSCB'nin dağılması sonrasında 1991'de bağımsızlığını kazanan Özbekistan Cumhuriyeti'nin ilk cumhurbaşkanı İslam Kerimov'dur.

9. **A** 1980-1988 yılları arasında gerçekleşen İran-Irak Savaşı sırasında aşırı borçlanan Irak, savaşın sonunda borçlarını ve ekonomik kayıplarını gidermek amacıyla 1990'da Kuveyt'e saldırmıştır. Böylece 1990-1991 arasında Körfez Krizi yaşanmıştır.

MURAT YAYINLARI

10. **E** Su sorunu, iki veya daha fazla ülkenin topraklarından geçen akarsular üzerinde yaşanır. Orta Doğu su sorununda ise Dicle ve Fırat nehirleri Türkiye sınırlarından da geçtiği, ayrıca Güney Doğu Anadolu Projesi (GAP) bu nehirlerin havzasında gerçekleştirildiği için Türkiye, Suriye ve Irak ile dönem dönem problemler yaşamaktadır.

11. **D** 11 Eylül 2001'de ABD'ye yapılan uluslararası terör saldırısından Usame bin Ladin önderliğindeki El-Kaide Örgütü sorumlu tutulduğu için ABD, bu örgütün faaliyet gösterdiği Afganistan ve ardından Irak'a askeri müdahalede bulunmuştur.

12. **E** Azerbaycan doğalgazının Türkiye üzerinden Avrupa'ya pazarlanması projesi olan Trans Anadolu Doğalgaz Boru Hattı Projesi olan TANAP 2018'de tamamlanmıştır.

13. **E** 1961 Anayasası 27 Mayıs 1960, 1982 Anayasası ise 12 Eylül 1980 askeri darbeleri sonucunda referanduma sunularak kurucu meclis tarafından hazırlanıp yürürlüğe konmuşlardır.

14. **B** Kardak Kayalıkları Krizi 25 Aralık 1995'te Figen Akat isimli Türk gemisinin Kardak Kayalıkları'nda karaya oturması ile Türk ve Yunan kurtarma ekipleri arasında anlaşmazlık çıkması üzerine patlayan krizdir.

15. **B** "Hocalı Katliamı" 25-26 Şubat 1992'de Ermenilerin Dağlık Karabağ bölgesinde gerçekleştirdikleri sivil katliamıdır.

16. **D** 22 Haziran 1993'te yapılan Kopenhag Zirvesi'nde Avrupa Birliği'ne adaylık için başvuruda bulunan ülkelerin tam üyeliğe kabul edilmeden önce karşılaması gereken kriterler belirtilmiştir.

17. **A** 26 Nisan 1996'da Çin'in Şanghay bölgesinde toplanan Çin, Rusya, Kazakistan, Kırgızistan ve Tacikistan'ın "Sınır Bölgelerinde Askeri Güvenin Derinleştirilmesi Antlaşması"nı imzalamalarıyla Şanghay Beşlisi kurulmuştur. Bu oluşuma 2001'de Özbekistan'ın da katılımıyla Şanghay İşbirliği Örgütü adını almıştır.

18. **B** 2004'te yapılan Brüksel Zirvesi'nde Türkiye'nin 2005'ten itibaren adaylık statüsüne alınacağı ancak 2014'ten önce birliğe üye olamayacağı açıklanmıştır. Ancak üyelik süreci günümüzde hale devam etmektedir.

19. **D** Türkiye, dünya barışının korunmasına yönelik olarak BM Barış Gücü içerisinde 1993'te Bosna Hersek ve Somali'de, 2006'da Lübnan'da ve 2002'de ise Afganistan'da görev üstlenmiştir. Ayrıca Afganistan'daki görevi hala devam etmektedir.

20. **E** Birleşmiş Milletler Teşkilatı'nda 1996-2006 yılları arasında Genel Sekreterlik görevi üstlenen Kofi Annan, Kıbrıs Adası'nın bağımsız bir devlet olarak birleştirilmesini öneren planı hazırlamıştır. 24 Nisan 2004'te Kıbrıs'ta referanduma sunulan "Annan Planı" Türklerin %69 oranındaki evet oyuna karşılık Rumların %75 hayır oyu kullanması nedeniyle hayata geçirilememiştir.

MURAT YAYINLARI

/muratyayincilik

Çağdaş Türk ve Dünya Tarihi
Küreselleşen Dünya • TEST 61

1. I. Ermenistan
II. İsrail
III. SSCB

Yukarıdaki devletlerden hangilerinin Dağlık Karabağ sorununun ortaya çıkmasında etkili olduğu söylenebilir?

A) Yalnız I B) Yalnız II C) Yalnız III
D) I ve II E) I ve III

2. **Filistin Devleti'nin kurucu lideri aşağıdakilerden hangisidir?**

A) Yaser Arafat
B) Saddam Hüseyin
C) Mahmut Abbas
D) Muammer Kaddafi
E) Ebulfez Elçibey

3. **SSCB'nin dağılmasını önlemek amasıyla devlet başkanı Mihail Gorbaçov'un 1980'lerden itibaren ekonomiyi düzeltme, kamuda verimliliği artırma ve toplumsal ilerlemeyi sağlamak amacıyla uyguladığı yeniden yapılandırma politikası aşağıdakilerden hangisidir?**

A) Oligarşi
B) İntifada
C) Perestroyka
D) Yatıştırma
E) İnfirat

4. **2004-2005 yıllarında yaşanan Turuncu Devrimi aşağıdaki ülkelerden hangisine aittir?**

A) Ukrayna
B) Gürcistan
C) Ermenistan
D) Moldova
E) Hollanda

5. I. Hindistan
II. Pakistan
III. Afganistan

Yukarıdakilerden hangileri Şanghay İşbirliği Örgütü'nün 2017 yılında aldığı genişleme kararı gereği birliğe üye olan devletlerdendir?

A) Yalnız I
B) Yalnız II
C) Yalnız III
D) I ve II
E) I, II ve III

MURAT YAYINLARI

6. **Aşağıdakilerden hangisi SSCB'nin dağılmasından sonra kurulan Bağımsız Devletler Topluluğu'nun (BTT) günümüzdeki üyelerinden biri değildir?**

A) Azerbaycan
B) Gürcistan
C) Ermenistan
D) Moldova
E) Belarus

7. **1991 yılında bağımsızlığını kazanan Kazakistan'nın kurucu lideri aşağıdakilerden hangisidir?**

A) Haydar Aliyev
B) Askar Akayev
C) Nursultan Nazarbayev
D) İslam Kerimov
E) İmamali Rahman

8. **Aşağıdakilerden hangisi 1993 yılında TÜRKSOY adıyla kurulan ve 2009 yılında Uluslararası Türk Kültürü Teşkilatı adına alan birliğin üye devletleri arasında yer almaz?**

A) Türkiye
B) Kazakistan
C) Türkmenistan
D) Tacikistan
E) Azerbaycan

9. **2007 yılında kurulan Türkiye'nin tanıtımı için kültür ve sanat faaliyetleri yapan yurt dışında kurduğu merkezler aracığıyla yabancılara Türkçe öğretimi çalışmaları yapan kurum aşağıdakilerden hangisidir?**

A) Yunus Emre Enstitüsü
B) Türk İşbirliği ve Koordinasyonu Ajansı Başkanlığı
C) Türk Konseyi
D) Türk Dünyası Araştırma Vaktı
E) Türk Keneşi

10. **1992-1995 tarihleri arasındaki Bosna Savaşı'nı bitiren uluslararası belge aşağıdakilerden hangisidir?**

A) Camp David Antlaşması
B) 101. Kilometre Antlaşması
C) Annapolis Toplantıları
D) Dayton Antlaşması
E) Cenevre Konferansı

11. **2020 yılında NATO'ya katılan ülke aşağıdakilerden hangisidir?**

A) Ukrayna
B) Kuzey Makedonya
C) Polonya
D) Azerbaycan
E) Karadağ

12. **Çöl Fırtınası Harekatı aşağıdakilerden hangisi ile ilgilidir?**

A) I. Körfez Savaşı
B) Dağlık Karabağ Sorunu
C) Rusya'nın Kırım'ı işgali
D) II. Körfez Savaşı
E) Kudüs Sorunu

13. **Arap Baharı etkisiyle 2011 yılında iktidarı son bulan Libya lideri aşağıdakilerden hangisidir?**

A) Zeynel Abidin Bin Ali
B) Muhammed Mursi
C) Muammer Kaddafi
D) Yaser Arafat
E) Abdülfettah es-Sisi

14. **Günümüzde Türkiye'de kullanılan "F Klavye"nin mucidi Türk bilim insanı aşağıdakilerden hangisidir?**

A) Fuat Sezgin
B) Burcu Özsoy
C) İhsan Sıtkı Yener
D) Gazi Yaşargil
E) Tülay Lale

MURAT YAYINLARI

/muratyayincilik

15. **1986 yılında SSCB'de yaşanan nükleer kaza aşağıdakilerden hangisidir?**

A) Fukişima
B) Horizon
C) Hiroşima
D) Çernobil
E) Wuhan

16. **Dünyadaki küresel ısınma ve iklim değişikliği ile mücadele için yürürlüğe giren belge aşağıdakilerden hangisidir?**

A) Minsk Protokolü
B) Reagan Planı
C) Camp David Antlaşması
D) Zürih Antlaşması
E) Kyoto Protokolü

17. **Avrupa Birliği'nden "Brexit" süreciyle 2020 yılında resmen ayrılan devlet aşağıdakilerden hangisidir?**

A) Hırvatistan
B) İngiltere
C) Hollanda
D) İtalya
E) Fransa

18. **12 Eylül Darbesi'nden sonra Turgut Özal tarafından kurulan parti aşağıdakilerden hangisidir?**

A) Anavatan Partisi
B) Refah Partisi
C) Adalet Partisi
D) Demokrat Parti
E) Millet Partisi

19. I. Kanuni
II. Yavuz
III. Fatih

Yukarıda verilenlerden hangileri Türkiye'nin "Mavi Vatan"daki sondaj gemileri arasında yer alır?

A) Yalnız I
B) Yalnız II
C) Yalnız III
D) I ve II
E) I, II ve III

20. **8 Şubat 2020 tarihinde Ermenistan'ın işgalinden kurtarılan ve 2022 yılında Türk Dünyası kültür başkenti olması önerilen şehir aşağıdakilerden hangisidir?**

A) Kaşgar
B) Semerkant
C) Bakü
D) Gence
E) Şuşa

MURAT YAYINLARI

Açıklamalar • TEST 61

1. E Dağlık Karabağ sorunu Ermenistan'la Azerbaycan arasında günümüzde de varlığını koruyan bir sorundur. XX. yüzyıl boyunca SSCB bölgedeki Türk nüfusunu azaltmış ve SSCB'nin dağılmasıyla birlikte Ermenistan bölgeyi işgal etmiştir.

2. A 1988 yılında kurulan Filistin Devleti'nin kurucu lideri ve ilk devlet başkanı Yaser Arafat'tır.

3. C Perestroyka, yeniden yapılanma demektir. 1980'lerden itibaren SSCB'nin son lideri Mihail Gorbaçov'un ekonomiyi düzeltme, kamuda verimliliği artırma ve toplumsal ilerlemeyi sağlamak amacıyla uyguladığı politikasıdır.
Bu politika ile sosyalizmin artık işlevsel hale gelmesinden dolayı ekonominin biraz daha serbestleştirilmesi sağlamıştır. Ancak SSCB'nin parçalanmasını önlemek amacıyla uygulanan prestroyka politikası devletin yıkılma sürecini hızlandırmıştır.
Glasnost; SSCB lideri Mihail Gorbaçov'un izlediği bir diğer politikadır. Sansürün önlenip siyasal ve kültürel sorunlar üzerine serbestçe tartışılmasını öngören bir tür fikir özgürlüğü politikasıdır.

4. A Turuncu Devrimi, 2004-2005 yıllarında Ukrayna'da yaşanmıştır.

5. D 1996 yılında Şanghay Beşlisi adıyla kurulan birlik, 2001 yılında Özbekistan'ın üye olmasıyla Şanghay İşbirliği Örgütü adını almıştır. Birliğin merkezi Pekin'dir.
Şanghay İşbirliği Örgütü'nün 2017 yılında aldığı genişleme kararı gereği Hindistan ve Pakistan birliğe üye olmuşlardır.

6. B Gürcistan,1991 yılında SSCB'nin dağılmasından sonra kurulan Bağımsız Devletler Topluluğu'na 1993 yılında üye olmuştur. Ancak Rusya Federasyonu'yla yaşadığı sorunlar (Güney Osedya Savaşı gibi) nedeniyle birlikten Gürcistan 2008 yılında ayrılmıştır.

7. C Nursultan Nazarbayev 1991 yılında bağımsızlığını kazanan Kazakistan'nın kurucu lideridir. Kazakistan'ın günümüzdeki lideri ise Kasım Cömert Tokayev'dir.

8. D 1993 yılında TÜRKSOY adıyla kurulan ve 2009 yılında Uluslararası Türk Kültürü Teşkilatı'nın günümüzde üye devletleri; Türkiye,Azerbaycan, Kırgızistan, Kazakistan, Türkmenistan ve Özbekistan'dır. Tacikistan bu birliğin üyeleri arasında yer almaz.

9. A 2007 yılında kurulan Türkiye'nin tanıtımı için kültür ve sanat faaliyetleri yapan yurt dışında kurduğu merkezler aracığıyla yabancılara Türkçe öğretimi çalışmaları yapan kurum Yunus Emre Enstitüsü'dür.

10. D 14 Aralık 1995 tarihinde imzalanan Dayton Antlaşması ile, 1992-1995 tarihleri arasında yaşanan Bosna Savaşı son bulmuştur.

11. B 2020 yılında NATO'ya katılan ülke Kuzey Makedonya'dır. Kuzey Makedonya NATO'nun 30. üyesidir.

12. A Irak lideri Saddam Hüseyin'in 1990 yılında Kuveyt'i işgali sonucunda I. Körfez Savaşı (1990-1991) başlamıştır.
BM'ye bağlı Koalisyon Gücü'nün 17 Ocak 1991'de Irak'a saldırmasıyla I. Körfez Savaşı son bulmuştur. Koalisyon gücünün Irak'a düzenlediği bu operasyona "Çöl Fırtınası Herakatı" adı verilmiştir.

13. C Muammer Kaddafi, Arap Baharı etkisiyle 2011 yılında iktidarı son bulan Libya lideridir.

14. C 1974 yılındaki çalışmalarıyla "F Klavye"yi bulan mucit, İhsan Sıtkı Yener'dir.

15. D 1986 yılında SSCB'de yaşanan nükleer kaza "Çernobil Faciası"dır.

16. E Dünyadaki küresel ısınma ve iklim değişikliği ile mücadele için 2005 yılında yürürlüğe giren belge, Kyoto Protokolü'dür. Türkiye bu protokole 2009 yılında taraf olmuştur.

17. B Avrupa Birliği'nden "Brexit" süreciyle 2020 yılında resmen ayrılan devlet İngiltere'dir.

18. A 12 Eylül Darbesi'nden sonra 1983 yılında Turgut Özal tarafından kurulan parti Anavatan Partisi'dir.

19. E Kanuni, Yavuz ve Fatih gemileri Türkiye'nin "Mavi Vatan"daki sondaj gemilerdendir.
Mavi Vatan; Türkiye'nin Akdeniz, Ege ve Karadeniz'de ilan ettiği deniz yetki alanlarıdır.

20. E Şuşa şehri Azerbaycan'ın Dağlık Karabağ bölgesinde yer alan bir şehirdir.
8 Şubat 2020 tarihinde Ermenistan'ın işgalinden kurtarılan Şuşa şehri, Azerbaycan tarafından 2022 yılında Türk Dünyası başkenti olması önerilen şehirdir.

MURAT YAYINLARI

/muratyayincilik

5 DERS
TEK KİTAP
Genel Yetenek - Genel Kültür

SORU BANKASI

Türkiye Coğrafyası

MURAT yayınları 1983
MURAT YAYINLARI

Türkiye'nin Coğrafi Konumu - I
• TEST 1

1. **Aşağıdakilerden hangisi Türkiye'nin özel konumu sonuçları arasında yer almaz?**

A) Kıyı kesimlerde yıllık sıcaklık farkının az olması
B) Akarsuların akış hızlarının fazla olması
C) Ortalama yükseltisinin fazla olması
D) Maki bitki formasyonuna rastlanması
E) Boyuna kıyı tipinin görülmesi

2. Türkiye'de güney sektörlü rüzgârlar sıcaklığı yükseltmektedir.

Sadece bu bilgiden yola çıkarak Türkiye için,

I. Doğu yarımkürede yer alır.
II. Ortalama yükseltisi fazladır.
III. Kuzey yarımkürede yer alır.

yargılarından hangileri söylenir?

A) Yalnız I B) Yalnız II C) Yalnız III
D) II ve III E) I, II ve III

3. **Aşağıdaki sınır kapısı-ülke eşleştirmelerinden hangisi yanlıştır?**

A) Kapıkule-Bulgaristan
B) Öncüpınar-Suriye
C) Sarp-Gürcistan
D) Akyaka-Nahçivan
E) Gürbülak-İran

4. I. Aynı anda farklı mevsimlerin yaşanması
II. Batı rüzgârlarının etkili olması
III. Deniz seviyesi buzullarına rastlanmaması

Yukarıda verilenlerden hangileri Türkiye'nin Orta Kuşak'ta yer aldığını kanıtlamaktadır?

A) Yalnız I B) Yalnız II C) I ve II
D) I ve III E) II ve III

5.

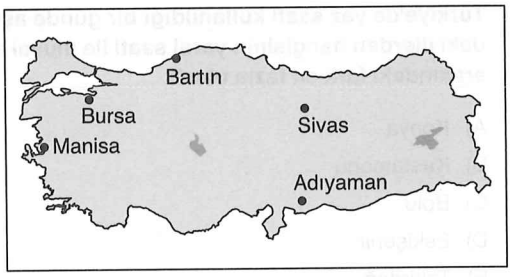

Haritada verilen illerden hangisinde 21 Haziran tarihinde gece süresi daha kısadır?

A) Adıyaman
B) Manisa
C) Sivas
D) Bursa
E) Bartın

6. I. 36° Doğu
II. 42° Kuzey
III. 26° Doğu
IV. 36° Kuzey

Yukarıda verilenlerden hangileri Türkiye'nin en uç enlem değerleridir?

A) I ve II B) I ve III C) II ve III
D) II ve IV E) III ve IV

7. **Aşağıdakilerden hangisi Türkiye'nin matematik konumu sonuçlarından değildir?**

A) Yaz süresinin kış süresinden uzun olması
B) Kutup yıldızının görülmesi
C) Sıradağların doğu-batı yönlü uzanması
D) Kuzeye doğru gölge boyunun uzaması
E) Akdeniz ikliminin etkili olması

MURAT YAYINLARI

8. **Türkiye'de yaz saati kullanıldığı bir günde aşağıdaki illerden hangisinin yerel saati ile ulusal saat arasındaki fark en fazla olur?**

A) Konya
B) Kastamonu
C) Bolu
D) Eskişehir
E) Tekirdağ

9. **Aşağıdakilerden hangisi Türkiye'nin jeopolitik konumu üzerinde daha az etkili olmuştur?**

A) Ekonomik anlamda güçlü Avrupa ülkelerine yakın olması
B) Önemli su yolları üzerinde bulunması
C) İki kıtanın kesiştiği noktada bulunması
D) Akarsuların enerji potansiyelinin yüksek olması
E) Enerji koridoru üzerinde yer alması

10. • İpsala
• Pazarkule

Verilen sınır kapıları aşağıdaki ülkelerden hangisine açılmaktadır?

A) Yunanistan
B) Bulgaristan
C) Gürcistan
D) İran
E) Irak

11. 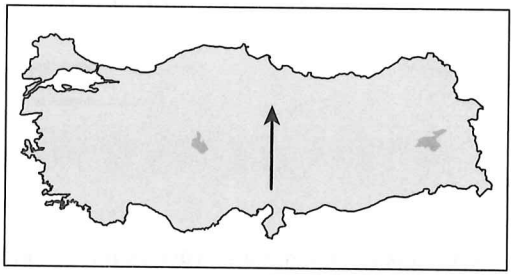

Haritada ok yönünde gidildiğinde,

I. Gölge boyu
II. Alacakaranlık süresi
III. Çizgisel hızı

özelliklerinden hangilerinde artış meydana gelir?

A) Yalnız I B) Yalnız II C) I ve II
D) II ve III E) I, II ve III

12. **Türkiye'de aşağıdaki kıyı tiplerinden hangisi görülmez?**

A) Haliç
B) Limanlı
C) Fiyord
D) Kalanklı
E) Boyuna

13. I. Kutup yıldızının görülmesi
II. Akdeniz ikliminin görülmesi
III. 21 Aralık'ta en uzun gecenin yaşanması
IV. Kuzeyi ile güneyi arasında 666 km kuşuçuşu uzunluk bulunması

Yukarıdakilerden hangileri Türkiye'nin Kuzey Yarım Küre'de yer aldığını kanıtlamaktadır?

A) Yalnız III B) I ve II C) I ve III
D) II ve III E) III ve IV

14. 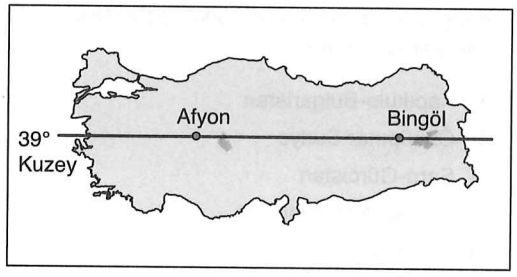

Aynı enlem üzerinde bulunan Afyon ve Bingöl illeri için,

I. Gurup ve tan süreleri
II. Ekvatora kuş uçuşu uzaklıkları
III. Yerel saatleri

özelliklerinden hangileri ortaktır?

A) Yalnız I B) Yalnız II C) Yalnız III
D) I ve II E) I, II ve III

MURAT YAYINLARI

/muratyayincilik

15. I. Kuzeye doğru denizlerde tuzluluk oranının azalması
II. Güney sektörlü rüzgârların sıcaklığı yükseltmesi
III. Iğdır'da yerel saatin İzmir'den ileri olması

Yukarıda verilenlerden hangileri Türkiye'nin kuzey yarımkürede yer aldığını kanıtlamaktadır?

A) Yalnız I B) Yalnız II C) I ve II
D) II ve III E) I, II ve III

16. Türkiye'nin bazı sınır kapılarında demiryolu ile geçiş imkanı bulunmaktadır.

Buna göre, aşağıdaki sınır kapılarından hangisi anlatılan duruma örnektir?

A) Kapıköy
B) İpsala
C) Habur
D) Sarp
E) Üzümlü

17. **Türkiye'de aşağıdaki tarihlerden hangisinde gece süresi gündüz süresinden daha uzundur?**

A) 20 Kasım
B) 10 Ocak
C) 15 Şubat
D) 10 Eylül
E) 20 Ekim

18. 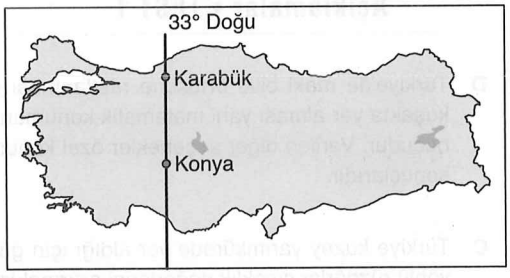

Aynı boylam üzerinde bulunan Karabük ve Konya illeri için,

I. Yerel saatleri
II. Greenwich'e uzaklıkları
III. Güneşin en tepede olduğu an

özelliklerinden hangileri yıl boyu aynıdır?

A) Yalnız I B) Yalnız II C) I ve III
D) II ve III E) I, II ve III

19. I. Rize'de zeytin yetiştirilmesi
II. Mersin'de turunçgil yetiştirilmesi
III. Iğdır'da pamuk yetiştirilmesi

Yukarıda verilenlerden hangileri Türkiye'nin özel konumuyla açıklanır?

A) Yalnız I B) Yalnız II C) Yalnız III
D) I ve III E) I, II ve III

20. **Türkiye'de 21 Haziran tarihinde aşağıdaki illerin hangisinde gündüz süresi daha kısadır?**

A) Bursa B) Batman
C) Tunceli D) Balıkesir
E) Kars

21. Türkiye'ye tatil amaçlı gelen bir turist kafilesi kaldığı sürede gecelerin gündüzlerden uzun olduğunu, bununla birlikte gündüzlerin her geçen gün uzadığını gözlemlemiştir.

Buna göre, turist kafilesi Türkiye tatilini aşağıdaki dönemlerden hangisinde yapmıştır?

A) 10-20 Haziran
B) 10-20 Kasım
C) 10-20 Ocak
D) 10-20 Eylül
E) 10-20 Temmuz

MURAT YAYINLARI

Açıklamalar • TEST 1

1. **D** Türkiye'de maki bitki örtüsüne rastlanması orta kuşakta yer alması yani matematik konumun sonucudur. Verilen diğer seçenekler özel konumun sonuçlarıdır.

2. **C** Türkiye kuzey yarımkürede yer aldığı için güney yönlü rüzgârlar sıcaklık değerlerini artırmaktadır.

3. **D** Soruda verilen sınır kapılarından Akyaka Nahçıvan'a değil Ermenistan'a açılmaktadır. Nahçivan ile Dilucu sınır kapısı bulunmaktadır.

4. **E** Türkiye'de batı rüzgârlarının görülmesi ve Fiyord-Skayer gibi deniz seviyesi buzullarına rastlanmaması orta kuşakta yer aldığını kanıtlar. Aynı anda farklı mevsimler ise özel konumun sonucudur.

5. **E** 21 Haziran tarihinde kuzeye doğru gidildikçe gündüz süresi uzar, gece süresi ise kısalır. Verilen illerden Bartın'da gece süresi daha kısadır.

6. **D** Türkiye'nin en uç enlem değerleri 36°-42° kuzey paralelleri şeklinde olmalıdır.

7. **C** Türkiye'de sıradağların doğu-batı yönünde uzanması levhaların sıkıştırma yönüyle ilgilidir ve özel konumla açıklanır.

8. **E** Türkiye'nin yaz saati 45° Doğu boylamında bulunan Iğdır'ın yerel saatidir. Buna göre verilen seçeneklerden Tekirdağ Iğdır'a boylam olarak en uzak olduğundan yerel saat farkı daha fazla olur.

9. **D** Türkiye akarsularının enerji potansiyellerinin yüksek olması jeopolitik konum üzerinde verilen diğer seçeneklere göre daha az etkili olmuştur.

10. **A** Soruda verilen sınır kapıları Yunanistan'a açılmaktadır

11. **C** Haritada ok yönünde kuzeye doğru gidildiğinde gölge boyu ve alacakaranlık süresi artarken, çizgisel hız ise azalmaktadır.

12. **C** Türkiye kutup kuşağında yer almadığı için Fiyord tipi kıyı bulunmazken diğerleri görülmektedir.

13. **C** Türkiye'de kutup yıldızının görülmesi ve 21 Aralık'ta en uzun gecenin yaşanması ülkemizin Kuzey Yarım Küre'de yer aldığını kanıtlayan unsurlardır.

14. **D** Aynı enlem üzerinde bulunan Afyon ve Bingöl'de gurup ve tan süreleri ile Ekvator'a olan kuşuçuşu uzaklıklar aynıdır. Yerel saatler ise aynı boylam üzerinde aynıdır.

15. **C** Kuzeye doğru denizlerde tuzluluk oranının azalması ve Güney sektörlü rüzgârların sıcaklığı yükseltmesi Türkiye'nin kuzey yarımkürede yer aldığını kanıtlamaktadır.

16. **A** İran'a açılan Kapıköy sınır kapısından demiryolu ile geçiş imkanı bulunurken diğerlerinde böyle bir özellik bulunmamaktadır.

17. **B** Türkiye'de gece süresinin en uzun olduğu tarih 21 Aralık'tır. Buna göre 10 Ocak tarihi 21 Aralık'a daha yakın olduğu için gece süresi gündüz süresinden daha uzundur.

18. **C** Aynı boylam üzerinde bulunan Karabük ve Konya'da yerel saat ve güneşin en tepede olduğu an yıl boyu aynıdır. Fakat Greenwich'e olan uzaklıkları farklıdır. Karabük daha kuzeyde yer aldığı için Greenwich'e daha yakındır.

19. **D** Rize'de zeytin ve Iğdır'da pamuk tarımının yapılması mikroklimaya yani özel konum şartlarına bağlıdır. Ancak Mersin'de Akdeniz iklimi görüldüğü için turunçgil tarımı yapılmaktadır.

20. **B** 21 Haziran tarihinde güneye doğru gündüz süresi kısalmaktadır. Buna göre verilen illerden Batman daha güneyde yer aldığı için gündüz süresi daha kısadır.

21. **C** Türkiye'de 23 Eylül tarihi ile 21 Mart arasında geceler gündüzlerden daha uzundur ve 21 Aralık tarihinden itibaren geceler kısalmaya, gündüzler uzamaya başlamaktadır. Turist kafilesi tatilini 10-20 Ocak tarihlerinde gerçekleştirmiştir.

MURAT YAYINLARI

/muratyayincilik

Türkiye'nin Coğrafi Konumu - II
• TEST 2

1. I. Yıl içinde dört mevsimin yaşanması
II. 21 Haziran'da en uzun gündüzün yaşanması
III. Kuzeye doğru yerçekimi kuvvetinin artması

Türkiye'de yukarıda verilenlerden hangileri matematik konumun sonucudur?

A) Yalnız I B) Yalnız II C) Yalnız III
D) I ve II E) I, II ve III

2. **Aşağıdakilerden hangisi Türkiye'nin Orta Kuşakta yer aldığını kanıtlamaz?**

A) Maki bitki formasyonuna rastlanması
B) 21 Mart'ta gece - gündüzün eşit olması
C) Batı rüzgârlarının etkili olması
D) Skayer kıyı tipinin görülmemesi
E) Cephe yağışlarının etkili olması

3. I. Akdeniz'de orman üst sınırının Karadeniz'den yüksek olması
II. Torosların kuzey kesimlerinde karların güneye göre geç erimesi
III. Karadeniz'de orman alt sınırının denizden başlaması

Yukarıda verilenlerden hangileri Türkiye'nin matematik konumu sonucudur?

A) Yalnız I B) Yalnız II C) Yalnız III
D) I ve II E) I, II ve III

4. 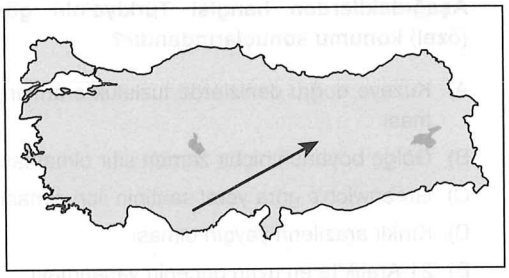

Haritada gösterilen ok yönünde gidildiğinde,

I. Meridyenler arası mesafe
II. Çizgisel hız
III. Gölge boyu

özelliklerinden hangilerinde artış gerçekleşir?

A) Yalnız I B) Yalnız II C) Yalnız III
D) I ve III E) I, II ve III

5. **Aşağıdaki illerden hangisinin komşu ülkelerle kara sınırı bulunmaz?**

A) Kırklareli
B) Mardin
C) Ağrı
D) Ardahan
E) Batman

6. Türkiye'ye güneş ışınları hiçbir zaman dik açıyla gelmez.

Bu durumun oluşmasında Türkiye'nin;

I. Doğu yarımkürede yer alması
II. Kuzey yarımkürede yer alması
III. Dönenceler dışında yer alması

özelliklerinden hangileri belirleyici olmuştur?

A) Yalnız I B) Yalnız II C) Yalnız III
D) I ve II E) I, II ve III

MURAT YAYINLARI

7. **Aşağıdakilerden hangisi Türkiye'nin göreceli (özel) konumu sonuçlarındandır?**

A) Kuzeye doğru denizlerde tuzluluk oranının azalması
B) Gölge boyunun hiçbir zaman sıfır olmaması
C) Greenwich'e göre yerel saatinin ileri olması
D) Kırıklı arazilerin yaygın olması
E) 21 Aralık'ta en uzun gecenin yaşanması

8. **Aşağıdakilerden hangisi Türkiye'nin enlem değeriyle açıklanamaz?**

A) Bakı yönü
B) Gölge uzunluğu
C) Gündüz süresi
D) Yaşanılan mevsimler
E) Yerel saat farkları

9. **Türkiye'nin aşağıdaki ülkelerden hangisiyle sınırı daha eski zamanda belirlenmiştir?**

A) Gürcistan
B) İran
C) Yunanistan
D) Ermenistan
E) Irak

10.

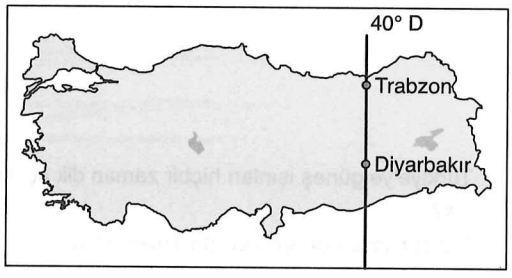

Aynı boylam üzerinde yer alan Trabzon ve Diyarbakır'da aşağıdakilerden hangisi yıl boyunca ortak değildir?

A) Güneşin en tepede olduğu an
B) Gölge boyunun en kısa olduğu an
C) Yerel saat
D) Ulusal saat
E) Gölge boyu

11. **Türkiye'de aşağıdaki tarihlerden hangisinde gece ile gündüz arasındaki süre farkı daha azdır?**

A) 21 Aralık
B) 21 Eylül
C) 21 Ekim
D) 21 Şubat
E) 21 Haziran

12. Türkiye'nin en uzun kara sınırı 911 km ile Suriye iledir ve bu ülke ile birçok sınır kapısı bulunmaktadır.

Buna göre, aşağıdaki sınır kapılarından hangisi Suriye'ye açılmaz?

A) Gürbulak
B) Ishahiye
C) Yayladağı
D) Cilvegözü
E) Nusaybin

13. I. Bulunduğu saat dilimi
II. Gölge boyu
III. Çizgisel hız
IV. Gece-gündüz süresi

Türkiye'de yukarıda verilenlerden hangilerinde yıl içinde değişiklik görülmez?

A) Yalnız I B) I ve III C) II ve III
D) II ve IV E) III ve IV

14.

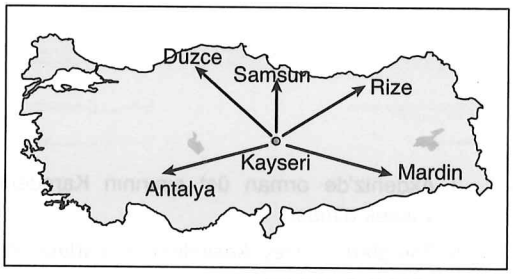

Kayseri'den 21 Aralık tarihinde haritada verilen illerden hangisine gidilirse hem gece süresi daha kısa hem de yerel saat daha geri olur?

A) Antalya
B) Mardin
C) Rize
D) Samsun
E) Düzce

MURAT YAYINLARI

/muratyayincilik

15. **Türkiye'de yaz saati uygulandığı bir günde aşağıdaki illerden hangisinin yerel saati ile ulusal saat arasındaki fark en az olur?**

A) Kilis
B) Giresun
C) Bitlis
D) Malatya
E) Samsun

16. I. Yerel saatinin Greenwich'e göre ileri olması
II. Doğusu ile batısı arasında 76 dakikalık zaman farkının olması
III. Gölge yönünün yıl boyu kuzeye düşmesi

Yukarıdakilerden hangileri Türkiye'nin doğu yarımkürede yer aldığını kanıtlamaktadır?

A) Yalnız I B) Yalnız II C) Yalnız III
D) I ve II E) I, II ve III

17. I. En uzun gündüz
II. En kısa gölge boyu
III. Yaz gündönümü

Türkiye'de 21 Haziran tarihinde yukarıda verilenlerden hangileri yaşanır?

A) Yalnız I B) Yalnız II C) I ve II
D) II ve III E) I, II ve III

18. **Aşağıdakilerden hangisi Türkiye'nin özel konumu sonuçları arasında yer almaz?**

A) Bazı dağlarda güncel buzullara rastlanması
B) Iğdır'da pamuk yetiştirilmesi
C) Kuzeye doğru gurup ve tan süresinin uzaması
D) Dağların doğu-batı yönünde uzanması
E) Maden çeşitliliğinin fazla olması

19. **Aşağıdaki sınır kapısı-ülke eşleştirmelerinden hangisi yanlıştır?**

A) Uzunköprü-Yunanistan
B) Dereköy-Bulgaristan
C) Elbeyli-Suriye
D) Habur-Irak
E) Türkgözü-İran

20. I. Orman alt sınırı
II. Kalıcı kar alt sınırı
III. Yerleşme üst sınırı

Yukarıda verilenlerden hangileri Türkiye'nin matematik konumu ile açıklanır?

A) Yalnız I B) Yalnız II C) Yalnız III
D) II ve III E) I, II ve III

21.

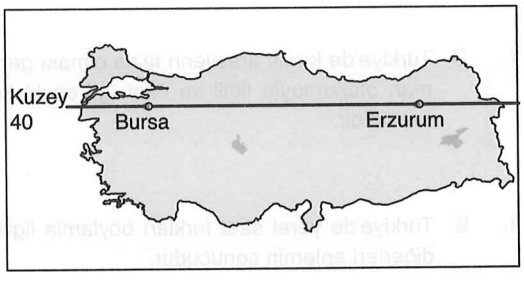

Aynı enlem üzerinde yer alan Bursa ve Erzurum illeri için aşağıdakilerden hangisi yıl boyu aynı değildir?

A) Ulusal saat
B) Gurup ve tan süresi
C) Çizgisel hız
D) Gölge boyu
E) Sıcaklık değeri

MURAT YAYINLARI

Açıklamalar • TEST 2

1. **E** Soruda verilen seçeneklerin tümü Türkiye'nin enleme bağlı matematik konumu sonucudur.

2. **B** Türkiye'de 21 Mart'ta gece - gündüzün eşit olması Kuzey Yarım Küre'de yer aldığını kanıtlamaz.

3. **D** Akdeniz'de orman üst sınırının Karadeniz'den yüksek olması ve Torosların kuzey kesimlerinde karların geç erimesi bakıya bağlı Türkiye'nin matematik konumu sonucudur. Karadeniz'de orman alt sınırının deniz seviyesinden başlaması ise yağışın fazla olması ile ilgili bir durumdur.

4. **C** Haritada ok yönünde kuzeydoğuya doğru gidildiğinde gölge boyu artarken, meridyen arası mesafe ve çizgisel hız azalmaktadır.

5. **E** Soruda verilen illerden Batman iç kesimde yer aldığı için komşu ülkelerle sınırı bulunmamaktadır.

6. **C** Türkiye dönenceler dışında yer aldığı için güneş ışınlarını hiçbir zaman dik açıyla alamaz.

7. **D** Türkiye'de kırıklı arazilerin fazla olması genç zaman oluşumuyla ilgili ve özel (göreceli) konum özelliğidir.

8. **E** Türkiye'de yerel saat farkları boylamla ilgili iken diğerleri enlemin sonucudur.

9. **B** Türkiye'nin en eski sınırı 1639 Kasr-ı Şirin Antlaşması ile İran ile belirlenmiştir.

10. **E** Aynı boylam üzerinde bulunan Trabzon ve Diyarbakır'da gölge boyları farklıdır. Gölge boylarının aynı olabilmesi için aynı enlem üzerinde yer almaları gerekmektedir.

11. **B** Gece-gündüz süresi 21 Mart ve 23 Eylül tarihlerinde eşittir. Soruda verilen tarihlerden 21 Eylül tarihi 23 Eylül'e daha yakın olduğu için gece-gündüz süre farkı daha azdır.

12. **A** Gürbülak sınır kağısı İran'a açılırken diğerleri Suriye'ye açılmaktadır.

13. **B** Türkiye 26°-45° Doğu boylamında bulunduğu için II. ve III. saat dilimleri değişiklik göstermez. Bununla birlikte enlem değeri değişmediği için çizgisel hızda da değişiklik gerçekleşmez.

14. **A** Kayseri'den 21 Aralık tarihinde güneybatı yönünde gidilirse hem gece süresi daha kısa hem de yerel saat daha geri olur. Antalya doğru cevap olacaktır.

15. **C** Türkiye'de 45° Doğu boylamında bulunan Iğdır'ın yerel saati ulusal saat olarak kullanılmaktadır. Bitlis Iğdır'a boylam olarak daha yakın olduğundan yerel saat farkı daha az olur.

16. **A** Türkiye Greenwich'in doğusunda bulunduğu için yerel saati daha ileridir. Diğer özellikler doğu yarımkürede yer aldığını kanıtlamaz.

17. **E** Soruda verilen özelliklerin tümü 21 Haziran'da Türkiye'de yaşanmaktadır.

18. **C** Kuzeye doğru gurup ve tan süresinin uzaması Türkiye'nin enlemine bağlı matematik konumu sonucudur.

19. **E** Türkgözü sınır kapısı Gürcistan'a açılmaktadır. Diğer eşleştirmeler doğrudur.

20. **D** Kalıcı kar alt sınırı ve yerleşme üst sınırı enleme bağlı matematik konum sonucu iken, orman alt sınırı yağışa bağlı özel konum sonucudur.

21. **E** Aynı enlem üzerinde bulunan Bursa ve Erzurum illerinde özel konum şartları bilinmediği için sıcaklık değerlerinin aynı olduğu söylenemez.

MURAT YAYINLARI

/muratyayincilik

Türkiye'nin Yer Şekilleri - I
• TEST 3

1.

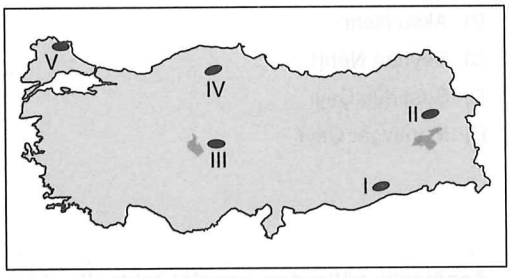

Haritada numaralarda gösterilen yerlerin hangisi masif arazi özelliği taşımaz?

A) I B) II C) III D) IV E) V

2. **Türkiye'de aşağıdakilerden hangisi farklı bir jeolojik zamanda gerçekleşmiştir?**

A) Kuzey Anadolu Fay Hattı
B) Toroslar
C) Linyit yatakları
D) Kuzey Anadolu Dağları
E) Çanakkale Boğazı

3. Türkiye'de dağların oluşumları farklı şekillerdedir.

Buna göre, aşağıdaki dağlardan hangisinin oluşumu diğerlerinden farklıdır?

A) Bolkar
B) Canik
C) Kaçkar
D) Madra
E) Yıldız

4. **Aşağıdaki ova-oluşum kökeni eşleştirmelerinden hangisi yanlıştır?**

A) Elmalı-karstik
B) Tercan-tektonik
C) Silifke-delta
D) Merzifon-karstik
E) Çarşamba-delta

5.

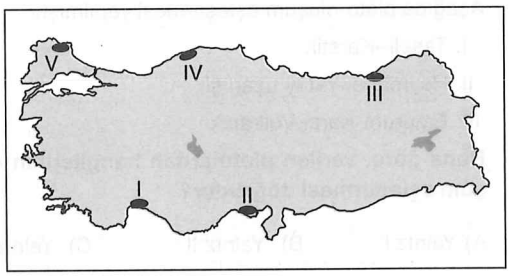

Haritada numaralarla gösterilen yerlerin hangisinin kıta sahanlığı daha geniştir?

A) I B) II C) III D) IV E) V

6.

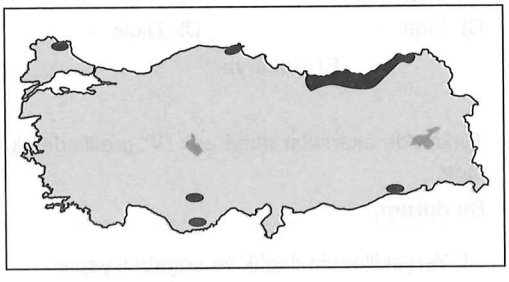

Haritada taranarak gösterilen yerlerin ortak özelliği aşağıdakilerden hangisidir?

A) Platoluk alanlar
B) Dağlık alanlar
C) Ormanlık araziler
D) Deprem riski az olan yerler
E) Nüfusun fazla olduğu yerler

7. **Aşağıdaki tektonik kökenli ovalardan hangisi Kuzey Anadolu Fay Hattı üzerinde bulunmaz?**

A) Tosya
B) Malatya
C) Bolu
D) Horasan
E) Suluova

MURAT YAYINLARI

8. Aşağıda plato-oluşum eşleştirmesi yapılmıştır.

I. Taşeli–Karstik
II. Haymana–Yatay uzanışlı
III. Erzurum-Kars–Volkanik

Buna göre, verilen platolardan hangilerinin oluşum eşleştirmesi doğrudur?

A) Yalnız I B) Yalnız II C) Yalnız III
D) II ve III E) I, II ve III

9. • Türkiye'nin en uzun akarsularındandır.
• Üzerinde Almus barajı bulunmaktadır.
• Ağız kısmında delta ovası oluşmuştur.

Önemli özellikleri verilen akarsu aşağıdakilerden hangisidir?

A) Yeşilırmak B) Kızılırmak
C) Fırat D) Dicle
E) Sakarya

10. Türkiye'de akarsular daha çok "V" profilinde akmaktadır.

Bu durum,

I. Yerşekillerinin dağlık ve engebeli yapısı
II. Akarsu boylarının kısa olması
III. Havzalarının açık olması

faktörlerinin hangileriyle açıklanır?

A) Yalnız I B) Yalnız II C) Yalnız III
D) I ve II E) I, II ve III

11.

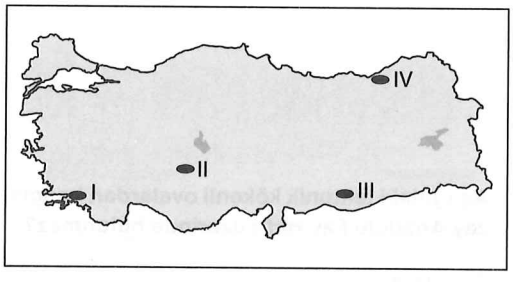

Haritada numaralarla gösterilen yerlerin hangilerinde rüzgâr erozyonu şiddeti daha fazladır?

A) I ve II B) I ve III C) II ve III
D) II ve IV E) III ve IV

12. **Aşağıda verilen akarsulardan hangisi Akdeniz'de dökülmez?**

A) Eşen Çayı
B) Aksu Nehri
C) Seyhan Nehri
D) Susurluk Çayı
E) Manavgat Çayı

13. **Aşağıdaki göllerden hangisi tektonik oluşumlu değildir?**

A) Uzungöl
B) Sapanca
C) Eber
D) Hazar
E) Tuz

14. I. Lapya
II. Sirk Gölü
III. Lös
IV. Dolin

Türkiye'de yukarıda verilenlerden hangileri karstik sahalarda yaygın şekilde görülmektedir?

A) Yalnız I B) I ve II C) I ve IV
D) II ve III E) III ve IV

15. Aşağıda Türkiye'de bazı akarsulara ait kollar verilmiştir.

• Zamantı
• Arpaçay
• Delice
• Ergene

Buna göre, verilen akarsu kolları aşağıdaki akarsulardan hangileriyle eşleştirilemez?

A) Sakarya
B) Seyhan
C) Kızılırmak
D) Meriç
E) Aras

MURAT YAYINLARI

/muratyayincilik

16. 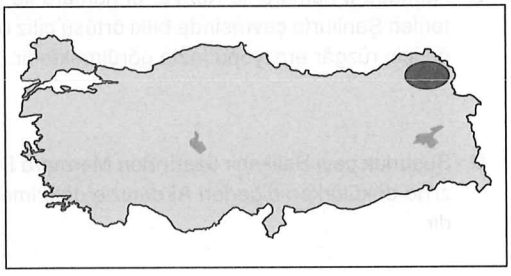

Haritada taranarak gösterilen alanla ilgili,

I. Volkanik kayaçlar yaygındır.
II. Platoluk alanlara rastlanır.
III. Akarsuların aşındırma gücü fazladır.

yargılarından hangilerinin doğru olduğu söylenir?

A) Yalnız I B) Yalnız II C) Yalnız III
D) II ve III E) I, II ve III

17. **Aşağıdakilerden hangisi Türkiye akarsularının genel özellikleri arasında yer almaz?**

A) Rejimleri genelde düzenlidir.
B) Boyları genelde kısadır.
C) Taşımacılık yapmaya elverişli değildir.
D) Çoğu açık havza özelliği taşımaktadır.
E) Enerji potansiyelleri yüksektir.

18. **Aşağıdaki göl-oluşum eşleştirmelerinden hangisi yanlıştır?**

A) Yedigöller-Heyelan set
B) Çıldır-Volkanik set
C) Beyşehir-Tektonik
D) Durusu-Alüvyal set
E) Salda-Karsti

19. **Türkiye'de aşağıdaki kıyı tiplerinden hangisi bulunmaz?**

A) Mercanlı
B) Kalanklı
C) Boyuna
D) Ria
E) Dalmaçya

20. **Türkiye'de aşağıdaki yerlerden hangisi I. Jeolojik zamanda oluşmuştur?**

A) Ege Denizi
B) Mardin eşiği
C) Bor yatakları
D) Toroslar
E) İstanbul Boğazı

21. Aşağıdaki tabloda akarsu-baraj eşleştirmesi yapılmıştır.

Akarsu	Baraj
Fırat	Keban
Sakarya	Gökçekaya
Kızılırmak	Hirfanlı
Dicle	Ilısu
Çoruh	Oymapınar

Buna göre, verilen akarsulardan hangisi sahip olmadığı baraj ile eşleştirilmiştir?

A) Fırat
B) Sakarya
C) Kızılırmak
D) Dicle
E) Çoruh

MURAT YAYINLARI

Açıklamalar • TEST 3

1. **B** Haritada,
I numara ⟶ Mardin Masifi
III numara ⟶ Kırşehir Masifi
IV numara ⟶ Kastamonu Masifi
V numara ⟶ Yıldız Dağları Masifi
iken II numarala ile gösterilen Ağrı masif özelliği taşımaz.

2. **E** Soruda verilen seçeneklerden Çanakkale Boğazı IV. zamanda diğerleri ise III. zamanda oluşmuştur.

3. **D** Ege Bölgesi'nde bulunan Madra Dağı kırıklı, diğerleri ise kıvrımlı oluşuma sahiptir.

4. **D** Amasya'da bulunan Merzifon Ovası tektonik kökenli şeklinde olmalıdır. Diğer eşleştirmeler doğrudur.

5. **B** Haritada II numara ile gösterilen Adana çevresinde dağlar içerden uzandığı için kıta sahanlığı daha geniştir. Bu yüzden burada Çukurova deltası oluşmuştur.

6. **D** Haritada taranarak gösterilen Anamur, Karaman, Mardin, Doğu Karadeniz kıyıları, Sinop ve Yıldız Dağları deprem riskinin az olduğu yerlerdir.

7. **B** Kastamonu Tosya, Bolu, Erzurum Horasan ve Amasya Suluova Kuzey Anadolu Fayı üzerinde bulunan tektonik ovalardır. Ancak Malatya Doğu Anadolu Fayı üzerinde bulunan tektonik ovadır.

8. **E** Soruda verilen platolardan tümünün oluşum eşleştirmesi doğrudur.

9. **A** Önemli özellikleri verilen akarsu Yeşilırmak'tır. Samsun'da Çarşamba deltasını oluşturmuştur.

10. **A** "V" profili çentik vadi akarsularını ifade eder. Bu tür akarsu vadilerinin Türkiye'de yaygın şekilde görülmesinde yeryüzü şekillerinin dağlık ve engeli yapısı etkili olmuştur.

11. **C** Haritada II numara ile Konya, III numara ile gösterilen Şanlıurfa çevresinde bitki örtüsü cılız olduğu için rüzgâr erozyonu fazla görülmektedir.

12. **D** Susurluk çayı Balıkesir üzerinden Marmara Denizi'ne dökülürken diğerleri Akdeniz'e dökülmektedir.

13. **A** Karadeniz'de bulunan Uzungöl alüvyal set gölüdür. Diğerleri tektonik oluşumludur.

14. **C** Lapya ve dolin karstik sahalarda görülen aşınım şeklidir. Sirk gölü buzul, lös ise rüzgârların oluşturduğu şekillerdir.

15. **A** Soruda verilenlerden
Zamantı ⟶ Seyhan'ın kolu
Arpaçay ⟶ Aras'ın kolu
Delice ⟶ Kızılırmak'ın kolu
Ergene ⟶ Meriç'in koludur.
Sakarya'nın kolu seçeneklerde verilmemiştir.

16. **E** Haritada taranarak gösterilen Erzurum-Kars yöresi için verilen seçeneklerin tümü doğrudur.

17. **A** Türkiye akarsuları her mevsim yağış alan iklim türlerine yaygın şekilde sahip olmadığından rejimleri genelde düzensizdir.

18. **D** Marmara Bölgesi'nde bulunan Durusu Gölü kıyı set gölüdür. Diğer eşleştirmeler doğrudur.

19. **A** Türkiye'de
Kalanklı kıyılar ⟶ Mersin Taşucu
Boyuna kıyılar ⟶ Karadeniz ve Akdeniz
Ria kıyılar ⟶ Boğazlar
Dalmaçya ⟶ Antalya Kaş-Finike'de görülürken,
Mercanlı kıyılara Türkiye tropik kuşakta olmadığı için rastlanmaz.

20. **B** Mardin Eşiği I. zamanda oluşmuş masif arazi durumundadır.

21. **E** Oymapınar Barajı Manavgat üzerinde bulunmaktadır. Çoruh üzerinde Borçka, Deriner, Yusufeli barajları bulunmaktadır.

MURAT YAYINLARI

/muratyayincilik

Türkiye'nin Yer Şekilleri - II
• TEST 4

1. Türkiye, yer şekilleri bakımından oldukça çeşitli özelliklere sahip bir ülkedir.

Türkiye'de yer şekillerinin oluşumu ve biçimlenmesinde aşağıdakilerden hangisinin payı daha azdır?

A) Akarsu aşındırması
B) Epirojenez
C) Orojenez
D) Buzul aşındırması
E) Volkanizma

2. Sularını denize ulaştıramayan alanlara kapalı havza denir.

I. İklim
II. Bitki örtüsü
III. Yer şekilleri
IV. Havzanın genişliği

Yukarıdakilerden hangisi Tuz Gölü çevresinde kapalı havza oluşmasında daha fazla etkili olmuştur?

A) I ve II B) I ve III C) II ve III
D) II ve IV E) III ve IV

3. **Aşağıdaki dağlardan hangisinde sirk göllere rastlanmaz?**

A) Karçal
B) Uludağ
C) Aladağlar
D) Canik
E) Ağrı

4. 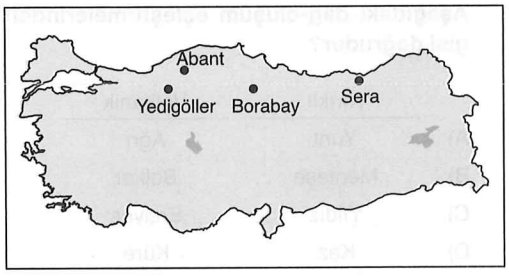

Haritada yerleri verilen göllerin oluşumunda aşağıdakilerden hangisi etkili olmuştur?

A) Tektonizma
B) Volkanizma
C) Heyelan Set
D) Alüvyal Set
E) Karstlaşma

5. **Hopa'dan yola çıkan ve Kuşadası'na kadar kıyı boyunca hareket eden bir araştırma gemisinde yer alan bir coğrafyacı aşağıdaki kıyı tiplerinden hangisini gözlemleyemez?**

A) Boyuna
B) Dalmaçya
C) Limanlı
D) Ria
E) Enine

6. **Bir Türkiye fiziki haritasında yeşil renkle gösterilen alanların özellikleri ile ilgili olarak,**

I. Gerçek sıcaklığı ile indirgenmiş sıcaklığı arasındaki fark azdır.
II. Nüfus yoğundur.
III. Yağış miktarı fazladır.

ifadelerinden hangileri kesin olarak söylenebilir?

A) Yalnız I B) Yalnız II C) Yalnız III
D) I ve II E) II ve III

MURAT YAYINLARI

7. **Aşağıdaki dağ-oluşum eşleştirmelerinden hangisi doğrudur?**

	Kırıklı	Volkanik
A)	Yunt	Ağrı
B)	Menteşe	Bolkar
C)	Yıldız	Erciyes
D)	Kaz	Küre
E)	Menteşe	Munzur

8. Türkiye'de dış kuvvetler içerisinde buzulların etkisi en azdır.

Bu durum Türkiye'nin,

I. Ilıman iklim kuşağında bulunması
II. Volkanik dağların yer tutması
III. Dağların doğru-batı doğrultulu uzanması

özelliklerinden hangileriyle açıklanır?

A) Yalnız I B) Yalnız II C) Yalnız III
D) I ve II E) I, II ve III

9. **Aşağıda belirtilen faaliyetlerden hangisi doğal çevreye diğerlerinden daha az zarar verir?**

A) Tarım faaliyetlerinde kimyasal gübrenin kullanılması
B) Orman alanlarının tarım arazisine dönüştürülmesi
C) Akarsular üzerinde balıkçılık yapılması
D) Enerji açığının termik santrallerle kapatılması
E) Isınmada fosil yakıtların kullanılması

10. Türkiye'de bazı akarsuların ağız kısmı ülke toprakları dışında bulunmaktadır.

Buna göre, aşağıdaki akarsulardan hangisi anlatılan yargıya örnektir?

A) Meriç
B) Sakarya
C) Kura
D) Asi
E) Seyhan

11. Beşerî ve doğal faktörlerin etkisiyle bazı ovaların çevresel sorunları olabilmektedir.

Buna göre, aşağıdakilerden hangisi ovalara daha az zarar verir?

A) Ovaların kentsel ve endüstriyel atıklarla sulanması
B) Ova kenarlarında besi hayvancılığının yapılması
C) Ovalar üzerinde sanayi tesislerinin kurulması
D) Aşırı işleme nedeniyle veriminin düşmesi
E) Tuğla ve kiremit yapımı için ovalardan toprak alınması

12. Akarsuyun yatak derinliği taşkın riski üzerinde etkilidir.

Buna göre, aşağıdaki akarsulardan hangisinin taşkın yapma riski daha azdır?

A) Büyük Menderes
B) Asi
C) Meriç
D) Fırat
E) Susurluk

13. Türkiye'deki göller oluşum şekilleri, sularının özellikleri, büyüklükleri yükseltileri gibi farklı özellikler gösterirler.

Aşağıda verilen gölleri yükseltilerine göre sıralarsak hangisinin daha yüksek bir alanda bulunduğu söylenebilir?

A) Manyas Gölü
B) Eber Gölü
C) Bafa Gölü
D) Nemrut Gölü
E) Tuz Gölü

MURAT YAYINLARI

/muratyayincilik

14. 

Yukarıdaki Türkiye haritasında taralı alanda yıl içinde heyelan olayının fazla olmasında,

I. Yağışın fazla olması,
II. Arazinin eğimli olması,
III. Büyükbaş hayvancılığın fazla yapılması,
IV. Ormanların fazla olması,

etmenlerinden hangileri <u>etkili olmamıştır</u>?

A) I ve II B) I ve III C) II ve III
D) II ve IV E) III ve IV

15. I. Birinci zaman → Taşkömürü yatakları
II. Üçüncü zaman → Sıradağ Volkanlar
III. Dördüncü zaman → Şiddetli 4 buzul dönemi

Türkiye'de yukarıda verilen zaman-oluşum eşleştirmelerinden hangileri doğrudur?

A) Yalnız I B) Yalnız II C) I ve II
D) II ve III E) I, II ve III

16. Türkiye'de aşağıda bazı dağların yeri verilmiştir.

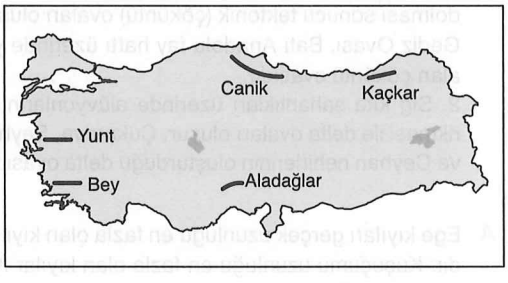

Buna göre, haritadaki dağlardan hangisinin yeri <u>yanlıştır</u>?

A) Yunt
B) Bey
C) Aladağlar
D) Kaçkar
E) Canik

17. **Aşağıda verilen göllerden hangilerinin oluşumları benzerdir?**

A) Balık-Hazar
B) Van-Durusu
C) Tuz-Akşehir
D) Beyşehir-Sera
E) Suğla-Sapanca

18. Türkiye ovalarının bazıları,

I. Faylanma sonucu çöken alanların alüvyonla dolması
II. Sığ kıta sahanlıkları üzerinde alüvyonların birikmesi sonucu oluşmuştur.

Aşağıdaki ovalardan hangi ikisi yukarıda oluşumu verilen ovalara örnek oluşturur?

	I	II
A)	Gediz	Çukurova
B)	Çarşamba	Gediz
C)	Elmalı	Antalya
D)	Çukurova	Hayat
E)	Bafra	Ergene

19. **Aşağıdakilerden hangisi Türkiye kıyılarıyla ilgili <u>yanlış</u> bir ifadedir?**

A) Kuşuçumu uzunluğu Ege kıyılarında daha fazladır.
B) Kuzey ve güney kıyılarımızda dalga aşınım şekilleri fazladır.
C) Deniz turizm sezonunun en uzun olduğu kıyılar Akdeniz kıyılarıdır.
D) İstanbul ve Çanakkale Boğazı kıyıları oluşum açısından benzerdir.
E) Kıyı tipi çeşitliliğinin en fazla olduğu bölge Marmara'dır.

20. Türkiye'de arazilerin yarıdan fazlası dağlık ve engebelidir.

Aşağıdakilerin hangisi bu durumun sonucu <u>değildir</u>?

A) Değişik iklim şartlarının oluşması
B) Hidroelektrik potansiyelinin yüksek olması
C) Tarımsal ürün çeşidinin fazla olması
D) Yıl içinde dört mevsim yaşanması
E) Toprak erozyonunun çok fazla olması

MURAT YAYINLARI

Açıklamalar • TEST 4

1. **D** Türkiye orta kuşakta yer almaktadır. Bu nedenle buzul aşındırması, yerşekillerinin oluşumunda en az etkili olan dış kuvvettir.

2. **B** Tuz Gölü çevresinin yıllık yağış miktarının çok az olup, kuraklığın şiddetli olması ve İç Anadolu Bölgesini güneyden Toros Dağlarının çevirmesi, kapalı havza oluşumunda etkili olmuştur.

3. **D** Canik Dağı'nın yükseltisi 2400 metrenin altında olduğu için buzul oluşumlarına rastlanmaz. Diğerlerinde sirk göller bulunmaktadır.

4. **C** Haritada verilen göllerin oluşumunda heyelan setleşme etkili olmuştur.

5. **B** Dalmaçya kıyı tipi sadece Antalya'nın Kaş kıyılarında görülmektedir. Bu nedenle Karadeniz'den Ege'ye yapılan yolculukta bu kıyı tipine rastlanmaz.

6. **A** Fiziki haritada yeşil renkle gösterilen yerin yükseltisi 500 metrenin altındadır. Bu yüzden gerçek sıcaklıkla indirgenmiş sıcaklık arasındaki fark azdır. Diğer seçeneklerin yükseltinin azlığına bağlı olarak ortaya çıktığı söylenemez.

7. **A** Soruda verilenlerden Yunt, Menteşe, Kaz Dağları kırıklı, Bolkar, Yıldız, Küre, Munzur kıvrımlı, Ağrı, Erciyes ise volkanik oluşuma sahiptir.

8. **A** Türkiye ılıman iklim kuşağı yani orta kuşakta yer aldığı için buzulların etkisi en azdır.

9. **C** Akarsuların üzerinde balıkçılık faaliyetinin yapılması diğer faaliyetlere göre doğal çevreye daha az zarar verir.

10. **C** Akarsuyun ağız kısmı döküldüğü yerdir. Kura Nehri kaynağını Türkiye'den alır, Azerbaycan üzerinden Hazar Gölü'ne dökülür.

11. **B** Kenarlarında besi hayvancılığının yapılması diğer seçeneklerde belirtilenler gibi ovalara fazla zarar vermez.

12. **D** Fırat Nehri dar ve derin vadiler içerisinden aktığı için taşkın yapma riski oldukça düşüktür. Diğer akarsular genelde menderesli akışa sahip olduğu için bu risk daha fazladır.

13. **D** Nemrut, Doğu Anadoluda Nemrut volkanında krater gölüdür. Bu nedenle yükseltisi daha fazladır.

14. **E** Haritada işaretli yerde heyelanın fazla olmasından, yağışın fazla ve arazinin eğimli olması etkili olmuştur.

15. **E** Soruda verilen zaman-oluşum eşleştirmelerinin tümü doğrudur.

16. **B** Haritada yerleri verilen dağlardan Bey'in yeri yanlıştır. Bey Dağları Antalya'nın batı kıyısında yer almaktadır.

17. **C** Soruda verilen göllerden,
Balık, Van ⟶ Volkanik set
Hazar, Tuz, Akşehir, Beyşehir, Sapanca ⟶ Tektonik
Durusu ⟶ Kıyı set
Sera ⟶ Heyelan set
Suğla ⟶ Karstik oluşuma sahiptir

18. **A** 1. Faylanma sonucu çöken alanların alüvyonla dolması sonucu tektonik (çöküntü) ovaları oluşur. Gediz Ovası, Batı Anadolu fay hattı üzerinde yer alan çöküntü ovasıdır.
2. Sığ kıta sahanlıkları üzerinde alüvyonların birikmesi ile delta ovaları oluşur. Çukurova, Seyhan ve Ceyhan nehirlerinin oluşturduğu delta ovasıdır.

19. **A** Ege kıyıları gerçek uzunluğu en fazla olan kıyılardır. Kuşuçumu uzunluğu en fazla olan kıyılar Karadeniz kıyılarıdır.

20. **D** Türkiye'de yıl içinde dört mevsimin yaşanması orta kuşakta yer almasının sonucudur. Güneş ışınlarının geliş açısının değişmesi farklı mevsimlerin yaşanmasını sağlamıştır.

MURAT YAYINLARI

/muratyayincilik

Türkiye'nin Yer Şekilleri - III
• TEST 5

1. **Aşağıdakilerden hangisi Türkiye ovalarının özellikleri arasında yer almaz?**

A) Nüfusun yoğun olduğu alanlardır.
B) Ulaşım yollarının geçtiği alanlardır.
C) Tarıma dayalı sanayinin yoğun olduğu alanlardır.
D) Bol yağışlı alanlardır.
E) Yükseltileri genelde batıdan doğuya artar.

2. Türkiye platolarında tarım ve hayvancılık faaliyetleri birlikte yapılmaktadır.

Buna göre, aşağıdaki platolardan hangisinde her ikisinin de birlikte geliştiği söylenemez?

A) Haymana B) Yazılıkaya
C) Şanlıurfa D) Taşeli
E) Cihanbeyli

3.



Deltaların oluşum koşulları düşünülürse yukarıda gösterilen hangi akarsuyun ağzında büyük bir delta oluşmamıştır?

A) Kızılırmak
B) Seyhan
C) Gediz
D) Sakarya
E) Büyük Menderes

4. Türkiye'de IV. Jeolojik dönemden kalma volkanik araziler bulunur.

Buna göre aşağıda verilenlerden hangisi Türkiyede'ki bütün volkanik arazilerde ortak özelliktir?

A) Nüfus yoğunluğunun fazla olması
B) Toprakların mineral bakımından zengin olması
C) Turizmin gelişmiş olması
D) Aynı coğrafi bölge içinde yeralmaları
E) Ortalama yükseltilerinin aynı olması

5.

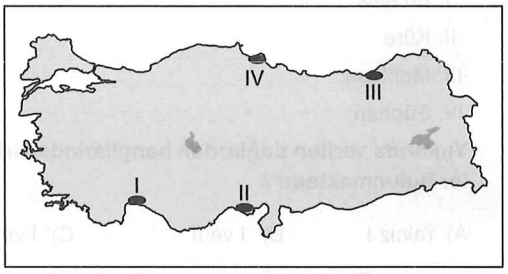

Haritada numaralarla gösterilen yerlerin hangisinde kıyı kumullarına daha az rastlanmaktadır?

A) I ve II B) I ve III C) II ve III
D) II ve IV E) III ve IV

6. I. Voklüz
II. Gayzer
III. Fay

Yukarıdaki yeraltı su kaynaklarından hangilerine Türkiye'de rastlanmaktadır?

A) Yalnız I B) Yalnız II C) I ve III
D) II ve III E) I, II ve III

7. I. Jeolojik dönemde oluşmuş sert kara kütlelerine masif arazi denir. Türkiye'de masif araziler Bitlis - Kırşehir - Batı Karadeniz'de Daday - Devrekani civarında görülür.

Aşağıdakilerden hangisi Türkiye'de I. jeolojik dönemde oluşmuş arazilerin genel özelliklerinden biridir?

A) Yükseltilerinin fazla olması
B) Deprem riskinin düşük olması
C) Sıcak su kaynaklarının yaygın olması
D) Volkanik arazinin geniş yer kaplaması
E) Linyit yataklarının fazla olması

MURAT YAYINLARI

8. I. Erciyes
II. Küre
III. Menteşe
IV. Süphan

Yukarıda verilen dağlardan hangilerinde sirk göller bulunmaktadır?

A) Yalnız I B) I ve II C) I ve IV
D) II ve III E) III ve IV

9. 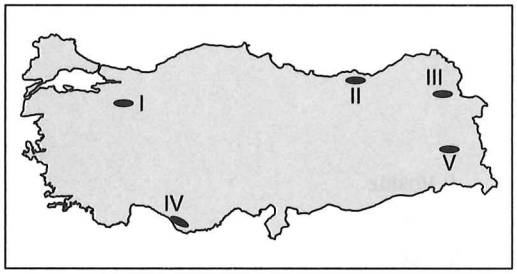

Yukarıdaki Türkiye haritasında numaralandırılmış alanların hangisinde karstik şekiller daha yaygındır?

A) I B) II C) III D) IV E) V

10. **Aşağıdakilerin hangisinde yer şekillerinin etkisi diğerlerinden daha azdır?**

A) Akdeniz Bölgesi'nde kıyı ile iç kesim arasındaki ulaşım zorluğunda
B) Karadeniz Bölgesi'nde orman sanayisinin gelişmesinde
C) Ege Bölgesi'nde liman hinterlandının geniş olmasında
D) Doğu Anadolu Bölgesi'nde hidroelektrik potansiyelin yüksek olmasında
E) İç Anadolu Bölgesi'nde makineli tarımın yaygın olmasında

11. Türkiye'de ova alanları tarım faaliyetinin dışında sanayinin, ulaşımın ve nüfusun yoğun olduğu yerlerdir.

Aşağıdaki ovalardan hangisi için yukarıdaki durumdan bahsedilemez?

A) Çukurova
B) Sakarya ovası
C) Menemen ovası
D) Altınbaşak ovası
E) Bursa ovası

12. I. Yarımada konumunda bulunması
II. Dağların uzanış biçimleri
III. Baraj sayısının fazla olması

Türkiye akarsularının boylarının kısa olmasında yukarıda verilenlerden hangileri etkili olmuştur?

A) Yalnız I B) Yalnız II C) Yalnız III
D) I ve II E) I, II ve III

13. 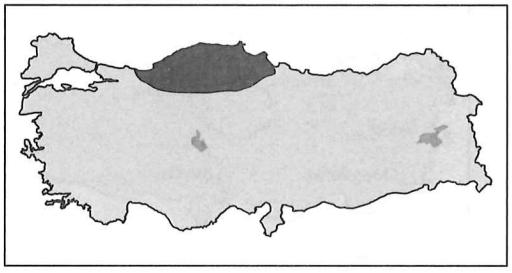

Haritada taranarak gösterilen yerde aşağıdaki yeryüzü şekillerinden hangisine rastlanmaz?

A) Küre Dağları
B) Filyos Çayı
C) Kızılırmak
D) Köroğlu Dağları
E) Çoruh Nehri

14. **Batı ve Orta Toroslarda karstik kayaçların varlığına aşağıdakilerden hangisi kanıt oluşturmaz?**

A) Kanyon vadilere rastlanması
B) Mağara oluşumunun fazla olması
C) Göçme depremlerin yaşanması
D) Dolinlere rastlanması
E) Senklinal kesitlerin var olması

MURAT YAYINLARI

/muratyayincilik

15. **Aşağıdaki kıyı tipi-yer eşleştirmelerinden hangisi yanlıştır?**

A) Rize Kıyıları-Boyuna
B) İstanbul Boğazı-Ria
C) İzmir Kıyıları-Enine
D) Antalya Kaş Kıyıları-Dalmaçya
E) Çanakkale Gelibolu Kıyıları-Kalanklı

16.

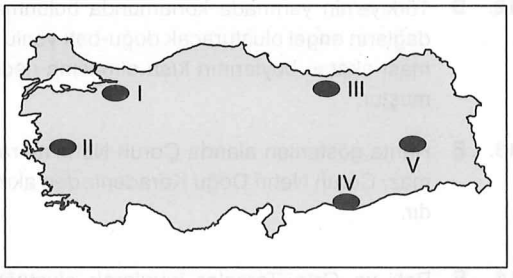

Yukarıdaki Türkiye haritasında numaralandırılmış taralı alanların hangisinde rüzgârın şekillendirici etkisi daha fazladır?

A) I B) II C) III D) IV E) V

17. **Türkiye'de Güneydoğu Anadolu ve Ege Bölgelerinde buzul şekillerinin görülmemesinin nedeni aşağıdakilerden hangisidir?**

A) Ortalama yükseltilerinin az olması
B) Dağların doğu batı doğrultusunda uzanması
C) Yüksek dağlarının olmaması
D) Kış yağışlarının genelde yağmur şeklinde düşmesi
E) Sıcak rüzgarların etkilerinde kalmaları

18. Dağların kıyıya paralel ve yakın uzandığı yerlerde dalgaların dağ yamaçlarını aşındırmasıyla oluşmuş kıyı şekline falez (yalıyar) denir.

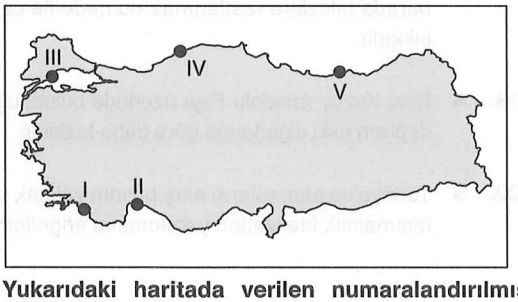

Yukarıdaki haritada verilen numaralandırılmış noktalardan hangisinde falezli kıyı oluşumu diğerlerine göre daha zordur?

A) I B) II C) III D) IV E) V

19. **Türkiye'de aşağıda verilen yerlerin hangisinde deprem riski daha fazladır?**

A) Bolu çevresi
B) Karaman çevresi
C) Anamur çevresi
D) Yıldız Dağları
E) Mardin çevresi

20. Türkiye'de akarsular üzerinde taşımacılık faaliyetleri gelişmemiştir.

Bu durum akarsuların,

I. Rejimlerinin düzensiz olması
II. Açık havzaya sahip olması
III. Akış hızlarının yüksek olması

faktörlerinden hangileriyle açıklanır?

A) Yalnız I B) Yalnız III C) I ve II
D) II ve III E) I, II ve III

21. Çoruh nehri yıl boyunca bol akış gösterir. Yıl içerisinde en düşük debi 53,9 m^3/sn ile Ocak ayında görülür. Yağışın en çok bu ayda düşmesine rağmen debi'nin minimum değerde olması;

I. Tarımda kullanımın artması
II. İçme suyu olarak kullanılması
III. Yağışlarının daha çok kar olarak düşmesi
IV. Buharlaşmanın artması
V. Arazinin jeolojik yapısı

Yukarıdakilerden hangisi ile açıklanır?

A) I B) II C) III D) IV E) V

MURAT YAYINLARI

Açıklamalar • TEST 5

1. **D** Ovalar verimli tarım alanları olduğu için nüfusun yoğunlaştığı alanlardır. Bu durum ovalık alanlarda ulaşımı, tarımı ve sanayiyi olumlu yönde etkiler. Ancak ovalar çevresine göre alçakta kalan alanlar olduğu için yağış miktarları fazla değildir.

2. **D** Taşeli Platosu karstik kayaçlara sahip olduğu için tarımsal faaliyetler gelişmemiştir. Yerine kıl keçisi yetiştiriciliği yapılmaktadır.

3. **D** Sakarya Nehri'nin denize döküldüğü alanda boğazlardan dolayı akıntıların fazla olması ve denizin derin olması sebebiyle delta oluşmamıştır.

4. **B** Volkanik araziler mineral bakımından zengindir. Nüfusu çeken yerlerdir ancak ülkemizde volkanik araziler daha çok Doğu Anadolu Bölgesindedir ama nüfus yoğunluğu bu bölgemizde azdır.

5. **B** Haritada I numara ile gösterilen Antalya III numara ile gösterilen Rize-Trabzon çevresinde dik uçurumlar fazla olduğu için kıyı kumullarına daha az rastlanır.

6. **C** Türkiye'de voklüzlere karstik kayaçların yaygın olduğu Akdeniz'de, fay kaynaklarına ise kırıklı arazilerin fazla olduğu Ege'de yaygın şekile rastlanırken, aktif volkanik dağ olmadığı için gayzerlere Türkiye'de rastlanmaz.

7. **B** Masif araziler sert kara kütleleri olduğu için deprem riski düşüktür.

8. **C** Erciyes 3914 metre Süphan 4050 metre yüksekliğe sahip olduğu için sirk (buzul) göllerine rastlamaktadır.

9. **D** Türkiye'de karstik şekillere en çok Akdeniz Bölgesi'nde rastlanır.

10. **B** Karadeniz Bölgesi'nde orman sanayisinin gelişmiş olması hammaddenin fazla olmasından kaynaklanmaktadır.

11. **D** Çukurova, Sakarya, Menemen ve Bursa ovalarında tarım faaliyetinin dışında sanayi kuruluşları da yaygın olarak görülür. Sanayinin gelişmiş olması aynı zamanda nüfusun yoğun olmasına da neden olmuştur. Ama D seçeneğinde verilen Altınbaşak ovasında daha çok tarımsal faaliyet yapılmaktadır.

12. **D** Türkiye'nin yarımada konumunda bulunması ve dağların engel oluşturacak doğu-batı yönlü uzanması akarsu boylarının kısa olmasına neden olmuştur.

13. **E** Harita gösterilen alanda Çoruh Nehri'ne rastlanmaz. Çoruh Nehri Doğu Karadeniz'den akmaktadır.

14. **E** Batı ve Orta Toroslar kıvrılarak oluştuğu için senklinal kesitlere rastlanmaktadır. Diğer verilenler karstik kayaçların varlığını göstermektedir.

15. **E** Çanakkale Gelibolu kıyıları Ria kıyı tipine örnektir. Kalanklı kıyılar ise Mersin Taşucu'nda görülmektedir.

16. **D** Güneydoğu Anadolu Bölgesi'nde bitki örtüsü cılız olduğu için rüzgar şekillendirmesi fazladır.

17. **C** Türkiye'de buzul şekilleri yüksek dağların üst kesimlerinde görülür.
Örnek: Kaçkar, Bolkar, Aladağ, Ağrı dağı vb. gibi. Ege ve Güneydoğu Anadolu bölgelerinde çok yüksek dağlar olmadığı için buzul şekilleri görülmez.

18. **C** Falezin oluşabilmesi için kıyının hemen gerisinde yüksek dağların bulunması gerekir. Oysa III. numaralı alan deniz seviyesinde Ergene ovasıdır, burada falezlere rastlanmaz bu nedenle cevap C şıkkıdır.

19. **A** Bolu Kuzey Anadolu Fayı üzerinde bulunduğu için deprem riski diğerlerine göre daha fazladır.

20. **B** Türkiye'de akarsuların akış hızının yüksek olması taşımacılık faaliyetleri yapılmasını engellemiştir.

21. **C** Çoruh Nehri'nin bulunduğu yerde yükselti ve karasallığın etkisiyle kış yağışlarının kar şeklinde düşmesi ve sıcaklığın düşük olması en az suyunu kış mevsiminde taşımasına neden olmuştur.

MURAT YAYINLARI

/muratyayincilik

Türkiye'nin Yer Şekilleri - IV
• TEST 6

1. Aşağıdaki haritada bazı akarsuların yerleri verilmiştir.

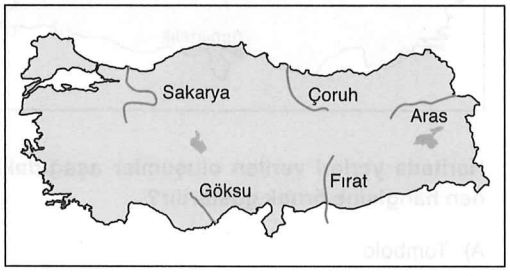

Buna göre, haritada hangi akarsuyun yeri yanlış verilmiştir?

A) Göksu
B) Fırat
C) Aras
D) Çoruh
E) Sakarya

2.

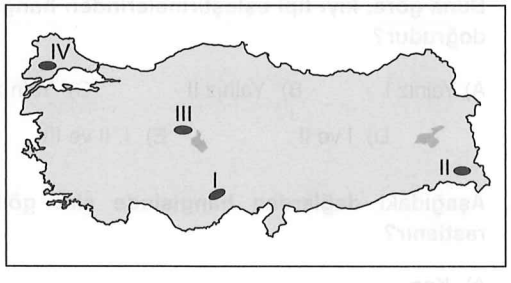

Haritada numaralarla gösterilen yerlerin hangilerinde çığ tehlikesi daha fazladır?

A) I ve II B) I ve III C) II ve III
D) II ve IV E) III ve IV

3. • Derinlik volkanizmasıyla oluşmuştur.
• İçerisinde dayk, lakolit gibi oluşumlar bulunur.

Önemli özellikleri verilen dağ aşağıdakilerden hangisidir?

A) Amanos
B) Erciyes
C) Uludağ
D) Kaçkar
E) Ağrı

4. Türkiye oluşumunu III. ve IV zamanda tamamlamış genç arazilere sahiptir.

Buna göre, Türkiye'nin,

I. Fay kaynaklarının yaygın olması
II. Deprem riskinin yüksek olması
III. Volkanik arazilerin geniş yer kaplaması

durumlarından hangileri genç zamanda oluştuğuna kanıt oluşturur?

A) Yalnız I B) Yalnız II C) Yalnız III
D) I ve II E) I, II ve III

5.



Haritada ok yönünde gidildiğinde

I. Volkanik kayaçlara
II. Platoluk alanlara
III. Tektonik ovalara

unsurlarından hangilerine rastlanır?

A) Yalnız I B) Yalnız II C) Yalnız III
D) I ve II E) I, II ve III

6. Aşağıda akarsu - kol eşleştirmeleri yapılmıştır

Buna göre, akarsu - kol eşleştirmelerinden hangisi yanlıştır?

A) Meriç-Ergene
B) Sakarya-Porsuk
C) Fırat-Karasu
D) Dicle-Zapsuyu
E) Yeşilırmak-Delice

MURAT YAYINLARI

7. I. Şelf sahasının geniş olması
II. Kırıklı yapıların yaygın olması
III. Dağların denize dik uzanması

Yukarıdakilerden hangileri Kıyı Ege'de delta sayısının fazla olmasında etkili olmuştur?

A) Yalnız I B) Yalnız II C) Yalnız III
D) I ve III E) I, II ve III

8. 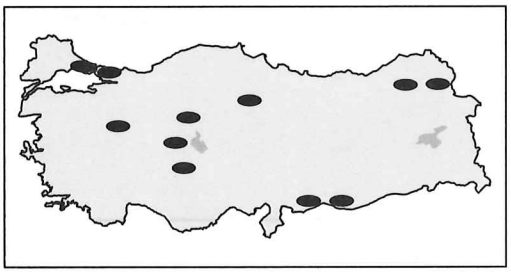

Haritada taranarak gösterilen yerlerin ortak özelliği aşağıdakilerden hangisidir?

A) Kapalı havzalar
B) Platoluk alanlar
C) Masif araziler
D) Volkanik araziler
E) Karstik ovalar

9. **Aşağıdaki dağ-oluşum eşleştirmelerinden hangisi doğrudur?**

	Kıvrımlı	Kırıklı	Volkanik
A)	Bey	Kaçkarlar	Melendiz
B)	Küre	Boz	Erciyes
C)	Karacadağ	Kaz	Süphan
D)	Aydın	Amanos	Tendürek
E)	Köroğlu	Canik	Ağrı

10. I. Fırat
II. Aras
III. Çoruh
IV. Kura

Yukarıda verilen akarsulardan hangileri açık havzadır?

A) Yalnız III B) I ve III C) II ve III
D) II ve IV E) III ve IV

11. 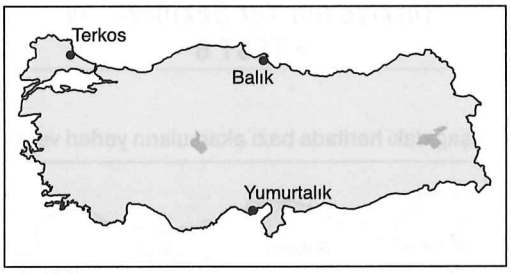

Haritada yerleri verilen oluşumlar aşağıdakilerden hangisine örnek gösterilir?

A) Tombolo
B) Krater
C) Sirk gölü
D) Lagün
E) Falez

12. Aşağıda kıyı tipi-yer eşleştirmesi verilmiştir.
I. Kalanklı-Mersin Taşucu
II. Dalmaçya-Antalya Kaş
III. Ria-Muğla Gökova

Buna göre, kıyı tipi eşleştirmelerinden hangileri doğrudur?

A) Yalnız I B) Yalnız II C) Yalnız III
D) I ve II E) I, II ve III

13. **Aşağıdaki dağlardan hangisinde sirk göllere rastlanır?**

A) Kaz
B) Karçal
C) Karacadağ
D) Yıldız
E) Amanos

14. I. Devrekani masifi
II. Kuzey Anadolu Fay Hattı
III. Linyit yatakları
IV. Egeid karasının çökmesi

Türkiye'de yukarıda verilenlerden hangilerinin oluşumu III. zamanda gerçekleşmiştir?

A) Yalnız III B) I ve III C) II ve III
D) II ve IV E) III ve IV

MURAT YAYINLARI

/muratyayincilik

15.

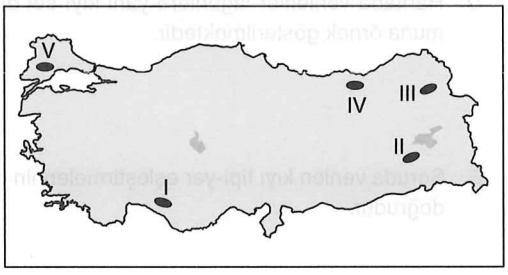

Haritada numaralarla gösterilen yerlerin hangisinde lapya, dolin gibi oluşumlara daha fazla rastlanır?

A) I B) II C) III D) IV E) V

16. **Aşağıdaki ovalardan hangisinin oluşumu diğerlerinden farklıdır?**

A) Tefenni
B) Korkuteli
C) Merzifon
D) Acıpayam
E) Elmalı

17.



Haritada taranarak gösterilen alan için aşağıdakilerden hangisi söylenemez?

A) Akarsu enerji potansiyeli yüksektir.
B) Volkanik kayaçlar yaygındır.
C) Bazı dağlarda sirk göller bulunur.
D) Volkanik set göller bulunur.
E) Platolar geniş yer kaplamaktadır.

18. I. Moren
II. Tekne vadi
III. Hörgüç kaya

Türkiye'de yukarıda verilen buzul şekillerinden hangileri bulunmaktadır?

A) Yalnız I B) Yalnız II C) Yalnız III
D) I ve II E) I, II ve III

19. I. Turizm
II. Ulaşım
III. Tarım

Türkiye'de karstik kayaçlar yukarıdaki alanlardan hangilerini olumsuz etkilemiştir?

A) Yalnız I B) Yalnız II C) Yalnız III
D) II ve III E) I, II ve III

20. **Aşağıdaki akarsu-baraj eşleştirmelerinden hangisi doğrudur?**

A) Fırat-Kapukukaya
B) Sakarya-Keban
C) Dicle-Batman
D) Kızılırmak-Deriner
E) Manavgat-Kemer

21. Aşağıda yeraltı su kaynağı-yer eşleştirmesi yapılmıştır.

I. Fay-İzmir
II. Artezyen-Konya
III. Antalya-Voklüz

Buna göre, yeraltı su kaynağı eşleştirmelerinden hangileri doğrudur?

A) Yalnız I B) Yalnız II C) I ve II
D) II ve III E) I, II ve III

MURAT YAYINLARI

Açıklamalar • TEST 6

1. D Haritada Çoruh Nehri'nin yeri yanlış verilmiştir. Verilen yatak Yeşilırmak'a aittir. Çoruh Nehri Doğu Karadeniz'den akmaktadır.

2. A Haritada I numara ile gösterilen Orta Toroslar ve II numara ile gösterilen Hakkari çevresinde çığ tehlikesi daha fazladır.

3. C Özellikleri verilen volkanik oluşum Uludağ'dır.

4. E Soruda verilen öncüllerin tamamı Türkiye'nin genç zamanda oluştuğuna kanıt niteliği taşımaktadır.

5. E Haritada ok yönünde gidildiğinde volkanik kayaçlara, platoluk alanlara DAF ve KAF üzerinde tektonik ovalara rastlanır.

6. E Yeşilırmak'ın kolu Kelkit Çayı'dır. Delice Kızılırmak'ın önemli kollarındandır.

7. D Kıyı Ege'de dağların denize dik uzanması Şelf (kıta sahanlığı) sahasını genişletmiş ve böylece delta sayısı artmıştır.

8. B Haritada verilen yerler Türkiye'nin platoluk alanlarını göstermektedir.

9. B Soruda verilenlerden Bey, Kaçkarlar, Küre, Köroğlu ve Canik Dağları kıvrımlı, Melendiz, Erciyes, Karacadağ, Süphan, Tendürek ve Ağrı volkanik, Boz, Kaz, Aydın, Amanos Dağları ise kırıklı oluşuma sahiptir.

10. B Fırat ve Çoruh Nehirleri açık havza, Aras ve Kura ise kapalı havza özelliği taşımaktadır.

11. D Haritada verilenler lagünlere yani kıyı set oluşumuna örnek gösterilmektedir.

12. E Soruda verilen kıyı tipi-yer eşleştirmelerinin tümü doğrudur.

13. B Karçal Dağları Doğu Karadeniz'de 3000 metre üzeri olduğu için sirk (buzul) göllere rastlanır

14. C Kuzey Anadolu Fayı ve linyit yatakları III. zaman, Devrekani masifi I. zaman, Egeid karasının çökmesi ise IV. zamanda gerçekleşmiştir.

15. A Haritada I numara ile gösterilen Antalya çevresinde karstik aşınım şekilleri olan lapya ve dolin gibi aşınım şekillerine yaygın hâlde rastlanır.

16. C Merzifon Ovası fay üzerinde oluşmuş tektonik kökenli iken diğerleri karstik kökenli ovalardır.

17. E Haritada taranarak gösterilen Ağrı, Tendürek, Süphan Dağı ve çevresinde platoluk alanlar geniş yer kaplamaz.

18. E Türkiye'de Ağrı, Buzul, Kaçkar, Erciyes, Süphan gibi yüksek dağlarda moren, tekne vadi ve hörgüç kayalara rastlanır.

19. D Karstik kayaçlar ulaşım ve tarımı olumsuz, turizm faaliyetlerini ise olumlu etkilemiştir.

20. C Kapulukaya → Kızılırmak
Keban → Fırat
Deriner → Çoruh
Kemer → Büyük Menderes
üzerinde bulunmaktadır. Dicle-Batman eşleştirmesi ise doğrudur.

21. E Soruda verilen yeraltı su kaynağı-yer eşleştirmelerinin tümü doğrudur.

MURAT YAYINLARI

/muratyayincilik

Türkiye'de İklim, Bitki ve Toprak Türleri I
• TEST 7

1. **Türkiye'de sıcaklığın dağılışında,**

I. Denizellik
II. Bitki örtüsü
III. Yerşekilleri
IV. Eğim

faktörlerinden hangilerinin etkisi daha fazladır?

A) I ve II B) I ve III C) II ve III
D) II ve IV E) III ve IV

2. Aşağıda Türkiye'de bir yöreye ait iklim grafiği verilmiştir

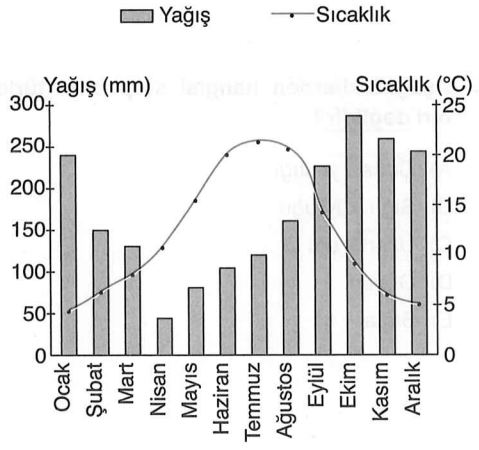

Buna göre, verilen grafik aşağıdakilerden hangisine ait olabilir?

A) İzmir B) Adana C) Rize
D) Konya E) Kars

3. **Türkiye ormanları hakkında aşağıda verilen bilgilerden hangisi yanlıştır?**

A) Orman alt sınırının en düşük olduğu bölge Akdeniz'dir.
B) En az orman Güneydoğu Anadolu Bölgesi'ndedir.
C) Ormanların yarısından çoğu kıyı bölgelerindedir.
D) Tahrip olan ormanın kendini en kolay yenilediği bölge Karadeniz'dir.
E) Türkiye ormanlarının çoğu iğne yapraklıdır.

4.

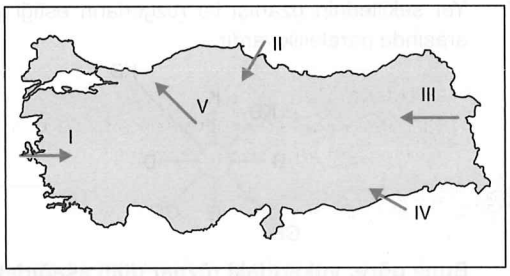

Rüzgârlar, geldikleri yönlere göre havanın sıcaklığını etkiler.

Buna göre, yukarıdaki haritada esen rüzgârlardan hangileri yazın serinletici etki yapar?

A) I ve II B) II ve IV C) III ve IV
D) III ve V E) IV ve V

5.

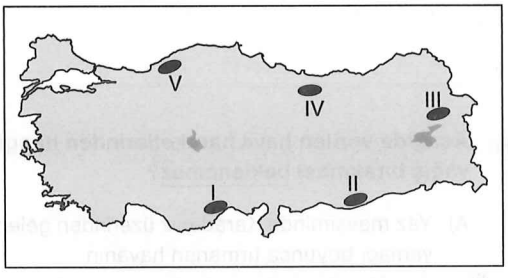

Haritada numaralarla gösterilen yerlerin hangisinde kızılçam ormanlarına yaygın şekilde rastlanır?

A) I B) II C) III D) IV E) V

6. I. Karayel
II. Yıldız
III. Samyeli
IV. Poyraz

Türkiye'de etkili olan yukarıdaki rüzgârlardan hangileri sıcaklık değerlerini artırmaktadır?

A) Yalnız III B) I ve II C) II ve III
D) II ve IV E) III ve IV

MURAT YAYINLARI

7. Yer şekillerinin uzanışı ile rüzgarların estiği yönler arasında paralellik vardır.

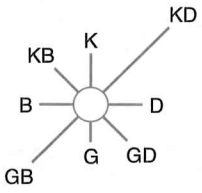

Buna göre, yukarıdaki rüzgar gülü aşağıdaki şehirlerden hangisinin bulunduğu çevreye ait olabilir?

A) Konya
B) Trabzon
C) İzmir
D) Çanakkale
E) Antalya

8. **Aşağıda verilen hava hareketlerinden hangisinin yağış bırakması beklenemez?**

A) Yaz mevsiminde Karadeniz üzerinden gelen, dağ yamacı boyunca tırmanan havanın
B) Orta Akdeniz üzerinden soğuk Anadolu karasına gelen havanın
C) İç Anadolu'da ilkbahar aylarında nemli toprak üzerine hızla alçalan havanın
D) Kışın Balkanlar'dan Bolu ve Kastamonu yöresine gelen havanın
E) Doğu Akdeniz'den Güneydoğu Toroslar'a doğru ilerleyen havanın

9. "Nem, havanın termostatıdır. Yani nemliliğin fazla olduğu yerlerde yerin ışımayla verdiği enerji kaybı az olur. Aksi durumda ışıma çok olur."

Aşağıda verilen açıklamalardan hangisi bu yargıya örnek oluşturur?

A) Kışın İç Anadolu'da karla kaplı bulutsuz günlerde havanın ayaz yapması
B) Ocak ayında Antalya'nın Rize'den sıcak olması
C) Nur Dağlarında yamaç boyu yükselen havanın yağış bırakması
D) İstanbul'da gündüz sis yoğunluğunun, geceden daha az olması
E) Yazın Erzurum'un Konya'dan daha düşük sıcaklıkta olması

10. **Aşağıdakilerden hangisi step bitki türlerinden biri değildir?**

A) Çoban yastığı
B) Sığır kuyruğu
C) Üzerlik otu
D) Geven
E) Sığla

11.

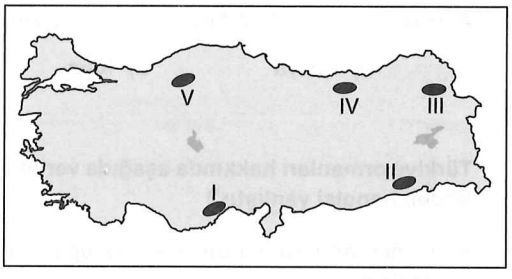

Haritada numaralarla gösterilen yerlerin hangisinde çernezyom türü topraklara yaygın şekilde rastlanır?

A) I B) II C) III D) IV E) V

MURAT YAYINLARI

/muratyayincilik

12.

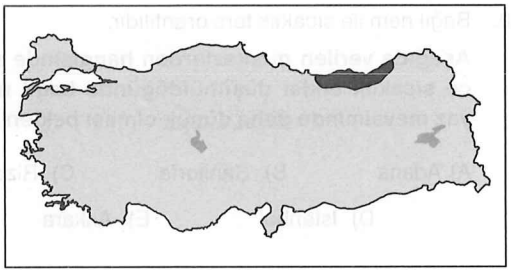

Haritada taranarak gösterilen alanda,

I. Ladin
II. Kayın
III. Sedir
IV. Fıstıkçamı

ağaç türlerinden hangilerine yaygın şekilde rastlanır?

A) I ve II B) I ve III C) II ve III
D) II ve IV E) III ve IV

13. Dağların kıyıya göre uzanış doğrultusu iklim ve bitki örtüsü üzerinde etkilidir.

Aşağıda verilen dağların hangisinde kuzey ve güney yamaçlarındaki bitki örtüsündeki farklılık daha belirgindir?

A) Aydın Dağları
B) Madra Dağları
C) Rize Dağları
D) Bozdağlar
E) Ağrı Dağı

14. Türkiye'de yıllık sıcaklık değerlerinin

I. Kıyılarda, güneyden kuzeye
II. Kıyılardan iç kesimlere
III. Batıdan doğuya

doğru gidildikçe düşmesinin nedenleri aşağıdakilerden hangisinde doğru sıralanmıştır?

	I	II	III
A)	Enlem	Denizsellik	Karasallık
B)	Yükselti	Enlem	Boylam
C)	Karasallık	Enlem	Yükselti
D)	Denizsellik	Yükselti	Enlem
E)	Enlem	Karasallık	Yükselti

15.

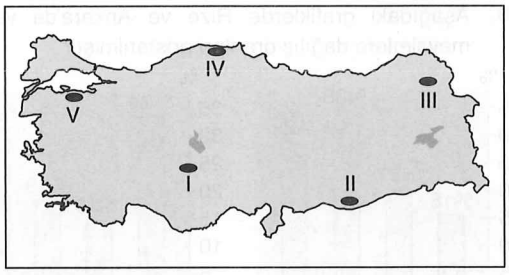

Haritada numaralarla gösterilen yerlerin hangisinde yıllık sıcaklık farkı daha fazladır?

A) I B) II C) III D) IV E) V

16. **Türkiye Mayıs ayında, Ağustos ayına göre Güneş ışınlarını daha büyük açıyla almasına karşın, Ağustos ayının daha sıcak geçmesinin nedeni aşağıdakilerden hangisidir?**

A) Ağustos ayında Güneş ışınlarının atmosferde daha kısa bir yol izlemesi
B) Atmosfer neminin Ağustos'ta daha fazla olması
C) Mayıs ayında atmosfer basıncının fazla olması
D) Enerji birikiminin Ağustos ayında daha fazla olması
E) Gündüz süresinin Ağustos'ta fazla olması

17. I. Muson sisteminin bir parçasıdır.
II. Sıcak ve kuru esmektedir.
III. Termik etkenlere bağlı oluşmuştur.

Türkiye'de etkili olan Basra Alçak Basıncı ile ilgili yukarıda verilenlerden hangileri doğrudur?

A) Yalnız I B) Yalnız II C) Yalnız III
D) I ve II E) I, II ve III

MURAT YAYINLARI

18. Aşağıdaki grafiklerde Rize ve Ankara'da yağışın mevsimlere dağılış oranları gösterilmiştir.

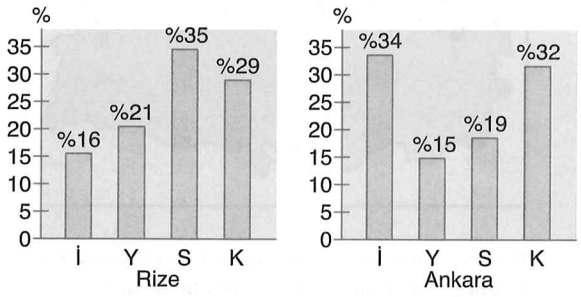

Sadece yukarıdaki grafiğe bakılarak aşağıdakilerden hangisine ulaşılamaz?

A) Rize'de, en fazla yağış sonbahardadır.

B) Ankara'da, ilkbahar ve kış mevsimlerinde düşen yağış miktarları birbirine yakındır.

C) İlkbaharda Ankara'ya düşen yağış miktarı Rize'den daha fazladır.

D) Rize, yıllık yağış miktarının yarıdan fazlasını sonbahar ve kış mevsiminde alır.

E) Ankara'ya en az yağış yaz mevsiminde düşmektedir.

19. Türkiye'deki coğrafi bölgelerde donlu günlerin başlangıç tarihleri farklılık gösterir.

Donlu günlerin başlangıç tarihlerinin farklılık göstermesinde,

I. Rüzgâr
II. Yükselti
III. Nemlilik
IV. Bitki örtüsü

gibi etmenlerden hangi ikisinin etkisi daha fazladır?

A) I ve II B) I ve III C) II ve III
D) II ve IV E) III ve IV

20. Bağıl nem ile sıcaklık ters orantılıdır.

Aşağıda verilen merkezlerden hangisinde sadece sıcaklık etkisi düşünüldüğünde bağıl nemin yaz mevsiminde daha düşük olması beklenir?

A) Adana B) Şanlıurfa C) Rize
D) İstanbul E) Ankara

21. Türkiye bitki türleri bakımından oldukça zengin bir yapıya sahiptir.

I. Psödomaki
II. Garig
III. Tundra

Türkiye'de yukarıdaki bitki türlerinden hangileri görülmektedir?

A) Yalnız I B) Yalnız II C) Yalnız III
D) I ve II E) I, II ve III

22. Yükselti arttıkça gerçek sıcaklık ile indirgenmiş sıcaklık değerleri arasındaki fark artar.

Buna göre; aşağıdaki kentlerin hangisinde gerçek sıcaklık ile indirgenmiş sıcaklık arasındaki fark en azdır?

A) Ardahan
B) Sivas
C) Artvin
D) Afyonkarahisar
E) Edirne

MURAT YAYINLARI

/muratyayincilik

Açıklamalar • TEST 7

1. **B** Türkiye'de sıcaklığın dağılışında yerşekilleri ve denizelliğin etkisi verilen diğer seçeneklere göre daha fazladır.

2. **C** Soruda verilen iklim grafiği Karadeniz iklimine aittir. Bu sebeple Rize doğru seçenek olacaktır.

3. **A** Orman alt sınırını belirleyen en önemli faktör nemlilik ve yağıştır. Karadeniz ikliminde yağış miktarının fazla olması ve rejiminin düzenli olması nedeniyle orman alt sınırının en düşük olduğu bölge Karadeniz'dir.

4. **A** Yazın denizden estikleri için I ve II numara ile gösterilen yönlerden esen rüzgarlar serinletici etki yapar.

5. **A** Haritada I numara ile gösterilen Orta Toroslarda sıcaklık değeri yüksek olduğu için kızılçamlara daha fazla rastlanır.

6. **A** Samyeli sıcak karakterli rüzgâr iken, karayel, yıldız, poyraz soğuk karakterlidir.

7. **D** Çanakkale Boğazı KD-GB yönlü bir oluk olduğu için rüzgarda daha çok bu yönden esmektedir.

8. **C** Yağış oluşmasının temel koşulu havanın soğumasıdır. Havanın soğuması içinde yükselmesi gerekir. Alçalan hava ısınacağından yağış olmaz nem açığı oluşur.

9. **A** Havanın açık olduğu günlerde yeryüzüne ulaşan ışınlar hiçbir tutulmaya maruz kalmadan uzaya yansır ve bu nedenle ısı kaybına neden olur. Karla kaplı İç Anadolu da kışın ayaz olmasının nedeni havanın açık olmasına bağlı olarak meydana gelen ısı kaybıdır.

10. **E** Sığla ağacı endemik bir ağaç türü iken diğerleri yaz mevsiminde sararan step formasyonuna ait ot türleridir.

11. **C** Haritada III numara ile gösterilen Erzurum-Kars çevresinde çernezyom topraklara yaygın şekilde rastlanmaktadır.

12. **A** Haritada taranarak gösterilen Doğu Karadeniz'de ladin ve kayın türlerine daha fazla rastlanmaktadır.

13. **C** Rize dağlarının kuzeye dönük yamacında denizel iklimin etkisiyle bitki türleride çeşitlilik gösterir. Oysa güney yamacında karasal iklimin etkisiyle soğuğa daha dayanıklı bitki türleri görülür.

14. **E** Türkiye'de yıllık sıcaklık;
kıyılarda güneyden kuzeye → enlem
kıyılardan iç kesimlere → karasallık
batıdan doğuya → yükselti nedeniyle azalır.

15. **C** Haritada III numara ile gösterilen Erzurum-Kars çevresinde yıllık sıcaklık farkı daha fazladır.

16. **D** Haziran ve Temmuz ayları boyunca güneş ışınlarının büyük açılarla gelmesi ve ısı birikiminin fazla olmasından dolayı Ağustos ayı Mayıs ayından daha sıcaktır.

17. **E** Basra alçak basıncına ait soruda verilen özelliklerin tümü doğrudur.

18. **C** Verilen grafikte yağışın mevsimlere göre dağılış oranları yer almaktadır. Bu nedenle yağış miktarı hakkında bilgi edinilemez.

19. **C** Yüksek yerlerde sıcaklık düşük olduğu için, nemli alanlarda da özellikle kış ılıklığı yaşandığı için yükselti ve nemlililk donlu günlerin başlangıç tarihini etkiler.

20. **B** Yaz mevsiminde Şanlıurfa Türkiye'nin en sıcak kentidir. Bu nedenle bağıl nemin en düşük olduğu kenttir.

21. **D** Karadeniz'de psödomakilere, Akdeniz'de garigle-re rastlanmaktadır. Tundralar ise kutuplara yakın yerlerde görülmektedir.

22. **E** Edirne'nin yüksekliği diğerlerine göre daha az olduğu için gerçek sıcaklığı ile indirgenmiş sıcaklığı arasındaki fark daha azdır.

MURAT YAYINLARI

Türkiye'de İklim, Bitki ve Toprak Türleri II
• TEST 8

1. 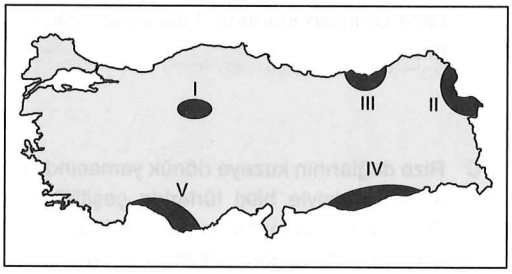

Yukarıdaki haritada işaretlenen alanlardan hangilerinde Akdeniz ikliminin yağış rejimi görülmektedir?

A) Yalnız II B) Yalnız III C) I ve IV
D) II ve IV E) IV ve V

2. **Aşağıda verilen illerden hangilerinin en yağışlı dönemi aynıdır?**

A) Konya-Çanakkale
B) Sinop-Kars
C) Ankara-Bursa
D) Hatay-İzmir
E) Antalya-Samsun

3. I. İzlanda
II. Azor
III. Basra
IV. Sibirya

Türkiye'de etkili olan yukarıdaki basınç merkezlerinden hangileri dinamik kökenlidir?

A) Yalnız I B) I ve II C) I ve III
D) II ve III E) III ve IV

4. Türkiye bulunduğu enlemler nedeniyle daha çok Akdeniz ikliminin yayılış alanında yer alır. Buna karşın Türkiye'de birbirinden farklı iklim tipleri de görülür.

Türkiye'de farklı iklim tiplerinin görülmesinde aşağıdakilerden hangisinin etkisi diğerlerine göre daha azdır?

A) Bitki örtüsünün çeşitlilik göstermesi
B) Yer şekillerinin farklılık göstermesi
C) Karasallık ve denizellik
D) Farklı basınç merkezlerinin etkili olması
E) Rüzgarlar

5. Denizlerden uzak, deniz etkisine kapalı olan, nem oranının az olduğu yerlere karasal bölge denir.

Buna göre Türkiye'de karasal bölgelerle ilgili;

I. Isınma ve soğuma fazladır.
II. Günlük ve yıllık sıcaklık farkı azdır.
III. Kış mevsiminde hava ayazdır.
IV. Üzüm, elma gibi tarım ürünleri yetiştirilir.
V. Karlı ve donlu günler görülür.

Yukarıdakilerden hangisi söylenemez?

A) I B) II C) III D) IV E) V

MURAT YAYINLARI

/muratyayincilik

6. I. Farklı yerşekillerine sahip olması
II. İki kıtada topraklara sahip olması
III. Yarımada konumunda bulunması
IV. Dönenceler dışında yer alması

Türkiye'de meltem rüzgârlarının görülmesinde yukarıdakilerden hangileri etkili olmuştur?

A) I ve II B) I ve III C) II ve III
D) II ve IV E) III ve IV

7. 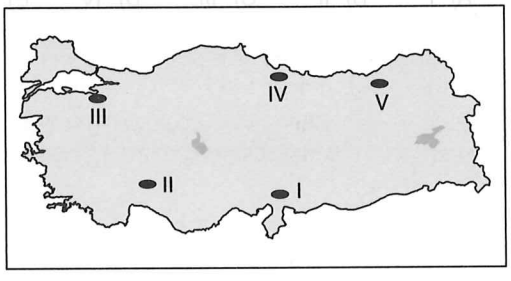

Haritada numaralarla gösterilen yerlerin hangisinde endemik türlerden biri olan kasnak meşelerine yaygın şekilde rastlanır?

A) I B) II C) III D) IV E) V

8. 

Yukarıdaki Türkiye haritasında taralı olarak gösterilen alanların iklimlerinin ortak özelliği aşağıdakilerden hangisidir?

A) Yıl içinde kurak dönemin görülmediği yerlerdir.
B) Yıllık yağış miktarının fazla olduğu yerlerdir.
C) Yükseltinin en fazla olduğu alanlardır.
D) Yıllık yağış miktarının 500-1000 mm arasında olduğu alanlardır.
E) Sürekli alçak basınç alanlarıdır.

9. I. Laterit
II. Solonçak
III. Vertisol
IV. Kolüvyal

Türkiye'de yukarıda verilen toprak türlerinden hangilerine rastlanmaz?

A) Yalnız I B) I ve II C) I ve III
D) II ve III E) III ve IV

10. Türkiye'de ormanlık araziler Karadeniz'de yaygındır.

Buna göre, Karadeniz'de aşağıdaki ağaçlardan hangisinin yayılışı daha sınırlıdır?

A) Kestane
B) Ladin
C) Kayın
D) Kızılağaç
E) Fıstık çamı

11. **Aşağıdakilerden hangisi enlemin sıcaklık üzerindeki etkisine örnek teşkil etmez?**

A) Doğu Anadolu'da güneyden esen rüzgarların sıcaklığı artırması
B) Gökova Körfezi'nden Edremit Körfezi'ne doğru deniz suyu tuzluluğunun azalması
C) Güney Marmara Bölümü'nde maki üst sınırının Antalya Bölümü'nden daha düşük olması
D) Yıllık sıcaklık farkının Doğu Karadeniz Bölümü'nde en az olması
E) Akdeniz Bölgesi'nde yıllık sıcaklık ortalamasının Karadeniz Bölgesi'nden fazla olması

MURAT YAYINLARI

12. Nem miktarının fazla olduğu yerlerde günlük sıcaklık farkları azdır.

Buna göre, aşağıdaki ovaların hangisinde günlük sıcaklık farkı diğerlerinden daha azdır?

A) Bafra
B) Konya
C) Ergene
D) Iğdır
E) Isparta

13. I. Ocak ayı sıcaklık ortalaması en yüksek olan,
II. Yıllık yağış miktarı 2000 mm'nin altına düşmeyen,
III. Yıllık güneşlenme süresi en uzun olan

Yukarıda verilen özellikler sırasıyla haritada işaretli merkezlerden hangilerine aittir?

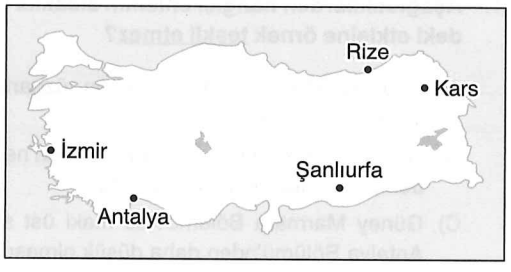

	I	II	III
A)	Antalya	Rize	Antalya
B)	İzmir	Rize	Şanlıurfa
C)	Rize	Kars	İzmir
D)	Antalya	Rize	Şanlıurfa
E)	Kars	Şanlıurfa	Antalya

14. Aşağıda Türkiye'nin bazı yörelerinde görülen iklim özellikleri verilmiştir.

I. Her mevsimi yağışlı ve nem oranı yüksek yerler
II. En fazla yağışın yaz aylarında düştüğü yerler
III. Kış sıcaklık değerleri 10°C'nin üzerinde olan yerler
IV. Yaz mevsimi sıcak ve kurak geçen yerler
V. Yıllık yağış miktarı 2000 mm'nin üzerinde olan yerler

Yukarıda verilen iklim özellikleri düşünüldüğünde hangisinin Türkiye'de görüldüğü alan diğerlerine göre daha geniştir?

A) I B) II C) III D) IV E) V

15.

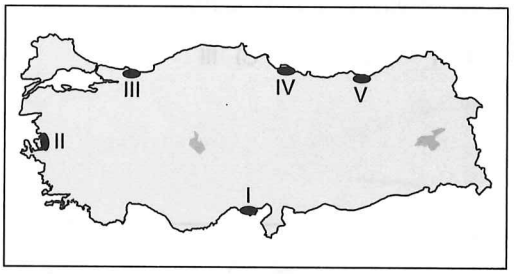

Haritada numaralarla gösterilen yerlerin hangisinde yamaç yağışları daha fazla görülmektedir?

A) I B) II C) III D) IV E) V

MURAT YAYINLARI

/muratyayincilik

16. Hakim rüzgar yönünde yerşekillerinin belirleyici özelliği olduğu düşünülürse;

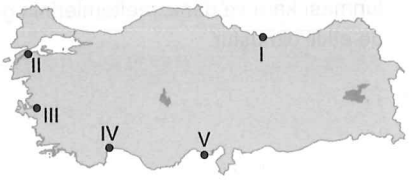

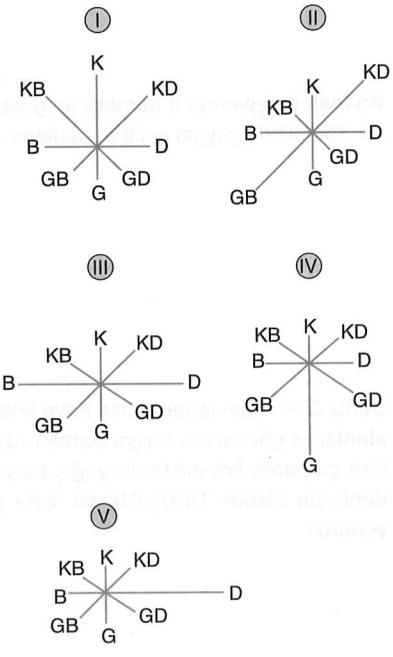

Türkiye haritası'nda taralı alanların hangisinin rüzgar frekans gülü yanlış gösterilmiştir?

A) I B) II C) III D) IV E) V

17. **Türkiye'de etkili olan aşağıdaki rüzgârlardan hangisi yağış oluşumuna neden olmaz?**

A) Deniz meltemi
B) Lodos
C) Karayel
D) Yıldız
E) Kıble

18. I. Kızılçamların tahrip edilmesiyle oluşmuştur.
II. Yıl boyunca yeşil kalmaktadır.
III. Kökleri çok derin, yaprakları sert yapıdadır.

Yukarıdakilerden hangileri maki bitki türüyle ilgili doğru özelliklerdir?

A) Yalnız I B) Yalnız II C) Yalnız III
D) I ve II E) I, II ve III

19.

Bölgeler	Orman Alanları (%)
Karadeniz Bölgesi	26
Akdeniz Bölgesi	24
Ege Bölgesi	17
Marmara Bölgesi	13
Doğu Anadolu Bölgesi	10
İç Anadolu Bölgesi	7
Güneydoğu Anadolu Bölgesi	3

Yukarıdaki tabloda Türkiye ormanlarının bölgelere göre yüzdelik dağılışı gösterilmiştir.

Tablodaki bilgilerden yararlanarak aşağıdakilerden hangisine ulaşılabilir?

A) Güneydoğu Anadolu'da orman alanlarının az olmasının nedeni şiddetli buharlaşmadır.
B) Karadeniz ve Akdeniz Bölgelerinde ormanların geniş yer kaplamasında dağların kıyıya paralel uzanması etkili olmuştur.
C) İç ve Güneydoğu Anadolu'nun orman alanları Akdeniz Bölgesinin orman alanlarının yarısından azdır.
D) İç Anadolu Bölgesi'nde orman alanlarının az olmasının nedeni enlem ve yükseklikliktir.
E) Karadeniz ve Akdeniz Bölgeleri'nin orman alanları, ülke orman alanlarının yaklaşık yarısından fazlasını oluşturmuşlardır.

20. I. En fazla Batı ve Orta Toroslarda bulunmaktadır.
II. Sayıları 3 binin üzerindedir.
III. Sadece denizel alanlarda görülmektedir.

Türkiye'de görülen endemik türlerle ilgili yukarıdaki açıklamalardan hangileri doğrudur?

A) Yalnız I B) Yalnız II C) I ve II
D) II ve III E) I, II ve III

MURAT YAYINLARI

Açıklamalar • TEST 8

1. **E** Akdeniz ikliminde en yağışlı mevsim kış mevsimidir. Kış yağışlarının en fazla olduğu bölgemiz haritada Akdeniz ve Güney doğu Anadolu'dur.

2. **D** Verilen illerden Hatay ve İzmir'de Akdeniz iklimi görüldüğü için en fazla yağışı kış mevsiminde almaktadır.

3. **B** Soruda verilen basınç merkezlerinden İzlanda ve Azor dinamik kökenli Basra ve Sibirya ise termik kökenlidir.

4. **A** Türkiye'de farklı iklimlerin yaşanmasında birçok faktör etkili olmuştur. Yerşekillerinin farklılıkları kısa mesafelerde iklim farklılıklarının görülmesinde etkilidir. Denizler ve karaların ısınma özelliklerinin farklı olması iklimi etkilemektedir. Deniz kıyısında olan yerlerde kış ılıklığı yaşanır. Rüzgârlar ve basınç merkezleri iklim farklılıklarında etkilidir. Fakat bitki örtüsü iklimin nedeni değil sonucudur. İklim farklılıklarının görülmesi bitki örtüsünün çeşitlilik göstermesine neden olmaktadır.

5. **B** Karasal iklim bölgelerinde nem miktarı az olduğu için günlük ve yıllık sıcaklık farkı fazladır.

6. **B** Türkiye'nin farklı yerşekillerine sahip olması dağ ve vadi meltemlerinin, yarımada konumunda bulunması kara ve deniz meltemlerinin görülmesinde etkili olmuştur.

7. **B** Kasnak meşelerine II numara ile gösterilen Göller Yöresi'nde yaygın şekilde rastlanır.

8. **B** Deniz üzerinden gelen nemli hava kütleleri taralı alanlarda gösterilen, kıyıya paralel uzanan dağlara çarparak bol miktarda yağış bırakır. Bu nedenle bu alanlar Türkiye'de en fazla yağış alan yerlerdir.

9. **A** Türkiye'de;
Solonçaklara ⟶ Tuz Gölü çevresinde
Vertisollere ⟶ Trakya'da
Kolüvyallere ⟶ Dağ eteklerinde rastlanmaktadır.
Fakat laterit topraklar ekvatorda bulunmaktadır.

10. **E** Fıstık çamı Ege'de yaygın olan ağaç türü iken diğerleri Karadeniz'de yaygınlık kazanmıştır.

MURAT YAYINLARI

11. D Yıllık sıcaklık farkının Doğu Karadeniz Bölümünde az olmasının nedeni denizlerin ılımanlaştırıcı etkisidir.

12. A Deniz kenarlarında nem oranı yüksektir. Verilen ovalar içinde deniz etkilerine açık ve nem oranı yüksek olan Bafra'dır. Bu yüzden Bafra Ovası'nda günlük sıcaklık farkı daha azdır.

13. D Ocak ayı ortalama sıcaklığı en yüksek olan merkez Antalya, yıllık yağış miktarı 200 mm'nin altına düşmeyen merkez Rize, yıllık güneşlenme süresi en uzun olan merkez Şanlıurfa'dır.

14. D Türkiye'nin büyük bir bölümünde karasal iklim ile Akdeniz iklimi hakimdir. Bu yüzden geniş bir alanda yaz mevsimi sıcak ve kurak geçer.

15. E Haritada V numara ile gösterilen Doğu Karadeniz'de dağların kıyıya paralel uzanışı ve yükseltinin fazla olması yamaç yağışlarının fazla görülmesine neden olmuştur.

16. E Akdeniz'de toroslar denize paralel uzandığı için V numara ile gösterilen Akdeniz kıyılarında hakim rüzgar yönü güneydir.

17. A Deniz melteminin etki sahası ve süresi sınırlı olduğu için yağış oluşumuna neden olmaz.

18. E Soruda verilen özelliklerin tümü maki bitki örtüsüyle ilgili doğru bilgilerdir.

19. C Sadece tablodaki bilgileri ele aldığımızda Türkiye'deki bölgelere göre orman oranlarını görürüz. İç Anadolu ve Güneydoğu Anadolu bölgelerindeki toplam orman alanları, Akdeniz Bölgesi'nin orman alanlarının yarısından azdır.

20. C Endemik türler sıcaklık ve yağışın etkisiyle Batı ve Orta Toroslarda yaygın şekilde bulunmaktadır ve sayıları toplamda 3 binin üzerindedir. Endemikler karasal alanlarda da dağılış göstermektedirler.

MURAT YAYINLARI

Türkiye'de İklim, Bitki ve Toprak Türleri III
• TEST 9

1. Yaz mevsiminde en sıcak bölge Güneydoğu Anadolu'dur.

Bu durumun oluşmasında

I. Samyeli rüzgârları
II. Karasallık
III. Basra Alçak Basıncı

faktörlerinden hangileri belirleyici olmuştur?

A) Yalnız I B) Yalnız II C) Yalnız III
D) I ve III E) I, II ve III

2. **Aşağıdakilerden hangisi Türkiye'nin fazla yağış alan yerlerinden biri değildir?**

A) Menteşe Yöresi
B) Ergene Ovası
C) Kastamonu Çevresi
D) Hatay Çevresi
E) Hakkari Çevresi

3. I. Deniz meltemi
II. Poyraz
III. Etezyen
IV. Lodos

Türkiye'de görülen yukarıdaki rüzgârlardan hangilerinin etki sahası daha dardır?

A) I ve II B) I ve III C) I ve IV
D) II ve IV E) III ve IV

4. 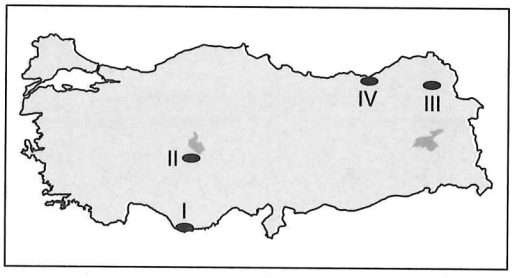

Haritada numaralarla gösterilen yerlerin hangisinde konveksiyonel yağışlar daha fazla görülür?

A) I ve II B) I ve III C) II ve III
D) II ve IV E) III ve IV

5. Aşağıda Türkiye'de görülen bir toprak türüne ait özellikler verilmiştir.

- Kireçli eski göl tabanlarında oluşmaktadır.
- Dönen topraklar adıyla da bilinmektedir.
- A ve C horizonları gelişmiştir.

Buna göre, önemli özellikleri verilen toprak aşağıdakilerden hangisidir?

A) Çernezyom
B) Kolüvyal
C) Alüvyal
D) Vertisol
E) Terra-rossa

6. **Türkiye'de aşağıdaki rüzgârlardan hangisi kuzey sektörlü değildir?**

A) Kıble
B) Etezyen
C) Karayel
D) Poyraz
E) Yıldız

7. **Türkiye'de aşağıdaki ağaç türlerinden hangisinin yayılış alanı daha geniştir?**

A) Kayın
B) Kızılçam
C) Sarıçam
D) Ardıç
E) Ihlamur

8. **Türkiye'de toprak çeşitliliğinin fazla olmasında,**

I. Farklı iklim tiplerinin görülmesi
II. Kuzey yarımkürede bulunması
III. Farklı kayaç türlerinin görülmesi
IV. Ortalama yükseltisinin fazla olması

faktörlerinden hangilerinin etkisi daha fazladır?

A) I ve II B) I ve III C) II ve III
D) II ve IV E) III ve IV

MURAT YAYINLARI

/muratyayincilik

9. Aşağıda Türkiye'de etkili olan basınç merkezlerinin yerleri verilmiştir.

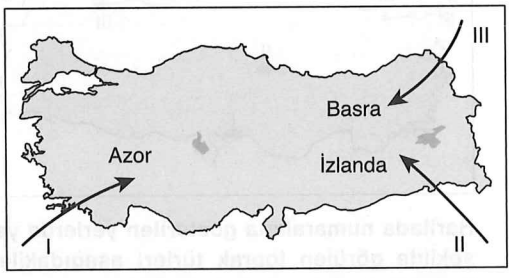

Buna göre, basınç merkezlerinden hangilerinin yeri doğru verilmiştir?

A) Yalnız I B) Yalnız II C) I ve II
D) II ve III E) I, II ve III

10. Türkiye Ocak ayı indirgenmiş izoterm haritasında en düşük sıcaklıkların Kuzeydoğu Anadolu'da olduğu görülmektedir.

Bu durum üzerinde

I. Karasallık
II. Soğuk rüzgârlar
III. Yükselti

faktörlerinden hangileri etkili olmuştur?

A) Yalnız I B) Yalnız II C) Yalnız III
D) I ve II E) I, II ve III

11. **Aşağıdaki il-en yağışlı dönem eşleştirmelerinden hangisi yanlıştır?**

A) Erzurum-Yaz
B) Nevşehir-İlkbahar
C) Bartın-Sonbahar
D) Muğla-Kış
E) Adana-İlkbahar

12.

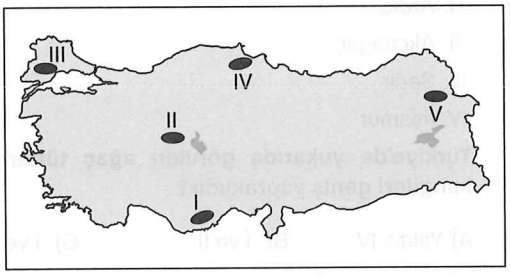

Haritada numaralarla gösterilen yerlerin hangisinde sedir ağaçlarına yaygın şekilde rastlanır?

A) I B) II C) III D) IV E) V

13. I. İç Anadolu'da antropojen bozkırlara rastlanır.
II. Gariglere Akdeniz Bölgesi'nde yaygın şekilde rastlanır.
III. Karadeniz'de psödomaki türleri bulunmaktadır.

Türkiye'nin bitki türleriyle ilgili yukarıdaki açıklamalardan hangileri doğrudur?

A) Yalnız I B) Yalnız II C) Yalnız III
D) II ve III E) I, II ve III

14.

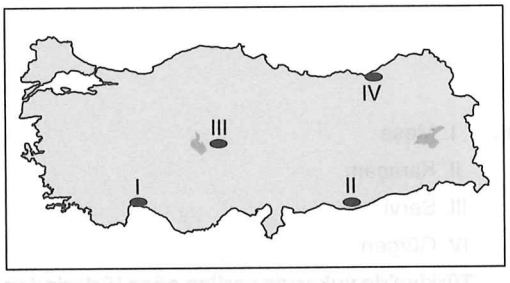

Haritada numaralarla gösterilen yerlerin yerşekilleri dikkate alındığında hangilerinde föhn rüzgârları daha fazla görülür?

A) I ve II B) I ve IV C) II ve III
D) II ve IV E) III ve IV

MURAT YAYINLARI

15. I. Ardıç
II. Akçaağaç
III. Sedir
IV. Ihlamur

Türkiye'de yukarıda görülen ağaç türlerinden hangileri geniş yapraklıdır?

A) Yalnız IV B) I ve II C) I ve III
D) II ve III E) II ve IV

16. **Türkiye'de görülen aşağıdaki toprak türlerinden hangisi enlemin sonucunda ortaya çıkmıştır?**

A) Kahverengi orman
B) Çernezyom
C) Terra-rossa
D) Vertisol
E) Alüvyal

17. **Kıyı Ege'de bulunan Menteşe Yöresinin yıllık ortalama yağış miktarının fazla olmasında,**

I. Yükseltisinin fazla olması
II. Dağların kıyıya uzanış biçimi
III. Orman üst sınırının yüksek olması

faktörlerinden hangileri etkili olmuştur?

A) Yalnız I B) Yalnız II C) I ve II
D) I ve III E) I, II ve III

18. I. Meşe
II. Karaçam
III. Servi
IV. Gürgen

Türkiye'de yukarıda verilen ağaç türlerinden hangilerinin yayılış alanı daha dardır?

A) I ve II B) I ve III C) II ve III
D) II ve IV E) III ve IV

19. 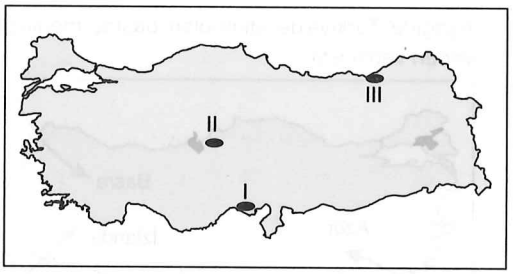

Haritada numaralarla gösterilen yerlerde yaygın şekilde görülen toprak türleri aşağıdakilerden hangisinde doğru eşleştirilmiştir?

	I	II	III
A)	Alüvyal	Solonçak	Kahverengi Orman
B)	Terra-rossa	Podzol	Çernezyom
C)	Alüvyal	Solonçak	Vertisol
D)	Terra-rosa	Alüvyal	Litosol
E)	Regosol	Vertisol	Çernezyom

20. **Aşağıdaki endemik tür-yer eşleştirmelerinden hangisi yanlıştır?**

A) Sığla-Köyceğiz
B) İspir Meşesi-Trabzon
C) Kasnak Meşesi-Göller Yöresi
D) Istranca Meşesi-Yıldız Dağları
E) Kazdağı Göknarı-Çanakkale

21. 

Haritada taranarak gösterilen yerde aşağıdaki ağaç türlerinden hangisine yaygın şekilde rastlanmaz?

A) Fıstıkçamı
B) Servi
C) Göknar
D) Sedir
E) Kızılağaç

MURAT YAYINLARI

/muratyayincilik

Açıklamalar • TEST 9

1. **E** Yaz mevsiminde Güneydoğu Anadolu Bölgesi'nin sıcak olmasında verilen faktörlerin tamamı etkili olmuştur.

2. **B** Ergene Ovası yükseltinin az olması ve karasallığın etkisiyle az yağış alan yerlerden biridir. Diğerleri fazla yağış almaktadır.

3. **B** Verilen rüzgârlardan deniz meltemi kıyılarda, Etezyen ise Kıyı Ege'de etkili olduğundan etki sahası diğerlerine göre dardır.

4. **C** Haritada II numara ile gösterilen Konya çevresinde, III numara ile gösterilen Erzurum-Kars çevresinde karasal iklim şartları görüldüğünden konveksiyonel yağışlar daha fazla görülür.

5. **D** Soruda özellikler verilen toprak türü vertisollerdir.

6. **A** Verilen rüzgârlardan Kıble güney sektörlü rüzgârlara örnektir.

7. **B** Türkiye'de yayılış alanı en fazla olan ilk üç ağaç türü meşe, kızılçam ve karaçamdır. Seçeneklere göre, kızılçam doğru cevap olacaktır.

8. **B** Türkiye'de farklı iklim tiplerinin görülmesi ve farklı kayaçlara rastlanması toprak çeşitliliğini artıran en önemli faktörlerdir.

9. **A** Soruda sadece Azor'un yönü doğru verilmiştir. Basra güneydoğudan, İzlanda ise kuzeybatıdan etkili olmaktadır.

10. **D** Kuzeydoğu Anadolu'da Ocak ayı sıcaklık değerlerinin düşük olmasında karasallık ve soğuk rüzgârlar etkili olmuştur. Ancak indirgenmiş sıcaklık olduğu için yükselti bu durum üzerinde etkili olmamıştır.

11. **E** Soruda verilen illerden Adana'da Akdeniz iklimi görüldüğü için en yağışlı dönemi kıştır.

12. **A** Sedir ağacı sıcak iklimleri sevdiğinden I numara ile gösterilen Akdeniz'de yaygın şekilde bulunmaktadır.

13. **E** Türkiye'nin bitki türleriyle ilgili soruda verilen ifadelerin tümü doğrudur.

14. **B** Haritada I numaralı Antalya çevresi ve IV numaralı Doğu Karadeniz'de yükselti daha fazla olduğu için föhn rüzgârları daha fazla görülmektedir.

15. **E** Soruda verilen ağaç türlerinden akçaağaç ve ıhlamur geniş yapraklı ardıç ve sedir ise iğne yapraklı ağaç türleridir.

16. **C** Akdeniz iklimi orta kuşakta 30°-40° enleminde görülmektedir. Terra-rossa toprak türü de Akdeniz iklimine bağlı matematik konum sonucudur.

17. **C** Menteşe yöresinde yıllık ortalama yağış miktarının fazla olmasında yükseltinin fazla olması ve dağların kıyıya paralel uzaması etkili olmuştur.

18. **E** Soruda verilen ağaç türlerinden servi ve gürgenin yayılış alanı diğerlerine göre daha dardır.

19. **A** I numaralı yerde ⟶ Alüvyal
II numaralı yerde ⟶ Solonçak
III numaralı yerde ⟶ Kahverengi orman topraklarına yaygın şekilde rastlanmaktadır.

20. **B** Verilen endemik türlerden İspir Meşesi Kastamonu-Yozgat ormanlarında bulunmaktadır.

21. **E** Haritada taranarak gösterilen yerde kızılağaçlara yaygın şekilde rastlanmaz. Kızılağaçlara Karadeniz ormanlarında yaygın şekilde rastlanır.

MURAT YAYINLARI

Türkiye'de Nüfus ve Yerleşme - I
• TEST 10

1. I. Nüfus miktarı
II. Aritmetik nüfus yoğunluğu
III. Nüfus artış hızı

Türkiye'de Cumhuriyet tarihi boyunca yukarıdakilerden hangileri sürekli artmıştır?

A) Yalnız I B) Yalnız II C) I ve II
D) II ve III E) I, II ve III

2. 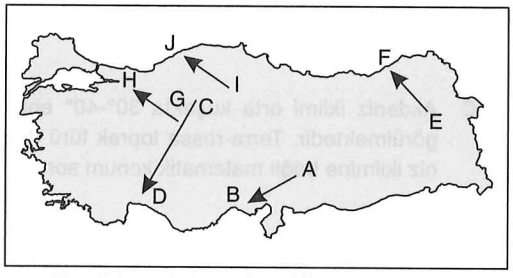

Yukarıdaki haritada Türkiye'de meydana gelen göçler gösterilmiştir.

Buna göre, hangi doğrultuda turizme bağlı olarak gerçekleşen mevsimlik işçi göçü daha fazladır?

A) E'den F'ye
B) C'den D'ye
C) A'dan B'ye
D) G'den H'ye
E) I'dan J'ye

3. Türkiye'de son yapılan nüfus sayımına göre km²'ye 109 kişi düşmektedir.

Buna göre, aşağıdaki şehirlerden hangisi nüfus yoğunluğu ortalamasının altındadır?

A) Yalova
B) Antalya
C) Konya
D) İzmir
E) Ankara

4. Türkiye'de nüfus ülke geneline dengesiz dağılmıştır.

Bu durum,

I. Yerşekilleri
II. İklim koşulları
III. Sanayi faaliyetleri

faktörlerinden hangileriyle açıklanır?

A) Yalnız I B) Yalnız II C) Yalnız III
D) I ve II E) I, II ve III

5. I. Ortanca yaş yükselmektedir.
II. Yaşlı nüfus oranı genç nüfus oranından fazladır.
III. Nüfus artış hızı azalma eğilimindedir.

Türkiye nüfusuna ilişkin yukarıda verilen özelliklerden hangileri doğrudur?

A) Yalnız I B) Yalnız II C) Yalnız III
D) I ve III E) I, II ve III

6. Aşağıdaki haritada Türkiye'de nüfus yoğunluğu fazla olan bazı yöreler numaralarla gösterilmiştir.

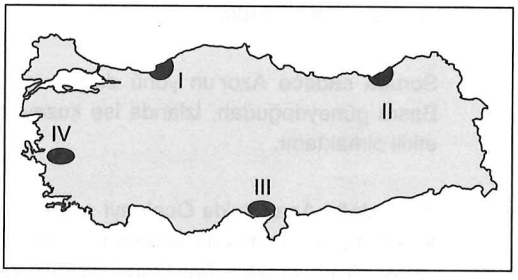

Bu yörelerden hangilerinin nüfus yoğunluğunun fazla olmasında, endüstri kuruluşlarının yoğun olması ile geniş ve verimli tarım alanlarının varlığı birlikte etkili olmuştur?

A) Yalnız I B) Yalnız II C) I ve III
D) II ve IV E) III ve IV

MURAT YAYINLARI

/muratyayincilik

7.

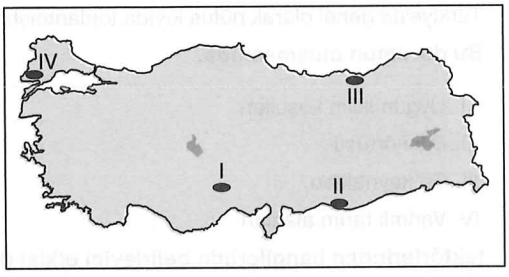

Haritada numaralarla gösterilen yerlerin hangilerinde yaylacılık faaliyetleri daha az yapılmaktadır?

A) I ve II B) I ve III C) II ve III
D) II ve IV E) III ve IV

8.

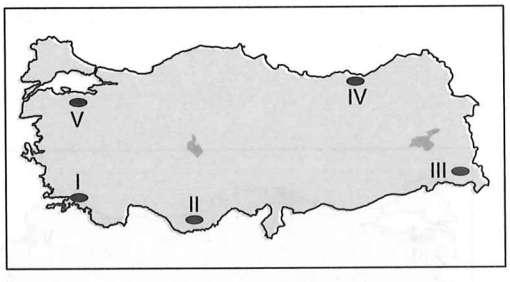

Haritada numaralarla gösterilen yerlerin hangisinde tarımsal nüfus yoğunluğu daha azdır?

A) I B) II C) III D) IV E) V

9. **Aşağıdakilerden hangisi Türkiye'nin nüfus özelliklerinden biri değildir?**

A) Kentlerde doğal nüfus artışı daha yüksektir.
B) Kadın erkek nüfus oranları birbirine yakındır.
C) Erkeklerde ortalama ömür daha kısadır.
D) Kadınlarda okuryazar oranı daha düşüktür.
E) Kırsal nüfus oranı giderek azalmaktadır.

10.

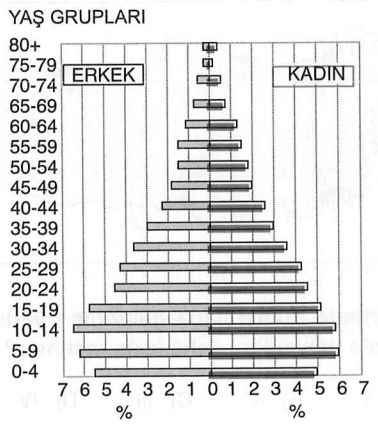

Yukarıda Türkiye'nin yaş gruplarına göre düzenlenmiş nüfus piramidi verilmiştir.

Aşağıdakilerden hangisi bu piramitten çıkarılacak bir sonuçtur?

A) Ölüm oranları doğum oranlarından yüksektir.
B) Nüfusun yaş gruplarına dağılışı dengelidir.
C) Bağımlı nüfus oranı azdır.
D) Nüfus artış hızı azalmaktadır.
E) Kadın nüfus erkek nüfustan fazladır.

11. I. Daha çok kentten kente doğrudur.
II. Yüksekten alçağa doğru gerçekleşir.
III. Doğudan batıya doğru yaşanmaktadır.

Türkiye'nin genel göç özellikleriyle ilgili yukarıda verilenlerden hangileri doğrudur?

A) Yalnız I B) Yalnız II C) Yalnız III
D) II ve III E) I, II ve III

12.

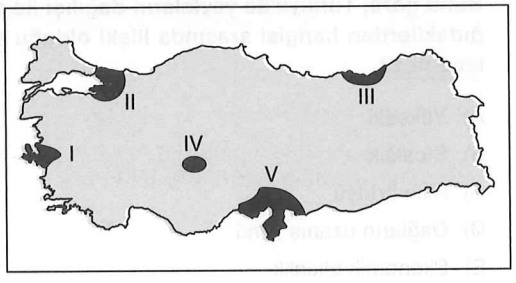

Yukarıdaki haritada numaralanmış yerlerin hangisi seyrek nüfuslu alanlardan biridir?

A) I B) II C) III D) IV E) V

MURAT YAYINLARI

13.

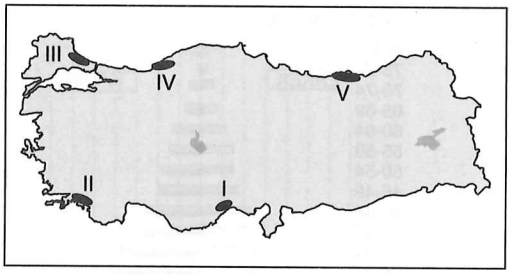

Haritada numaralarla gösterilen yerlerin hangisinde dalyanlara daha fazla rastlanır?

A) I B) II C) III D) IV E) V

14. Yaz mevsiminde daha çok hayvan otlatmak amacıyla geçici olarak yerleşilen kırsal alanlara "yayla" denir.

Aşağıdaki haritada yaylaların en yaygın olduğu yerler gösterilmiştir.

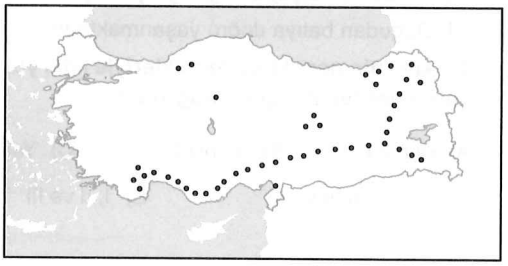

Buna göre, Türkiye'de yaylaların dağılışı ile aşağıdakilerden hangisi arasında ilişki olduğu <u>söylenemez</u>?

A) Yükselti
B) Sıcaklık
C) Bitki örtüsü
D) Dağların uzanış yönü
E) Ekonomik etkinlik

15. Türkiye'de genel olarak nüfus kıyıda toplanmıştır.

Bu durumun oluşmasında,

I. Uygun iklim koşulları
II. Bitki örtüsü
III. Su kaynakları
IV. Verimli tarım alanları

faktörlerinden hangilerinin belirleyici etkisi daha fazladır?

A) I ve II B) I ve III C) I ve IV
D) II ve III E) III ve IV

16.



Haritada numaralarla gösterilen yerlerin hangisinde köyaltı yerleşmelerden Pey'lere fazla rastlanır?

A) I B) II C) III D) IV E) V

MURAT YAYINLARI

/muratyayincilik

17. Türkiye'de köyaltı yerleşmeler sürekli ve geçici olmak üzere ikiye ayrılmaktadır.

Buna göre, verilen köyaltı yerleşmelerden hangisi geçici özelliğe sahiptir?

A) Mahalle
B) Çiftlik
C) Mezra
D) Ağıl
E) Divan

18. Adana; Akdeniz Bölgesi'nin nüfus yoğunluğu en fazla olan şehirlerden biridir.

Aşağıdakilerden hangisinin bu duruma etkisi diğerlerinden daha azdır?

A) Ticaretin gelişmiş olması
B) Çeşitli endüstri kuruluşlarının bulunması
C) Önemli yol kavşağında yer alması
D) Önemli turistik değerlere sahip olması
E) Tarım gelirlerinin yüksek olması

19. Aşağıdaki tabloda seyrek nüfuslu yer-nedeni eşleştirmesi yapılmıştır.

Seyrek Nüfuslu Yer	Nedeni
Teke Platosu	Kayaçların yapısı
Hakkari	Yerşekilleri
Tuz Gölü Çevresi	Yetersiz yağış
Ardahan	İklim şartları
Menteşe	Kuraklık

Buna göre, seyrek nüfuslu yerlerden hangisinin nedeni yanlış verilmiştir?

A) Teke Platosu
B) Hakkari
C) Tuz Gölü Çevresi
D) Aradan
E) Menteşe

20. 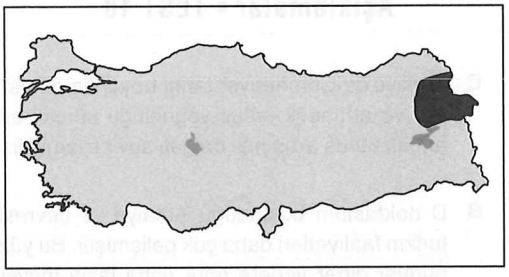

Haritada taranarak gösterilen alanda aşağıdaki köyaltı yerleşme türlerinden hangisine daha fazla rastlanır?

A) Çiftlik
B) Kom
C) Dalyan
D) Divan
E) Dam

21. Şehirlerin gelişmesinde; turizm, tarım, sanayi ve ticaret gibi fonksiyonlar etkili olmaktadır.

Buna göre, aşağıdaki şehirlerden hangisinin gelişmesinde yukarıdaki fonksiyonlardan hepsi birlikte etkili olmuştur?

A) Antalya
B) İstanbul
C) İzmit
D) Nevşehir
E) Bursa

MURAT YAYINLARI

Açıklamalar • TEST 10

1. **C** Türkiye'de Cumhuriyet tarihi boyunca nüfus miktarı ve aritmetik nüfus yoğunluğu sürekli artmış ancak nüfus artış hızı dalgalı seyir izlemiştir.

2. **B** D noktasının bulunduğu Antalya ve çevresinde turizm faaliyetleri daha çok gelişmiştir. Bu yüzden buralar diğer yerlere göre daha fazla mevsimlik göç alır.

3. **C** Konya'nın yüzölçümü büyük olduğu için km^2'ye düşen insan sayısı 58'dir ve yoğunluğun altındadır.

4. **E** Türkiye'de nüfusun dengesiz dağılmasında verilen faktörlerin tümü etkili olmuştur.

5. **D** Türkiye'de ortanca yaş yükselmekte ve nüfus artış hızı azalma eğilimindedir. Ancak yaşlı nüfus oranı %9,5, genç nüfus oranı %22,8 seviyesindedir.

6. **E** III numaralı alan Adana yöresi hem tarımsal faaliyetler hem de endüstri kuruluşlarının yoğun olduğu alandır. IV numaralı alan Kıyı Egede verimli tarım alanları ve endüstri kuruluşlarının yoğunluğu sebebiyle nüfus yoğunluğu fazladır.

7. **D** Haritada IV numara ile gösterilen Ergene çevresi II numara ile gösterilen Şanlıurfa çevresi düz olduğu için yaylacılık faaliyetleri fazla gelişmemiştir.

8. **E** Haritada V numara ile gösterilen Bursa çevresi düz olduğu için tarımsal nüfus yoğunluğu daha azdır.

9. **A** Doğal nüfus artışı doğum oranını ifade eder. Doğal nüfus artışı kentlerde düşük, kırsal kesimde yüksektir.

10. **D** Piramitte görüldüğü gibi nüfus piramidinin en geniş kısmının daralmaya başlaması nüfus artış hızının azaldığını gösterir.

11. **E** Türkiye'de göç hareketleriyle ilgili verilen özelliklerin tümü doğrudur.

12. **D** IV numaralı alan Tuz Gölü çevresi kuraklık ve toprak verimsizliği nedeniyle seyrek nüfusludur.

13. **B** Haritada II numara ile gösterilen Muğla çevresinde dalyanlara daha fazla rastlamak mümkündür.

14. **D** Yaylalar genellikle platolar üzerinde yani yüksek alanlarda bulunduğundan yükseltiye bağlı olarak sıcaklık ve bitki örtüsü değişir. Bu da ekonomik faaliyetleri etkilemektedir. Ancak yaylaların dağılışı dağların uzanış yönünden etkilenmemektedir.

15. **C** Türkiye'de nüfusun genelde kıyıda toplanmasında uygun iklim şartları ve verimli tarım alanlarının varlığı daha fazla etkili olmuştur.

16. **A** Pey, Hatay, Gaziantep yöresinde görülen köyaltı yerleşme türüdür. Bu sebeple I numaralı alan doğru cevap olacaktır.

17. **D** Soruda verilen köyaltı yerleşme türlerinden ağıl geçici oturulan yer durumundadır.

18. **D** Adana'da nüfus yoğunluğunun fazla olmasında turizmin etkisi diğerlerinden daha azdır.

19. **E** Menteşe yöresi dağlık ve engebeli olduğu için seyrek nüfuslanmıştır.

20. **B** Haritada taranarak gösterilen yerde köyaltı yerleşmelerden komlara daha fazla rastlanır.

21. **E** Bursa'nın gelişmesinde turizm, tarım, sanayi ve ticaret faktörlerinin hepsi etkili olmuştur.

MURAT YAYINLARI

/muratyayincilik

Türkiye'de Nüfus ve Yerleşme - II
• TEST 11

1. Türkiye 2020 nüfus verilerine göre nüfus artış hızı ‰5,5'tir.

Türkiye'de nüfus artış hızının düşük seyretmesi durumunda ileriki dönemlerde aşağıdaki sonuçlardan hangisinin yaşanması beklenmez?

A) Çocuk nüfusun azalması
B) İşgücü potansiyelinin azalması
C) Yaşlı nüfusun artması
D) Medyan yaşın artması
E) Demografik yatırımların artması

2. Türkiye Cumhuriyeti'nde nüfus artış hızı dönem dönem farklı oranlarda gerçekleşmiştir.

Buna göre aşağıda verilenlerden hangisi Türkiye'de nüfus artış hızını daha az etkilemiştir?

A) Savaş koşulları
B) Nüfus planlaması
C) Eğitim seviyesinin yükselmesi
D) Doğal afetler
E) Kadının ekonomik hayata katılımı

3. Türkiye'de bazı illerin denize kıyısı bulunduğu hâlde il merkezleri iç kesimlerde yer almaktadır.

Buna göre, aşağıdakilerden hangisi sözü edilen duruma örnek gösterilemez?

A) Balıkesir
B) Aydın
C) İzmir
D) Muğla
E) Karabük

4. **Aşağıdakilerden hangisi farklı bir ekonomik faaliyet kolunda çalışmaktadır?**

A) Şehirlerarası otobüs kullanan sürücü
B) Eğitim kurumunda çalışan öğretmen
C) Hastanede görevli doktor
D) Tahıl tarımıyla uğraşan çiftçi
E) Bir sitede çalışan güvenlik görevlisi

5. Karadeniz Bölgesi'nin kırsal kesimlerinde dağınık yerleşmeler yaygındır.

Bu durum,

I. Bitki örtüsü
II. Parçalı tarım arazisi
III. Su kaynaklarının fazlalığı

faktörlerinden hangileriyle açıklanır?

A) Yalnız I B) Yalnız II C) Yalnız III
D) I ve II E) II ve III

MURAT YAYINLARI

6. I. Tüm coğrafi bölgelerde yapılmaktadır.
II. Akdeniz'de sayfiye amacı da taşımaktadır.
III. Dönemlik yapılan yerleşme türüdür.

Türkiye'de yaylacılık faaliyetleriyle ilgili olarak yukarıdakilerden hangileri doğrudur?

A) Yalnız I B) Yalnız II C) Yalnız III
D) II ve III E) I, II ve III

7. Türkiye'de Cumhuriyet tarihi boyunca nüfus artış hızı dalgalı bir seyir izlemiştir.

Buna göre, nüfus artış hızının en yüksek olduğu dönem aşağıdakilerden hangisidir?

A) 1935 - 1940 B) 1940 - 1945
C) 1955 - 1960 D) 1970 - 1975
E) 1985 - 1990

8. Türkiye'de sanayileşmiş alanlardaki nüfus artışı o yöredeki iş olanaklarının artışı ile sıkı bir ilişki içinde ise bu yörede nüfusun artmasında çevreden olan göçlerin payı büyüktür.

Buna göre, aşağıdaki kentlerden hangisinde bu durum gözlenmez?

A) Şanlıurfa
B) İzmir
C) Denizli
D) Bursa
E) Adana

9. Türkiye'nin önemli sorunlarından biri de kırdan kente yapılan göçlerdir. Bazı bölgeler göç verirken bazı bölgeler göç nedeniyle aşırı nüfuslanmıştır.

Aşağıdakilerden hangisi göç veren bölgelerin özelliklerinden biri olamaz?

A) Endüstri gelişmemiştir.
B) Kuru tarım yöntemi uygulanmaktadır.
C) Eğitim ve sağlık hizmetleri yetersizdir.
D) Kişi başına düşen gelir azdır.
E) Aritmetik nüfus yoğunluğu yüksektir.

10. **Türkiye'de aşağıdaki dönemlerden hangisinde kırsal nüfus ile kentsel nüfus arasındaki fark daha azdır?**

A) 1940-1945 B) 1955-1960
C) 1965-1970 D) 1980-1985
E) 2010-2015

11. Aşağıda bazı şehirler verilmiştir.

- Burdur
- Malatya
- Sarıkamış
- Isparta

Buna göre, verilen şehirlerin gelişmesinde ortak fonksiyon aşağıdakilerden hangisidir?

A) Dini
B) Eğitim
C) Turizm
D) Sanayi
E) Askeri

MURAT YAYINLARI

/muratyayincilik

12. Türkiye'de Cumhuriyet tarihi boyunca nüfus atış hızı dalgalı seyretmiştir.

Buna göre, nüfus artış hızında görülen dalgalanma üzerinde aşağıdakilerden hangisi etkili olmamıştır?

A) Yurt dışına yapılan işçi göçleri
B) Uygulanan nüfus politikaları
C) Silah altına almalar
D) Yaşanan kıtlıklar
E) Aritmetik nüfus yoğunluğunun artması

13.

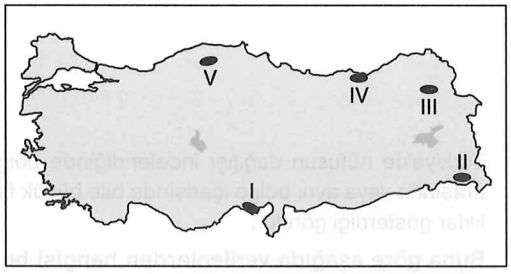

Haritada numaralarla gösterilen yerlerin hangisinde çiftliklere daha fazla rastlanır?

A) I B) II C) III D) IV E) V

14.

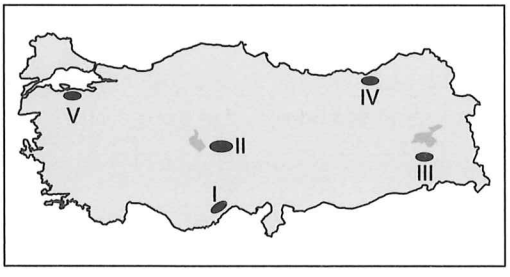

Haritada numaralarla gösterilen yerlerin hangisinin kırsal kesimlerinde tüf yapılara yaygın şekilde rastlanır?

A) I B) II C) III D) IV E) V

15.

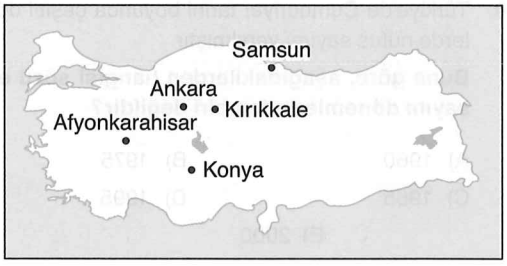

Yukarıdaki Türkiye haritasında gösterilen şehirler aşağıdakilerden hangisi bakımından benzerlik gösterir?

A) Sanayi gelirlerinin yüksek olması
B) Önemli yol kavşakları üzerinde olmaları
C) Nüfus yoğunluklarının Türkiye ortalamasının üstünde olması
D) Karasal iklim koşullarının yaşanması
E) Sanayi değeri yüksek tarım ürünlerinin yetişmesi

16. Türkiye'de sanayileşme gün geçtikçe artıyor. Sanayileşmenin artması şehirlere olan göçleri de arttırmaktadır. Bu göçler ---- gibi bir çok sorunu beraberinde getirir.

Yukarıdaki parçada boş bırakılan yere aşağıdakilerden hangisinin getirilmesi uygun olmaz?

A) Çarpık kentleşme
B) Kentlerde işsizlik
C) Kentsel dönüşüm
D) Yoğun trafik
E) Kültürel yozlaşma

17. Kuruluş ve gelişmesinde tarımsal etkinliklerin ön plana çıktığı kentlere "Tarım kenti" denir.

Aşağıdakilerden hangisi bu kentlere örnek gösterilemez?

A) Bafra
B) Rize
C) Akhisar
D) Kırıkkale
E) Adana

MURAT YAYINLARI

18. Türkiye'de Cumhuriyet tarihi boyunca çeşitli dönemlerde nüfus sayımı yapılmıştır.

Buna göre, aşağıdakilerden hangisi sözü edilen sayım dönemlerinden biri değildir?

A) 1960 B) 1975
C) 1985 D) 1995
E) 2000

19. **Aşağıdaki illerden hangilerinin birbirleriyle idari sınırı bulunmaz?**

A) Tekirdağ - Kırklareli
B) Karaman - Mersin
C) Samsun - Amasya
D) Ankara - Bolu
E) Şırnak - Bitlis

20.



Haritada numaralarla gösterilen yerlerin hangisi seyrek nüfuslu değildir?

A) I B) II C) III D) IV E) V

21. I. Seydişehir
II. Çeşme
III. Soma
IV. Akhisar

Yukarıda verilen şehirlerin hangilerinin gelişmesinde sanayi faaliyetlerinin etkisi daha fazladır?

A) I ve II B) I ve III C) II ve III
D) II ve IV E) III ve IV

22. Türkiye'de nüfusun dağılışı incelendiğinde bölgeler arasında veya aynı bölge içerisinde bile büyük farklılıklar gösterdiği görülür.

Buna göre aşağıda verilenlerden hangisi bu dağılışta daha az etkilidir?

A) Yerşekilleri
B) Toprak verimliliği
C) Deprem riski
D) İklim koşulları
E) İş olanakları

MURAT YAYINLARI

/muratyayincilik

Açıklamalar • TEST 11

1. **E** Türkiye'de nüfus artış hızının azalması demografik (nüfus) yatırımları azaltırken diğer seçeneklerin gerçekleşmesine zemin hazırlayacaktır.

2. **D** Doğal afetler Türkiye'nin nüfus artış hızını diğer seçeneklerdeki durumlara göre daha az etkilemiştir.

3. **C** Soruda verilen illerden Balıkesir, Aydın, Muğla, Karabük'ün il merkezleri içerde bulunurken, İzmir kıyıda kurulmuştur.

4. **D** Soruda verilen mesleklerden çiftçi birincil ekonomik faaliyet diğerleri üçüncül ekonomik faaliyet kolunda çalışmaktadır.

5. **E** Parçalı tarım arazisi ve su kaynaklarının fazla olması Karadeniz'de dağınık yerleşmelerin görülmesinde etkili olmuştur.

6. **E** Soruda yaylacılık faaliyetleriyle ilgili verilen açıklamaların tümü doğrudur.

7. **C** Türkiye'de nüfus artış hızının en yüksek olduğu dönem ‰28,5 ile 1955-1960'tır.

8. **A** Şanlıurfa'nın nüfusunun artmasında iş olanaklarının etkisi diğer şehirlerden daha azdır. Şanlıurfa'nın nüfusunun artmasında doğum oranlarının yüksek olması daha fazla etkili olmuştur.

9. **E** Göç veren alanlarda aritmetik nüfus yoğunluğu azdır.

10. **D** Türkiye'de kentsel nüfus kırsal nüfusu 1985'ten sonra geçtiği için fark en az 1980-1985 dönemleri şeklinde olacaktır.

11. **E** Verilen şehirlerin gelişmesinde askeri fonksiyon etkili olmuştur.

12. **E** Aritmetik nüfus yoğunluğu km^2 ye düşen kişi sayısıdır ve nüfus artış hızının azalmasında etkili olmamıştır.

13. **A** Haritada I numara ile gösterilen Çukurova çevresinde çiftliklere yaygın şekilde rastlanır.

14. **B** Harita II numara ile gösterilen Nevşehir çevresinde tüf yapılara yaygın şekilde rastlanır.

15. **B** Haritada gösterilen şehirler önemli yol kavşaklarında bulunmalarından dolayı benzerlik gösterir.

16. **C** Kentsel dönüşüm göç sonunda oluşan bir sorun değildir. Aksine plansız kentleşme ve gecekondulaşma sorununun çözümüdür.

17. **D** Kırıkkale sanayiye bağlı olarak gelişmiştir. Özellikle Demir-çelik, Silah fabrikası ve Petrol rafinerisinin bulunması kentin gelişmesinde çok etkilidir. Ama diğer kentler tarıma bağlı olarak gelişmişlerdir.

18. **D** Türkiye'de 1927'de ilk sayım yapılmıştır. 1935'te ikinci sayım ve her beş yılda bir 1990 yılına kadar sayım yapılmıştır. 1997 yılı ve 2000 yılında yeni sayımlar yapılmıştır ve 2007'den sonra her yıl nüfus sayımı yapılmaktadır.

19. **E** Soruda verilen illerden Şırnak ve Bitlis'in birbirlerine idari sınırı bulunmaz.

20. **E** Haritada V numara ile gösterilen Doğu Karadeniz kıyıları yoğun nüfuslanmıştır.

21. **B** Seydişehir ve Soma'nın gelişmesinde sanayi faaliyetlerinin payı daha fazladır.

22. **C** Deprem riskinin fazla olduğu yerlerde örnek Marmara, Ege de nüfus fazla iken Doğu Anadolu da azdır.

MURAT YAYINLARI

Türkiye'de Nüfus ve Yerleşme - III
• TEST 12

1. I. Mahalle
II. Kom
III. Çiftlik
IV. Oba

Türkiye'de yukarıda verilen köyaltı yerleşme türlerinden hangileri süreklilere örnektir?

A) Yalnız I B) I ve III C) II ve III
D) II ve IV E) III ve IV

2. I. İlk sayım 1927'de yapılmıştır.
II. Nüfusun büyük kısmı tarım sektöründe çalışmaktadır.
III. Nüfusun yarısından fazlası okuma-yazma bilmektedir.

Türkiye'de Cumhuriyet döneminin ilk yıllarına ait nüfus özellikleriyle ilgili yukarıda verilen ifadelerden hangileri doğrudur?

A) Yalnız I B) Yalnız II C) Yalnız III
D) I ve II E) I, II ve III

3. **Türkiye'de sokağa çıkma yasağının uygulandığı son sayım aşağıdaki tarihlerden hangisinde yapılmıştır?**

A) 1985 B) 1990 C) 2000
D) 2002 E) 2010

4.

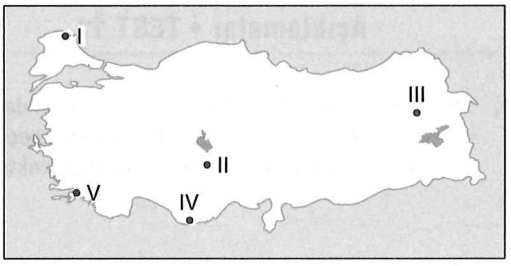

Yukarıdaki haritada Türkiye'de nüfus yoğunluğunun az olduğu bazı yerler gösterilmiştir.

Bunlardan hangisinde nüfusun az olma nedeni yanlış verilmiştir?

A) I'de yağışların fazla olması
B) II'de kuraklığın fazla olması
C) III'de iklimin sert olması
D) IV'de karstik yapının yaygın olması
E) V'de yer şekillerinin engebeli olması

5.

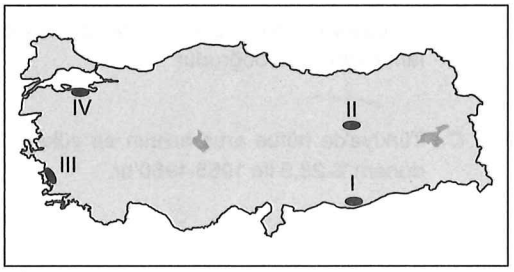

Haritada numaralarla gösterilen yerlerden hangilerinin daha fazla göç verdiği söylenir?

A) I ve II B) I ve III C) II ve III
D) II ve IV E) III ve IV

MURAT YAYINLARI

/muratyayincilik

6. **Aşağıdakilerden hangisi köyaltı yerleşmelerinin özelliklerinden biri değildir?**

A) Nüfusları köylerden daha azdır.
B) En yaygın görülen köyaltı yerleşmesi çiftliktir.
C) İdari yapılanmaları yoktur.
D) En önemli geçim kaynağı hayvancılıktır.
E) Su kaynaklarına yakın yerlerde kurulmuşlardır.

7. **Aşağıdaki şehirlerin hangisinin gelişmesinde dini fonksiyonların etkisi daha fazladır?**

A) Mardin
B) Tekirdağ
C) Aksaray
D) Manisa
E) Burdur

8.

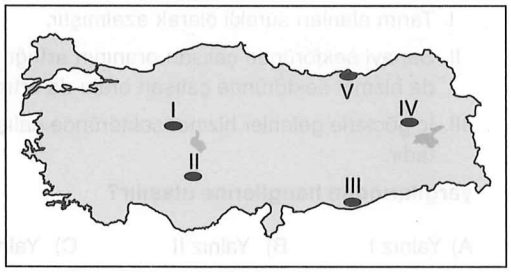

Haritada numaralarla gösterilen yerlerin hangisinin kırsal kesimlerinde kerpiç yapılara daha az rastlanır?

A) I B) II C) III D) IV E) V

9. • Göçebe hayat tarzına sahiptirler.
• Hayvancılık temel ekonomik faaliyet biçimidir.
• Konaklama yerleri çadırdan oluşmaktadır.

Önemli özellikleri verilen köyaltı yerleşme türü aşağıdakilerden hangisidir?

A) Mezra
B) Oba
C) Dalyan
D) Kom
E) Ağıl

10. **Türkiye'de yerleşmelerin sınırlanmasında;**

I. Yer şekilleri
II. Kuraklık
III. Karstik arazi

gibi faktörler etkilidir.

Buna göre yukarıda numaralandırılan faktörlerin daha çok etkili olduğu alanlar aşağıdakilerden hangisinde doğru verilmiştir?

	I	II	III
A)	Tuz Gölü Çevresi	Hakkari Yöresi	Teke Yöresi
B)	Hakkari Yöresi	Tuz Gölü Çevresi	Teke Yöresi
C)	Tuz Gölü Çevresi	Teke Yöresi	Hakkari Yöresi
D)	Hakkari Yöresi	Teke Yöresi	Tuz Gölü Çevresi
E)	Teke Yöresi	Hakkari Yöresi	Tuz Gölü Çevresi

11. Yeryüzü şekillerinin dağlık ve engebeli olduğu yerlerde tarımsal nüfus yoğunluğu fazladır.

Buna göre, aşağıdaki yerlerin hangisinde tarımsal nüfus yoğunluğunun fazla olduğu söylenir?

A) Karaman
B) Mardin
C) Bartın
D) Adıyaman
E) Uşak

MURAT YAYINLARI

12. Aşağıdaki haritada Türkiye'nin seyrek nüfuslu yerleri verilmiştir.

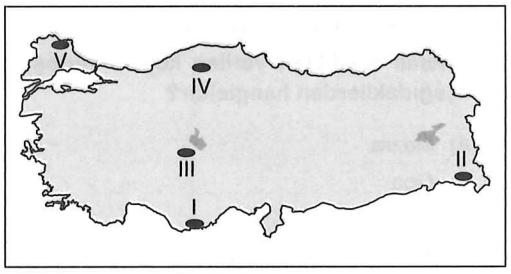

Buna göre, verilen yerlerin hangisinin seyrek nüfuslanmasında kayaçların olumsuz yapısı daha çok etkili olmuştur?

A) I B) II C) III D) IV E) V

13. **Türkiye'de kırsal yerleşmelerin dağınık veya toplu olmasında;**

I. Arazinin dağlık ya da düz olması
II. Eğitim seviyesinin yüksek ya da düşük olması
III. Toprakların verimli ya da verimsiz olması
IV. Su kaynaklarının kıt veya bol olması

gibi özelliklerden hangilerinin daha çok etkili olduğu söylenebilir?

A) Yalnız II B) I ve II C) I ve III
D) II ve IV E) I ve IV

14. **Aşağıdakilerden hangisinin kırsal kesimlerinde mezralara daha fazla rastlanır?**

A) Konya
B) Gelibolu
C) Şırnak
D) Trabzon
E) Ergene

15. I. Enlem değeri
II. İklim koşulları
III. Sanayi faaliyetleri
IV. Yağış rejimi

Türkiye nüfusunun dağılışında yukarıda verilenlerden hangilerinin etkisi daha fazladır?

A) I ve II B) I ve III C) II ve III
D) II ve IV E) III ve IV

16. Aşağıdaki tabloda, Türkiye'de çalışan nüfusun ekonomik faaliyet kollarına göre dağılışı verilmiştir.

Ekonomik Faaliyet Kolları	Yıllara göre çalışan nüfusun oranı (%)			
	1955	1975	1990	2013
Tarım	77.4	65.1	50.5	23.6
Sanayi	6.7	11.5	13.4	26.4
Hizmet	15.9	23.4	36.1	50

Yalnızca tabloya bakılarak,

I. Tarım alanları sürekli olarak azalmıştır.
II. Sanayi sektöründe çalışan oranının arttığı yıllarda hizmet sektöründe çalışan oranı da artmıştır.
III. İç göçlerle gelenler hizmet sektöründe çalışmaktadır.

yargılarından hangilerine ulaşılır?

A) Yalnız I B) Yalnız II C) Yalnız III
D) I ve II E) II ve III

MURAT YAYINLARI

/muratyayincilik

17.



Yukarıda nüfus artış oranı ile doğurganlık oranı grafikte gösterilen bir yöre için aşağıdakilerden hangisi söylenemez?

A) Dışarıdan göç alır.
B) İş olanakları fazladır.
C) Çalışan nüfus oranı fazladır.
D) Ortalama yaşam seviyesi yüksektir.
E) Doğal nüfus artışı yüksektir.

18. **Aşağıdakilerden hangisi büyükşehir statüsündeki illerden biri değildir?**

A) Mardin
B) Kastamonu
C) Tekirdağ
D) Van
E) Samsun

19. **Türkiye'de nüfusun dağılışı ile ilgili olarak aşağıda verilen ifadelerden hangisi yanlıştır?**

A) Tüm akarsu vadilerinde nüfus yoğunluğu fazladır.
B) Kuraklığın fazla olduğu yerler genelde seyrek nüfuslanmıştır.
C) Sanayi bölgelerinde nüfus yoğunluğu fazladır.
D) Engebeli alanlarda nüfus yoğunluğu azdır.
E) Verimli tarım alanlarının çevresi yoğun nüfuslanmıştır.

20.

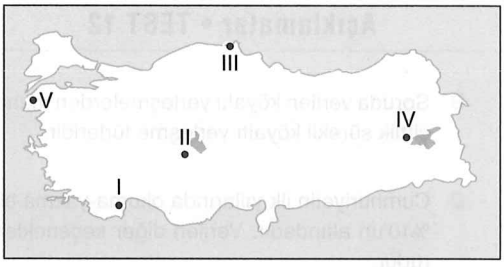

Yukarıdaki haritada işaretli yerlerin hangisinin az nüfuslanmasında;

- tarım alanlarının azlığı,
- karstik arazinin yaygınlığı,
- yer şekillerinin engebeli olması,
- yer üstü sularının yetersizliği

gibi faktörlerin hepsi birden etkili olmuştur?

A) I B) II C) III D) IV E) V

21. Kentlerin beşeri ve ekonomik özelliklerindeki değişmelere bağlı olarak sosyoekonomik yapılarında da önemli değişiklikler meydana gelir.

Buna göre aşağıda verilen kentlerin hangisinin zaman içinde yaşadığı sosyo ekonomik yapısındaki değişme daha fazladır?

A) Bayburt
B) Rize
C) Ankara
D) Artvin
E) Sivas

22. **Aşağıdakilerden hangisi, hızlı şehirleşmenin yaşandığı bölgede, ortaya çıkması beklenen durumlardan değildir?**

A) Düzensiz kentleşme
B) Konut sıkıntısının yaşanması
C) Eğitim ve sağlık sorunlarının atması
D) Alt yapı hizmetlerinin yetersiz kalması
E) Kişi başına düşen yeşil alan miktarının artması

MURAT YAYINLARI

Açıklamalar • TEST 12

1. B Soruda verilen köyaltı yerleşmelerden mahalle ve çiftlik sürekli köyaltı yerleşme türleridir.

2. D Cumhuriyetin ilk yıllarında okuma-yazma bilenler %10'un altındadır. Verilen diğer seçenekler doğrudur.

3. C Türkiye'de sokağa çıkma yasağının uygulandığı son sayım 2000 yılında yapılmıştır.

4. A I ile gösterilen yer Yıldız Dağları bölümüdür. Buranın az nüfuslanmasının nedeni yağış fazlalığı değil, engebeli olması ve ana yollara göre sapada kalmasıdır.

5. A Haritada I ve II numaralı yerler Doğu'da yer aldığı için daha fazla göç vermektedir.

6. B Türkiye'de en yaygın görülen köyaltı yerleşmesi çiftlik değil yayladır. Yaylacılık hemen hemen tüm bölgelerimizde görülmektedir.

7. A Soruda verilen şehirlerden Mardin'in gelişmesinde dini fonksiyonların etkisi daha fazladır.

8. E Haritada V numara ile gösterilen Doğu Karadeniz'de iklimin etkisinden kerpiç yapılar yerine ahşap yapılara yaygın şekilde rastlanır.

9. B Soruda özellikleri verilen köyaltı yerleşme türü obadır.

10. B Hakkari Yöresi'nde → yerşekilleri
Tuz Gölü çevresinde → kuraklık
Teke Yöresi'nde → karstik yapı yerleşmeyi sınırlandırmaktadır.

11. C Bartın dağlık ve engebeli yapıda olduğu için tarımsal nüfus yoğunluğu fazladır.

12. A Haritada I numara ile gösterilen Taşeli Platosu karstik kayaçlar yaygın olduğu için seyrek nüfuslanmıştır.

13. E Su kaynaklarının az veya fazla olması ile yer şekillerinin engebeli veya düz olması kırsal yerleşme tiplerini etkilemektedir. Karadeniz'de yerşekilleri engebeli, su kaynakları bol olduğu için dağınık yerleşme görülürken, İç Anadoluda yerşekilleri düz, su kaynakları az olduğu için toplu yerleşmeler görülmektedir.

14. C Soruda verilen illerden Şırnak Doğu'da olduğu için kırsal kesimlerinde mezralara daha fazla rastlanır.

15. C Türkiye'de nüfusun dağılışında verilenler içerisinde iklim koşulları ve sanayi faaliyetlerinin etkisi daha fazladır.

16. B Tablodan sadece sanayi sektöründe çalışanların arttığı yıllarda hizmet sektöründe çalışanların oranının arttığı görülmektedir.

17. E Bir yerde nüfus artış hızı doğum oranından yüksekse orası göç alır. Göç alan bir yerde B, C ve D seçeneklerinde verilen durumlar görülür. Doğal nüfus artışının yüksek olması doğum oranının yüksek olmasını ifade eder. Grafikte doğum oranı düşük gösterilmiştir.

18. B Soruda verilen illerden Kastamonu büyükşehir statüsünde değildir, diğerleri ise büyükşehir belediyeleridir.

19. A Bütün akarsu vadilerinde nüfus yoğunluğu fazla değildir. Aras, Kura, Zap Suyu gibi.

20. A Haritada I. ile işaretli Teke Yöresi'nin az nüfuslanmasında; karstik yapı, yer şekillerinin engebeli, tarım alanlarının ve yer üstü sularının az olması gibi faktörler birlikte etkili olmuştur.

21. C Ankara başkent olması nedeniyle nüfusu, ekonomik yapısı sosyoekonomik yapısındada önemli değişikliklere yol açmıştır.

22. E Plansız yapılaşmanın olduğu kentlerde yeşil alanlar azalır.

MURAT YAYINLARI

/muratyayincilik

Türkiye'de Nüfus ve Yerleşme - IV
• TEST 13

1.

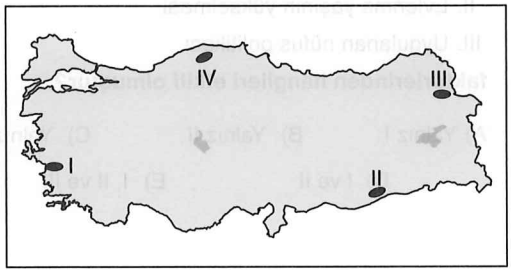

Haritada numaralarla gösterilen yerlerin hangilerinde mezralara daha fazla rastlanır?

A) I ve II B) I ve III C) II ve III
D) II ve IV E) III ve IV

2. I. Günümüzde Dejure sayım yöntemi uygulanmaktadır.
II. Cumhuriyet'in ilk nüfus sayımı 1927'de yapılmıştır.
III. 2000 yılında Defacto sayım yöntemi son kez uygulanmıştır.

Türkiye'de nüfus sayımına ilişkin yukarıda verilen özelliklerden hangileri doğrudur?

A) Yalnız I B) Yalnız II C) Yalnız III
D) I ve II E) I, II ve III

3. Türkiye'de Cumhuriyet tarihi boyunca farklı nüfus politikaları uygulanmıştır.

Buna göre, Cumhuriyet tarihinde nüfus artış hızını azaltıcı politika ilk kez aşağıdaki dönemlerden hangisinde uygulanmıştır?

A) 1940-1945 B) 1950-1955
C) 1955-1960 D) 1960-1965
E) 2005-2010

4. **Aşağıdaki illerden hangisinin gelişmesinde sanayi faaliyetlerinin etkisi daha azdır?**

A) Bursa
B) Manisa
C) Gaziantep
D) Kırıkkale
E) Nevşehir

5.

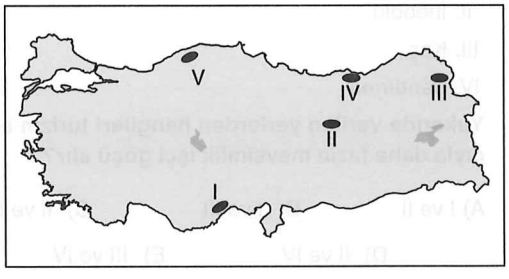

Haritada numaralarla gösterilen yerlerin hangisinde yaylacılık faaliyetleri daha çok serinlemek amacıyla yapılır?

A) I B) II C) III D) IV E) V

6. I. Nüfusun yarısından fazlası hizmet sektöründe çalışmaktadır.
II. Sanayi sektöründe çalışanların oranı tarımdan fazladır.
III. Tarım sektöründe çalışanların oranı azalma eğilimindedir.

Türkiye'de nüfusun sektörel yapısıyla ilgili olarak yukarıda verilen özelliklerden hangileri doğrudur?

A) Yalnız I B) Yalnız II C) Yalnız III
D) I ve II E) I, II ve III

MURAT YAYINLARI

7. İç Anadolu Bölgesi'nin kırsal kesimlerinde nüfus daha çok dağ eteklerinde toplanmıştır.

Bu durumun ortaya çıkmasında aşağıdakilerden hangisinin payı daha fazladır?

A) Su kaynaklarının fazla olması
B) Tahıl tarımının yaygın olması
C) Bitki örtüsünün gür olması
D) Makine kullanımına uygun olanların fazla olması
E) Sıcaklık şartlarının uygun olması

8. I. Edremit
II. İnebolu
III. Kaş
IV. Bandırma

Yukarıda verilen yerlerden hangileri turizm amacıyla daha fazla mevsimlik işçi göçü alır?

A) I ve II B) I ve III C) II ve III
D) II ve IV E) III ve IV

9. **Aşağıda verilen şehirlerin hangisinin gelişmesinde madencilik faaliyetlerinin etkisi daha fazladır?**

A) Nazilli
B) Amasra
C) Elbistan
D) Erzincan
E) Ordu

10. 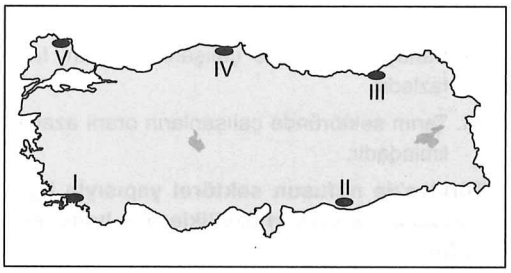

Haritada numaralarla gösterilen yerlerin hangisinde tarımsal nüfus yoğunluğu daha azdır?

A) I B) II C) III D) IV E) V

11. **Türkiye'de nüfus artış hızının son dönemlerde azalma göstermesinde,**

I. Eğitim seviyesinin yükselmesi
II. Evlenme yaşının yükselmesi
III. Uygulanan nüfus politikası

faktörlerinden hangileri etkili olmuştur?

A) Yalnız I B) Yalnız II C) Yalnız III
D) I ve II E) I, II ve III

12. **Türkiye'de kırdan kente yaşanan göç hareketlerinde aşağıdakilerden hangisinin etkisi daha azdır?**

A) Makineleşmenin yaygınlaşması
B) Hızlı nüfus artışı
C) Sosyal hizmetlerin yetersiz olması
D) Bitki örtüsünün seyrek olması
E) Alt yapı sorunlarının varlığı

13. I. Ev sayıları köylerden daha azdır.
II. Tarım ve hayvancılık temel geçim kaynağıdır.
III. Su kaynaklarına yakın alanlarda kurulmuşlardır.

Türkiye'de yaygın olan köyaltı yerleşmelere ilişkin yukarıda verilenlerden hangileri doğrudur?

A) Yalnız I B) Yalnız II C) Yalnız III
D) I ve III E) I, II ve III

14. I. Konya
II. Malatya
III. Mardin
IV. Antalya

Yukarıda verilen yerlerin hangilerinin kırsal kesimlerinde taş yapılara daha fazla rastlanır?

A) I ve II B) I ve III C) II ve III
D) II ve IV E) III ve IV

MURAT YAYINLARI

/muratyayincilik

15. 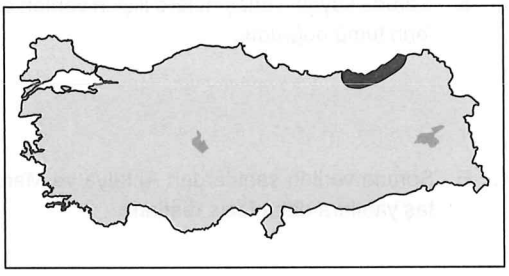

Haritada taranarak gösterilen yerin kırsal kesim yerleşmeleriyle ilgili,

I. Ahşap yapılar yaygındır.
II. Yaylacılık faaliyetleri yoğun şekilde yapılmaktadır.
III. Serender tipi yerleşmeler bulunmaktadır.

özelliklerinden hangilerinin doğru olduğu söylenir?

A) Yalnız I B) Yalnız II C) Yalnız III
D) I ve II E) I, II ve III

16. Aşağıda şehirlerin gelişmesinde etkili olan fonksiyonlar verilmiştir.

- Tarım
- Turizm
- Sanayi
- Eğitim

Buna göre, verilen fonksiyonlar aşağıdakilerden hangisiyle eşleştirilemez?

A) Eskişehir
B) Antalya
C) Adana
D) Kocaeli
E) Bayburt

17. Türkiye'de tarımda çalışanların oranı Cumhuriyet'in ilk yıllarında %90 seviyelerindeyken günümüzde %16'ya gerilemiştir.

Bu durum,

I. Sanayi alanındaki gelişmeler
II. Teknolojinin gelişmesi
III. Tarımsal ihracatın azalması

faktörlerinden hangileriyle açıklanır?

A) Yalnız I B) Yalnız II C) I ve II
D) II ve III E) I, II ve III

18. **Türkiye'de yerleşmelerin dağılışında aşağıdakilerden hangisinin etkisi daha azdır?**

A) Bakı
B) Su kaynakları
C) İklim şartları
D) Yerşekilleri
E) Yüzölçüm büyüklüğü

19. I. Batı Karadeniz'de yaygın şekilde görülürler.
II. Sürekli oturulan köyaltı yerleşme türüdür.
III. Daha çok birkaç evden oluşmaktadır.

Türkiye'de görülen divanlarla ilgili yukarıda verilen özelliklerden hangileri doğrudur?

A) Yalnız I B) Yalnız II C) I ve II
D) II ve III E) I, II ve III

20. İstanbul'da km²'ye 2976 kişi düşmektedir. Bu yönüyle Dünya'nın yoğun nüfuslu şehirleri arasındadır.

Buna göre, İstanbul'da yoğunluğun fazla olmasında,

I. Sanayi kuruluşlarının yaygın olması
II. Turizm varlıkları
III. Bulunduğu enlem değeri

faktörlerinden hangileri etkili olmuştur?

A) Yalnız I B) Yalnız II C) Yalnız III
D) I ve II E) I, II ve III

21. Haritada seyrek nüfuslu yerler taranarak gösterilmiştir.

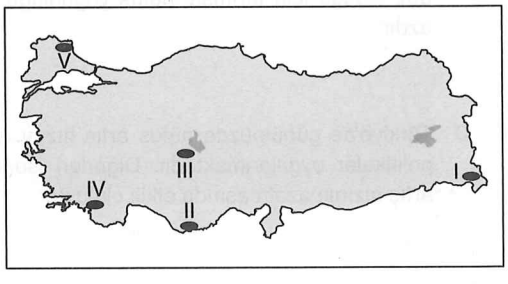

Buna göre, haritada verilen yerlerden hangisinin seyrek nüfuslanmasının temel nedeni diğerlerinden farklıdır?

A) I B) II C) III D) IV E) V

MURAT YAYINLARI

Açıklamalar • TEST 13

1. C Türkiye'de mezralar Doğu ve Güneydoğu Anadolu Bölgelerinde yaygın şekilde görülmektedir.

2. E Türkiye'de nüfus sayımına ilişkin verilen özelliklerin tümü doğrudur.

3. D Türkiye'de nüfus artış hızını azaltıcı ilk politika 1960-1965 döneminde uygulanmıştır.

4. E Nevşehir'in gelişmesinde turizmin payı daha fazladır. Diğer şehirlerde ise sanayi faktörü daha fazladır.

5. A Haritada I numara ile gösterilen Orta Toroslar çevresi Akdeniz ikliminin etkisinden insanların genelde serinlemek için yaylaya çıktığı yerlerdir.

6. E Türkiye'de nüfusun sektörel yapısıyla ilgili verilenlerin tümü doğrudur.

7. A İç Anadolu Bölgesi'nin kırsal kesimlerinde nüfusun dağ eteklerinde toplanması su kaynaklarının fazla olmasıyla açıklanır.

8. B Soruda verilen şehirlerden Edremit ve Kaş turizm amacıyla daha fazla mevsimlik işçi göçü almaktadır.

9. C Elbistan'ın gelişmesinde linyite bağlı madencilik faaliyetleri etkili olmuştur.

10. B Harita II numara ile gösterilen Şanlıurfa çevresi düz olduğu için tarımsal nüfus yoğunluğu daha azdır.

11. D Türkiye'de günümüzde nüfus artış hızını artırıcı politikalar uygulanmaktadır. Diğerleri ise nüfus artış hızının azalmasında etkili olmuştur.

12. D Bitki örtüsünün seyrek olması Türkiye'de kırdan kente yaşanan göç hareketlerinde daha az etkili olmuştur.

13. E Soruda köyaltı yerleşmelere ilişkin verilen özelliklerin tümü doğrudur.

14. E Soruda verilen şehirlerden Antalya ve Mardin'de taş yapılara daha fazla rastlanır.

15. E Haritada taranarak gösterilen Doğu Karadeniz için verilen özelliklerin tümü doğrudur.

16. E Soruda verilen şehirlerden
Tarım → Adana
Turizm → Antalya
Sanayi → Kocaeli
Eğitim → Eskişehir
şeklinde eşleştirilir. Bayburt için bir fonksiyon verilmemiştir.

17. C Türkiye'de tarımda çalışanların oranının düşmesinde sanayi faaliyetlerinin yaygınlaşması ve teknolojik gelişmeler etkili olmuştur. Tarımsal ihracat ise çoğunlukla artmıştır.

18. E Yüzölçüm büyüklükleri Türkiye'de yerleşmeler üzerinde belirleyici bir etkiye sahip değildir.

19. C Divanlarda ev sayıları 20'nin üzerindedir. Birkaç mahalle birleşip divanı oluşturabilir. Verilen diğer özellikler divanlar için doğru özelliklerdir.

20. D İstanbul'da nüfus yoğunluğunun fazla olmasında sanayi ve turizmin büyük etkisi bulunurken, bulunduğu enlem değeri etkili olmamıştır.

21. C Haritada I, II, IV ve V numaralı yerler yerşekillerinden III numaralı yer ise kuraklıktan seyrek nüfuslanmıştır.

MURAT YAYINLARI

/muratyayincilik

Türkiye'de Tarım ve Hayvancılık- I • TEST 14

1. Türkiye tarımında uygulanan yöntemlerin değişmesinden ve tarımda modernleşmenin gerçekleşmesinden sonra aşağıda verilen ürün gruplarından hangisinin en fazla yetiştiği bölgelerde değişiklik olmuştur?

A) İncir - Muz - Çay
B) Mısır - Pamuk - Soya fasulyesi
C) Kayısı - Turunçgil - Ayçiçeği
D) Fındık - Ayçiçeği - Çay
E) Tütün - Pamuk - Muz

2. Türkiye ortalama yükseltisi 1132 m olan yüksek bir ülkedir. Bu durum, Türkiye'de ekonomik faaliyetler üzerinde önemli etkiler yapmıştır.

Aşağıdakilerden hangisi bu durumun ortaya çıkardığı etkilerden biri değildir?

A) Doğu Anadolu'da meyve ve sebze tarımının gelişememesi
B) Akdeniz ve Karadeniz Bölgeleri'nde tarım alanlarının az olması
C) Doğu Anadolu'da buğday hasadının İç Anadolu'dan sonra olması
D) Doğu Karadeniz'de tarımda makine kullanımının zor olması
E) Marmara Bölgesi'nde zeytinciliğin 300 m'den sonra yapılmaması

3. Türkiye'de verimli tarım alanlarının her yıl daha da azalmasında;

I. Tarım arazileri üzerinde fabrika kurulması,
II. Nüfusun yoğun olduğu yerlerde plansız kentleşme,
III. Tarım alanlarında erozyonun fazla olması rol oynamaktadır.

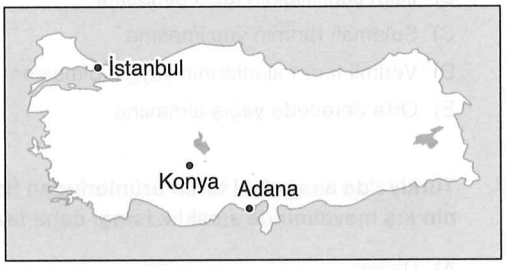

Buna göre, haritada verilen yörelerde verimli tarım alanlarının azalmasında I, II ve III etkenlerinden hangisinin en çok etkili olduğu söylenebilir?

	İstanbul	Konya	Adana
A)	II	II	I
B)	II	III	I
C)	I	III	II
D)	I	II	III
E)	III	I	II

4. Türkiye'de hayvancılıkla ilgili olarak aşağıdaki yargılardan hangisi yanlıştır?

A) Mera hayvancılığında verim daha yüksektir.
B) Doğal bitki örtüsü aracılığa uygundur.
C) Kümes hayvancılığı büyük kent merkezlerinin çevresinde yaygındır.
D) Erzurum-Kars Bölümü'nde büyükbaş hayvancılık gelişmiştir.
E) Kıl keçisi Akdeniz Bölgesi'nde daha çok yetiştirilir.

5. Aşağıdakilerin hangisinde Türkiye'deki iklim koşullarının tarıma olan etkisi daha azdır?

A) Akdeniz Bölgesi'nde seracılığın gelişmesi
B) Muz ve turunçgillerin Akdeniz Bölgesi'nde yetiştirilmesi
C) Doğu Karadeniz'de tarımda makineleşmenin az olması
D) Ege Bölgesi'nde tahılların İç Anadolu'dan erken olgunlaşması
E) Erzurum-Kars Bölümü'nde meyve ve sebzeciliğin gelişmemesi

MURAT YAYINLARI

6. Türkiye tarımsal ürün çeşitliliği bakımından Dünya'nın önde gelen ülkelerinden biridir.

Bu ürün çeşitliliği daha çok aşağıdakilerden hangisine bağlanabilir?

A) Tarıma önem verilmesine
B) İklim çeşitliliğinin fazla olmasına
C) Sulamalı tarımın yapılmasına
D) Verimli tarım alanlarının yaygın olmasına
E) Orta derecede yağış almasına

7. **Türkiye'de aşağıdaki tarım ürünlerinden hangisinin kış mevsiminde sıcaklık isteği daha fazladır?**

A) Üzüm
B) Kayısı
C) İncir
D) Çavdar
E) Anason

8. Türkiye'de nadas alanlarının oranı giderek azalmaktadır.

Bu durumun ortaya çıkmasında aşağıdakilerden hangisi etkili olmuştur?

A) Makineli tarımın yaygınlaşmasına
B) Sulama yapılan alanların artmasına
C) Tarım alanlarının genişletilmesine
D) Tarımı destekleyen kuruluşların artmasına
E) Kaliteli tohumların kullanılmasına

9. **Aşağıdaki illerden hangisinin toplam tarım arazisi daha fazladır?**

A) İzmir
B) Mersin
C) Şanlıurfa
D) Adana
E) Muğla

10. **Aşağıdaki tarım ürünlerinden hangisinin üretiminin yoğunlaştığı yer yanlış eşleştirilmiştir?**

A) Mısır-Konya
B) Pirinç-Edirne
C) Elma-Isparta
D) Kenevir-İzmir
E) Kivi-Yalova

11.

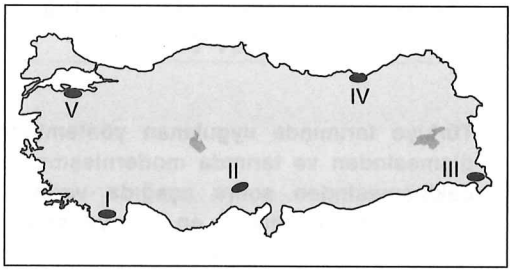

Haritada taranarak gösterilen yerlerin yerşekilleri dikkate alındığında hangisinde tarımda makine kullanımı daha fazladır?

A) I B) II C) III D) IV E) V

12. Çiftçiyi olumsuz piyasa koşullarından korumak amacıyla devlet destekleme alımları yapar.

Aşağıdaki ürünlerden hangisi bu alımların dışında kalır?

A) Buğday
B) Tütün
C) Haşhaş
D) Elma
E) Şekerpancarı

13. Türkiye'de seracılık Antalya, Mersin, İzmir, Muğla gibi illerde gelişmiştir.

Bu durum

I. Kış ılıklığının yüksek olması
II. Güneşli gün sayısının fazla olması
III. Sulama imkânlarının fazla olması

faktörlerinden hangileriyle açıklanır?

A) Yalnız I B) Yalnız II C) Yalnız III
D) I ve II E) I, II ve III

MURAT YAYINLARI

/muratyayincilik

14. • Çay
• Muz
• Fındık

Verilen tarım ürünlerinin ortak özelliği aşağıdakilerden hangisidir?

A) Üretimlerinin devlet kontrolünde olması
B) Yağış isteklerinin fazla olması
C) Tek bir bölgede üretilmeleri
D) Yaz kuraklığı istemeleri
E) Üretim alanlarının dar olması

15. Türkiye kayısı üretiminde Dünya'da ön sıralarda yer almaktadır.

Buna göre, aşağıdakilerden hangisi önemli kayısı üretim merkezlerinden biri değildir?

A) Mersin
B) Çanakkale
C) Malatya
D) Iğdır
E) Elazığ

16. Karadeniz'de 200 metrenin altında balıkçılık yapılmamaktadır.

Bu durumun temel nedeni aşağıdakilerden hangisidir?

A) Güneş ışınlarının derinlere ulaşamaması
B) Dip dalgalarının kuvvetli olması
C) Zehirli gazların varlığı
D) Derinliğin fazla olması
E) Teknolojik yetersizlikler

17.

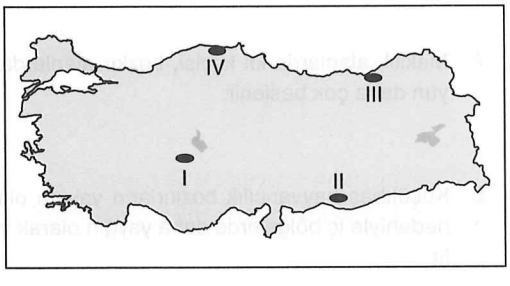

Haritada numaralarla gösterilen yerlerin hangilerinde koyun yetiştiriciliği için uygun alanlar daha azdır?

A) I ve II B) I ve III C) II ve III
D) II ve IV E) III ve IV

18. Bitki örtüsü ile bölgede yapılan hayvancılık türü arasında yakın bir ilişki vardır.

I. Maki - Kıl Keçisi
II. Bozkır - Koyun
III. Çayır - İpek Böceği
IV. Orman - Sığır

Yukarıda verilen doğal bitki örtüsü ve hayvancılık türü eşleştirmelerinden hangilerinin doğru olduğu söylenebilir?

A) I ve II B) I ve IV C) II ve III
D) II ve IV E) III ve IV

19. **Türkiye'deki küçükbaş hayvancılık faaliyetleri ile ilgili aşağıdakilerden hangisi yanlıştır?**

A) Çevrelerinde yünlü dokumacılık gelişmiştir.
B) Daha çok mera hayvancılığı şeklinde yapılır.
C) Bozkır alanlarda yaygındır.
D) Verimi büyükbaş hayvancılığa göre düşüktür.
E) Kıyı bölgelerinde daha yaygın olarak yapılır.

20. **Türkiye toplam üretiminde aşağıdaki tarım ürünlerinden hangisinin payı daha azdır?**

A) Pamuk
B) Tütün
C) Kivi
D) Şekerpancarı
E) Buğday

MURAT YAYINLARI

Açıklamalar • TEST 14

1. **B** Mısır: İlk önce en fazla Karadenizde yetişirken şimdi Akdeniz ve Güneydoğu Anadolu'da
Pamuk: İlk olarak en fazla Akdenizde yetiştirilirken bugün Güneydoğu Anadoluda
Soya fasulyesi: İlk Karadenizde en çok yetiştirilirken bugün Akdeniz'de yetiştirilmektedir.

2. **E** Marmara'da zeytinciliğin 300 m'den sonra yapılmamasının nedeni; enlemdir. Enlem nedeniyle Akdeniz ikliminin etkisi yüksek kesimlere çıkamamaktadır.

3. **B** I. Tarım arazisi üzerinde fabrika kurulması (Adana)
II. Nüfus yoğun olduğu yerlerde plansız kentleşme (istanbul)
III. Tarım alanlarında şiddetli erozyon (Konya)
tarım alanlarını her yıl azaltmaktadır.

4. **A** Besi ve ahır hayvancılığında verim, mera hayvancılığından daha yüksektir.

5. **C** Doğu Karadeniz dağlık ve engebeli bir bölüm olduğu için tarımda makine kullanımı yaygın değildir.

6. **B** Türkiye'de farklı iklimlerin görülmesi, farklı tarım ürünlerinin yetişmesini sağlamıştır. Böylece ürün çeşitliliği artmıştır.

7. **C** Türkiye'de üretilen ürünlerden incirin kış ılıklığı isteği daha fazladır.

8. **B** Nadas uygulamasının yapılmasının nedeni; toprağın nem miktarını arttırmaktır. Sulama olanaklarının artması nadas uygulamalarını azaltacaktır.

9. **C** Türkiye'de toplam tarım arazisi en fazla olan ilk beş il; Konya, Ankara, Şanlıurfa, Sivas ve Yozgat'tır. Verilen seçeneklere göre Şanlıurfa doğru cevap olacaktır.

10. **D** Kenevir üretiminin tamamı Samsun'da gerçekleştirilmektedir.

11. **E** Haritada V numara ile gösterilen Balıkesir'de araziler düz olduğundan makine kullanımı fazladır.

12. **D** Elma Türkiye'de devlet tarafından destekleme alımının yapılmadığı bir üründür.

13. **E** Sözü edilen illerde seracılığın gelişmesinde verilen faktörlerin tümü etkili olmuştur.

14. **E** Soruda verilen tarım ürünlerinin ortak özelliği üretim alanlarının dar olmasıdır.

15. **B** Mersin, Malatya, Iğdır, Elazığ, Kahramanmaraş önemli kayısı üretim merkezleri iken Çanakkale için doğru bir tespit olmaz.

16. **C** Karadeniz'de 200 metrenin altında zehirli kükürtlü hidrojen gazının varlığı balıkçılık yapılmasını engellemiştir.

17. **E** Harita III ve IV numara ile gösterilen Karadeniz'de çayırlar fazla olduğu için koyun yerine büyükbaş mera hayvancılığı önem kazanmıştır.

18. **A** Makilik alanlarda kıl keçisi, bozkır alanlarda koyun daha çok beslenir.

19. **E** Küçükbaş hayvancılık bozkırların yaygın olması nedeniyle iç bölgelerde daha yaygın olarak yapılır.

20. **C** Türkiye toplam üretiminde kivinin payı diğerlerine göre daha azdır. Belirli kısmı ithal edilmektedir.

MURAT YAYINLARI

/muratyayincilik

Türkiye'de Tarım ve Hayvancılık- II • TEST 15

1. **Aşağıdakilerden hangisi Türkiye'de tarımın sorunlarını çözmek için alınacak önlemlerden değildir?**

A) Erozyonu azaltmak
B) Sulanan alanları genişletmek
C) Toprak reformu yapmak
D) Otlakları tarla haline dönüştürmek
E) Makineli tarıma geçmek

2. **Karadeniz kıyılarında sebze üretiminin az olmasının en önemli nedeni aşağıdakilerden hangisidir?**

A) Tarım alanlarının sınırlı olması
B) Sulamanın yetersiz olması
C) Bulutlu gün sayısının fazla olması
D) Kışların sert geçmesi
E) Sebzelerin ekonomik değerinin az olması

3. I. Kümes hayvancılığı
II. Mera hayvancılığı
III. Arıcılık
IV. İpek böcekçiliği

Türkiye'de yukarıdaki hayvancılık faaliyetlerinden hangileri mevsimlik yer değiştirme şeklinde yapılmaktadır?

A) I ve II B) I ve III C) II ve III
D) II ve IV E) III ve IV

4. I. Üretimi bütün bölgelerde yapılmaktadır.
II. Sanayi ürünü şeklinde de kullanılmaktadır.
III. Isparta, Karaman, Niğde önemli üretim alanlarıdır.

Türkiye'de elma tarımıyla ilgili yukarıda verilen ifadelerden hangileri doğrudur?

A) Yalnız I B) Yalnız II C) Yalnız III
D) I ve II E) I, II ve III

5. **Türkiye'de en çok yetiştirilen ve ekilen ürünün buğday olmasında;**

I. İklim koşullarının uygun olması
II. Ekonomik değerinin yüksek olması
III. Temel besin maddesi olması
IV. İhraç ürünü olması

gibi etmenlerden hangi ikisi daha çok etkilidir?

A) I ve II B) I ve III C) II ve III
D) II ve IV E) III ve IV

6.

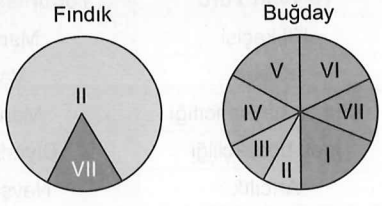

Buğday ve fındık ürünlerinin ekim alanlarının coğrafi bölgelerimize dağılışı yukarıdaki grafiklerde verilmiştir.

Bu ürünlerle ilgili aşağıdaki yargılardan hangilerine ulaşılamaz?

A) Buğday Türkiye koşullarına daha iyi uyum sağlamıştır.
B) Buğdayın ihracat gelirleri daha fazladır.
C) Fındık ile buğdayın iklim istekleri birbirine uymaz.
D) Fındığın en fazla yetiştirildiği alanın buğday üretim payı azdır.
E) Fındığın iklim seçiciliği daha fazladır.

MURAT YAYINLARI

7.

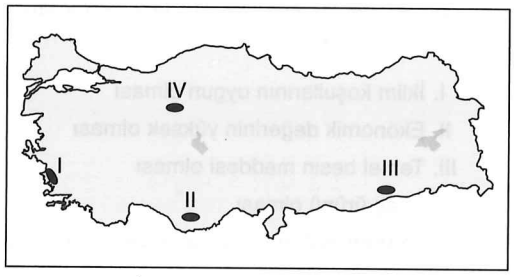

Haritada numaralarla gösterilen yerlerin hangilerinde tiftik keçisi yetiştiriciliği daha fazla yapılmaktadır?

A) I ve II B) I ve III C) II ve III
D) II ve IV E) III ve IV

8. Aşağıdaki tabloda hayvancılık-yer eşleştirmesi yapılmıştır.

Hayvan Türü	Yoğunlaştığı Yer
Kıl keçisi	Mersin
Koyun	Van
Kümes hayvancılığı	Manisa
İpek böcekçiliği	Diyarbakır
Arıcılık	Nevşehir

Buna göre, hangi hayvancılık türü yoğunlaşmadığı bir yer ile eşleştirilmiştir?

A) Kıl keçisi
B) Koyun
C) Kümes hayvancılığı
D) İpek böcekçiliği
E) Arıcılık

9. **Aşağıdakilerden hangisi Türkiye'nin önemli pirinç üretim merkezlerinden biri değildir?**

A) Kastamonu
B) Edirne
C) Balıkesir
D) Çorum
E) Ağrı

10. Türkiye'de son yıllarda mısır üretimi artmıştır.

Aşağıdaki illerden hangisi önemli mısır üretim merkezlerinden biri değildir?

A) Konya
B) Isparta
C) Adana
D) Şanlıurfa
E) Mardin

11. Türkiye'de buğday üretiminin yıldan yıla artmasına karşın buğday ihracatında giderek azalma olmaktadır.

Bunun en önemli nedeni aşağıdakilerden hangisidir?

A) Ekim alanlarının daralması
B) Dış talebin azalması
C) Buğday kalitesinin bozulması
D) Nüfusun hızlı artması
E) Unlu mamüller sanayinin gelişmesi

12.
- Soğuk kış şartlarına dayanıklıdır.
- Yağ bitkisidir.
- Üretimine Cumhuriyet'ten sonra başlanmıştır.
- Edirne, Tekirdağ, Konya önemli üretim alanlarıdır.

Önemli özellikleri verilen tarım ürünü aşağıdakilerden hangisidir?

A) Kivi
B) Zeytin
C) Ayçiçeği
D) Aspir
E) Mısır

13. Türkiye'de büyük çiftlikler oldukça az, buna karşın küçük tarım işletmeleri oldukça fazladır.

Aşağıdakilerden hangisi bunun nedenleri arasında yer almaz?

A) Türkiye'de eğimli arazilerin geniş yer tutması
B) Kırsal kesimde hızlı nüfus artışı
C) Toprakların miras yoluyla fazla parçalanmış olması
D) Çiftçilerin geniş topraklar alacak alım gücüne sahip olmaması
E) Büyük toprakları işleyecek araç-gereçlerin yeterince üretilmemesi

MURAT YAYINLARI

/muratyayincilik

14. Tarımda makineleşme tarımsal verim üzerinde etkilidir. Türkiye'de son yıllarda tarımda makineleşme artmasına karşın Doğu Karadeniz gibi bazı alanlarda tarımda makineleşme gelişmemektedir.

Bu durumun en önemli nedeni aşağıdakilerin hangisinde verilmiştir?

A) İş gücünün fazla ve ucuz olması
B) Makine fiyatlarının yüksek olması
C) Tarım alanlarının engebeli alanlarda bulunması
D) Yetiştirilen ürünlerin el emeğine dayalı olması
E) Yağış miktarının fazla olması

15. **Türkiye bal üretiminde aşağıdakilerden hangisinin payı daha azdır?**

A) Ordu
B) Muğla
C) Adana
D) Sivas
E) Bilecik

16. **Türkiye'deki tarımsal faaliyetlerle ilgili aşağıda verilen bilgilerden hangisi yanlıştır?**

A) Yerleşim alanlarının yakınlarında pirinç üretimi yasaklanmıştır.
B) Mısır ekim alanlarının genişlemesinin nedeni sanayi bitkisi olarak kullanımının yaygınlaşmasıdır.
C) Tahıl tarımının yapıldığı bir yerde sebze tarımının yapılabilmesi tarım alanlarının genişlediğini gösterir.
D) İklim seçiciliği olmayan üzüm ve elma Türkiye'nin her bölgesinde yetiştirilir.
E) Nem ihtiyacı az olduğundan mercimek tarımı iç bölgelerde yoğunlaşmıştır.

17. I. Tütün
II. Kenevir
III. Aspir
IV. Kanola

Türkiye'de yukarıda verilen tarım ürünlerinden hangilerinin üretimi devlet kontrolünde değildir?

A) Yalnız II B) I ve II C) II ve III
D) II ve IV E) III ve IV

18.

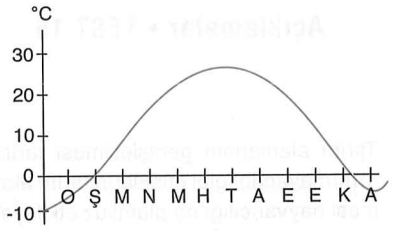

Yukarıdaki grafikte Türkiye'de bir yörenin aylık sıcaklık ortalaması gösterilmiştir.

Bu grafiğin ait olduğu iklimde aşağıdaki tarım ürünlerinden hangisinin yetişmesi beklenemez?

A) Turunçgil B) Elma
C) Şekerpancarı D) Buğday
E) Üzüm

19. Konya Türkiye'nin önemli tarım üretim merkezlerindendir.

Buna göre, Konya'da

I. Buğday
II. Mısır
III. Susam
IV. Soya fasulyesi

tarım ürünlerinden hangilerinin üretimi daha fazla yapılmaktadır?

A) I ve II B) I ve III C) I ve IV
D) II ve III E) III ve IV

20. Üç tarafı denizlerle çevrili olan yurdumuzda bazı balık türleri, büyük sürüler halinde mevsimden mevsime, denizden denize göç ederler. Bunların göç alanları kışın yüzeyi donan ve tuzluluk oranı ‰ 10'un altında olan Karadeniz'in kuzeyinde yer alan Azak Denizi ile dört kat daha tuzlu ve ılık olan Akdeniz arasındadır.

Yukarıdaki açıklamalara göre, göçmen balıkların avlanmasında en uygun yer aşağıdakilerden hangisidir?

A) Boğazlar
B) Ege kıyıları
C) Batı Akdeniz kıyıları
D) Doğu Akdeniz
E) Doğu Karadeniz kıyıları

MURAT YAYINLARI

Açıklamalar • TEST 15

1. D Tarım alanlarının genişletilmesi tarımsal verimi arttırmayacağı gibi otlakların tarım alanına çevrilmesi hayvancılığı da olumsuz etkileyecektir.

2. C Karadeniz kıyılarında bulutluluğun fazla olması sebze-meyve yetiştirilmesi için uygun değildir. Tarım ürünlerinin olgunlaşması için gerekli olan güneşli gün sayısı azdır.

3. C Mera hayvancılığı ve arıcılık mevsimlik yer değiştirmeyle yapılmaktadır.

4. E Soruda elma ile ilgili verilen özelliklerin tümü doğrudur.

5. B Buğday, karasal iklim koşullarına uygun bir bitkidir. Türkiye'de karasal iklim alanının geniş olması ve temel besin kaynağımız olması sebebiyle buğday çok yetiştirilmektedir.

6. B Grafikte ihracatla ilgili hiçbir bilgi bulunmadığı için ihracat gelirleri ile ilgili yorum yapılamaz.

7. E Haritada III numaralı Siirt, Mardin ve IV numaralı Ankara çevresinde tiftik keçisi yetiştiriciliği yoğun şekilde yapılmaktadır.

8. E Nevşehir bitki örtüsü anlamında zayıf olduğundan arıcılık faaliyetleri fazla gelişmemiştir.

9. E Soruda verilen illerden Ağrı önemli pirinç üretim merkezlerinden biri değildir.

10. B Soruda verilen illerden Isparta önemli mısır üretim merkezi değildir.

11. D Temel besin kaynağının buğday olması ve hızlı nüfus artışı buğday ihracatında azalmaya sebep olmaktadır.

12. C Önemli özellikleri verilen tarım ürünü ayçiçeğidir.

13. E Eğimli arazi, toprakların miras yoluyla bölünmesi gibi sebepler küçük tarım işletmelerinin yaygınlaşmasına sebep olmuştur. Araç-gereç sıkıntısı gibi bir sorun söz konusu değildir.

14. C Doğu Karadeniz'de engebenin fazla olması nedeniyle tarımda makine kullanımı güçtür.

15. E Bilecik'in Türkiye bal üretimine katkısı oldukça azdır.

16. C Tahıl tarımının yapıldığı bir yerde sebze tarımının yapılması sulama koşullarının geliştiğini gösterir.

17. E Verilen tarım ürünlerinden aspir ve kanolanın üretimi devlet kontrolünde değildir.

18. A Turunçgil yetiştirebilmek için kış ılıklığının olması gerekir. Grafikte gösterilen alanda kış sıcaklıkları çok düşük olduğu için turunçgil yetiştirilemez.

19. A Konya'da verilen tarım ürünlerinden buğday ve mısırın üretimi diğerlerine göre daha fazla yapılmaktadır.

20. A Bir geçiş alanı olması sebebiyle boğazlar farklı balık türlerinin bulunacağı alanlardır. Bundan dolayı balıkçılığa en uygun yerlerdendir.

MURAT YAYINLARI

/muratyayincilik

Türkiye'de Tarım ve Hayvancılık- III • TEST 16

1. 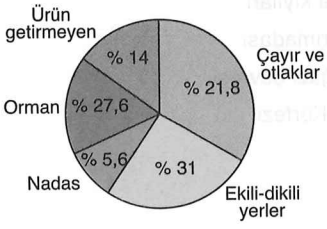

Türkiye topraklarının, yararlanma yönünden bölünüşü yukarıdaki gibidir.

Türkiye'nin doğal koşullarını da dikkate aldığımızda ekili-dikili alanların ekonomimize katkısını arttırmak için aşağıdaki uygulamalardan hangisinin yapılması uzun vadede olumsuz etki yapar?

A) Eğimli bölgelerde ekili-dikili alanlarda taraçalama yapmak
B) Nadas alanlarını azaltmak
C) Sulu tarım yöntemlerini uygulamak
D) Orman alanlarının bir bölümünü ekili-dikili alana çevirmek
E) Tarımsal verimi arttırmak

2. Nadas, toprağın su ve azot birikimini sağlamak amacıyla toprağın sürülüp boş bırakılmasıdır.

Nadas uygulaması erozyonu hızlandırdığı gibi, toprağın her yıl ekilememesi nedeniyle üretim düşüklüğüne de yol açtığından, bu uygulamanın bırakılması için öncelikle aşağıdakilerden hangisi sağlanmalıdır?

A) Tarım alanlarının genişletilmesi
B) Sulama olanaklarının artırılması
C) Tarımda makine kullanımının artırılması
D) Nitelikli tohumların kullanılması
E) Yetiştirilen ürün cinsinin değiştirilmesi

3. **Türkiye'de tarım alanlarından alınan verimin arttırılması aşağıdakilerden hangisine bağlı değildir?**

A) Gübre kullanımının yaygın ve bilinçli olmasına
B) Sulama gereksiniminin karşılanmasına
C) Ekili dikili alanların genişletilmesine
D) İlaçlama ve toprak bakımının yapılmasına
E) Kaliteli tohum kullanılmasına

4. **Aşağıdaki tarım ürünü - yer eşleştirmelerinden hangisi yanlıştır?**

A) Fındık-Ordu
B) Anason-Burdur
C) Aspir-Ankara
D) Susam-Rize
E) Kırmızı mercimek-Şanlıurfa

5. I. Yaz kuraklığı isteği fazladır.
II. Yetişme döneminde bol su ister.
III. İhracatı yapılan tarım ürünlerindendir.

Türkiye'de pamuk tarımıyla ilgili yukarıdaki özelliklerden hangilerinin doğru olduğu söylenir?

A) Yalnız I B) Yalnız II C) Yalnız III
D) I ve II E) I, II ve III

MURAT YAYINLARI

6.

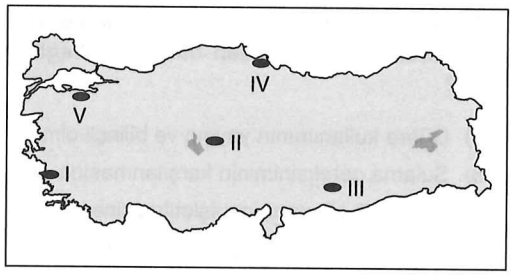

Haritada numaralarla gösterilen yerlerin hangisinde tütün tarımı yapılmaz?

A) I B) II C) III D) IV E) V

7. **Türkiye'nin tamamında sulama sorununun çözülmesi halinde aşağıdakilerden hangisi gözlemlenemez?**

A) Altınbaşak Ovası'nda birim alandan elde edilen verimin artması
B) Çukurova'da şekerpancarı ekim sahasının genişlemesi
C) Eskişehir Ovası'nda toprağın her yıl kullanılması
D) Diyarbakır Ovası'nda ekimi yapılan ürün çeşidinin artması
E) Konya Ovası'ndan elde edilen buğday miktarında yıllara göre dalgalanmaların azalması

8. **Aşağıdaki yerlerden hangisinde balıkçılığın geliştiği söylenemez?**

A) Doğu Karadeniz kıyıları
B) Aydın-Muğla kıyıları
C) Gelibolu Yarımadası
D) İstanbul boğazı çevresi
E) İskenderun Körfezi

9. I. Pamuk ve mısır üretim alanları genişlemiştir.
II. Nadasa ayrılan toprakların oranı azalmıştır.
III. Zeytin tarımı önem kazanmıştır.

Yukarıdakilerden hangilerinin Güneydoğu Anadolu Bölgesi'nde sulamanın yaygınlaşmasıyla birlikte gerçekleştiği söylenir?

A) Yalnız I B) Yalnız II C) Yalnız III D) I ve II E) I, II ve III

10.

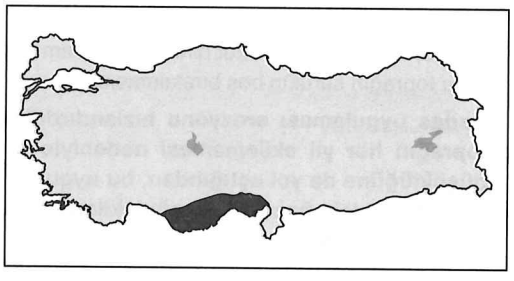

Haritada taranarak gösterilen alanda aşağıdaki tarım ürünlerinden hangisinin üretim alanı daha dardır?

A) Muz
B) Yer fıstığı
C) Susam
D) Mısır
E) Şekerpancarı

MURAT YAYINLARI

/muratyayincilik

11. **Türkiye'de hayvancılığın dağılışına ilişkin;**

I. Karadeniz kıyılarında büyükbaş mera hayvancılığı yaygındır.

II. Bitki örtüsünün yoğun olduğu yerlerde arıcılık gelişmiştir.

III. Düz ve geniş sahalarda kümes hayvancılığı gelişmiştir.

yargılarından hangilerinin doğru olduğu söylenir?

A) Yalnız I B) Yalnız II C) Yalnız III

D) I ve II E) I, II ve III

12. I. Muz

II. Kivi

III. Tütün

IV. Pamuk

Türkiye'de yukarıda verilen tarım ürünlerinden hangilerinin üretimine Cumhuriyet döneminden sonra başlanmıştır?

A) Yalnız I B) Yalnız II C) I ve II

D) II ve III E) III ve IV

13. I. Tarımda makine kullanımının yaygın olması

II. Tarım ürünlerinin çeşitli olması

III. Aynı tür ürünün farklı zamanlarda olgunlaşması

IV. Tütün üretiminin İç Anadolu Bölgesi'nde yapılmaması

V. Tarım alanlarının parçalı ve küçük olması

Yukarıda Türkiye tarımına ait bazı bilgiler verilmiştir.

Belirtilen bu durumlardan hangilerinde iklimin etkisinden söz edilebilir?

A) I ve II B) I ve V C) II ve III

D) III ve IV E) IV ve V

14. Akdeniz Bölgesi'nde kıl keçisi yetiştiriciliği yoğun şekilde yapılmaktadır.

Bu durum,

I. Çalılık arazilerin geniş yer kaplaması

II. Sarp arazi yapısı

III. Yaz sıcaklıklarının yüksek olması

faktörlerinden hangileriyle açıklanır?

A) Yalnız I B) Yalnız II C) Yalnız III

D) I ve II E) I, II ve III

15. 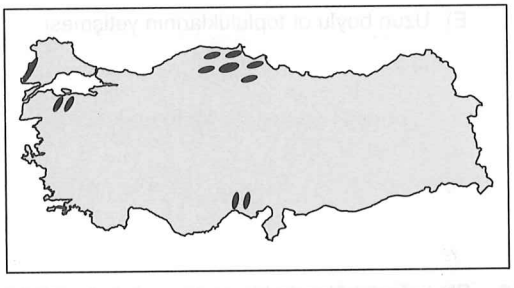

Haritada taranarak gösterilen yerlerde yoğun şekilde üretilen tarım ürünü aşağıdakilerden hangisidir?

A) Tütün B) Pirinç

C) Soya D) Elma

E) Kayısı

MURAT YAYINLARI

16. **Aşağıdaki tarım ürünlerinden hangisi Türkiye'de daha çok sulanabilen arazilerde üretilmektedir.**

A) Soya
B) Buğday
C) Arpa
D) Nohut
E) Mercimek

17. **Kuzeydoğu Anadolu'da büyükbaş hayvancılığın en önemli ekonomik etkinlik olmasında aşağıdakilerden hangisinin etkisi yoktur?**

A) Yazların serin ve yağışlı geçmesi
B) Tarım alanlarının az olması
C) Yükseltinin fazla olması
D) Nüfus yoğunluğunun az olması
E) Uzun boylu ot topluluklarının yetişmesi

18. Bir coğrafi bölgede birçok tarım ürünü yetiştirilebilirken daha çok getirisi yüksek olanların tercih edildiği gözlenmektedir.

Aşağıda verilenlerden hangisinin nedeni yukarıdaki açıklamayla ilgilidir?

A) Zeytin üretiminde Akdeniz Bölgesi'nin ilk sırada yer almaması
B) Doğu Anadolu'da pamuk üretiminin çok düşük olması
C) Karadeniz Bölgesi'nde sebze üretiminin ihtiyacı karşılayamaması
D) Ege Bölgesi'ndeki turunçgil üretiminin Akdeniz'den az olması
E) İç Anadolu Bölgesi'nde seracılık faaliyetleri yerine tahıl tarımının yoğunluk kazanması

19. 

Haritada önemli üretim alanı gösterilen tarım ürünü aşağıdakilerden hangisidir?

A) Buğday
B) Turunçgiller
C) Pamuk
D) Kayısı
E) Ayçiçeği

20. Türkiye Dünya fındık üretiminde ilk sırada yer almaktadır.

Buna göre, aşağıdakilerden hangisinin fındık üretiminde payı daha azdır?

A) Ordu
B) Samsun
C) Giresun
D) Bayburt
E) Sakarya

MURAT YAYINLARI

Açıklamalar • TEST 16

1. **D** Orman alanlarının azaltılması erozyon, heyelan gibi doğal afetlerin yaşanma riskini arttıracaktır.

2. **B** Nadas topraktaki nemi artırmak için yapılmaktadır. Sulama olanaklarının arttırılması, nadas uygulamalarını azaltacaktır.

3. **C** Verimin artması için ekim yapılan alandan elde edilen ürün miktarının artması gerekir. Bu nedenle ekili alanları genişletmek verimi arttırmaz.

4. **D** Rize yağışlı ve sıcaklık değeri yüksek olmadığı için susam tarımına elverişli değildir.

5. **E** Pamuk ile ilgili soruda verilen özelliklerin tümü doğrudur.

6. **B** Haritada II numara ile gösterilen İç Anadolu'da tütün tarımı yapılmaz.

7. **B** Kıyı ovalarında ekonomik değeri yüksek ürünler tercih edildiği için Çukurova'da şekerpancarı yerine daha farklı ürünler yetiştirilmektedir.

8. **E** Soruda verilen yerlerden İskenderun Körfezi'nde hem tuzluluk oranının yüksek olması hem de kirlilikten balıkçılık gelişmemiştir.

9. **D** Zeytin kış ılıklığı isteyen bir tarım ürünüdür. Sulamanın yaygınlaşması ile birlikte üretim alanı genişlemez. Diğer öncüller doğru ifadelerdir.

10. **E** Şeker pancarının ekonomik getirisi düşük olduğu için kıyı kesimlerde üretimi fazla gerçekleştirilmez.

11. **D** Kümes hayvancılığı nüfus fazla olduğu için büyükşehirler çevresinde gelişmiştir. Diğer ilk iki öncül ise doğru bilgilerdir.

12. **B** Soruda verilen tarım ürünlerinden kivi 1970'li yıllardan sonra Türkiye'de üretilmeye başlanmıştır.

13. **C** Tarım ürünlerinin çeşitliliği, iklim çeşitliliğine bağlıdır. Aynı ürün sıcaklık koşullarındaki farklılık sebebiyle, olgunlaşma süresinde değişiklik yaşayabilir.

14. **D** Çalılık arazinin geniş yer kaplaması ve sarp arazi yapısı Akdeniz'de kıl keçisi yetiştiriciliğinin yaygınlaşmasında belirleyici olmuştur.

15. **B** Haritada Edirne, Balıkesir, Orta Karadeniz çevresinde üretilen önemli tarım ürünü pirinçtir.

16. **A** Soya sulanabilen arazilerde üretilirken diğerleri kuru tarım yöntemiyle üretilmektedir.

17. **D** Kuzeydoğu Anadolu'da yaz yağışlarının fazla olması ve buna bağlı olarak gür otlakların olması ayrıca engebenin fazla olması ekonomik etkinlik çeşitliliğini azalttığı için büyükbaş hayvancılık yaygındır. Nüfus yoğunluğunun az olması bu durumu etkilemez.

18. **A** Zeytin, Akdeniz ikliminin ürünü olmasına rağmen Akdeniz Bölgesi'nde turunçgil tarımının tercih edilmesi nedeniyle zeytin üretimi ilk sırada değildir.

19. **B** Haritada üretim alanı gösterilen tarım ürünü turunçgildir.

20. **D** Verilen iller içerisinde Bayburt'ın toplam fındık üretiminde payı oldukça sınırlıdır.

MURAT YAYINLARI

Türkiye'de Tarım ve Hayvancılık- IV
• TEST 17

1. Tarım ürünleri doğrudan kullanılabildikleri gibi sanayi tesislerinde hammadde olarak da kullanılmaktadırlar.

I. Buğday
II. Mısır
III. Arpa
IV. Çay
V. Şeker pancarı

Yukarıda verilen tarım ürünlerinden hangilerini işleyen tesisler tarım alanına yakın kurulmak zorundadır?

A) I ve II B) I ve III C) II ve IV
D) III ve IV E) IV ve V

2. **Akdeniz kıyılarında zeytin tarımının fazla yapılmamasının temel nedeni aşağıdakilerden hangisidir?**

A) Güneşli gün sayısının fazla olması
B) Karstik arazilerin geniş yer kaplaması
C) Ekonomik getirisi yüksek ürünlerin tercih edilmesi
D) Sulama imkânlarının kısıtlı olması
E) Kış sıcaklık değerlerinin düşük olması

3. **Türkiye'de aşağıdaki tarım ürünlerinden hangisinin üretim alanı daha dardır?**

A) Şekerpancarı B) Aspir
C) Anason D) Çay
E) Susam

4. Yazları sıcak ve kurak olan sulanabilen ovalarda, önemli bir endüstri bitkisi olan pamuk üretilir.

Aşağıda verilen ovalardan hangisi pamuk üretimi için uygun değildir?

A) Bafra B) Iğdır
C) Çukurova D) Hatay
E) Büyük Menderes

5. I. Antalya
II. Bursa
III. Mersin
IV. Denizli

Yukarıda verilen illerin hangilerinde sera alanları daha fazladır?

A) I ve II B) I ve III C) II ve III
D) II ve IV E) III ve IV

6. - Toprak nemliliği
- Hava sıcaklığı
- Yağış miktarı
- Sulama olanakları

gibi koşullar ekim alanlarının nadasa bırakılmasıyla yakından ilgilidir.

Aşağıdaki ovaların iklim koşulları gözönüne alındığında hangisinde nadasa daha az gereksinim duyulur?

A) Gediz B) Konya
C) Harran D) Çarşamba
E) Çukurova

7. Aşağıdaki haritada Türkiye'de yetiştirilen bir tarım ürününün dağılış alanı verilmiştir.



Bu tarım ürününün dağılışına bakarak, aşağıdakilerden hangisine ulaşılabilir?

A) Düşük kış sıcaklığından etkilenmez.
B) Yıllık yağış miktarının yüksek olmasını ister.
C) Yağış rejiminin düzenli olmasını ister.
D) Yaz kuraklığına uyum sağlamıştır.
E) Yazların serin geçmesini ister.

MURAT YAYINLARI

/muratyayincilik

8.

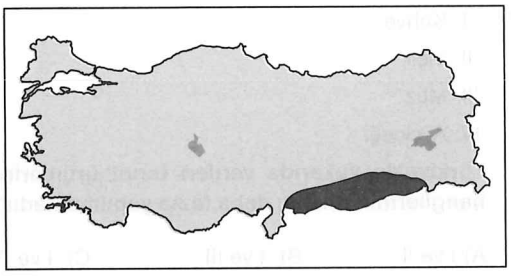

Haritada taranarak gösterilen alanda aşağıdaki tarım ürünlerinden hangisinin üretim alanı daha dardır?

A) Mısır
B) Pamuk
C) Kırmızı mercimek
D) Karpuz
E) Şeker pancarı

9. **Türkiye'de bir yörede kışların ılık geçmesi aşağıdaki ürünlerden hangisinin yetişmesi açısından önemli avantaj sağlamaz?**

A) Turfanda sebzecilik
B) Zeytin
C) Turunçgiller
D) Şekerpancarı
E) İncir

10. I. Çay
II. Pirinç
III. Buğday
IV. Kenevir

Türkiye'de yukarıda verilen tarım ürünlerinden hangilerinin üretim ve hasadında el emeği isteği daha fazladır?

A) I ve II B) I ve III C) II ve III
D) II ve IV E) III ve IV

11. I. Diyarbakır
II. Bilecik
III. Bartın
IV. Bursa

Türkiye ipek böcekçiliği üretiminde yukarıda verilenlerden hangilerinin payı daha fazladır?

A) I ve II B) I ve IV C) II ve III
D) II ve IV E) III ve IV

12.

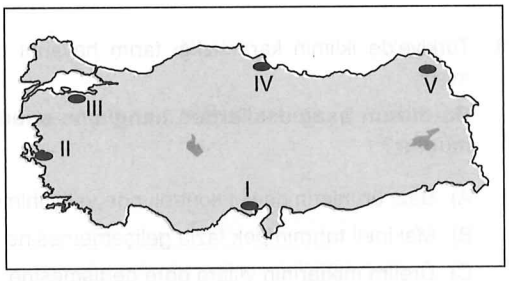

Haritada numaralarla gösterilen yerlerin hangisinde tarım ürünleri daha geç olgunlaşmaktadır?

A) I B) II C) III D) IV E) V

13. **Aşağıdaki tarım ürünü - yoğunlaştığı yer eşleştirmelerinden hangisi yanlıştır?**

A) Tütün - Adıyaman
B) Sofralık zeytin - Manisa
C) Üzüm - İzmir
D) Kayısı - Mersin
E) Pamuk - Edirne

MURAT YAYINLARI

14.

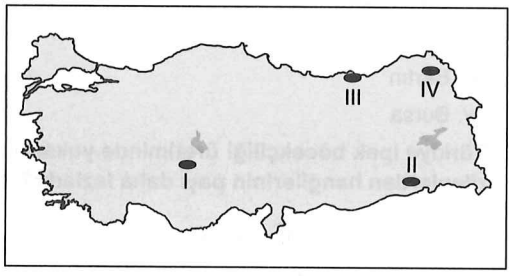

Haritada verilen yerlerden hangilerinde büyükbaş mera hayvancılığı için uygun alanlar daha fazladır?

A) I ve II B) I ve III C) II ve III
D) II ve IV E) III ve IV

15. Türkiye'de iklimin kararsızlığı tarım hayatını etkilemiştir.

Bu durum aşağıdakilerden hangisine sebep olmuştur?

A) Bazı ürünlerin devlet kontrolünde yetiştirilmesine
B) Makineli tarımın pek fazla gelişememesine
C) Üretim miktarının yıllara göre değişmesine
D) Sanayi bitkilerinin fabrikalara yakın yerlerde yetiştirilmesine
E) Kıyılarda nemi seven bitkilerin, iç taraflarda kurağa dayanıklı bitkilerin yetiştirilmesine

16.

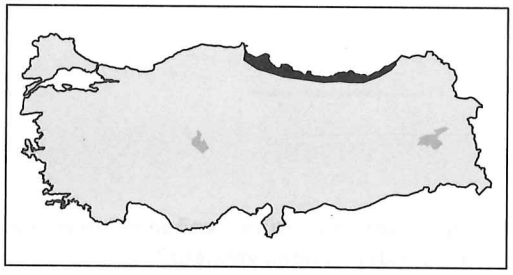

Haritada taranarak gösterilen yerde aşağıdaki tarım ürünlerinden hangisinin üretim alanı daha sınırlıdır?

A) Kivi B) Üzüm
C) Mısır D) Fındık
E) Çay

17. I. Kahve
II. İncir
III. Muz
IV. Ayçiçeği

Türkiye'de yukarıda verilen tarım ürünlerinden hangilerinin ithalatı daha fazla yapılmaktadır?

A) I ve II B) I ve III C) I ve IV
D) II ve III E) III ve IV

18. I. Merinos-Eskişehir
II. Kıl keçisi-Mersin
III. Sığır-Konya

Türkiye'de yukarıda verilen hayvancılık-yoğunlaştığı yer eşleştirmelerinden hangileri doğrudur?

A) Yalnız I B) Yalnız II C) Yalnız III
D) I ve III E) I, II ve III

19. **Türkiye tarımıyla ilgili aşağıdakilerden hangisi <u>söylenemez</u>?**

A) Makine kullanımı 1950'den sonra hız kazanmıştır.
B) Sulanabilen arazilerin oranı artmaktadır.
C) Tahıl üretiminde doğal koşullara bağımlılık fazladır.
D) Gübre kullanımı gittikçe yaygınlaşmaktadır.
E) Tarım ürünlerinin ithalatı belirgin şekilde azalmaktadır.

20. **Türkiye'de <u>daha çok</u> küçükbaş hayvan yetiştirilmesinin <u>temel nedeni</u> aşağıdakilerden hangisidir?**

A) Ekonomik değerlerinin daha çok olması
B) Doğal şartların daha uygun olması
C) Makineli tarıma geçilmesi
D) Fazla sermaye istememesi
E) Dağların doğu-batı yönünde uzanması

MURAT YAYINLARI

/muratyayincilik

Açıklamalar • TEST 17

1. **E** Çay ve şeker pancarı toplandıktan sonra çabuk bozulma özelliğine sahip tarım ürünleridir. Bu nedenle bu ürünlerin toplanmasından hemen sonra işlenmesi gerekir. Bu nedenle bu ürünleri işleyen sanayi tesisleri bu ürünlerin yetişme alanlarına yakın olmak zorundadır.

2. **C** Akdeniz kıyılarında ekonomik getirisi yüksek olan ürünler tercih edildiği için zeytin tarımı fazla yapılmaz.

3. **D** Verilen tarım ürünlerinden çayın nem ve yağış isteği fazla olduğundan yetişme alanı oldukça dardır.

4. **A** Bafra Ovası, Karadeniz Bölgesi'nde yeraldığı için her mevsim yağışlı bir iklim görülür. Pamuk ise yaz aylarında kuraklık isteyen bir bitkidir. Bu nedenle burada yetiştirilemez.

5. **B** Türkiye'de sera alanlarının en fazla olduğu ilk iki il Antalya ve Mersin'dir.

6. **D** Çarşamba Ovası Kızılırmak Nehri'nin denize döküldüğü yerde oluşmuş bir delta ovasıdır. Bulunduğu bölgenin dört mevsim yağış alma özelliğinden dolayı nadas alanı daha azdır.

7. **D** Haritada taralı alan Akdeniz ikliminin görüldüğü alanlardır. Bu nedenle bu tarım ürününün yaz kuraklığına uyum sağlayan bir özelliğinin olduğunu söyleyebiliriz.

8. **E** Güneydoğu Anadolu Bölgesi şiddeti buharlaşmadan dolayı şekerpancarı üretim alanı oldukça sınırlıdır.

9. **D** Şekerpancarı karasal iklim özelliklerine uyan bir bitkidir. Bu nedenle kışların ılık geçmesi şekerpancarı için önemli bir avantaj sağlamayacaktır.

10. **A** Çay ve pirincin üretim ve hasadında el emeğine ihtiyaç daha fazladır.

11. **A** Soruda verilen illerden Diyarbakır ve Bilecik'in ipek böcekçiliği üretimi daha fazladır.

12. **E** Haritada V numara ile gösterilen Kars, Ardahan çevresinde yıllık ortalama sıcaklık düşük olduğu için tarım ürünleri daha geç olgunlaşmaktadır.

13. **E** Pamuk daha çok Güneydoğu ve Kıyı Ege'de üretilmektedir. Sorudaki diğer eşleştirmeler ise doğrudur.

14. **E** Haritada III numaralı yer Doğu Karadeniz'de ve IV numaralı yer Erzurum-Kars'ta geniş uzun boylu çayırlar fazla olduğu için büyükbaş mera hayvancılığı daha fazla yapılmaktadır.

15. **C** İklim özellikleri üretimi de etkilediği için üretim miktarlarında yıldan yıla dalgalanmalar yaşanır.

16. **B** Haritada taranarak gösterilen yerde her mevsim yağış olduğu için üzüm üretimi yoğunlaşmamıştır.

17. **B** Türkiye verilen tarım ürünlerinden kahve ve muz ithalatını daha fazla yapmaktadır.

18. **E** Soruda verilen hayvancılık-yer eşleştirmelerinin tümü doğrudur.

19. **E** Türkiye'de artan nüfus ve doğal koşullara bağımlılığın istenilen düzeyde olmaması tarım ürünü ithalatını artırmaktadır.

20. **B** Türkiye'de karasal iklim geniş bir alanda görüldüğü için bozkır bitki örtüsü yaygındır. Bozkır bitkisinin yaygın olduğu için İç Anadolu-Güneydoğu ve Doğu Anadolu Bölgelerinde küçükbaş hayvancılık yaygın olarak yapılmaktadır.

MURAT YAYINLARI

Türkiye'de Tarım ve Hayvancılık- V
• TEST 18

1. Sebzecilik, Türkiye'nin her yerinde az veya çok yapılabilmektedir. Ancak doğu yörelerimizde sebze üretiminin büyük değer taşımadığı gözlenmektedir.

Bu durumun nedeni aşağıdakilerden hangisidir?

A) Topraklarının elverişsiz olması
B) Halkın temel besin maddelerinden olmaması
C) Akarsu ağının geniş yer kaplaması
D) Yaz sıcaklıklarının geç başlaması ve yetersiz olması
E) Ekonomik değerinin düşük olması

2. Yükselti ve engebenin az olduğu yerler ekonomik faaliyetleri olumlu yönde etkilemiştir. Kıyı ovaları ile yükseltinin 500m'den az olduğu ovalarda çok çeşitli tarım ürünleri yetiştirilmekte ve yüksek verim elde edilmektedir.

Sadece bu bilgi gözönüne alındığında aşağıdaki ovaların hangisinde tarımsal çeşitlilik daha azdır?

A) Silifke B) Iğdır
C) Amik D) Balat
E) Adapazarı

3. **Türkiye'de aşağıdaki tarım ürünlerinden hangisinin üretim alanı daha geniştir?**

A) Haşhaş B) Keten
C) Kenevir D) Muz
E) Tütün

4. Bir tarlaya farklı yıllarda farkı ürün ekilmesine tarımda "nöbetleşe ekim" denir.

Bu yöntemin verimi artırması hangi nedene bağlanabilir?

A) Değişik ürünlerin daha az sulama gerektirmesine
B) Değişik ürünlerin çiftçinin çalışma isteğini artırmasına
C) Değişik ürünlerin toprağı dinlendirip yenilemesine
D) Ayrı ürünlere tohumluk bulma kolaylığına
E) Değişik ürünlerin daha az bakım istemesine

5. Akdeniz'de balıkçılık fazla gelişmemiştir.

Bu durum

I. Alternatif ekonomik faaliyetlerin gelişmişliği
II. Balık türünün az olması
III. Tüketici nüfusun az olması

faktörlerinden hangileriyle açıklanır?

A) Yalnız I B) Yalnız II C) Yalnız III
D) I ve II E) I, II ve III

6. **Türkiye kültür balıkçılığı üretiminde aşağıdakilerden hangisinin payı daha fazladır?**

A) Muğla B) Mersin
C) Adana D) Çanakkale
E) Trabzon

7. **Türkiye'deki bir yöreye yıl içinde düşen yağış miktarı ile üretilen süt miktarı arasında bir paralellik varsa, aşağıdaki yargılardan hangisi doğru olur?**

A) Besi hayvancılığı yapılmaktadır.
B) Yerşekilleri engebelidir.
C) Denize uzaklığı azdır.
D) Mera hayvancılığı yapılmaktadır.
E) Endüstrisi gelişmiştir.

MURAT YAYINLARI

/muratyayincilik

8.

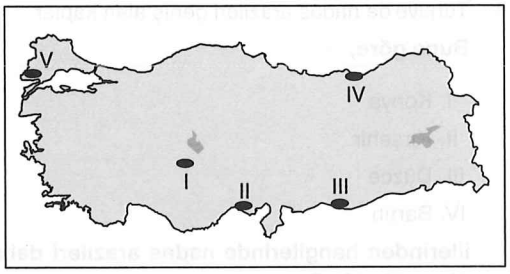

Haritada numaralarla gösterilen yerlerin doğal koşulları dikkate alındığında hangisinde buğday üretimi gerçekleştirilmez?

A) I B) II C) III D) IV E) V

9. Türkiye'nin iç bölgelerinde sebze tarımı gelişmemiştir.

Bu durum,

I. Tarım alanlarının az olması
II. Sulamanın yetersiz olması
III. Kışların uzun ve sert geçmesi
IV. Tüketiminin az olması

faktörlerinin hangileriyle daha çok ilgilidir?

A) I ve II B) I ve III C) II ve III
D) II ve IV E) III ve IV

10. I. Zeytin
II. Mısır
III. Elma
IV. Soya fasulyesi

Yukarıda verilen tarım ürünlerinden hangilerinin su isteği daha fazladır?

A) I ve II B) I ve III C) II ve III
D) II ve IV E) III ve IV

11. **Türkiye'de tarım alanını arttırmadan ve nüfusun da artışı göz önünde bulundurularak, tarımsal üretimi artırmak için aşağıdakilerden hangisi alınacak bir önlem olamaz?**

A) Tarım topraklarını erozyona karşı korumak
B) Birim başına alınan verimi artırıcı çalışmalar yapmak
C) Sanayi tesislerinin tarım topraklarında kurulmasını engellemek
D) Yerleşmelerin tarım topraklarında yayılmasını önlemek
E) Ekilen ürünlerin çeşitlerini artırmak

12. **Akdeniz iklimi ile Karadeniz ikliminin etkili olduğu tarım bölgeleri karşılaştırıldığında, Akdeniz ikliminin tarımsal etkinlikler üzerindeki olumsuz etkisi aşağıdakilerden hangisidir?**

A) Kışların ılık geçmesi ve yağışlı geçmesi
B) Sıcaklık ortalamalarının 0 °C'nin üstünde olması
C) Yaz mevsiminin çok sıcak ve kurak olması
D) Don olaylarının nadir görülmesi
E) Yağışların büyük ölçüde yağmur olarak düşmesi

13. I. Bitki örtüsünün gür olduğu yerlerde yoğunlaşmıştır.
II. Dünya bal üretiminde önemli paya sahiptir.
III. Ordu ve Muğla üretimde ilk sıralarda yer almaktadır.

Türkiye'de arıcılık faaliyetleri ile ilgili olarak yukarıdakilerden hangilerinin doğru olduğu söylenir?

A) Yalnız I B) Yalnız II C) Yalnız III
D) I ve II E) I, II ve III

14. I. Balık miktarının fazla olması
II. Çözünmüş oksijen oranının fazla olması
III. Tuzluluk miktarının az olması

Karadeniz'de balıkçılığın gelişmesinde yukarıdakilerden hangilerinin etkisinden bahsedilir?

A) Yalnız I B) Yalnız II C) Yalnız III
D) I ve II E) I, II ve III

MURAT YAYINLARI

15.



Haritada taranarak gösterilen yerde aşağıdaki tarım ürünlerinden hangisinin üretimi daha az yapılır?

A) İncir
B) Zeytin
C) Tütün
D) Pamuk
E) Yer fıstığı

16. I. Büyükbaş besi
II. Arıcılık
III. Kümes hayvancılığı
IV. İpek böcekçiliği

Türkiye'de yukarıda verilen hayvancılık türlerinin hangilerinde doğal koşullara bağımlılık daha fazladır?

A) I ve II
B) I ve III
C) II ve III
D) II ve IV
E) III ve IV

17.



Yukarıdaki haritada Türkiye'deki mısır ekim alanları gösterilmektedir.

Mısır tarımının Karadeniz kıyıları dışındaki bazı bölgelerde yoğunlaşmasının temel nedeni aşağıdakilerden hangisidir?

A) Verimli ovaların bulunması
B) Sulama sorununun yaşanmaması
C) Denizel iklimde yetişebilmesi
D) Bölgelerin temel besin maddesi olması
E) Sıcaklığın fazla olması

18. Türkiye'de nadas arazileri geniş alan kaplar.

Buna göre,

I. Konya
II. Kırşehir
III. Düzce
IV. Bartın

illerinden hangilerinde nadas arazileri daha geniş yer kaplar?

A) I ve II
B) I ve III
C) II ve III
D) II ve IV
E) III ve IV

19. Aşağıdaki tabloda tarım ürünü-özellik eşleştirmesi yapılmıştır.

Tarım Ürünü	Özelliği
Tütün	Üretimi devlet kontrolündedir.
Buğday	Üretimi en fazla yapılan tahıldır.
Pirinç	Akarsu boylarında üretilmektedir.
Muz	Sadece Mersin'de üretilmektedir.
Aspir	Üretimi Cumhuriyet'ten sonra başlamıştır.

Buna göre, verilen tarım ürünlerinden hangisinin özelliği yanlış belirtilmiştir?

A) Tütün
B) Buğday
C) Pirinç
D) Muz
E) Aspir

20. **Türkiye'de üretilen aşağıdaki ürünlerden hangisinin üretimi, doğal koşullar yönünden diğerlerine göre daha sınırlıdır?**

A) Tütün
B) Şekerpancarı
C) Ayçiçeği
D) Üzüm
E) Zeytin

MURAT YAYINLARI

/muratyayincilik

Açıklamalar • TEST 18

1. **D** Sebze üretimi için yaz sıcaklıklarının yüksek olması gerekir. Doğu Anadolu'da sıcaklık değerlerinin düşük olması ve yaz sıcaklığının geç başlaması sebze üretiminin az olmasına neden olmuştur.

2. **B** Iğdır hariç diğer ovalar kıyı ovası özelliği taşır ve buralarda ılıman iklim koşulları etkili olduğu için tarım ürünü çeşitliliği fazla iken Iğdır Ovası'nın bulunduğu yerde karasal iklime bağlı olarak tarım ürünü çeşitliliği daha azdır.

3. **E** Soruda verilen tarım ürünlerinden tütünün üretim alanı daha geniştir. İç Anadolu dışında bütün bölgelerde üretilmektedir.

4. **C** Nöbetleşe ekim toprağın dinlenmesine ve nem dengesini korumasına yol açtığı için verimi arttırır.

5. **A** Akdeniz'de balık türü ve tüketici nüfus az değil fazladır. Ancak soruda sadece I. öncül doğrudur.

6. **A** Türkiye kültür balıkçılığında Muğla ilk sırada yer almaktadır.

7. **D** Yağış miktarı fazla olursa üretilen süt miktarı artıyor, yağış az olduğunda üretilen süt azalıyorsa buradaki hayvancılık doğal koşullara bağlı olarak yapılıyor demektir. Doğal koşullara bağlı yapılan hayvancılık mera hayvancılığıdır.

8. **D** Haritada IV numara ile gösterilen Doğu Karadeniz her mevsim yağış aldığı için bu alanda buğday üretimi yapılmaz.

9. **C** İç bölgelerde sulamanın yetersiz oluşu ve kışların uzun ve sert geçmesi sebze tarımının gelişmemesinde en önemli etkenlerdir.

10. **D** Soruda verilen tarım ürünlerinden mısır ve soya fasulyesinin su isteği daha fazladır.

11. **E** Tarımsal üretimi arttırmak için verimin artması gerekir. Ürün çeşitliliğinin artması verimi arttıran bir durum değildir.

12. **C** Yaz mevsiminin sıcak ve kurak geçmesi sulama sorununu ortaya çıkaracaktır. Bu durum Akdeniz ikliminde tarım faaliyeti üzerinde görülen olumsuz bir özelliktir.

13. **E** Türkiye arıcılığıyla ilgili olarak soruda verilen seçeneklerin tümü doğru bilgilerdir.

14. **E** Karadeniz'de balıkçılığın gelişmesinde verilen seçeneklerin tümü etkili olmuştur.

15. **E** Haritada taranarak gösterilen Kıyı Ege'de yer fıstığı üretimi daha az yapılmaktadır. Yer fıstığı genelde Adana çevresinde üretilmektedir.

16. **D** Soruda verilen hayvancılık türlerinden arıcılık ve ipek böcekçiliğinde doğal koşullara bağımlılık daha fazladır.

17. **B** Mısır yetişme dönemi olan yaz mevsiminde bol su istediği için, mısır tarımının yapıldığı yerlerde sulama sorununun yaşanmaması gerekmektedir. Mısırın en fazla yetiştirildiği Akdenizde sulama koşullarının gelişmesine, Karadeniz Bölgesinde de yazın yağışlı geçmesine bağlı olarak mısır yetiştirilmektedir.

18. **A** Konya ve Kırşehir'de karasal iklim görüldüğü için nadas alanları daha fazladır.

19. **D** Muz Akdeniz'de bulunan 4 ilde üretilmektedir. Bunlar; Mersin, Antalya, Adana, Hatay'dır. En fazla muz üretilen yer Anamur'dur.

20. **E** Zeytin, maki bitki örtüsünün ağacıdır. Bu nedenle Akdeniz ikliminin görüldüğü alanlarda yetişir. Kış ılıklığı isteyen bir tarım ürünüdür.

MURAT YAYINLARI

Türkiye'de Madenler - Enerji Kaynakları - Sanayi - I
• TEST 19

1. Türkiye'de maden rezervi ve çeşitliliğinin en fazla olduğu bölge Doğu Anadolu'dur.

Bu durum,

I. Farklı jeolojik zamanların yaşanması
II. Volkanizmanın ekili olması
III. Farklı kayaç türlerinin bulunması

faktörlerinden hangileriyle açıklanır

A) Yalnız I B) Yalnız II C) Yalnız III
D) I ve II E) I, II ve III

2. Jeotermal enerji, yeraltındaki sıcak su ya da su buharından elde edilir.

Jeotermal enerji bakımından Türkiye'nin zengin bir potansiyelinin olması aşağıdakilerden hangisine bağlıdır?

A) Kıvrım dağlarının geniş yer tutmasına
B) Geçirimli arazilerin geniş yer tutmasına
C) Karstik arazilerin geniş yer tutmasına
D) Dağlık bir ülke olmasına
E) Kırık hatlarının yaygın olmasına

3. **Aşağıdaki maden-çıkartım yeri eşleştirmelerinden hangisi yanlıştır?**

A) Bakır-Elazığ(Maden)
B) Demir-Sivas(Divriği)
C) Krom-Muğla(Dalaman)
D) Boksit-Antalya(Akseki)
E) Bor-Kütahya (Tavşanlı)

4. **Bir maden yatağının işletilebilir nitelikte olmasında aşağıdakilerden hangisinin etkisi daha azdır?**

A) Tenörünün yüksek olması
B) Rezervinin yüksek olması
C) İklim koşullarının elverişli olması
D) Kullanım alanının yaygın olması
E) İşletme maliyetinin düşük olması

5. I. Pamuklu dokuma
II. Konserve
III. Lastik
IV. Şişe-cam
V. Şeker

Yukarıda verilen sanayi kollarından hangilerinin üretimi iklim şartlarından etkilenir?

A) I, II ve V B) I ve III
C) II, III ve IV D) III ve V
E) III ve IV

6. Bor madeninin rezervinde Türkiye Dünyada ilk sırada yer alır. Buna karşın bor madeninin ülke ekonomisine katkısı çok fazla değildir.

Bu durumun en önemli nedeni aşağıdakilerden hangisidir?

A) Kullanım alanının sınırlı olması
B) Ton başına değerinin düşük olması
C) Hammadde olarak işlenmeden satılması
D) Üretiminin sınırlı olması
E) Dünyada bol bulunan bir maden olması

MURAT YAYINLARI

/muratyayincilik

7. **Aşağıdaki maden - çıkartım yeri eşleştirmelerinden hangisi yanlıştır?**

A) Demir - Sakarya (Çamdağı)
B) Bor - Eskişehir (Seyitgazi)
C) Krom - Muğla (Köyceğiz)
D) Trona - Ankara (Beypazarı)
E) Cıva - Tekirdağ (Hayrabolu)

8. • Kastamonu (Küre)
• Artvin (Murgul)
• Diyarbakır (Ergani)

Önemli çıkartım alanları verilen maden aşağıdakilerden hangisidir?

A) Manganez
B) Krom
C) Bakır
D) Asfaltit
E) Bor

9. **Aşağıdaki termik santrallerden hangisi farklı bir enerji kaynağı ile elektrik üretmektedir?**

A) Sivas (Kangal)
B) Kırklareli (Hamitabat)
C) Kütahya (Seyitömer)
D) Manisa (Soma)
E) Çanakkale (Çan)

MURAT YAYINLARI

10. • Marmara adası
• Afyon
• Bilecik
• Burdur

Önemli çıkartım yerleri verilen yeraltı kaynağı aşağıdakilerden hangisidir?

A) Krom
B) Mermer
C) Kurşun
D) Asfaltit
E) Bor

11. • Tekirdağ
• Düzce (Akçakoca)
• Mardin (Çamurlu)

Önemli çıkartım alanları verilen yeraltı kaynağı aşağıdakilerden hangisidir?

A) Petrol
B) Doğalgaz
C) Linyit
D) Uranyum
E) Bor

12. **Kağıt, çimento, şeker, un gibi sanayi kollarının Türkiye'deki dağılışı düşünüldüğünde, bu tesislerin kuruluş yeri üzerinde en belirleyici faktörün aşağıdakilerden hangisi olduğu söylenebilir?**

A) Hammaddeye yakınlık
B) İklim koşulları
C) Pazar koşulları
D) Ulaşım koşulları
E) İş gücü bolluğu

13. I. Unlu mamüller
II. Seramik sanayi
III. Çimento sanayi
IV. Demir çelik sanayi

Türkiye'de yukarıdaki endüstri kollarından hangileri diğerlerinden daha yaygındır?

A) I ve II B) I ve III C) II ve III
D) II ve IV E) III ve IV

14. Türkiye'de demir çıkartım alanı geniştir.

Buna göre, aşağıdaki yerlerden hangisi demir çıkartım alanlarından biri değildir?

A) Malatya (Hekimhan)
B) Sakarya (Çamdağı)
C) İzmir (Torbalı)
D) Sivas (Divriği)
E) Konya (Seydişehir)

15. Elektrik enerjisi üreten bazı santraller hava kirliliğine neden olmaktadır.

Aşağıda verilen yerlerde bulunan santrallerden hangisi diğerlerine göre daha az hava kirliliğine neden olur?

A) Yatağan
B) Soma
C) Hamitabat
D) Çayırhan
E) Çatalağzı

16. **Türkiye'de güneş enerjisi üretiminde aşağıdaki illerden hangisinin katkısı daha fazladır?**

A) Şanlıurfa
B) Adana
C) Konya
D) Bursa
E) Samsun

17.

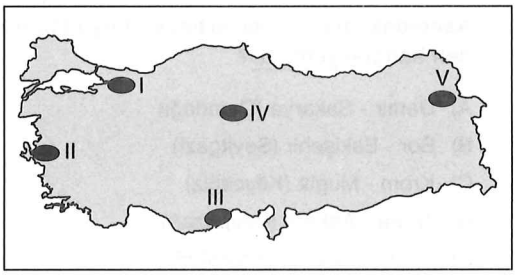

Haritada numaralandırılan yörelerin hangisinde petro kimya sanayi gelişmemiştir?

A) I B) II C) III D) IV E) V

18. I. Adana (Su gözü)
II. Zonguldak (Çatalağzı)
III. Ankara (Çayırhan)

Yukarıda verilen termik santrallerden hangileri taşkömüründen elektrik üretmektedir?

A) Yalnız I B) Yalnız II C) Yalnız III
D) I ve II E) I, II ve III

19.

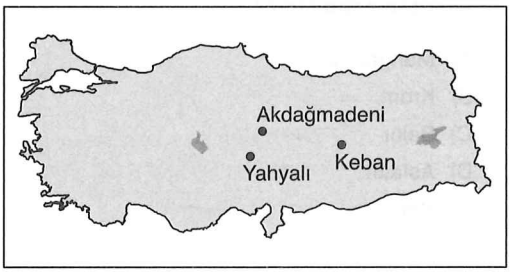

Haritada önemli çıkartım yerleri verilen maden aşağıdakilerden hangisidir?

A) Krom
B) Kurşun
C) Demir
D) Bor
E) Altın

20. **Aşağıdaki sanayi kuruluşlarından hangisi hammaddeye yakın kurulmuştur?**

A) Bursa otomotiv sanayi
B) İzmit petro-kimya sanayi
C) Bilecik mermer sanayi
D) Karabük demir-çelik sanayi
E) İstanbul konserve sanayi

MURAT YAYINLARI

/muratyayincilik

Açıklamalar • TEST 19

1. **E** Soruda verilen seçeneklerin tümü Doğu Anadolu'da maden rezervi ve çeşitliliğinin fazla olmasında etkili olmuştur.

2. **E** Türkiye genç oluşumlu bir ülke olduğu için kırık hatlarının yaygın olması sonucu sıcak su (jeotermal kaynak) potansiyeli yüksektir. Yerin derinliklerinde bulunan sıcak su yer kabuğunun kırık veya çatlak hatlarından yeryüzüne çıkarak bu enerjiyi oluşturmaktadır.
Not: Kırık hatları ile sıcak su kaynakları genellikle paralellik gösterir.

3. **E** Kütahya Tavşanlı'da linyit madeni çıkartılmaktadır. Bor Marmara Bölgesi'nin güneyinde çıkartılmaktadır.

4. **C** Türkiye'de her bölgede farklı iklim özellikleri yaşanmasına rağmen her bölgede maden işletmesi bulunmaktadır. Buda bize iklim koşullarının bir madenin işletilmeye açılmasındaki etkisinin az olduğunu gösterir.

5. **A** Pamuklu dokuma ve şeker sanayisi ile konserve sanayisinin bir kısmının hammaddesi tarım ürünüdür. Tarım ürünlerinin üretimide iklim şartlarından etkilenir.

6. **C** Bir ülkenin bir madenden elde ettiği gelirin yüksek olabilmesi için o madeni işlemesi gerekmektedir. Türkiye çıkardığı bor madenini işlemeden hammadde olarak sattığı için ekonomiye katkısı çok fazla değildir.

7. **E** Tekirdağ Hayrabolu'da doğalgaz çıkartılmaktadır. Sorudaki diğer eşleştirmeler doğrudur.

8. **C** Soruda çıkartım yerleri verilen maden bakırdır.

9. **B** Soruda verilen termik santrallerden Kırklareli Hamitabat doğalgaz ile diğerleri linyitten elektrik üretmektedir.

10. **B** Soruda önemli çıkartım yerleri verilen yeraltı kaynağı mermerdir.

11. **B** Önemli çıkartım yerleri verilen yeraltı kaynağı doğalgazdır.

12. **A** Şekerpancarı çabuk bozulduğu için, kağıt, çimento ve un fabrikalarıda ulaşım maliyeti nedeniyle hammaddeye yakın yerlerde kurulmuştur.

MURAT YAYINLARI

13. **B** Unlu mamüller sanayisinde kullanılan hammadde başta buğday olmak üzere tahıl ürünleridir. Buğday karasal iklime uygun bir tarım ürünü olduğu için Türkiye'de yetişme alanı geniştir. Hammaddesinin fazla, ucuz ve yaygın olması unlu mamüller sanayisinin her bölgede bulunmasını sağlamıştır.
Çimento, hammaddesi toprağa dayalı bir sanayi koludur. Hammaddesinin kolay ve ucuz temin edilmesi ile tüketiminin fazla olması Türkiye'nin her bölgesinde çimento fabrikalarının bulunmasına yol açmıştır.
Bu nedenle öncüllerde verilen endüstri kollarından diğerlerine göre daha yaygın olan unlu mamuller ve çimentodur.

14. **E** Konya Seydişehir'den boksit madeni çıkartılmaktadır. Diğerleri önemli demir çıkartım alanlarıdır.

15. **C** Hamitabat (Kırklareli) termik santrali doğalgazla çalıştığı için daha az hava kirliliğine neden olur. Diğer seçeneklerde verilen santraller kömürle çalışmaktadır.

16. **C** Soruda verilen illerden Konya'nın Türkiye güneş enerjisine katkısı diğerlerinden daha fazladır.

17. **E** Türkiye'de petro-kimya tesisleri: I numaralı alan İzmit, II numaralı alan İzmir, III numaralı alan Mersin, IV numaralı alan Kırıkkale ve haritada gösterilmemiş olan Batman'da bulunmaktadır. V numaralı yerde petro-kimya tesisi bulunmamaktadır.

18. **D** Ankara Çayırhan termik santrali linyitten diğerleri taşkömüründen elektrik üretmektedir.

19. **B** Haritada önemli çıkartım yerleri verilen maden kurşundur.

20. **C** Bilecik'te mermer çıkartımı yapıldığı için bu sanayi kolu hammaddeye yakın kurulmuştur. Diğerleri ulaşım ve pazar koşulları dikkate alınarak kurulmuştur.

MURAT YAYINLARI

/muratyayincilik

Türkiye'de Madenler - Enerji Kaynakları - Sanayi - II
• TEST 20

1. • Türk Akımı
• Mavi Akım
• Batı Hattı

Verilen enerji hatlarında arz kaynağı ülke aşağıdakilerden hangisidir?

A) İran B) Azerbaycan
C) Bulgaristan D) Yunanistan
E) Rusya

2. I. Irak
II. Gürcistan
III. İran
IV. Rusya

Türkiye yukarıda verilen ülkelerin hangilerinden enerji nakil hatlarıyla petrol ya da doğalgaz alımı yapmaz?

A) Yalnız II B) I ve II C) II ve III
D) II ve IV E) III ve IV

3. Türkiye'de son yıllarda organize sanayi bölgeleri kent dışındaki yerlere kurulmaktadır.

Aşağıdakilerden hangisi bu durumun nedenlerinden biri değildir?

A) Kent içi trafiği rahatlatmak
B) Düzenli kentleşmeyi sağlamak
C) Çevre kirliliğini azaltmak
D) Belirli türdeki iş kollarını bir araya toplamak
E) Ürünlerin dış pazarlardaki rekabet gücünü artırmak

4. Bir tarım ürününün yoğun olarak üretildiği yerle, o yerdeki endüstri kolları arasında yakın bir ilişki görülür.

Aşağıdakilerin hangisinde bu genellemeye uygun bir durum söz konusu değildir?

A) Balıkesir - Zeytinyağı
B) Eskişehir - Unlu mamüller
C) Samsun - Sigara
D) İstanbul - Pamuklu dokuma
E) Konya - Makarna

5. **Aşağıdaki şehirlerden hangisinde şeker pancarı fabrikası bulunmaz?**

A) Kırklareli
B) Eskişehir
C) Erzurum
D) Rize
E) Afyon

MURAT YAYINLARI

6. I. Bakü-Tiflis-Ceyhan
II. Bakü-Tiflis-Erzurum
III. TANAP
IV. Mavi Akım

Türkiye'de yukarıda verilen enerji nakil hatlarının hangilerinden petrol taşımacılığı yapılmaktadır?

A) Yalnız I B) I ve II C) I ve III
D) II ve III E) III ve IV

7. **Zonguldak Ereğli demir-çelik fabrikasının yer seçiminde,**

I. Enerji kaynağına yakınlık
II. Hammaddeye yakınlık
III. Su kaynaklarına yakınlık

faktörlerinden hangileri belirleyici olmuştur?

A) Yalnız I B) Yalnız II C) Yalnız III
D) I ve III E) I, II ve III

8. **Türkiye elektrik üretiminde aşağıdaki enerji kaynaklarından hangisinin payı daha fazladır?**

A) Kömür
B) Hidrolik
C) Güneş
D) Jeotermal
E) Rüzgâr

9. **Aşağıdaki endüstri kuruluşu - yer eşleştirmelerinden hangisi yanlıştır?**

A) Şeker - Yozgat
B) Unlu gıdalar - Eskişehir
C) Lastik - Kırşehir
D) Otomotiv - Nevşehir
E) Savunma - Ankara

10. 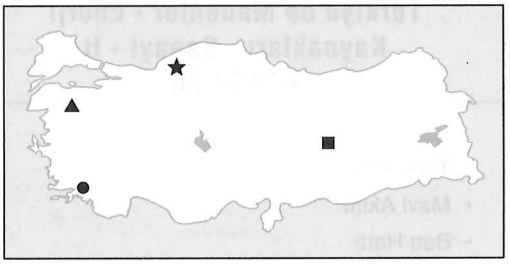

Yukarıdaki Türkiye haritasında bazı madenlerin çıkarım alanları gösterilmiştir.

Buna göre aşağıdakilerden hangisinde bu madenler doğru olarak verilmiştir?

	▲	★	■	●
A)	Demir	Bor	Cıva	Krom
B)	Bor	Bakır	Boksit	Kurşun-çinko
C)	Linyit	Demir	Boksit	Bakır
D)	Krom	Taşkömürü	Bor	Demir
E)	Bor	Taşkömürü	Demir	Krom

11. Türkiye'nin ilk nükleer santrali Mersin Akkuyu'ya kurulmaktadır.

Buna göre, Akkuyu nükleer santralinin yer seçiminde,

I. Hammaddeye yakınlık
II. Deprem riskinin az olması
III. Su kaynaklarına yakınlık
IV. Enerji tüketim merkezlerine yakınlık

faktörlerinden hangileri belirleyici olmuştur?

A) I ve II B) I ve III C) II ve III
D) II ve IV E) III ve IV

12. **Türkiye'de aşağıdaki madenlerden hangisinin toplam rezervi diğerlerinden daha azdır?**

A) Dolomit
B) Volfram
C) Mermer
D) Kaya tuzu
E) Bor

MURAT YAYINLARI

/muratyayincilik

13. **Aşağıda verilen termik santrallerden hangisinde farklı bir enerji kaynağı kullanılmaktadır?**

A) Yatağan
B) Soma
C) Çayırhan
D) Çeltek
E) Çatalağzı

14. **Aşağıdakilerden hangisi Türkiye'nin gelişmişlik düzeyini gösteren en önemli kanıtlardan biridir?**

A) Tüketilen enerji miktarı
B) Tarımsal nüfus yoğunluğu
C) Yeraltı zenginliği
D) Hammaddelerin bolluğu
E) Tarım alanlarının kullanılış biçimi

15.

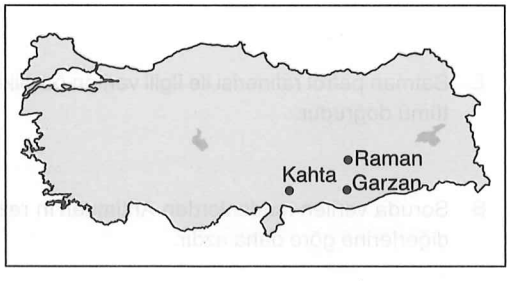

Haritada önemli çıkartım yerleri verilen yeraltı kaynağı aşağıdakilerden hangisidir?

A) Doğalgaz
B) Perlit
C) Petrol
D) Toryum
E) Asfaltit

16. **Aşağıdaki yerlerin hangisinde pamuklu dokuma sanayisi gelişmemiştir?**

A) Denizli
B) Malatya
C) Kayseri
D) Trabzon
E) Adana

17. I. Cumhuriyetin ilk petrol rafinerisidir.
II. Hammaddeye yakın kurulmuştur.
III. En küçük petrol rafinerisidir.

Batman petrol rafinerisiyle ilgili yukarıda verilenlerden hangileri doğrudur?

A) Yalnız I B) Yalnız II C) Yalnız III
D) I ve II E) I, II ve III

18. Türkiye maden rezervi yönünden zengin ülkeler arasında yer almaktadır.

Aşağıdaki madenlerden hangisinin bilinen rezervi daha azdır?

A) Çinko
B) Antimuan
C) Asfaltit
D) Demir
E) Feldspat

19. I. Denizli (Kızıldere)
II. İzmir (Alaçatı)
III. Muğla (Yatağan)
IV. Bursa (Ovaakça)

Yukarıda verilen enerji santrallerinden hangileri yenilenebilir kaynaklardan elektrik üretmektedir?

A) Yalnız II B) I ve II C) II ve III
D) II ve IV E) III ve IV

20. **Aşağıdakilerden hangisi tüm büyük kentlerin çevresinde gelişmiş bir ekonomik faaliyet değildir?**

A) Çimento
B) Kümes hayvancılığı
C) Şeker sanayi
D) Et - süt sanayi
E) Besi hayvancılığı

MURAT YAYINLARI

Açıklamalar • TEST 20

1. **E** Soruda verilen enerji hatlarında arz kaynağı ülke Rusya'dır.

2. **A** Türkiye enerji nakil hatlarından
Irak'tan → Petrol
İran'dan → Doğalgaz
Rusya'dan → Doğalgaz
alımı yaparken, Gürcistan'dan petrol ya da doğalgaz alımı yapmaz.

3. **E** Türkiye'de son yıllarda organize sanayi bölgelerinin kent dışında toplanma nedenleri arasında ürünlerin dış pazardaki rekabet gücünü artırmak gösterilemez.

4. **D** Bazı tarım ürünlerinin üretildiği yerlerde hammaddeden dolayı, o bölgede sanayi tesisleri kurulur. Ancak İstanbul'da pamuklu dokuma tesislerinin kurulması, nüfusun çok olması yani pazar ile açıklanır.

5. **D** Rize'de her mevsim yağış, şeker pancarı üretimini engellediği için fabrikası bulunmaz.

6. **A** Bakü-Tiflis-Ceyhan boru hattıyla Azerbaycan'dan petrol taşımacılığı yapılırken, diğerlerinden doğalgaz taşınmaktadır.

7. **D** Zonguldak Ereğli demir-çelik fabrikasının açılmasında enerji kaynağına ve su kaynağına yakınlık dikkate alınmıştır.

8. **A** Türkiye elektrik üretiminde kömürün (ithal, yerli ve linyit) payı %36 ile en fazladır.

9. **D** Otomotiv Nevşehir'de gelişmemiştir. Soruda verilen diğer eşleştirmeler ise doğrudur.

10. **E** ▲ Susurluk çevresindeki bor madenini, ★ Zonguldak çevresindeki taşkömürünü, ■ Hekiman çevresndeki demiri, ● Muğla çevresindeki kromu göstermektedir.

11. **C** Mersin Akkuyu nükleer santralinin yer seçiminde deprem riskinin az olması ve su kaynaklarına yakınlık belirleyici olmuştur.

12. **B** Soruda verilen madenlerden Türkiye'de rezervi daha az olan maden volframdır.

13. **E** Çatalağzı termik santralinde taş kömürü kullanılmaktadır. Diğer seçeneklerde verilen santrallerde linyit kullanılmaktadır.

14. **A** Tüketilen enerji miktarı ülkenin sanayisinin gelişmişlik düzeyi hakkında bilgi verir. Sanayisi gelişmiş ülkelerde enerji tüketimi fazladır.

15. **C** Haritada çıkartım yerleri verilen yeraltı kaynağı petroldür.

16. **D** Trabzon'da Karadeniz iklimi etkilidir ve pamuk tarımı yapılmaktadır. Bu nedenle pamuklu dokuma sanayisi gelişmemiştir.

17. **E** Batman petrol rafinerisi ile ilgili verilen özelliklerin tümü doğrudur.

18. **B** Soruda verilen madenlerden Antimuan'ın rezervi diğerlerine göre daha azdır.

19. **B** Denizli Kızıldere jeotermal, İzmir Alaçatı rüzgârdan elektrik üretimi yapmaktadır. Jeotermal ve rüzgâr yenilenebilir enerji kaynakları arasında yer almaktadır.

20. **C** Büyük kentlerde nüfusun fazla olmasına bağlı olarak tüketim artmaktadır. Bu durum verimin fazla olduğu yöntemlerin yaygınlaşmasına yol açmıştır. Besi hayvancılığı, kümes hayvancılığı, et ve süt ürünleri sanayisi genelde büyük kentler çevresinde yoğunlaşmıştır. Şehirlerde konut yapımının fazla olması çimento fabrikalarının buralarda gelişmesine yol açmıştır. Şeker sanayisinde hammadde olarak kullanılan şeker pancarı daha çok iç kesimlerde yetiştirilir. Çabuk bozulabilen bir ürün olduğu için şeker fabrikaları, şeker pancarı üretilen yerlerin yakınına kurulmuştur. Bu nedenle şeker fabrikalarının dağılımında ham maddeye yakınlık belirleyicidir ve bundan dolayı her büyük kentin çevresinde şeker fabrikası gelişmiş diyemeyiz.

MURAT YAYINLARI

/muratyayincilik

Türkiye'de Madenler - Enerji Kaynakları - Sanayi - III
• TEST 21

1. Bir sanayi kuruluşunun yerinin belirlenmesindeki koşullardan biri de hammaddeye yakınlıktır.

Aşağıdaki sanayi kuruluşlarından hangisi bu duruma uymaz?

A) Manisa - Sigara
B) Zonguldak - Kağıt
C) Ereğli - Demir Çelik fabrikası
D) Batman - Petrol rafinerisi
E) Eskişehir - Şeker

2. • Kimya sektöründe kullanılmaktadır.
• Ankara Beypazarı önemli çıkartım alanıdır.
• İhracatı yapılan madenler arasındadır.

Önemli özellikleri verilen maden aşağıdakilerden hangisidir?

A) Krom B) Trona C) Boksit D) Feldspat E) Asbest

3. I. Fuel-oil
II. Asfaltit
III. Biyokütle
IV. Toryum

Türkiye'de yukarıda verilen enerji kaynaklarının hangilerinden elektrik üretimi gerçekleştirmez?

A) Yalnız IV B) I ve II C) I ve III D) II ve IV E) III ve IV

4. • Antalya Alanya-Gazipaşa önemli çıkartım alanıdır.
• Metalik yapıda değildir.
• Sondaj çalışmalarında kullanılmaktadır.

Önemli özellikleri verilen yeraltı kaynağı aşağıdakilerden hangisidir?

A) Molibden B) Asfaltit C) Trona D) Perlit E) Barit

5. **Aşağıda verilen yer ve burada bulunan sanayi kuruluşu eşleştirmelerinden hangisi hammaddeye yakınlık nedeniyle kurulmuştur?**

A) İskenderun – Demir çelik tesisi
B) Elazığ – Bakır tesisi
C) Ankara – Mobilya
D) İstanbul – İpekli dokuma
E) Kayseri – Pamuklu dokuma

6. I. Çanakkale (Kaz dağları)
II. Artvin (Cerattepe)
III. Gümüşhane (Mastra)

Türkiye'de yukarıda verilen yerlerin hangilerinde altın çıkartımı yapılmaktadır?

A) Yalnız I B) Yalnız III C) I ve II D) I ve III E) I, II ve III

7. 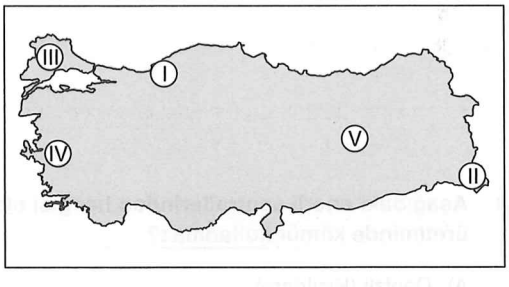

Türkiye'de kağıt selülozdan üretilir. Selülozun hammaddesi ise orman ürünleridir.

Buna göre, yukarıdaki haritada numaralandırılmış alanların hangisine kağıt fabrikası kurmak daha avantajlı olur?

A) I B) II C) III D) IV E) V

MURAT YAYINLARI

8. I. Rusya - Mavi Akım
II. Azerbaycan - Bakü - Tiflis - Erzurum
III. Irak - Musul - Kerkük - Yumurtalık

Yukarıda verilen ülke-enerji nakil hattı eşleştirmelerinden hangileri doğrudur?

A) Yalnız I B) Yalnız II C) Yalnız III
D) I ve II E) I, II ve III

9. Türkiye'nin en önemli ekonomik sorunlarından biri de enerji üretiminde hammadde yetersizliğidir.

I. Enerji nakil hatlarındaki kaybı azaltmak
II. Sanayi bölgelerinde enerji tüketimini kısıtlamak
III. Enerjiyi ithalat yoluyla karşılamak
IV. Yenilenebilir enerji kaynaklarına yönelmek

Yukarıdakilerden hangileri Türkiye'de enerji sorunu giderebilmek için yapılması gerekenlerden biri değildir?

A) Yalnız I B) Yalnız III C) I ve IV
D) II ve III E) III ve IV

10. **Aşağıdaki enerji santrallerinden hangisi elektrik üretiminde kömür kullanmaz?**

A) Denizli (Kızıldere)
B) Muğla (Gökova)
C) Sivas (Kangal)
D) Ankara (Çayırhan)
E) Manisa (Soma)

11. **Türkiye elektrik üretiminde aşağıdaki enerji kaynaklarından hangisinin payı daha azdır?**

A) Doğalgaz
B) Hidrolik
C) Linyit
D) İthal kömür
E) Rüzgâr

12. 

Yukarıdaki haritada verilen enerji üreten santrallerle ilgili aşağıdakilerden hangisi söylenemez?

A) Çatalağzı termik santrali taşkömürü ile çalışmaktadır.
B) Sarayköy santralindeki üretim iklim koşullarına göre değişmektedir.
C) Afşin-Elbistan termik santrali çevre kirliliği yaratmaktadır.
D) Ovaakça termik santralinin hammaddesi ithalat yoluyla karşılanmaktadır.
E) Oymapınar'daki santral su gücü ile çalışmaktadır.

13. **Aşağıdakilerden hangisi Türkiye'de ekonomiyi etkileyen olumlu faktörlerden biri değildir?**

A) Üç kıtanın birbirine en yakın olduğu yerde bulunması
B) Önemli ulaşım yolları olan boğazlara sahip olması
C) İklim çeşitliliğinin fazla olması
D) Hızlı nüfus artışı
E) Turizm çeşitliliğinin fazla olması

MURAT YAYINLARI

/muratyayincilik

14. Türkiye'de aşağıdaki sanayi kuruluşlarından hangisinin dağılışı daha sınırlıdır?

A) Çimento
B) Unlu gıdalar
C) Pamuklu dokuma
D) Savunma
E) Mobilya

15.



Haritada taranarak gösterilen alanda aşağıdaki madenlerden hangisinin çıkartımı daha sınırlıdır?

A) Mermer
B) Volfram
C) Bor
D) Altın
E) Kükürt

16. Aşağıdaki endüstri kuruluşu-yer eşleştirmelerinden hangisi yanlıştır?

A) Raylı sistemler-Eskişehir
B) Hava taşıtları-Ankara
C) Savunma-Kırıkkale
D) Otomotiv-Edirne
E) Tersane-Kocaeli

17. Türkiye'nin ihracatı içerisinde aşağıdaki madenlerden hangisinin payı daha fazladır?

A) Fosfat
B) Krom
C) Mermer
D) Kurşun
E) Asfaltit

18. Aşağıdakilerden hangisi elektrik üretiminde sıcak su kaynaklarını kullanmaz?

A) Denizli (Kızıldere)
B) Manisa (Alaşehir)
C) Aydın (Germencik)
D) Çanakkale (Tuzla)
E) Konya (Kızören)

19.

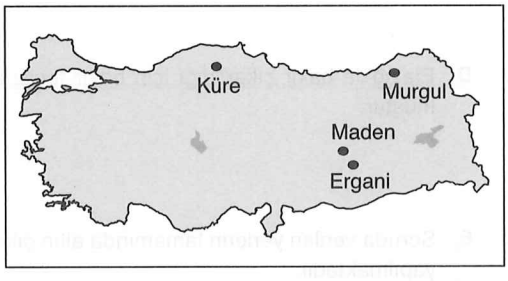

Haritada önemli çıkartım yerleri verilen maden aşağıdakilerden hangisidir?

A) Krom
B) Trona
C) Altın
D) Bakır
E) Demir

20. Türkiye'de Doğu Karadeniz kıyı kesimi hariç, diğer alanlar güneş enerjisi elde etmeye elverişlidir.

Doğu Karadeniz Bölümü'nün kıyı kesiminde güneş enerji potansiyelinin düşük olmasının nedeni aşağıdakilerden hangisidir?

A) Dağınık yerleşme görüldüğünden
B) Ormanların geniş alan kapladığından
C) Yerşekillerinin engebeli oluşundan
D) Bulutluluk oranının yüksek olmasından
E) Tarım alanlar dar olmasından

MURAT YAYINLARI

Açıklamalar • TEST 21

1. **C** Ereğli demir-çelik fabrikasının kurulmasındaki öncelikli etken bu bölgede taşkömürünün bulunmasıdır. Bu fabrikanın yerinin belirlenmesinde enerji kaynağına yakınlık etkili olmuştur.

2. **B** Soruda özellikleri verilen maden Trona (doğal soda)'dır.

3. **A** Türkiye'de nükleer santrallerin hammaddesi olan toryumdan elektrik üretimi yapılmaz. Artvin'de fuel-oil, Silopi'de asfaltit ve büyükşehirlerde biyokütleden elektrik üretimi yapılmaktadır.

4. **E** Özellikleri verilen maden barittir.

5. **B** Elazığ'da bakır çıkarıldığı için bakır tesisi kurulmuştur.

6. **E** Soruda verilen yerlerin tamamında altın çıkartımı yapılmaktadır.

7. **A** Karadeniz Bölgesi'nde karadeniz iklimi etkilidir ve bitki örtüsü ormandır. Kağıt üretimi için hammadde yeterli miktarda bulunmaktadır.

8. **E** Soruda verilen enerji nakil hattı-ülke eşleştirmelerinin tümü doğrudur.

9. **D** Sanayi bölgelerinde enerji tüketimini kısıtlamak ve enerjiyi ithal etmek enerji sorununu gidermek için yapılması gereken tedbirlerden değildir.

10. **A** Denizli Kızıldere jeotermalden elektrik üretirken, diğerleri kömürden elektrik üretmektedir.

11. **E** Verilen enerji kaynaklarından rüzgârın payı %8 ile en azdır.

12. **B** Sarayköy'de jeotermalle çalışan santral bulunmaktadır. Jeotermal enerji üretimi iklim koşullarından etkilenmez.

13. **D** Hızlı nüfus artışı sonucunda nüfus artar ve bu durum ekonomiyi olumsuz etkiler.

14. **D** Soruda verilen endüstri kollarından savunma daha sınırlı iken diğerleri tüm bölgelerde bulunmaktadır.

15. **E** Haritada taranarak gösterilen alanda,
Mermer ⟶ Bursa, Balıkesir, Çanakkale, Bilecik'te
Volfram ⟶ Uludağ'da
Bor ⟶ Bursa, Balıkesir'de
Altın ⟶ Kaz Dağları'nda
çıkartılmaktadır. Ancak kükürtün önemli çıkartım alanı bulunmaz.

16. **D** Soruda verilen Edirne-otomotiv eşleştirmesi yanlıştır. Marmara'da otomotiv İstanbul, Kocaeli, Sakarya ve Bursa'da gelişmiştir.

17. **C** Türkiye'nin maden ihracatında mermerin payı daha fazladır.

18. **E** Konya Kızören'de elektrik üretimi güneşten, diğerleri ise jeotermalden gerçekleştirilmektedir.

19. **D** Haritada önemli çıkartım yerleri verilen maden bakırdır.

20. **D** Doğu Karadeniz Bölümü'nün kıyı kesiminde güneş enerji potansiyeli azdır. Bu durumda bulutluluk oranının yüksek olması etkili olmuştur.

MURAT YAYINLARI

/muratyayincilik

Türkiye'de Madenler - Enerji Kaynakları - Sanayi - IV • TEST 22

1. **Aşağıdaki hidroelektrik santrallerden hangisinin toplam kurulu enerji gücü daha yüksektir?**

A) Hirfanlı
B) Deriner
C) Atatürk
D) Karakaya
E) Keban

2. **Aşağıdaki illerden hangisinin güneş enerjisi potansiyeli daha azdır?**

A) Şanlıurfa
B) Antalya
C) Konya
D) İzmir
E) Karabük

3. **Türkiye'nin sanayisi ile ilgili aşağıdaki yargılardan hangisi yanlıştır?**

A) Sanayi sektörünün milli gelir içindeki payı son yıllarda artmıştır.
B) Pamuklu dokuma fabrikaları daha çok Ege ve Akdeniz bölgelerinde yaygındır.
C) Sanayi kuruluşları daha çok kıyı bölgelerde yoğunlaşmıştır.
D) Petrol işleyen sanayi kollarının çoğu hammaddeye uzak yerlere kurulmuştur.
E) Kimya sanayisinde kullanılan hammaddenin tümü ülke içinden sağlanmaktadır.

4. I. Bakü - Tiflis - Erzurum
II. Mavi Akım
III. Batman - Dörtyol

Yukarıda verilen enerji nakil hatlarından hangilerinden doğalgaz taşımacılığı yapılmaktadır?

A) Yalnız I B) Yalnız II C) Yalnız III
D) I ve II E) I, II ve III

5. **Türkiye'de enerji üretiminde yararlanılan, aşağıdaki kaynaklardan hangisi daha fazla çevre kirliliğine yol açar?**

A) Linyit
B) Jeotermal
C) Hidroelektrik
D) Rüzgar
E) Doğalgaz

6. I. Seydişehir boksit endüstrisi
II. Kırıkkale petro-kimya endüstrisi
III. Samsun bakır endüstrisi

Yukarıda verilen endüstri kuruluşlarından hangileri hammaddeye yakın kurulmuştur?

A) Yalnız I B) Yalnız II C) I ve II
D) II ve III E) I, II ve III

7. **Aşağıdaki enerji kaynaklarından hangisinde santralin kurulması için hammaddeye yakınlık zorunludur?**

A) Taşkömürü
B) Petrol
C) Doğalgaz
D) Linyit
E) Akarsu

8. **Türkiye'de enerji üretiminde aşağıdaki enerji kaynaklarından hangisinden yararlanılmaz?**

A) Rüzgar
B) Doğalgaz
C) Uranyum
D) Güneş
E) Linyit

MURAT YAYINLARI

9. **Aşağıdaki maden-çıkartım yeri eşleştirmelerinden hangisi yanlıştır?**

A) Trona - Ankara (Beypazarı)
B) Boksit - Muğla (Milas)
C) Fosfat - Mardin (Mazıdağı)
D) Demir - Sivas (Divriği)
E) Cıva - Zonguldak (Kozlu)

10. Aşağıdaki haritada gösterilen merkezlerin her birinde sanayi tesislerinin bulunduğu bilinmektedir.



Buna göre, bu merkezlerde aşağıdaki sanayi kollarından hangisine bağlı sanayi tesislerinin ortak olarak bulunduğu söylenebilir?

A) Maden
B) Pamuklu dokuma
C) Gübre
D) Şeker
E) Kağıt

11. Bulutlu gün sayısı arttıkça, güneş enerjisinden yararlanma süresi azalır.

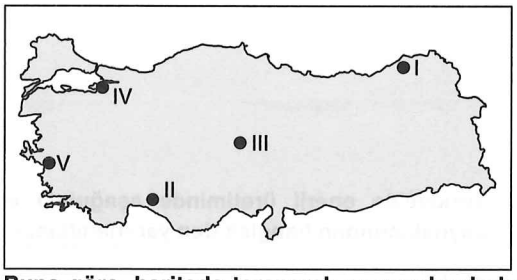

Buna göre, haritada taranarak numaralandırılan yörelerden hangisi güneş enerjisinden yıl boyunca daha fazla yararlanır?

A) I B) II C) III D) IV E) V

12. I. Irak
II. Rusya
III. Azerbaycan
IV. İran

Türkiye yukarıda verilen ülkelerin hangilerinden enerji nakil hatlarıyla hem petrol hem de doğalgaz alımı yapmaktadır?

A) Yalnız III B) I ve II C) II ve III
D) II ve IV E) III ve IV

13.

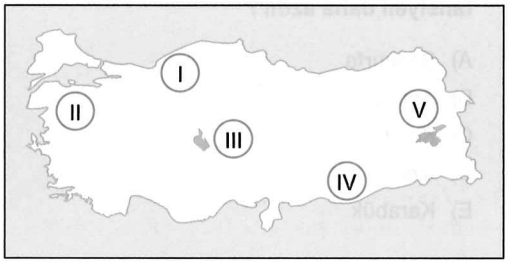

Konserve imalatı yapan bir yatırımcı, yeni fabrikasını bu iş için gerekli olan sebzeyi kolay ve ucuza temin edebileceği bir yere kurmak istemektedir.

Buna göre, bu yatırımcının fabrikayı haritada numaralarla gösterilen yerlerden hangisine kurması maliyetin düşük olmasına neden olur?

A) I B) II C) III D) IV E) V

14. **Aşağıdaki endüstri kuruluşlarından hangisinin Türkiye genelinde daha az sayıda olduğu söylenebilir?**

A) Çimento
B) Şeker
C) Konserve
D) Tekstil
E) Otomotiv

MURAT YAYINLARI

/muratyayincilik

15. Aşağıdaki enerji santrallerinden hangisi elektrik üretiminde fosil yakıt kullanır?

A) İstanbul (Ambarlı)
B) İzmir (Alaçatı)
C) Denizli (Sarayköy)
D) Artvin (Deriner)
E) Konya (Kızören)

16. Türkiye'de çıkartılan aşağıdaki madenlerden hangisi metalik kökenli değildir?

A) Demir
B) Krom
C) Bor
D) Volfram
E) Kurşun

17. Türkiye'de asfaltitle çalışan termik santral aşağıdaki kentlerden hangisinde bulunmaktadır?

A) Rize
B) Edirne
C) Şırnak
D) Sinop
E) İzmir

18. Haritada bazı madenlerin çıkartım alanları verilmiştir.

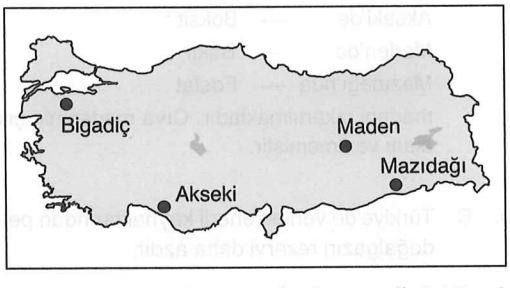

Buna göre, verilen madenler aşağıdakilerden hangisiyle eşleştirilemez?

A) Boksit
B) Cıva
C) Bor
D) Bakır
E) Fosfat

19. I. Petrol
II. Linyit
III. Doğalgaz
IV. Taşkömürü

Türkiye'de yukarıda verilen enerji kaynaklarından hangilerinin rezervi daha azdır?

A) I ve II B) I ve III C) II ve III
D) II ve IV E) III ve IV

20.



Yukarıda verilen alanlardan elde edilen enerji kaynağı aşağıdakilerden hangisidir?

A) Jeotermal
B) Linyit
C) Güneş
D) Hidroelektrik
E) Rüzgar

21. Aşağıdakilerden hangisi kömür çıkartım alanlarından biri değildir?

A) Zonguldak (Kilimli)
B) Amasya (Çeltek)
C) Mardin (Çamurlu)
D) Kahramanmaraş (Elbistan)
E) Karaman (Ermenek)

MURAT YAYINLARI

Açıklamalar • TEST 22

1. C Soruda verilen hidroelektrik santrallerden 2400 MW ile Atatürk Barajı'nın elektrik üretim kapasitesi daha fazladır.

2. E Karabük'te yağış rejiminden dolayı bulutluluk süresi fazladır ve güneş enerjisi potansiyeli daha düşüktür.

3. E Kimya sanayisinde kullanılan hammaddenin büyük bir kısmı ithal edilmektedir.

4. D Batman-Dörtyol hattından petrol taşımacılığı yapılırken, diğerlerinden doğalgaz taşımacılığı yapılmaktadır.

5. A Linyit fosil kökenli bir yakıttır, ve çevre kirliliğini arttırır.

6. A Seydişehir boksit endüstrisi hammadde, Kırıkkale petro-kimya ve Samsun bakır endüstrisi ulaşım koşulları dikkate alınarak kurulmuştur.

7. E Hidroelektrik santraller su gücüyle elektrik üretir. Akarsu üzerine kurulur, uzağa kurulamaz.

8. C Uranyum nükleer santrallerde kullanılır. Türkiye'de nükleer enerji henüz kullanılmamaktadır.

9. E Zonguldak Kozlu-cıva eşleştirmesi yanlış verilmiştir.

10. A Ereğli, Karabük, İskenderun, Divriği: Demir-çelik
Samsun, Murgul: Bakır
Antalya, Elazığ: Ferro krom tesisleri bulunduğu için ortak özellikleri maden sanayisinin olmasıdır.

11. B Akdeniz Bölgesi güneşli gün sayısı fazla olduğu için seracılık ve sıcak su şeklinde güneş enerjisinden en fazla yararlanılan yerdir.

12. A Türkiye sadece Azerbaycan'dan enerji nakil hatlarıyla hem petrol hem de doğalgaz alımı yapmaktadır.

13. B Sebze üretimi için Akdeniz iklim koşulları elverişlidir. II numara ile gösterilen Güney Marmara Bölümü'nde sebze üretimi yapılmaktadır. Bu nedenle buraya kurulan konserve fabrikasında maliyet daha düşük olur.

14. E Otomotiv sanayi diğer seçeneklerdeki sanayi dallarına göre Türkiye'de fazla yaygın değildir. Çimento, şeker, konserve ve tekstil sanayinin hammaddeleri çok olduğu ve kolay temin edildiği için gelişmiştir.

15. A İstanbul(Ambarlı) termik santrali fosil yakıt olan doğalgazı kullanmaktadır.

16. C Bor minerallerden oluşan metalik yapıda olmayan madendir. Diğerleri metalik yapıdadır.

17. C 2013 yılında Şırnak-Silopi'de asfaltitle çalışan termik santral kurulmuştur.

18. B Soruda verilen yerlerden
Bigadiç'te → Bor
Akseki'de → Boksit
Maden'de → Bakır
Mazıdağı'nda → Fosfat
madeni çıkartılmaktadır. Cıva madeninin çıkartım alanı verilmemiştir.

19. B Türkiye'de verilen enerji kaynaklarından petrol ve doğalgazın rezervi daha azdır.

20. A Haritada gösterilen Germencik ve Sarayköy jeotermal enerjinin yoğun olarak bulunduğu alanlardır.

21. C Mardin Çamurlu doğalgaz diğerleri ise kömür çıkartım alanlarıdır.

MURAT YAYINLARI

/muratyayincilik

Türkiye'de Ulaşım - Ticaret - Turizm - I
• TEST 23

1. **Türkiye'nin ihracat gelirleri içerisindeki en büyük payı aşağıdakilerden hangisi oluşturmaktadır?**

A) Tekstil
B) Kazan-makine
C) Motorlu kara taşıtları
D) Kimyevi ürünler
E) Çimento

2. I. Türkiye'nin en büyük limanıdır. En önemli ithalat ve ihracat limanıdır.
II. Hinterlandı geniş ve özellikle ihracata yönelik gelişmiştir.
III. Önemli bir turizm limanıdır.

Yukarıda özellikleri verilen limanlar aşağıdakilerin hangisinde doğru verilmiştir?

	I	II	III
A)	İstanbul	İzmit	İzmir
B)	İzmir	İstanbul	Antalya
C)	İstanbul	İskenderun	İzmir
D)	İstanbul	İzmir	Antalya
E)	İzmir	Antalya	İstanbul

3. **Aşağıdaki milli parklardan hangisinin bulunduğu yer yanlıştır?**

A) Gala Gölü - Edirne
B) Hatila Vadisi - Artvin
C) Köprülü Kanyon - Antalya
D) Tek Tek Dağları - Siirt
E) İğneada Longoz Ormanları - Kırklareli

4. Türkiye'de 67 bin km üzerinde karayolu bulunmaktadır.

Aşağıdaki illerden hangisinde toplam karayolu uzunluğu daha fazladır?

A) İstanbul
B) İzmir
C) Konya
D) Ankara
E) Bursa

5. Türkiye'de yolcu taşımacılığında %86 ile en fazla karayolu tercih edilmektedir.

Bu durum,

I. Ulaşılabilirliğinin fazla olması
II. Kaza riskinin az olması
III. Daha fazla ürün taşıması

faktörlerinden hangileriyle açıklanır?

A) Yalnız I B) Yalnız II C) Yalnız III
D) I ve II E) I, II ve III

6. Türkiye'de ulaşım bazı doğal ve beşeri şartların etkisi altındadır. Bu etki özellikle kara ulaşımı üzerinde daha da belirgindir.

Aşağıdakilerden hangisi Türkiye'de yüzey şekillerinin ulaşım üzerindeki etkileriyle ilgili doğru bir yargı değildir?

A) Ege Bölgesinde karayollarının özellikle doğu-batı doğrultusunda uzandığı görülmektedir.
B) Marmara Denizi'nde kuvvetli fırtına yaşandığı dönemlerde deniz yolu ulaşımı aksamaktadır.
C) Yüzey şekillerinin engebeli olması ve sıradağların bazı yerlerde kesintisiz uzanması kara ulaşımını kısıtlamıştır.
D) Kuzey ve güneydeki kıyı kesimleri ile iç kısımlar arasında ulaşım bazı doğal geçitlerden sağlanmıştır.
E) Doğu Anadolu Bölgesi'nde yollar genellikle alçak düzlüklerden ve vadi tabanlarından geçmektedir.

7.

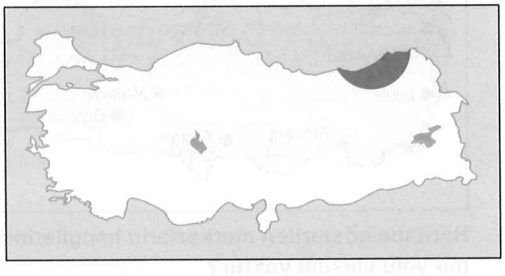

Haritada taranmış alanda yayla, rafting ve dağcılık gibi turizm faaliyetlerinin gelişmesi aşağıdakilerden hangisi ile açıklanabilir?

A) Yıllık yağış miktarının fazla olması
B) Karstik arazilerin bulunması
C) Dağların kıyıya paralel uzanması
D) Orman örtüsünün geniş yer kaplaması
E) Engebe ve yükseltinin fazla olması

MURAT YAYINLARI

8. Limanların fiziksel olarak büyük ya da küçük olmasından çok işleklik durumu ve çevresiyle olan bağlantısı önemlidir.

Yukarıdaki bilgilere göre bir limanın gelişmesinde aşağıdakilerden hangisinin etkisi daha fazladır?

A) Büyük denizlere yakın olması
B) Dalgakıranlarla korunması
C) Hinterlandının geniş olması
D) Okyanus kıyısında bulunması
E) Limanın doğal olması

9. Türkiye'de bölgeler ve yöreler arasında iklim özelliklerinin farklılık göstermesi bu yerler arasında yetiştirilen tarım ürünlerininde farklılık göstermesine neden olmuştur.

Buna göre yukarıdaki açıklama dikkate alındığında hangi iki kent arasında tarıma dayalı ticaretin gelişmesi beklenemez?

A) İzmir - Aydın
B) Konya - Rize
C) Antalya - Edirne
D) Ankara - Adana
E) Mersin - Iğdır

10.

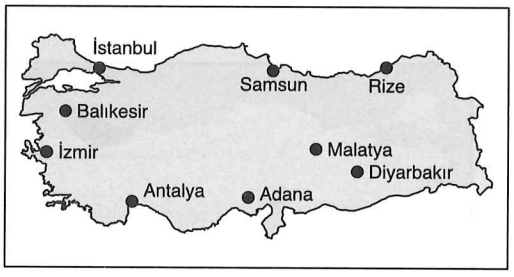

Haritada gösterilen merkezlerin hangilerinde demir yolu ulaşımı yoktur?

A) İzmir-İstanbul
B) Samsun-Balıkesir
C) Adana-Diyarbakır
D) Antalya-Rize
E) Malatya-Samsun

11. Türkiye'de illerin çoğunda havaalanı bulunmaktadır.

Buna göre, aşağıdakilerden hangisi sözü edilen illerden biri değildir?

A) Edirne
B) Muğla
C) Şırnak
D) Ağrı
E) Samsun

12. Türkiye'de kara ve demiryollarının büyük bir kısmı batıdan doğuya doğru uzanır.

Bu durum aşağıdakilerden hangisinin sonucudur?

A) Üç tarafın denizlerle çevrili olması
B) Ülkenin her bölgesinin aynı düzeyde gelişmeyişi
C) Dağların genelde doğu batı yönünde uzanması
D) Şehirlerin genelde batıya doğru genişlemesi
E) Farklı iklim özelliklerinin görülmesi

13. I. Sertavul
II. Gülek
III. Zigana
IV. Belen
V. Çubuk

Yukarıda verilenlerden hangisi güney kıyılarımızı ile iç kesimleri birbirine bağlayan geçitler arasında sayılmaz?

A) I B) II C) III D) IV E) V

14. **Aşağıdaki turizm varlığı - yer eşleştirmelerinden hangisi yanlıştır?**

A) Çatalhöyük - Çorum
B) Gordion - Ankara
C) Alişar - Yozgat
D) Milet - Aydın
E) Artemis - İzmir

MURAT YAYINLARI

/muratyayincilik

15. • Sanayi tesislerinin dengeli dağılmaması
• Nüfusun dengeli dağılmaması
• Ulaşım ağının gelişmiş olması
• İklim çeşidinin fazla olması

Yukarıda verilen özellikler Türkiye'de aşağıdaki faaliyetlerden hangisinin gelişmesinde daha fazla etkili olmuştur?

A) Sanayi
B) Tarım
C) Turizm
D) İç ticaret
E) Madencilik

16. • Perge Antik Kenti
• Termessos
• Dim çayı

Verilen önemli turizm merkezleri aşağıdaki illerden hangisinde bulunmaktadır?

A) İzmir
B) Adana
C) Muğla
D) Antalya
E) Balıkesir

17. **Türkiye'de aşağıdakilerden hangisi UNESCO'nun koruma altına aldığı yerlerden biri değildir?**

A) Cumalıkazık (Bursa)
B) Kapadokya (Nevşehir)
C) Ani Harabeleri (Kars)
D) St. Pier Kilisesi (Hatay)
E) Afrodisias (Aydın)

18. • Olimpos Millî Parkı
• Altınbeşik Mağarası Millî Parkı
• Termessos Millî Parkı

Verilen millî parklar aşağıdaki illerden hangisinde bulunur?

A) Mersin B) Antalya C) Muğla
D) İzmir E) Aydın

19. 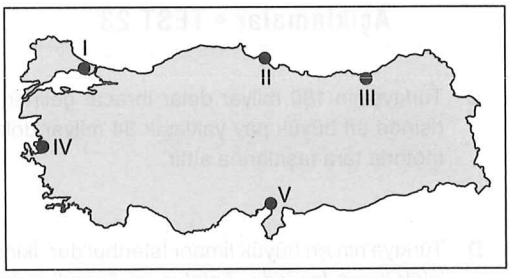

Bir limana ana yollarla bağlı olan ekonomik alana o limanın hinterlandı (art bölgesi) denir.

Buna göre, yukarıdaki haritada numaralandırılan limanlardan hangisinin hinterlandı diğerlerine göre daha dardır?

A) I B) II C) III D) IV E) V

20. I. Daha çok Avrupa ülkeleriyle yapılmaktadır.
II. İhracatın ithalatı karşılama oranı yüksektir.
III. İthalatta genelde yerli para kullanılmaktadır.

Türkiye'nin dış ticaretine ilişkin yukarıda verilenlerden hangileri doğrudur?

A) Yalnız I B) Yalnız II C) Yalnız III
D) I ve II E) I, II ve III

21. I. İstanbul
II. Mersin
III. Giresun
IV. Sinop

Yukarıda verilen limanlardan hangilerinin demiryolu bağlantısı bulunmamaktadır?

A) Yalnız I B) I ve II C) I ve III
D) II ve III E) III ve IV

MURAT YAYINLARI

Açıklamalar • TEST 23

1. C Türkiye'nin 180 milyar dolar ihracat gelirleri içerisinde en büyük pay yaklaşık 34 milyar dolar ile motorlu tara taşıtlarına aittir.

2. D Türkiye'nin en büyük limanı İstanbul'dur. İkinci en işlek liman İzmir'dir. Antalya en önemli turizm limanlarından biridir.

3. D Tek Tek Dağları Milli Parkı Şanlıurfa'da yer almaktadır.

4. C Türkiye'de en fazla karayolu yüzölçümü en büyük olduğu için Konya'da bulunur. (3 bin km üzeri)

5. A Türkiye'de yolcu taşımacılığında karayolunun tercih edilmesi ulaşılabilirliğinin fazla olmasıyla ilgilidir. Karayolları daha az ürün taşırken kaza riskide fazladır.

6. B Denizyolu ulaşımının aksamasının nedeni şiddetli fırtına yani iklimdir.

7. E Haritada taranmış olan Doğu Karadeniz'de;
   - Yıllık yağış miktarının fazla olmasında dağların kıyı çizgisine göre uzanışı, yükselti, hakim rüzgar yönü ve bitki örtüsünün etkisi vardır.
   - Bu alanda azda olsa litolojik özelliklerden dolayı karstik araziler bulunur. Örneğin; Gümüşhane'deki Karaca Mağarası.
   - Doğu Karadeniz'deki Rize, Giresun gibi dağlar Kuzey Anadolu Dağ sistemi için kıyıya paralel olarak uzanır.
   - Yörede, görülen her mevsim yağışlı Karadeniz ikliminden dolayı orman örtüsü gür ve geniş yer kaplar.
   - Yörede, yükselti ve engebenin fazla olması yani jeomorfolojik özellikler yaylacılık, rafting ve dağcılık gibi faaliyetlerin gelişmesine neden olmuştur.

8. C Bir limanın gelişmesinde öncelikli etken hinterlandın geniş olmasıdır.

9. A Seçeneklerde verilen illerden İzmir ve Aydın'da aynı iklim özelliklerinin yaşanmasından dolayı benzer ürünler yetiştirilmektedir. Bu nedenle bu iki il arasında tarıma dayalı ticaret diğer illere göre daha az gelişmiştir.

10. D Yerşekillerinden dolayı Antalya ve Rize'de demiryolu bağlantısı yoktur.

11. A Soruda verilen illerden Edirne'de havaalanı bulunmamaktadır.

12. C Türkiye'de ulaşımın doğu-batı yönlü uzanmasının en büyük nedeni dağların bu yönde uzanış göstermesidir.

13. C Zigana Geçidi Doğu Karadeniz Bölümü'nde bulunur. Trabzonu, Gümüşhane'ye bağlayan geçittir.

14. A Çatalhöyük Konya'da yer almaktadır. Çorum'da Alacahöyük bulunmaktadır.

15. D Verilen özellikler Türkiye'de iç ticaretin gelişmesine neden olmuştur.

16. D Soruda verilen önemli turizm merkezleri Antalya'da bulunmaktadır.

17. D Hatay'da bulunan St. Pier Kilise'si UNESCO Dünya Kültür Mirasları listesinde yer almaz.

18. B Soruda verilen millî parklar Antalya'da bulnmaktadır.

19. C III numara ile gösterilen Rize yerşekillerinden dolayı hinterlandı dar bir liman özelliği göstermektedir.

20. A Türkiye ihracatının yarısından fazlasını Avrupa ülkeleriyle yapmaktadır. İhracatın ithalatı karşılama oranı düşük, ithalatta ise büyük oranda yabancı para kullanılmaktadır.

21. E Soruda verilen illerden Giresun ve Sinop limanlarına demiryolu bağlantısı bulunmamaktadır.

MURAT YAYINLARI

/muratyayincilik

Türkiye'de Ulaşım - Ticaret - Turizm - II • TEST 24

1. • Salda Gölü
• Sagalossos
• İnsuyu Mağarası

Verilen önemli turizm alanları aşağıdaki illerden hangisinde bulunmaktadır?

A) Antalya
B) Burdur
C) Muğla
D) Aydın
E) Mersin

2. Aşağıda turistik değeri yüksek karstik oluşumlar verilmiştir.
• Karain Mağarası
• İnsuyu Mağarası
• Ballıca Mağarası
• Cennet ve Cehennem Obrukları

Aşağıdakilerden hangisi bu oluşumların bulunduğu illerden biri değildir?

A) Tokat
B) Burdur
C) Mersin
D) Gümüşhane
E) Antalya

3. Türkiye'nin ihracat gelirleri içinde tarım ürünlerinin payı 1936 yılında %77 iken 2007 yılında %8'e düşmüştür.

Buna göre;

I. Türkiye'de tarımsal üretim azalmıştır.
II. Türkiye'de tarım dışı sektörler gelişmiştir.
III. Türkiye'nin ekonomik yapısı değişmiştir.

yargılarından hangilerine ulaşılabilir?

A) Yalnız I B) I ve II C) I ve III
D) II ve III E) I, II ve III

4. I. İhracatta imalat ürünlerinin payı en fazladır.
II. İthalatta mineral yağlar ve yakıtlar ilk sırada yer alır.
III. Dış ticaret hacminde Almanya lider ülke konumundadır.

Türkiye'nin dış ticaretine ilişkin yukarıdakilerden hangilerinin doğru olduğu söylenir?

A) Yalnız I B) Yalnız II C) Yalnız III
D) I ve II E) I, II ve III

5. I. İzmir (Efes)
II. Edirne (Selimiye)
III. Trabzon (Sümela)
IV. Aydın (Milet)

Yukarıda verilen turizm merkezlerinden hangileri UNESCO Dünya Kültür Mirasları listesinde yer almaktadır?

A) Yalnız I B) I ve II C) I ve III
D) II ve III E) III ve IV

6. **Aşağıdaki illerden hangisinde demiryolu ulaşımı bulunmaz?**

A) Van
B) Diyarbakır
C) Elazığ
D) Kars
E) Kastamonu

MURAT YAYINLARI

7. **Türkiye'nin dış ticareti aşağıdaki ülkelerden hangisiyle gelişmemiştir?**

A) Irak
B) İngiltere
C) ABD
D) Avustralya
E) Fransa

8. **Aşağıdaki turizm varlığı-yer eşleştirmelerinden hangisi yanlıştır?**

A) Erfelek Şelalesi - Sinop
B) Karanlık Kanyon - Erzincan
C) Sultan Sazlığı - Kayseri
D) Damlataş Mağarası - Isparta
E) Kula Volkanları - Manisa

9. Bir ülkede ithal ve ihraç ürünlerinin gümrük vergisi alınmadan alınıp satıldığı yerlere serbest bölge denir.

Aşağıdakilerden hangisi Türkiye'de serbest bölgelerinin kurulmasının amaçlarından biri değildir?

A) Yabancı sermayeyi çekmek
B) Uluslararası ticareti geliştirmek
C) İç ticaretin dengeli gelişimini sağlamak
D) İhracata yönelik üretim yapmak
E) Yeni üretim teknoloji girişini artırmak

10. **Aşağıdaki endüstri kuruluşu - yer eşleştirmelerinden hangisi yanlıştır?**

A) Petro-kimya - Batman
B) Tersane - Gölcük
C) Seramik - Bilecik
D) Şeker - Şanlıurfa
E) Konserve - Bursa

11. Türkiye'nin 200 milyar dolar üzerinde ithalatı söz konusudur.

Buna göre, Türkiye'nin ithalatında aşağıdakilerden hangisinin payı daha azdır?

A) Mineral yağlar ve yakıtlar
B) Otomotiv
C) Kazan-makine
D) Elektrik-elektronik ürünler
E) Unlu gıdalar

12. I. Xanthos - Letoon (Muğla)
II. Cumalıkızık (Bursa)
III. Ani Harabeleri (Kars)
IV. Kyzikos (Balıkesir)

Yukarıda verilenlerin hangileri UNESCO Kültür Mirasları listesinde yer almaz?

A) Yalnız IV B) I ve II C) I ve IV
D) II ve IV E) III ve IV

MURAT YAYINLARI

/muratyayincilik

13. I. Afyon
II. Bilecik
III. Sakarya

Yukarıda verilen illerden hangilerinde yüksek hızlı tren bulunur?

A) Yalnız I B) Yalnız II C) Yalnız III
D) I ve II E) II ve III

14. **Türkiye'nin ihracatında aşağıdaki illerden hangisinin payı daha azdır?**

A) Kocaeli
B) Trabzon
C) Ankara
D) İzmir
E) Bursa

15. Türkiye, Avrupa, Asya ve Orta Doğu ülkeleri arasında işlek bir geçit üzerinde bulunmaktadır. Bu nedenle transit ticaret yönünden önemli potansiyele sahiptir.

Buna göre, Türkiye'nin transit ticaret potansiyelinin yüksek olması, aşağıdaki özelliklerden hangisi ile ilgilidir?

A) Yüzölçümü
B) Nüfus yoğunluğu
C) Özel konumu
D) Matematik konumu
E) İklim özellikleri

16. Türkiye'de gelişme gösteren turizm türlerinden biri de dağcılıktır.

Buna göre, aşağıdaki illerden hangisinde dağcılık turizminin gelişmesi beklenmez?

A) Rize
B) Adana
C) Kayseri
D) Antalya
E) Tekirdağ

17. I. Antalya
II. Afyon
III. Trabzon
IV. Nevşehir

Yukarıda verilen illerden hangilerinde sağlık (kaplıca) turizmi gelişmemiştir?

A) I ve II B) I ve III C) II ve III
D) II ve IV E) III ve IV

18. **Türkiye'de iç ticaretin canlı olmasında,**

I. Coğrafi bölgelerin yüzölçümlerinin farklı olması
II. Tarım ürünlerinin coğrafi bölgeler arasında farklılık göstermesi
III. Türkiye'de sanayi kuruluşlarının bölgeler arasında dengesiz dağılması

gibi etmenlerden hangileri etkili olmuştur?

A) Yalnız I B) Yalnız II C) Yalnız III
D) I ve II E) II ve III

19. I. Toplam ana hat uzunluğu 30 bin kilometrenin üzerindedir.
II. Yolcu taşımacılığında en fazla kullanılan ulaşım türüdür.
III. Cumhuriyetin ilk yıllarında önem verilmeye başlanmıştır.

Türkiye'de demiryolları ile ilgili yukarıda verilen özelliklerden hangileri doğrudur?

A) Yalnız I B) Yalnız II C) Yalnız III
D) I ve II E) I, II ve III

20. I. Mısır
II. Fındık
III. Turunçgil
IV. İncir
V. Tütün

Türkiye'nin dış satımında yukarıdaki tarım ürünlerinden hangisinin payı daha azdır?

A) I B) II C) III D) IV E) V

MURAT YAYINLARI

Açıklamalar • TEST 24

1. **B** Soruda verilen önemli turizm alanları Burdur'da bulunmaktadır.

2. **D** Karain Mağarası - Antalya
İnsuyu Mağarası - Burdur
Ballıca Mağarası - Tokat
Cennet ve Cehennem Obrukları - Mersin'de bulunan karstik oluşumlardır. Gümüşhane'ye ait herhangi bir karstik oluşum bulunmamaktadır.

3. **D** İhracat gelirleri içinde tarım ürünlerinin payının azalması Türkiye'de tarım dışı sektörlerinin geliştiğini, buna bağlı olarak da ekonomik yapısının değiştiğini göstermektedir.

4. **E** Soruda Türkiye'nin dış ticaretiyle ilgili verilen bilgilerin tümü doğrudur.

5. **B** Soruda verilen yerlerden İzmir Efes Antik Kenti ve Selimiye Camii UNESCO Dünya Kültür Mirasları listesinde bulunmaktadır.

6. **E** Soruda verilen illerden Kastamonu'da demiryolu ulaşımı bulunmaz.

7. **D** Avustralya Türkiye'ye çok uzak olduğundan dış ticareti bu ülkeyle gelişmemiştir.

8. **D** Damlataş Mağarası Antalya'da bulunmaktadır. Diğer turizm eşleştirmeleri doğrudur.

9. **C** Serbest bölgeler ithalata ve ihracata yönelik faaliyet gösterdiği için iç ticaretin dengeli gelişimi sağlamak gibi bir kuruluş amacı yoktur.

10. **D** Şanlıurfa'da şeker pancarı tarımı yoğunlaşmadığı için şeker endüstrisi gelişmemiştir.

11. **E** Soruda verilenler içerisinde unlu gıdaların Türkiye ithalatında payı daha azdır. Bu durumun temel nedeni unlu gıdaların hammaddesinin yurt içinden sağlanmasıdır.

12. **A** Balıkesir'de bulunan Kyzikos antik kenti UNESCO'da yer almazken diğerleri bu listede yer almaktadır.

13. **E** Afyon'da yüksek hızlı tren hattı bulunmazken diğerlerinde bulunur.

14. **B** Türkiye'nin ihracatında önemli iller; İstanbul, İzmir, İzmit, Bursa, Gaziantep ve Ankara'dır. Trabzon'un payı daha azdır.

15. **C** Türkiye transit ticaretin geliştiği bir ülkedir. Bu durumda özel konumunun etkisi bulunmaktadır. (Bulunduğu kıta, komşuları gibi)

16. **E** Tekirdağ'da yeryüzü şekilleri düz ve sade olduğu için dağcılık turizmi gelişmemiştir.

17. **B** Antalya ve Trabzon'da kırıklı araziler yaygın olmadığı için sağlık turizmi gelişmemiştir.

18. **E** Türkiye'de iç ticaretin canlı olmasında tarım ürünlerinin bölgeler arasında farklılık göstermesi ve sanayi kuruluşlarının her bölgede kurulu olmamasının önemli etkileri vardır.

19. **C** Demiryollarına Cumhuriyetin ilk yıllarında önem verilmiştir. Demiryollarının toplam ana hat uzunluğu 12 bin kilometredir. Ayrıca yolcu taşımacılığında en fazla karayolu kullanılmaktadır.

20. **A** Mısır daha çok iç piyasada tüketilen bir üründür. Bu nedenle dış satımdaki payı daha azdır.

MURAT YAYINLARI

/muratyayincilik

Türkiye'de Ulaşım - Ticaret - Turizm - III
• TEST 25

1. I. Golf turizmi Antalya'da gelişmiştir.
II. Kruvaziyer gemilerin uğrak limanlarından biri de Kuşadası'dır.
III. İstanbul'da kültür turizmi gelişmiştir.

Türkiye'de turizm türleriyle ilgili olarak yukarıdakilerden hangilerinin doğru olduğu söylenir?

A) Yalnız I B) Yalnız II C) Yalnız III
D) I ve III E) I, II ve III

2. **Aşağıdaki illerden hangileri arasında otoyol bağlantısı bulunmamaktadır?**

A) Ankara-İstanbul
B) İstanbul-Edirne
C) Bursa-Kocaeli
D) Niğde-Adana
E) Ankara-İzmir

3. **Türkiye'de kongre turizminin en fazla geliştiği iller aşağıdakilerden hangisidir?**

A) İzmir-Antalya
B) İstanbul-Muğla
C) İstanbul-Antalya
D) Antalya-Mersin
E) Antalya-Bursa

4. Havaalanlarının yer seçiminde yerşekilleri, iklim, nüfus yoğunluğu gibi özellikler dikkate alınır. Yerşekilleri yapım maliyetini belirleyen en önemli faktördür.

Aşağıda verilen kentlerin bulunduğu alanların coğrafi özellikleri düşünüldüğünde hangisine yapılacak havaalanının daha yüksek maliyet gerektirdiği söylenebilir?

A) Konya
B) İzmir
C) Rize
D) Şanlıurfa
E) Samsun

5. **Aşağıdaki ülkelerden hangisinin Türkiye'nin dış ticaretindeki payı daha azdır?**

A) Fransa
B) Almanya
C) Japonya
D) ABD
E) Kanada

6. I. Nefise Akçelik
II. Ovit
III. Sabuncubeli
IV. Orhangazi

Yukarıdaki tünellerden hangileri Karadeniz Bölgesi'nde bulunur?

A) Yalnız II B) I ve II C) II ve III
D) II ve IV E) III ve IV

7. 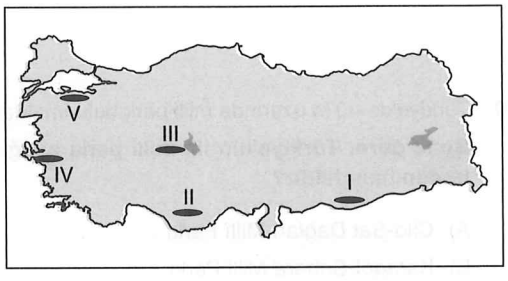

Haritada numaralarla gösterilen yerlerin yer şekilleri dikkate alındığında hangisinde karayolu yapım maliyetinin daha fazla olduğu söylenir?

A) I B) II C) III D) IV E) V

MURAT YAYINLARI

8. **Aşağıdakilerden hangisinde turizm faaliyetlerinin gelişmesi yerşekillerine bağlı değildir?**

A) Ihlara
B) Pamukkale
C) Kapadokya
D) Aspendos
E) Kula

9. Türkiye üç tarafı denizlerle çevrili bir yarımadadır. Bu nedenle deniz turizmi önemli bir gelir kaynağıdır.

Buna karşın Karadeniz Bölgesi'nde deniz turizminin gelişmemesinin en önemli nedeni aşağıdakilerden hangisidir?

A) Kıyılarda gür bitki örtüsünün yer alması
B) Gelgit genliğinin yüksek olması
C) Bulutlu gün sayısının fazla olması
D) Dağların kıyıya paralel uzanması
E) Kıta sahanlığının dar olması

10. Türkiye'de 40'ın üzerinde milli park bulunmaktadır.

Buna göre, Türkiye'nin ilk milli parkı aşağıdakilerden hangisidir?

A) Cilo-Sat Dağları Millî Parkı
B) Karagöl-Sahara Milli Parkı
C) Kapadokya Milli Parkı
D) Yozgat Çamlığı Milli Parkı
E) Sultan Sazlığı Milli Parkı

11. **Türkiye'de;**

- Manavgat ve Çoruh nehirlerinin sularında rafting yapabilirsiniz.
- Ayder Yaylası'nda sisler arasında yeşilin tonlarıyla kucaklaşabilirsiniz.
- Nemrut Dağı'nda Güneş'in doğuş ve batışını izleyebilirsiniz.
- Palandöken ya da Kartalkayada kayak yapabilirsiniz.
- Fethiye kumsallarında yılın sekiz ayında deniz ve güneşten yararlanabilirsiniz.

Türkiye'de özellikle dış turizme ilişkin düzenlenen planlama ve hedefler 1960'lardan itibaren hız kazanmıştır.

Devletin belirlediği aşağıdaki hedef ve ilkelerden hangisi daha çok yukarıda verilen özelliklerin bir sonucudur?

A) Türkiye'deki doğal ve kültürel değerlerin korumasını sağlamak
B) Kitle turizmine uygun yatırımları teşvik etmek
C) Turizmi tüm yıla yayarak, çeşitlendirmek
D) Turizmin çevreye verdiği zararı en aza indirmek
E) Turizmde öncelikli yerleri tespit etmek

12. I. Erzincan
II. Edirne
III. Bursa
IV. Mardin

Yukarıda verilen illerden hangilerinde kayak turizmi gelişmemiştir?

A) I ve II B) I ve III C) II ve III
D) II ve IV E) III ve IV

MURAT YAYINLARI

/muratyayincilik

13. • Antalya Saklıkent
• Isparta Davraz
• İzmir Bozdağlar

Verilen yerlerde gelişme gösteren turizm türü aşağıdakilerden hangisidir?

A) Kış
B) Sağlık
C) Kongre
D) Kültür
E) Mağara

14. **Türkiye'nin bir yarımada olmasına karşın yat turizminin daha çok Ege Bölgesi'nde gelişmesinin temel nedeni aşağıdakilerden hangisidir?**

A) Deniz ulaşımının gelişmiş olması
B) Uzun sahillerinin varlığı
C) Deniz turizminin gelişmiş olması
D) Yazların sıcak ve uzun geçmesi
E) Koy ve körfezlerin fazlalığı

15. **Türkiye'de milli park sayısının en az olduğu bölge aşağıdakilerden hangisidir?**

A) Karadeniz
B) Doğu Anadolu
C) Marmara
D) Akdeniz
E) Güneydoğu Anadolu

16. **Türkiye'nin ihracatında aşağıdaki ülkelerden hangisi ön sıralarda yer almaz?**

A) Hırvatistan
B) Almanya
C) İtalya
D) Irak
E) ABD

17. • Conkbayırı
• Aynalı Çarşı
• Assos
• Truva

Verilen turizm merkezleri aşağıdaki illerden hangisinde yer almaktadır?

A) İzmir
B) Çanakkale
C) Aydın
D) Muğla
E) Antalya

18. Uygarlık beşiği olarak bilinen Türkiye çok zengin bir tarihi mirasa sahiptir. Her şehri sembolize edebilecek tarihi mekanlar vardır.

Buna göre, aşağıdaki şehir ve tarihi mekan eşleştirmelerinden hangisi yanlıştır?

A) Aydın - Perge
B) Hatay - St. Pier Kilisesi
C) Edirne - Selimiye Cami
D) Adıyaman - Nemrut Heykelleri
E) Ağrı - İshak Paşa Sarayı

19. I. Akarsu
II. İnanç
III. Kaplıca
IV. Deniz (Kıyı)

Türkiye'de yukarıda verilen turizm türlerinden hangileri dönemlik yapılmaktadır?

A) Yalnız IV B) I ve IV C) II ve III
D) II ve IV E) III ve IV

20. **Aşağıdaki şehirlerden hangisinde demiryolu bağlantısı bulunmamaktadır?**

A) Bursa
B) Denizli
C) Samsun
D) Adana
E) Malatya

MURAT YAYINLARI

Açıklamalar • TEST 25

1. E Soruda Türkiye turizmiyle ilgili açıklamaların tümü doğrudur.

2. E Soruda verilenlerden Ankara-İzmir arasında otoyol bağlantısı bulunmamaktadır.

3. C Türkiye'de kongre turizminin en fazla gelişme gösterdiği iller İstanbul ve Antalya'dır.

4. C Konya, İzmir, Şanlıurfa ve Samsun engebeli alanların az olmasından dolayı havaalanı maliyetleri düşük olan illerdir. Rize'de denizin ardından başlayan yüksek dağlık alanlar havaalanı maliyetini arttırır.

5. E Verilen ülkeler içerisinde dış ticarette en az payı alan Kanada'dır.

6. B Nefise Akçelik ve Ovit Tüneli Karadeniz'de bulunur. Sabuncubeli Ege'de Orhangazi ise Marmara'da yer almaktadır.

7. B Haritada II numaralı Taşeli Platosu çevresi dağlık olduğu için karayolu yapım maliyeti daha yüksektir.

8. D Soruda verilen yerlerden Ihlara Vadisi, Pamukkale travertenleri, Kapadokya ve Kula volkanları yerşekillerine bağlı turizmin geliştiği yerlerdir ancak Aspendos Tiyatrosu antik yerleşim alanıdır.

9. C Karadeniz Bölgesi'nde güneşli gün sayısının az, yaz sıcaklık ortalamalarının Akdeniz kadar yüksek olmamasından dolayı burada deniz turizmi gelişmemiştir.

10. D Türkiye'nin ilk milli parkı 1958'de ilan edilen Yozgat Çamlığı'dır.

11. C Soruda öncüllerde verilen durumlar Türkiye'de turizm çeşitliliğinin fazla olduğunu kanıtlar. Bundan dolayı turizm faaliyetini tüm yıla yayarak turizmden elde edilen gelirin artırılması hedeflenmektedir.

12. D Edirne ve Mardin'de yer şekilleri düz olduğu için kayak turizmi gelişmemiştir.

13. A Soruda verilen yerlerde gelişme gösteren turizm türü kıştır.

14. E Yat turizmi için uygun alanlar koy ve körfezlerdir. Türkiye'de de dağların kıyıya dik uzandığı Ege Bölgesi'nde kıyıların girintili çıkıntılı olması koy ve körfezlerin fazla olmasına yol açmış ve bu sayede yat turizmi gelişmiştir.

15. E Türkiye'de 3 adet ile en az milli park Güneydoğu Anadolu'da bulunmaktadır.

16. A Hırvatistan nüfusu az olduğu için Türkiye'nin ihracatında önemli paya sahip değildir.

17. B Soruda verilen turizm merkezleri Çanakkale'de bulunmaktadır.

18. A Perge antik kenti Antalya'dadır.

19. B Akarsu ve deniz turizmi dönemlik, inanç ve kaplıca ise yıl boyu yapılmaktadır.

20. A Soruda verilen illerden Bursa'da demiryolu bağlantısı bulunmaz.

MURAT YAYINLARI

/muratyayincilik

Türkiye'de Ulaşım - Ticaret - Turizm - IV
• TEST 26

1. Türkiye'de dış ticarette en fazla denizyolu kullanılmaktadır.

Bu durum,

I. Yükleme kapasitesinin fazla olması
II. Maliyetinin düşük olması
III. Hızlı teslimat gerçekleştirmesi

faktörlerinden hangileriyle açıklanır?

A) Yalnız I B) Yalnız II C) Yalnız III
D) I ve II E) I, II ve III

2.

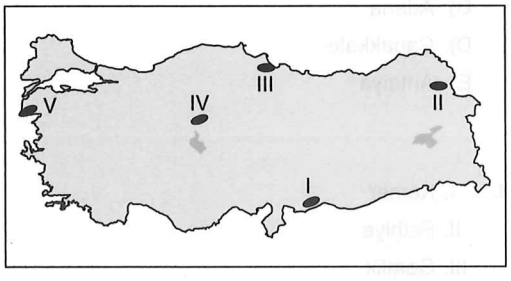

Haritada numaralarla gösterilen yerlerin hangisinde demiryolu ulaşımı bulunmaz?

A) I B) II C) III D) IV E) V

3. **Aşağıdaki milli parklardan hangisinin bulunduğu il yanlış verilmiştir?**

	Milli Park	Bulunduğu İl
A)	Karatepe-Aslantaş	Osmaniye
B)	Honaz Dağı	Denizli
C)	Nene Hatun	Erzurum
D)	Altındere	Sinop
E)	Malazgirt	Muş

4. **Türkiye'nin ithalatında aşağıdaki illerden hangisinin payı en fazladır?**

A) İzmir
B) İstanbul
C) Ankara
D) Bursa
E) Kocaeli

5.



Haritada numaralarla gösterilen limanlardan hangilerinin iç kesimlerle bağlantısı güçlü değildir?

A) I ve II B) I ve III C) II ve III
D) II ve IV E) III ve IV

6. Aşağıdaki tabloda il-gelişme gösterdiği turizm türü eşleştirmesi yapılmıştır.

İl	Gelişme Gösterdiği Turizm Türü
Çanakkale	Kültür
Yalova	Kaplıca
Antalya	Deniz
İstanbul	Kongre
Adıyaman	Kış

Buna göre, verilen illerden hangisinin gelişme gösterdiği turizm türü yanlış eşleştirilmiştir?

A) Çanakkale
B) Yalova
C) Antalya
D) İstanbul
E) Adıyaman

MURAT YAYINLARI

7. I. Yolcu taşımacılığında en fazla kullanılan ulaşım türüdür.
II. Kaza oranı en az olan ulaşım türüdür.
III. Toplam uzunluğu 100 bin kilometrenin üzerindedir.

Türkiye'de karayollarına ilişkin yukarıda verilen yargılardan hangileri doğrudur?

A) Yalnız I B) Yalnız II C) Yalnız III
D) I ve II E) I, II ve III

8. I. Dış ticaret hacmi artma eğilimindedir.
II. İhracatın ithalatı karşılama oranı düşüktür.
III. İhracatta en büyük pay sanayi ürünlerine aittir.

Türkiye'nin ihracatıyla ilgili yukarıda verilenlerden hangileri doğrudur?

A) Yalnız I B) Yalnız II C) Yalnız III
D) I ve II E) I, II ve III

9. I. Nemrut Heykelleri (Adıyaman)
II. Divriği Ulu Camii (Sivas)
III. Çatalhöyük (Konya)
IV. Sard (Manisa)

Yukarıda verilen yerlerden hangileri UNESCO Kültür Mirasları listesinde yer almaz?

A) Yalnız IV B) I ve II C) I ve III
D) II ve III E) III ve IV

10. • Harran
• Göbeklitepe
• Halfeti

Verilen önemli turizm alanları aşağıdaki illerden hangisinde bulunmaktadır?

A) Mardin
B) Siirt
C) Şanlıurfa
D) Batman
E) Van

11. I. Ar-ge yatırımlarını artırmak
II. İthal ürün vergilerini artırmak
III. Mesleki eğitime önem vermek

Türkiye'de dış ticaret açığının azaltılabilmesi için yukarıdakilerden hangileri doğru uygulamalardır?

A) Yalnız I B) Yalnız II C) Yalnız III
D) I ve II E) I, II ve III

12. Türkiye'de bazı illerde deniz, demir ve havayolu ulaşım türlerinin tümü bulunmaktadır.

Buna göre, aşağıdaki illerden hangisi sözü edilen duruma örnek gösterilir?

A) Ordu
B) Muğla
C) Adana
D) Çanakkale
E) Antalya

13. I. Kemer
II. Fethiye
III. Gemlik
IV. İnebolu

Yukarıda verilen yerlerden hangilerinde sualtı dalış turizmi daha çok gelişmiştir?

A) I ve II B) I ve III C) II ve III
D) II ve IV E) III ve IV

14. **Aşağıdakilerden hangisinde inanç turizmi gelişme göstermemiştir?**

A) Konya (Mevlana)
B) Şanlıurfa (Balıklıgöl)
C) Hatay (St. Pier)
D) İzmir (Meryem Ana)
E) Diyarbakır (Çermik)

MURAT YAYINLARI

/muratyayincilik

15. **Türkiye'de aşağıdaki tünellerden hangisinin uzunluğu daha fazladır?**

A) Ovit
B) Nefise Akçelik
C) Orhangazi
D) Cankurtaran
E) Bolu Dağı

16. Türkiye'de bazı illerde birden fazla sivil havaalanı bulunmaktadır.

Buna göre, aşağıdaki illerden hangisi sözü edilen duruma örnektir?

A) Adana
B) Antalya
C) İzmir
D) Bursa
E) Ankara

17. **Türkiye'nin ilk tabiatı koruma alanı aşağıdakilerden hangisidir?**

A) Sarıkum (Sinop)
B) Kavaklı (Karabük)
C) Hacı Osman Ormanları (Samsun)
D) Seyfe Gölü (Kırşehir)
E) Alacadağ (Antalya)

18. I. Cumhuriyetin ilk yıllarında demiryollarına ağırlık verilmiştir.
II. Dış ticarette en fazla denizyolu kullanılmaktadır.
III. Ülke içi yük taşımacılığında en fazla kara yolu kullanılmaktadır.

Türkiye ulaşımına ilişkin yukarıda verilen yargılardan hangileri doğrudur?

A) Yalnız I B) Yalnız II C) Yalnız III
D) I ve II E) I, II ve III

19. • Ağrı (Diyadin)
• Yalova (Armutlu)
• Balıkesir (Gönen)
• Kırşehir (Terme)

Verilen yerlerde gelişme gösteren turizm türü aşağıdakilerden hangisidir?

A) Tarih
B) Mimari
C) Kış
D) Kaplıca
E) İnanç

20. Türkiye'nin 180 milyar dolar üzerinde ihracatı bulunmaktadır.

Türkiye'nin ihracatında aşağıdaki ürünlerden hangisinin payı daha azdır?

A) Kimyevi ürünler
B) Kazan-makine
C) Otomotiv
D) Elektronik eşyalar
E) İplik ürünleri

21. I. Bitlis
II. Bolu
III. Ardahan
IV. Samsun

Yukarıda verilen illerden hangilerinin demiryolu bağlantısı <u>bulunmaz</u>?

A) Yalnız III B) I ve III C) II ve III
D) II ve IV E) III ve IV

MURAT YAYINLARI

Açıklamalar • TEST 26

1. **D** Denizyolu yük taşıma kapasitesinin fazla olması ve maliyetinin düşük olmasından dış ticarette daha fazla kullanılmaktadır. Ancak teslimatının hızlı olduğu söylenemez.

2. **E** Harita V numara ile gösterilen Çanakkale'de demiryolu bağlantısı bulunmaz.

3. **D** Altındere Milli Parkı Trabzon'da yer almaktadır.

4. **B** Türkiye'nin ithalatında yaklaşık 110 milyar $ ile İstanbul ilk sırada yer almaktadır.

5. **D** Haritada II numaralı Antalya ve IV numaralı Sinop Limanı'nın hinterlandı dar olduğu için iç kesimlerle bağlantısı güçlü değildir.

6. **E** Adıyaman'da gerek iklim gerekse yerşekillerinin sade olmasından dolayı kış turizmi gelişme göstermemiştir.

7. **A** Karayolları yolcu taşımacılığında en fazla kullanılan ulaşım türüdür. Ancak toplam uzunluğu 67 bin km, kaza oranı da en fazla olan ulaşım türüdür.

8. **E** Türkiye'nin ihracatıyla ilgili soruda verilenlerin tümü doğrudur.

9. **A** Manisa'da bulunan Sard Antik Kenti UNESCO tarafından koruma altına alınmamıştır.

10. **C** Soruda verilen turizm alanları Şanlıurfa'da bulunmaktadır.

11. **E** Soruda verilenlerin tamamı Türkiye'de dış ticaret açığının azaltılabilmesi için doğru uygulamalardır.

12. **C** Soruda verilen illerden Ordu, Muğla, Çanakkale ve Antalya'da demiryolu ulaşımı bulunmaz. Fakat Adana'da ulaşım türlerinin tamamı bulunmaktadır.

13. **A** Kemer ve Fethiye'de zengin flora alemi ve iklim şartlarından dolayı sualtı dalış turizmi daha çok gelişmiştir.

14. **E** Diyarbakır Çermik'te kaplıca turizmi gelişme göstermiştir.

15. **A** Rize ile Erzurum arasında bulunan Ovit Tüneli'nin uzunluğu 14,3 kilometre ile en fazladır.

16. **B** Soruda verilen illerden Antalya'da 2 tane sivil havalimanı bulunurken, diğerlerinde bir tane bulunmaktadır.

17. **C** Türkiye'nin ilk tabiatı koruma alanı 1987'de ilan edilen Samsun Hacı Osman Ormanları'dır.

18. **E** Türkiye ulaşımına ilişkin soruda verilen özelliklerin tümü doğrudur.

19. **D** Soruda verilen yerlerde gelişme gösteren turizm türü kaplıcadır.

20. **E** Türkiye'nin ihracatında getirisi düşük olduğu için iplik ürünlerinin payı daha azdır.

21. **C** Soruda verilen illerden Bolu ve Ardahan'da demiryolu ulaşımı bulunmaz.

MURAT YAYINLARI

/muratyayincilik

Türkiye'de Bölgesel Kalkınma Projeleri • TEST 27

1. **Aşağıdaki illerden hangisi Güneydoğu Anadolu Projesi kapsamında yer almaz?**

A) Şırnak
B) Kilis
C) Batman
D) Malatya
E) Adıyaman

2. I. Samsun
II. Tokat
III. Sinop
IV. Ordu

Yukarıdaki illerden hangileri Yeşilırmak Gelişim Projesi'nde yer almaktadır?

A) I ve II B) I ve III C) II ve III
D) II ve IV E) III ve IV

3. I. Sulanabilen araziler genişletilmeye çalışılmaktadır.
II. Kapsamında 9 il bulunmaktadır.
III. Yönetim merkezi Şanlıurfa'da yer almaktadır.

GAP ile ilgili yukarıda verilen özelliklerden hangileri doğrudur?

A) Yalnız I B) Yalnız II C) Yalnız III
D) I ve II E) I, II ve III

4. I. Bayburt
II. Giresun
III. Artvin
IV. Sinop

Yukarıda verilen illerden hangileri Doğu Karadeniz Projesi'nde yer almaz?

A) Yalnız IV B) I ve II C) II ve III
D) II ve IV E) III ve IV

5. I. Erozyon ile mücadele etmek
II. Tarımsal sulamayı artırmak
III. Güneş enerji santrallerini yaygınlaştırmak

Yukarıda verilenlerden hangileri Konya Ovası Projesi'nin hedefleri arasında yer almaktadır?

A) Yalnız I B) Yalnız II C) Yalnız III
D) I ve II E) I, II ve III

6. **Aşağıdaki illerden hangisi Doğu Anadolu Projesi kapsamında yer almaz?**

A) Sivas
B) Siirt
C) Ardahan
D) Hakkari
E) Tunceli

7. Haritada Türkiye'de kalkınma projelerinde yer alan bazı iller verilmiştir.



Buna göre, verilen iller aşağıdaki kalkınma projeleriyle eşleştirilirse hangisi dışarda kalır?

A) YHGP B) KOP
C) DOKAP D) GAP
E) DAP

MURAT YAYINLARI

8. • Nissibi Köprüsü
• Suruç Tüneli
• Birecik Barajı

Verilenler aşağıdaki kalkınma projelerinden hangisinin kapsamında yapılmıştır?

A) DOKAP B) GAP
C) KOP D) YHGP
E) DAP

9. I. Nevşehir
II. Aksaray
III. Isparta
IV. Kırşehir

Yukarıda verilen illerden hangileri Konya Ovası Projesi'nde yer almaz?

A) Yalnız III B) I ve II C) I ve III
D) II ve III E) III ve IV

10. Türkiye'de bölgesel kalkınma projelerinin uygulama alanları birbirinden farklıdır.

Buna göre, aşağıdaki kalkınma projelerinden hangisinin uygulama alanı daha geniştir?

A) DOKAP B) GAP
C) DAP D) YHGP
E) KOP

11. I. Ekonomik kalkınmayı sağlamak
II. Altyapı ve kentsel gelişime önem vermek
III. Turizm faaliyetlerini geliştirmek

Yukarıda verilenlerden hangileri Doğu Karadeniz Projesi'nin amaçlarındandır?

A) Yalnız I B) Yalnız II C) Yalnız III
D) I ve II E) I, II ve III

12. Aşağıdaki tabloda bölgesel kalkınma projesi-il eşleştirmesi yapılmıştır.

Kalkınma Projesi	Kapsamındaki İl
DAP	Elazığ
YHGP	Ordu
GAP	Diyarbakır
KOP	Niğde
DOKAP	Artvin

Buna göre, kalkınma projelerinden hangisi kapsamında bulunmadığı bir il ile eşleştirilmiştir?

A) DAP B) YHGP
C) GAP D) KOP
E) DOKAP

13. I. Atatürk
II. Yusufeli
III. Keban
IV. Karakaya

Yukarıda verilen barajlardan hangileri Güneydoğu Anadolu Projesi kapsamında yapılmıştır?

A) Yalnız I B) I ve III C) I ve IV
D) II ve III E) III ve IV

14. I. Seracılığın geliştirilmesi
II. Organize sanayilerinin sayısının artırılması
III. Demir-çelik fabrikalarının modernize edilmesi

Yukarıdakilerden hangileri ZBK'nın hedefleri arasında yer almaktadır?

A) Yalnız I B) Yalnız II C) I ve II
D) I ve III E) I, II ve III

MURAT YAYINLARI

/muratyayincilik

15. I. Bölge dışına olan göçü azaltmak
II. Altyapı ve kentsel sorunları gidermek
III. Bölgeyi turizm ve ulaşım merkezi hâline getirmek

Yukarıda verilenlerden hangileri Doğu Anadolu Projesi'nin hedefleri arasında yer almaktadır?

A) Yalnız I B) Yalnız II C) Yalnız III
D) I ve II E) I, II ve III

16. Türkiye'de uygulanan kalkınma projelerinde bazı iller birden fazla projede bulunmaktadır.

Buna göre, aşağıdaki illerden hangisi sözü edilen duruma örnek gösterilir?

A) Bayburt
B) Şırnak
C) Sivas
D) Samsun
E) Siirt

17. Bölgesel kalkınma projelerinin sahip olduğu il sayıları farklıdır.

Aşağıdaki bölgesel kalkınma projelerinden hangisinde bulunan il sayısı daha azdır?

A) GAP B) DAP
C) DOKAP D) YHGP
E) ZBK

18. **Aşağıdakilerden hangisi Türkiye'de uygulanan bölgesel projelerden biri değildir?**

A) Doğu Karadeniz Projesi
B) Doğu Anadolu Projesi
C) Yeşilırmak Havzası Gelişim Projesi
D) Güneybatı Ege Projesi
E) Güneydoğu Anadolu Projesi

19. I. Yeşil Yol Yayla Koridoru amaçları arasındadır.
II. Kapsamında 11 il bulunmaktadır.
III. Ulaşım altyapısını güçlendirmeyi amaçlamaktadır.

Doğu Karadeniz Projesi ile ilgili yukarıdaki yargılardan hangilerinin doğru olduğu söylenir?

A) Yalnız I B) Yalnız II C) Yalnız III
D) I ve II E) I, II ve III

20. Bölgesel kalkınma projelerinin amaçları arasında tarımsal sulama da yer almaktadır.

Buna göre, Mavi Tünel Sulama Kanalı aşağıdaki kalkınma projelerinden hangisinin kapsamında yapılmıştır?

A) KOP B) ZBK
C) GAP D) DOKAP
E) DAP

21. • Adıyaman
• Siirt
• Şırnak

Verilen iller aşağıdaki kalkınma projelerinden hangisinin kapsamında yer almaktadır?

A) GAP B) DOKAP
C) ZBK D) DAP
E) KOP

MURAT YAYINLARI

Açıklamalar • TEST 27

1. **D** GAP kapsamında;
   - Gaziantep
   - Şanlıurfa
   - Adıyaman
   - Mardin
   - Batman
   - Siirt
   - Diyarbakır
   - Şırnak
   - Kilis illeri bulunmaktadır. Malatya DAP kapsamındadır.

2. **A** Yeşilırmak Havzası Gelişim Projesinde Samsun, Tokat, Amasya ve Çorum illeri bulunmaktadır.

3. **E** GAP ile ilgili verilen özelliklerin tümü doğrudur.

4. **A** DOKAP kapsamında;
   - Samsun
   - Ordu
   - Giresun
   - Tokat
   - Trabzon
   - Rize
   - Artvin
   - Gümüşhane
   - Bayburt
   - Amasya
   - Çorum

   illeri bulunmaktadır. Sinop DOKAP'ta bulunmamaktadır.

5. **E** KOP ile ilgili verilen hedeflerin tümü doğrudur.

6. **B** DAP kapsamında;
   - Hakkari
   - Bingöl
   - Erzurum
   - Ağrı
   - Tunceli
   - Kars
   - Van
   - Elazığ
   - Iğdır
   - Muş
   - Erzincan
   - Ardahan
   - Bitlis
   - Malatya
   - Sivas

   illeri bulunmaktadır.

7. **A** Soruda verilen illerden
   Yozgat → KOP'ta
   Trabzon → DOKAP'ta
   Adıyaman → GAP'ta
   Kars → DAP'ta
   yer almaktadır.
   Yeşilırmak Havzası Projesi ile ilgili bir il soruda verilmemiştir.

8. **B** Soruda verilen yatırımlar GAP kapsamında yapılmıştır.

9. **A** KOP kapsamında;
   - Konya
   - Karaman
   - Aksaray
   - Niğde
   - Nevşehir
   - Kırşehir
   - Kırıkkale
   - Yozgat

   yer almaktadır.

10. **C** Uygulama alanı en geniş olan kalkınma projesi DAP'tır.

11. **E** Verilenlerin tamamı DOKAP'ın hedeflerindendir.

12. **B** Ordu YHGP'de yer almaz. DOKAP kapsamında bulunmaktadır.

MURAT YAYINLARI

/muratyayincilik

13. C Atatürk ve Karakaya Barajları GAP kapsamında yapılmıştır.

14. E Soruda verilenlerin tümü ZBK'nın hedefleri arasındadır.

15. D DAP'ın bölgeyi turizm ve ulaşım merkezi hâline getirmek gibi iddialı bir hedefi bulunmaz. Sadece geliştirimesini hedefler. Verilen ilk iki öncül doğrudur.

16. D Samsun hem DOKAP hem de YHGP'de yer almaktadır.

17. E Soruda verilen kalkınma projelerinde
GAP'ta → 9 il
DAP'ta → 15 il
DOKAP'ta → 11 il
YHGP'de → 4 il
ZBK'da → 3 il bulunmaktadır.

18. D Türkiye'de Güneybatı Ege Projesi şeklinde kalkınma projesi bulunmaz.

19. E DOKAP ile ilgili verilen yargıların tümü doğrudur.

20. A Mavi tünel sulama kanalı KOP kapsamında inşaa edilmiştir.

21. A Soruda verilen iller GAP kapsamında yer almaktadır.

MURAT YAYINLARI

Bölgeler Coğrafyası - I
• TEST 28

1. **Aşağıdaki dağlardan hangisi Karadeniz Bölgesi'nde bulunmaz?**

   A) Canik
   B) Küre
   C) Köroğlu
   D) Kaçkar
   E) Munzur

2. I. Gönen
   II. Susurluk
   III. Meriç
   IV. Sakarya

   Yukarıda verilen akarsulardan hangileri Marmara Denizi'ne dökülür?

   A) Yalnız I B) Yalnız II C) I ve II
   D) II ve III E) III ve IV

3. İnsanların yaşayış ve ekonomik etkinlikleri ile yerleşmelerinde, doğal ortamın önemli etkisi vardır.

   Aşağıdakilerden hangisi bu etkinin bir sonucu değildir?

   A) İç Anadolu Bölgesi'nde kır meskenlerinin kerpiç olması
   B) Hayvancılığın yaygın olduğu yerlerde halıcılığın gelişmesi
   C) Doğu Anadolu'da nüfusun ova tabanlarından toplanması
   D) Türkiye'de nüfus yoğunluğunun deprem yönünden tehlikeli alanlarda az olması
   E) Doğu Karadeniz Bölümü'nde dağınık yerleşmelerin görülmesi

4. **Türkiye'de buğday hasadının Ege Bölgesi kıyılarında temmuz başı, İç Anadolu'da ağustos ortalarında, Doğu Anadolu Bölgesi'nde eylül ayı içerisinde yapılmasının nedeni aşağıdakilerden hangisidir?**

   A) Yağış miktarı
   B) Sıcaklık değerleri
   C) Yağış rejimi
   D) Güneşlenme süresi
   E) Toprak çeşidi

5. Marmara Denizi'nde çok sayıda körfez bulunur.

   Aşağıdaki körfezlerden hangisi Marmara'da bulunmaz?

   A) Bandırma
   B) Güllük
   C) Erdek
   D) Gemlik
   E) İzmit

6. **Doğu Anadolu Bölgesi'nin gerçek sıcaklığı ile indirgenmiş sıcaklığı arasındaki farkın fazla olması aşağıdakilerden hangisiyle açıklanabilir?**

   A) Yükselti
   B) Karasallık
   C) Yer şekillerinin uzanışı
   D) Yüzölçümü
   E) Matematik konumu

7. **İç Anadolu Bölgesi aşağıdaki tarım ürünlerinden hangisinin üretiminde önemli paya sahip değildir?**

   A) Yeşil mercimek
   B) Ayçiçeği
   C) Şekerpancarı
   D) Buğday
   E) Soya fasulyesi

MURAT YAYINLARI

/muratyayincilik

8. **Aşağıdaki turizm merkezlerinden hangisi Güneydoğu Anadolu Bölgesi'nde yer almaz?**

A) Göbeklitepe
B) Hasankeyf
C) Zeugma
D) Dayrul-Zafaran Manastırı
E) Ani Harabeleri

9. I. Mermer
II. Bor
III. Krom
IV. Bakır

Marmara Bölgesi yukarıdaki madenlerden hangisinin çıkarımında önemli paya sahiptir?

A) I ve II B) I ve III C) II ve III
D) II ve IV E) III ve IV

10. **İç Anadolu Bölgesi'nde nüfusun Güneydoğu Anadolu Bölgesi'nden yüksek olmasına rağmen aritmetik nüfus yoğunluğunun düşük olmasının nedeni aşağıdakilerden hangisidir?**

A) Yer şekillerinin engebeli olması
B) Tarım ve hayvancılık dışındaki sektörlerin sınırlı olması
C) Ulaşım imkanlarının sınırlı olması
D) Eğitim ve sağlık hizmetlerinin yetersiz olması
E) Yüzölçümünün büyük olması

11. **Aşağıdaki akarsulardan hangileri Akdeniz'de dökülmektedir?**

A) Asi-Gediz
B) Göksu-Dalaman
C) Seyhan-Meriç
D) Asi-Büyük Menderes
E) Manavgat-Meriç

12. **Aşağıdakilerden hangisi Marmara Bölgesi'ni diğer bölgelerden ayıran özelliklerden biri değildir?**

A) Nüfusu en fazla olan bölgedir.
B) En fazla enerji tüketen bölgedir.
C) Kentleşme oranı en fazla olan bölgedir.
D) Tarımsal gelirleri en fazla olan bölgedir.
E) Ortalama yükseltisi en az olan bölgedir.

13. **Karadeniz Bölgesi'nde aşağıdaki köyaltı yerleşmelerinden hangileri diğerlerine göre fazla yaygınlaşmamıştır?**

A) Yayla
B) Divan
C) Mahalle
D) Güzle
E) Kom

14. Doğu Karadeniz Bölgesi'nde hem çay, hem de turunçgil yetiştirilebilmektedir.

Akdeniz Bölgesi'nde ise turunçgil yetiştiği halde çayın yetiştirilememesi, bölgenin hangi özelliğinin bir sonucudur?

A) Yağış rejiminin düzensiz olması
B) Kazancı yüksek bitkilere öncelik verilmesinin
C) Toprakların kalkerli olmasının
D) Yaz mevsiminin uzun sürmesinin
E) Kış mevsiminin kısa sürmesinin

MURAT YAYINLARI

15. **Karadeniz Bölgesi'ne ilişkin aşağıda verilenlerden hangisi yanlıştır?**

A) Boylam farkının en fazla olduğu bölgedir.
B) İl sayısının en fazla olduğu bölgedir.
C) Bakır çıkartımının en fazla yapıldığı bölgedir.
D) Bulutluluk süresinin en fazla olduğu bölgedir.
E) Yıllık sıcaklık farkının en fazla olduğu bölgedir.

16. I. Sapanca
II. Durusu
III. Gala

Yukarıdaki göllerden hangileri Marmara Bölgesi'nde bulunur?

A) Yalnız I B) Yalnız II C) Yalnız III D) I ve II E) I, II ve III

17. **Ege Bölgesi aşağıdaki tarım ürünlerinin hangisinin üretiminde önemli bir paya sahip değildir?**

A) İncir
B) Kivi
C) Zeytin
D) Tütün
E) Üzüm

18. **Aşağıdaki sınır kapılarından hangisi Karadeniz'de bulunur?**

A) Kapıköy
B) Sarp
C) Kapıkule
D) Üzümlü
E) Esendere

19. **Aşağıdakilerden hangisi Doğu Anadolu Bölgesi'nin yerşekilleri özelliklerinin sonuçlarından değildir?**

A) Yer altı kaynakları bakımından zengin olması
B) Tarım alanlarının az olması
C) Tarımsal nüfus yoğunluğunun fazla olması
D) Akarsuların hidroelektrik üretimine elverişli olması
E) Ulaşım güçlüğünün olması

20. **Aşağıdakilerden hangisi Ege Bölgesi'ndeki akarsuların özelliklerinden değildir?**

A) Yatak eğimleri azdır.
B) Yatakları içinde büklümler çizerek akarlar.
C) Ulaşımda yararlanmaya elverişli değillerdir.
D) Rejimleri düzensizdir.
E) En çok su taşıdıkları mevsim ilkbahardır.

MURAT YAYINLARI

/muratyayincilik

Açıklamalar • TEST 28

1. **E** Munzur Dağları Doğu Anadolu Bölgesi'nde bulunurken diğerleri Karadeniz Bölgesi'nde bulunmaktadır.

2. **C** Gönen ve Susurluk Çayı Marmara'ya, Meriç Ege'ye, Sakarya ise Karadeniz'de dökülmektedir.

3. **D** Türkiye'de nüfus yoğunluğu deprem yönünden tehlikeli alanlarda az değildir. Deprem nüfus dağılışında çok fazla etkili değildir.

4. **B** Buğday hasadının batıdan doğuya doğru gecikmesinin (uzamasının) temel nedeni, batıdan doğuya doğru sıcaklıkların azalmasıdır.

5. **B** Güllük Körfezi Ege'de bulunurken diğerleri Marmara'da bulunmaktadır.

6. **A** Gerçek sıcaklık ile indirgenmiş sıcaklık arasındaki farkın çok olduğu yerlerde yükselti fazladır.

7. **E** Soya fasulyesi sulama ile üretildiği için daha çok Akdeniz ve Kıyı Ege'de yoğunlaşmıştır.

8. **E** Ani Harabeleri Doğu Anadolu Bölgesi'nde yer alırken diğerleri Güneydoğu Anadolu'da bulunmaktadır.

9. **A** Marmara Bölgesi bor ve mermer çıkartımında önemli paya sahiptir. Bakır çıkartımında Karadeniz, krom çıkartımında Doğu Anadolu ön sıralarda bulunmaktadır.

10. **E** İç Anadolu Bölgesi'nde aritmetik nüfus yoğunluğunun Güneydoğu Anadolu Bölgesi'nden düşük olmasının nedeni alan olarak daha büyük olmasıdır.

11. **B** Soruda verilen nehirlerden Göksu ve Dalaman Akdeniz'e dökülür

12. **D** Marmara Bölgesi tarımsal gelirleri en fazla olan bölge değildir.

13. **E** Kom Doğu Anadolu'da yaygın iken diğerleri Karadeniz'de yaygındır.

14. **A** Akdeniz Bölgesi'nde çayın yetiştirilmemesinin nedeni yağışın yetersiz ve rejimin düzensiz olmasıdır.

15. **E** Yıllık sıcaklık farkının en fazla olduğu bölge Doğu Anadolu Bölgesi'dir. Karadeniz'de nemden dolayı yıllık sıcaklık farkı en azdır.

16. **E** Soruda verilen göllerin tümü Marmara'da bulunmaktadır.

17. **B** Kivi üretiminde Karadeniz önemli paya sahipken diğerlerinde Ege Bölgesi ön plandadır.

18. **B** Sarp Sınır Kapısı Artvin'de bulunurken diğerleri farklı bölgelerde bulunur.

19. **A** Yeraltı kaynakları yer yapısı ile ilgilidir. Yerşekilleri etkilemez.

20. **E** Yükseltinin az olduğu Ege Bölgesi'nde kar yağışları az olduğundan akarsular en çok suyunu ilkbahar'da taşımazlar. En çok su taşıdıkları mevsim kıştır.

MURAT YAYINLARI

Bölgeler Coğrafyası - II
• TEST 29

1. "İç Anadolu Bölgesi'nde, yüksek düzlükler olan platolar geniş yer kaplamaktadır."

Aşağıdakilerden hangisi bu platolardan biri değildir?

A) Haymana
B) Taşeli
C) Cihanbeyli
D) Obruk
E) Bozok

2. I. Kaplıca
II. Kış
III. Kıyı
IV. Mağara

Ege Bölgesi'nde yukarıda verilen turizm türlerinden hangileri daha fazla gelişmiştir?

A) I ve II B) I ve III C) II ve III
D) II ve IV E) III ve IV

3. **Aşağıdakilerden hangisi Güneydoğu Anadolu ile Marmara bölgelerinin ortak özelliği değildir?**

A) Nüfus yoğunluklarının Türkiye ortalamasının üstünde olması
B) Bir bölümlerinde Akdeniz ikliminin görünüyor olması
C) Yer şekillerinin sade olması
D) Tarım alanlarının geniş olması
E) Hidroelektrik potansiyellerinin düşük olması

4. **Aşağıdaki turizm varlıklarından hangisi Marmara Bölgesi'nde yer almaz?**

A) Truva
B) Assos
C) Yerebatan Sarnıcı
D) Sagalassos
E) Kyzikos

5. **Karadeniz Bölgesi'nde yağışların mevsimlere kısmen düzenli dağılmış olması aşağıdakilerden hangisini etkilemez?**

A) Ormanların dağılışını
B) Büyükbaş hayvancılığı
C) Akarsu rejimlerini
D) Kıyı tipi ve şekillerini
E) Nüfusun yerleşme düzenini

6. **Karadeniz Bölgesi'nde bulunan aşağıdaki illerden hangisinde demiryolu ulaşımı bulunur?**

A) Bartın
B) Trabzon
C) Bolu
D) Kastamonu
E) Zonguldak

7. **Marmara Bölgesi'nde bulunan aşağıdaki dağlardan hangisinin oluşumu diğerlerinden farklıdır?**

A) Yıldız
B) Samanlı
C) Koru
D) Uludağ
E) Biga

MURAT YAYINLARI

/muratyayincilik

8. I. Saroz
II. Güllük
III. Gemlik
IV. Erdek

Yukarıdaki körfezlerden hangileri Marmara Denizi'nde yer almaktadır?

A) Yalnız III B) I ve II C) I ve III
D) II ve IV E) III ve IV

9. **Türkiye'de Güneydoğu Anadolu Bölgesi'nde orman yüzdesinin İç Anadolu Bölgesi'nden daha az olmasının en önemli nedeni aşağıdakilerden hangisidir?**

A) Buharlaşmanın fazla olması
B) Yükseltinin fazla olması
C) İnsan tahribinin fazla olması
D) Engebeli arazinin geniş yer tutması
E) Kar yağışlarının fazla olması

10. **Akdeniz Bölgesi ormanlarında aşağıdaki ağaçlardan hangisinin yayılış alanı daha dardır?**

A) Göknar
B) Sedir
C) Kızılçam
D) Fıstıkçamı
E) Kayın

11. I. Ülkenin en büyük deltası bulunmaktadır.
II. Karstik arazi geniş alan kaplamaktadır.
III. Boyuna kıyı tipi özelliği görülmektedir.

Akdeniz Bölgesi'ne ilişkin yukarıdaki yargılardan hangilerinin doğru olduğu söylenir?

A) Yalnız I B) Yalnız II C) Yalnız III
D) I ve III E) I, II ve III

12. **Karla örtülü gün sayısının Doğu Anadolu'da İç Anadolu'dan daha fazla olmasının en önemli nedeni aşağıdakilerden hangisidir?**

A) Enlem
B) Yükselti
C) Denize göre konum
D) Bitki örtüsü
E) Bakı

13. **Akdeniz'de yaylacılığın gelişmesinde**

I. Yüksek sıradağların varlığı
II. Yaz sıcaklık değerlerinin yüksek olması
III. Çalı formasyonunun yaygınlığı

faktörlerinden hangileri etkili olmuştur?

A) Yalnız I B) Yalnız II C) Yalnız III
D) I ve II E) I, II ve III

14. **Aşağıdaki turizm merkezlerinden hangisi Akdeniz Bölgesi'nde yer almaz?**

A) Titüs Tüneli
B) Göksu Kanyonu
C) Aspendos
D) Termessos
E) Hierapolis

MURAT YAYINLARI

15. • Boğazköy - Alacahöyük
• Soğuksu
• Sakarya

Yukarıda verilen millî parklar aşağıdaki bölgelerden hangisinde bulunur?

A) Doğu Anadolu
B) İç Anadolu
C) Güneydoğu Anadolu
D) Karadeniz
E) Akdeniz

16. **Aşağıdakilerden hangisi Doğu Anadolu Bölge-si'nin özelliklerinden biri değildir?**

A) Yerşekillerinin engebeliliği nedeniyle hayvancılık, tarla ziraatinden daha önemlidir.
B) Yazları sıcak geçen ovalarında pamuk yetiştirilir.
C) Hidroelektrik potansiyeli yüksektir.
D) Karlı ve donlu gün sayısı çoğu yerinde 100 günü aşar.
E) Tarımsal nüfus yoğunluğu azdır.

17. Karadeniz Bölgesi'nin kıyı bölümünde, buğday, şekerpancarı, arpa gibi ürünler yetiştirilemezken, iç kesimlerde bu ürünler yetiştirilebilir.

İç kesimlerin hangi özelliği bu durumu ortaya çıkarır?

A) Toprakların daha verimsiz olması
B) Taban suyu seviyesinin yüksek olması
C) Tarım alanlarının daha geniş olması
D) İç kesimlerde yaz kuraklığının yaşanması
E) Kıyı kesimlerin daha önemli endüstri ürünlerine ayrılması

18. **Doğu Anadolu Bölgesi'nde bulunan aşağıdaki illerden hangisinde demiryolu ulaşımı bulunmamaktadır?**

A) Elazığ
B) Van
C) Erzincan
D) Ağrı
E) Muş

19. **Doğu Anadolu Bölgesi'nde arıcılığın gelişmesinde,**

I. Kurulum ve işletme maliyetinin düşük olması
II. Sanayi faaliyetlerinin gelişmemesi
III. Nüfus yoğunluğunun az olması

faktörlerinden hangileri etkili olmuştur?

A) Yalnız I B) Yalnız II C) Yalnız III
D) I ve II E) I, II ve III

20. I. Mogan
II. Bafa
III. Hazar
IV. Sultan Sazlığı

Yukarıdaki göllerden hangileri İç Anadolu Bölgesi'nde bulunmaktadır?

A) Yalnız I B) I ve II C) I ve IV
D) II ve III E) III ve IV

MURAT YAYINLARI

/muratyayincilik

Açıklamalar • TEST 29

1. B Taşeli Platosu Akdeniz Bölgesi'nde yer alır.

2. B Ege Bölgesi'nde kaplıca ve kıyı turizmi gelişmiştir.

3. E Güneydoğu Anadolu Bölgesi'nde akarsular derin vadiler içinde aktıkları için hidroelektrik potansiyeli yüksektir. Fakat Marmara Bölgesi'nde hidroelektrik potansiyeli düşüktür.

4. D Sagalassos antik kenti Akdeniz Bölgesi Burdur'da bulunurken diğerleri Marmara'da bulumaktadır.

5. D Kıyı tipi ve şekillerinin dağılışında iç kuvvetlerin etkisi bulunmaktadır. Bu nedenle yağışların rejimi kıyı tipini etkilemez.

6. E Verilen illerden Zonguldak'ta demiryolu ulaşımı bulunmaktadır.

7. D Uludağ iç püskürük volkanik kökenli, diğerleri ise kıvrımlı yapıdadır.

8. E Gemlik ve Erdek körfezleri Marmara'da, Saroz ve Güllük körfezleri Ege'de bulunmaktadır.

9. A Güneydoğu Anadolu Bölgesi'nde buharlaşmanın daha fazla olmasından dolayı orman varlığı İç Anadolu Bölgesi'ne göre daha azdır.

10. E Kayın ormanlarının geniş yayılış alanı Karadeniz Bölgesi'dir. Diğerleri Akdeniz'de geniş yer kaplamaktadır.

11. E Soruda Akdeniz Bölgesi'ne ilişkin verilen özelliklerin tümü doğrudur.

12. B Yükseltinin fazla olduğu Doğu Anadolu'da karla örtülü gün sayısı daha fazladır.

13. E Akdeniz'de soruda verilen açıklamaların tümü yaylacılıkla ilgili doğru bilgilerdir.

14. E Hierapolis antik kenti Ege Bölgesi Denizli'de bulunmaktadır. Diğerleri Akdeniz Bölgesi'nde bulunmaktadır.

15. B Soruda verilen millî parklar İç Anadolu'da bulunur.

16. E Doğu Anadolu Bölgesi'nde tarımsal nüfus yoğunluğu fazladır. Bunun sebebi tarım alanlarının az olmasıdır.

17. D Karadeniz kıyılarından iç kesimlere doğru gidildiğinde yağışlar azalır, yaz kuraklığı artar. Tütün, şekerpancarı, buğday, arpa gibi ürünler yetiştirilebilir.

18. D Doğu Anadolu Bölgesi'nde verilen illerden Ağrı'da demiryolu ulaşımı bulunmaz.

19. D Doğu Anadolu'da sanayi faaliyetlerinin gelişmemesi, kurulum ve işletme maliyetinin düşük olması arıcılığın gelişmesinde önemli olan etkenlerdir.

20. C Verilen göllerden Mogan ve Sultan Sazlığı İç Anadolu'da, Bafa Ege'de ,Hazar ise Doğu Anadolu'da bulunmaktadır.

MURAT YAYINLARI

Bölgeler Coğrafyası - III
• TEST 30

1. Marmara Bölgesi'nde besi hayvancılığı çok gelişmiştir.

Besi hayvancılığının gelişme göstermesi aşağıdakilerden hangisiyle ilgilidir?

A) Sermaye birikiminin fazla olmasıyla
B) Büyük şehirlerin et ve süt ürünleri gereksiniminin artmasıyla
C) Ulaşımın kolay olmasıyla
D) Hayvancılık kültürünün gelişmiş olmasıyla
E) Dış pazarlara yakın olmasıyla

2. I. Bursa
II. Yalova
III. Bilecik
IV. Edirne

Marmara Bölgesi'nde bulunan yukarıdaki illerden hangilerinde demiryolu ulaşımı bulunmaz?

A) Yalnız I B) I ve II C) II ve III
D) II ve IV E) III ve IV

3. **Ege Bölgesi'nde bulunan aşağıdaki illerden hangisinde seracılık faaliyetlerinin geliştiği söylenemez?**

A) İzmir
B) Aydın
C) Muğla
D) Manisa
E) Kütahya

4. **Ege Bölgesi aşağıdaki tarım ürünlerinden hangisinin üretiminde ön sıralarda yer almaz?**

A) Tütün
B) Haşhaş
C) Zeytin
D) Keten
E) Pirinç

5. İç Anadolu ve Güneydoğu Anadolu bölgeleri gibi iç bölgelerde genelde tarım alanlarında verim düşük, ürün çeşidi sınırlıdır.

Bu durumun nedenleri arasında aşağıdakilerden hangisi bulunmaz?

A) Sulama olanaklarının yetersiz olması
B) Yağış miktarının az, yağış rejiminin düzensiz olması
C) Kuru tarımın yaygın olması
D) Yerşekillerinin makine kullanımına elverişsiz olması
E) Yaz kuraklığının şiddetli olması

6. • Gala Gölü Milli Parkı
• İğneada Longoz Ormanları Milli Parkı
• Manyas Kuş Gölü Milli Parkı

Verilen milli parklar aşağıdaki bölgelerden hangisinde bulunmaktadır?

A) Akdeniz
B) Ege
C) Marmara
D) Karadeniz
E) İç Anadolu

MURAT YAYINLARI

/muratyayincilik

7. **Karadeniz Bölgesi'nde bulunan aşağıdaki turizm alanlarından hangisi UNESCO Kültür Mirasları listesinde yer almaktadır?**

A) Ballıca Mağarası
B) Safrabolu Evleri
C) Sümela Manastırı
D) Uzungöl
E) Erfelek Şelalesi

8.



Yukarıda Kıyı Ege'nin kuzey-güney doğrultulu kesiti verilmiştir.

Kıyı Ege'de yer şekillerinin oluşmasında aşağıdaki kuvvetlerden hangisi daha önemli rol oynamıştır?

A) Epirojenez
B) Orojenez
C) Akarsu aşındırması
D) Dalga biriktirmesi
E) Volkanizma

9. **Ege Bölgesi'nde kaplıca turizminin gelişmesinde,**

I. Kırıklı yapının varlığı
II. Dağların denize dik uzanması
III. Karstik kayaçların bulunması

faktörlerinden hangileri belirleyici olmuştur?

A) Yalnız I B) Yalnız II C) Yalnız III
D) I ve III E) I, II ve III

10.



Yukarıda Doğu Karadeniz Bölümü'nde kuzey-güney yönlü bir kesit verilmiştir.

Doğu Karadeniz'deki bitki örtüsünün dağılışında aşağıdakilerden hangisinin etkisi daha azdır?

A) Yükseklik
B) Nemlilik
C) Dağların uzanışı
D) Sıcaklık
E) Toprak yapısı

11. **Aşağıdakilerden hangisi Karadeniz Bölgesi ile Doğu Anadolu Bölgesi'nin benzer özelliklerindendir?**

A) Yağış miktarı
B) Sıcaklık ortalamaları
C) Tarımsal nüfus yoğunlukları
D) Yetiştirilen ürün çeşitleri
E) Karlı-donlu gün sayısı

12. Karadeniz'de yazlar pek sıcak geçmez. Yaz sıcaklıklarının Kuzeydoğu Anadolu'dan sonra en düşük olduğu yer Karadeniz kıyılarıdır. Kışın da fazla soğuk geçmez.

Bunun nedeni aşağıdakilerin hangisinde doğru olarak verilmiştir?

A) Nemliliğin fazla olması
B) Kuzey yönlü rüzgarların esmesi
C) Ekvator'dan uzakta olması
D) Yazın az yağış alması
E) Ormanların geniş yer kaplaması

MURAT YAYINLARI

13. **Aşağıdaki göllerden hangisi Akdeniz Bölgesi'nde yer almaz?**

A) Eğirdir
B) Salda
C) Kovada
D) Zinav
E) Suğla

14. **Aşağıdakilerden hangisi Karadeniz Bölgesi tarımının özelliklerinden değildir?**

A) Aktif nüfusun çoğu tarımda çalışır.
B) Arazi dağlık ve engebeli olduğu için tarımda makineleşme azdır.
C) Nadas yönteminin en fazla yapıldığı bölgedir.
D) Yazın yağışlı geçen kıyı kesimi, buğday üretimine elverişli değildir.
E) Fındık ve çay gibi bol yağış isteyen ürünlerin en çok yetiştirildiği bölgedir.

15. **Aşağıdakilerden hangisinin üretiminde Karadeniz Bölgesi, Türkiye'de ilk sırada yer almaz?**

A) Taş kömürü
B) Tütün
C) Kereste
D) Balıkçılık
E) Fındık

16. **Akdeniz Bölgesi'nde bulunan aşağıdaki ovalardan hangisinin oluşumu farklıdır?**

A) Elmalı
B) Acıpayam
C) Korkuteli
D) Kestel
E) Silifke

17. **Aşağıdakilerden hangisi Akdeniz Bölgesi'nin özelliklerinden biri değildir?**

A) Karstik oluşum ve yerşekilleri geniş yer kaplar.
B) Güneşli gün sayısı fazladır.
C) Kıyı ile iç kesimler arasında ulaşım bazı doğal geçitlerle sağlanır.
D) Yaz mevsiminde Türkiye'de en yüksek sıcaklıkların yaşandığı bölgedir.
E) Turizmin bölgenin ekonomisinde önemli bir yeri vardır.

18. Doğu Anadolu Bölgesi'nin birçok ülkeye kara sınır bulunmaktadır.

Buna göre, Doğu Anadolu Bölgesi'nin aşağıdaki ülkelerden hangisiyle kara sınırı daha uzundur?

A) Irak
B) Gürcistan
C) İran
D) Ermenistan
E) Nahcıvan

19. **Aşağıdaki barajlardan hangisi Güneydoğu Anadolu Bölgesi'nde bulunmaz?**

A) Ilısu
B) Birecik
C) Kralkızı
D) Atatürk
E) Kapulukaya

20. Türkiye'de turfanda sebzecilik ve meyvecilik Akdeniz ve Ege kıyılarında toplanmıştır.

Bu durum söz konusu yerlerin hangi özelliğinden kaynaklanır?

A) Yaz aylarının kurak geçmesi
B) Kış mevsiminin ılık geçmesi
C) Büyük tüketim alanlarına yakın olması
D) Verimli tarım alanlarının bulunması
E) Tarım bitkilerinin çiftçileri bu alanda yönlendirmesi

MURAT YAYINLARI

/muratyayincilik

Açıklamalar • TEST 30

1. **B** Marmara Bölgesi'nde besi hayvancılığın gelişmesinde büyük şehirlerdeki nüfusun çoğalması ve et-süt ihtiyaçlarının artması etkilidir.

2. **B** Marmara Bölgesi'nde verilen illerden Bursa ve Yalova'da demiryolu ulaşımı bulunmaz.

3. **E** Kütahya'da karasal iklim şartları hakim olduğu için seracılık faaliyetleri gelişmemiştir.

4. **E** Ege Bölgesi pirinç üretiminde ön sıralarda yer almaz. Pirinç Marmara ve Karadeniz Bölgesi'nde yoğun üretilmektedir.

5. **D** İç Anadolu ve Güneydoğu Anadolu yerşekilleri engebesiz ve düz olan bölgelerdir. Bu alanlarda tarımsal verimin düşük olmasında makineleşmenin azlığı etkili değildir. İklim koşulları ve sulamanın yetersizliği etkili olmuştur.

6. **C** Soruda verilen milli parklar Marmara Bölgesi'nde bulunmaktadır.

7. **B** Karabük'te bulunan Safranbolu Evleri UNESCO tarafından koruma altında tutulmaktadır.

8. **B** Kıyı Ege'de yerşekillerinin oluşmasında kırıklı dağlar ve orojenez en büyük katkıyı yapmıştır.

9. **A** Ege Bölgesi'nde horst-graben sisteminin yeni kırıklı arazilerin fazla olması kaplıca turizminin gelişmesini sağlamıştır.

10. **E** Doğu Karadeniz dağlarındaki bitki örtüsünün dağılışında en az etkiyi toprak yapısı sağlamıştır.

11. **C** Karadeniz ve Doğu Anadolu Bölgeleri Türkiye'de tarımsal nüfus yoğunluğunun en fazla olduğu bölgelerdir.

12. **A** Karadeniz kıyılarında nemliliğin fazla olması nedeniyle, yazlar çok sıcak, kışlarda çok soğuk geçmez.

13. **D** Zinav Gölü Karadeniz'de bulunurken, diğerleri Akdeniz'de yer almaktadır.

14. **C** Yağışın en fazla olduğu bölge olan Karadenizde nadas alanları azdır.

15. **B** Tütün üretiminde birinci sırada Ege Bölgesi yer alır.

16. **E** Akdeniz Bölgesi'nde bulunan Silifke, delta ovası iken diğerleri karstik oluşuma sahiptir.

17. **D** Yaz mevsiminde Türkiye'nin en sıcak yerleri Güneydoğu Anadolu Bölgesi'ndedir.

18. **C** Doğu Anadolu Bölgesi'nin İran ile olan sınırı daha uzundur. (560 km)

19. **E** Kapulukaya Barajı Kızılırmak üzerinde İç Anadolu Bölgesi'nde yer almaktadır.

20. **B** Turfanda sebze ve meyve üretimi için kışların ılık geçmesi gereklidir. Bu nedenle Akdeniz ve Ege kıyılarında turfandacılık ve seracılık gelişmiştir.

MURAT YAYINLARI

Bölgeler Coğrafyası - IV
• TEST 31

1. Akdeniz ikliminin etki alanı Akdeniz Bölgesi'nde kıyıdan iç kesimlere 80-100 km kadar sokulabilirken, Ege Bölgesi'nde 100-200 km kadar sokulabilmektedir.

Bunun <u>temel nedeni</u> aşağıdakilerden hangisidir?

A) Yazın Ege'de etezyen rüzgarlarının esmesi
B) Dağların yükseltisinin farklı olması
C) Dağların kıyıya uzanış doğrultusunun farklı olması
D) Ovaların geniş yer tutması
E) Hava kütlelerinin Akdeniz havzasında batıdan doğuya hareket etmesi

2. **Aşağıdakilerden hangisi Akdeniz Bölgesi'nde yerşekillerine bağlı ortaya çıkan sonuçlardan biri <u>değildir</u>?**

A) Tarım alanlarının sınırlı olması
B) Ulaşım koşullarının elverişsiz olması
C) Krom ve alüminyum gibi madenler yönünden zengin olması
D) Endüstrinin yeterince gelişememesi
E) Bitki türlerinin çeşitlilik göstermesi

3. **Aşağıda verilen durumlardan hangilerinde Karadeniz ile Akdeniz Bölgeleri <u>daha fazla</u> benzerlik göstermektedir?**

A) Tarım ürünleri
B) İklim özellikleri
C) Turizm etkinlikleri
D) Doğal bitki örtüsü
E) Dağların uzanış doğrultusu

4. **Aşağıdakilerden hangisi İç Anadolu Bölge-si'nin özelliklerinden <u>değildir</u>?**

A) Yerşekilleri ulaşıma elverişlidir.
B) Tarımsal nüfus yoğunluğu düşüktür.
C) Kuru tarım yöntemleri uygulanır.
D) En az yağış alan bölgedir.
E) Dağınık yerleşme tipi yaygındır.

5. En az yağış alan bölge İç Anadolu olmasına karşın en kurak bölge Güneydoğu Anadolu'dur.

Güneydoğu Anadolu Bölgesi'nin daha kurak olmasının <u>temel nedeni</u> aşağıdakilerden hangisidir?

A) Denize uzaklık
B) Nem oranının azlığı
C) Buharlaşmanın yüksek olması
D) Yağışların kar şeklinde düşmesi
E) Bitki örtüsünün bozkır olması

6. • Ayçiçeği
• Pirinç
• Kolza

Verilen tarım ürünleri aşağıdaki bölgelerden hangisinde daha fazla üretilir?

A) Marmara
B) Ege
C) Karadeniz
D) İç Anadolu
E) Akdeniz

MURAT YAYINLARI

/muratyayincilik

7. **İç Anadolu Bölgesi'nde bulunan aşağıdaki illerden hangisinde demiryolu ulaşımı bulunmaz?**

A) Kırıkkale
B) Nevşehir
C) Eskişehir
D) Sivas
E) Çankırı

8. Son yıllarda Güneydoğu Anadolu Bölgesi'nin Türkiye pamuk üretimindeki payı hızla artmıştır.

Aşağıdakilerden hangisi bu durumun ortaya çıkmasında daha etkilidir?

A) Toprakların pamuk tarımına uygun olması
B) Gübrelemenin artması
C) Orta Doğu ülkelerinden dokuma ürünlerine olan talebin artması
D) Sulanan alanların artması
E) Devletin pamuk üretimini teşvik etmesi

9. I. Yüzölçüm bakımından en küçüktür.
II. Doğal göl sayısı bakımından fakirdir.
III. Yaz mevsiminde en sıcak bölgedir.

Güneydoğu Anadolu Bölgesi'yle ilgili yukarıdaki bilgilerden hangileri doğrudur?

A) Yalnız I B) Yalnız II C) Yalnız III
D) I ve II E) I, II ve III

10. **Doğu Anadolu Bölgesi'nde aşağıdaki ekonomik faaliyetlerin hangisi üzerinde iklim ve yerşekillerinin olumsuz etkisi daha azdır?**

A) Sanayi
B) Tarım
C) Ulaşım
D) Kış Turizmi
E) Ticaret

11. • İshak Paşa Sarayı
• Karanlık Kanyon
• Muradiye Şelaleleri

Verilen turizm alanları aşağıdaki bölgelerden hangisinde bulunur?

A) Güneydoğu Anadolu
B) Karadeniz
C) Doğu Anadolu
D) İç Anadolu
E) Marmara

12. **Aşağıdakilerden hangisi İç Anadolu'da kuraklığın doğurduğu sonuçlardan değildir?**

A) Tarımda sulama sorununun ortaya çıkması
B) Küçükbaş hayvancılığın önem kazanması
C) Nüfusun dağ eteklerinde ve akarsu boylarında toplanması
D) Tarımda ilaçlamaya gerek duyulması
E) Nadas uygulamasının zorunlu olması

13. I. Altınbaşak
II. Suruç
III. Suluova
IV. Tercan

Yukarıda verilen ovalardan hangileri Güneydoğu Anadolu Bölgesi'nde bulunmaktadır?

A) Yalnız I B) I ve II C) II ve III
D) II ve IV E) III ve IV

MURAT YAYINLARI

14. **GAP tamamlandığında, aşağıdaki ovaların hangilerinde pamuk üretiminde büyük artışlar olması beklenir?**

A) Suruç - Harran - Ceylanpınar
B) Malatya - Elazığ - Muş
C) Pasinler - Kağızman - Iğdır
D) Amik - Çukurova - Elbistan
E) Taşova - Erbaa - Niksar

15. **Aşağıdakilerin hangisinde gerçek sıcaklıklarla deniz seviyesine indirgenmiş sıcaklıklar arasındaki farkın en az ve en fazla olduğu bölgeler doğru olarak verilmiştir?**

A) Marmara - Doğu Anadolu
B) Akdeniz - Karadeniz
C) Ege - Marmara
D) Doğu Anadolu - Karadeniz
E) Akdeniz - İç Anadolu

16. **Türkiye'de yıllık buharlaşma miktarının en az ve en fazla olduğu bölgeler aşağıdakilerden hangisinde doğru olarak verilmiştir?**

A) Karadeniz - Güneydoğu Anadolu
B) İç Anadolu - Doğu Anadolu
C) Akdeniz - İç Anadolu
D) Marmara - Ege
E) Akdeniz - Karadeniz

17. I. Mermer
II. Boksit
III. Kurşun
IV. Bor

Akdeniz Bölgesi yukarıda verilen madenlerin hangilerinin çıkartımında önemli paya sahiptir?

A) I ve II B) I ve III C) II ve III
D) II ve IV E) III ve IV

18. Marmara Bölgesi'nde genel olarak deprem riski yüksektir.

Buna göre, aşağıda verilen yerlerden hangisinde böyle bir durumdan bahsedilemez?

A) Çatalca Yarımadası
B) Çanakkale çevresi
C) Balıkesir çevresi
D) Yıldız Dağları
E) Sakarya çevresi

19. Ege Bölgesi bal üretiminde önemli paya sahiptir.

Buna göre, Ege Bölgesi'nde bulunan aşağıdaki illerden hangisinin bal üretimindeki payı daha fazladır?

A) İzmir
B) Muğla
C) Aydın
D) Uşak
E) Afyon

20. I. Sabuncubeli
II. Kuskunkıran
III. Dranaz
IV. Orhangazi

Yukarıdaki tünellerden hangileri Ege Bölgesi'nde bulunmaktadır?

A) Yalnız I B) I ve II C) II ve III
D) II ve IV E) III ve IV

MURAT YAYINLARI

/muratyayincilik

Açıklamalar • TEST 31

1. C Dağların uzanışı deniz etkisinin iç kesimlere sokulmasını etkilemektedir. Ege'de dağlar kıyıya dik uzandığı için deniz etkisi iç kısımlara daha rahat ulaşabilir.

2. C Akdeniz Bölgesi'nin krom ve alüminyum yönünden zengin olması yerşekilleri değil, yerin yapısı ile ilgilidir.

3. E Karadeniz ve Akdeniz Bölgeleri dağların kıyıya paralel uzanması nedeniyle yerşekilleri yönünden benzerlik gösterir.

4. E Dağınık kırsal yerleşme tipinin en fazla olduğu yer Doğu Karadeniz Bölümü'dür. İç Anadolu'da toplu yerleşmeler daha fazladır.

5. C Yaz mevsimi çok sıcak geçen Güneydoğu Anadolu'da buharlaşmanın etkisiyle kuraklık çok fazladır.

6. A Soruda verilen tarım ürünleri Marmara'da daha fazla üretilir.

7. B İç Anadolu Bölgesi'nde verilen illerden Nevşehir'de demiryolu ulaşımı bulunmaz.

8. D Pamuk sulama olanaklarının geliştiği yerde yetişir. Güneydoğu Anadolu' da sulamanın yaygınlaşmasıyla pamuk üretimi artmıştır.

9. E Güneydoğu Anadolu Bölgesi'ne ilişkin soruda verilen özelliklerin tümü doğrudur.

10. D Kış turizmi kar yağışının fazla olduğu yüksek dağlarda gelişmiştir. Bu yüzden iklim ve yerşekillerinin olumlu etkisi vardır.

11. C Soruda verilen turizm alanları Doğu Anadolu'da bulunur.

12. D Tarımda ilaçlamaya gerek duyulması mineral eksikliğindendir. Kuraklıkla ilgili bir durum değildir.

13. B Altınbaşak (Harran) ve Suruç Güneydoğu Anadolu'da, Suluova Karadeniz'de, Tercan ise Doğu Anadolu'da bulunmaktadır.

14. A Suruç, Harran ve Ceylanpınar Güneydoğu Anadolu Bölgesi'nde bulunan ovalardır. Bu nedenle GAP'la beraber pamuk üretimi artacaktır.

15. A Gerçek sıcaklık ile indirgenmiş sıcaklık arasındaki farkı belirleyen yükseltidir. Yükseltinin az olduğu Marmara'da bu fark daha azdır. Doğu Anadolu'da ise fark daha fazladır.

16. A Yıllık buharlaşma miktarının en az olduğu bölge bulutluluğun en çok olduğu Karadeniz, buharlaşma oranının en fazla olduğu bölge ise Güneydoğu Anadolu'dur.

17. A Akdeniz Bölgesi mermer ve boksit çıkartımında önemli paya sahiptir.

18. D Marmara Bölgesi'nde Yıldız Dağları masif arazi olduğu için deprem riski azdır.

19. B Ege Bölgesi'nde bal üretimi en fazla Muğla'da yapılmaktadır.

20. A Sabuncubeli Ege'de, Kuskunkıran Doğu Anadolu'da, Dranaz Karadeniz'de, Orhangazi ise Marmara'da bulunmaktadır.

MURAT YAYINLARI

Bölgeler Coğrafyası - V
• TEST 32

1. **Akdeniz Bölgesi'nde polye, dolin, obruk, mağara gibi yerşekillerine yaygın olarak rastlanmasında, belirleyici etken aşağıdakilerden hangisidir?**

A) Sıcaklık değeri
B) Yağış düzeni
C) Yağış miktarı
D) Arazi yapısı
E) Enlem

2. **Aşağıdaki turizm varlıklarından hangisi iç coğrafi bölgelerden birinde bulunmaz?**

A) Kırmızı Medrese
B) Dara antik kenti
C) Çatalhöyük
D) Assos antik kenti
E) Yassıhöyük

3. I. Zamantı çayı
II. Sakarya
III. Kızılırmak

Yukarıda verilen akarsulardan hangileri İç Anadolu Bölgesi'nde bulunmaktadır?

A) Yalnız I B) Yalnız II C) Yalnız III
D) I ve II E) I, II ve III

4. **Ege Bölgesi'nde bulunan aşağıdaki ovalardan hangisinin oluşumu farklıdır?**

A) Balat
B) Selçuk
C) Nazilli
D) Menemen
E) Dikili

5. **Konya'da küçükbaş hayvancılığın, Sivas'ta arıcılığın gelişmesi bu iki yerin hangi özelliklerinin farklı olması ile açıklanabilir?**

A) Doğal bitki örtülerinin
B) Yetiştirilen ürünlerin
C) Toprak yapısının
D) Denize uzaklıklarının
E) Yem sanayisinin farklı olması

6. **Güneydoğu Anadolu Bölgesi'yle ilgili aşağıda verilen neden-sonuç ilişkilerinden hangisi yanlıştır?**

A) Kırıklı yapı az olduğu için deprem riski azdır.
B) Buharlaşmanın fazla olmasından dolayı kuraklık fazla hissedilir.
C) Karasallık, sıcak rüzgarlar ve enlem nedeniyle yaz ayları sıcak geçer.
D) Tarım alanları geniş olduğu için bir bölümünde zeytin tarımı yapılmaktadır.
E) Yer şekillerinin sade olması nedeniyle ulaşıma elverişlidir.

MURAT YAYINLARI

/muratyayincilik

7. İç Anadolu Bölgesi'nde çok miktarda tahıl üretilirken son yıllarda sebze üretiminin de arttığı görülmektedir.

Bölgede sebze üretiminin artmaya başlaması aşağıdakilerden hangisiyle açıklanabilir?

A) Nüfusun artmasıyla
B) Tarım alanlarının genişlemesiyle
C) İklimin değişmesiyle
D) Sulama olanaklarının gelişmesiyle
E) Gübreleme olanaklarının artmasıyla

8. İç Anadolu Bölgesi'nde; nadasa ayrılan toprakların oranı diğer bölgelere göre daha fazladır.

Bu durum daha çok;

I. Yüzölçümünün büyük olması
II. Düzlüklerin geniş yer kaplaması
III. Yağışın az olması
IV. Kışların soğuk geçmesi
V. Toprak yapısı

gibi faktörlerden hangisiyle açıklanabilir?

A) I B) II C) III D) IV E) V

9. I. Cilvegözü
II. Zeytindalı
III. Ceylanpınar
IV. Islahiye

Yukarıda verilen sınır kapılarından hangileri Akdeniz Bölgesi'nde bulunmaktadır?

A) Yalnız I B) I ve II C) I ve III
D) II ve III E) III ve IV

10. **Akdeniz Bölgesi aşağıdakilerden hangisinde ilk sırada yer almaz?**

A) Sera alanlarında
B) Turunçgil üretiminde
C) Karstik arazi alanında
D) Zeytin üretiminde
E) Muz üretiminde

11. **Güneydoğu Anadolu Bölgesi'nde bulunan aşağıdaki sınır kapılarından hangilerinden demiryolu ile geçiş bulunmaktadır?**

A) Öncüpınar - Islahiye
B) Nusaybin - Islahiye
C) Mürşitpınar - Nusaybin
D) Ceylanpınar - Öncüpınar
E) Öncüpınar - Nusaybin

12. **Türkiye'nin bazı coğrafi bölgelerinin ekonomik özellikleri ile ilgili aşağıdaki açıklamalardan hangisi yanlıştır?**

A) Ege Bölgesi'nin kıyı kesiminde tarım ürünü çeşitliliği iç kesiminden daha fazladır.
B) Doğu Anadolu Bölgesi'nin kuzeydoğusunda büyükbaş hayvancılık, güneybatı kesimine oranla daha fazla yapılır.
C) Karadeniz Bölgesi'nin doğu bölümünde sanayi kuruluşları batı bölümünden daha fazladır.
D) Güneydoğu Anadolu Bölgesi'nin doğusunda petrol rezervi batısına göre daha fazladır.
E) Akdeniz Bölgesi'nin doğusunda turizm gelirleri batısına göre daha azdır.

MURAT YAYINLARI

13. **Aşağıdaki turizm merkezlerinden hangisi Akdeniz Bölgesi'nde yer almaz?**

A) St. Pier Kilisesi
B) Perge Antik Kenti
C) Olimpos
D) Selge Antik Kenti
E) Afrodisias

14. **Doğu Anadolu Bölgesi'nde bulunan aşağıdaki şehirlerden hangisi komşu ülkelerle sınır oluşturmaz?**

A) Bitlis
B) Van
C) Ağrı
D) Hakkari
E) Kars

15. I. Alacahöyük
II. Gordion
III. Çatalhöyük
IV. İnce Minare

İç Anadolu Bölgesi'nde bulunan yukarıdaki yerlerden hangileri UNESCO Kültür Mirasları listesinde yer alır?

A) Yalnız III B) I ve III C) II ve III
D) II ve IV E) III ve IV

16. **Doğu Anadolu Bölgesi'nde bulunan aşağıdaki dağlardan hangisinin oluşumu diğerlerinden farklıdır?**

A) Süphan
B) Buzul (Cilo)
C) Ağrı
D) Nemrut
E) Tendürek

MURAT YAYINLARI

/muratyayincilik

17. Türkiye'de sanayinin en çok geliştiği bölge Marmara Bölgesi'dir.

Marmara Bölgesi'nin aşağıdaki özelliklerinden hangisinin bölgedeki sanayi faaliyetleriyle ilişkili olduğu söylenemez?

A) Turizm gelirlerinin yüksek olmasının
B) Enerji tüketiminin fazla olmasının
C) Kentleşme oranının yüksek olmasının
D) Diğer bölgelerden göç almasının
E) Ticari faaliyetlerin gelişmiş olmasının

18. I. Gökova
II. Çandarlı
III. Erdek
IV. Güllük

Yukarıdaki körfezlerden hangileri Ege Denizi'nde yer almaz?

A) Yalnız III B) I ve II C) I ve III
D) II ve III E) III ve IV

19. Marmara Bölgesi'nde hem tarım alanlarının genişliği hem de iklim çeşitliliği nedeniyle tarımsal üretim fazladır. Buna karşın bölgenin tarım ürünlerine olan gereksiniminin tamamı bölge üretiminden sağlanamaz.

Bu durum aşağıdakilerin hangisiyle doğrudan ilişkilidir?

A) Nüfusun fazla olmasıyla
B) Tarım ürünlerinin çabuk bozulmasıyla
C) Nüfus dağılışının düzensizliğiyle
D) Endüstrinin gelişmiş olmasıyla
E) Ürünleri işleyecek fabrikaların yeterli olmamasıyla

20. Doğu Anadolu Bölgesi maden rezervi yönünden zengindir.

Buna göre aşağıdaki madenlerden hangisinin Doğu Anadolu'da önemli bir rezervi bulunmaz?

A) Kurşun
B) Krom
C) Bor
D) Bakır
E) Perlit

MURAT YAYINLARI

Açıklamalar • TEST 32

1. **D** Polye, dolin, obruk, mağara gibi yerşekilleri karstik şekillerdir. Karstik şekiller suda kolay eriyebilen kayaların bulunduğu yerlerde yaygındır. Bu nedenle bu şekillerin oluşmasına arazinin yapısı belirleyicidir.

2. **D** Assos antik kenti Çanakkale'de bulunurken diğerleri iç bölgelerde bulunmaktadır.

3. **E** Soruda verilen akarsuların tümü İç Anadolu'da bulunmaktadır. Zamantı Çayı Seyhan Nehri'nin bir koludur.

4. **C** Ege Bölgesi'nde verilen ovalardan Nazilli tektonik diğerleri delta özelliğine sahiptir.

5. **A** İki bölümün yükseltileri ve yerşekilleri farklı olduğu için iklim özellikleri de farklıdır. Bu nedenle gelişen hayvancılık faaliyetleri de farklıdır.

6. **D** Güneydoğu Anadolu Bölgesi'nde zeytin tarımının yapılması tarım alanlarının geniş olmasından değil bölgenin bir bölümünde Akdeniz ikliminin görülmesindendir.

7. **D** Sulamanın İç Anadolu Bölgesi'nde yaygınlaşmasıyla birlikte tahıl tarımı yerini sebzeciliğe bırakmaya başlamıştır.

8. **C** İç Anadolu Bölgesi'nde yağışın az olması ve sulamanın çok fazla gelişmemesinden dolayı topraklardaki nemliliği arttırmak için nadas yöntemi yaygındır.

9. **B** Cilvegözü ve Zeytindalı sınır kapıları Akdeniz Bölgesi Hatay'da bulunmaktadır.

10. **D** Zeytin üretiminde Ege Bölgesi ilk sırada yer almaktadır. Diğerlerinde ise Akdeniz Bölgesi ilk sırada yer almaktadır.

11. **B** Güneydoğu Anadolu'dan Suriye'ye açılan Nusaybin ve Islahiye sınır kapılarından demiryolu ile geçiş imkanı bulunmaktadır.

12. **C** Karadeniz Bölgesi'nde sanayi kuruluşları daha çok batı bölümünde yoğunlaşmıştır.

13. **E** Afrodisias Ege Bölgesi'nde Aydın'da bulunurken diğerleri Akdeniz Bölgesi'nde bulunmaktadır.

14. **A** Doğu Anadolu Bölgesi'nde verilen illerden Bitlis iç kesimde yer aldığı için komşu ülkelerle sınır oluşturmaz.

15. **B** Konya'da bulunan Çatalhöyük ve Çorum'da bulunan Alacahöyük UNESCO tarafından koruma altında tutulmaktadır.

16. **B** Buzul (Cilo) Dağları kıvrımlı diğerleri ise volkanik oluşuma sahiptir.

17. **A** Sanayinin gelişmesi enerji tüketimine ve işgücüne duyulan ihtiyacı arttırır. Bu durum sanayileşmiş kentlerin göç almasına yol açar. Ve bu alanlarda sanayileşmeye bağlı olarak kentleşme oranı artar. Fakat turizmin gelişmesi sanayileşmeye bağlı değildir.

18. **A** Erdek körfezi Marmara'da yer alırken diğerleri Ege'de yer almaktadır.

19. **A** Marmara Bölgesi Türkiye'de nüfusun en fazla olduğu bölgedir. Bu nedenle tüketim fazladır. Tarımsal üretim ihtiyacı karşılamada yetersiz kalmaktadır.

20. **C** Bor rezervinde Marmara önemli paya sahipken diğerlerinde Doğu Anadolu önemli rezerve sahiptir.

MURAT YAYINLARI

/muratyayincilik

5 DERS
TEK KİTAP
Genel Yetenek - Genel Kültür

SORU BANKASI

Temel Yurttaşlık Bilgisi

MURAT yayınları 1983
MURAT YAYINLARI

Temel Hukuk Bilgisi
• TEST 1

1. Aşağıdakilerden hangisi hukukun yaptırımları arasında gösterilebilir?

A) İdam B) Kısasa kısas
C) Kıyas D) Tazminat
E) Diyet

2. Kanunen mevcut ve bilinmekte olduğu kabul edilen belirli bir olaydan veya olgudan, bilinmeyen bir olayın veya olgunun varlığı hakkında sonuç çıkarılmasına ne ad verilmektedir?

A) Karine B) Gabin
C) Zilyet D) İlliyet bağı
E) İcap

3. I. Haksız fiil
II. Sebepsiz zenginleşme
III. Vakıf kurmak

Türk Borçlar Kanunu'na göre, yukarıdakilerden hangileri borcun kaynakları arasında yer alır?

A) Yalnız I B) Yalnız III C) I ve II
D) II ve III E) I, II ve III

4. I. Savurganlık
II. Akli dengenin yitirilmesi
III. Kötü yönetim

Medeni Kanun'a göre, yukarıdakilerden hangileri kişinin fiil ehliyetinin kısıtlanma sebepleri arasında gösterilebilir?

A) Yalnız I B) Yalnız II C) Yalnız III
D) I ve II E) I, II ve III

5. Aşağıdakilerden hangisi manevi yaptırım türlerinden biridir?

A) Ceza
B) Günahkar ilan edilmek
C) İptal
D) Tazminat
E) Tek taraflı bağlamazlık

6. Henüz gerçekleşmemiş fakat gerçekleşmesi mümkün görülen bir haksız saldırı için açılan dava aşağıdakilerden hangisidir?

A) İptal davası
B) Saldırıya son davası
C) Önleme davası
D) Vekaletsiz iş görme davası
E) Men davası

7. Kamu hukuku tüzel kişileri aşağıdaki işlemlerden hangisi ile kurulmaktadır?

A) Vali kararıyla kurulur.
B) Asliye mahkeme siciline tescil ile kurulur.
C) Belediye meclisi kararıyla kurulur.
D) Kaymakam kararıyla kurulur.
E) Kanun veya cumhurbaşkanlığı kararnamesiyle kurulur.

8. I. İrtifak hakkı
II. Rehin hakkı
III. Mülkiyet hakkı
IV. Oturma hakkı

Yukarıdakilerden hangileri sınırlı ayni haklar arasında yer alır?

A) I ve II B) I, II ve IV C) I ve III
D) Yalnız III E) III ve IV

MURAT YAYINLARI

9. **Sözleşmenin taraflarından birisinin darda kalmasından, tecrübesizliğinden karşı tarafın aşırı yararlanmak amacıyla sözleşmenin edimleri arasında yarattığı orantısızlığa ne ad verilir?**

A) Muvazaa B) Karine
C) Ahde vefa D) Gabin
E) Tecdit

10. **Aşağıdakilerden hangisi geçersizlik sonucu doğurmaz?**

A) Bir kamulaştırma işleminin yargı kararıyla ortadan kaldırılması
B) Akli dengesi yerinde olmayan birisinin sözleşme imzalaması
C) On beş yaşında küçüğün velisinin onayını almadan satış sözleşmesi yapması
D) Bir kişinin tehdit altında sözleşmeyi imzalaması
E) Sözleşmeyi yaparken yanlışlıkla bir hatanın oluşması

11. I. Teyze
II. Kuzen
III. Yeğen

Yukarıdakilerden hangileri üçüncü derece yan soy kan hısımlarıdır?

A) Yalnız I B) I ve III C) II ve III
D) Yalnız II E) I, II ve III

12. **Ali ile anne baba bir kız kardeşi Ayşe arasındaki hısımlık türü ve derecesi nedir?**

A) Birinci dereceden tam kan yan soy hısımlığı
B) İkinci dereceden yarım kan yan soy hısımlığı
C) İkinci dereceden tam kan yan soy hısımlığı
D) Üçüncü dereceden tam kan yan soy hısımlığı
E) İkinci dereceden tam kan üst soy hısımlığı

13. I. Ticaret hukuku
II. Anayasa hukuku
III. Borçlar hukuku
IV. Ceza hukuku

Yukarıdakilerden hangileri kamu hukukunun dalları arasında gösterilebilir?

A) I ve II B) II ve III C) III ve IV
D) II ve IV E) I ve III

14. **Ölüm karinesiyle ilgili aşağıdaki ifadelerden hangisi yanlıştır?**

A) Ölüm karinesinde kişinin ölümü kesindir.
B) Ölüm karinesinde karar mercii bu kişinin nüfusa kayıtlı yerleşim yerinin en büyük mülki amiridir.
C) Ölüm karinesi uygulanan evli kişilerin evlilikleri kendiliğinden sona erer.
D) Ölüm karinesi ile kişinin malvarlığı mirasçılarına belli süreler sonrasında kesin olarak geçer.
E) Ölüm karinesi niteliği itibariyle kesin karine değildir.

MURAT YAYINLARI

/muratyayincilik

15. I. Hukuki olay
II. Hukuki işlem
III. Hukuki fiil

Yukarıdakilerden hangileri bir hakkın kişiye bağlanma yolları arasında gösterilebilir?

A) Yalnız I B) Yalnız II C) Yalnız III
D) I ve II E) I, II ve III

16. **Medeni Kanun'un 3. maddesine göre, bir hakkın geçerli surette kazanılmasını önleyen herhangi bir hususun hakkı kazanacak olan kimse tarafından bilinmemesi durumuna ne ad verilir?**

A) İyi niyet
B) Ahde vefa
C) Muvazaa
D) Mahcur
E) Meşru müdafaa

17. – Fiil ehliyetinin bütün şartlarına sahip olmayan kişilerdir.
– Kanun koyucu bu kişileri tam anlamıyla ehliyetsiz saymamış bazı bakımlardan kısmen ehliyetsiz saymıştır.
– Ayırt etme gücüne sahip küçükler ile ayırt etme gücüne sahip kısıtlılar bu türün örnekleridir.

Yukarıda özellikleri verilen fiil ehliyeti türü aşağıdakilerden hangisidir?

A) Tam ehliyetli
B) Sınırlı ehliyetli
C) Sınırlı ehliyetsiz
D) Tam ehliyetsiz
E) Sınırsız ehliyetsiz

18. I. Tam ehliyetli
II. Tam ehliyetsiz
III. Sınırlı ehliyetli
IV. Sınırlı ehliyetsiz

Medeni Kanun'a göre, yukarıdakilerden hangileri fiil ehliyetinin sınıflandırmaları arasında yer alır?

A) I ve II B) I, II ve III
C) II, III ve IV D) III ve IV
E) I, II, III ve IV

19. **Normlar hiyerarşisine göre, aşağıdakilerden hangisi kanunlar ile aynı basamakta yer alır?**

A) Olağanüstü dönem Cumhurbaşkanlığı kararnamesi
B) Anayasa
C) Yönetmelik
D) Genelge
E) Talimatname

20. **Uyulması zorunlu olmayan ve ancak kişiler tarafından aksi kararlaştırılmadığı takdirde uygulanması gerekli olan ve sözleşmelerdeki boşluğu dolduran hukuk kuralı aşağıdakilerden hangisidir?**

A) Emredici
B) Tamamlayıcı
C) Tanımlayıcı
D) Yorumlayıcı
E) Betimleyici

MURAT YAYINLARI

Açıklamalar • TEST 1

1. **D** Hukukun yaptırımı maddidir. Hukukun yaptırımları arasında ceza, cebri icra, tazminat, iptal ve hükümsüzlük yer alır. İdam, kısasa kısas, kıyas, diyet ise hukukun yaptırımları arasında yer almaz.

2. **A** Kanunen mevcut ve bilinmekte olduğu kabul edilen belirli bir olaydan veya olgudan, bilinmeyen bir olayın veya olgunun varlığı hakkında sonuç çıkarılmasına karine denir.

3. **E** Türk Borçlar Kanunu'na göre, haksız fiil, sebepsiz zenginleşme ve hukuki işlem (vakıf kurmak) Türk Borçlar Kanunu'na göre, borcun kaynakları arasında yer almaktadır.

4. **E** Medeni Kanun'a göre, ergin kişilerin mahkeme kararıyla kısıtlanma sebepleri şunlardır: Akıl hastalığı veya akıl zayıflığı, savurganlık, alkol veya uyuşturucu bağımlılığı, kötü yaşam tarzı, kötü yönetim, bir yıl veya daha uzun süreli özgürlüğü bağlayıcı cezaya mahkum olmak, kişinin kendi isteğiyle kısıtlanması

5. **B** Din kurallarına aykırı davranıldığında kişinin karşılaştığı yaptırım türü manevidir. Kişinin günahkar ilan edilmesi manevi yaptırımdır. Ceza, iptal, cebri icra, tazminat ve geçersizlik ise maddi yaptırım türleridir.

6. **C** Gerçekleşmesi muhtemel görülen bir saldırı konusunda açılan davaya önleme davası denir. Saldırının devam etmesi durumunda açılan davaya durdurma davası denir. Saldırı sona ermiş fakat etkileri devam ediyorsa açılan davaya tespit davası denir. Saldırı sonucu meydana gelen zararın tanzimi için açılan davaya tazminat davası denir. Saldırı sonucu elde edilen haksız kazancın geri iadesi için açılan davaya vekaletsiz iş görme davası denmektedir.

7. **E** Tüzel kişiler kamu ve özel hukuktan kaynağını alır. Kamu hukukundan kaynağını alan tüzel kişiler, kanun veya Cumhurbaşkanlığı kararnamesi ile kurulur.

8. **B** Mülkiyet hakkı tam bir ayni hak iken, irtifak hakkı, oturma hakkı ve rehin hakkı ise sınırlı ayni haklardandır.

9. **D** Sözleşmenin taraflarından birisinin darda kalmasından, tecrübesizliğinden karşı tarafın aşırı yararlanmak amacıyla sözleşmenin edimleri arasında yarattığı orantısızlığa Gabin denir.

10. **A** Bir kamulaştırma işleminin hukuka aykırı olduğu gerekçesiyle yargı kararıyla ortadan kaldırılmasına iptal denir. İptal yaptırımı geçersizlik türü değildir. Akli dengesi yerinde olmayan birisinin sözleşme imzalaması mutlak butlan ile geçersizlik sonucu doğurur. On beş yaşında küçüğün velisinin onayını almadan satış sözleşmesi yapması tek taraflı bağlamazlık ile geçersizlik sonucu doğurur. Bir kişinin tehdit altında sözleşmeyi imzalaması ve sözleşmeyi yaparken yanlışlıkla bir hatanın oluşması nispi butlan ile geçersizlik sonucu doğurur.

MURAT YAYINLARI

/muratyayincilik

11. **B** Yeğen ve teyze kişinin üçüncü dereceden yan soy kan hısımlarıdır. Kuzen ise dördüncü dereceden yan soy kan hısımıdır.

12. **C** Ali ile Ayşe kardeş olduğu için aralarında yan soy ve anne baba bir olduğu için tam kan hısımlık bulunmaktadır. Hısımlar arasındaki derece doğum sayısı ile tespit edilir. Ali ortak kökten gelen birinci doğumdur Ayşe ise ikinci doğum olduğu için dereceleri ikinci derecedir.

13. **D** Anayasa hukuku ve ceza hukuku kamu hukukunun dallarındandır. Ticaret hukuku ve borçlar hukuku ise özel hukukun dalları arasında yer almaktadır.

14. **D** Ölüm karinesinde kişinin malvarlığı mirasçılarında hemen intikal eder bunun için belli bir sürenin geçmesine gerek yoktur. Bu tür süreler gaiplik karinesinde uygulanmaktadır.

15. **E** Hukuki olay, hukuki işlem ve hukuki fiil bir hakkın kişiye bağlanma yolarıdır. Kişinin iradesiyle gerçekleştirdiği davranışlar sonucu bir hakkın bağlanmasına hukuki fiil, kişinin iradesinin önemli olmadığı bir olay sonucu hakkın kişiye bağlanmasına hukuki olay, kişinin irade açıklamasına dayanarak hakkın bağlanması yoluna hukuki işlem denir.

16. **A** Medeni Kanun'un 3. maddesine göre, bir hakkın geçerli surette kazanılmasını önleyen herhangi bir hususun hakkı kazanacak olan kimse tarafından bilinmemesi durumuna iyi niyet denir.

17. **C** Sınırlı ehliyetsizler, fiil ehliyetinin bütün şartlarına sahip olmayan kişilerdir. Kanun koyucu sınırlı ehliyetsizleri tam anlamıyla ehliyetsiz saymamış bazı bakımlardan kısmen ehliyetsiz saymıştır. Sınırlı ehliyetsizler kategorisine giren kişiler, ayırt etme gücüne sahip küçükler ile ayırt etme gücüne sahip kısıtlılardır. Sınırlı ehliyetsizlerde, sınırlı ehliyetlilerin tam tersine, ehliyetsizlik asıl, ehliyetlilik ise istisnadır.

18. **E** Medeni Kanun'a göre, fiil ehliyeti sınıflandırmasına göre, ehliyetler: tam ehliyetli, tam ehliyetsiz, sınırlı ehliyetli ve sınırlı ehliyetsiz olarak türlere ayrılmaktadır.

19. **A** Normlar hiyerarşisinde sıralama şöyledir: 1- Anayasa 2- Kanun= Olağanüstü hal Cumhurbaşkanlığı kararnameleri, Milletlerarası anlaşmalar 3- Cumhurbaşkanlığı kararnameleri 4- Yönetmelik 5- Genelge

20. **B** Tamamlayıcı hukuk kuralları, uyulması zorunlu olmayan ve ancak kişiler tarafından aksi kararlaştırılmadığı takdirde uygulanması gerekli olan yani sözleşmelerdeki boşluğu dolduran kurallardır.

MURAT YAYINLARI

Temel Hukuk Bilgisi
• TEST 2

1. I. Veli
II. Vasi
III. Varis

Yukarıdakilerden hangileri yasal temsilciler arasında gösterilir?

A) Yalnız I B) Yalnız II C) Yalnız III
D) I ve II E) I, II ve III

2. **Bir sözleşmede borcun ilgili ayda ödeneceği belirtilmiş olup ilgili ay ifadesinden o ayın son iş gününün anlaşılması gerektiğine açıklık getiren hukuk kuralı çeşidi aşağıdakilerden hangisidir?**

A) Yorumlayıcı B) Tanımlayıcı
C) Tamamlayıcı D) Emredici
E) Sorun çözücü

3. I. İçtihadı birleştirme kararları
II. Örf ve adet hukuk kuralları
III. Bilimsel görüşler
IV. Cumhurbaşkanlığı kararnameleri

Yukarıda verilenlerden hangileri hukukun bağlayıcı kaynakları arasında yer almaz?

A) Yalnız I B) II ve IV C) Yalnız IV
D) Yalnız III E) I, II ve III

4. – Sadece yazılı kuralları ifade eder.
– Halen yürürlüktedir.
– Yetkili makamlar tarafından konulur.

Yukarıda özellikleri verilen hukuk türü aşağıdakilerden hangisidir?

A) Pozitif hukuk
B) Doğal hukuk
C) Uluslar arası hukuk
D) İdeal hukuk
E) Mevzu hukuk

5. I. Kusursuz imkansızlık
II. İbra
III. Haksız fiil
IV. İfa

Yukarıdakilerden hangileri borcun sona erme şekillerinden biri değildir?

A) Yalnız I B) Yalnız III C) I ve IV
D) II ve III E) I, II ve IV

6. **Karineler ile ilgili aşağıdaki ifadelerden hangisi yanlıştır?**

A) Birden fazla kişiden hangisinin önce veya sonra öldüğü ispat edilemez ise hepsi aynı anda ölmüş sayılır bu duruma birlikte ölüm karinesi denir.
B) Aksi ispat edilemeyen karinelere kesin karine denir.
C) Ölümüne kesin gözle bakılan bir durumda cesedine ulaşılamayan kişiler için ölüm karinesi düzenlenir.
D) Aksi ispat edilebilen karinelere adi karine denir.
E) Gaiplik karinesi kesin karine özelliğine sahiptir.

7. I. Gaiplik kararı ile gaibin evliliği kendiliğinden sona ermez eşi evliliğinin feshini mahkemeden talep eder.
II. Mirasçılar, gaibin mirasına geçici zilyet olurlar, ölüm tehlikesi içinde kaybolma için 5 yıl geçtikten sonra mirası kesin olarak kazanırlar.
III. Gaiplik karinesinin düzenlenmesi için kişinin ölüm tehlikesi içinde kaybolması durumunda bir yıl, uzun zamandan beri haber alınamaması durumunda beş yıl geçmelidir.

Gaiplik karinesiyle ilgili yukarıda verilenlerden hangileri doğrudur?

A) Yalnız I B) Yalnız II C) Yalnız III
D) I ve II E) I, II ve III

MURAT YAYINLARI

/muratyayincilik

8. – Kişinin kendisinin veya başkasının karşılaşacağı bir tehlikeyi üçüncü kişilerin malına zarar vererek önleme yoludur.
– Süregelen haksız saldırının orantılı ve ölçülü güç kullanılarak karşı saldırı ile önlenmesi yoludur.

Yukarıda verilen hakkın korunması yolları aşağıdakilerden hangisi ile ilişkilendirilebilir?

A) Meşru müdafaa – kuvvet kullanma
B) Kuvvet kullanma – zaruret hali
C) Iztırar hali – meşru müdafaa
D) Savunma hakkı – zorunluluk hali
E) Zorda kalma – kuvvet kullanma

9. **Türk vatandaşlığı ile ilgili aşağıdaki ifadelerden hangisi yanlıştır?**

A) Türk annenin çocuğu Türk'tür.
B) Türk babanın çocuğu Türk'tür.
C) Vatana bağlılıkla bağdaşmadıkça kimse vatandaşlıktan çıkarılamaz.
D) Vatandaşlıktan çıkarma meclis başkanı kararı ile olur.
E) Vatandaşlıktan çıkarılma ile ilgili karar ve işlemlere yargı yolu açıktır.

10. I. İl özel idaresi
II. Belediye idaresi
III. Dernek

Yukarıdakilerden hangisi kamu hukuku tüzel kişileri arasında yer alır?

A) Yalnız III B) I ve II C) I ve III
D) I, II ve III E) II ve III

11. I. Vakıf
II. Şirket
III. Kooperatif
IV. Köy idaresi

Yukarıda verilen tüzel kişilerden hangileri kişi topluluğu şeklinde meydana gelmiştir?

A) II, III ve IV B) Yalnız I C) I ve II
D) II ve IV E) Yalnız III

12. I. Velayet hakkı mahiyetine göre, mutlak haktır.
II. Velayet hakkı kullanılmalarının etkilerine göre alelade haktır.
III. Velayet hakkını elinde bulunduran velidir.

Velayet hakkı ile ilgili yukarıda verilenlerden hangileri doğrudur?

A) Yalnız I B) Yalnız II C) Yalnız III
D) I ve II E) I, II ve III

13. I. Her insanın hak ehliyeti vardır.
II. Medeni hakları kullanabilme ehliyetidir.
III. Tam ve sağ doğmak koşuluyla anne rahminden (cenin) itibaren başlar.
IV. Aktif bir ehliyettir.

Hak ehliyeti ile ilgili yukarıdakilerden hangileri yanlıştır?

A) Yalnız I B) I ve II C) II ve III
D) II ve IV E) I, II ve IV

14. I. Kullanıldıkları zaman hukuki durumda değişiklik yaratmayan haklara alelade hak denir.
II. Kullanılmasıyla mevcut hukuki durumu ortadan kaldıran haklara bozucu yenilik doğuran hak denir.
III. Sahibi tarafından kullanılmasıyla yeni bir hukuki durum yaratan hakka kurucu yenilik doğuran hak denir.

Kullanıldıkları takdirde yarattığı etkiye göre (amaçlarına göre) haklar ile ilgili yukarıda verilenlerden hangileri doğrudur?

A) Yalnız I B) Yalnız II C) Yalnız III
D) I ve III E) I, II ve III

MURAT YAYINLARI

15. I. Dilekçe hakkı
II. Vesayet hakkı
III. Telif hakkı
IV. Eğitim hakkı

Yukarıdakilerden hangileri kamu hakkıdır?

A) I ve IV B) II ve III C) I ve III
D) II ve IV E) III ve IV

16. **Aşağıdakilerden hangisi devredilemeyen haklardan biri değildir?**

A) Mülkiyet hakkı
B) Ergin kılınmayı talep hakkı
C) Boşanma davası açma hakkı
D) Soy bağının reddi hakkı
E) Nişanı bozma hakkı

17. I. Yerleşim yerinin zorunluluğu ilkesine göre, herkesin mutlaka bir yerleşim yeri bulunmalıdır.
II. Bir kişinin birden çok yerleşim yeri olamaz buna yerleşim yerinin tekliği ilkesi denir.
III. Yasal yerleşim yerine göre, velayet altında bulunan çocuğun yerleşim yeri, ana babasının; vesayet altındaki kişilerin yerleşim yeri, bağlı oldukları vesayet makamının bulunduğu yerdir.

Yerleşim yeri ile ilgili yukarıda verilenlerden hangileri doğrudur?

A) Yalnız I B) I, II ve III C) II ve III
D) Yalnız III E) Yalnız II

18. – Ayırt etme gücü olmayanların yaptığı sözleşmeler geçersizdir.
– Bir kimsenin sürekli kalma niyetiyle oturduğu yere yerleşim yeri denir.

Hukuk kurallarının çeşitleri dikkate alındığında yukarıda verilenler aşağıdakilerden hangisi ile ilişkilendirilebilir?

A) Yorumlayıcı-tanımlayıcı
B) Tanımlayıcı-tamamlayıcı
C) Emredici-yorumlayıcı
D) Yorumlayıcı-tamamlayıcı
E) Emredici-tanımlayıcı

19. **16 yaşındaki A ile 50 yaşındaki B aralarında satış sözleşmesi yapmışlardır. Bu sözleşme aşağıdaki yaptırım türlerinden hangisiyle geçersiz olur?**

A) Yokluk
B) Tek taraflı bağlamazlık
C) Mutlak butlan
D) İptal
E) Nispi butlan

20. I. Yapılan işlem hukukun emredici hükümlerine aykırıdır.
II. Mutlak butlanda işlemin geçersizliğini herkes ileri sürebilir.
III. Mutlak butlanda yapılmış bir işlem yapıldığı andan itibaren tümüyle geçersizdir.
IV. Mutlak butlanda yapılmış işlemin sakatlığı sonradan telafi edilemez.

Mutlak butlan ile ilgili yukarıda verilenlerden hangileri doğrudur?

A) I ve II B) III ve IV C) I, III ve IV
D) I, II, III ve IV E) II, III ve IV

MURAT YAYINLARI

Açıklamalar • TEST 2

1. **D** Velayet yetkisine sahip veli ile vesayet yetkisine sahip vasi kanuni temsilcidir. Varis miras hukukunda mirasçı olarak adlandırılır.

2. **A** Tarafların aksini kararlaştırabileceği sözleşmelerde anlaşılmayan ifadelere açıklık getiren hukuk kuralı çeşidine yorumlayıcı kurallar denir. Soruda belirtilen ilgili ay ifadesine açıklık getiren yorumlayıcı kurallardır.

3. **D** Hukukun bağlayıcı kaynakları yazılı ve yazısız kaynaklardır. Yardımcı kaynakların bağlayıcılığı bulunmaz. Bilimsel görüşler (doktrin – öğreti) ve yargı kararları (içtihatlar) yardımcı kaynak olduğu için bağlayıcı değildir. Örf ve adet hukuk kuralları yazısız kaynaktır. Anayasa, kanun, cumhurbaşkanlığı kararnameleri, milletlerarası anlaşmalar, yönetmelik, içtihatları birleştirme kararları yazılı kaynaklardır.

4. **E** Yetkili makamlar tarafından konulan, halen yürürlükte bulunan sadece yazılı kuralların tümüne mevzu hukuk denir.

5. **B** Haksız fiil borcun doğmasına sebep olan kaynaktır. İfa, ibra, takas, kusursuz imkansızlık, alacaklı ve borçlu sıfatının birleşmesi, yenileme borcun sona erme şekilleridir.

6. **E** Gaiplik karinesi adi karinedir. Adi karine, aksi ispat edilebilen karinedir. Birden fazla kişiden hangisinin önce veya sonra öldüğü ispat edilemez ise hepsi aynı anda ölmüş sayılır bu duruma birlikte ölüm karinesi denir. Birlikte ölüm karinesinde yer alanlar birbirlerinin mirasçısı olmaz. Aksi ispat edilemeyen karinelere kesin karine denir. Ölümüne kesin gözle bakılan bir durumda cesedine ulaşılamayan kişiler için ölüm karinesi düzenlenir.

7. **E** Gaiplik kararı ile gaibin evliliği kendiliğinden sona ermez eşi evliliğinin feshini mahkemeden talep eder. Mirasçılar, gaibin mirasına geçici zilyet olurlar, ölüm tehlikesi içinde kaybolma için 5 yıl geçtikten sonra mirası kesin olarak kazanırlar. Gaiplik karinesinin düzenlenmesi için kişinin ölüm tehlikesi içinde kaybolması durumunda bir yıl, uzun zamandan beri haber alınamaması durumunda beş yıl geçmelidir.

8. **C** Kişinin kendisinin veya başkasının karşılaşacağı bir tehlikeyi üçüncü kişilerin malına zarar vererek önleme yoluna ıztırar hali-zorda kalma-zaruret hali-zorunluluk hali denir.
Süregelen haksız saldırının orantılı ve ölçülü güç kullanılarak karşı saldırı ile önlenmesi yoluna meşru müdafaa-haklı savunma denir. Kişinin hakkını anlık saldırılara karşı bizzat kendisi tarafından kuvvet kullanılarak savunulmasına kuvvet kullanma-savunma hakkı denir.

9. **D** Vatandaşlıktan çıkarılma Cumhurbaşkanı kararı ile olur. Türk annenin çocuğu Türk'tür. Türk babanın çocuğu Türk'tür.Vatana bağlılıkla bağdaşmadıkça kimse vatandaşlıktan çıkarılamaz. Vatandaşlıktan çıkarılma ile ilgili karar ve işlemlere yargı yolu açıktır (Danıştay)

10. **B** Dernekler en az yedi kişinin herhangi bir merciden izin alınmaksızın kurduğu özel hukuk tüzel kişisidir. Dernekler kişi topluluğudur. İl özel idaresi ve belediye idaresi kamu hukuku tüzel kişileridir. İl özel idaresi ve belediye idaresi kişi topluluğudur.

MURAT YAYINLARI

11. **A** Şirket, kooperatif ve köy idaresi kişi topluluğu şeklinde meydana gelen tüzel kişilerdir. Vakıflar, mal topluluğu şeklinde meydana gelen tüzel kişilerdir.

12. **E** Ergin olmayan küçükler ile ergin olup kısıtlanmış olanlar üzerinde anne ve babaya tanınan hakka velayet hakkı denir. Velayet hakkı mahiyetine göre herkese karşı ileri sürülebildiği için mutlak haktır. Velayet hakkı sahibi tarafından kullanıldığında hukuki durumda değişiklik yaratmadığı için alelade haktır.

13. **D** Hak ehliyeti medeni haklardan yararlanma ehliyetidir. Medeni hakları kullanma ehliyeti fiil ehliyetidir. Hak ehliyeti aktif değil pasif bir ehliyettir. Çünkü kişinin hak ehliyeti için bir eylem ve iradesi yoktur. Fiil ehliyeti aktif bir ehliyettir. Hak ehliyeti, sağ doğmak şartıyla anne rahmine düşen cenin için de geçerlidir.

14. **E** Kullanıldıkları zaman hukuki durumda değişiklik yaratmayan haklara alelade hak denir. Velayet hakkı alelade bir haktır. Kullanılmasıyla mevcut hukuki durumu ortadan kaldıran haklara bozucu yenilik doğuran hak denir. Bir sözleşmenin fesih edilmesi bozucu yenilik doğuran haktır. Sahibi tarafından kullanılmasıyla yeni bir hukuki durum yaratan hakka kurucu yenilik doğuran hak denir. Bir sözleşmenin yapılması kurucu yenilik doğuran haktır.

15. **A** Kamu hakları 1982 Anayasası'nda düzenlenen temel hak ve hürriyetlerdir. Dilekçe hakkı ve eğitim hakkı kamu haklarındandır. Vesayet ve telif hakları ise özel haklardandır.

16. **A** Kullanılmalarına göre haklar devredilebilen ve devredilemeyen olmak üzere ikiye ayrılmaktadır. Mülkiyet hakkı sahibi tarafından başkasına devir yoluyla geçebilen haktır. Devredilemeyen haklar ise kişiye sıkı sıkıya bağlı olan haklardır. Ergin kılınmayı talep hakkı, boşanma davası açma hakkı, kişilik hakları, nişanı bozma hakkı, soy bağının reddi hakkı devredilemeyen haklardır.

17. **B** Yerleşim yerinin iki ilkesi bulunur bunlar, teklik ve zorunluluk ilkeleridir. Yerleşim yerinin tekliği ilkesi gereği herkesin ancak bir tek yerleşim yeri bulunabilir.Yasal yerleşim yerine göre, velayet altında bulunan çocuğun yerleşim yeri, ana babasının; vesayet altındaki kişilerin yerleşim yeri, bağlı oldukları vesayet makamının bulunduğu yerdir.

18. **E** Ayırt etme gücü olmayanların sözleşme yapmasının yasak kılınması ve geçersiz olması emredici niteliğe sahiptir. Tanımlayıcı hukuk kuralları, hukuki kavram ve kurumların tanımını yapar, yerleşim yerinin tanımı bu kural çeşidiyle ilişkilendirilir.

19. **B** Askıda hükümsüzlük ya da tek taraflı bağlamazlık: Sözleşmenin taraflarından birisinin sözleşme yapma ehliyetinin bulunmaması durumudur. Soruda verilen 16 yaşındaki A sınırlı ehliyetsiz olup satış sözleşmesi yapabilmesi yasal temsilcisinin rızasına bağlıdır. Bu rıza alınmadan yapılan bu işlem askıda hükümsüzdür.

20. **D** Mutlak butlanda yapılan işlem hukukun emredici hükümlerine aykırıdır. Mutlak butlanda işlemin geçersizliğini herkes ileri sürebilir.
Mutlak butlanda yapılmış bir işlem yapıldığı andan itibaren tümüyle geçersizdir. Mutlak butlanda yapılmış işlemin sakatlığı sonradan telafi edilemez.

MURAT YAYINLARI

7. I. Kural içi boşluklarda hükmün çerçevesi belirlenmiş fakat içeriğinin doldurulması hakime bırakılmıştır.
II. Kural içi boşlukta kanun koyucu bilinçli olarak adil bir çözüm bulunabilmesi için çözümü uygulamaya bırakmıştır.
III. Kural içi boşluk halinde hakim hukuk yaratma yoluna gidecektir.

Kural içi boşluk ile ilgili yukarıda verilenlerden hangileri yanlıştır?

A) Yalnız I B) Yalnız II C) Yalnız III
D) II ve III E) I ve II

8. I. Bağlayıcı değildir.
II. Kıyas yoluna başvurulabilir.
III. Hukuk boşluğunda kullanılır.

Hakimin hukuk yaratmasıyla ilgili yukarıdaki ifadelerden hangileri doğrudur?

A) Yalnız I B) Yalnız II C) Yalnız III
D) I ve III E) I, II ve III

9. – Somut bir olayı çözmek için hiçbir kanun hükmünün bulunmaması sonucu oluşur.
– Kanun koyucunun bilinçsizce bıraktığı bir boşluktur.

Yukarıda özellikleri verilen boşluk türleri aşağıdakilerden hangisinde doğru olarak verilmiştir?

A) Açık kanun boşluğu-Kural dışı boşluk
B) Kural içi boşluk-açık kanun boşluğu
C) Bilinçli boşluk-bilinçsiz boşluk
D) Kapalı boşluk-bilinçli boşluk
E) Kural içi boşluk-kapalı boşluk

10. I. Vergi hukuku
II. Medeni hukuk
III. Devletler hususi hukuku
IV. Yargılama hukuku

Yukarıdakilerden hangileri özel hukukun dalları arasında yer alır?

A) I ve II B) III ve IV C) II ve III
D) I ve III E) II ve IV

11. **Aşağıdakilerden hangisi borçlar hukukuna hakim olan ilkeler arasında yer almaz?**

A) Dürüstlük
B) Karşılıklılık
C) Üçüncü kişi aleyhine borç kurulabilmesi
D) Nispilik
E) Kusurlu sorumluluk

12. – Alacaklının sözleşme yoluyla borçluyu sorumluluktan kurtarmasıdır.
– Aynı cins karşılıklı muaccel borçların birbirini karşıladığı oranda az olan tutarının ödenmesiyle borcun sona ermesidir.

Borcun sona erme nedenleri dikkate alındığında yukarıda verilenler aşağıdakilerden hangisiyle ilişkilendirilebilir?

A) Yenileme-takas
B) İbra-yenileme
C) Sıfat birleşmesi-takas
D) İfa-yenileme
E) Takas-ibra

MURAT YAYINLARI

Temel Hukuk Bilgisi
• TEST 3

1. **Haksız fiil sonucu meydana gelen borcun edimi aşağıdakilerden hangisidir?**

A) Geçersizlik
B) Tazminat
C) Zilyet
D) İlliyet bağı
E) Ahde vefa

2. **Sözleşmenin konusunu görüşmek amacıyla yapılan irade beyanına ne ad verilir?**

A) Muaccel borç
B) İbra
C) İcap (öneri)
D) Gabin
E) İcaba davet

3. I. Akla uygun davranma yeteneğine ayırt etme gücü denir.
II. Olağan hallerde evlenme yaşı en az on yedi yaşın doldurulmasıdır.
III. Olağanüstü hallerde evlenme yaşı en az on beş yaşının doldurulmasıdır.
IV. Yargı kararıyla ergin kılınma erken ergenliğin bir yoludur.

Fiil ehliyetinin koşularıyla ilgili yukarıda verilenlerden hangileri doğrudur?

A) I ve III B) I, II ve IV
C) II, III ve IV D) II ve IV
E) II ve III

4. I. Medeni hakları kullanabilme ehliyetidir.
II. Pasif bir ehliyettir.
III. Kişi eylemleriyle lehine hak aleyhine borç yaratabilir.

Fiil ehliyeti ile ilgili yukarıda verilenlerden hangisi yanlıştır?

A) Yalnız I B) I ve II C) Yalnız III
D) Yalnız II E) I, II ve III

5. I. Gerçek kişilik tam ve sağ doğumla başlar.
II. Gerçek kişiliğin sona ermesi hukuki olay niteliği taşır.
III. Gerçek kişi tüm insanları ifade eder.

Gerçek kişilik ile ilgili yukarıda verilenlerden hangileri doğrudur?

A) Yalnız I B) Yalnız II C) Yalnız III
D) I ve III E) I, II ve III

6. – Bir kimsenin faaliyette bulunurken gerçek ismini gizlemek maksadıyla kendi kendisine takmış olduğu addır.
– Kişiye başkaları tarafından belirlenen tanıtım aracıdır.
– Gerçek kişileri veya şeyleri devlete bağlayan hukuki ve siyasi bağdır.

Yukarıda verilen hukuki kavramlar aşağıdakilerden hangisiyle ilişkilendirilebilir?

A) Vatandaş-karine-lakap
B) Uyrukluk-takma ad-lakap
C) Zilyet-karine-muvazaa
D) Butlan-lakap-vatandaş
E) İptal-ayni hak-takma ad

MURAT YAYINLARI

/muratyayincilik

13. I. Vadesi gelmiş borçtur.
II. Borç ilişkisinde sergilenen davranıştır.
III. Borcun yerine getirilmesidir.
IV. Sözleşmeye her koşulda sadık kalmak.

Aşağıdakilerden hangisi ile yukarıda verilenler arasında ilişkilendirme yapılamaz?

A) Kusursuz imkansızlık B) Muaccel borç
C) Ahde vefa D) Edim
E) İfa

14. **Aşağıdakilerden hangisi kişinin birinci dereceden yasal mirasçısıdır?**

A) Çocuk B) Anne
C) Büyük baba D) Kardeş
E) Yeğen

15. I. OHAL Cumhurbaşkanlığı kararnamesi
II. Yönetmelik
III. Anayasa
IV. Genelge

Yukarıda yer alan normların üstlük altlık ilişkisine göre sıralanışı aşağıdakilerin hangisinde doğru olarak verilmiştir?

A) IV - III - II - I B) III - I - II - IV
C) III - II - I - IV D) II - I - III - IV
E) I - II - III - IV

16. **Aşağıdakilerden hangisi kişilik hakları arasında yer alır?**

A) İrtifak hakkı B) Velayet hakkı
C) Haysiyet D) Telif hakkı
E) Sükna hakkı

17. – Evlenen kişilerin yakın derecede hısım olması
– Evlenme sırasında eşlerden birisinin geçici de olsa ayırt etme gücünün bulunmaması

Yukarıda verilen örnekler aşağıdaki geçersizlik türlerinden hangisiyle ilişkilendirilebilir?

A) Mutlak butlan-askıda geçersizlik
B) Nispi butlan-yokluk
C) Mutlak butlan-nispi butlan
D) Askıda geçersizlik-yokluk
E) Yokluk-mutlak butlan

18. **Miras hukukuna göre, miras bırakanın malvarlığına konu olan her şeye ne ad verilir?**

A) Tereke B) Muris
C) Varis D) İntikal
E) Veraset

19. **Ceza hukuku ile ilgili aşağıdaki ifadelerden hangisi doğru değildir?**

A) Kanunilik unsuru, suç ve cezaların yazılı olmasını ifade eder.
B) Suç ve cezalar geriye yürümez bu durumun istisnası kişinin lehine olan düzenlemelerdir.
C) Kişinin suç teşkil eden eylemi bilerek ve isteyerek gerçekleştirmesine taksir denir.
D) Suç teşkil eden hareketin yapılmasına maddi unsur gereği icra denir.
E) Kast, suçun manevi unsurudur.

20. **Vergi hukuku ile ilgili aşağıdaki ifadelerden hangisi yanlıştır?**

A) Katma değer vergisi nitelik itibariyle harcamalar üzerinden alınır.
B) Genellik ilkesi, vergi ödevine herkesin sahip olduğunu belirtmektedir.
C) Vergi hukuku kamu hukukunun bir dalıdır.
D) Vergi kanun veya cumhurbaşkanlığı kararnamesiyle konulur.
E) Herkesin gelirine göre vergi vermesi vergide adalet ilkesinin bir sonucudur.

MURAT YAYINLARI

Açıklamalar • TEST 3

1. **B** Hukuka aykırı zarar verici davranışlara haksız fiil denir. Haksız fiil sonucu meydana gelen maddi ya da manevi zararın edimi tazminattır. Haksız fiil hukuka aykırı olmalıdır. Haksız fiilde kusur kast ya da ihmaldir.

2. **E** Bir sözleşmenin meydana gelmesi için zaman bakımından önce yapılan beyana icap (öneri) denir. Örneğin bir malın fiyatı ile sergilenmesi icaptır. Bir sözleşmenin sadece konusunu görüşmek amacıyla yapılan beyana icaba davet denir. Sözleşmede zaman bakımından en son yapılan beyana kabul denir.

3. **B** Olağanüstü hallerde evlenme yaşı en az on beş yaşının doldurulması değil en az on altı yaşının doldurulmasıdır. Akla uygun davranma yeteneğine ayırt etme gücü denir. Olağan hallerde evlenme yaşı en az on yedi yaşın doldurulmasıdır. Yargı kararıyla ergin kılınma erken ergenliğin bir yoludur. Medeni Kanun'a göre, en az on beş yaşını dolduran küçük talebi ve menfaati doğrultusunda velisinin rızası ve mahkeme kararıyla ergin kılınabilir.

4. **D** Kişinin kendi eylemleriyle lehine hak aleyhine borç yaratabilme ehliyetine fiil ehliyeti denir. Fiil ehliyeti aktif bir ehliyettir. Fiil ehliyeti medeni hakları kullanabilme ehliyetidir.

5. **E** Gerçek kişi tüm insanları ifade eder. Tam ve sağ doğum gerçek kişiliğin başlangıcıdır. Ölüm, ölüm karinesi ve gaiplik karinesi gerçek kişiliğin sona ermesidir. Ölüm ve doğum hukuki olay niteliği taşır.

6. **B** Bir kimsenin faaliyette bulunurken gerçek ismini gizlemek maksadıyla kendi kendisine takmış olduğu ada takma ad denir. Kişiye başkaları tarafından belirlenen tanıtım aracına lakap denir. Gerçek kişileri veya şeyleri devlete bağlayan hukuki ve siyasi bağa uyrukluk (tabiiyet) denir.

7. **C** Kural içi boşluk hakimin takdir yetkisi ile doldurulur. Hakimin hukuk yaratması hukuk boşluğunun doldurulması için geçerlidir. Kural içi boşluk kanun koyucunun bilinçli olarak bıraktığı boşluk türüdür.

8. **E** Hakim somut bir olayı çözmek için önce yazılı kaynaklara bakar herhangi bir hüküm bulamazsa yazısız kaynaklara bakar burada da hüküm bulamazsa hukuk boşluğu meydana gelir. Boşluğu gidermek için kanun koyucu gibi hareket eder yani kendi hukukunu yaratır. Bu hukuku yaratırken kıyas yapabilir ya da orijinal bir hukuk yaratabilir. Yaratılan hukukun bağlayıcılığı yoktur.

9. **A** Somut bir olayı çözmek için hiçbir kanun hükmünün bulunmaması sonucu oluşan boşluğa açık-gerçek kanun boşluğu denir. Kanun koyucunun bilinçsizce bıraktığı bir boşluğa kural dışı boşluk denir.

10. **C** Medeni hukuk ve devletler hususi (özel) hukuku özel hukukun dalları arasında yer alırken, vergi hukuku ve yargılama hukuku ise kamu hukukunun dalları arasında yer almaktadır.

MURAT YAYINLARI

/muratyayincilik

11. C Borçlar hukukuna hakim olan ilkeler arasında üçüncü kişi aleyhine borç kurulması değil kurulamaması ilkesi yer almaktadır. Dürüstlük, sözleşme özgürlüğü, eşitlik, şekil serbestisi, nispilik, karşılıklılık (ivaz), borçlunun ikametgahında ifa ilkesi ve kusurlu sorumluluk diğer ilkeleridir.

12. E Alacaklının sözleşme yoluyla borçluyu sorumluluktan kurtarmasına ibra, aynı cins karşılıklı muaccel borçların birbirini karşıladığı oranda az olan tutarının ödenmesiyle borcun sona ermesine takas denir.

13. A Bir borcun doğmasının veya yerine getirilmesinin mümkün olmamasına kusursuz imkansızlık denir. Vadesi gelmiş borçlara muaccel borç denir. Edim, borç ilişkisinde sergilenen davranıştır. Bir borcun yerine getirilmesine ifa denir. Sözleşmeye her koşulda sadık kalmak ahde vefa olarak adlandırılır.

14. A Miras hukukuna göre, yasal mirasçıların derece sıralaması şöyledir. Birinci derece alt soy (çocuk), ikinci derece anne baba, üçüncü derece büyük anne ve baba, dördüncü derece devlettir.

15. B Normlar hiyerarşisinde sıralama şöyledir: Anayasa, Kanun-OHAL Cumhurbaşkanlığı Kararnamesi - Milletlerarası Anlaşmalar, Cumhurbaşkanlığı Kararnamesi, Yönetmelik, Genelge.

16. C Kişilik hakları konularına göre özel haklar arasında yer alır. Haysiyet, şeref, sırlar, resmimiz, ismimiz, vücut bütünlüğümüz kişilik haklarına örnek teşkil etmektedir.

17. C Evlenen kişilerin yakın derecede hısım olması yapılan evliliğin emredici kurallara aykırı olduğunu gösterir ve mutlak butlan ile geçersizdir. Evlilik sırasında eşlerden birinin geçici de olsa ayırt etme gücünün olmaması irade bozukluğunu gösterir ve işlem nispi butlan ile geçersizdir.

18. A Miras bırakana muris, mirasa konu olan her şeye tereke, mirasçılara da varis denir.

19. C Kişinin suç teşkil eden eylemi bilerek ve isteyerek gerçekleştirmesine taksir değil kast denir. Taksir suç teşkil eden hareketin istemeden, dikkatsizce yapılmış olma iradesidir.

20. D Vergide kanunilik ilkesi gereği vergi ancak kanun ile konulabilir ve kanun ile kaldırılabilir.

MURAT YAYINLARI

Anayasa ve Temel Haklar • TEST 1

1. **Siyasi partiler hakkında kapatma ya da hazine yardımından kısmen veya tamamen mahrum edilme kararını aşağıdakilerden hangisi verir?**

A) Yargıtay
B) Yargıtay Cumhuriyet Başsavcısı
C) Adalet Bakanlığı
D) Anayasa Mahkemesi
E) Yüksek Seçim Kurulu

2. **Temel hak ve hürriyetlerin sınırlandırılmasıyla ilgili aşağıdaki ifadelerden hangisi yanlıştır?**

A) Hak ve hürriyetler kanun ile sınırlandırılır.
B) Hak ve hürriyetlerin sınırlandırılmasında ölçülülük ilkesine uygun hareket edilir.
C) Genel sebeplere dayalı olarak sınırlandırma yapılır.
D) Hakkın özüne dokunmadan sınırlandırılma yapılır.
E) Anayasanın sözüne, ruhuna, demokratik toplum düzenin ve laik Cumhuriyetin niteliklerine uygun şekilde sınırlandırma yapılır.

3. **Seçmen olabilme koşulları ile ilgili aşağıdaki ifadelerden hangisi yanlıştır?**

A) Kısıtlı olmamak
B) Kasti suçtan hüküm giymemiş olmak
C) Seçmen kütüğüne kaydı bulunmak
D) Tutuklu olmamak
E) 18 yaşını doldurmuş olmak

4. **Aşağıdakilerden hangisi siyasi partilere üye olabilir?**

A) Hakim ve savcılar
B) İşçi niteliği taşımayan kamu görevlileri
C) Silahlı kuvvet mensupları
D) Sayıştay mensupları
E) Yükseköğretim elemanları

5. **Siyasi partiler, partiye üye olma yeterliliğine sahip en az kaç kişi tarafından kurulur?**

A) 30 B) 20 C) 10 D) 40 E) 60

6. I. Savaş, seferberlik ve olağanüstü hallerde uygulanır.
II. Ölçülülük ilkesine uygun hareket edilir.
III. Milletlerarası hukuktan doğan yükümlülükler ihlal edilmez.

Temel hak ve hürriyetlerin durdurulması ile ilgili yukarıda verilenlerden hangileri doğrudur?

A) Yalnız I B) Yalnız II C) Yalnız III
D) I ve III E) I, II ve III

7. **Aşağıdakilerden hangisi 1982 Anayasası'nın özellikleri arasında yer almaz?**

A) En sert ve kazuistik anayasadır.
B) Yürütme organı ve özellikle Cumhurbaşkanlığı makamı güçlendirilmiştir.
C) Tek yapılı bir meclis yapısı benimsenmiştir.
D) Az katılımcı bir demokrasi modeli (depolitizasyon) benimsenmiştir.
E) Milli devlet, demokratik devlet, sosyal devlet, insan haklarına dayalı devlet ve hukuk devlet ilkeleri ilk kez kabul edilmiştir.

MURAT YAYINLARI

/muratyayincilik

8. Türkiye'de genel oy ilkesi ilk kez hangi yılda yapılan seçimlerde uygulanmıştır?

A) 1923 B) 1931 C) 1935
D) 1946 E) 1961

9. Atatürk ilkeleri, anayasaya ne zaman girmiştir?

A) 1961 Anayasası
B) 1924 Anayasası'nda, 1937 yılında yapılan değişiklik ile
C) 1921 Anayasası'nda, 1923 yılında yapılan değişiklik ile
D) 1982 Anayasası
E) 1924 Anayasası'nda, 1946 yılında yapılan değişiklik ile

10. 1982 Anayasası'na göre aşağıdakilerden hangisi değiştirilemez maddeler arasında yer almaz?

A) Bayrağın rengi
B) İstiklal Marşı
C) Anayasal eşitlik
D) Sosyal devlet
E) Demokratik devlet

11. Aşağıdakilerden hangisi yapılacak seçimlerde oy kullanma hakkına sahiptir?

A) Astsubay olarak görevini yapan kişi
B) Cezaevinde bulunan kasti suç hükümlüsü
C) Er olarak askerde bulunan kişi
D) Erbaş olarak askerde bulunan kişi
E) Mahkeme kararı ile kısıtlanmış kişi

12. Bir anayasanın değiştirilmesi, kanunlar ile aynı kurallara tabi ise bu anayasaya ne ad verilir?

A) Tali anayasa
B) Yumuşak anayasa
C) Sert anayasa
D) Çerçeve anayasa
E) Kazuistik anayasa

13. Aşağıdakilerden hangisi katılma hakları arasında yer almaktadır?

A) Yaşama hakkı
B) Eğitim hakkı ve ödevi
C) Grev ve lokavt hakkı
D) Ailenin korunması ve çocuk hakları
E) Dilekçe hakkı

MURAT YAYINLARI

14. **1982 Anayasası'na göre Türkiye Cumhuriyeti, Atatürk milliyetçiliğine bağlı bir devlettir. Atatürk milliyetçiliği ile ilgili aşağıdakilerden hangisi yanlıştır?**

A) Atatürk'ün millet anlayışı, objektif millet anlayışını yansıtır.
B) Atatürk'ün millet anlayışı ırkçılığa karşıdır.
C) Atatürk'ün milliyetçiliği kültürel manevi öğelere dayalı bir millet anlayışını yansıtır.
D) Anayasanın, Atatürk milliyetçiliğini benimsemesi sonucu, Türk devletine vatandaşlık bağı ile bağlı olan herkes Türktür.
E) Atatürk'ün milliyetçilik anlayışı toplayıcı ve birleştiricidir.

15. **Aşağıdakilerden hangisi yapısına göre devlet şekillerinden biri değildir?**

A) Basit devlet
B) Federal devlet
C) Konfederal devlet
D) Bölgeli devlet
E) Teokratik devlet

16. **1982 Anayasası'na göre aşağıdakilerden hangisi sosyal devletin unsurları arasında yer almaz?**

A) Planlı ekonomi
B) Vergide adalet
C) Serbest seçim
D) Kamulaştırma
E) İstihdamı arttırmak

17. **Türkiye Cumhuriyeti'nde, çok partinin katıldığı ilk seçimler hangi tarihte yapılmıştır?**

A) 1935 B) 1946 C) 1950 D) 1961 E) 1973

18. **1982 Anayasası'na göre, aşağıdakilerden hangisi olağanüstü hal cumhurbaşkanlığı kararnamesiyle düzenlenemez?**

A) Masumiyet karinesi
B) Seçme ve seçilme hakkı
C) Eğitim hakkı ve ödevi
D) Özel hayatın gizliliği ve korunması
E) Dernek kurma hürriyeti

19. **1924 Anayasası ile ilgili aşağıdakilerden hangisi yanlıştır?**

A) Hükümet sisteminin, meclis hükümeti sistemine de, parlamenter sisteme de benzeyen tarafları vardır.
B) Sert bir anayasadır.
C) Çoğunlukçu demokrasi anlayışını benimsemiştir.
D) Laiklik ilkesine başlangıçtan itibaren yer vermemiştir. Bu hüküm anayasaya sonradan eklenmiştir.
E) Hem tek partili hem de çok partili sistemde uygulanmış, çok partili sisteme geçilirken değişiklik yapılmıştır.

20. **Aşağıdakilerden hangisi, 1982 Anayasası'nda sosyal ve ekonomik haklar ve ödevler arasında düzenlenmemiştir?**

A) Mülkiyet hakkı
B) Eğitim ve öğrenim hakkı ve ödevi
C) Toprak mülkiyeti
D) Çalışma hakkı ve ödevi
E) Sendika kurma hakkı

MURAT YAYINLARI

/muratyayincilik

Açıklamalar • TEST 1

1. **D** Anayasanın ilgili maddelerinde belirtilen yasakları ihlal eden bir siyasi parti hakkında kapatma davasını Yargıtay Cumhuriyet Başsavcısı açar. Dava Anayasa Mahkemesinde açılır. Anayasa Mahkemesi siyasi partiyi ya kapatma ya da hazine yardımından mahrum bırakılmasına karar verebilir.

2. **C** 1982 Anayasası'na göre, temel hak ve hürriyetlerin sınırlandırılmasında genel değil özel sebeplere bağlı kalınmaktadır. Genel sebeplere bağlılık 1961 Anayasası'nda 1971 yılı değişikliği ile kabul edilmişken özel sebeplere bağlılık ise 1982 Anayasası'nda 2001 yılında yapılan değişiklik ile kabul edilmiştir.

3. **D** Tutuklu olanların oy kullanma hakkı bulunmaktadır. Kısıtlı olmayanlar, kasti suç hükümlüsü olmayanlar, seçmen kütüğüne kaydı bulunanlar, en az 18 yaşını dolduranlar, Türkiye Cumhuriyeti vatandaşı olanlar, seçimlerde oy kullanma hakkına sahiptir.

4. **E** Yükseköğretim elemanları kanuni düzenleme gereği siyasi partilere üye olabilir. Hakim ve savcılar, Sayıştay ve yüksek yargı mensupları, işçi niteliği taşımayan kamu görevlileri(memur), silahlı kuvvet mensupları, yükseköğretim öncesi öğrencileri siyasi partilere üye olamaz.

5. **A** Siyasi partiler, partiye üye olma yeterliliğine sahip en az 30 kişi tarafından kurulur. Siyasi partilerin kurulması için herhangi bir merciden izin alınmaz. Siyasi partilerin genel merkezi Ankara'da bulunur.

6. **E** 1982 Anayasası'na göre, temel hak ve hürriyetlerin durdurulmasında herhangi bir norma (kanun-cumhurbaşkanlığı kararnamesi) ihtiyaç yoktur, şart değildir. Hak ve hürriyetlerin durdurulmasında sert çekirdekli haklar hariç tüm temel hak ve hürriyetler durdurulabilir. Durdurma uygulanırken, savaş, seferberlik ve olağanüstü hal durumları mevcut olmalı, ölçülülük ilkesine uygun hareket edilmeli ve milletlerarası hükümlere uygun hareket edilmelidir.

7. **E** Milli devlet, demokratik devlet, sosyal devlet, hukuk devleti, insan haklarına dayalı devlet ilkeleri ilk kez 1961 Anayasası'nda yer almıştır.

8. **C** 1934 yılında kadınlara TBMM seçimlerinde seçme ve seçilme hakkının verilmesi ile genel oy ilkesine geçilmiştir. Genel oy ilkesinin uygulandığı ilk seçimler ise 1935 yılında yapılan milletvekili seçimleridir.

9. **B** 1924 Anayasası'nda, 1937 yılında yapılan değişiklik ile Atatürk ilkeleri Anayasa'ya girmiştir. Dolayısıyla laiklik ilkesi de 1937 yılından itibaren anayasalarımıza girmiştir. 1921 Anayasası hiç laik değildir, 1924 Anayasası başlangıçta laik değil iken sonradan laik olmuştur. 1961 Anayasası ve 1982 Anayasası ise başından beri laik olan anayasalarımızdır.

10. **C** Anayasal eşitlik Anayasa'nın değiştirilemez maddelerinden değildir. 1982 Anayasası'nın ilk üç maddesi değiştirilemez. Madde1: Türkiye Devleti bir cumhuriyettir. Madde2: Türkiye Cumhuriyeti; İnsan haklarına saygılı, Atatürk milliyetçiliğine bağlı, demokratik, laik, sosyal ve hukuk devletidir. Madde3: Türkiye devleti, ülkesi ve milleti ile bölünmez bir bütündür, dili Türkçedir; bayrağı, beyaz ay yıldızlı al bayraktır; marşı, istiklal marşıdır; başkenti, Ankara'dır.

MURAT YAYINLARI

11. **A** Kısıtlılar, kasti suçtan hüküm giyenler, silah altındaki er ve erbaşlar, 18 yaşını doldurmayanlar, seçmen sandık kütüğüne kaydı olmayanların seçimlerde oy kullanma hakkı yoktur. Astsubay, subay ve uzman çavuşların ise seçimlerde oy kullanma hakkı bulunmaktadır.

12. **B** Bir anayasa kanunlar ile aynı kurallara bağlı kalınarak yani kolaylıkla değiştiriliyor ise buna yumuşak anayasa denir. Tarihimizin ilk ve tek yumuşak anayasası 1921 Anayasası'dır. (Teşkilat-ı Esasiye) Bir anayasanın değiştirilmesi kanunlardan daha zor kurallara dayanıyor ise buna sert anayasa denmektedir. 1921 Anayasası dışındaki tüm anayasalarımız sert anayasadır. En sert anayasa ise 1982 Anayasası'dır.

13. **E** Katılma hakları, aktif statülü ya da siyasi hak ve ödevler arasında dilekçe hakkını gösterebiliriz. Yaşama hakkı, kişinin hak ve özgürlüklerinde, eğitim hakkı ve ödevi, grev ve lokavt hakkı, ailenin korunması ve çocuk hakları ise ekonomik ve sosyal haklar arasında yer almaktadır.

14. **A** Atatürk'ün millet anlayışı objektif millet anlayışını yansıtmaz. Atatürk milletin tanımında ırk, dil, din v.b objektif öğelere değil; manevi ve kültürel öğelere subjektif unsurlara dayanmıştır. Atatürk'ün millet anlayışı Subjektif millet anlayışını benimser.

15. **E** Teokratik devlet, din kurallarının egemenliğine dayalı devlet şeklidir. Yapısına göre devlet şekilleri ise basit, birleşik, bölgeli, federal ve konfederal devletlerdir.

16. **C** Serbest seçim ilkesi, demokratik devletin unsurudur. Planlı ekonomi politikaları, vergide adaletin sağlanması, kamulaştırma politikası ve işsizliği önlemek ve istihdamı arttırmak sosyal devletin unsurları arasında yer almaktadır.

17. **B** Çok partili siyasi hayata 1946 yılında geçilmiş ve birden çok siyasi parti ilk kez 1946 seçimlerinde yarışmıştır.

18. **A** 1982 Anayasası'na göre, olağanüstü hal cumhurbaşkanlığı kararnameleriyle sert çekirdekli haklar hariç (din ve vicdan hürriyeti, düşünceyi açıklama hürriyeti, suç ve cezaların geriye yürütülemezliği, yaşama ve maddi-manevi bütünlüğün korunması, masumiyet karinesi) tüm temel hak ve hürriyetlerde düzenleme yapılabilir.

19. **E** 1924 Anayasası hükümet sistemi olarak meclis hükümeti ile parlamenter sistemin karması bir sistem kurmuştur. Anayasa hükümlerinin değiştirilmesi için TBMM üye tam sayısının üçte ikisinin çoğunluğu gerekir. Sert Anayasa sistemi, demokrasi anlayışı olarak çoğunlukçu demokrasi anlayışını yansıtır. TBMM'yi egemenliği kullanan tek organ olarak düzenlemiştir. 1924 Anayasası'nda laiklik 1937 yılında yer almıştır. (Hatta 1928'e kadar devletin dini olduğu hükmü Anayasada mevcuttur.) Dolayısıyla ilk dört seçenekte belirtilenler doğrudur. 1924 Anayasası, 1924 – 1946 arası tek partili 1946 – 1960 arası çok partili sistemde uygulanmış ama 1946'da çok partili sisteme geçilirken anayasada herhangi bir değişiklik yapılmamıştır.

20. **A** Mülkiyet hakkı 1982 Anayasası'nda kişinin hakları ve ödevleri arasında düzenlenmiştir.

MURAT YAYINLARI

/muratyayincilik

Anayasa ve Temel Haklar • TEST 2

1. 1982 Anayasası'na göre aşağıdakilerden hangisi savaş, seferberlik ve olağanüstü hallerde durdurulamayacak haklar arasında gösterilebilir?

A) Toplantı ve gösteri yürüyüşü düzenleme hakkı
B) Kişi hürriyeti ve güvenliği
C) Dernek kurma hürriyeti
D) Zorla çalıştırma yasağı
E) Din ve vicdan hürriyeti

2. Aşağıdakilerden hangisi hukuk devletinin gereklerinden biridir?

A) İdarenin her türlü eylem ve işleminin yargı denetimine tabi olması
B) Anayasanın değiştirilmez nitelikte hükümlerinin olması
C) Yürütme organının Cumhurbaşkanı'ndan oluşması
D) Yürütme organının işlemlerinin denetimi için ayrı mahkemeler kurulması
E) Herkese insan haysiyetine yaraşır asgari hayat standardı sağlanması

3. Aşağıdakilerden hangisi 1961 Anayasası'nın 1971 yılı değişiklikleri arasında yer almaz?

A) Bakanlar Kuruluna kanun hükmünde kararname çıkarma yetkisinin verilmesi
B) Üniversitelerin özerkliğinin azaltılması
C) Askeri yüksek idare mahkemesinin kurulması
D) Anayasa Mahkemesinin kurulması
E) TRT'nin özerkliğinin kaldırılması

4. Aşağıdaki ülkelerden hangisi başkanlık sistemi ile yönetilmektedir?

A) Almanya B) Fransa
C) Yunanistan D) ABD
E) İngiltere

5. Aşağıdakilerden hangisi masumiyet karinesini doğru şekilde ifade etmektedir?

A) Herkes kanunen tabi olduğu mahkemede yargılanma hakkına sahiptir.
B) Suçluluğu hükmen sabit oluncaya kadar kimse suçlu ilan edilemez.
C) Kanuna aykırı elde edilen bulgular mahkemede delil olarak kullanılamaz.
D) Suç ve cezalar geçmişe yürütülemez.
E) Ölüm ve genel müsadere cezası verilemez.

6. 1982 Anayasası'na göre, aşağıdakilerden hangisi olağan dönem cumhurbaşkanlığı kararnameleriyle düzenlenemez?

A) Grev ve lokavt hakkı
B) Kamulaştırma
C) Bilgi edinme hakkı
D) Sanatın ve sanatçının korunması
E) Ailenin korunması ve çocuk hakları

MURAT YAYINLARI

7. **Parlamenter hükümet sistemi ile ilgili aşağıda yer alan ifadelerden hangisi yanlıştır?**

A) Yürütme yasamadan kaynaklanır ve bir kanadı hariç yasamaya karşı sorumludur.
B) Yasama yürütmeyi yürütme de yasamayı fesih edebilir.
C) Kuvvetler arasında kesin ve sert bir ayrılık söz konusudur.
D) Aynı kişi hem yasamada hem de yürütmede görev yapabilir.
E) Yürütmenin yasama ile ilgili görevleri vardır.

8. **Aşağıdakilerden hangisi 1921 Anayasası'nın 1923 yılı değişiklikleri arasında yer almaz?**

A) Türkiye Devleti bir cumhuriyettir.
B) Türkiye Devleti'nin dini İslam'dır.
C) Türkiye Devleti'nin resmi dili Türkçedir.
D) Cumhurbaşkanı meclis içinden seçilir.
E) Marşı İstiklal Marşı'dır.

9. **Aşağıdakilerden hangisi demokratik devletin ilkeleri arasında yer alır?**

A) Ulusal gelirin arttırılması
B) Fırsat eşitliğinin sağlanması
C) Seçimlerin belli aralıklarla tekrarlanması
D) Yargı bağımsızlığı
E) Anayasanın üstünlüğü

10. I. Diyanet İşleri Başkanlığı genel idare içinde düzenlenmiştir.
II. Sosyal, demokratik, hukuk devleti ilkelerine yer vermiştir.
III. İşçi ve kamu görevlilerine sendikal haklar tanımıştır.

Yukarıda verilenlerden hangileri ilk kez 1961 Anayasası'nda düzenlenmiştir?

A) Yalnız I B) Yalnız II C) Yalnız III
D) I ve II E) I, II ve III

11. **1921 Anayasası ile ilgili aşağıdaki ifadelerden hangisi doğru değildir?**

A) Milli egemenlik ilkesini benimsemiştir.
B) Tek dereceli seçim sistemini düzenleyen bir anayasadır.
C) Yargı organından söz etmeyen bir anayasadır.
D) Hak ve hürriyetler ile ilgili herhangi bir hükme yer vermeyen bir anayasadır.
E) Anayasalarımız içinde tek yumuşak ve tek çerçeve anayasadır.

12. **Milletvekili genel seçimlerinde bir siyasi partinin TBMM'ye girebilmesi ve devlet yardımı alabilmesi için aşması gereken baraj oranları aşağıdakilerden hangisinde doğru olarak verilmiştir?**

A) %7-%3 B) %10-%1 C) %10-%3
D) %5-%3 E) %4-%7

MURAT YAYINLARI

/muratyayincilik

13. Siyasi partilerin mali denetimini gerçekleştirme yetkisi aşağıdakilerden hangisine aittir?

A) Yargıtay
B) Danıştay
C) Sayıştay
D) Anayasa Mahkemesi
E) TBMM

14. Anayasa Mahkemesi tarafından kapatılan siyasi partilerin kapatılmasına sebep olan mensupları ne kadar süreliğine siyasi yasaklı olur?

A) 5 yıl B) 4 yıl C) 10 yıl
D) 1 yıl E) 3 yıl

15. I. Sened-i İttifak
II. Kanunu Esasi
III. Tanzimat Fermanı

Yukarıdakilerden hangileri Anayasa olarak nitelendirilmez?

A) Yalnız I B) Yalnız II C) Yalnız III
D) I ve III E) I, II ve III

16. Ülkemizde yapılan seçimler savaş sebebiyle ne kadar süre için ertelenebilir?

A) 3 yıl B) 10 yıl C) 6 ay
D) 4 yıl E) 1 yıl

17. Bir siyasi parti hakkında kapatma davasını açma yetkisi aşağıdakilerden hangisine aittir?

A) Anayasa Mahkemesi Başkanı
B) Yargıtay Cumhuriyet Başsavcısı
C) Yargıtay Başkanı
D) Cumhurbaşkanı
E) TBMM Başkanı

18. Seçim sisteminde değişiklik kanun ile olur, bu değişiklik üzerinden ne kadar süre geçmedikçe yapılacak seçimlerde uygulanamaz?

A) 1 yıl B) 3 yıl C) 5 ay
D) 3 ay E) 2 ay

19. Seçimlerin özgür bir ortamda yapılmasını ifade eden seçim ilkesi aşağıdakilerden hangisidir?

A) Genel oy
B) Tek dereceli seçim
C) Gizli oy
D) Açık sayım
E) Serbest seçim

20. Aşağıdaki düzenlemelerin hangisi ile "Devletin Dini İslam"dır ibaresi Anayasadan çıkarılmıştır?

A) 1924 Anayasası'nda 1928 yılı değişikliği
B) 1921 Anayasası'nın ilk hali
C) 1921 Anayasası'nda 1923 yılı değişikliği
D) 1924 Anayasası'nda 1937 yılı değişikliği
E) 1961 Anayasası'nın ilk hali

MURAT YAYINLARI

Açıklamalar • TEST 2

1. **E** 1982 Anayasası'na göre savaş, seferberlik ve olağanüstü hallerde durdurulamayacak haklar sert çekirdek haklardır. Din ve vicdan hürriyeti, yaşama hakkı, maddi ve manevi bütünlüğün korunması hakkı, suç ve cezaların geriye yürümezliği, masumiyet karinesi, düşünce ve kanaat hürriyeti sert çekirdek haklardır.

2. **A** Hukuk devleti, yönetimi hukuk kuralları ile bağlı olan devlettir. Hukuk devletinin bazı şartları; yasama ve yürütme işlemlerinin yargı denetiminin olması, yargının bağımsız olması, kuvvetler ayrılığı, kanun hakim güvencesi, hukukun genel ilkelerine bağlılık, eşitlik, anayasanın üstünlüğü vb. dir. Herkese asgari hayat standartı sağlamak sosyal devletle ilgilidir. Hukuk devletinde yürütme işlemlerinin denetimi için ayrı mahkemeler kurulsa da, kurulmasa da fark etmez, önemli olan bu denetimin bağımsız yargı tarafından yapılmasıdır.

3. **D** Anayasa Mahkemesi'nin kurulması 1971 yılı değişikliklerinden değildir. Anayasa Mahkemesi 1961 Anayasası ile kurulmuştur. 1971 yılı değişiklikleri şunlardır: Bakanlar kuruluna KHK çıkarma yetkisi verildi. Üniversitelerin özerkliği azaltıldı, TRT'nin özerkliği kaldırıldı. Devlet memurlarının sendika kurma hakları elinden alındı. Askeri Yüksek İdare Mahkemesi kuruldu. Temel hak ve özgürlüklerin sınırlandırılmasında genel sınırlandırma sebepleri kabul edildi.

4. **D** Almanya, İngiltere, Yunanistan parlamenter hükümet sistemi ile Fransa yarı başkanlık sistemi ile ABD ise başkanlık sistemi ile yönetilmektedir. Parlamenter ve yarı başkanlık sistemlerinde devletin organları yumuşak ayrılırken başkanlık sisteminde ise sert ayrılmaktadır.

5. **B** Suçluluğu mahkeme kararı ile hükmen sabit oluncaya kadar kimsenin suçlu ilan edilememesine masumiyet- suçsuzluk karinesi denir.

6. **C** 1982 Anayasası'na göre, olağan dönem cumhurbaşkanlığı kararnameleriyle sosyal ve ekonomik haklar hariç diğer temel hak ve hürriyetlerde düzenleme yapılamaz. Bilgi edinme hakkı siyasi hak ve ödevler başlığında yer aldığı için düzenleme yapılamaz.

7. **C** Ülkemizde ilk kez 1961 Anayasası ile uygulamaya geçen parlamenter hükümet sistemlerinde kuvvetler yumuşak ayrılır, sert ayrılık başkanlık sisteminin özelliğidir.

8. **E** 1921 Anayasası'nın 1923 yılı değişiklikleri arasında İstiklal Marşı yer almaz. İstiklal Marşı anayasaya 1982 Anayasası ile girmiştir. 1921 Anayasası'nın 1923 yılı değişiklikleri şunlardır: Türkiye Devleti bir cumhuriyettir, Türkiye Devleti'nin dini İslam'dır, Türkiye Devleti'nin resmi dili Türkçedir, Cumhurbaşkanı meclis içinden seçilir, Başbakan meclis içinden Cumhurbaşkanı tarafından seçilir.

9. **C** 1982 Anayasası'na göre demokratik devletin ilkeleri arasında belli aralıklarla tekrarlanan seçimler, egemenliğin millet adına kullanılması, siyasi partilerin rekabet içinde olması, temel hak ve özgürlüklerin güvence altına alınması, seçim ilkeleri yer almaktadır. Ulusal gelirin arttırılması ve fırsat eşitliğinin sağlanması sosyal devletin; yargı bağımsızlığı ve anayasanın üstünlüğü hukuk devletinin ilkeleridir.

10. **E** Diyanet İşleri Başkanlığı ilk kez 1961 Anayasası'nda düzenlenerek genel idare içinde yer almıştır. Sosyal devlet, demokratik devlet ve hukuk devleti ilkelerine yer veren ilk anayasa 1961'dir. 1961 Anayasası, işçi ve kamu görevlilerine sendikal haklar tanımıştır. İşçilere grev ve toplu sözleşme hakkı verilmiştir.

MURAT YAYINLARI

/muratyayincilik

11. **B** 1921 Anayasası, tek değil çift dereceli seçim sistemini benimseyen bir anayasadır. Çift dereceli seçim sistemine göre, halk temsilcilerini seçer bu temsilciler halk adına milletvekillerini seçer. Tek dereceli seçim sistemine 1924 Anayasası'nda 1946 yılı değişikliği ile geçilmiştir. Tek dereceli seçim sistemine göre, halk temsilcilerini doğrudan seçer ve meclise gönderir.

12. **C** Milletvekili genel seçimlerinde bir siyasi partinin TBMM'ye girebilmesi için yüzde on, devlet yardımı alabilmesi için yüzde üç barajını aşması gerekir.

13. **D** Siyasi partilerin mali denetimini Anayasa Mahkemesi yapar. Bu denetim konusunda Anayasa Mahkemesi Sayıştay'dan yardım alabilir.

14. **A** Siyasi partilerin kapatılmasıyla ilgili karar Anayasa Mahkemesince verilir. Partilerin kapatılmasına sebep olan mensupları 5 yıl siyasi yasaklı olur. Milletvekili iseler TBMM üyelikleri sona ermez fakat 5 yıl boyunca herhangi bir gruba veya partiye mensup olamazlar.

15. **D** Sened-İttifak ile Tanzimat Fermanı anayasa değildir, anayasal gelişmedir, belgedir, harekettir. Tarihimizin ilk anayasası 1876 Kanunu Esasi'dir.

16. **E** Ülkemizde yapılan seçimler sadece savaş sebebiyle 1 yıl ertelenebilir. Savaşın sona ermemesi durumunda erteleme devam eder.

17. **B** Bir siyasi parti hakkında kapatma davasını re'sen (kendiliğinden) açma yetkisi Yargıtay Cumhuriyet Başsavcısına aittir. Adalet Bakanı ya da herhangi bir siyasi parti Başsavcıdan dolaylı olarak dava açması yönünde talepte bulunabilir. Dava Anayasa Mahkemesine açılır.

18. **A** Seçim sisteminde değişiklik kanun ile olur, bu değişiklik üzerinden 1 yıl geçmeden yapılacak seçimlerde uygulanamaz.

19. **E** Seçimlerin herhangi bir baskı ortamı olmaksızın özgür bir ortamda yapılmasını sağlayan seçim ilkesine serbest seçim denir. Seçimlerde herkesin oy hakkının bulunmasına genel oy, seçmenlerin temsilcilerini doğrudan seçmesine tek dereceli seçim, seçmenin özgür iradesiyle oy kullanabilmesini sağlayan ilkeye gizli oy, oyların şeffaf bir şekilde sayılmasına açık sayım ilkesi denir.

20. **A** "Devletin Dini İslam"dır ibaresi ilk kez 1921 Anayasası'nda 1923 yılı değişikliği ile anayasaya girmiştir. Bu ibare 1924 Anayasası'nda 1928 yılı değişikliği ile anayasadan çıkarılmıştır. 1921 Anayasası hiç laik değildir, 1924 Anayasası başlangıcında laik değil sonradan laik olmuştur. Başından sonuna laik olan anayasalarımız 1961 ve 1982 Anayasaları'dır.

MURAT YAYINLARI

Yasama
• TEST 1

1. **TBMM'deki 600 milletvekili aşağıdakilerden hangisini ifade eder?**

A) Toplantı yeter sayısı
B) Karar yeter sayısı
C) Üye tam sayısı
D) Üye tam sayısının salt çoğunluğu
E) Üye tam sayısının üçte ikisi

2. **1982 Anayasası'na göre, aşağıdakilerden hangisi TBMM'nin görev ve yetkilerinden biri değildir?**

A) Kanun yapmak, kaldırmak
B) Bütçe ve kesin hesap kanun tekliflerini görüşmek ve kabul etmek
C) Para basılmasına karar vermek
D) Genel ve özel af ilanına karar vermek
E) Anayasa Mahkemesi başkanını seçmek

3. **1982 Anayasası'na göre TBMM en fazla kaç ay tatil yapar?**

A) 1 B) 2 C) 3 D) 4 E) 5

4. **1982 Anayasası'na göre, TBMM başkanlık divanı seçimleri her yasama döneminde iki defa yapılır. İlk seçilen divanın görev süresi aşağıdakilerden hangisinde doğru olarak verilmiştir?**

A) 1 yıl B) 2 yıl C) 6 ay
D) 3 yıl E) 4 yıl

5. I. TBMM ve cumhurbaşkanı 5 yıl için seçilir.
II. TBMM ve cumhurbaşkanı seçimleri birlikte aynı gün yapılır.
III. Aynı kişi hem milletvekilliğine hem de cumhurbaşkanlığına aday olamaz ve aday gösterilemez.

1982 Anayasası'na göre, TBMM ve cumhurbaşkanlığı seçim dönemiyle ilgili yukarıda verilenlerden hangileri doğrudur?

A) Yalnız I B) Yalnız II C) Yalnız III
D) I ve II E) I, II ve III

6. **1982 Anayasası'na göre, Kamu Başdenetçisini seçme yetkisi aşağıdakilerden hangisine aittir?**

A) Cumhurbaşkanı
B) Sayıştay
C) Anayasa Mahkemesi
D) Türkiye Büyük Millet Meclisi
E) En yaşlı cumhurbaşkanı yardımcısı

7. **TBMM tarafından kabul edilen kanunlar ne kadar sürede kim tarafından Resmi Gazete'de yayımlanır?**

A) Cumhurbaşkanı-15 gün
B) TBMM Başkanı-45 gün
C) Cumhurbaşkanı-45 gün
D) Anayasa Mahkemesi-15 gün
E) TBMM Başkanı-30 gün

MURAT YAYINLARI

/muratyayincilik

8. **1982 Anayasası'na göre, cumhurbaşkanı tarafından bir daha görüşülmek üzere geri gönderilen kanunu TBMM en az hangi çoğunlukla aynen kabul ederse, cumhurbaşkanı bu kanunu yayımlamak zorundadır?**

A) TBMM üye tam sayısının üçte biri
B) TBMM üye tam sayısının salt çoğunluğu
C) TBMM üye tam sayısının beşte üçü
D) TBMM üye tam sayısının dörtte üçü
E) TBMM üye tam sayısının üçte ikisi

9. I. TBMM tarafından basit çoğunlukla kaldırılır.
II. Milletvekilleri, cumhurbaşkanı yardımcıları, bakanları görevleriyle ilgili olmayan suçlara karşı koruyucudur.
III. Her suç için ayrı ayrı kaldırılır.
IV. Dokunulmazlığı kaldırılan milletvekilinin TBMM üyeliği sona erer.

1982 Anayasası'na göre, yasama dokunulmazlığıyla ilgili yukarıda verilenlerden hangileri doğrudur?

A) I ve II B) III ve IV C) I, II ve III
D) II, III ve IV E) I ve IV

10. **Milletvekillerinin TBMM'deki söz ve düşünce hürriyetlerini ifade eden kavram aşağıdakilerden hangisidir?**

A) Yasama Dokunulmazlığı
B) Yasama Sorumsuzluğu
C) Yazılı Soru Önergesi
D) Meclis Araştırması
E) Genel Görüşme

11. **1982 Anayasası'na göre, TBMM Başkanının ikinci tur oylamada seçilebilmesi için en az kaç milletvekilinin oyu gerekmektedir?**

A) 400 B) 360 C) 301
D) 200 E) 151

12. **1982 Anayasası'na göre milletvekili olabilmek için kaç yaşın doldurulmuş olması gerekmektedir?**

A) 18 B) 26 C) 30 D) 35 E) 40

13. **1982 Anayasası'na göre milletvekilleri kimi temsil etmektedir?**

A) Tüm milleti
B) Seçildiği ili
C) Seçildiği yöreyi
D) Seçildiği bölgeyi
E) Seçildiği ilçeyi

14. I. TBMM Başkanı
II. Cumhurbaşkanı
III. En az 120 milletvekili istemi üzerine Cumhurbaşkanı

1982 Anayasası'na göre, yukarıdakilerden hangileri TBMM'yi olağanüstü toplantıya çağırma yetkisine sahiptir?

A) Yalnız I B) Yalnız III C) I ve II
D) I ve III E) I, II ve III

MURAT YAYINLARI

15. **1982 Anayasası'na göre, aşağıdakilerden hangisi TBMM'nin bilgi edinme ve denetim yolları arasında yer almaz?**

A) Yazılı soru
B) Genel görüşme
C) Meclis araştırması
D) Meclis soruşturması
E) Kapalı oturum

16. I. Meclis araştırması
II. Meclis soruşturması
III. Genel görüşme

1982 Anayasası'na göre, yukarıdakilerden hangileri cumhurbaşkanı yardımcıları ve bakanlar hakkında görevleriyle ilgili suç işledikleri iddiasıyla işletilen bilgi edinme ve denetim yoludur?

A) Yalnız I B) Yalnız II C) Yalnız III
D) I ve II E) I, II ve III

17. **Aşağıdakilerden hangisinin TBMM başkanlık divanında üyeliği bulunmamaktadır?**

A) TBMM Başkanı
B) TBMM başkan vekilleri
C) Katip üyeler
D) İdari amirler
E) Bakan

18. **Aşağıdaki kanunlardan hangisine yargı yolu kapalıdır?**

A) İnkılap kanunu
B) Vergi kanunu
C) Ceza kanunu
D) Bütçe kanunu
E) Eğitim kanunu

19. **Cumhurbaşkanınca TBMM'ye geri gönderilemeyen tek kanun aşağıdakilerden hangisidir?**

A) Ticaret kanunu
B) Bütçe kanunu
C) Vergi kanunu
D) Ceza kanunu
E) Anayasa değişikliği kanunu

20. **1982 Anayasası'na göre savaş ilanına ve TSK'nin kullanımına karar veren aşağıdakilerden hangisidir?**

A) TBMM
B) Cumhurbaşkanı yardımcıları
C) Genelkurmay Başkanı
D) Milli Savunma Bakanı
E) Milli Güvenlik Kurulu

MURAT YAYINLARI

/muratyayincilik

Açıklamalar • TEST 1

1. **C** 1982 Anayasası'na göre TBMM 600 milletvekilinden meydana gelir. Bu sayı Meclis üye tam sayısını ifade etmektedir. Toplantı yeter sayısı 200, karar yeter sayısı en az 151, üye tam sayısının salt çoğunluğu 301, üye tam sayısının üçte ikisi 400 milletvekilini ifade eder.

2. **E** TBMM'nin Anayasa Mahkemesini seçmek gibi bir görevi bulunmamaktadır. 1982 Anayasası'na göre, TBMM kanun koyucudur, bütçe ve kesin hesap kanun tekliflerini görüşür ve kabul eder, para basılmasına karar verir, genel ve özel af ilanına karar verir.

3. **C** 1982 Anayasası'na göre TBMM bir yasama yılında en fazla 3 ay tatil yapabilir.

4. **B** 1982 Anayasası'na göre, TBMM başkanlık divanı seçimleri her yasama döneminde iki defa yapılır. 2010 Anayasa değişikliğine ilk seçilen divan iki yıl ikinci seçilen divan ise o yasama döneminin sonuna kadar görev yapar.

5. **E** 1982 Anayasası'na göre, TBMM ve cumhurbaşkanı seçimleri 5 yılda bir birlikte yapılır. Aynı kişi hem milletvekilliğine hem de cumhurbaşkanlığına aday olamaz ve aday gösterilemez.

6. **D** 1982 Anayasası'na göre, Kamu denetçiliği kurumu 2010 Anayasa değişikliği ile TBMM'ye bağlı olarak kurulmuştur. Kurumun başdenetçisini TBMM genel kurulu seçer. Seçim gizli oylama usulü ile yapılır ve dört turludur. Birinci ve ikinci turda en az 400, üçüncü turda 301 milletvekilinin oyunu almak gerekir. Seçim dördüncü tura kalırsa üçüncü turda en çok oy alan iki adayın katılacağı bir seçim yapılır ve geçerli oyların çoğunu alan aday seçilmiş olur. Kamu Başdenetçisi dört yıl görev yapar.

7. **A** 1982 Anayasası'na göre, TBMM tarafından kabul edilen kanunları Resmi Gazete'de yayımlama yetkisi cumhurbaşkanına aittir. Cumhurbaşkanı kanunları 15 gün içinde Resmi Gazete'de yayımlar.

8. **B** 1982 Anayasası'na göre, TBMM'ye geri gönderilen kanunu genel kurul üye tam sayısının salt çoğunluğu (301 mv.) aynen kabul ederse, cumhurbaşkanı bu kanunu Resmi Gazete'de yayımlamak zorundadır.

9. **C** Dokunulmazlığı kaldırılan milletvekilinin TBMM üyeliği sona ermez. Yargılanma sonucunda seçilmeye engel suçtan kesin hüküm giyerse mahkeme kararının TBMM genel kuruluna bildirilmesiyle TBMM üyeliği düşer. Yasama dokunulmazlığından milletvekilleri, cumhurbaşkanı yardımcıları ve bakanlar yararlanır. Dokunulmazlık, TBMM genel kurulunda basit çoğunlukla kaldırılır yani özel bir çoğunluk ön görülmemiştir. Yasama dokunulmazlığı her suç iddiası için ayrı ayrı kaldırılır.

10. **B** Milletvekillerinin TBMM'deki söz ve düşünce hürriyetlerini ifade eden kavram Yasama Sorumsuzluğu (Mutlak Dokunulmazlık).

MURAT YAYINLARI

11. **A** 1982 Anayasası'na göre, TBMM Başkanının seçimi dört turlu yapılır ve TBMM tarafından seçilir. Birinci ve ikinci turda 400, üçüncü turda ise 301 milletvekilinin oyunu alan aday seçilmektedir. Eğer seçim dördüncü tura kalırsa, üçüncü turda en çok oy alan iki aday bu tura katılır ve geçerli oyların çoğunu alan aday TBMM Başkanı seçilir.

12. **A** 1982 Anayasası'na göre milletvekili olabilmesi için 18 yaşını doldurmuş olması gerekmektedir. 1982 Anayasası'nda 2017 yılında yapılan değişiklik ile milletvekili seçilebilme yaşı 25'ten 18'e düşürülmüştür.

13. **A** Milletvekilleri tüm milleti temsil etmektedir.

14. **C** 1982 Anayasası'na göre, tatil veya ara verme sırasında TBMM'yi olağanüstü toplantıya dorudan doğruya çağırma yetkisi TBMM Başkanı ve cumhurbaşkanına aittir. Dolaylı olarak ise en az 120 milletvekilinin yazılı istemi üzerine TBMM Başkanı TBMM'yi olağanüstü toplantıya çağırabilir.

15. **E** 1982 Anayasası'na göre, kapalı oturum TBMM'nin bilgi edinme ve denetim yolları arasında yer almaz. TBMM'nin bilgi edinme ve denetim yolları şunlardır: Yazılı soru, genel görüşme, meclis araştırması ve meclis soruşturmasıdır.

16. **B** Cumhurbaşkanı Yardımcıları veya bakanların görevleri ile ilgili ceza denetimini sağlayan ilgililerin yüce divanda yargılanmasının yolunu açan denetim yolu meclis soruşturmasıdır.

17. **E** Bakanın TBMM Başkanlık divanında üyeliği bulunmamaktadır. Divanda meclis başkanı, başkan vekilleri, idari amirler ve katip üyeler bulunur. Bunlar aynı zamanda milletvekilidirler.

18. **A** İnkılap kanununa karşı yargı yolu kapalıdır. Diğer tüm kanunlara yargı yolu açıktır.

19. **B** Cumhurbaşkanınca TBMM'ye geri gönderilemeyen tek kanun Bütçe Kanunu'dur.

20. **A** 1982 Anayasası'na göre savaş ilanına ve Türk Silahlı Kuvvetleri'nin kullanımına karar veren TBMM'dir.

MURAT YAYINLARI

/muratyayincilik

Yasama • TEST 2

1. Türk hukukuna göre, metninde yürürlük tarihi belirtilmeyen kanunlar ne zaman yürürlüğe girer?

A) Resmi Gazete'de yayımlanmasını izleyen otuz gün sonra
B) TBMM tarafından kabul edildiği tarihte
C) Cumhurbaşkanınca imzalandığı tarihte
D) Resmi Gazete'de yayımlandığı gün
E) Resmi Gazete'de yayımlanmasını izleyen on beş gün sonra

2. 1982 Anayasası'na göre, Anayasanın değiştirilmesiyle ilgili aşağıdaki ifadelerden hangisi yanlıştır?

A) Anayasa değişiklik teklifi TBMM üye tam sayısının en az beşte üçü tarafından yazılı olarak başkanlık divanına yapılır.
B) Anayasa değişikliğine ilişkin kanunlar TBMM'de kırk sekiz saat ara ile iki defa görüşülür.
C) Anayasa değişikliği kanunları TBMM genel kurulunda gizli oylanarak kabul edilir.
D) Anayasa değişikliğine ilişkin kanunlar TBMM genel kurulunda üye tam sayısının en az beşte üç çoğunluğu tarafından kabul edilirse cumhurbaşkanının bu kanunu yayımlama yetkisi yoktur.
E) Anayasa değişikliğine ilişkin kanunlar TBMM genel kurulunda üye tam sayısının en az üçte iki çoğunluğu tarafından kabul edilirse cumhurbaşkanının bu kanunu yayımlama yetkisi bulunmaktadır.

3. Milletvekili seçilme yeterlilikleri ile ilgili aşağıda verilen ifadelerden hangisi yanlıştır?

A) En az on sekiz yaşını doldurmuş olmak
B) Askerliğini tecil ettirmiş olmak
C) Kısıtlı olmamak
D) Taksirli suçtan hüküm giymemiş olmak
E) Kamu hizmetlerinden yasaklı olmamak

4. Aynı yasama yılı içerisinde TBMM tarafından reddedilen kanun teklifleri üzerinden ne kadar süre geçmedikçe tekrar TBMM'ye sunulamaz?

A) 1 yıl B) 2 yıl C) 3 yıl
D) 4 yıl E) 5 yıl

5. Aşağıdakilerden hangisi milletvekilinin TBMM üyeliğinin düşme ve sona erme nedenleri arasında gösterilemez?

A) Vatandaşlıktan çıkma
B) Cumhurbaşkanı, cumhurbaşkanı yardımcısı ve bakan seçilmek
C) Milletvekilliğinden istifa etmek
D) Siyasi partisinin kapatılmasına neden olmak
E) Mazeretsiz bir ay içinde toplamda beş birleşime katılmamak

6. 1982 Anayasası'na göre, cumhurbaşkanı yardımcıları ve bakanlar hakkında görevleriyle ilgili suç işledikleri iddiasıyla meclis soruşturmasının açılmasını önerge ile en az kaç milletvekili isteyebilir?

A) 301 B) 200 C) 400
D) 360 E) 151

7. 1982 Anayasasına göre, savaş ilanına karar verme yetkisi aşağıdakilerden hangisine aittir?

A) TBMM
B) Genelkurmay Başkanı
C) Yüksek Askeri Şura
D) En yaşlı cumhurbaşkanı yardımcısı
E) Milli Savunma Bakanı

MURAT YAYINLARI

8. I. Hakimler ve Savcılar Kurulu
II. Anayasa Mahkemesi
III. Radyo Televizyon üst Kurulu
IV. Sayıştay

Yukarıdakilerden hangilerine TBMM'nin üye seçme yetkisi bulunmaktadır?

A) Yalnız I B) II ve III C) III ve IV
D) I, II ve III E) I, II, III ve IV

9. **Aşağıdaki işlemlerden hangisinde özel-nitelikli çoğunluk aranmaz?**

A) Genel ve özel af ilanının kabul edilmesi
B) Anayasa değişikliği kanunlarının kabul edilmesi
C) TBMM'nin seçimleri yenileme kararı
D) Yasama dokunulmazlığının kaldırılması
E) Cumhurbaşkanının yüce divana sevk kararı

10. **Aşağıdakilerden hangisi özel nitelikli kanunlardan birisi değildir?**

A) Bütçe ve kesinhesap kanunu
B) Para basılmasına karar veren kanun
C) Milletlerarası anlaşmaları uygun bulan kanun
D) Genel ve özel af ilanına karar veren kanun
E) Vergi kanunu

11. **Aşağıdaki işlemlerden hangisi TBMM tarafından parlamento kararı şeklinde yapılmaz?**

A) Genel ve özel af ilanı
B) Ara seçim
C) Olağanüstü hal kararlarını onaylamak
D) Kamu başdenetçisini seçmek
E) TBMM iç tüzüğünü kabul etmek

12. **1982 Anayasası'na göre TBMM başkanlık divanı seçimleri her yasama döneminde kaç kez yapılır?**

A) 1 B) 2 C) 3 D) 4 E) 5

13. I. Siyasi parti grupları aday gösteremez.
II. TBMM'de oy kullanamaz.
III. TBMM Başkanı seçilenin meclis üyeliği sona ermez.

TBMM Başkanı ile ilgili yukarıda verilenlerden hangileri doğrudur?

A) Yalnız I B) Yalnız II C) Yalnız III
D) I ve III E) I, II ve III

14. I. Yasama dokunulmazlığının kaldırılması
II. Milletvekilinin TBMM üyeliğinin düşürülmesi
III. TBMM'nin seçimleri yenilemesi

Yukarıdaki parlamento kararlarından hangilerine yargı yolu açıktır?

A) Yalnız I B) I ve II C) I ve III
D) II ve III E) I, II ve III

MURAT YAYINLARI

/muratyayincilik

15. I. TBMM
II. Cumhurbaşkanı
III. TBMM Başkanı

1982 Anayasası'na göre, yukarıdakilerden hangilerinin seçimleri yenileme yetkisi bulunmaktadır?

A) Yalnız I B) Yalnız II C) Yalnız III
D) I ve II E) I, II ve III

16. I. TBMM üyeliklerinden boşalma olması halinde yapılır.
II. Her yasama döneminde TBMM kararıyla bir defa yapılır.
III. TBMM seçimlerinden otuz ay geçmeden ya da TBMM seçimlerine bir yıl kala yapılamaz.
IV. Bir ilin mecliste hiçbir temsilcisi kalmamışsa her koşulda yapılır.

Ara seçim ile ilgili yukarıda verilenlerden hangileri doğrudur?

A) I ve II B) I, II ve III
C) II, III ve IV D) I, II, III ve IV
E) II ve III

17. **Yüksek Seçim Kurulu ile ilgili aşağıdaki ifadelerden hangisi doğru değildir?**

A) Seçimlerin genel yönetim ve denetimini gerçekleştirir, kararlarına yargı yolu açıktır.
B) Başkan ve üyelerinin görev süresi altı yıldır ve görev süresini tamamlayanlar aynı göreve yeniden seçilebilir.
C) Kurulun yapısı yasama organında düzenlenmiştir.
D) Cumhurbaşkanı ve TBMM üyelerinin seçim tutanaklarını kabul etme yetkisine sahiptir.
E) Hangi ilin kaç milletvekili çıkaracağını tespit eder.

18. I. Mali yılbaşından yetmiş beş gün önce cumhurbaşkanı hazırlar ve teklif olarak TBMM'ye sunar.
II. TBMM basit çoğunlukla kabul edebilir.
III. Yargı yoluna kapalıdır.
IV. Cumhurbaşkanı tarafından meclise geri gönderilemez.

Bütçe kanunu ile ilgili yukarıda verilenlerden hangileri doğrudur?

A) I, II ve IV B) I ve III C) II ve IV
D) I ve II E) II, III ve IV

19. **1982 Anayasası'na göre, yasama dokunulmazlığı ile ilgili aşağıdaki ifadelerden hangisi yanlıştır?**

A) Seçimden önce veya sonra suç işlediği iddia edilen milletvekilinin TBMM kararı olmadıkça tutulamaması, tutuklanamaması, sorgulanamaması ve yargılanamaması durumudur.
B) Yasama dokunulmazlığı iddia edilen her suç için ayrı ayrı kaldırılır.
C) Yasama dokunulmazlığı milletvekillerini sadece ceza davalarına karşı koruma sağlamaktadır.
D) Hakkında kesinleşmiş ceza hükmü bulunan milletvekilinin bu hükmü seçilmeye engel bir suç değilse uygulanması seçim sonrasına bırakılır ve zamanaşımına uğramaz.
E) Yasama dokunulmazlığı kaldırılan milletvekilinin yargılanmasına başlanılacağı için kural olarak meclis üyeliği de sona erecektir.

20. I. TBMM Başkanı
II. Cumhurbaşkanı yardımcısı
III. Bakan

Yukarıdakilerden hangilerinin seçildikten sonra milletvekilliği sona erer?

A) Yalnız I B) Yalnız II C) Yalnız III
D) II ve III E) I, II ve III

MURAT YAYINLARI

Açıklamalar • TEST 2

1. **D** Türk hukukuna göre, metninde yürürlük tarihi belirtilmeyen kanunlar Resmi Gazete'de yayımlandığı gün yürürlüğe girer.

2. **A** 1982 Anayasası'na göre, Anayasa değişikliğine ilişkin kanun teklifi TBMM üye tam sayısının en az üçte biri (200 mv.) tarafından yazılı olarak TBMM başkanlık divanına teklif edilir.

3. **D** Milletvekili Seçilme Yeterliliği
   - TC Vatandaşı olmak
   - 18 yaşını doldurmak (2017 anayasa değişikliği)
   - En az ilkokul mezunu olmak
   - Askerlikle ilişiği bulunmamak (Tecil) (2017 anayasa değişikliği)
   - Kamu hizmetlerinden yasaklı olmamak
   - Taksirli suçlar hariç toplam bir yıl veya daha fazla hapis yada ağır hapis cezasına hüküm giymemiş olmak.
   - Yüz kızartıcı suçlardan (zimmet, rüşvet, hırsızlık, sahtecilik vb) kaçakçılık ve resmi ihale ve alım satımlara fesat karıştırma, devlet sırlarını açığa vurma, terör eylemlerinden hüküm giymemiş olmak (affa uğrasalar bile).

4. **A** Aynı yasama yılı içerisinde TBMM tarafından reddedilen kanun teklifleri üzerinden 1 yıl geçmedikçe tekrar TBMM'ye sunulamaz.

5. **D** 1982 Anayasası'nda 2010 yılı değişikliği ile siyasi partisinin kapatılmasına neden olan bir milletvekilinin siyasi partisi Anayasa Mahkemesi tarafından kapatılsa dahi milletvekilliği düşmeyecek fakat bu kişi beş yıl siyasi yasaklı olacaktır. Beş yıl süre ile herhangi bir siyasi partiye mensup olamayacaktır.

6. **A** 1982 Anayasası'na göre, cumhurbaşkanı yardımcıları ve bakanlar hakkında görevleriyle ilgili suç işledikleri iddiasıyla meclis soruşturmasının açılmasını önerge ile en az 301 milletvekili isteyebilir. Bu istek en az 360 milletvekilinin gizli oyu ile kabul edilerek soruşturma açılır. Soruşturma sonucunda en az 400 milletvekilinin gizli oyu ile ilgililer yüce divana sevk edilir.

7. **A** 1982 Anayasası'na göre, savaş ilanına karar verme yetkisi parlamentoya aittir. TBMM bu kararı basit çoğunluk ile alır. Savaşa ve barışa karar vermek, Türk Silahlı Kuvvetlerinin kullanılmasına karar vermek parlamento kararıdır.

8. **E** TBMM, Hakimler ve Savcılar Kuruluna yedi, Anayasa Mahkemesine üç, RTÜK'ün tüm, Sayıştay'ın tüm üyelerini seçme yetkisine sahiptir.

9. **D** Yasama dokunulmazlığının kaldırılması için özel bir çoğunluk öngörülmemiştir. Yasama dokunulmazlıkları basit çoğunluk ile kaldırılabilir. Genel ve özel af için en az 360, anayasa değişikliği için en az 360, TBMM'nin seçimleri yenileme kararı en az 360, cumhurbaşkanının yüce divana sevki için en az 400 milletvekilinin kararı gerekmektedir.

10. **E** Vergi kanunu özel nitelikli kanun değildir. Özel nitelikli kanunların konusu ve ele alınması bakımından özelliği bulunmaktadır. Bütçe ve kesinhesap kanunu, para basılmasına karar veren kanun, milletlerarası anlaşmaları uygun bulan kanun, genel ve özel af ilanına karar veren kanun özel nitelikli kanun olarak değerlendirilmektedir.

11. **A** Genel ve özel af ilanı TBMM tarafından kanun çıkarılarak yapılan bir işlemdir parlamento kararı değildir. Parlamento kararı, TBMM'nin kanunlar dışında kendi içinde aldığı kararlardır. Ara seçim, olağanüstü hal kararlarının onaylanması, kamu başdenetçisinin seçimi ve TBMM iç tüzüğünün kabul edilmesi parlamento kararıdır.

MURAT YAYINLARI

12. B 1982 Anayasası'na göre TBMM başkanlık divanı seçimleri her yasama döneminde iki kez yapılır. İlk seçilen divan iki yıl, ikinci seçilen divan ise yasama döneminin sonuna kadar görev yapar. İlk divanda görev yapanlar ikinci divan seçiminde de tekrar aday olabilirler.

13. E Siyasi parti grupları TBMM başkanlığı için aday gösteremez. Milletvekillerinin kendisi TBMM başkanlığı için adaylık başvurusunda bulunur. TBMM Başkanı, tarafsızlık gereği meclis oturumlarında oy kullanma hakkına sahip değildir. TBMM Başkanı milletvekili olmak zorundadır. TBMM Başkanı seçilenin milletvekilliği sona ermez. TBMM Başkanı tarafsızlık gereği siyasi partisinin faaliyetlerine katılamaz, tarafsızlık gereği mecliste gerçekleşen tartışmalara katılamaz.

14. B Kural olarak parlamento kararlarına yargı yolu kapalıdır. Bu kuralın üç istisnası bulunur bu kararlar için Anayasa Mahkemesine dava açılabilir. Yargı yoluna açık olan parlamento kararları şunlardır: Yasama dokunulmazlığının kaldırılması, milletvekilinin meclis üyeliğinin düşülmesi ve TBMM iç tüzüğüdür.

15. D 1982 Anayasası'na göre beş yılda bir yapılan TBMM ve cumhurbaşkanlığı seçimlerini yenileme yetkisi TBMM ve cumhurbaşkanına aittir. Yenileme kararını kim alırsa alsın TBMM ve cumhurbaşkanı seçimleri aynı gün birlikte yapılır. Cumhurbaşkanı bu kararı dilediği zaman alabilir. TBMM seçimlerin yenilenmesi kararını üye tam sayısının en az beşte üç çoğunluğu ile alır. Yenilenme kararı Resmi Gazete'de yayımlanarak ilan edilir ilandan sonra gelen altmışıncı günü takip eden ilk pazar seçim yapılır.

16. D TBMM üyeliklerinde boşalma olması halinde sadece boşalan üyeliğin temsil ettiği il veya seçim çevresinde yapılan seçime ara seçim denir. Ara seçim her yasama döneminde TBMM kararıyla bir defa yapılır. Ara seçim TBMM seçimlerinden otuz ay geçmeden ya da TBMM seçimlerine bir yıl kala yapılamaz. Eğer bir ilin mecliste hiçbir temsilcisi kalmamışsa her koşulda ara seçim yapılması zorunludur.

17. A Yüksek Seçim Kurulunun kararlarına yargı yolu kapalıdır. YSK, yedi asıl dört yedek üyeden meydana gelir. Üyelerin altısını Yargıtay, beşini Danıştay kendi içinden seçer. Üyeler kendi aralarından başkan seçer. Başkan ve üyelerin görev süresi altı yıldır ve görev süresini dolduranlar aynı göreve yeniden seçilebilir. YSK'nin yapısı anayasamızda yasama organında düzenlenmiştir. Seçimlerin genel yönetim ve denetiminden sorumlu olan YSK ayrıca cumhurbaşkanlığı ve TBMM üyelerinin seçim tutanaklarını kabul etme yetkisine de sahiptir. Hangi ilimizin kaç milletvekili çıkaracağını YSK belirler.

18. A Bütçe kanun teklifini, mali yılbaşından yetmiş beş gün önce cumhurbaşkanı hazırlar ve TBMM'ye sunar. TBMM, bu kanunu basit çoğunluk ile kabul eder. Cumhurbaşkanının TBMM'ye geri gönderemediği tek kanundur. Bütçe kanunu için hem şekil hem de esas bakımından Anayasa Mahkemesine dava açılabilir. Yargı yoluna kapalı olan tek kanun inkılap kanunlarıdır.

19. E 1982 Anayasası'na göre, yasama dokunulmazlığı kaldırılan milletvekilinin meclis üyeliği bakidir yani sona ermez. Eğer seçilmeye engel bir suçtan kesin hüküm giyerse mahkemenin bu kararının TBMM genel kuruluna bildirilmesiyle milletvekilinin meclis üyeliği düşer.

20. D TBMM Başkanı milletvekili olmak zorundadır ve TBMM Başkanı seçilenin milletvekilliği sona ermez. Cumhurbaşkanı yardımcıları ve bakanlar milletvekili seçilebilme yeterliliğine sahip olanlar arasından cumhurbaşkanınca seçilir ve meclis üyelikleri sona erer.

MURAT YAYINLARI

Yasama
• TEST 3

1. **Aşağıdakilerden hangisi milletvekilleri tarafından yapılamaz?**

A) Bütçe kanunu teklifi
B) Anayasa değişikliği teklifi
C) Genel ve özel af kanunu teklifi
D) Yazılı soru önergesi
E) TBMM Başkanından Meclisi olağanüstü toplantıya çağırması için yapılan istem

2. **TBMM'nin belli bir gününde açılan toplantısına ne ad verilir?**

A) Birleşim B) Oturum C) Teklif
D) Gensoru E) Soru

3. I. Cumhurbaşkanlığına aday gösterebilir.
II. TBMM Başkanlığı için aday gösteremez.
III. Yasama dokunulmazlığı için görüşme yapamaz karar alamaz.
IV. Genel görüşme ve meclis araştırması için önerge verir.
V. İç tüzük gereği meclis soruşturması ile ilgili görüşme yapamaz ve karar alamaz.

Siyasi parti grupları ile ilgili yukarıda verilenlerden hangileri doğrudur?

A) I, II, III, IV ve V B) II, III, IV ve V
C) III, IV ve V D) I, III ve IV
E) II, IV ve V

4. **1982 Anayasası'na göre, TBMM tüm seçim ve işlemlerinde en az kaç milletvekili ile toplanabilir?**

A) 200 B) 151 C) 301
D) 360 E) 184

5. **1982 Anayasası'na göre, TBMM seçimleri yenileme kararını en az kaç milletvekili ile alabilir?**

A) 400 B) 360 C) 200
D) 301 E) 151

6. I. Anayasanın değiştirilmesi
II. Kamu Başdenetçisinin seçimi
III. Milletvekilinin mazeretsiz olarak bir ay içinde toplamda beş birleşime katılmaması durumunda meclis üyeliğinin düşürülmesi

Yukarıda verilen işlemlerden hangilerinde gizli oylama usulü uygulanmaktadır?

A) Yalnız I B) Yalnız II C) Yalnız III
D) I ve II E) I, II ve III

7. **1982 Anayasası'na göre, cumhurbaşkanı yardımcıları ve bakanlar hakkında görevleriyle ilgili suçlardan ötürü TBMM tarafından açılan meclis soruşturması yolu ile yüce divana sevk edilebilmeleri için aranan karar yeter sayısı aşağıdakilerden hangisinde doğru olarak verilmiştir?**

A) Üye tam sayısının en az beşte üçü
B) Üye tam sayısının en az üçte ikisi
C) Üye tam sayısının en az üçte biri
D) Üye tam sayısının salt çoğunluğu
E) Üye tam sayısının en az dörtte üçü

MURAT YAYINLARI

/muratyayincilik

8. **1982 Anayasası'na göre, milletlerarası anlaşmaları uygun bulma yetkisi aşağıdakilerden hangisine aittir?**

A) TBMM
B) Cumhurbaşkanı
C) Anayasa Mahkemesi
D) En yaşlı cumhurbaşkanı yardımcısı
E) Dışişleri Bakanı

9. **1982 Anayasası'na göre, TBMM'nin aşağıdaki kanunlardan hangisini üye tam sayısının 3/5'inin çoğunluğu ile çıkarması gerekir?**

A) Ceza kanunu
B) Ceza mahkemeleri usul kanunu
C) Milletlerarası antlaşmaların onaylanmasını uygun bulma kanunu
D) Bütçe kanunu
E) Af kanunu

10. **Türkiye Büyük Millet Meclisinin af kanununu görüşeceği toplantısı için toplantı yeter sayısı en az, aşağıdakilerden hangisidir?**

A) Üye tam sayısının üçte biri
B) Üye tam sayısının salt çoğunluğu
C) Üye tam sayısının beşte üçü
D) Üye tam sayısının üçte ikisi
E) Üye tam sayısının dörtte üçü

11. **Aşağıdakilerden hangisi TBMM'nin görev ve yetkilerinden biri değildir?**

A) Cumhurbaşkanı hakkında soruşturma açılmasına karar vermek
B) Sayıştay başkanı ve üyelerini seçmek
C) Silahlı kuvvetlerin kullanılmasına karar vermek
D) İç tüzüğü kabul etmek
E) Cumhurbaşkanı yardımcılarını seçmek

12. **1982 Anayasası'na göre, dokunulmazlığı kaldırılan ve milletvekilliği düşürülen üyeler kararların iptali için kaç gün içinde Anayasa Mahkemesine iptal davası açma hakkına sahiptir?**

A) 5 gün B) 6 gün C) 10 gün
D) 7 gün E) 15 gün

13. **1982 Anayasası'na göre, Anayasanın değiştirilmesi için geçerli olan kabul oranı aşağıdakilerden hangisinde doğru olarak verilmiştir?**

A) Üye tam sayısının en az üçte biri
B) Üye tam sayısının en az beşte üçü
C) Üye tam sayısının en az beşte ikisi
D) Üye tam sayısının salt çoğunluğu
E) Üye tam sayısının en az beşte biri

MURAT YAYINLARI

14. I. Cumhurbaşkanı seçilmek
II. Ölüm
III. Milletvekilliği ile bağdaşmayan işleri yapmakta ısrarcı olmak

Yukarıda verilenlerden hangileri milletvekilinin meclis üyeliğinin kendiliğinden düşme halleri arasında yer almaz?

A) Yalnız I B) Yalnız II C) Yalnız III
D) I ve II E) I, II ve III

15. **1982 Anayasası'na göre, dokunulmazlığı kaldırılan ve milletvekilliği düşürülen vekillerin bu kararlar için yaptıkları iptal başvurusunu Anayasa Mahkemesi kaç gün içinde karara bağlar?**

A) 15 B) 3 C) 7 D) 30 E) 45

16. **1982 Anayasası'na göre, yazılı soru önergesine cumhurbaşkanı yardımcıları veya bakanlar en geç kaç gün içinde cevap vermelidir?**

A) 15 B) 10 C) 30 D) 45 E) 25

17. I. Ağır cezayı gerektiren suçüstü hali iddiası
II. Seçimden önce soruşturmasına başlamak kadıyla Anayasanın 14. maddesinin ihlal edilmesi iddiası
III. Adam yaralama iddiası

Yukarıdaki hallerin hangilerinde milletvekilinin dokunulmazlığı oylama yapılmadan kalkar?

A) Yalnız I B) Yalnız II C) Yalnız III
D) I ve II E) I, II ve III

18. **1982 Anayasası'na göre, cumhurbaşkanı yardımcılarını ve bakanları yüce divana sevk etme yetkisi aşağıdakilerden hangisine aittir?**

A) Cumhurbaşkanı
B) TBMM
C) Anayasa Mahkemesi
D) Yargıtay
E) Adalet Bakanı

19. **1982 Anayasası'na göre, bakanlar hakkında meclis soruşturması açılması kararı en az kaç milletvekili ile alınabilir?**

A) 360 B) 301 C) 200
D) 151 E) 400

20. I. TBMM seçimlerine bir yıl kala cumhurbaşkanı makamının boşalması
II. TBMM seçimlerine bir yıldan fazla süre kala cumhurbaşkanı makamının boşalması
III. TBMM'nin 360 milletvekili ile seçimleri yenileme kararı alması

Yukarıda verilen hallerin hangilerinde sadece cumhurbaşkanı seçimi yapılır?

A) Yalnız I B) Yalnız II C) Yalnız III
D) I ve II E) I, II ve III

MURAT YAYINLARI

/muratyayincilik

Açıklamalar • TEST 3

1. **A** Bütçe kanun teklifi Cumhurbaşkanı tarafından Meclise sunulur. Anayasa değişikliği teklifi, af kanunu teklifi, yazılı soru önergesi, TBMM Başkanından Meclisi olağanüstü toplantıya çağırması için yapılan istem milletvekilleri tarafından yerine getirilir.

2. **A** TBMM'nin belli bir gününde açılan toplantısına birleşim denir. Birleşimin ara ile bölünen kısımlarına oturum denmektedir.

3. **A** Siyasi parti grupları en az yirmi milletvekili ile kurulur. Siyasi parti grupları cumhurbaşkanlığına aday gösterebilir fakat TBMM Başkanlığı için aday gösteremez. Siyasi parti grupları, yasama dokunulmazlığı için görüşme yapamaz karar alamaz.
Siyasi parti grupları genel görüşme ve meclis araştırması için önerge verebilir. Siyasi parti grupları, İç tüzük gereği meclis soruşturması ile ilgili görüşme yapamaz ve karar alamaz.

4. **A** 1982 Anayasası'na göre, TBMM tüm seçim ve işlemlerinde üye tam sayısının en az üçte biri ile (200 mv.) toplanır. Toplantıya katılanların salt çoğunluğu ile karar alır. Bu çoğunluk hiçbir zaman üye tam sayısının dörtte birinin bir fazlasından (151 mv.) az olamaz.

5. **B** 1982 Anayasası'na göre, seçimleri yenileme kararını TBMM veya cumhurbaşkanı alır. TBMM bu kararı üye tam sayısının en az beşte üçü (360 mv.) ile alabilir.

6. **D** Anayasa değişikliğine ilişkin kanunların kabul edilmesinde ve kamu başdenetçisinin seçiminde gizli oylama usulü uygulanmaktadır. Milletvekilinin mazeretsiz olarak bir ay içinde toplamda beş birleşime katılmaması durumunda milletvekilliğinin düşürülmesi kararı açık oylama usulüne tabidir.

7. **B** 1982 Anayasası'na göre, cumhurbaşkanı yardımcıları ve bakanlar hakkında görevleriyle ilgili suçlardan ötürü açılan meclis soruşturması yoluyla ilgililerin yüce divana sevk edilebilmesi için aranan karar yeter sayısı en az 400 milletvekilidir. (üye tam sayısının en az üçte ikisi)

8. **A** 1982 Anayasası'na göre, milletlerarası anlaşmaları onaylamaya uygun bulma yetkisi TBMM'ye aittir. TBMM bu yetkisini kanun çıkararak kullanır. Milletlerarası anlaşmaları onaylama yetkisi cumhurbaşkanına aittir.

9. **E** 1982 Anayasasına göre af kanunları üye tam sayısının 3/5 çoğunluğunun oyu ile kabul edilebilir. Af kanunu denildiğinde genellikle cezaevinde bulunanların af edilmesi akla gelmektedir. Ama Anayasa 3/5 çoğunluğu cezaevindekilerin affı için değil, her türlü af kanunu için aramaktadır. Dolayısıyla cezaevindekilerin affedilmesi kanunu da, üniversiteden atılan öğrencilere yeni sınav hakkı verilmesi kanunu da (öğrenci affı), vergi suçlarının af edilmesi (vergi affı) kanunu da, disiplin cezalarının af edilmesi kanunu da (sicil affı) dahil her türlü af kanunu ancak üye tam sayısının 3/5'ünün oyu ile kabul edilebilir.

10. **A** Af kanunları, üye tam sayısının en az beşte üçünün oyuyla çıkarılabilir. Ancak, bu karar yeter sayısıdır. Karar yeter sayısı ile toplantı yeter sayısı birbirinden tamamen farklı kavramlardır. Toplantı yeter sayısı, yapacağı seçimler dahil bütün işlerinde üye tam sayısının en az üçte biridir.

MURAT YAYINLARI

11. E 1982 Anayasası'na göre, cumhurbaşkanı yardımcılarını seçme yetkisi cumhurbaşkanına aittir. TBMM, cumhurbaşkanı hakkında herhangi bir suç işlediği gerekçesiyle soruşturma açılmasına karar verebilir, Sayıştay başkan ve üyelerini seçer, silahlı kuvvetlerin kullanılmasına karar verir, iç tüzüğü kabul eder.

12. D 1982 Anayasası'na göre, dokunulmazlığı kaldırılan ve milletvekilliği düşürülen meclis üyeleri bu kararların iptali için kararların alınmasından itibaren 7 gün içinde Anayasa Mahkemesine iptal başvurusu yapabilir. Anayasa Mahkemesi kararını 15 gün içinde verir.

13. B 1982 Anayasası'na göre, TBMM genel kurulu gizli oy usulü ile Anayasa değişikliğine ilişkin kanunları en az 360 milletvekilinin oyu ile kabul eder. Yani üye tam sayısının en az beşte üçü ile kabul eder.

14. C Milletvekilinin meclis üyeliği ile bağdaşmayan işleri yapmakta ısrarcı olması durumunda milletvekilliği parlamento kararıyla düşer. Bunun için gizli oylama usulü ile basit çoğunlukla karar verilir. Cumhurbaşkanı seçilmek ve ölüm milletvekilliğinin kendiliğinden sona erme ve düşme halleridir.

15. A 1982 Anayasası'na göre, dokunulmazlığı kaldırılan ve milletvekilliği düşürülen meclis üyelerinin bu kararlar için yaptıkları iptal başvurusunu Anayasa Mahkemesi 15 gün içinde karara bağlar.

16. A 1982 Anayasası'na göre, yazlı soru önergesi en az bir milletvekili tarafından verilebilir. Yazılı soruya en geç 15 gün içinde cumhurbaşkanı yardımcıları veya bakanlar cevap vermelidir.

17. D 1982 Anayasası'na göre, milletvekillerinin yasama dokunulmazlığı TBMM tarafından kaldırılmadan tutuklanması, tutulması, sorgulanması ve yargılanması söz konusu değildir. İki durumda yasama dokunulmazlığından yararlanamazlar yani oylama yapılmadan yargılanabilmelerinin önü açıktır. Bu durumlar; ağır cezayı gerektiren suçüstü hali iddiası ve seçimden önce soruşturmasına başlamak kadıyla Anayasanın 14. maddesinin ihlal edilmesi iddiasıdır.

18. B 1982 Anayasası'na göre, görevleriyle ilgili suç işledikleri gerekçesiyle cumhurbaşkanı yardımcılarını ve bakanları yüce divana sevk etme yetkisi TBMM'ye aittir. TBMM bu kararı en az 400 milletvekili ile alabilir.

19. A 1982 Anayasası'na göre, bakanlar hakkında görevleriyle ilgili suç işledikleri iddiasıyla meclis soruşturması açılması kararı gizli oylama usulü ile en az 360 milletvekili ile alınabilir.

20. B TBMM seçimlerine bir yıldan fazla süre kala cumhurbaşkanının makamı boşalırsa sadece cumhurbaşkanı seçimi yapılır. TBMM seçimlerine bir yıl kala cumhurbaşkanının makamı boş kalırsa cumhurbaşkanı ve TBMM seçimleri aynı gün birlikte yapılır. TBMM tarafından seçimlerin yenilenmesine karar verilmesi halinde TBMM ve cumhurbaşkanı seçimleri aynı gün birlikte yapılır.

MURAT YAYINLARI

/muratyayincilik

Yürütme • TEST 1

1. **1982 Anayasası'na göre Cumhurbaşkanı yardımcısı aşağıdakilerden hangisini yapma yetkisine sahiptir?**

A) Kanun teklifinde bulunmak
B) Kesin hesap kanun teklifini Meclise sunmak
C) Yönetmelik çıkarmak
D) Anayasa değişikliği teklifinde bulunmak
E) Milli Güvenlik Kurulu toplantılarına katılmak

2. **1982 Anayasası'na göre, cumhurbaşkanı kaç yıl için seçilir?**

A) 5 B) 7 C) 3 D) 10 E) 4

3. I. Cumhurbaşkanı seçilenin siyasi partisi ile ilişiği kesilmez.
II. Cumhurbaşkanı seçilenin TBMM üyeliği sona erer.
III. Cumhurbaşkanı halk tarafından seçilir ve aynı kişi en fazla iki defa seçilebilir.

Cumhurbaşkanı ile ilgili yukarıda verilenlerden hangileri doğrudur?

A) Yalnız I B) Yalnız II C) Yalnız III
D) II ve III E) I, II ve III

4. **1982 Anayasası'na göre, cumhurbaşkanı adaylığı ile ilgili aşağıdaki ifadelerden hangisi doğru değildir?**

A) Siyasi parti grupları cumhurbaşkanlığına aday gösterebilir.
B) Aynı kişi hem cumhurbaşkanlığına hem de milletvekilliğine aday olamaz ve aday gösterilemez.
C) Cumhurbaşkanlığına aday olacakların milletvekili seçilebilme koşullarını sağlaması gerekmez.
D) Bir kişinin cumhurbaşkanlığına aday gösterilebilmesi için en az yüz bin seçmenin imzası gerekir.
E) Son yapılan milletvekili genel seçimlerinde toplam geçerli oyların en az yüzde beşini tek başına veya birlikte sağlayan siyasi partiler cumhurbaşkanlığına aday gösterebilir.

5. **1982 Anayasası'na göre, cumhurbaşkanı seçimleri iki turlu yapılır eğer ilk turda seçilebilmek için yeterli çoğunluğu sağlayan aday çıkmaz ise ikinci tur için yapılacak uygulama ile ilgili aşağıdaki ifadelerden hangisi doğrudur?**

A) İkinci tur üç hafta sonra yapılır ve bu tura ilk turda ilk iki sırada yer alan adaylar katılır.
B) İkinci tur iki hafta sonraki ilk pazar yapılır ve bu tura ilk turda ilk iki sırayı paylaşan adaylar katılır.
C) İkinci tur iki hafta sonraki ilk Pazar yapılır ve bu tura ilk turda ilk üç sırayı paylaşan adaylar katılır.
D) İkinci tur dört hafta sonraki ilk Pazar yapılır ve bu tura ilk turda ilk dört sırayı paylaşan adaylar katılır.
E) İkinci tur kırk beş gün sonraki ilk Pazar yapılır ve bu tura ilk turda ilk iki sırayı paylaşan adaylar katılır.

6. I. En yaşlı cumhurbaşkanı yardımcısı
II. TBMM Başkanı
III. Cumhurbaşkanının görevlendireceği yardımcısı

Cumhurbaşkanlığı makamının herhangi bir sebeple boşalması durumunda yeni cumhurbaşkanı seçilinceye kadar yukarıdakilerden hangileri cumhurbaşkanının makamına vekalet eder?

A) Yalnız I B) Yalnız II C) Yalnız III
D) I ve III E) II ve III

7. I. TBMM seçimlerine bir yıl ve daha az süre kala cumhurbaşkanı makamının boşalması
II. TBMM seçimlerine bir yıldan daha fazla süre kala cumhurbaşkanı makamının boşalması
III. Cumhurbaşkanı tarafından seçimlerin yenilenmesi kararının alınması

Yukarıda verilen durumların hangileri gerçekleşirse TBMM ve cumhurbaşkanı seçimleri aynı gün birlikte yapılır?

A) Yalnız I B) I ve II C) II ve III
D) I ve III E) I, II ve III

MURAT YAYINLARI

8. **1982 Anayasası'na göre, cumhurbaşkanı yardımcılarıyla ilgili aşağıdaki ifadelerden hangisi doğru değildir?**

A) Cumhurbaşkanı tarafından atanır ve görevine son verilir.
B) TBMM'de ant içerler.
C) Cumhurbaşkanına vekalet ederler.
D) Kanun teklifinde bulunabilirler.
E) Yasama dokunulmazlığına sahiptirler.

9. I. Cumhurbaşkanına karşı sorumludurlar.
II. Görevleriyle ilgili suç iddiaları nedeniyle yüce divanda yargılanırlar.
III. Milli Güvenlik Kurulu, Yüksek Askeri Şura üyeleri arasında yer alırlar.

Cumhurbaşkanı yardımcıları hakkında yukarıda verilenlerden hangileri doğrudur?

A) Yalnız I B) Yalnız II C) Yalnız III
D) I ve III E) I, II ve III

10. **Bakanlıklar ile ilgili aşağıdaki ifadelerden hangisi yanlıştır?**

A) Bakanlıkların kurulması, kaldırılması, yapısı cumhurbaşkanlığı kararnamesiyle düzenlenir.
B) Bakanlıkların yönetmelik çıkarma yetkisi bulunur.
C) Bakanları atama ve görevine son verme yetkisi cumhurbaşkanına aittir.
D) Bakanlar milletvekili seçilebilme yeterliliğine sahip olanlar arasından atanır.
E) Bakan olarak atanan milletvekilinin TBMM üyeliği sona ermez.

11. **1982 Anayasası'na göre, cumhurbaşkanı hakkında herhangi bir suç işlediği iddiasıyla soruşturma açılmasını önerge ile en az kaç milletvekili isteyebilir?**

A) 301 B) 200 C) 151
D) 360 E) 400

12. **1982 Anayasası'na göre, cumhurbaşkanı hakkında TBMM tarafından açılan soruşturma sonucunda yüce divanda yargılanması için karar yeter sayısı en az kaçtır?**

A) 200 B) 360 C) 400
D) 151 E) 301

13. I. Cumhurbaşkanının yüce divana sevki ile görevi sona erer.
II. Hakkında soruşturma açılmasına karar verilen cumhurbaşkanı seçimleri yenileyemez.
III. Cumhurbaşkanının görevde bulunduğu sürede işlediği iddia edilen suçlar için görevi bittikten sonra da bu madde hükmü uygulanır.

1982 Anayasası'na göre, cumhurbaşkanının cezai sorumluluğu ile ilgili yukarıda verilenlerden hangileri yanlıştır?

A) Yalnız I B) I ve II C) II ve III
D) I ve III E) I, II ve III

14. **1982 Anayasası'na göre, Milli güvenliğin sağlanmasından ve Silahlı Kuvvetlerin yurt savunmasına hazırlanmasından, Türkiye Büyük Millet Meclisine karşı aşağıdakilerden hangisi sorumludur?**

A) Dışişleri Bakanı
B) Cumhurbaşkanı
C) Milli Savunma Bakanı
D) Genelkurmay Başkanı
E) TBMM Başkanı

MURAT YAYINLARI

15. 1982 Anayasası'na göre, Genelkurmay Başkanı savaş durumunda başkomutanlık yetkilerini aşağıdakilerden hangisi adına kullanır?

A) Cumhurbaşkanı
B) Halk
C) Milli Güvenlik Kurulu
D) TBMM Başkanı
E) Milli Savunma Bakanı

16. 1982 Anayasası'na göre, TBMM tatilde iken ülke ani bir saldırıya uğrarsa silahlı kuvvetlerin kullanılmasına aşağıdakilerden hangisi karar verir?

A) TBMM Başkanı
B) Genelkurmay Başkanı
C) Cumhurbaşkanı
D) Milli Savunma Bakanı
E) Milli İstihbarat Teşkilatı Başkanı

17. Aşağıdakilerden hangisi cumhurbaşkanının görev ve yetkileri arasında <u>yer almaz</u>?

A) Yürütme yetkisine ilişkin konularda cumhurbaşkanlığı kararnamesi çıkarmak
B) Yönetmelik çıkarmak
C) Ülkenin iç ve dış siyaseti hakkında meclise mesaj vermek
D) Bütçe kanun teklifini meclise sunmak
E) Kamu Başdenetçisini seçmek

18. Metninde yürürlük tarihi bulunmayan cumhurbaşkanlığı kararnameleri ne zaman yürürlüğe girer?

A) Resmi Gazete'de yayımlandığı gün
B) TBMM tarafından kabul edildiği gün
C) Cumhurbaşkanı tarafından imzalandığı gün
D) Resmi Gazete'de yayımlanmasını izleyen otuz gün sonra
E) Resmi Gazete'de yayımlanmasını izleyen günden itibaren kırk beş gün sonra

19. Cumhurbaşkanlığı kararnameleriyle ilgili aşağıdaki ifadelerden hangisi <u>yanlıştır</u>?

A) İlk kez 1982 Anayasası ile düzenlenmiştir.
B) Cumhurbaşkanı, yürütme yetkisine ilişkin konularda Cumhurbaşkanlığı kararnamesi çıkarabilir.
C) Anayasada özellikle kanunla düzenlenmesi öngörülen konularda Cumhurbaşkanlığı kararnamesi çıkarılamaz.
D) Kanunda açıkça düzenlenen konularda Cumhurbaşkanlığı kararnamesi çıkarılamaz.
E) Cumhurbaşkanlığı kararnameleri Resmi Gazete'de yayımlandığı gün meclisin onayına sunulur.

20. I. Siyasi hak ve ödevleri
II. Kişi hak ve hürriyetleri
III. Sosyal ve ekonomik hakları

1982 Anayasası'na göre olağan dönem cumhurbaşkanlığı kararnameleriyle yukarıda verilenlerden hangileri düzenlenemez?

A) Yalnız I B) Yalnız II C) Yalnız III
D) I ve II E) I, II ve III

MURAT YAYINLARI

Açıklamalar • TEST 1

1. **E** 1982 Anayasası'na göre Cumhurbaşkanı yardımcıları Milli Güvenlik Kurulu üyesidir. Cumhurbaşkanının katılmadığı durumda Kurul başkanlığını Cumhurbaşkanı yardımcısı üstlenmektedir.

2. **A** 1982 Anayasası'na göre, cumhurbaşkanının görev süresi beş yıldır ve halk tarafından seçilir. 1982 Anayasası'na göre, Türkiye Büyük Millet Meclisi ve cumhurbaşkanı seçimleri aynı gün birlikte yapılır.

3. **E** 1982 Anayasası'na göre, cumhurbaşkanı halk tarafından beş yıl için seçilir. Aynı kişi en çok iki defa cumhurbaşkanı seçilebilir. 2017 Anayasa değişikliğine göre, cumhurbaşkanı seçilenin TBMM üyeliği sona erer fakat varsa partisi ile ilişiği kesilmez.

4. **C** Cumhurbaşkanlığına aday olacakların milletvekili olma zorunluluğu yoktur fakat milletvekili seçilebilme koşullarına sahip olması gerekmektedir.1982 Anayasası'na göre, siyasi parti grupları cumhurbaşkanlığına aday gösterebilir, son yapılan milletvekili genel seçimlerinde toplam geçerli oyların en az yüzde beşini tek başına veya birlikte sağlayan siyasi partiler cumhurbaşkanlığına aday gösterebilir, aynı kişi hem cumhurbaşkanlığına hem de milletvekilliğine aday olamaz ve aday gösterilemez, bir kişinin cumhurbaşkanlığına aday gösterilebilmesi için en az yüz bin seçmenin imzası gerekir.

5. **B** 1982 Anayasası'na göre, cumhurbaşkanı seçimleri iki turlu yapılır. Birinci turda geçerli oyların salt çoğunluğunu alan aday cumhurbaşkanı seçilir. Bu çoğunluğu sağlayan çıkmaz ise ilk oylamayı izleyen iki hafta sonraki ilk Pazar günü ikinci tur yapılır. Bu tura ilk turda ilk iki sırayı paylaşan adaylar katılır ve geçerli oyların çoğunu alan aday cumhurbaşkanı seçilir.

6. **A** 1982 Anayasası'na göre, Cumhurbaşkanı'nın yurt dışına çıkma veya hastalık gibi sebeplerle geçici olarak görevinden ayrılması hallerinde görevine dönünceye kadar; ya da ölüm, çekilme veya başka bir sebeple Cumhurbaşkanlığı makamının boşalması halinde yenisi seçilinceye kadar Cumhurbaşkanlığına Cumhurbaşkanı yardımcıları vekalet eder. Cumhurbaşkanlığı kararnameleriyle yapılan düzenlemeye göre, makamın kesin boşalması durumunda en yaşlı, makamın geçici sebepler ile boşalması durumunda cumhurbaşkanının görevlendireceği yardımcısı makama vekalet eder. Soruda seçime gidileceği için bu durum makamın kesin olarak boşalmasıdır.

7. **D** TBMM seçimlerine bir yıl ve daha az süre kala cumhurbaşkanı makamının boşalması durumunda TBMM ve cumhurbaşkanı seçimleri aynı gün birlikte yapılır bu durumda seçim makamın boşalmasını takip eden altmışıncı günü takip eden ilk pazar yapılır. TBMM seçimlerine bir yıldan daha fazla süre kala cumhurbaşkanı makamının boşalması durumunda sadece cumhurbaşkanı seçimleri yapılır bu durumda seçim makamın boşalmasını takip eden kırk beşinci gün içindeki son pazar günü yapılır. Cumhurbaşkanı tarafından seçimlerin yenilenmesi kararının alınması durumunda kararın ilanından sonra gelen altmışıncı günü takip eden ilk Pazar günü cumhurbaşkanı ve TBMM seçimleri aynı gün birlikte yapılır.

8. **D** Kanun teklifinde sadece milletvekilleri bulunabilir. Cumhurbaşkanı yardımcıları aynı zamanda milletvekili olamazlar ayrıca milletvekilleri arasından cumhurbaşkanı yardımcılığına atanalar olursa milletvekillikleri kendiliğinden sona erer.

9. **E** Cumhurbaşkanı yardımcıları cumhurbaşkanı tarafından atanır ve görevine son verilir ve cumhurbaşkanına karşı sorumludurlar. Cumhurbaşkanı yardımcıları görevleriyle ilgili suç iddiaları nedeniyle yüce divanda yargılanırlar. Cumhurbaşkanı yardımcılarının Milli Güvenlik Kurulu ve Yüksek Askeri Şura üyeliği bulunmaktadır.

MURAT YAYINLARI

10. E Bakanlar, Cumhurbaşkanı tarafından atanır ve görevine son verilir. Bakanlar, milletvekili seçilebilme yeterliliğine sahip olanlar arasından atanır eğer bir milletvekili bakan olarak atanırsa TBMM üyeliği kendiliğinden sona erer. Aynı kişi hem bakan hem de milletvekili olamaz.

11. A Cumhurbaşkanı hakkında, bir suç işlediği iddiasıyla Türkiye Büyük Millet Meclisi üye tamsayısının salt çoğunluğunun(301 milletvekili) vereceği önergeyle soruşturma açılması istenebilir.

12. C TBMM üye tamsayısının üçte ikisinin(400 milletvekili) gizli oyu ile Yüce divana sevk kararı alınabilir.

13. A Hakkında soruşturma açılmasına karar verilen Cumhurbaşkanı seçim kararı alamaz. Cumhurbaşkanının yüce divana sevki ile görevi sona ermez,Yüce divanda seçilmeye engel bir suçtan mahkum edilen cumhurbaşkanının görevi sona erer. Cumhurbaşkanının görevde bulunduğu sürede işlediği iddia edilen suçlar için görevi bittikten sonra da bu madde hükmü uygulanır.

14. B 1982 Anayasası'nın 2017 yılı değişikliği ile Milli güvenliğin sağlanmasından ve Silahlı Kuvvetlerin yurt savunmasına hazırlanmasından, Türkiye Büyük Millet Meclisine karşı Cumhurbaşkanı sorumludur.

15. A 1982 Anayasası'nın 2017 yılı değişikliği ile Genelkurmay Başkanını Cumhurbaşkanı atar ve savaş durumunda başkomutanlık yetkilerini Cumhurbaşkanı namına kullanır.

16. C 1982 Anayasası'na göre, TBMM tatilde iken ülke ani bir saldırıya uğrarsa silahlı kuvvetlerin kullanılmasına başkomutan sıfatıyla cumhurbaşkanı karar verir.

17. E 1982 Anayasası'na göre, Kamu Başdenetçisini seçme yetkisi TBMM'ye aittir. Kamu denetçiliği kurumu TBMM başkanlığına bağlıdır. Cumhurbaşkanı; yürütme yetkisine ilişkin konularda cumhurbaşkanlığı kararnamesi çıkarır, yönetmelik çıkarır, ülkenin iç ve dış siyaseti hakkında meclise mesaj verir, mali yıl başından yetmiş beş gün önce bütçe kanun teklifini hazırlayıp meclise sunar.

18. A Metninde yürürlük tarihi bulunmayan cumhurbaşkanlığı kararnameleri Resmi Gazete'de yayımlandığı gün yürürlüğe girer.

19. E Cumhurbaşkanlığı kararnameleri Resmi Gazete'de yayımlandığı gün (aksi belirtilmemişse) yürürlüğe girer ve meclisin onayına sunulmaz. Fakat olağanüstü hal dönemlerinde çıkarılan cumhurbaşkanlığı kararnameleri meclisin onayına sunulur.

20. D Anayasada yer alan temel haklar, kişi hakları ve ödevleriyle siyasi haklar ve ödevler, olağan dönem cumhurbaşkanlığı kararnamesi ile düzenlenemez fakat ekonomik ve sosyal haklar düzenlenebilir.

MURAT YAYINLARI

Yürütme
• TEST 2

1. **1982 Anayasası'na göre, aşağıdakilerden hangisi cumhurbaşkanlığı kararnamesiyle düzenlenemez?**

A) Bakanlıkların kurulması, kaldırılması ve teşkilat yapısı
B) Devlet Denetleme Kurulunun işleyişi, üyelerinin görev süresi ve diğer özlük işleri
C) Üst kademe kamu yöneticilerinin atanmasına ilişkin usul ve esaslar
D) Milli Güvenlik Kurulu Genel Sekreterliğinin görev ve esasları
E) Seçim sisteminde yapılan değişiklikler

2. I. Resmi Gazete'de yayımlandığı gün yürürlüğe girer ve aynı gün TBMM'nin onayına sunulur.
II. Yargı yoluna kapalıdır.
III. Sert çekirdekli haklar hariç tüm temel hak ve hürriyetlerde düzenleme yapılabilir.

1982 Anayasası'na göre, olağanüstü hal dönemlerinde çıkarılan cumhurbaşkanlığı kararnameleriyle ilgili yukarıda verilenlerden hangileri doğrudur?

A) I, II ve III B) I ve II C) II ve III
D) I ve III E) Yalnız III

3. **1982 Anayasası'na göre, olağanüstü Cumhurbaşkanlığı kararnameleri ne kadar süre içinde TBMM'de görüşülüp karara bağlanamaz ise kendiliğinden yürürlükten kalkar?**

A) 1 ay B) 5 ay C) 4 ay
D) 3 ay E) 10 ay

4. **1982 Anayasası'na göre, aşağıdakilerden hangisi Cumhurbaşkanı'nın görev ve yetkilerinden biri değildir?**

A) Başkomutan sıfatıyla silahlı kuvvetlerin kullanılmasına karar verir.
B) Yabancı ülke temsilcilerini kabul eder; ülkemiz temsilcilerini yabancı ülkelere gönderir.
C) Milli güvenlikle ilgili gerekli tedbirleri alır.
D) Cumhurbaşkanı yardımcıları ile bakanları atar ve görevlerine son verir.
E) Bütçe kanun teklifini kabul etmek

5. **Yönetmelikler ile ilgili aşağıdaki ifadelerden hangisi yanlıştır?**

A) Cumhurbaşkanı, bakanlıklar ve kamu tüzel kişileri, kendi görev alanlarını ilgilendiren, kanunların ve Cumhurbaşkanlığı kararnamelerinin uygulanmasını sağlamak üzere ve bunlara aykırı olmamak şartıyla, yönetmelik çıkarabilir.
B) Hangi yönetmeliklerin Resmi Gazete'de yayımlanacağı kanunda belirtilir.
C) Yönetmelikler, yayımından sonra bir tarih belirlenmemişse, Resmi Gazete'de yayımlandıkları gün yürürlüğe girer.
D) Yönetmelikler normlar hiyerarşisine göre kanun ve Cumhurbaşkanlığı kararnamesinin altındadır.
E) Yönetmeliklerin iptali için Anayasa Mahkemesine iptal davası açılabilir.

6. **1982 Anayasası'na göre Cumhurbaşkanı'nın yüce divan yargılaması kaç ay içinde tamamlanır?**

A) 1 B) 3 C) 6 D) 4 E) 5

MURAT YAYINLARI

/muratyayincilik

7. **1982 Anayasası'na göre aşağıdakilerden hangisi Cumhurbaşkanı'nın görev ve yetkileri arasında yer almaz?**

A) Kanunların, Türkiye Büyük Millet Meclisi İçtüzüğünün tümünün veya belirli hükümlerinin Anayasaya şekil veya esas bakımından aykırı oldukları gerekçesiyle Anayasa Mahkemesinde iptal davası açar.
B) Milletlerarası anlaşmaları onaylar.
C) Kanunların uygulanmasını sağlamak amacıyla ve bunlara aykırı olmamak koşuluyla yönetmelik çıkarabilir.
D) Sürekli hastalık, sakatlık ve kocama sebebiyle kişilerin cezalarını hafifletir veya kaldırır.
E) RTÜK üyelerini seçer.

8. I. Cumhurbaşkanı
II. Bakanlıklar
III. Kamu tüzel kişileri

1982 Anayasası'na göre, yukarıdakilerden hangileri yönetmelik çıkarma yetkisine sahiptir?

A) Yalnız I B) I ve II C) I ve III
D) II ve III E) I, II ve III

9. **1982 Anayasası'na göre, aşağıdakilerden hangisi Milli Güvenlik Kurulu üyesi değildir?**

A) Cumhurbaşkanı Yardımcıları
B) İçişleri Bakanı
C) Milli Savunma Bakanı
D) Milli Güvenlik Kurulu Genel Sekreteri
E) Hava Kuvvetleri Komutanı

10. **1982 Anayasası'na göre, Milli Güvenlik Kurulunun tavsiye kararları aşağıdakilerden hangisine iletilir?**

A) Yüksek Askeri Şura
B) Genelkurmay Başkanı
C) Cumhurbaşkanı
D) Milli İstihbarat Teşkilatı Başkanı
E) Milli Güvenlik Kurulu Genel Sekreteri

11. **1982 Anayasası'na göre aşağıdakilerden hangisi Olağanüstü hal ilanı sebepleri arasında gösterilemez?**

A) Savaş hali, savaşı gerektirecek bir durumun baş göstermesi
B) Erken seçim
C) Doğal afet ve salgın hastalık
D) Ayaklanma, rejime ve vatana karşı kalkışma, ülke ve milletin bölünmezliğine karşı iç ve dıştan tehlikeye düşürecek şiddet hareketleri
E) Anayasal düzeni veya temel hak ve hürriyetleri ortadan kaldırmaya yönelik şiddet hareketleri

12. **1982 Anayasası'na göre olağanüstü hal ilan etmeye yetkili makam aşağıdakilerden hangisidir?**

A) Milli Savunma Bakanı
B) Cumhurbaşkanı
C) TBMM Başkanı
D) Milli Güvenlik Kurulu
E) Genelkurmay Başkanı

13. I. Cumhurbaşkanı
II. TBMM Başkanı
III. En yaşlı cumhurbaşkanı yardımcısı

1982 Anayasası'na göre, Milli Güvenlik Kurulunun gündemini yukarıdakilerden hangisi düzenler?

A) Yalnız I B) Yalnız II C) Yalnız III
D) I ve III E) I, II ve III

14. **1982 Anayasası'na göre olağanüstü hal en fazla ne kadar süreliğine ilan edilebilir?**

A) 10 ay B) 6 ay C) 4 ay
D) 1 yıl E) 5 ay

MURAT YAYINLARI

15. **1982 Anayasası'na göre olağanüstü hal ilanı için aşağıda yer alan ifadelerden hangisi doğru değildir?**

A) Olağanüstü hallerde vatandaşlara para, mal ve ek çalışma yükümlülükleri getirilebilir.

B) Olağanüstü hallerde cumhurbaşkanı, olağanüstü halin gerekli kıldığı konularda cumhurbaşkanlığı kararnamesi çıkarabilir.

C) Olağanüstü hallerde çıkarılan cumhurbaşkanlığı kararnamesi Resmi Gazetede yayımlanır ve aynı gün meclisin onayına sunulur.

D) Savaş ve mücbir sebeplerle TBMM'nin toplanamaması hariç olağanüstü hal sırasında çıkarılan cumhurbaşkanlığı kararnamesi üç ay içersinde Mecliste görüşülür ve karara bağlanır.

E) Olağanüstü hal cumhurbaşkanlığı kararnameleri acil durumlarda meclisin onayına hiç sunulmadan da yürürlüğe girebilir.

16. I. Cumhurbaşkanlığına bağlıdır.
II. Silahlı kuvvetleri denetleyebilir.
III. Yargı organlarını denetleyemez.
IV. Dokuz üyesi bulunur.

Devlet Denetleme Kurulu ile ilgili yukarıda verilenlerde hangileri doğrudur?

A) I, II ve III B) II, III ve IV
C) I, II, III ve IV D) I, III ve IV
E) I ve III

17. I. Türk vatandaşlığına alınma kararı
II. Ekonomik ve Sosyal Konsey başkanlığını yürütmek
III. Seçimleri yenilemek
IV. TBMM'yi doğrudan doğruya olağanüstü toplantıya çağırmak

Yukarıda verilenlerden hangileri cumhurbaşkanının görev ve yetkileri arasında yer alır?

A) I, II, III ve IV B) I, II ve III
C) II, III ve IV D) III ve IV
E) II ve IV

18. I. Yargıtay Cumhuriyet Başsavcısı
II. Sayıştay Başkanı
III. Rektör
IV. Anayasa Mahkemesi Başkanı

Yukarıdakilerden hangilerini seçme yetkisi cumhurbaşkanına aittir?

A) I ve II B) II ve III C) I ve III
D) II ve IV E) III ve IV

19. – Aksi belirtilmemişse Resmi Gazete'de yayımlandığı gün yürürlüğe girer.
– Yürütme yetkisine ilişkin konularda çıkarılır.

Yukarıda özellikleri verilen norm aşağıdakilerden hangisidir?

A) Genelge
B) Anayasa değişikliği kanunları
C) Yönetmelik
D) Cumhurbaşkanlığı kararnameleri
E) Kanun

20. **Aşağıdakilerden hangisi cumhurbaşkanlığına bağlı bir kurum ya da kuruluş değildir?**

A) Diyanet İşleri Başkanlığı
B) Milli İstihbarat Teşkilatı Başkanlığı
C) Emniyet Genel Müdürlüğü
D) Savunma Sanayi Başkanlığı
E) Devlet Denetleme Kurulu

MURAT YAYINLARI

/muratyayincilik

Açıklamalar • TEST 2

1. **E** 2001 Anayasa değişikliğine göre, seçim sisteminde gerçekleştirilecek değişiklikler kanun ile olur bu değişiklikler üzerinden bir yıl geçmeden yapılacak seçimlerde uygulanamaz.

2. **A** 1982 Anayasası'na göre, olağanüstü hal dönemlerinde çıkarılan cumhurbaşkanlığı kararnameleri Resmi Gazete'de yayımlandığı gün yürürlüğe girer ve aynı gün TBMM'nin onayına sunulur. Olağanüstü hal cumhurbaşkanlığı kararnamelerine yargı yolu kapalıdır. Olağanüstü hal cumhurbaşkanlığı kararnameleriyle sert çekirdekli haklar hariç tüm temel hak ve hürriyetlerde düzenleme yapılabilir.

3. **D** 1982 Anayasası'na göre, olağanüstü Cumhurbaşkanlığı kararnameleri 3 ay içinde TBMM'de görüşülüp karara bağlanamaz ise kendiliğinden yürürlükten kalkar.

4. **E** 1982 Anayasası'na göre bütçe kanun teklifini görüşüp kabul etme yetkisi TBMM'ye aittir. Cumhurbaşkanı, başkomutan sıfatıyla silahlı kuvvetlerin kullanılmasına karar verir, yabancı ülke temsilcilerini kabul eder; ülkemiz temsilcilerini yabancı ülkelere gönderir, milli güvenlikle ilgili gerekli tedbirleri alır, cumhurbaşkanı yardımcıları ile bakanları atar ve görevlerine son verir.

5. **E** Yönetmeliklerin iptali için Anayasa Mahkemesine değil Danıştay ve idare mahkemelerine dava açılır. Cumhurbaşkanı, bakanlıklar ve kamu tüzel kişileri, kendi görev alanlarını ilgilendiren, kanunların ve Cumhurbaşkanlığı kararnamelerinin uygulanmasını sağlamak üzere ve bunlara aykırı olmamak şartıyla, yönetmelik çıkarabilir. Hangi yönetmeliklerin Resmi Gazete'de yayımlanacağı kanunda belirtilir.
Yönetmelikler, yayımından sonra bir tarih belirlenmemişse, Resmi Gazete'de yayımlandıkları gün yürürlüğe girer.Yönetmelikler normlar hiyerarşisine göre kanun ve Cumhurbaşkanlığı kararnamesinin altındadır.

6. **B** 1982 Anayasası'nın 2017 yılı değişikliği ile Cumhurbaşkanı'nın Yüce divan yargılaması üç ay içinde tamamlanır, bu sürede tamamlanamazsa bir defaya mahsus olmak üzere üç aylık ek süre verilir, yargılama bu sürede kesin olarak tamamlanır.

7. **E** 1982 Anayasası'na göre, Cumhurbaşkanı; Kanunların, Türkiye Büyük Millet Meclisi İçtüzüğünün tümünün veya belirli hükümlerinin Anayasaya şekil veya esas bakımından aykırı oldukları gerekçesiyle Anayasa Mahkemesinde iptal davası açar. Milletlerarası anlaşmaları onaylar. Kanunların uygulanmasını sağlamak amacıyla ve bunlara aykırı olmamak koşuluyla yönetmelik çıkarabilir. Sürekli hastalık, sakatlık ve kocama sebebiyle kişilerin cezalarını hafifletir veya kaldırır. Radyo Televizyon Üst Kurulu üyelerinin tamamını TBMM seçer.

8. **E** 1982 Anayasası'na göre, yönetmelik çıkarma yetkisi; cumhurbaşkanı, bakanlıklar ve kamu tüzel kişilerine aittir.

9. **D** 1982 Anayasası'na göre, MGK Genel Sekreteri kurul toplantılarına katılır fakat doğal üyesi değildir. MGK üyeleri: Başkanı Cumhurbaşkanıdır. Cumhurbaşkanı bulunmadığı zaman Cumhurbaşkanı yardımcıları başkanlığında toplanır. Adalet Bakanı, Milli Savunma Bakanı, İçişleri Bakanı, Dışişleri Bakanı, Genelkurmay Başkanı, Kara Kuvvetleri Komutanı, Deniz Kuvvetleri Komutanı, Hava Kuvvetleri Komutanı.

10. **C** 1982 Anayasası'nın 2017 yılı değişikliği ile Milli Güvenlik Kurulunun tavsiye niteliğindeki kararları Cumhurbaşkanı'na iletilir çünkü ülkenin milli güvenliğinden TBMM'ye karşı Cumhurbaşkanı sorumludur.

MURAT YAYINLARI

11. **B** 1982 Anayasası'na göre, olağanüstü hal ilanını gerektirecek sebepler arasında erken seçim bulunmamaktadır. Savaş hali, savaşı gerektirecek bir durumun baş göstermesi, doğal afet ve salgın hastalık, ayaklanma, rejime ve vatana karşı kalkışma, ülke ve milletin bölünmezliğine karşı iç ve dıştan tehlikeye düşürecek şiddet hareketleri, Anayasal düzeni veya temel hak ve hürriyetleri ortadan kaldırmaya yönelik şiddet hareketleri anayasaya göre olağanüstü hal ilanını gerektiren sebeplerdendir.

12. **B** 1982 Anayasası'nın 2017 yılı değişikliği ile olağanüstü hal ilan etmeye yetkili makam Cumhurbaşkanı'dır. Cumhurbaşkanı yurdun bir bölümünde ya da tamamında en fazla altı aylığına olağanüstü hal ilan edebilir.

13. **A** 1982 Anayasası'nın 2017 yılı değişikliği ile Milli Güvenlik Kurulunun gündemini; Cumhurbaşkanı yardımcıları ve Genelkurmay Başkanının önerisi üzerine Cumhurbaşkanınca belirlenir.

14. **B** 1982 Anayasası'na göre olağanüstü hal yurdun belli bir bölümünde veya tamamında Cumhurbaşkanınca 6 aylığına ilan edilir. Süre yeterli olmazsa cumhurbaşkanının talebi üzerine TBMM olağanüstü hali her defasında 4 ay uzatabilir.

15. **E** 1982 Anayasası'nın 2017 yılı değişikliği ile cumhurbaşkanlığı kararnamesi olağanüstü halin gerekli kıldığı konularda çıkarılabilir. Önce Resmi Gazete'de yayımlanarak yürürlüğe girer aynı gün TBMM'nin onayına sunulur. TBMM'nin onayı gereklidir. Eğer savaş ve mücbir sebeplerle TBMM'nin toplanamaması hariç olağanüstü hal sırasında çıkarılan cumhurbaşkanlığı kararnamesi üç ay içersinde mecliste görüşülür ve karara bağlanır aksi durumda kendiliğinden yürürlükten kalkar.

16. **C** Devlet Denetleme Kurulu cumhurbaşkanlığına bağlıdır. Kurul biri başkan dokuz üyeden meydana gelir tüm atamaları cumhurbaşkanı yapar. DDK, cumhurbaşkanının talimatıyla idarenin hukuka uygunluğunu araştırır, denetler, inceler ve idari olarak soruşturur. DDK silahlı kuvvetleri denetleyebilir fakat yargı organlarını denetleyemez.

17. **A** Türk vatandaşlığına alınma kararını cumhurbaşkanı verir. Ekonomik ve Sosyal Konseyin başkanı cumhurbaşkanıdır. Cumhurbaşkanı, dilediği zaman seçimleri yenileme kararı alabilir. Cumhurbaşkanı, TBMM'yi doğrudan doğruya olağanüstü toplantıya çağırabilir.

18. **C** Yargıtay Cumhuriyet Başsavcısı ve rektörleri seçme yetkisi cumhurbaşkanına aittir. Sayıştay başkanını meclis, Anayasa Mahkemesi başkanını mahkeme üyeleri kendi arasından seçer.

19. **D** Cumhurbaşkanlığı kararnameleri, cumhurbaşkanı tarafından yürütme yetkisine ilişkin konularda çıkarılır. Bu kararnameler, metninde herhangi bir yürürlük tarihi belirtmiyorsa Resmi Gazete'de yayımlandığı gün yürürlüğe girer.

20. **C** Emniyet genel müdürlüğü İçişleri Bakanlığına bağlıdır. Diyanet İşleri Başkanlığı, Milli İstihbarat Teşkilatı Başkanlığı, Savunma Sanayi Başkanlığı ve Devlet Denetleme Kurulu Cumhurbaşkanlığına bağlıdır.

MURAT YAYINLARI

/muratyayincilik

Yargı • TEST 1

1. I. Hakimler ve Savcılar Kurulu
II. Uyuşmazlık Mahkemesi
III. Sayıştay
IV. Danıştay

Yukarıdakilerden hangileri yüksek mahkeme değildir?

A) I ve II B) II ve III C) I ve III
D) II ve IV E) III ve IV

2. **Aşağıdakilerden hangisi adli yargı organları arasında yer almamaktadır?**

A) Tüketici mahkemesi
B) İdare mahkemesi
C) Ağır ceza mahkemesi
D) Aile mahkemesi
E) Ticaret mahkemesi

3. **1982 Anayasası'na göre aşağıdakilerden hangisi Hakimler Savcılar Kurulu'nun (HSK) başkanıdır?**

A) Adalet Bakanı
B) Anayasa Mahkemesi Başkanı
C) Uyuşmazlık Mahkemesi Başkanı
D) Yargıtay Başkanı
E) Danıştay Başkanı

4. **İdari yargının en son temyiz mercii, yüksek mahkemesi aşağıdakilerden hangisidir?**

A) Yargıtay
B) Danıştay
C) Uyuşmazlık Mahkemesi
D) Sayıştay
E) HSK

5. **Adli yargının son temyiz mercii, yüksek mahkemesi aşağıdakilerden hangisidir?**

A) Yargıtay
B) Danıştay
C) Anayasa Mahkemesi
D) Uyuşmazlık Mahkemesi
E) Hakimler ve Savcılar Kurulu

6. **Yüce divan sıfatı ile yargılama yapan yüksek mahkeme aşağıdakilerden hangisidir?**

A) Yargıtay
B) Danıştay
C) Sayıştay
D) Anayasa Mahkemesi
E) Uyuşmazlık Mahkemesi

7. **Cumhurbaşkanlığı kararnamesi, kanun, meclis iç tüzüğü, anayasa değişikliği için iptal davası aşağıdaki mahkemelerden hangisine açılır?**

A) Anayasa Mahkemesi
B) Yargıtay
C) Danıştay
D) Sayıştay
E) Uyuşmazlık Mahkemesi

8. **Siyasi partilerin mali denetimini aşağıdakilerden hangisi yapmaktadır?**

A) Anayasa Mahkemesi
B) Yargıtay
C) Danıştay
D) Sayıştay
E) Uyuşmazlık mahkemesi

MURAT YAYINLARI

9. **Temel hak ve özgürlüklerin devlet tarafından ihlali durumunda 2010 değişikliği ile bireysel başvurunun yapılacağı mahkeme aşağıdakilerden hangisidir?**

A) Uyuşmazlık Mahkemesi
B) Anayasa Mahkemesi
C) Yargıtay
D) Danıştay
E) HSK

10. **Kamu kurumlarının, sosyal güvenlik kurumlarının, mahalli idarelerin mali denetimini TBMM adına aşağıdakilerden hangisi yapmaktadır?**

A) Sayıştay
B) Anayasa Mahkemesi
C) Danıştay
D) Yargıtay
E) İdare mahkemeleri

11. **Sayıştay'ın başkan ve üyelerini aşağıdakilerden hangisi seçmektedir?**

A) Anayasa Mahkemesi
B) TBMM
C) Hazine ve Maliye Bakanı
D) Cumhurbaşkanı
E) Danıştay

12. **Hakim ve Savcıların atamalarını yapan, özlük haklarını düzenleyen aşağıdakilerden hangisidir?**

A) Anayasa Mahkemesi
B) TBMM
C) Cumhurbaşkanı
D) Hakimler ve Savcılar Kurulu
E) Adalet Bakanlığı

13. **Aşağıdakilerden hangisinin başkanını Cumhurbaşkanı seçmektedir?**

A) Anayasa Mahkemesi
B) Yargıtay
C) Danıştay
D) Sayıştay
E) Hiçbir yüksek mahkemenin başkanını seçemez.

14. I. İnkılap kanunları
II. Bütçe kanunu
III. OHAL cumhurbaşkanlığı kararnameleri
IV. Milletlerarası anlaşmalar

Yukarıdakilerden hangilerine yargı yolu açıktır?

A) Yalnız II
B) I ve II
C) II, III ve IV
D) II ve IV
E) I ve III

MURAT YAYINLARI

/muratyayincilik

15. 1982 Anayasası'nda 2017 değişikliği ile Anayasa Mahkemesinin üye sayısı kaçtır?

A) 12 asıl B) 15 asıl
C) 22 asıl 11 yedek D) 11 asıl 4 yedek
E) 5 asıl 5 yedek

16. Hakimler Savcılar Kurulu (HSK) üye sayısı kaçtır?

A) 13 asıl B) 22 asıl
C) 11 asıl D) 17 asıl
E) 10 asıl 5 yedek

17. 2017 Anayasa değişikliği ile disiplin mahkemeleri dışında askeri mahkemeler kurulamaz. Ancak asker kişilerin görevleriyle ilgili olarak işledikleri suçlara ait davalara bakmakla görevli askeri mahkemeler aşağıdaki hallerin hangisinde kurulabilir?

A) Ayaklanma
B) Savaş hali
C) Kalkışma
D) Seferberlik
E) Rejim karşıtı eylemler

18. 2017 Anayasa değişikliği ile "adli ve idari yargı mercileri arasındaki görev ve hüküm uyuşmazlıklarını çözmek" **şeklinde değiştirilen ve görev tanımından askeri yargı ifadesi çıkarılan yargı mercii aşağıdakilerden hangisidir?**

A) Anayasa Mahkemesi
B) Danıştay
C) Hakimler ve Savcılar Kurulu
D) Yargıtay
E) Uyuşmazlık Mahkemesi

19. Aşağıdakilerden hangisinin kararlarına yargı yolu kapalı değildir?

A) Yüksek Hakem Kurulu
B) Yüksek Seçim Kurulu
C) Kamu Görevlileri Hakem Kurulu
D) Tahkim Kurulu
E) HSK'nin meslekten çıkarma cezaları

20. I. TBMM İç Tüzüğü
II. Savaş kararı
III. Milletvekili dokunulmazlığının kaldırılması kararı
IV. Sayıştay Başkan ve üyelerinin seçilmesi kararı
V. Milletvekili üyeliğinin düşürülmesi kararı

Yukarıdaki TBMM görev ve yetkilerinden hangileri Anayasa Mahkemesi tarafından denetlenir?

A) I ve II B) III ve IV
C) Yalnız IV D) I, III ve V
E) IV ve V

MURAT YAYINLARI

Açıklamalar • TEST 1

1. **C** 1982 Anayasası'nda adı geçen yüksek mahkemeler; Anayasa Mahkemesi, Yargıtay, Danıştay ve Uyuşmazlık Mahkemesidir. Hakimler ve Savcılar Kurulu ile Sayıştay yüksek mahkeme değildir.

2. **B**
   - Tüketici Mahkemesi,
   - Ağır Ceza Mahkemesi,
   - Aile Mahkemesi,
   - Ticaret Mahkemesi,
   - Bölge Adliye Mahkemesi
   - Yargıtay Adli Yargı organları arasında yer almaktadır. Fakat İdare Mahkemesi İdari Yargı organları arasında yer almaktadır.

3. **A** 1982 Anayasası'da Hâkimler ve Savcılar Kurulu'nun (HSK) başkanı Adalet Bakanı'dır. Adalet Bakanlığının ilgi bakan yardımcısı da kurulun doğal üyesidir.

4. **B** İdari yargının en son temyiz mercii, yüksek mahkemesi Danıştaydır. Bölge İdare Mahkemesi üst derece, Vergi ve İdare Mahkemeleri ise İdari Yargı Kolunun ilk derece mahkemeleridir.

5. **A** Adli yargının son temyiz mercii, yüksek mahkemesi Yargıtaydır. Bölge Adliye Mahkemesi üst derece, Asliye Ceza, Ağır Ceza, Asliye Hukuk, Sulh Hukuk, Asliye Ticaret, Çocuk, İş Mahkemeleri ise Adli Yargının ilk derece mahkemeleridir.

6. **D** Yüce divan sıfatı ile yargılama yapan yüksek mahkeme Anayasa Mahkemesidir. Yüce Divan kararlarına yeniden inceleme başvurusu yapılabilir. Genel Kurulun yapacağı inceleme sonrası karar kesinleşir.

7. **A** Cumhurbaşkanlığı kararnameleri, kanun, meclis iç tüzüğü için hem şekil bakımından hem de esas bakımından; anayasa değişikliği için sadece şekil bakımından iptal davası Anayasa Mahkemesine açılır.

8. **A** Siyasi partilerin mali denetimini Anayasa Mahkemesi yapmaktadır. Anayasa Mahkemesi mali denetim konusunda Sayıştay'dan yardım sağlar.

9. **B** Temel hak ve özgürlüklerin devlet tarafından ihlali durumunda 2010 değişikliği ile bireysel başvurunun yapılacağı mahkeme Anayasa Mahkemesidir.

10. **A** Kamu kurumlarının, sosyal güvenlik kurumlarının, mahalli idarelerin mali denetimini TBMM adına Sayıştay yapmaktadır.

MURAT YAYINLARI

/muratyayincilik

11. B Sayıştay'ın başkan ve üyelerini TBMM Genel Kurulu seçmektedir. Sayıştay denetimlerini TBMM adına yapar, Sayıştay'ın kararları için İdari Yargı Yoluna başvurulamaz.

12. D Hâkim ve Savcıların atamalarını yapan, özlük haklarını düzenleyen Hâkimler ve Savcılar Kuruludur.

13. E Cumhurbaşkanı hiçbir yüksek mahkemenin başkanını seçemez. Cumhurbaşkanı Anayasa Mahkemesine 12 üye, HSK'ye 4 üye seçer. Danıştay üyelerinin 4'te birini seçer. Yargıtay Cumhuriyet Başsavcısı ve vekilin seçer.

14. A Bütçe kanunları için Anayasa Mahkemesine iptal davası açılabilir. Fakat inkılap kanunlarına, olağanüstü dönem cumhurbaşkanlığı kararnamelerine ve milletlerarası anlaşmalara yargı yolu kapalıdır.

15. B 1982 Anayasası'nda 2017 yılı değişikliği ile Anayasa Mahkemesinin üye sayısı 15 asıl olarak düzenlenmiştir. Düzenlemeden önce mahkemenin üye sayısı 17 asıl idi.

16. A 1982 Anayasası'nda 2017 yılı değişikliği ile Hakimler Ve Savcılar Kurulunun üye sayısı 13 asıldır. Düzenlemeden önce kurulun üye sayısı 22 asıl 12 yedek idi.

17. B 1982 Anayasası'nın 2017 yılı değişikliği ile disiplin mahkemeleri dışında askeri mahkemeler kurulamaz. Ancak asker kişilerin görevleriyle ilgili olarak işledikleri suçlara ait davalara bakmakla görevli askeri mahkemeler sadece savaş halinde kurulur.

18. E 1982 Anayasası'nın 2017 yılı değişikliği ile "adli ve idari yargı mercileri arasındaki görev ve hüküm uyuşmazlıklarını çözmek" şeklinde değiştirilen ve görev tanımından askeri yargı ifadesi çıkarılan yargı mercii Uyuşmazlık Mahkemesidir.

19. E 1982 Anayasası'nda 2010 değişikliği ile HSK'nin sadece meslekten çıkarma cezalarına karşı yargı yolu açılmıştır.

20. D Parlamento kararları Anayasa Mahkemesinin denetim alanı içinde yer almamaktadır. Fakat bu kuralın üç istisnası vardır. Bunlar:

- TBMM İç Tüzüğü
- Milletvekili dokunulmazlığının kaldırılması kararı
- Milletvekili üyeliğinin düşürülmesi kararı

MURAT YAYINLARI

Yargı
• TEST 2

1. **1982 Anayasası'na göre, aşağıdakilerden hangisi yüce divanda yargılanabilir?**

   A) Milletvekili
   B) Jandarma Genel Komutanı
   C) TBMM Başkan vekilleri
   D) Cumhurbaşkanı yardımcıları
   E) Bakan yardımcıları

2. **Anayasamıza göre yargıyla ilgili olarak aşağıda verilen ifadelerden hangisi doğru değildir?**

   A) Yeni mahkeme kurulması kanun ile mümkündür.
   B) Yargı bağımsız ve tarafsızdır.
   C) Bütün mahkemeler kararlarını gerekçeli olarak açıklar.
   D) Disiplin mahkemeleri dışında askeri mahkemeler kurulabilir.
   E) Duruşmalar herkese açıktır.

3. **Aşağıdakilerden hangisi Anayasa Mahkemesinin görev ve yetkilerinden biri değildir?**

   A) Bireysel başvuruları karara bağlamak
   B) Siyasi partilerin kapatılması hakkındaki davalara bakmak
   C) Kanun, cumhurbaşkanlığı kararnamelerinin hem şekil hem de esas bakımından denetlemek
   D) Yargıtay Cumhuriyet Başsavcısını seçmek
   E) Yasama dokunulmazlığının kaldırılması ile ilgili yapılan iptal başvurularını karara bağlamak

4. **Anayasa Mahkemesi siyasi partilerin mali denetimini yaparken aşağıdakilerden hangisinin yardımına başvurabilir?**

   A) Danıştay
   B) Yargıtay Başkanı
   C) Sayıştay
   D) Kamu başdenetçisi
   E) Hazine ve Maliye Bakanı

5. **1982 Anayasası'na göre, Anayasa Mahkemesi üyelerinin ve başkanının görev süresi aşağıdakilerden hangisinde doğru olarak verilmiştir?**

   A) 5 yıl – 12 yıl
   B) 4 yıl – 12 yıl
   C) 3 yıl – 10 yıl
   D) 5 yıl – 15 yıl
   E) 4 yıl – 10 yıl

6. **1982 Anayasası'na göre, cumhurbaşkanlığı kararnamelerinin şekil bakımından denetimi için iptal davası kaç gün içinde açılır?**

   A) 30 B) 20 C) 10 D) 25 E) 60

7. **1982 Anayasası'na göre, kanunların şekil bakımından denetimi için aşağıdakilerden hangisi iptal davası açabilir?**

   A) TBMM üye tam sayısının en az beşte biri
   B) Ana muhalefet parti grubu
   C) TBMM Başkanı
   D) Anayasa Mahkemesi Başkanı
   E) Yargıtay Cumhuriyet Başsavcısı

MURAT YAYINLARI

/muratyayincilik

8. **1982 Anayasası'nın 2017 yılı değişikliği ile Cumhurbaşkanı, Hakimler ve Savcılar Kuruluna aşağıdakilerin hangisinden üye seçer?**

A) Birinci sınıf idari yargıya mensup hakim ve savcılar arasından
B) Yargıtaydan
C) Danıştaydan
D) Sayıştaydan
E) Türkiye Adalet Akademisinden

9. **Seçimden önce, seçim süresince ve seçimden sonra, seçim konularıyla ilgili bütün şikâyet ve itirazları inceleme ve kesin karara bağlamada yetkili olan ve seçimlerin genel yönetim ve denetimini gerçekleştirme görevinden sorumlu kurul olarak yedi asıl dört yedek üyesi olan ve üyelerinin altısı Yargıtaydan beşi Danıştaydan gelen yüksek mahkeme olmadığı halde kararları kesin olan kurul aşağıdakilerden hangisidir?**

A) Yüksek Hakem Kurulu
B) Yüksek Seçim Kurulu
C) Kamu Görevlileri Hakem Kurulu
D) HSK
E) Tahkim Kurulu

10. **Hakimler ve Savcılar Kurulu ile ilgili aşağıdaki ifadelerden hangisi yanlıştır?**

A) Kurulun daire sayısı ikidir.
B) Kurul on üç üyeden oluşur.
C) Kurulun yedi üyesini TBMM seçer.
D) Kurulun başkanı Adalet Bakanı'dır.
E) Kurul genel sekreteri doğal üyedir.

11. **1982 Anayasası'nın 2017 yılı değişikliği ile Hakimler ve Savcılar Kurulu'na yedi üye seçme hakkı aşağıdakilerden hangisine tanınmıştır?**

A) Anayasa Mahkemesi
B) Danıştay
C) Cumhurbaşkanı
D) TBMM
E) Adalet Bakanı

12. **1982 Anayasası'na göre, aşağıdakilerden hangisi herhangi bir suç işlediği gerekçesiyle Yüce Divan'da yargılanabilir?**

A) Cumhurbaşkanı yardımcıları
B) TBMM Başkanı
C) Cumhurbaşkanı
D) Genelkurmay Başkanı
E) Adalet Bakanı

13. **1982 Anayasası'na göre, somut norm denetimine konu olan normlar aşağıdakilerden hangisinde doğru olarak verilmiştir?**

A) Kanun ve cumhurbaşkanlığı kararnameleri sadece esas bakımından
B) Kanun hem esas hem de şekil; cumhurbaşkanlığı kararnameleri hem esas hem de şekil bakımından
C) Anayasa değişikliği sadece şekil bakımından
D) Meclis iç tüzüğü hem esas hem de şekil bakımından; kanun hem esas hem de şekil bakımından
E) Kanun sadece şekil bakımından; cumhurbaşkanlığı kararnameleri sadece şekil bakımından

14. I. İdari davalara bakmak
II. Kamu imtiyaz sözleşmeleri hakkından iki ay içinde düşünce belirtmek
III. Cumhurbaşkanlığı kararnamelerini iptal etmek

Yukarıda verilenlerden hangileri Danıştay'ın görev ve yetkileri arasında gösterilebilir?

A) Yalnız I B) Yalnız II C) Yalnız III
D) I ve II E) I, II ve III

MURAT YAYINLARI

15. Hâkimler görevlerinde bağımsızdır. Hâkim ve savcılar görevlerini anayasaya, kanuna, hukuka uygun olarak vicdani kanaatlerine göre hüküm verirler. Hâkim ve Savcılar hiçbir makamdan, kişiden, organdan emir, talimat, tavsiye almazlar.

Yukarıda tanımı verilen kavram aşağıdakilerden hangisidir?

A) Hakimlik ve Savcılık Teminatı
B) Mahkemelerin Bağımsızlığı
C) Kanuni Hakim Güvencesi
D) Mahkemelerin Dokunulmazlığı
E) Kuvvetler Ayrılığı İlkesi

16. **1982 Anayasası'na göre yargı yetkisi Türk Milleti adına aşağıdakilerden hangisi tarafından kullanılır?**

A) Hakimler ve Savcılar Kurulu
B) Anayasa Mahkemesi
C) Adliye Mahkemeleri
D) Danıştay ve Yargıtay
E) Bağımsız ve Tarafsız Mahkemeler

17. **Yüce Divanda savcılık görevi ile ilgili aşağıdakilerden hangisi doğrudur?**

A) Anayasa Mahkemesinin Başsavcısı olmadığı için Yüce Divanda savcı bulunmaz.
B) Cumhuriyet Başsavcısı vekili Yüce Divanda Savcılık yapabilir.
C) Danıştay Başsavcısı, Yüce Divanda Savcılık yapar.
D) Askeri Yargıtay Başsavcısı, Yüce Divanda Savcılık yapar.
E) Hakimler ve Savcılar Kurulu, Yüce Divan Savcısını üye tam sayısının salt çoğunluğu ile seçer.

18. **1982 Anayasası'na göre, herhangi bir mahkemede görülen davada uygulanan kanun veya cumhurbaşkanlığı kararnamelerinin hükümleri için Anayasa Mahkemesine yapılan somut norm denetim başvurusunu mahkeme işin esasına girerek red kararı verirse üzerinden ne kadar süre geçmeden aynı hükümler için Anayasa Mahkemesine itirazda bulunulamaz?**

A) 10 yıl B) 5 ay C) 1 yıl D) 2 yıl E) 3 yıl

19. **1982 Anayasası'nın 2017 yılı değişikliği ile Hakimler ve Savcılar Kurulu'nun daire sayısı aşağıdakilerin hangisinde doğru olarak verilmiştir?**

A) Yedi B) İki C) Dört D) Üç E) Bir

20. **Cumhurbaşkanlığı kararnamelerinin şekil bakımından Anayasaya aykırılığı iddiasıyla Anayasa Mahkemesine kaç gün içinde dava açılabilir?**

A) 30 B) 20 C) 10 D) 60 E) 35

MURAT YAYINLARI

/muratyayincilik

Açıklamalar • TEST 2

1. **D** 1982 Anayasası'na göre, cumhurbaşkanı yardımcıları görevleriyle ilgili işledikleri suçlardan dolayı yüce divanda yargılanır. Cumhurbaşkanı, bakanlar, Uyuşmazlık Mahkemesi hariç yüksek mahkemelerin başkan, başsavcı ve üyeleri, Hakimler ve Savcılar Kurulu ve Sayıştay'ın başkan ve üyeleri, Genelkurmay Başkanı, TBMM Başkanı, Kara, Hava, Deniz kuvvet komutanları yüce divanda yargılanır.

2. **D** 1982 Anayasası'nın 2017 yılı değişikliği ile disiplin mahkemeleri dışında askeri mahkemeler kurulamaz. 2017 yılı anayasa değişikliği ile yargı bağımsız ve tarafsızdır hükmüne "ve tarafsızdır" ibaresi eklenmiştir. Duruşmalar herkese açıktır. Bütün mahkemeler kararlarını gerekçeli olarak açıklar. Yeni bir mahkeme kanun ile kurulur.

3. **D** Yargıtay Cumhuriyet Başsavcısını seçme yetkisi Cumhurbaşkanına aittir.
Siyasi partilerin kapatılması davalarına bakma, siyasi partilerin mali denetimini yapma, dokunulmazlığı kaldırılan ve milletvekilliği düşürülen vekillerin iptal başvurularını karara bağlama, bireysel başvuruları karara bağlama, Uyuşmazlık Mahkemesi başkanını seçme, soyut ve somut norm denetimi yapma görev ve yetkisi Anayasa Mahkemesine aittir.

4. **C** Anayasa Mahkemesi siyasi partilerin mali denetimini yaparken Sayıştay yardımcı olur.

5. **B** 1982 Anayasası'na göre, Anayasa Mahkemesi üyeleri on iki yıl için seçilir ve görev süresi dolan üye aynı göreve yeniden seçilemez. Anayasa Mahkemesi üyeleri kendi arasından gizli oy ve salt çoğunluk ile dört yıl için bir başkan iki de başkan vekili seçer. Görev süresi dolan başkan aynı göreve yeniden seçilebilir.

6. **E** 1982 Anayasası'na göre, olağanüstü dönem cumhurbaşkanlığı kararnamelerine yargı yolu kapalıdır. Olağan dönem cumhurbaşkanlığı kararnamelerinin hem şekil hem de esas bakımından denetimi için normun Resmi Gazete'de yayımlanmasından itibaren altmış gün içinde Anayasa Mahkemesine iptal davası açılır. Dava açma yetkisi, meclis üye tam sayısının en az beşte biri (120 mv.) ve TBMM'de en fazla üyeye sahip iki siyasi parti grubuna aittir.

7. **A** 1982 Anayasası'na göre, kanunların şekil bakımından denetimi için Anayasa Mahkemesine iptal davası açma yetkisi cumhurbaşkanı ve meclis üye tam sayısının en az beşte birine (120 mv.) aittir. Dava normun Resmi Gazete'de yayımlanmasından itibaren on gün içinde açılır.

8. **A** 1982 Anayasası'nın 2017 yılı değişikliği ile Cumhurbaşkanı HSK'ye dört üye seçer. Üyelerin üçünü birinci sınıf adli yargıya mensup hakim ve savcılar arasından; birini birinci sınıf idari yargıya mensup hakim ve savcılar arasından seçer.

9. **B** Seçimlerin genel yönetim ve denetimini gerçekleştirme görevinden sorumlu kurul olarak yedi asıl dört yedek üyesi olan ve üyelerinin altısı Yargıtay'dan beşi Danıştay'dan gelen yüksek mahkeme olmadığı halde kararları kesin olan kurul Yüksek Seçim Kurulu'dur.

10. **E** Hakimler ve Savcılar Kurulu üyeleri 4 yıl için seçilir ve görev süresi dolan üye tekrar seçilebilir. 2017 yılı anayasa değişikliği ile kurulun adındaki yüksek ibaresi çıkarılmıştır. 2017 anayasa değişikliği ile kurul 13 üyeden oluşur ve iki daire halinde çalışır. 2017 yılı anayasaya değişikliği ile TBMM kurula 7 üye seçer. Kurulun başkanı Adalet Bakanı'dır, bakanın ilgili yardımcısı da kurulun doğal üyesidir.

MURAT YAYINLARI

11. D 1982 Anayasası'nın 2017 yılı değişikliği ile Hakimler ve Savcılar Kurulu'na TBMM yedi üye seçer. TBMM bu üyelerin; üçünü Yargıtay üyeleri, birini Danıştay üyeleri, üçünü üniversitelerin hukuk dallarında görev yapan öğretim üyeleri ve avukatlar arasından seçer.

12. C 1982 Anayasası'na göre, Yüce Divan'da her türlü suç işlediği iddiasıyla yargılanabilen tek merci cumhurbaşkanıdır. Cumhurbaşkanı dışındakiler Yüce Divan'da sadece görevleriyle ilgili suçlardan ötürü yargılanmaktadırlar.

13. A 1982 Anayasası'na göre, Anayasa Mahkemesinin somut norm denetiminin konusunu teşkil eden normlar kanun ve cumhurbaşkanlığı kararnameleridir. Bu normların sadece esas bakımından denetimi söz konusudur.

14. D Cumhurbaşkanlığı kararnamelerinin iptali için dava Anayasa Mahkemesine açılır. Danıştay, idari davalara bakar, kamu imtiyaz sözleşmeleri hakkında iki ay içinde görüş bildirir.

15. B Mahkemelerin Bağımsızlığı: Hakimler görevlerinde bağımsızdır. Hâkim ve savcılar görevlerini anayasaya, kanuna, hukuka uygun olarak vicdani kanaatlerine göre hüküm verirler. Hâkim ve savcılar hiçbir makamdan, kişiden, organdan emir, talimat, tavsiye almazlar.

16. E Anayasa'nın dokuzuncu maddesine göre yargı yetkisi, Türk Milleti adına bağımsız ve tarafsız mahkemelerce kullanılır.

17. B Anayasa'ya göre, Yüce Divanda savcılık görevini Cumhuriyet Başsavcısı yada Cumhuriyet Başsavcı vekili yapar.

18. A 1982 Anayasası'na göre, herhangi bir mahkemede görülen davada uygulanan kanun veya cumhurbaşkanlığı kararnamelerinin hükümleri için Anayasa Mahkemesine yapılan somut norm denetim başvurusunu mahkeme işin esasına girerek red kararı verirse Anayasa Mahkemesi bu kararını Resmi Gazete'de yayımlar ve üzerinden 10 yıl geçmeden aynı hükümler için itirazda bulunulamaz.

19. B 1982 Anayasası'nın 2017 yılı değişikliği ile Hakimler ve Savcılar Kurulu iki daire halinde çalışır. Değişiklik öncesi kurul üç daire halinde çalışmakta idi. Kurul on üç üyeden meydana gelir. Üyeleri dört yıl için seçilir ve görev süresi dolan üye tekrar seçilebilir.

20. D Olağan dönem cumhurbaşkanlığı kararnamelerinin hem şekil hem de esas bakımından denetimini Anayasa Mahkemesi yapar. Bu denetim için açılacak dava normun Resmi Gazete'de yayımlanmasından itibaren 60 gün içinde açılır. Dava açabilenler ise 120 milletvekili ve TBMM'de en fazla üyeye sahip iki siyasi parti grubudur.

MURAT YAYINLARI

/muratyayincilik

Yargı
• TEST 3

1. 1982 Anayasası'na göre Cumhurbaşkanının Anayasa Mahkemesine seçtiği üyelerden hangisini doğrudan seçme yetkisi bulunmamaktadır?

A) Serbest avukat
B) Yargıtay
C) Üst kademe yönetici
D) Raportör
E) Birinci sınıf hakim ve savcı

2. 2017 yılı Anayasa değişikliği ile aşağıdakilerin hangisinden Hakimler ve Savcılar Kuruluna üye seçilmez?

A) Üniversitelerin hukuk dallarında görev yapan öğretim üyeleri
B) Birinci sınıf idari yargı hakim ve savcıları
C) Yargıtay
D) Danıştay
E) Türkiye Adalet Akademisi

3. I. Siyasi partilerin kapatılması kararı
II. Anayasa değişikliği kanunlarının şekil bakımından iptal edilmesi
III. Siyasi partilerin devlet yardımının kısmen veya tamamen kesilmesi kararı

1982 Anayasası'na göre, Anayasa Mahkemesi yukarıda verilenlerden hangilerini toplantıya katılan üyelerinin üçte ikisinin kabul oyu ile karara bağlamaktadır?

A) Yalnız I B) Yalnız II C) Yalnız III
D) I ve III E) I, II ve III

4. I. TBMM İç tüzüğünün hem şekil hem de esas bakımından denetimini yapar.
II. Yüce divan sıfatıyla yargılamalar yapar.
III. Uyuşmazlık Mahkemesi Başkanını seçer.

Anayasa Mahkemesi ile ilgili yukarıda verilenlerden hangileri doğrudur?

A) Yalnız I B) Yalnız II C) Yalnız III
D) I ve II E) I, II ve III

5. Anayasa değişikliği kanunlarının şekil denetimi için aşağıdakilerden hangisi dava açma hakkına sahiptir?

A) Cumhurbaşkanı
B) Cumhurbaşkanı yardımcıları
C) TBMM'de en fazla üyeye sahip iki siyasi parti grubu
D) TBMM Başkanı
E) Yargıtay Başkanı

6. 1982 Anayasası'na göre, Yargıtay Cumhuriyet Başsavcısını seçme yetkisi aşağıdakilerden hangisine aittir?

A) Adalet Bakanı
B) Hakimler ve Savcılar Kurulu
C) Cumhurbaşkanı
D) Anayasa Mahkemesi
E) TBMM genel kurulu

7. Üyelerinin tamamını Hakimler ve Savcılar Kurulunun seçtiği yargı mercii aşağıdakilerden hangisidir?

A) Yargıtay
B) Danıştay
C) Uyuşmazlık mahkemesi
D) Sayıştay
E) Anayasa mahkemesi

MURAT YAYINLARI

8. **Aşağıdaki yargı organlarından hangisinin başkanını Anayasa Mahkemesi seçer?**

A) Yargıtay
B) Uyuşmazlık Mahkemesi
C) Danıştay
D) Sayıştay
E) Yüksek Seçim Kurulu

9. **Aşağıdakilerden hangisi Hakimler ve Savcılar Kurulunun görevleri arasında değildir?**

A) Adalet Bakanlığının bir mahkemenin kaldırılması konusundaki teklifini karara bağlamak
B) Adalet Bakanlığının bir mahkemenin yargı çevresinin değiştirilmesi konusundaki teklifini karara bağlamak
C) Adalet Bakanlığının, bir mahkemenin kurulması konusundaki teklifini karara bağlamak
D) İdari ve adli yargıda görev yapan hakim ve savcıların atama ve nakil işlemlerini yapmak
E) İdari ve adli yargıdaki hakim ve savcıları birinci sınıfa ayırma işlemlerini yapmak

10. **Kamu tüzel kişilerinin bir yörede uygulanmak için çıkardıkları yönetmeliklerin yargısal denetimi aşağıdakilerin hangisi tarafından yapılır?**

A) Danıştay
B) Uyuşmazlık Mahkemesi
C) Bölge idare Mahkemesi
D) İdare Mahkemesi
E) Yargıtay

11. **Yüksek Seçim Kurulu ile ilgili aşağıdaki ifadelerden hangisi yanlıştır?**

A) Beş üyesi Danıştay, altı üyesi Yargıtay Genel Kurullarınca kendi üyeleri arasından seçilir.
B) Yedi asıl, dört yedek üyelidir.
C) Kararlarına karşı yargı mercilerine başvurulamaz.
D) Başkanı Anayasa Mahkemesince, kendi üyeleri arasından seçilir.
E) Cumhurbaşkanının seçim tutanağınıda kabul etme görev ve yetkileri arasındadır.

12. **Anayasa Mahkemesi kararlarıyla ilgili aşağıdaki ifadelerden hangisi yanlıştır?**

A) Kararları kesin ve bağlayıcıdır.
B) Kararlarının tümü Resmi Gazete'de yayımlanarak yürürlüğe girer.
C) İptal kararları geriye yürümez.
D) İptal kararlarının yürürlüğe girişini 5 yıl erteleyebilir.
E) Kararlarını gerekçeli olarak açıklar.

13. **Aşağıdakilerden hangisi Anayasa Mahkemesinin çalışma ve yargılama usulleri arasında yer almamaktadır?**

A) Mahkeme tüm kararlarını üye tam sayısının salt çoğunluğu ile alır.
B) İki bölüm ve genel kurul halinde çalışır.
C) Bölümlerde bireysel başvurular ele alınır.
D) Yüce divan sıfatıyla baktığı davalar dışında kalan işleri dosya üzerinden inceler.
E) Siyasi parti kapatma davalarında siyasi parti yetkilisinin savunmasını dinler.

MURAT YAYINLARI

/muratyayincilik

14. I. Uyuşmazlık Mahkemesi
II. Anayasa Mahkemesi
III. Yargıtay
IV. Danıştay

Yukarıda verilen yüksek mahkemelerden hangisi ilk ve son derece mahkemesi olarak görev yapar?

A) I ve II B) I ve III C) I, III, IV
D) I ve IV E) II, III, IV

15. **Aşağıdakilerden hangisi idari yargı kolunun ilk derece mahkemelerinden birisidir?**

A) İş mahkemesi
B) Asliye ticaret mahkemesi
C) Vergi mahkemesi
D) Aile mahkemesi
E) Asliye hukuk mahkemesi

16. **Aşağıdakilerden hangisi, adli yargıda bulunan mahkemelerden biri değildir?**

A) Çocuk Mahkemeleri
B) Aile Mahkemeleri
C) İş Mahkemeleri
D) Trafik Mahkemeleri
E) Vergi Mahkemeleri

17. **Danıştay'ın üyelerinin dörtte üçünü aşağıdakilerden hangisi seçer?**

A) Cumhurbaşkanı
B) TBMM
C) Hakimler ve Savcılar Kurulu
D) Yargıtay
E) Türkiye barolar birliği

18. **Aşağıdakilerden hangisi, Anayasa Mahkemesince sadece "şekil" bakımından denetlenir?**

A) Bütçe Kanunu
B) Ceza Kanunu
C) İnkilap kanunları
D) Anayasa değişikliği hakkında kanun
E) TBMM iç tüzüğü

19. **Danıştay başkanının görev süresi aşağıdakilerden hangisinde doğru olarak verilmiştir?**

A) 4 yıl B) 5 yıl C) 3 yıl
D) 2 yıl E) 10 yıl

20. **Aşağıdakilerden hangisi için Anayasa Mahkemesine dava açılabilir?**

A) Yönetmelik
B) Milletlerarası antlaşmalar
C) Cumhurbaşkanlığı kararnameleri
D) İnkılap kanunları
E) Olağanüstü dönem Cumhurbaşkanlığı kararnameleri

MURAT YAYINLARI

Açıklamalar • TEST 3

1. **B** 1982 Anayasası'na göre Cumhurbaşkanı Yargıtay'ın her boş yer için göstereceği üçer aday arasından Anayasa Mahkemesine üye seçer. Fakat serbest avukat, raportör, üst kademe yönetici ve birinci sınıf hakim ve savcılardan ise Anayasa Mahkemesine doğrudan üye seçer.

2. **E** 1982 Anayasası'nın 2010 yılı değişikliği ile Türkiye Adalet Akademisinden bir asıl bir yedek üye seçilme yetkisi getirilirken bu yetki 2017 yılı anayasa değişikliği ile kaldırılmıştır. Hakimler ve Savcılar Kuruluna birinci sınıf adli yargı hakim ve savcıları arasından üç üyeyi Cumhurbaşkanı, birinci sınıf idari yargı hakim ve savcıları arasından bir üyeyi Cumhurbaşkanı, Yargıtay üyeleri arasından üç üyeyi TBMM, Danıştay üyeleri arasından bir üyeyi TBMM, üniversitelerin hukuk dallarında görev yapan öğretim üyeleri ve avukatlar arasından üç üyeyi TBMM seçmektedir.

3. **E** 1982 Anayasası'na göre, Anayasa Mahkemesi kararlarını genellikle üyelerinin salt çoğunluğu ile alır. 2010 Anayasa değişikliğine göre, siyasi partilerin kapatılması ya da devlet yardımının kısmen veya tamamen kesilmesi, Anayasa değişikliğinin iptali kararlarını toplantıya katılan üyelerinin üçte ikisinin kabul oyu ile sonuca bağlamaktadır.

4. **E** TBMM İç tüzüğünün hem şekil hem de esas bakımından denetimini Anayasa Mahkemesi yapar. Anayasa Mahkemesi yüce divan sıfatıyla yargılama yapan bir yüksek mahkemedir. Uyuşmazlık Mahkemesinin başkanını Anayasa Mahkemesi kendi üyeleri içinden seçer.

5. **A** 1982 Anayasası'na göre, Anayasa değişikliği kanunları için sadece şekilden iptal davası açılabilir esas denetimi yoktur. Bunun için dava açma yetkisi cumhurbaşkanı ve en az 120 milletvekiline aittir. Dava ise normun Resmi Gazete'de yayımlanmasından itibaren 10 gün içinde açılır.

6. **C** 1982 Anayasası'na göre, Yargıtay Cumhuriyet Başsavcısını seçme yetkisi cumhurbaşkanına aittir. Savcı dört yıl için seçilir.

7. **A** 1982 Anayasası'na göre Yargıtay üyelerinin tamamını HSK seçer. Yargıtay Cumhuriyet Başsavcısını ve vekilini Cumhurbaşkanı seçer. Yargıtay başkanı ve başkan vekilini ise Yargıtay üyeleri kendi içinden seçer.

8. **B** 1982 Anayasası'na göre, Uyuşmazlık Mahkemesinin başkanını Anayasa Mahkemesi kendi üyeleri içinden seçer. Uyuşmazlık mahkemesi altı asıl ve altı yedek üyeden oluşur. Üçer asıl ve yedek üyeler Yargıtay ve Danıştay tarafından seçilir.

9. **C** HSK adli ve idari yargı hakim ve savcılarını mesleğe kabul etme, atama ve nakletme, geçici yetki verme, yükselme ve birinci sınıfa ayırma, kadro dağıtma, meslekte kalmaları uygun görülmeyenler hakkında karar verme, disiplin cezası verme, görevden uzaklaştırma işlemlerini yapar. Adalet Bakanlığının, bir mahkemenin kaldırılması veya yargı çevresinin değiştirilmesi konusundaki tekliflerini karara bağlar. (1982 Anayasası'na göre) Mahkeme kurma ise HSK'nin görev ve yetkileri arasında değildir. Adli ve idari yargıda mahkemeler Adalet Bakanlığınca kurulur.

10. **D** Yönetmelik, Cumhurbaşkanı, Bakanlıklar ve kamu tüzel kişilerince çıkarılabilir. Kamu tüzel kişilerinin bütün ülkede uygulanmak amacıyla yaptığı yönetmeliklerin yargısal denetimi de Danıştayda yapılır. Ancak kamu tüzel kişileri bir yörede uygulanmak amacıyla yönetmelik yapmışlarsa bunların denetimini İdare Mahkemesi yapar.

MURAT YAYINLARI

11. D Yüksek Seçim Kurulu Başkanı, kurul üyelerince seçilir. Başkanı Anayasa Mahkemesince kendi üyeleri arasından seçilen Yüksek Seçim Kurulu değil, uyuşmazlık mahkemesidir.

12. D Anayasa Mahkemesi iptal kararlarının yürürlüğe girişini ileri bir tarihe erteleyebilir bu tarih bir yılı geçemez. Mahkemenin kararları gerekçeli olarak açıklanır, kesindir, bağlayıcıdır ve Resmi Gazete'de yayımlanarak yürürlüğe girer. İptal kararları (kazanılmış haklara saygı ilkesi) geriye yürümez.

13. A Anayasa Mahkemesi kararlarını üye tam sayısının salt çoğunluğu ile alır. Ancak siyasi partiyi kapatırken veya hazine yardımından yoksun bırakırken Anayasa değişikliklerini iptal ederken toplantıya katılanların üçte ikisi ile karar alır.

14. A 1982 Anayasası'na göre Uyuşmazlık ve Anayasa Mahkemesi ilk ve son derece mahkemesi olarak görev yapmaktadır. Yargıtay'ın ve Danıştay'ın ise alt mahkemeleri bulunur. Örneğin vergi mahkemesi Danıştay'ın; Asliye Hukuk Mahkemesi ise Yargıtay'ın alt mahkemeleridir.

15. C Vergi mahkemesi ve idare mahkemesi idari yargı kolunun ilk derece mahkemeleridir. İdari yargı kolunun yüksek mahkemesi Danıştay, üst derece mahkemesi ise bölge idare mahkemesidir.

16. E İdare Mahkemeleri, Vergi Mahkemeleri, Bölge İdare Mahkemeleri idari yargıya dahil mahkemelerdir. Bunlar, kişilerle idare arasında çıkan uyuşmazlıklara bakmakla görevlidir.

17. C 1982 Anayasası'na göre Danıştay'ın üyelerinin dörtte üçünü HSK, dörtte birini ise Cumhurbaşkanı seçer. Danıştay başkanı, başkan vekilini ve baş savcısını ise üyeler kendi içinden seçer.

18. D Bütçe Kanunu, Ceza Kanunu ve TBMM iç tüzüğü Anayasa Mahkemesince hem şekil hem esas bakımından denetlenir. İnkılap kanunları ise Anayasa Mahkemesi denetimi dışındadır. Anayasa değişikliği ile ilgili kanunlar ise sadece şekil bakımından denetlenir.

19. A Danıştay başkanı, Danıştay üyeleri arasından genel kurul tarafından gizli oy ve salt çoğunlukla 4 yıl için seçilir. Görev süresi dolan başkanın tekrar aynı göreve seçilebilme hakkı bulunmaktadır.

20. C Yönetmelik için Danıştay ya da idare mahkemesine dava açılabilir. Milletlerarası antlaşmalara, inkılap kanunlarına, olağanüstü dönem Cumhurbaşkanlığı kararnamelerine yargı yolu kapalıdır. Cumhurbaşkanlığı kararnameleri için hem şekil bakımından hem de esas bakımından Anayasa Mahkemesinde dava açılabilir.

MURAT YAYINLARI

İnsan Hakları Hukuku
• TEST 1

1. **İnsan haklarının korunması, ayrımcılığın ortadan kaldırılması ve toplumdaki eşitlik anlayışının geliştirilmesine yönelik faaliyetlerde bulunan, 2016 yılında kanunla Türkiye'de ulusal önleme mekanizması olarak aşağıdakilerden hangisi görevlendirilmiştir?**

A) Türkiye İnsan Hakları ve Eşitlik Kurumu
B) Kamu Denetçiliği Kurumu
C) Yargıtay
D) İnsan Haklarını İnceleme Komisyonu
E) Bilgi Edinme ve Değerlendirme Kurulu

2. I. Dilekçe
II. Anayasa
III. İnsan haklarını inceleme

Yukarıda verilen TBMM komisyonlarından hangileri insan haklarını korumaya yönelik faaliyet gösterir?

A) Yalnız I B) Yalnız II C) Yalnız III
D) I ve III E) I, II ve III

3. **Aşağıdakilerden hangisi Türkiye'deki insan haklarıyla ilgili düzenlemeler arasında gösterilemez?**

A) Türkiye Avrupa İnsan Hakları Sözleşmesini 1954 yılında imzalamıştır.
B) 2010 Anayasa değişikliği ile Anayasa Mahkemesine temel hak ve hürriyetler için ilk kez bireylere "bireysel başvuru hakkı" getirilmiştir.
C) 2004 Anayasa değişikliği ile ilk kez " Kadınlar ve erkekler eşit haklara sahiptir ve devlet bu eşitliğin yaşama geçmesini sağlamakla yükümlüdür." hükmü getirilmiştir.
D) 2010 Anayasa değişikliği ile Ekonomik ve Sosyal Konsey kurulmuştur.
E) 2010 Anayasa değişikliği ile idarenin işleyişiyle ilgili şikayetler için Kamu Denetçiliği Kurumu kurulmuştur.

4. **Türkiye insan haklarının ihlali konusunda aşağıdaki yargı mercilerinden hangisinin zorunlu yargı yetkisini kabul etmiştir?**

A) Uluslararası Adalet Divanı
B) Uluslar arası Ceza Mahkemesi
C) Avrupa İnsan Hakları Mahkemesi
D) Avrupa Birliği Adalet Divanı
E) Uluslararası Adalet Topluluğu

5. **Hukuk devletine göre özgürlük kuraldır, sınırlandırma ise istisnai durumdur. Kullanılan aracın elverişli ve gerekli aynı zamanda araç ile amaç arasında dengeli bir oranın olmasını öngören sınırlandırma ilkesi aşağıdakilerden hangisidir?**

A) Hakkın özüne dokunmama
B) Ölçülülük
C) Demokratik toplum gereklerine uygunluk
D) Özel sebeplere dayanma
E) Anayasanın sözüne ve ruhuna uygunluk

6. **Avrupa Güvenlik Şartı'nın 1999 yılında imzalandığı zirve aşağıdakilerden hangisidir?**

A) Helsinki Zirvesi
B) İstanbul Zirvesi
C) Kopenag Zirvesi
D) Dublin Zirevesi
E) Maastricth Zirvesi

7. **Avrupa Birliği Temel Haklar Şartı'nın hazırlanışında aşağıdakilerden hangisinin etkisi olmuştur?**

A) Avrupa İnsan Hakları Sözleşmesi
B) İnsan Hakları Evrensel Bildirisi
C) Haklar Bildirisi
D) Cenevre Bildirisi
E) İnsan ve Yurttaşlık Hakları Bildirisi

MURAT YAYINLARI

/muratyayincilik

8. **Avrupa Birliği'nin insan hakları konusunda attığı ilk ve en önemli adım aşağıdakilerden hangisidir?**

A) Avrupa Toplulukları Adalet Divanı'nın insan hakları konusunda yetkili kılınması
B) Amsterdam Anlaşması'nın yürürlüğe girmesi
C) Nice Anlaşması'nın yürürlüğe girmesi
D) Temel Haklar Şartı'nın kabul edilmesi
E) Schengen sözleşmesinin kabul edilmesi

9. **İnsan haklarının etkili şekilde gözlenmesi, insan haklarının yerine getirilmesinde üye devletlere yardım sağlamak, insan haklarının korunmasına ilişkin danışma ve bilgi sağlama görevlerini yerine getiren Avrupa Konseyi'nin bağımsız kuruluşu aşağıdakilerden hangisidir?**

A) İnsan Haklarını İnceleme Komisyonu
B) Adalet Divanı
C) Ceza Divanı
D) İnsan Hakları Koordinasyon Kurulu
E) İnsan Hakları Komiserliği

10. **Avrupa İnsan Hakları Sözleşmesi ile getirilen uluslar arası korunma mekanizması aşağıdakilerden hangisidir?**

A) Avrupa Toplulukları Adalet Divanı
B) İnsan Hakları Komiserliği
C) Avrupa İnsan Hakları Mahkemesi
D) Uluslar arası Ceza Mahkemesi
E) Uluslar arası Adalet Divanı

11. **Avrupa İnsan Hakları Mahkemesi kararlarının uygulanmasını takip eden ve devletlerin gerekli tedbirleri alıp almadığını denetleyen aşağıdakilerden hangisidir?**

A) Parlamenterler Meclisi
B) Genel Kurul
C) İnsan Hakları Yüksek Komiseri
D) Avrupa Konseyi Bakanlar Komitesi
E) Avrupa İnsan Hakları Mahkemesi'nin Daireleri

12. **Uluslar arası Hukuk Komisyonu aşağıdaki teşkilatlardan hangisi tarafından kurulmuştur?**

A) Birleşmiş Milletler
B) Avrupa Birliği
C) Avrupa Konseyi
D) Avrupa Güvenlik ve İşbirliği Teşkilatı
E) Avrupa Ekonomi Topluluğu

13. **Aşağıdakilerden hangisi İnsan Hakları Yüksek Komiserliği'nin görevleri arasında yer almaz?**

A) BM sistemi içinde insan haklarını geliştirecek organları desteklemek ve bu kuruluşlara bu alanda öneriler götürmek.
B) İnsan haklarının geliştirilmesi amacıyla BM içindeki kuruluşlardan destek almak.
C) İnsan hakları konusunda BM tarafından yürütülen eğitim ve kamuyu bilgilendirme programları arasında koordinasyon sağlamak.
D) İnsan hakları çerçevesinde hükümetlerle sürekli diyalog içinde olmak.
E) Mültecilerin haklarını ve refahını savunmak.

MURAT YAYINLARI

14. **Birleşmiş Milletlerin insan hakları konusundaki politikalarını belirleyen, üyelerinin herhangi bir ihlali söz konusu olduğunda üyeliğini askıya alabilen BM kuruluşu aşağıdakilerden hangisidir?**

A) İnsan Hakları Yüksek Komiserliği
B) İnsan Hakları Konseyi
C) Ekonomik ve Sosyal Konsey
D) Genel Kurul
E) Güvenlik Konseyi

15. **Uluslar arası ekonomik, sosyal, kültürel ve sağlık sorunlarıyla ilgili çalışmalar yapan, ayrıca insan hakları ihlallerini ortaya koyan raporlar düzenlenmesinde geniş bir yetkiye sahip olan Birleşmiş Milletler kuruluşu aşağıdakilerden hangisidir?**

A) İnsan Hakları Konseyi
B) İnsan Hakları Yüksek Komiserliği
C) Ekonomik ve Sosyal Konsey
D) Güvenlik Konseyi
E) Genel Sekreterlik

16. **Uluslar arası Adalet Divanı ile ilgili aşağıdaki ifadelerden hangisi yanlıştır?**

A) Avrupa Konseyi'nin yargı organıdır.
B) Yargılama yapma yetkisi yoktur.
C) Merkezi Hollanda'nın Lahey kentidir.
D) Devletlerin taraf oldukları uyuşmazlıkları çözer.
E) Anlaşmaların tanımlanması ve yorumlanmasına katkı sağlar.

17. **Medeni ve siyasal haklar sözleşmesinin düzenlendiği hakların uygulanmasını gözeten komite aşağıdakilerden hangisidir?**

A) İnsan hakları komitesi
B) Ekonomik, sosyal ve kültürel haklar komitesi
C) İşkenceye karşı komite
D) Irk ayrımcılığının kaldırılması komitesi
E) Çocuk hakları komitesi

18. **Avrupa Birliği hukukunda insan haklarıyla ilgili 1957 yılında kabul edilen, kişilerin, hizmetlerin ve sermayenin serbest dolaşımı düzenleyen, kadın ve erkekler için ücretlerde eşitlik ve genel olarak ayrımcılık yasağı konularına yer veren antlaşma aşağıdakilerden hangisidir?**

A) Amsterdam B) Roma
C) Lizbon D) Paris
E) Dublin

19. **1997 yılında yürürlüğe giren, sığınmacıların başvurularıyla ilgili düzenlemeler içeren belge aşağıdakilerden hangisidir?**

A) Maastricth Antlaşması
B) Amsterdam Antlaşması
C) Nice Antlaşması
D) Çocuk hakları sözleşmesi
E) Dublin sözleşmesi

20. **Avrupa İnsan Hakları Sözleşmesi kaç yılında yürürlüğe girmiştir?**

A) 1987 B) 1954 C) 1949
D) 1950 E) 1953

MURAT YAYINLARI

/muratyayincilik

Açıklamalar • TEST 1

1. **A** Türkiye ve İnsan Hakları Eşitlik Kurum 2016 yılında yasa ile kurulmuştur. Çalışma standartları BM Genel Kurulunun kabul ettiği Paris Prensipleriyle belirlenmiştir. Ayrımcılığın önlenmesi, Milli Eğitim müfredatında bulunan insan hakları ve ayrımcılığın önlenmesi ile ilgili bölümlerin hazırlanmasına katkı sağlamak, insan haklarının korunması, ayrımcılığın ortadan kaldırılması ve toplumdaki eşitlik anlayışının geliştirilmesine yönelik faaliyette bulunması görevleri arasında yer alır.

2. **E** Anayasa, dilekçe, insan haklarını inceleme komisyonları insan haklarını koruyucu işlev göstermektedir. Vatandaşların ve karşılıklılık esası gözetilmesi koşuluyla yabancıların dilekçe hakkını kullanarak TBMM'ye verdikleri dilekçelerini incelemek amacıyla "Dilekçe Komisyonu" oluşturulmuştur. İnsan haklarını inceleme komisyonu 1990 yılında kurulmuştur. Komisyon, insan haklarının ihlale uğradığı iddiasıyla ilgili başvuruları incelemek veya gerekli gördüğü hallerde ilgili mercilere iletmekle görevlidir.

3. **D** 2010 Anayasa değişikliği ile kurulan Ekonomik ve Sosyal Konsey'in temel amacı ekonomi ve sosyal politikalar konularında Cumhurbaşkanına istişari nitelikte görüş bildirmektir. Konsey'in insan haklarıyla ilgisi bulunmamaktadır.

4. **C** Türkiye Avrupa İnsan Hakları Sözleşmesini 1954 yılında imzalamıştır. Sözleşmenin uygulamasını yürüten Avrupa İnsan Hakları Mahkemesidir. Türkiye 1987 yılında, sözleşmeyi ihlal eden ülke aleyhine bireysel başvuru hakkını, 1990 yılında ise AİHM'nin zorunlu yargı yetkisini kabul etmiştir.

5. **B** Hukuk devletine göre özgürlük kuraldır, sınırlandırma ise istisnai durumdur. Kullanılan aracın elverişli ve gerekli aynı zamanda araç ile amaç arasında dengeli bir oranın olmasını öngören sınırlandırma ilkesi "Ölçülülük"tür.

6. **B** Avrupa Güvenlik Şartı'nın imzalandığı İstanbul Zirvesi'nin (1999) Sonuç Bildirisinde, güvenlik ile ilgili konularda, AGİT ile diğer uluslar arası kuruluşlar arasında iş birliği yapılması kararlaştırılmış, demokrasi, hukukun üstünlüğü ve insan haklarına saygının önemine vurgu yapılmış, azınlık hakları, çocuk hakları, kadın-erkek eşitliğinin, temel hak ve özgürlükler çerçevesinde özellikle korunması gereği belirtilmiştir.

7. **A** 2000 yılında kabul edilen ve ilan edilen AB Temel Haklar Şartı, birlik düzeyinde temel hak ve özgürlüklerle ilgili temel oluşturmasının ötesinde sadece birlik yurttaşları için değil, birlikteki tüm yurttaşları kapsayan hak ve özgürlükleri de içermesi açısından önemlidir. AB Temel Haklar Şartı, Avrupa İnsan Hakları Sözleşmesinden esinlenerek hazırlanmıştır.

8. **B** 1997 Amsterdam Anlaşması birlik içinde insan hakları konusunda atılan ilk ve en önemli adımdır. AB üyesi devletlerin tümü aynı zamanda Avrupa Konseyi üyesidir. Bu nedenle Avrupa İnsan Hakları Sözleşmesine bağlıdırlar. Amsterdam Anlaşması 1999'da yürürlüğe girmiştir. Demokrasi, temel özgürlükler, insan hakları ve hukukun üstünlüğü ilkelerine vurgu yapılmıştır.

9. **E** İnsan Hakları Komiserliği Avrupa Konseyi'nin bağımsız kurumudur. 1999 yılında Avrupa Konseyi Bakanlar Komitesi, komiserliğin kurulması ve görev alanının belirlenmesine ilişkin kararı kabul etmiştir. İnsan haklarının etkili şekilde gözlenmesi, insan haklarının yerine getirilmesinde üye devletlere yardım sağlamak, insan haklarının korunmasına ilişkin danışma ve bilgi sağlamak, görevleri arasında yer alır.

10. **C** Avrupa İnsan Hakları Mahkemesi, İnsan haklarının uluslar arası alanda korunması bakımından ilk kez oluşturulmuş etkin bir sistemdir. İnsan Hakları Avrupa Sözleşmesiyle getirilen uluslar arası korunma mekanizması AİHM'e yapılacak başvuru ile başlar. Başvuru usulü bireysel ya da devlet başvurusudur.

MURAT YAYINLARI

11. D Mahkemenin kesin nitelikteki bütün kararları ilgili olduğu devlet açısında bağlayıcıdır. Avrupa Konseyi Bakanlar Komitesi, mahkeme kararlarının uygulanmasından sorumludur. Bakanlar Komitesi, sözleşmenin ihlal edildiğinin tespit edildiği konuda ilgili devletin kararın infazı için gerekli tedbirleri alıp almadığını denetler.

12. A "Uluslararası Hukuk Komisyonu" Birleşmiş Milletler Genel Kurulu tarafından 1947 yılında kurulmuştur. Temel amacı, uluslar arası hukukun gelişimine katkıda bulunmaktır. Bu konuda sözleşmeler hazırlar ve yeni değişiklikler önerir.

13. E Mültecilerin refahını ve haklarını savunmak BM Genel Kurulu tarafından 1950 yılında kurulan Mülteciler Yüksek Komiserliğinin görevidir. İnsan Hakları Yüksek Komiserliği, BM sistemi içinde insan haklarını geliştirecek organları desteklemek ve bu kuruluşlara bu alanda öneriler götürmek, insan haklarının geliştirilmesi amacıyla BM içindeki kuruluşlardan destek almak, insan hakları konusunda BM tarafından yürütülen eğitim ve kamuyu bilgilendirme programları arasında koordinasyon sağlamak, insan hakları çerçevesinde hükümetlerle sürekli diyalog içinde olmak, insan hakları konusunda BM mekanizmasının daha da güçlendirilmesi ve rasyonelleştirilmesi yönünde çalışmalar yapma görevlerini yerine getirir.

14. B İnsan Hakları Konseyi BM'nin insan haklarını teşvik ve korumayı üstlenmiş ana kuruluşudur. BM tarafından 2006 yılı kararıyla, 1946 yılında kurulan İnsan Hakları Komisyonunun yerini almak üzere kurulmuştur. Konsey, izlenilecek politikalar konusunda yol gösterir, insan hakları sorunlarını inceler, yeni uluslar arası normlar geliştirir ve insan haklarının uygulanışını gözlemler. Konsey, insan hakları politikalarının belirleyicisidir.

15. C Uluslar arası ekonomik, sosyal, kültürel ve sağlık sorunlarıyla ilgili çalışmalar yapan, ayrıca insan hakları ihlallerini ortaya koyan raporlar düzenlenmesinde geniş bir yetkiye sahip olan Birleşmiş Milletler kuruluşu Ekonomik ve Sosyal Konsey'dir. Konsey, insan hakları ve temel özgürlüklerin geliştirilmesi ve bunlara uyulmasının sağlanması konusunda tavsiye kararları alabilir.

16. A Uluslar arası Adalet Divanı 1945 yılında BM'nin yargı organı olarak kurulmuştur. Divanın merkezi Hollanda'nın Lahey kentidir. Devletlerin taraf oldukları uyuşmazlıklar bakımından yetkili yeridir. Yargılama yapma yetkisi yoktur. Anlaşmaların tanımlanması, yorumlanması ve devletlerin zorunlu görevlerinin belirlenmesi konularında katkıda bulunur.

17. A İnsan hakları komitesi; Kişisel (Medeni) ve Siyasal Haklar Sözleşmesinin düzenlediği hakların uygulanmasını gözetir. Komiteye, BM İnsan Hakları Yüksek Komiserliği gerekli sekreterlik desteği sağlamaktadır.

18. B 1957 yılında kabul edilen Roma Antlaşmasında kişilerin, hizmetlerin ve sermayenin serbest dolaşımı düzenlenmiş, kadın ve erkekler için ücretlerde eşitlik ve genel olarak ayrımcılık yasağı konularına yer verilmiştir.

19. E Serbest bölge içersindeki dolaşım 1990 yılında imzalanan Dublin Sözleşmesiyle daha sıkı kurallara bağlanmıştır. Sığınma başvurusu ile ilgilenme konusunda hangi devletin sorumlu olduğunu belirleyen bir kriter içeren Schengen Anlaşmasını uygulamaya koyan anlaşma ve Avrupa İltica Sözleşmesi 1991'de Dublin'de imzalanmıştır. Dublin Sözleşmesi 1997 yılında yürürlüğe girmiştir.

20. E Avrupa İnsan Hakları Sözleşmesi 1949 yılında hazırlanmış, 1950'de aralarında Türkiye'nin de bulunduğu on iki devlet tarafından Roma'da imzalanmış ve 1953 yılında yürürlüğe girmiştir.

MURAT YAYINLARI

İnsan Hakları Hukuku • TEST 2

1. **Avrupa Konseyi kaç yılında kurulmuştur?**

A) 1949 B) 1951 C) 1953
D) 1954 E) 1955

2. **Aşağıdakilerden hangisi Avrupa Konseyi insan hakları belgeleri arasında gösterilemez?**

A) Avrupa İnsan Hakları Sözleşmesi
B) Avrupa Sosyal Şartı
C) İşkence ve İnsanlık Dışı veya Aşağılayıcı Muamele ve Cezayı Önleme Avrupa Sözleşmesi
D) Ulusal Azınlıkları Koruma Çerçeve Sözleşmesi
E) İnsan Hakları Evrensel Beyannamesi

3. I. Temel olması
II. Tanımlanabilir olması
III. Evrensel olması

Bir hakkın insan hakkı olabilmesi için yukarıdakilerden hangileri gerekir?

A) Yalnız I B) Yalnız II C) I ve II
D) II ve III E) I, II ve III

4. **1993 Dünya İnsan Hakları Konferansı Viyana Bildirisi'ne göre, insan hakları ihlali olduğu zaman diğer devletlerin müdahale hakkının olması insan haklarının hangi niteliğini gösterir?**

A) Evrensellik
B) Doğuştan sahip olma
C) Toplum öncesi olma
D) Mutlaklık
E) Vazgeçilmezlik

5. **Aşağıdakilerden hangisi devletin insan haklarıyla ilgili ödevleri arasında gösterilemez?**

A) Dokunmama
B) Tanıma
C) Değiştirme
D) Temin-Tedarik
E) Koruma

6. **İnsan haklarının dikey etkisini aşağıdakilerden hangisi ifade eder?**

A) Bireylerarası ilişki olması
B) Birey ile devlet arasındaki ilişki olması
C) İleri sürülebilir olması
D) Vazgeçilmez olması
E) Korunabilir olması

MURAT YAYINLARI

7. **Topluluk halinde kullanılabilen haklara kolektif haklar denir. Aşağıdakilerden hangisi kolektif hak değildir?**

A) Dernek kurma hürriyeti
B) Toplantı ve gösteri yürüyüşü düzenleme hakkı
C) Din ve vicdan hürriyeti
D) Grev hakkı
E) Siyasi parti kurma hakkı

8. **Devletin bireye sağlaması gereken haklara ne ad verilir?**

A) Negatif haklar
B) Aktif haklar
C) Koruyucu haklar
D) Pozitif haklar
E) Katılma hakları

9. **Birinci kuşak haklar ile ilgili aşağıdaki ifadelerden hangisi yanlıştır?**

A) Birinci kuşak insan hakları aristokrasi ve burjuvazi çatışmasına dayanmaktadır.
B) Birinci kuşak kişi hakları ve siyasi haklardır.
C) Bu hakların en belirgin özelliği özgürlük fikridir.
D) Birinci kuşak haklar 17. Ve 18. Yüzyıllarda meydana gelen siyasi kaygılardan kaynaklanmaktadır.
E) Birinci kuşak haklar 1215 Magna Carta'dan etkilenmiştir.

10. **İkinci kuşak hakların oluşumunda en etkili güç aşağıdakilerden hangisidir?**

A) İşçi sınıfı
B) Köylü sınıfı
C) Burjuva
D) Aristokrasi
E) Zengin sınıf

11. **Aşağıdakilerden hangisi üçüncü kuşak haklar arasında gösterilemez?**

A) Barış hakkı
B) Sendika hakkı
C) Silahsızlandırılmış bir dünyada yaşama hakkı
D) İnsanlığın ortak mirasına saygı hakkı
E) Sağlıklı ve dengeli bir çevrede yaşama hakkı

12. **Mülkiyet hakkının kaynağını devlette değil doğal hukukta arayan, görüşleriyle liberal anayasacılık çağını başlatan siyaset bilimci aşağıdakilerden hangisidir?**

A) Thomas Hobbes
B) J. J. Rausseau
C) John Locke
D) Saint Thomas
E) Max Weber

13. **Aşağıdakilerden hangisi ABD'de yayınlanan insan hakları belgelerinden biridir?**

A) İnsan ve Yurttaş Hakları Bildirisi
B) Magna Carta
C) Haklar Dilekçesi
D) Virginia Haklar Bildirgesi
E) Habeas Corpus Act.

14. **Aşağıdakilerden hangisi insan haklarının milli kaynaklarından birisidir?**

A) 1924 Anayasası
B) İnsan Hakları Evrensel Bildirgesi
C) Kadın hakları
D) Protokoller
E) Ekonomik, Sosyal ve Kültürel Haklar Sözleşmesi

MURAT YAYINLARI

/muratyayincilik

15. Aşağıdakilerden hangisi Avrupa Konseyi Statüsünü imzalayan on ülke arasında yer almaz?

A) İngiltere B) Almanya
C) Hollanda D) Lüksemburg
E) Belçika

16. I. Gerçek kişiler
II. Taraf devletler
III. Hükümet dışı topluluklar
IV. Kişi toplulukları

Yukarıdakilerden hangileri Avrupa İnsan Hakları Mahkemesine başvuru yapma hakkına sahiptir?

A) I ve IV B) III ve IV C) II ve III
D) II, III ve IV E) I, II, III ve IV

17. Aşağıdakilerden hangisi Avrupa İnsan Hakları Sözleşmesinde düzenlenen haklardan değildir?

A) Yaşama hakkı
B) Adil yargılanma hakkı
C) İşkence, insanlık dışı ve aşağılayıcı muamele ve cezaya yasağı
D) Dilekçe hakkı
E) İfade hürriyeti

18. Avrupa İnsan Hakları Mahkemesine bireysel başvuruda bulunulabilinmesi için aşağıdaki koşullardan hangisinin öncelikle yerine getirilmesi gerekir?

A) İç hukuk yollarının tüketilmesi
B) Başvuruyu yapacak avukatın görevlendirilmesi
C) Başvuru konusunun araştırılması
D) Başvuruyu yapacak ülke vatandaşının sicil kontrolünün yapılması
E) Bakanlar Komitesinin onayının alınması

19. İdarenin işleyişi ile ilgili şikayetleri değerlendiren, bireylerin temel hak ve özgürlüklerini koruyucu fonksiyona sahip olan TBMM Başkanlığına bağlı merci aşağıdakilerden hangisidir?

A) Türkiye İnsan Hakları ve Eşitlik Kurumu
B) Kamu Denetçiliği Kurumu
C) Kamu Görevlileri Hakem Kurulu
D) İnsan Haklarını İnceleme Komisyonu
E) Sayıştay

20. Aşağıdakilerden hangisi olağanüstü hal, savaş ve seferberlik hallerinde dahi durdurulamayacak haklardan birisi değildir?

A) Savaş hukukuna uygun fiiller sonucu meydana gelen ölümler dışında, kişinin yaşama, maddi ve manevi varlığının bütünlüğüne dokunulamaz.
B) Kimse din, vicdan, düşünce ve kanaatlerini açıklamaya zorlanamaz ve bunlardan dolayı suçlanamaz.
C) Suç ve cezalar geçmişe yürütülemez.
D) Suçluluğu mahkeme kararıyla saptanıncaya kadar kimse suçlu sayılamaz.
E) Herkes önceden izin alınmaksızın toplantı ve gösteri yürüyüşü düzenleme hakkına sahiptir.

MURAT YAYINLARI

Açıklamalar • TEST 2

1. **A** 5 Mayıs 1949 tarihinde Belçika, Danimarka, İtalya, Lüksemburg, Hollanda, Norveç, İsveç ve İngiltere'nin bulunduğu 10 ülke tarafından merkezi Strasburg olmak üzere Avrupa Konseyi Statüsü Londra'da imzalanmış ve 1949'da yürürlüğe girmiştir.

2. **E** İnsan Hakları Evrensel Beyannamesi Birleşmiş Milletlere aittir. Avrupa Konseyi İnsan Hakları Belgeleri Şunlardır:
   - Avrupa Konseyi Statüsü
   - Avrupa İnsan Hakları Sözleşmesi
   - Avrupa Sosyal Şartı
   - İşkence ve İnsanlık Dışı veya Aşağılayıcı Muamele ve Cezayı Önleme Avrupa Sözleşmesi
   - Ulusal Azınlıkları Koruma Çerçeve Sözleşmesi
   - Bölgesel ve Azınlık Dilleri Avrupa Şartı
   - Çocuk Haklarının Kullanılması Avrupa Sözleşmesi
   - İnsan Hakları ve Biyo-Tıp Sözleşmesi
   - Terörizmin Önlenmesine Dair Avrupa Sözleşmesi
   - Göçmen İşçilerin Hukuki Statüsü Hakkında Avrupa Sözleşmesi
   - Schengen ve Dublin Sözleşmeleri

3. **E** Bir hakkın insan hakkı olarak tanımlanabilmesi için temel olması, evrensel olması ve tanımlanabilir olması gerekir. İnsan haklarının asgari yaşam koşullarını konu alması temel hakkı ifade eder. İnsan haklarının tüm insanlara uygulanabilir olması evrenselliğini ortaya koyar. Açıkça tanımlanabilir olması, insan haklarının ihlal edilip edilmediğinin açıkça anlaşılabilir olmasını mümkün kılar.

4. **A** 1993 Dünya İnsan Hakları Konferansı Viyana Bildirisi'nde insan haklarının evrensel olduğu ve bunun tartışma konusu dahi edilemeyeceği belirtilmiştir. Bu bildiri ve eylem programına göre, insan hakları ihlali olduğu zaman diğer devletlerin müdahale hakkı vardır.

5. **C** İnsan haklarının esas hedefi kişiyi devlete karşı korumaktır. Bu bağlamda devletin insan haklarıyla ilgili, tanıma, dokunmama, koruma ve temin-tedarik olmak üzere dört temel ödevi bulunur.

6. **B** Birey ile devlet arasındaki ilişkiye insan haklarının dikey etkisi, bireylerarası ilişkilere ise insan haklarının yatay etkisi denilmektedir.

7. **C** Kolektif ve bireysel hak ayrımı kullanım şekilleri bakımından yapılır. Bireysel haklar, bireyin başkasının katılımına gerek duymaksızın kullanabileceği haklardır. Örneğin, din hürriyeti, vicdan hürriyeti gibi.. Kolektif haklar ise topluluk halinde kullanılabilen haklardır. Örneğin, dernek, toplantı ve gösteri yürüyüşü, grev hakkı, ibadet hürriyeti, siyasi parti kurma hakkı

8. **D** Bireyin haklarını kullanmasına ve bunlardan yararlanmasına devletin müdahale edemediği haklara negatif haklar denir. Bu haklara koruyucu haklar da denir. Devletin bireye sağlaması gereken haklara pozitif haklar denir. Bu haklara isteme hakları da denir. Negatif haklar kişinin hak ve hürriyetlerini, pozitif haklar ise sosyal ve ekonomik hak ve ödevleri ifade eder.

9. **E** Birinci kuşak insan hakları: aristokrasi ve burjuvazi çatışmasına dayanmaktadır. Birinci kuşak kişi hakları ve siyasi haklardır. Bu hakların en belirgin özelliği özgürlük fikridir. Devlet kişilerin özel alanına giremez ve ona karışamaz. Siyasi kaygılardan kaynaklanan, 17. ve 18, yüzyıllarda ortaya çıkan haklardır. Birinci kuşak haklar bu dönemlerde meydana gelen Amerikan ve Fransız devrimlerinden etkilenmiştir. Birinci kuşak haklar, 1776 Amerikan 1789 Fransız İnsan ve Vatandaşlık Hak bildirilerinde tanınmıştır.

10. **A** İkinci kuşak haklar, burjuvazi ve işçi sınıfı çatışmasına dayanır. İşçi sınıfı bu hakların en etkili gücüdür.

MURAT YAYINLARI

/muratyayincilik

11. **B** Üçüncü kuşak haklar arasında, barış hakkı, silahsızlandırılmış bir dünyada yaşama hakkı, sağlıklı ve dengeli bir çevrede yaşama hakkı, ekonomik ve sosyal açıdan gelişme hakkı, halkların kendi durumlarını serbestçe belirleme hakkı, insanlığın ortak mirasına saygı hakkı gösterilebilir.

12. **C** John Locke, mülkiyet hakkının kaynağını doğal hukukta aramaktadır. Locke aynı zamanda liberalizm düşüncesinin fikir babasıdır. Locke'nin bu görüşleri 1776 Amerikan Bağımsızlık Bildirisi'nde aynen tekrarlanmış, liberal anayasacılık çağını başlatan 1787 Amerikan Anayasası'nın temelini oluşturmuştur. Locke'nin görüşleri, 1789 Fransız İnsan ve Yurttaş Hakları Bildirisi'nde daha geniş kapsamda ifade edilmiştir.

13. **D** 1789 Fransa İnsan ve Yurttaş Hakları Bildirisi, 1215 İngiliz Parlamentosu tarafından kabul edilen Magna Carta, 1628 İngiltere'ye ait Haklar Dilekçesi (Bildirisi), 1776 ABD'ye ait Virginia Haklar Bildirgesi, 1679 İngiltere'ye ait Habeas Corpus Act.

14. **A** İnsan hakları hukukunun kaynakları şunlardır:

1. **Milli Kaynaklar:** Belgeler ve fermanlar, Anayasalardır.
2. **Uluslar arası Kaynaklar**

- İnsan Hakları Evrensel Bildirgesi
- İkiz Sözleşmeler ve Protokoller
- BM Kişisel (Medeni) ve Siyasal Haklar Sözleşmesi
- Ekonomik, Sosyal ve Kültürel Haklar Sözleşmesi
- Ayrımcılığın Önlenmesi
- Kadın Hakları
- Çocuk Hakları
- İnsan Kaçakçılığı, Kölelik ve Zorla Çalıştırma
- Vatansızlık ve Mülteciler
- Savaş Suçları, İnsanlığa Karşı Suçlar ve Soykırım
- Tutuklu ve Hükümlülerin Korunması
- Göçmen İşçilerin ve Ailelerinin Hakları ve Göçmen Kaçakçılığı

3. **Bölgesel kaynaklar** (Avrupa Konseyi İnsan Hakları Belgeleri)

15. **B** 5 Mayıs 1949'da 10 ülke - Belçika, Birleşik Krallık, Danimarka, Fransa, Hollanda, İrlanda, İsveç, İtalya, Lüksemburg, ve Norveç - merkezi Strasbourg olmak üzere Avrupa Konseyi'ni kuran antlaşmayı imzalamıştır.

16. **E** Avrupa İnsan Hakları Mahkemesine yapılacak başvurular ikiye ayrılır. Bunlar devlet başvurusu ve bireysel başvurudur. Taraf devletler, gerçek kişiler, hükümet dışı topluluklar(dernek gibi), kişi toplulukları başvuruda bulunabilir.

17. **D** Yaşama hakkı, Adil yargılanma hakkı, İşkence, insanlık dışı ve aşağılayıcı muamele ve cezaya yasağı, İfade hürriyeti sözleşmede düzenlenirken dilekçe hakkı düzenlenmemiştir.

18. **A** Avrupa İnsan Hakları Mahkemesine bireysel başvuruda bulunulabilmesi için iç hukuk yollarının tüketilmiş olması gerekmektedir. AİHM'si yapılan başvuruyu inceler ve başvuru ile ilgili yürütmenin durdurulması kararı verebilir. Maddi ve manevi tazminata hükmedebilir.

19. **B** İdarenin işleyişi ile ilgili şikayetleri değerlendiren, bireylerin temel hak ve özgürlüklerini koruyucu fonksiyona sahip olan TBMM Başkanlığına bağlı merci 2010 Anayasa değişikliği ile düzenlenen Kamu Denetçiliği Kurumudur. Kamu Başdenetçisi 4 yıl için Meclis tarafından seçilir.

20. **E** Olağanüstü hal, seferberlik, savaş halinde kullanılması durdurulamayacak, mutlak olarak korunan sert çekirdekli haklar alanı düzenlenmiştir. Sert çekirdekli haklar şunlardır: Savaş hukukuna uygun fiiller sonucu meydana gelen ölümler dışında, kişinin yaşama, maddi ve manevi varlığının bütünlüğüne dokunulamaz. Kimse din, vicdan, düşünce ve kanaatlerini açıklamaya zorlanamaz ve bunlardan dolayı suçlanamaz. Suç ve cezalar geçmişe yürütülemez.Suçluluğu mahkeme kararıyla saptanıncaya kadar kimse suçlu sayılamaz.

MURAT YAYINLARI

İdare Hukuku
• TEST 1

1. I. Nükleer Düzenleme Kurumu
II. Kişisel Verileri Koruma Kurumu
III. Enerji Piyasasını Düzenleme Kurumu
IV. Türkiye Radyo ve Televizyon Kurumu

Yukarıdakilerden hangileri düzenleyici denetleyici üst kurullar arasında yer alır?

A) I ve II B) II ve III C) I, II ve III
D) III ve IV E) I, III ve IV

2. **Devlet ve kamu tüzel kişilerinin, kamu yararının gerektirdiği hallerde, gerçek karşılığını peşin ödemek şartıyla özel mülkiyette bulunan taşınmaz malların tamamının ya da bir kısmının kanunla gösterilen esas ve usullere göre mülkiyetini devralmasına ne ad verilir?**

A) Devletleştirme
B) Özelleştirme
C) Geçici işgal
D) Kamulaştırma
E) İstimval

3. **Aşağıdakilerden hangisi memurlara uygulanan disiplin cezalarından birisi değildir?**

A) Görevden uzaklaştırma
B) Uyarı
C) Kınama
D) Kademe ilerlemesinin durdurulması
E) Aylıktan kesme

4. **Aşağıdakilerden hangisi, memurların menfi ödevleri arasında yer almaz?**

A) Grev yasağı
B) Gizli bilgileri açıklama yasağı
C) Kıyafet yükümlülüğü
D) Siyasi faaliyette bulunma yasağı
E) Başka görev alma yasağı

5. **Aşağıdakilerden hangisi merkezden yönetim birimleri arasında yer alır?**

A) İl Özel İdaresi
B) İl Genel Meclisi
C) Belediye Encümeni
D) Köy İhtiyar Heyeti
E) İl Genel İdaresi

6. **Aşağıdakilerden hangisi hiyerarşik denetime tabidir?**

A) İl özel idaresi
B) Belediye başkanı
C) Kaymakam
D) Atatürk Kültür, Dil ve Tarih Yüksek Kurumu
E) Vakıflar Genel Müdürlüğü

7. **İl özel idaresinin hiyerarşik amiri ve tüzel kişiliğinin başı aşağıdakilerden hangisidir?**

A) Vali
B) Kaymakam
C) Belediye başkanı
D) İl genel meclisi başkanı
E) Bakan yardımcısı

8. **Aşağıdakilerden hangisi, mahalli idare birimleri içinde görev yapmaz?**

A) Belediye Encümeni
B) İl Encümeni
C) İl İdare Kurulu
D) İl Genel Meclisi
E) Belediye Meclisi

MURAT YAYINLARI

9. **Aşağıdaki kuruluşlardan hangisinin kamu tüzel kişiliği vardır?**

A) Diyanet İşleri Başkanlığı
B) İzmir Barosu
C) İçişleri Bakanlığı
D) İzmir Valiliği
E) Devlet Denetleme Kurulu

10. **Aşağıda belirtilen ikilemelerden hangisinde hiyerarşi ilişkisi söz konusu değildir?**

A) Yükseköğretim Kurulu Başkanı - Üniversite Rektörü
B) İçişleri Bakanı - Kaymakam
C) Büyükşehir Belediye Başkanı - Büyükşehir Belediyesi Genel Sekreteri
D) Karayolları Genel Müdürü - Karayolları 3. Bölge Müdürü
E) Muhtar - Köy korucusu

11. I. Belediye idaresi
II. Cumhurbaşkanı
III. Milli Eğitim Bakanı
IV. Genelkurmay Başkanlığı

Yukarıdakilerden hangileri yönetmelik çıkarabilir?

A) I, II ve III B) I, III ve IV
C) II, III ve IV D) II ve IV
E) III ve IV

12. I. İl idare kurulu
II. İlçe idare şube başkanlıkları
III. Kaymakam

Yukarıdakilerden hangileri taşra teşkilatı birimleri arasında yer alır?

A) Yalnız I B) Yalnız II C) Yalnız III
D) I ve III E) I, II ve III

13. **En yüksek devlet memuru aşağıdakilerden hangisidir?**

A) Bakan yardımcıları
B) Cumhurbaşkanlığı İdari İşler Başkanı
C) Diyanet İşleri Başkanı
D) Milli İstihbarat Teşkilatı Başkanı
E) Savunma Sanayi Başkan

14. I. Bakanlıkların kurulması
II. İl ve ilçelerin kaldırılması
III. Üniversitelerin kurulması
IV. Büyükşehir belediyelerinin kurulması

Yukarıdakilerden hangisi kanun ile yapılır?

A) Yalnız I B) II ve III C) III ve IV
D) II, III ve IV E) Yalnız II

MURAT YAYINLARI

15. **Aşağıdakilerden hangisi, idare hukuku ile ilgili anayasada belirtilen ilkelerden biri değildir?**

A) Hukuk Devleti İlkesi
B) Demokratik Devlet İlkesi
C) Liberal Devlet İlkesi
D) Laiklik
E) İdarenin Bütünlüğü İlkesi

16. I. Yeni bir köy İçişleri Bakanı kararı ile kurulur.
II. Kaymakamlar cumhurbaşkanı onayı ile atanır.
III. Valiler cumhurbaşkanı kararıyla atanır.
IV. Nüfusu 2000'in altına düşen belediyeler cumhurbaşkanı kararıyla köye dönüştürülür.

Yukarıda verilen idari işlemlerden hangileri doğrudur?

A) I ve II B) III ve IV
C) I, III ve IV D) II ve III
E) I, II, III ve IV

17. **Aşağıdakilerden hangisi kamu düzeninin unsurlarından değildir?**

A) Genel ahlak
B) Genel sağlık
C) Güvenlik
D) Dirlik
E) Kar amacı

18. **Aşağıdakilerden hangisi özel idarenin kolluk personelidir?**

A) Zabıta
B) Polis
C) Jandarma
D) İçişleri Bakanı
E) Vali

19. I. Belediye başkanı
II. Belediye meclisi
III. Belediye encümeni

Yukarıdakilerden hangileri belediye idaresinin organları arasında yer alır?

A) Yalnız I B) Yalnız II C) Yalnız III
D) I ve II E) I, II ve III

20. **Devlet memurlarının, bulundukları sınıflarında en yüksek dereceye kadar çıkabilmesine imkan sağlayan ilke aşağıdakilerden hangisidir?**

A) Liyakat
B) Kariyer
C) Derecelendirme
D) Kademelendirme
E) Sınıflandırma

MURAT YAYINLARI

Açıklamalar • TEST 1

1. **C** TRT, düzenleyici denetleyici üst kurullar arasında yer almaz. Düzenleyici denetleyici üst kurullar şunlardır: Nükleer Düzenleme Kurumu, Kişisel Verileri Koruma Kurulu, Enerji Piyasasını Düzenleme Kurulu, Bankacılık Düzenleme ve Denetleme Kurumu, Rekabet Kurumu, Kamu İhale Kurumu, Radyo Televizyon Üst Kurulu, Sermaye Piyasası Kurulu, Bilgi Teknolojileri ve İletişim Kurumu, Kamu Gözetimi, Muhasebe ve Denetim Standartları Kurumu

2. **D** Kamulaştırma. Yapılan tanım, Anayasa'da yapılmış olan kamulaştırmanın tanımıdır. Kamulaştırma özel mülkiyetteki taşınmazlar üzerinde söz konusu olur. Devletleştirme ise özel teşebbüsler üzerinde söz konusu olur.

3. **A** Görevden uzaklaştırma memurların disiplin cezalarından değildir. Görevden uzaklaştırma geçici bir tedbirdir. Memurların disiplin cezaları sırasıyla uyarı, kınama, aylıktan kesme, kademe ilerlemesinin durdurulması ve memurluktan çıkarmadır.

4. **C** Kıyafet yükümlülüğü. Menfi ödevler denildiğinde, memurların yapmaması gereken kaçınması gereken yükümlülükler yani yasaklar anlaşılır. Görevine uygun kıyafet giyme yükümlülüğü ise memurların yapması gereken ödevler (yani müspet ödevler) arasındadır.

5. **E** İl genel idaresi, merkezden yönetimin taşra teşkilatında yer almaktadır. İl Özel İdaresi, İl Genel Meclisi, Belediye Encümeni, Köy İhtiyar Heyeti ise yerinden yönetimin yerel yerinden yönetim kuruluşlarıdır.

6. **C** Kaymakamın kamu tüzel kişiliği olmadığı için hiyerarşik denetime tabidir. İl özel idaresi, belediye başkanı, vakıflar genel müdürlüğü ve Atatürk Kültür, Dil ve Tarih Yüksek Kurumunun kamu tüzel kişiliği bulunduğu için idari vesayet denetimine tabidir. Kamu tüzel kişiliği olanlar üzerinde idari vesayet; kamu tüzel kişiliği olmayanlar üzerinde hiyerarşik denetim söz konusudur.

7. **A** İl özel idaresinin hiyerarşik amiri ve tüzel kişiliğinin başı validir. Vali, merkezden idarenin taşra teşkilatında da görev yapmaktadır.

8. **C** İl idare kurulu mahalli idareler il özel idaresi, belediye ve köydür. İl özel idaresinin organları; vali, il genel meclisi ve il encümeni dir. Belediyenin organları; belediye başkanı, belediye encümeni ve belediye meclisidir. Köyün organları; ihtiyar meclisi ve muhtardır. taşra teşkilatı kademesi olan ilin bölümleri ise vali, İl idare kurulu ve il idare şube başkanlarıdır. İl idare kurulu, mahalli idare birimleri içinde değil, taşra teşkilatı içinde görev yapan bir kuruldur.

9. **B** İzmir Barosu. Devlet Denetleme Kurulu ve İçişleri Bakanlığı, merkezi idarenin başkent teşkilatında yer alırlar. İzmir valiliği ise merkezi idarenin taşra teşkilatında yer alır. Merkez ve taşra teşkilatlarının devlet tüzel kişiliği dışında ayrı tüzel kişilikleri yoktur. Bunlar Türkiye Cumhuriyeti Devletinin tüzel kişiliği içinde yer alırlar. 1982 Anayasası, Diyanet İşleri Başkanlığından söz etmiş ancak bu başkanlığın genel idare içinde yer aldığını belirtmiştir. Dolayısıyla Diyanet İşleri Başkanlığının da devletten ayrı kamu tüzel kişiliği yoktur. Bir Kamu Kurumu niteliğindeki meslek kuruluşu olan baronun kamu tüzel kişiliği vardır.

MURAT YAYINLARI

10. **A** Yükseköğretim Kurulu Başkanı - Üniversite Rektörü. Hiyerarşi, aynı tüzel kişinin içindeki ast - üst ilişkisine verilen isimdir. İçişleri Bakanı ve Kaymakam devlet tüzel kişiliği içinde, biri merkezde, biri taşrada görev yapan kişilerdir. Belediyenin ya da köyün kendi tüzel kişiliği içindeki ast - üst ilişkisi de hiyerarşi ilişkisidir. Hizmet yerinden yönetim birimi olan kara yollarının kendi içindeki ilişkiye de hiyerarşi denir. Oysaki, YÖK ve üniversite ayrı tüzel kişilerdir. YÖK Başkanı ve üniversite rektörü kendi yönettikleri birimin en üst hiyerarşik amirleridir. Bunlar arasında, hiyerarşi değil, vesayet denetimi söz konusudur.

11. **A** Genelkurmay Başkanlığı'nın kamu tüzel kişiliği olmadığı için yönetmelik çıkaramaz. Anayasada yönetmelik çıkaranlar olarak belirtilen kamu tüzel kişileri arasında belediye idaresi gösterilebilir. Ayrıca anayasaya göre cumhurbaşkanı ve bakanlıklar da yönetmelik çıkarma yetkisine sahiptir.

12. **E** Merkezden idare başkent ve taşra teşkilatı olarak ikiye ayrılır. Taşra teşkilatının birimleri şunlardır: İl genel idaresi (vali, il idare kurulu, il idare şube başkanlıkları), İlçe idaresi (kaymakam, ilçe idare kurulu, ilçe idare şube başkanlıkları), bölgesel kuruluşlar

13. **B** Türk hukukunda en yüksek devlet memuru statüsü cumhurbaşkanlığı idari işler başkanıdır.

14. **D** Bakanlıkların kurulması, kaldırılması, teşkilat yapısı cumhurbaşkanlığı kararnamesiyle düzenlenir. İllerin ve ilçelerin kurulması, kaldırılması, adının ve merkezlerinin değiştirilmesi, bir ilçenin bağlı olduğu ilden alınıp başka bir ile bağlanması, üniversitelerin kurulması, kamu kurumu niteliğindeki meslek kuruluşlarının kurulması(oda-baro-birlik), büyükşehir belediyelerinin kurulması kanun ile olur.

15. **C** Liberal devlet ilkesi. İdare hukuku ile ilgili başlıca anayasal ilkeler arasında liberal devlet ilkesi yoktur. Anayasa liberal devletten değil, sosyal devletten söz eder.

16. **E** Tüm öncüller doğrudur. Yeni bir köy İçişleri Bakanı kararı ile kurulur. Kaymakamlar cumhurbaşkanı onayı ile atanır.Valiler cumhurbaşkanı kararıyla atanır. Nüfusu 2000'in altına düşen belediyeler cumhurbaşkanı kararıyla köye dönüştürülür.

17. **E** Esenlik ve dirlik, genel ahlak ve sağlık, güvenlik kamu düzeninin unsurlarıdır. Kamu düzeninin unsurları arasında kar amacı yer almamaktadır. Kamu düzenini sağlamak için yürütülen faaliyetlere kolluk faaliyetleri denir.

18. **A** İdari kolluk genel ve özel olmak üzere ikiye ayrılır. İdari kolluk, kamu düzeni bozulmadan önce devreye girer. Genel idarenin kolluk makamları; İçişleri Bakanı, vali ve kaymakamdır. Genel idarenin personeli ise polis ve jandarmadır. Özel idari kolluk makamları; belediye kolluğu, köy kolluğudur. Özel idarenin kolluk personeli ise zabıta, gönüllü köy korucusu, köy korucusudur.

19. **E** Belediye idaresinin organları: Belediye başkanı, belediye meclisi ve belediye encümenidir.

20. **B** Devlet memurlarının, bulundukları sınıflarında en yüksek dereceye kadar çıkabilmesine imkan sağlayan ilke kariyerdir. Memurluğa girişte ve ilerlemede bilgi ve yetenek esasının göz önünde bulundurulmasına ise liyakat ilkesi denir.

MURAT YAYINLARI

İdare Hukuku • TEST 2

1. Aşağıdakilerden hangisi memurluğun sona erme nedenleri arasında yer almaz?

A) İstifa
B) Emeklilik
C) Açığa alma
D) Ölüm
E) Memurluktan çıkarılma

2. I. Adalet Bakanı-Adli Tıp Kurumu
II. İçişleri Bakanı- Emniyet Genel Müdürlüğü
III. Tarım ve Orman Bakanı-Orman Genel Müdürlüğü

Yukarıdakilerden hangileri arasındaki ilişki idari vesayettir?

A) Yalnız I B) Yalnız II C) Yalnız III
D) I ve II E) I, II ve III

3. Kamu kurum ve kuruluşlar kadrolarında yüzde kaç oranında engelli çalıştırmak zorundadır?

A) 3 B) 4 C) 5 D) 6 E) 7

4. Aşağıdakilerden hangisi Türkiye Cumhuriyeti devlet idaresinin görevlerinden biri değildir?

A) Para basılmasına karar vermek
B) Milli güvenliği korumak
C) Kolluk faaliyetlerini yürütmek
D) Kamu hizmetlerini yürütmek
E) Planlama faaliyetinde bulunmak

5. Hiyerarşi yetkisi ve kapsamı ile ilgili aşağıda belirtilenlerden hangisi yanlıştır?

A) Hiyerarşi kanunda öngörülmese de kullanılabilen bir yetkidir.
B) Hiyerarşi asta emir ve talimat verme yetkisini içerir.
C) Hiyerarşi aynı tüzel kişi içinde kullanılabilen, genel bir yetkidir.
D) Hiyerarşi de üst astın işlemlerini hukuka uygunluk ya da yerindelik açısından denetleyebilir.
E) Hiyerarşide astın, üstün işlemine karşı dava açma hakkı vardır.

6. I. İlçede sadece cumhurbaşkanını temsil eder.
II. Devleti temsil yetkisi yoktur.
III. Meslek memurudur.
IV. Cumhurbaşkanı onayı ile atanır.

Kaymakam ile ilgili yukarıda verilenlerden hangileri doğrudur?

A) I, II ve III B) II, III ve IV
C) I, III ve IV D) Yalnız IV
E) I, II, III ve IV

7. Yetki genişliği ilkesi aşağıdaki yönetim birimlerinin hangisinde kullanılır?

A) İl Özel İdaresi
B) Belediye İdaresi
C) Köy İdaresi
D) İlçe İdaresi
E) İl İdaresi

8. Hem merkezden idarede hem de yerinden idarede görev yapabilen amir aşağıdakilerden hangisidir?

A) Bakan yardımcısı
B) Belediye başkanı
C) Vali
D) Kaymakam
E) Cumhurbaşkanı yardımcıları

MURAT YAYINLARI

9. **Belediye idaresinin ve köy idaresinin kurulması için aranan nüfus sayısı en çok kaçtır?**

A) 5000-2000
B) 10000-3000
C) 7000-4000
D) 8000-5000
E) 9000-6000

10. **İl Özel İdaresinin en yüksek görüşme ve karar organı aşağıdakilerden hangisidir?**

A) Vali
B) İl idare kurulu
C) İl idare şube başkanlığı
D) İl genel meclisi
E) İl daimi encümeni

11. I. İl idaresinde cumhurbaşkanını temsil eder.
II. Cumhurbaşkanı kararı ile atanır.
III. Askeri kuvvetlerden yardım talep edebilir.
IV. İl idaresinin ve il özel idaresinin başı ve amiridir.

Vali ile ilgili yukarıda verilenlerden hangileri doğrudur?

A) I ve II B) III ve IV C) I, II ve III
D) II, III ve IV E) I, II, III ve IV

12. I. Muhtar
II. İhtiyar heyeti
III. Köy derneği

Yukarıda verilenlerden hangileri köy idaresinin organları arasında gösterilebilir?

A) Yalnız I B) Yalnız II C) Yalnız III
D) I ve III E) I, II ve III

13. **Belediye başkanı ile ilgili aşağıda yer alan ifadelerden hangisi doğru değildir?**

A) Belediye başkanını siyasi partiler aday gösterir ancak seçildikten sonra partisi ile olan bağı kesilir.
B) Belediye başkanının seçilebilme yeterlilikleri milletvekili ile aynıdır,sadece aday olduğu beldede en az altı ay ikamet etmelidir.
C) Belediye başkanının görevine kesin olarak son veren belediye meclisinin kararıdır.
D) Belediye başkanı belediye idaresinin başı, amiri, yürütme organıdır. Belediyenin meclis ve encümeninin de başkanlığını yapmaktadır.
E) Belediye başkanı, merkezi idarenin vesayet denetimine tabidir.

14. **İl özel idaresi ile ilgili aşağıda yer alan ifadelerden hangisi doğru değildir?**

A) Hem devlet hem de kamu tüzel kişiliği bulunmaktadır.
B) Kanun ile il idaresi kurulunca il özel idaresi de kendiliğinden kurulur.
C) İl özel idaresinin asli karar organı, il genel meclisidir.
D) İl özel idaresi taşra teşkilatında yer almaktadır.
E) Yönetmelik çıkarma yetkisine sahiptir.

MURAT YAYINLARI

/muratyayincilik

15. I. İl ve ilçe merkezlerinde kurulması zorunludur.
II. Nüfusu 5000 olmalıdır.
III. Cumhurbaşkanı onayı ile kurulur.

Belediye idaresi ile ilgili yukarıda verilenlerden hangileri doğrudur?

A) Yalnız I B) Yalnız II C) Yalnız III
D) I ve II E) I, II ve III

16. **Valilerin atanma şekli aşağıdakilerden hangisinde doğru olarak verilmiştir?**

A) Cumhurbaşkanı kararı
B) Cumhurbaşkanı onayı
C) İçişleri Bakanı kararı
D) İçişleri bakanının teklifi cumhurbaşkanının onayı
E) İçişleri bakanının teklifi cumhurbaşkanı kararı

17. **Bir ilin büyükşehir Belediyesi olabilmesi için toplam nüfusu ne kadar olmalıdır?**

A) 750.000 B) 600.000
C) 650.000 D) 700.000
E) 800.000

18. **Aşağıdakilerden hangisinde hiyerarşik ilişki yoktur?**

A) Vali-İl Emniyet Müdürü
B) Belediye başkanı-Belediye idaresi
C) Rektör-Dekan
D) Bakan-Vali
E) İçişleri Bakanı- Belediye Başkanı

19. I. Kültür ve Turizm bakanı-vakıflar genel müdürlüğü
II. Vali-belediye idaresi
III. Kaymakam-köy muhtarı

Yukarıda verilenlerden hangileri arasında idari vesayet bulunur?

A) Yalnız I B) Yalnız II C) Yalnız III
D) I ve II E) I, II ve III

20. **Aşağıdakilerden hangisi adli kolluğu temsil etmektedir?**

A) MİT
B) Vali
C) Kaymakam
D) İçişleri Bakanı
E) Cumhuriyet Savcısı

MURAT YAYINLARI

Açıklamalar • TEST 2

1. **C** Açığa alma memurluğun sona erme nedenleri arasında yer almaz. Memurluğun sona erme nedenleri şunlardır: Memurlukla bağdaşmayan bir görev üstlenmek, istifa, istifa etmiş sayılmak, memurluktan çıkarılma, memur olma şartlarını yitirmek, emeklilik ve ölüm

2. **C** Tarım ve Orman Bakanı devlet tüzel kişisidir, orman genel müdürlüğü ise kamu tüzel kişisidir. Bu farklı tüzel kişiliğe sahip ikili arasında idari vesayet ilişkisi bulunmaktadır. I ve II. öncüllerde verilenler arasında ise aynı tüzel kişiliğe sahip olan ikililer olduğu için hiyerarşi ilişkisi görülmektedir.

3. **A** Kamu kurum ve kuruluşlar kadrolarında yüzde üç oranında engelli çalıştırmak zorundadır. Bu oranın hesaplanmasında ilgili kurum ve kuruluşun yurt dışı teşkilat hariç toplam dolu kadro sayısı dikkate alınır.

4. **A** Para basılmasına karar vermek. T.C Devlet idaresinin görevleri, milli güvenliği korumak, kolluk faaliyetlerini yürütmek, kamu hizmetlerini yürütmek, özendirme ve destekleme faaliyetleri ile iç düzen faaliyetlerini yerine getirmek ve planlama yapmaktır. Para basılmasına karar vermek ise Anayasa'ya göre idarenin değil, TBMM'nin yetkisindedir.

5. **E** Hiyerarşide astın, üstün işlemlerine karşı dava açma hakkı vardır. Hiyerarşi, aynı tüzel kişinin içinde kullanılan, kanunda öngörülmese bile var olan, genel bir yetkidir. Yani üstün asta emir verebileceğinin kanunda belirtilmesine gerek yoktur. Bir makam bir başka makamın hiyerarşik amiri ise ona emir ve talimat verme hakkına sahiptir. Bu, işin doğasında mevcut, sıradan ve rutin bir yetkidir. Üst astının işleminin hukuka uygunluğunu da, yerindeliğini de denetleyebilir. İdari vesayette, vesayete tabi olanlar vesayet makamının işlemine karşı idari yargıda dava açabilirken hiyerarşide ast üstün işlemlerine itiraz da edemez, davada açamaz.

6. **E** Tüm öncüller doğrudur. Kaymakam; İlçede sadece cumhurbaşkanını temsil eder, Devleti temsil yetkisi yoktur, meslek memurudur, cumhurbaşkanı onayı ile atanır.

7. **E** Yetki genişliği ilkesi idarenin anayasal ilkeleri arasında yer almaktadır. Bu ilke sadece merkezi idarenin taşra teşkilatında il genel idaresinde kullanılır ve kullanma yetkisi de valiye aittir. Vali, bu ilke ile merkezdeki amirine danışmadan bazı kararları kendisi verir.

8. **C** Vali, hem merkezden idarenin il genel idaresinde hem de yerinden idarede il özel idaresinde görev yapan bir amirdir.

9. **A** Bir yerleşim biriminde belediye kurulması için aranan nüfus sayısı beş bin; yeni bir köy kurulması için aranan nüfus sayısı yüz elliden az olmamak ve iki binden çok olmamaktır.

10. **D** İl özel idaresinin karar organı il genel meclisidir. İl genel meclisi bütçe, imar planları, imtiyaz gibi konularda kararlar alır.

MURAT YAYINLARI

/muratyayincilik

11. **E** Tüm öncüller doğrudur. Vali, İl idaresinde cumhurbaşkanını temsil eder, cumhurbaşkanı kararı ile atanır, askeri kuvvetlerden yardım talep edebilir, il idaresinin ve il özel idaresinin başı ve amiridir.

12. **E** Köy idaresinin başı, amiri muhtardır. İhtiyar heyeti ve köy derneği diğer organlardır. Köy derneği köyün seçmen halkından meydana gelir. İhtiyar heyetinin doğal üyeleri imam ve öğretmendir.

13. **C** Belediye başkanı hakkında suç soruşturması varsa kesin hükme kadar görevinden uzaklaştıran İçişleri bakanı, görevine son veren ise Danıştaydır. Böylece başkanın görevinin sona ermesiyle meclis ve encümeninde görevi sona ermiş olur.

14. **D** İl özel idaresi taşra teşkilatında değil yerel yönetimler içerisinde yer almaktadır.

15. **D** Belediyeler cumhurbaşkanı onayı ile değil kararı ile kurulur. İl ve ilçe merkezlerinde belediye kurulması zorunludur ve aranan nüfus ise beş bindir.

16. **A** Valiler cumhurbaşkanı kararı ile atanır. Vali ilde hem devletin hem de cumhurbaşkanının temsilcisi ve istisnai memurdur.

17. **A** Toplam nüfusu 750.000'den fazla olan illerin il belediyeleri kanunla büyükşehir belediyesine dönüştürülebilir.

18. **E** Hiyerarşi aynı tüzel kişilik içinde görülmektedir. İçişleri Bakanı ve Belediye Başkanı farklı tüzel kişilik içinde yer aldığı için aralarında hiyerarşi değil idari vesayet görülmektedir.

19. **E** İdari vesayet, merkezden idarenin yerinden idare üzerindeki istisnai denetim yetkisidir. Vesayet ilişkisi farklı tüzel kişiler arasında görülmektedir. Bakan, kaymakam ve vali merkezden idarenin amiri ve devlet tüzel kişileridir. Vakıflar genel müdürlüğü, belediye idaresi ve köy muhtarı ise yerinden idarede yer alır aynı zamanda kamu tüzel kişileridir.

20. **E** Cumhuriyet savcısı ve adli polis adli kolluğu temsil eder. Adli kolluk kamu düzeni bozulduktan sonra devreye girer ve suçluları adalete teslim eder.

MURAT YAYINLARI

İdare Hukuku
• TEST 3

1. I. Memurlar
II. Sözleşmeli personel
III. İşçiler

Devlet memurları kanununa göre yukarıdakilerden hangileri eliyle kamu hizmetleri yerine getirilmektedir?

A) Yalnız I B) Yalnız II C) Yalnız III
D) I ve III E) I, II ve III

2. **Memur olma şartları ile ilgili aşağıdaki ifadelerden hangisi yanlıştır?**

A) En az üniversite mezunu olmak
B) Askerlik ile ilişiği bulunmamak
C) Sağlık engeli bulunmamak
D) En az on sekiz yaşını tamamlamış olmak
E) Kamu haklarından yoksun olmamak

3. **Aşağıdakilerden hangisi seçim ile iş başına gelmektedir?**

A) Vali
B) Belediye encümeni
C) İl encümeni
D) Muhtar
E) Büyükşehir belediye meclisi

4. I. Büyükşehir belediye başkanı
II. Büyükşehir belediye encümeni
III. İlçe belediye başkanı
IV. İl genel meclis üyeleri

Yukarıdakilerden hangileri doğrudan halk tarafından seçilmez?

A) I ve II B) Yalnız II C) III ve IV
D) II ve IV E) I, II, III ve IV

5. **Belediye idaresinin yürütme organı aşağıdakilerden hangisidir?**

A) Belediye başkanı
B) Belediye meclisi
C) Belediye encümeni
D) Belediye başkan yardımcısı
E) Belediye üst kurulu

6. **Aşağıdakilerden hangisi devlet memurluğunda liyakat ilkesini açıklamaktadır?**

A) Memurluğa girişte ve ilerlemede bilgi ve yeteneğin esas alınmasıdır.
B) Memurun bulunduğu sınıfında en yüksek derecelere yükselebilmesidir.
C) Memurluğun bireyin isteğine bağlı olmasıdır.
D) Memurların görevlerinin mahiyetine göre sınıflara ayırmaktır.
E) Her T.C vatandaşının memur olabilme hakkının bulunmasıdır.

MURAT YAYINLARI

/muratyayincilik

7. **Kamu tüzel kişilerinin değerli kağıtları halka satması ve halka borçlanılmasını öngören sözleşme türü aşağıdakilerden hangisidir?**

A) Kamu istikraz sözleşmesi
B) Kamu imtiyaz sözleşmesi
C) Mali iltizam sözleşmesi
D) İdari hizmet sözleşmesi
E) Yer altı ve yer üstü servetlere ilişkin sözleşmeler

8. **Aşağıdakilerden hangisi kamu kurumu niteliğindeki meslek kuruluşları arasında yer almamaktadır?**

A) Odalar B) Barolar
C) Birlikler D) Borsa
E) RTÜK

9. **Aşağıdakilerden hangisi bilimsel, teknik, kültürel kamu kurumları arasında gösterilemez?**

A) TRT
B) Üniversite
C) TÜBİTAK
D) Sosyal Güvenlik Kurumu
E) TSE

10. **Ülkemizde banka açmaya izin veren kuruluş aşağıdakilerden hangisidir?**

A) Bankacılık Düzenleme ve Denetleme Kurulu
B) Cumhurbaşkanı Yardımcıları
C) Merkez Bankası
D) Sayıştay
E) TBMM

11. I. Yönetmelik çıkarabilir.
II. Devlet tüzel kişisidir.
III. Yerinden idare üzerinde hiyerarşi yetkisi bulunur.

Bakanlıklar ile ilgili yukarıda verilenlerden hangileri doğrudur?

A) Yalnız I B) Yalnız II C) Yalnız III
D) I ve II E) I, II ve III

12. • Konusu suç teşkil eder.
• Bu emri veren ve yerine getiren sorumludur.

Yukarıda özellikleri verilen idari kavram aşağıdakilerden hangisidir?

A) Yetki genişliği
B) İdari vesayet
C) Hiyerarşi
D) Kanunsuz emir
E) Yetki aşımı

13. **Devlet memuru olmanın bireyin kendi isteğine bağlı olması hangi ilkenin sonucudur?**

A) Serbestlik
B) Eşitlik
C) Sınıflandırma
D) Liyakat
E) Kariyer

14. **Aşağıdakilerden hangisi idare hukukunun temel ilkeleri arasında yer almamaktadır?**

A) İdarenin bütünlüğü
B) Yetki genişliği
C) Hukuk devleti
D) Laiklik
E) Yetkide paralellik

MURAT YAYINLARI

15. **Aşağıdakilerden hangisi cumhurbaşkanlığına bağlı kurum ve kuruluşlar arasında yer almaz?**

A) Savunma Sanayi Başkanlığı
B) Diyanet İşleri Başkanlığı
C) Devlet Arşivler Başkanlığı
D) İletişim Başkanlığı
E) Kamu Denetçiliği

16. **Devlet memurları mazeretsiz olarak bir yılda toplam kaç gün göreve gelmez ise memurluktan çıkarılabilir?**

A) 20 B) 10 C) 30 D) 40 E) 50

17. **Köyde isteğe bağlı işleri zorunlu hale getiren aşağıdakilerden hangisidir?**

A) Köy derneği B) Muhtar
C) İhtiyar heyeti D) Köy korucusu
E) Köy azası

18. **Aşağıdakilerden hangisi il özel idaresinin en üst karar organıdır?**

A) İl encümeni
B) İl genel meclisi
C) İl idare kurulu
D) İl idare şube başkanlığı
E) İl genel idaresi

19. **Aşağıdakilerden hangisi yerel yerinden yönetim birimleri arasında gösterilemez?**

A) İl özel idaresi
B) Köy idaresi
C) İlçe idare kurulu
D) İl encümeni
E) Belediye meclisi

20. I. Kanun veya cumhurbaşkanlığı kararnamesiyle kurulur.
II. Merkezden idarenin kamu tüzel kişiliği bulunur.
III. Kamu tüzel kişileri üzerinde vesayet yetkisi kullanılır.

Kamu tüzel kişiliği ile ilgili yukarıda verilenlerden hangileri doğrudur?

A) Yalnız I B) Yalnız II C) Yalnız III
D) I ve III E) I, II ve III

MURAT YAYINLARI

Açıklamalar • TEST 3

1. **E** Devlet memurları kanununa göre, kamu hizmetleri memurlar, sözleşmeli personel, işçiler eliyle gördürülür. 2017 değişikliği ile geçici personel statüsü kaldırılmıştır. Geçici personel statüsü sözleşmeli personelin içine dahil edilmiştir.

2. **A** Memur olmak için en az ortaokul mezunu olmak yeterlidir. Belli bölümlerde yükseköğrenim aranmaktadır. Memur olma koşulları şunlardır: Taksirli suç hariç toplam bir yıl ve üzeri hüküm giymemiş olmak, zimmet, rüşvet, yüz kızartıcı suçlardan hüküm giymemiş olmak, Türkiye Cumhuriyeti vatandaşı olmak, güvenlik soruşturması ve arşiv araştırması yapılmış olmak, askerlik ile ilişiği bulunmamak, sağlık engeli bulunmamak, en az on sekiz yaşını tamamlamış olmak, kamu haklarından yoksun olmamak

3. **D** Vali ortak kararname ile atanır. Belediye encümeni belediye meclisinin kendi arasından yapacağı seçimle, il encümeni vali ve il genel meclisinin seçeceği üyelerle, büyükşehir belediye meclisi büyükşehir sınırları içindeki ilçe belediyelerinin üye tam sayılarının 1/5'inden oluşur. Muhtarı halk seçmektedir.

4. **B** Büyükşehir belediye encümen üyeleri halk tarafından seçilmez. Büyükşehir belediye başkanı, ilçe belediye başkanı ve meclis üyeleri, il genel meclis üyeleri, muhtar, cumhurbaşkanı, milletvekilleri, ihtiyar heyeti üyeleri doğrudan halk tarafından seçilir.

5. **A** Belediye idaresinin yürütme organ belediye başkanıdır. Belediye idaresinin en üst karar organı belediye meclisidir. Belediye idaresinin danışma ve müzakere organı belediye encümenidir.

6. **A** Memurların derece yükselmesi kariyer, memurluğa girişte ve ilerlemede bilgi ve yetenek esası liyakat, memurluğun bireyin isteğine bağlı olması serbestlik, her Türkiye Cumhuriyeti vatandaşının memur olabilme hakkının bulunması eşitlik ilkesidir.

7. **A** Bir kamu hizmetinin kar ve zararı işletene ait olmak üzere özel kişi tarafından kurulması ve belli süreyle işletilmesini öngören kamu imtiyaz sözleşmeleridir. Kamu tüzel kişilerinin değerli kağıtları halka satması ve halka borçlanılmasını sağlayan kamu istikraz sözleşmeleridir. Müteahhit adı verilen karşı tarafa götürü ya da orantılı kazanç karşılığında gördürülen sözleşmelere mali iltizam sözleşmesi denir. İdarenin işçi niteliği taşımayan kamu görevlileri ile kamu hizmetlerinin görülmesini öngören idari hizmet sözleşmesidir. Madenlerin işletilmesi gibi alanlarda ruhsat verilerek gerçekleştirilen sözleşmeler yer altı ve yer üstü servetlere ilişkin sözleşmelerdir.

8. **E** Radyo Televizyon Üst Kurulu, düzenleyici-denetleyici kurumlar arasında yer almaktadır.

9. **D** Sosyal Güvenlik Kurumu, sosyal kamu kurumları arasında yer almaktadır.

10. **A** Ülkemizde banka açmaya izin veren BDDK'dır (Bankacılık Düzenleme ve Denetleme Kurulu).

MURAT YAYINLARI

11. D Bakanların yerinden idare üzerinde hiyerarşi değil idari vesayet yetkisi bulunmaktadır. Bakanlıklar, devlet tüzel kişisidir. Bakanlıklar yönetmelik çıkarma yetkisine sahiptir.

12. D Üst ve ast arasındaki hiyerarşi ilişkisinde üst tarafından verilen ve konusu suç teşkil eden emir hiçbir durumda yerine getirilmemelidir. Bu emre kanunsuz emir denir ve iki tarafı da sorumlu kılar.

13. A Serbestlik ilkesi gereği devlet memuru olmak bireyin kendi isteğine bağlı olmasıdır. Devlet kimseyi memur olmaya zorlayamaz.

14. E 1982 Anayasası'na göre idarenin temel ilkeleri şunlardır:
- Laiklik
- Sosyal devlet
- Hukuk devleti
- Demokratik devlet
- İdarenin bütünlüğü ilkesi
- Yetki genişliği ilkesi
- Merkezden ve yerinden yönetim ilkesi

15. E Kamu denetçiliği TBMM başkanlığına bağlı olarak faaliyet gösterir. Cumhurbaşkanlığına bağlı kurum ve kuruluşlar şunlardır: Savunma Sanayi Başkanlığı, Devlet Denetleme Kurulu, Milli Güvenlik Kurulu Genel Sekreterliği, Milli İstihbarat Teşkilatı Başkanlığı, İletişim Başkanlığı, Strateji ve Bütçe Başkanlığı, Devlet Arşivler Başkanlığı, Saraylar İdaresi Başkanlığı, Türkiye Varlık Fonu, Diyanet İşleri Başkanlığı

16. A Devlet memurları mazeretsiz şekilde bir yılda toplam yirmi gün göreve gelmezse memurluktan çıkarılabilir.

17. A Köyde isteğe bağlı işleri zorunlu hale getiren köy derneğidir.

18. B İl özel idaresinin en üst karar organı il genel meclisidir.

MURAT YAYINLARI

19. C İlçe idare kurulu yerel yerinden değil merkezden idarenin taşra teşkilatının birimidir.

20. D Kamu tüzel kişiliği kanun veya cumhurbaşkanlığı kararnamesiyle kurulur. Kamu tüzel kişileri üzerinde vesayet yetkisi kullanılır. Merkezden idarenin kamu tüzel kişiliği yoktur.

Uluslararası Örgütler ve Güncel Gelişmeler • TEST 1

1. Aşağıdaki ülkelerden hangisi, Avrupa Birliği üyesi değildir?

A) Romanya B) Bulgaristan
C) Litvanya D) Rusya
E) Polonya

2. 2020 yılında Avrupa Birliği'nden çıkan ülke aşağıdakilerden hangisidir?

A) İngiltere B) Fransa
C) Rusya D) İtalya
E) Almanya

3. Birleşmiş Milletler'in çevre düzenlemesi ve planlaması konusunda uzman kuruluşu aşağıdakilerden hangisidir?

A) HABİTAT B) UNESCO
C) FAO D) WFP
E) IAEA

4. 2020 yılında İslam İşbirliği Teşkilatı'nın seçilen yeni Genel Sekreteri aşağıdakilerden hangisidir?

A) Hüseyin İbrahim Taha
B) Ahmed El Useymim
C) Azeddine Laraki
D) Habib Chatty
E) Hamid Algabid

5. 2016 yılı seçimlerinde Birleşmiş Milletler genel kurulu tarafından BM genel sekreterliğine seçilen aşağıdakilerden hangisidir?

A) Antonio Guterres
B) Ban Ki Moon
C) Kofi Annan
D) Stefan Mustira
E) Ebu Ceferi

6. Aşağıdakilerden hangisi Birleşmiş Milletler'in uzman kuruluşları arasında yer almamaktadır?

A) AGİT B) UNESCO
C) FAO D) HABİTAT
E) IMF

MURAT YAYINLARI

7. **16 Nisan 2017 tarihinde ülkemizde yapılan anayasa referandumu, tarihimizde yapılmış kaçıncı referandumdur?**

A) 2 B) 5 C) 6 D) 7 E) 9

8. **Aşağıdakilerden hangisi Avrupa Birliği'nin kurucu üyeleri arasında yer almamaktadır?**

A) Fransa B) Lüksemburg
C) Hollanda D) Belçika
E) Letonya

9. **Aşağıdakilerden hangisi AB'ye üye olup NATO'ya üyeliği bulunmamaktadır?**

A) Belçika B) Fransa
C) Almanya D) İtalya
E) Güney Kıbrıs

10. **Amacı yoksul insanları beslemek olan ve yoksullukla mücadeleyi özendiren, bunun için gıda yardımlarında bulunan BM'nin uzmanlık kuruluşu aşağıdakilerden hangisidir?**

A) FAO B) WFP
C) UNDP D) UNCTAD
E) UNWRA

11. **AB'ye üye ülkeleri ve vatandaşlarını temsil eden ve menfaatlerini gözeten AB organı aşağıdakilerden hangisidir?**

A) Avrupa Komisyonu
B) Avrupa Parlamentosu
C) AB Bakanlar Konseyi
D) AB Adalet Divanı
E) AB Sayıştayı

12. **Yerli imkanlarla üretilen ilk yerli savaş gemimizin adı aşağıdakilerden hangisidir?**

A) Heybeliada B) Gelibolu
C) İstanbul D) Mavi
E) Göktürk

13. **2015 yılında Türkiye Avrupa'ya doğal gaz taşıyacak TANAP Antlaşması'nı aşağıdaki devletlerin hangisi ile imzalamıştır?**

A) İran B) Azerbaycan
C) Rusya D) Gürcistan
E) Irak

14. **Cumhurbaşkanlığı hükümet sisteminin ilk cumhurbaşkanı yardımcısı aşağıdakilerden hangisidir?**

A) Fuat Oktay
B) Fahrettin Altun
C) Ali Erbaş
D) Naci Ağbal
E) Metin Kıratlı

MURAT YAYINLARI

/muratyayincilik

15. Aşağıdakilerden hangisi Şanghay İşbirliği Teşkilatı'nın üyeleri arasında yer almaz?

A) Rusya B) Azerbaycan
C) Hindistan D) Pakistan
E) Özbekistan

16. 2019 yılında Türk Kültür Ve Sanatları Ortak Yönetimi (TÜRKSOY) tarafından "Türk Konsey'i Ömür Boyu Onursal Başkanı" **ilan edilen devlet adamı aşağıdakilerden hangisidir?**

A) Cengiz Aytmatov
B) Nursultan Nazarbayev
C) Dusen Kaseinov
D) Gara Galiyev
E) Comert Tokayev

17. Sanayi ve Teknoloji Bakanlığına bağlı olarak faaliyet gösterecek olan Türkiye Uzay Ajansı aşağıdaki illerimizden hangisinde açılacaktır?

A) İstanbul B) İzmir
C) Ankara D) Bursa
E) Eskişehir

18. Dünya Hava Oyunları'na 2020 yılında ev sahipliği yapan ülke aşağıdakilerden hangisidir?

A) Fransa B) Japonya
C) Azerbaycan D) Türkiye
E) ABD

19. "Çingene Kızı" **mozaiği ve** "Zeugma Antik Kenti" **ile öne çıkan ilimiz aşağıdakilerden hangisidir?**

A) Gaziantep B) Şanlıurfa
C) Bolu D) Batman
E) Van

20. Türkiye'nin ilk yerli genel maksat helikopteri aşağıdakilerden hangisidir?

A) Atak B) Gökbey
C) Hürkuş D) Bayraktar
E) Yavuz

MURAT YAYINLARI

Açıklamalar • TEST 1

1. **D** Rusya, AB üyesi değildir. Romanya, Bulgaristan, Litvanya, Polonya ise AB üyesidir.

2. **A** 2020 yılında Avrupa Birliği'nden çıkan ülke İngiltere'dir. Böylece AB'nin üye sayısı 27 olarak güncellenmiştir.

3. **A** Birleşmiş Milletler'in çevre düzenlemesi ve planlaması konusunda uzman kuruluşu HABİTAT'tır. UNESCO eğitim, bilim, kültür kuruluşudur. FAO, gıda ve tarım örgütüdür. WFP, dünya gıda programıdır. IAEA, nükleer enerjinin barışçıl amaçlar doğrultusunda kullanılması ile ilgilenmektedir.

4. **A** 2020 yılında gerçekleştirilen seçim ile İslam İşbirliği Teşkilatı'nın seçilen yeni Genel Sekreteri Hüseyin İbrahim Taha'dır. Hüseyin İbrahim Taha Çad'ın adayı olarak seçimlere katılmıştır.

5. **A** 2016 yılı seçimlerinde Birleşmiş Milletler Genel Kurulu tarafından BM Genel Sekreterliğine seçilen isim Antonio Guterres'tir. Guterres, Portekiz eski başbakanıdır. Guterres bu göreve Ban Ki Moon'un yerine seçilmiştir.

6. **A** Avrupa Güvenlik ve İşbirliği Teşkilatı, Birleşmiş Milletler'in bir kuruluşu değildir.

7. **D** Türkiye, 2017'de 7. kez referanduma gitmiştir. Daha önce 1961, 1982, 1987, 1988, 2007 ve 2010 yıllarında anayasa değişikliği referandumları gerçekleştirilmiştir. 1961 referandumundan evet, 1982 referandumundan evet, 1987 referandumundan evet, 1988 referandumundan hayır 2007 referandumundan evet, 2010 referandumundan evet ve 2017 referandumunda da evet oyları sandıktan çıkmıştır.

8. **E** İkinci Dünya Savaşı'ndan sonra ekonomiyi yeniden yapılandırmak ve kalıcı barışı sağlamak amacıyla altı kurucu üye (Almanya, Fransa, İtalya, Belçika, Hollanda, Lüksemburg) tarafından Avrupa Kömür ve Çelik Topluluğu olarak 1951 yılında kurulmuştur.

9. **E** Güney Kıbrıs Rum Kesimi 2004 yılında AB'ye tam üye olmuştur. Fakat Güney Kıbrıs Rum kesiminin NATO'ya üyeliği yoktur.

10. **B** Amacı yoksul insanları beslemek olan ve yoksullukla mücadeleyi özendiren bunun için gıda yardımlarında bulunan BM'nin uzmanlık kuruluşu WFP- Dünya Gıda Programı'dır.

11. **B** AB'ye üye ülkeleri ve vatandaşlarını temsil eden ve menfaatlerini gözeten AB organı Avrupa Parlamentosu'dur.

12. **A** Yerli imkanlarla üretilen ilk yerli savaş gemimizin adı Heybeliada'dır.

13. **B** 2015 yılında Türkiye Avrupa'ya doğal gaz taşıyacak TANAP Antlaşması'nı Azerbaycan ile imzalamıştır.

14. **A** 2017 Anayasa değişikliği ile geçtiğimiz cumhurbaşkanlığı hükümet sisteminin ilk cumhurbaşkanı yardımcısı Fuat Oktay'dır.

15. **B** Azerbaycan, Şanghay İşbirliği Teşkilatı üyesi değildir. Teşkilatın sekiz üyesi şunlardır: Rusya, Çin, Özbekistan, Tacikistan, Kırgızistan, Kazakistan, Hindistan ve Pakistan

16. **B** 2019 yılında Nursultan Nazarbayev'e TÜRKSOY tarafından "Türk Konsey'i Ömür Boyu Onursal Başkan" unvanı verilmiştir.

17. **C** 2018 yılında Sanayi ve Teknoloji Bakanlığına bağlı olarak kurulan Türkiye Uzay Ajansı Ankara'da faaliyet gösterecektir.

18. **D** 2020 yılında Dünya Hava Oyunları Türkiye'nin ev sahipliğinde yapılmıştır.

19. **A** "Çingene Kızı" mozaiği ve "Zeugma Antik Kenti" ile öne çıkan ilimiz Gaziantep'tir.

20. **B** Türkiye'nin ilk yerli genel maksat helikopterinin adı "Gökbey"dir.

MURAT YAYINLARI

/muratyayincilik